מתמטיקה לחשבונאים א

פרק 20 - שימושי האינטגרל המסויים (שטח-אורך קשת)

תוכן העניינים

1. חישוב שטחים 1

חישוב שטחים

חישוב שטחים באמצעות האינטגרל (מקרים פרטיים)

1. שטח הכלוא בין גרף פונקציה וציר ה- x :

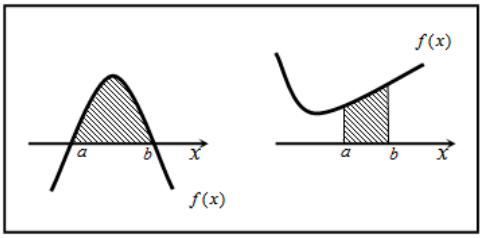

$$S=\int_a^b f(x)\,dx$$

2. שטח הכלוא בין שני גרפים, כך שגרף אחד כולו מעל השני:

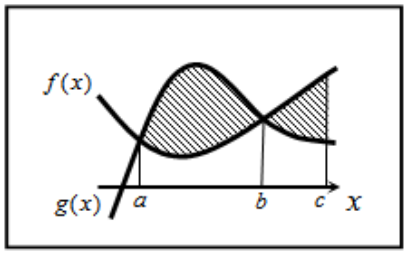

$$S_1=\int_a^b \left(g(x)-f(x)\right)dx$$

$$S_2=\int_b^c \left(f(x)-g(x)\right)dx$$

$$S=S_1+S_2$$

3. שטח הכלוא בין שני גרפים וציר ה- x :

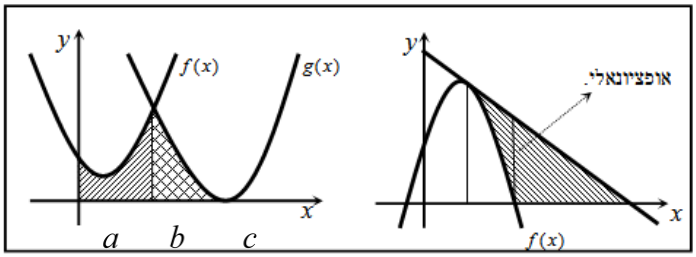

$$S=\int_a^b f(x)\,dx+\int_b^c g(x)\,dx$$

כתב ופתר – גיא סלומון ©

שאלות

1) נתונות הפונקציות $f(x)=x^2-4x-12$ ו- $g(x)=x-6$.
חשבו את גודל השטח הכלוא בין הגרפים של f ו- g.

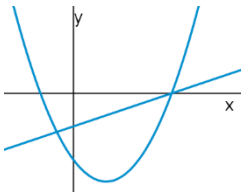

2) נתונות הפונקציות $g(x)=7-x^2$, $f(x)=x^2-1$.
חשבו את גודל השטח הכלוא בין הגרפים של f ו- g.

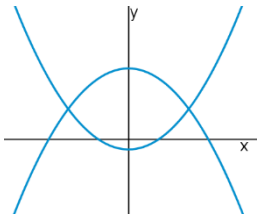

3) נתונות הפונקציות $f(x)=(x-2)^2$ ו- $g(x)=-(x-2)^2$,
כמתואר באיור.

א. התאימו בין הפונקציות לגרפים I ו-II.

ב. נסמן את השטחים שבין כל פונקציה והצירים
ב- S_1 ו- S_2, כמתואר באיור.
הראו כי השטחים S_1 ו- S_2 שווים זה לזה.

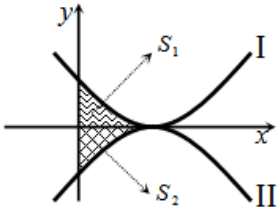

4) נתונות הפונקציות $g(x)=x^2-6x+9$, $f(x)=x^2-2x+1$.
חשבו את גודל השטח הכלוא בין הפונקציות ובין ציר ה- x.

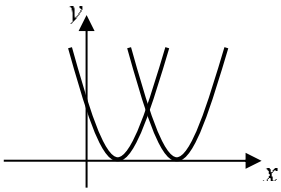

5) נתונה הפונקציה $f(x)=x^2+6x+12$.
ישר העובר בראשית הצירים חותך את גרף הפונקציה
בנקודה שבה $x=-4$, כמתואר באיור.

א. מצאו את משוואת הישר.

ב. מצאו את נקודת החיתוך השנייה של הישר והפונקציה

ג. מצאו את השטח המוגבל בין הישר, גרף הפונקציה, ציר ה- x והישר $x=-4$.

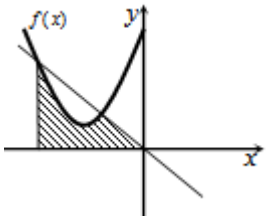

כתב ופתר – גיא סלומון ©

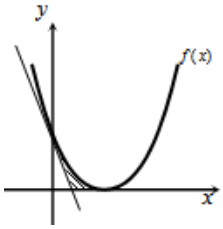

6) נתונה הפונקציה $f(x)=(x-2)^2$.
בנקודת החיתוך שלה עם ציר ה- y מעבירים משיק.

א. מצאו את משוואת המשיק.

ב. מצאו את נקודת החיתוך של המשיק עם ציר ה- x .

ג. חשבו את השטח הכלוא בין המשיק, גרף הפונקציה וציר ה- x (השטח המסומן).

תשובות סופיות

1) $57\frac{1}{6}$ יח"ש.

2) $21\frac{1}{3}$ יח"ש.

3) א. $f(x)=\text{I}$, $g(x)=\text{II}$ ב. שאלת הוכחה.

4) $\frac{2}{3}$ יח"ש.

5) א. $y=-x$ ב. $(-3,3)$ ג. $7\frac{5}{6}$ יח"ש.

6) א. $y=-4x+4$ ב. $(1,0)$ ג. $\frac{2}{3}$ יח"ש.

כתב ופתר – גיא סלומון ©