חשבון דיפרנציאלי ואינטגרלי א

פרק 23 - שימושי האינטגרל המסויים (נפח-שטח מעטפת)

תוכן העניינים

1. חישוב נפח גוף-סיבוב 1
2. חישוב שטח מעטפת גוף-סיבוב 4
3. חישוב נפח גוף כללי 5

חישוב נפח גוף-סיבוב

שאלות

1) השטח הכלוא בין גרף הפונקציות $y=x^2$ ו- $y=2x$ מסתובב סביב ציר ה- x.
חשבו את נפח הגוף המתקבל בשתי דרכים:
א. שיטת הדיסקות (cavalieri).
ב. שיטת הקליפות הגליליות.

2) השטח הכלוא בין גרף הפונקציות $y=x^2$ ו- $y=2x$ מסתובב סביב ציר ה- y.
חשבו את נפח הגוף המתקבל בשתי דרכים:
א. שיטת הדיסקות (cavalieri).
ב. שיטת הקליפות הגליליות.

השטח הכלוא בין גרף הפונקציה $f(x)=1-x^3$ והצירים, מסתובב סביב ציר כלשהו.
מצאו את נפח הגוף המתקבל בכל מקרה בשאלות **3-8**:

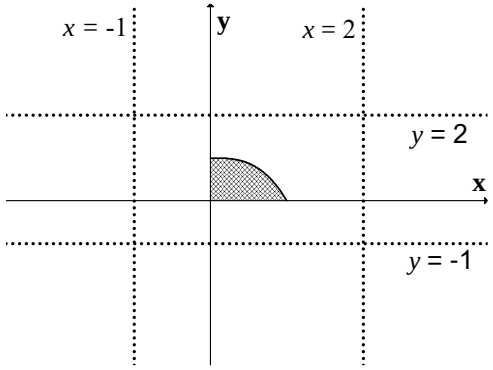

3) ציר ה- x.

4) הישר $y=-1$.

5) הישר $y=2$.

6) ציר ה- y.

7) הישר $x=-1$.

8) הישר $x=2$.

9) נסחו והוכיחו את הנוסחה לחישוב נפח גליל.

10) נסחו והוכיחו את הנוסחה לחישוב נפח חרוט.

11) נסחו והוכיחו את הנוסחה לחישוב נפח כדור.

לפתרון מלא בסרטוני וידאו היכנסו לאתר www.GooL.co.il
כתב ופתר – גיא סלומון ©

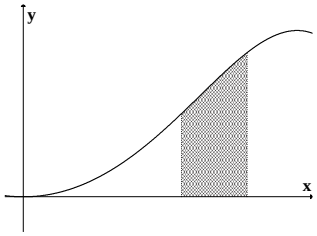

12) השטח הכלוא בין גרף הפונקציה $y=\sin\left(x^2\right)$
והישרים $y=0$, $x=\sqrt{\frac{\pi}{3}}$, $x=\sqrt{\frac{\pi}{6}}$,
מסתובב סביב ציר ה- y.
מהו נפח הגוף המתקבל?

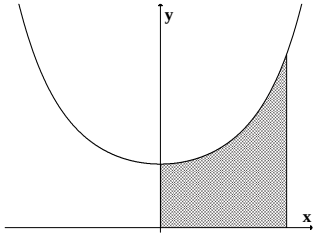

13) השטח הכלוא בין גרף הפונקציה $y=e^{x^2}$
והישרים $y=0,\ x=0,\ x=1$,
מסתובב סביב ציר ה- y.
מהו נפח הגוף המתקבל?

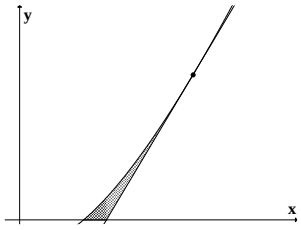

14) השטח הכלוא בין גרף הפונקציה $f\left(x\right)=x\ln x$,
המשיק לגרף בנקודה $\left(e,e\right)$ וציר ה- x,
מסתובב סביב ציר ה- x.
מהו נפח הגוף המתקבל?

15) השטח הכלוא בין הגרפים של $f(x)=x^2,\ f(x)=2x+8$, $x=0$
מסתובב סביב הישר $x=4$.
מצאו את נפח גוף הסיבוב שמתקבל.

כתב ופתר – גיא סלומון ©

תשובות סופיות

1) א. $\frac{64}{15}\pi$ ב. $\frac{64}{15}\pi$

2) א. $\frac{8}{3}\pi$ ב. $\frac{8}{3}\pi$

3) $\frac{9\pi}{14}$

4) $\frac{15\pi}{7}$

5) $\frac{33\pi}{14}$

6) $\frac{3\pi}{5}$

7) 2.1π

8) $\frac{12\pi}{5}$

9) $V=\pi R^2\cdot H$

10) $V=\frac{\pi R^2\cdot H}{3}$

11) $V=\frac{4}{3}\pi R^3$

12) $\frac{\pi}{2}\left(\sqrt{3}-1\right)$

13) $\pi\left(e-1\right)$

14) $\frac{e^3-4}{54}\pi$

15) 128π

כתב ופתר – גיא סלומון ©

חישוב שטח מעטפת של גוף-סיבוב

שאלות

1) הפונקציה $y=\sqrt{4-x^2}$, עבור $-1\le x\le 1$, מסתובבת סביב ציר ה- x .
מהו שטח המעטפת של הגוף שנוצר?

2) נסחו והוכיחו את הנוסחה לחישוב שטח מעטפת של חרוט.

3) נסחו והוכיחו את הנוסחה לחישוב שטח מעטפת של כדור.

4) הפונקציה $x=\sqrt{9-y^2}$, עבור $-2\le y\le 2$, מסתובבת סביב ציר ה- y .
מהו שטח המעטפת של הגוף שנוצר?

תשובות סופיות

1) 8π
2) $S=\pi R\sqrt{H^2+R^2}$
3) $S=4\pi R^2$
4) 24π

כתב ופתר – גיא סלומון ©

חישוב נפח גוף כללי

שאלות

1) מצאו נוסחה לחישוב נפח פירמידה ישרה, אשר גובהה h ובסיסה הוא ריבוע שאורך צלעו a.

2) חשבו את נפחה של פירמידה, שבסיסה הוא משולש ישר זווית (ראו איור).

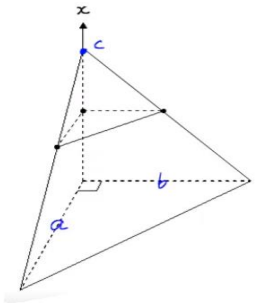

תשובות סופיות

1) $V=\frac{a^2h}{3}$

2) $\frac{abc}{6}$

כתב ופתר – גיא סלומון ©