# שיטות אנליטיות במדעי הקוגניציה

## פרק 27 - פונקציות של מספר משתנים - מבוא, קווי גובה, משטחי רמה

### תוכן העניינים


1. מבוא לפונקציה של שני משתנים ..... 1
2. קווי גובה לפונקציה של שני משתנים ..... 3
3. משטחי רמה לפונקציה של שלושה משתנים ..... 5
4. נספח – משטחים ממעלה שנייה ..... 6

# מבוא לפונקציה של שני משתנים

עבור כל אחת מהפונקציות הבאות:

א. מצאו את תחום ההגדרה $D$ של הפונקציה.

ב. שרטטו סקיצה של הקבוצה $D$.

**1)** $f(x,y)=\sqrt{5-x^2-y^2}+\ln(4y-x^2)$

**2)** $f(x,y)=\sqrt{x^2+y^2-4}+\frac{1}{\sqrt{x}}$

**3)** $f(x,y)=\sqrt{-x^2+y^2+1}+\frac{x+y}{x-y}$

**4)** $g(x,y)=\sqrt{x+4y}+\sqrt{x-4y}$

**5)** $f(x,y)=\frac{1}{\sqrt{x+4y}}+\frac{1}{\sqrt{x-4y}}$

**6)** $h(x,y)=\sqrt{x-\sqrt{y+4}}$

**7)** $f(x,y)=e^{xy}\sqrt{\ln\frac{4}{x^2+y^2}}+\sqrt{x^2+y^2-4}$

**8)** $z(x,y)=\frac{4}{\sqrt{1-|x|-|y|}}$

**9)** $z(x,y)=\ln\left(\frac{x-4y}{x+4y}\right)$

**10)** $f(x,y)=\ln\left[x\ln(y-4x)\right]$


לפתרון מלא בסרטוני וידאו היכנסו לאתר www.GooL.co.il
כתב ופתר – גיא סלומון ©

**11)** $u(x,y,z)=\frac{1}{\sqrt{x+4}}+\frac{1}{\sqrt{y-1}}+\frac{1}{\sqrt{z}}$ (ענו על סעיף א בלבד)

**12)** $f(x,y)=\tan\frac{y}{x}$ (רק לתלמידי מדעים מדויקים/הנדסה)

**13)** $f(x,y)=\frac{\arcsin\left(\frac{1}{4}x^2+\frac{1}{4}y^2\right)}{\ln\left(x^2+y^2-1\right)}$ (רק לתלמידי מדעים מדויקים/הנדסה)

## תשובות סופיות

**1)** $D=\left\{(x,y)\middle|\ \frac{1}{4}x^2\le y\le\sqrt{5-x^2}\right\}$

**2)** $D=\left\{(x,y)\,|\,x^2+y^2\ge 4\ ,\ x>0\right\}$

**3)** $D=\left\{(x,y)\,|\,x^2-y^2\le 1\ ,\ y\ne x\right\}$

**4)** $D=\left\{(x,y)\middle|\ -\frac{1}{4}x\le y\le\frac{1}{4}x\right\}$

**5)** $D=\left\{(x,y)\middle|\ -\frac{1}{4}x< y<\frac{1}{4}x\right\}$

**6)** $D=\left\{(x,y)\middle|\ -4\le y\le x^2-4\ ,\ x\ge 0\right\}$

**7)** $D=\left\{(x,y)\middle|\ x^2+y^2=4\right\}$

**8)** $D=\{(x,y)\,|\,|x|+|y|<1\}$

**9)** $D=\left\{(x,y)\middle|\frac{1}{4}x<y<-\frac{1}{4}x\ or\ -\frac{1}{4}x<y<\frac{1}{4}x\right\}$

**10)** $D=\{(x,y)\,|\,[x<0\,\text{and}\,4x<y<4x+1]\ \text{or}\ [x>0\ \text{and}\ y>4x+1]\}$

**11)** $D=\{(x,y,z)\,|\,x>-4,y>1,z>0\}$

**12)** $D=\left\{(x,y)\in R^2\middle|x\ne 0,\ y\ne\left(\frac{\pi}{2}+\pi k\right)x\ \ k\in\mathbb{Z}\right\}$

**13)** $D=\left\{(x,y)\middle|\ 1<\ x^2+y^2\ne 2\ <4\right\}$


לפתרון מלא בסרטוני וידאו היכנסו לאתר www.GooL.co.il
כתב ופתר – גיא סלומון ©

# קווי גובה לפונקציה של שני משתנים

עבור כל אחת מהפונקציות בשאלות **1-6**, מצאו תחום הגדרה, שרטטו אותו, ושרטטו את מפת קווי הגובה/רמה של הפונקציה:

**1)** $f(x,y)=\frac{y}{x}$

**2)** $f(x,y)=\ln x+\ln y$

**3)** $f(x,y)=x^2+y^2$

**4)** $f(x,y)=\sqrt{1-x^2-y^2}$

**5)** $f(x,y)=\ln(x^2-y)$

**6)** $f(x,y)=x\sqrt{y}$

עבור כל אחת מהפונקציות בשאלות **7-10** שרטטו מפת קווי גובה:

**7)** $f(x,y)=(x-1)^2+(y+3)^2$

**8)** $f(x,y)=e^{x-y}$

**9)** $f(x,y)=2\ln x+\ln y$

**10)** $f(x,y)=\min\{3x,y\}$

עבור כל אחת מהפונקציות בשאלות **11-13**, שרטטו את קו הגובה $k$:

**11)** $f(x,y)=(x-y)^2 \quad (k=0,4)$

**12)** $f(x,y)=\min\left\{y-x^2,x+y\right\} \quad (k=0,2)$

**13)** $f(x,y)=\begin{cases}x^2+3x-y-3 & x^2\geq y\\ -x^2+3x+y-3 & x^2<y\end{cases} \quad (k=1)$


לפתרון מלא בסרטוני וידאו היכנסו לאתר www.GooL.co.il
כתב ופתר – גיא סלומון ©

**14)** נתונה הפונקציה $f(x,y)=\begin{cases}x^2-y & x\le 1\\ 2x+y & x>1\end{cases}$.

א. שרטטו את קו הגובה $f(x,y)=0$.

ב. לאילו ערכי $C$ קו הגובה $f(x,y)=C$ הוא קו רציף?
ציירו את קו הגובה במקרה זה.

**הערות**

* בסוף קובץ זה תמצאו סיכום של כל המשטחים הנפוצים.
** קווי גובה = קווי רמה = עקומות אדישות = עקומות שוות ערך.

## תשובות סופיות

**1)** $x\neq 0$, המישור ללא ציר ה- $y$.

**2)** $x>0, y>0$, הרביע הראשון ללא הצירים.

**3)** כל המישור.

**4)** $x^2+y^2\le 1$, עיגול היחידה.

**5)** $y<x^2$

**6)** $y\ge 0$, חצי המישור העליון.

לפתרונות מלאים ושרטוטים של שאר השאלות, היכנסו לאתר : GooL.co.il


לפתרון מלא בסרטוני וידאו היכנסו לאתר www.GooL.co.il
כתב ופתר – גיא סלומון ©

# משטחי רמה לפונקציה של שלושה משתנים

## שאלות

**1)** נתונה הפונקציה $f(x,y,z)=\sqrt{4-x^2-y^2}-z$.
מצאו את משטח הרמה 2 של הפונקציה ושרטטו אותו.

**2)** נתונה הפונקציה $f(x,y,z)=z+x^2+y^2$.
מצאו את משטח הרמה 4 של הפונקציה ושרטטו אותו.

**3)** עבור כל אחת מהפונקציות הבאות מצאו את משטחי הרמה:

א. $f(x,y,z)=4^{x+y-z}$

ב. $f(x,y,z)=z-x^2-y^2$

**4)** נתונה הפונקציה $f(x,y,z)=\frac{x^2+y^2}{x^2+z^2}$.
מצאו את משטחי הרמה של הפונקציה.

**5)** נתונה הפונקציה $f(x,y,z)=z^2-y^2-x^2$.
מצאו את משטחי הרמה של הפונקציה.

## תשובות סופיות

**1)** חצי ספירה עליונה שמרכזה בנקודה $(0,0,-2)$ ורדיוסה 2.

**2)** פרבולואיד אליפטי שמרכזו בנקודה $(0,0,4)$ ונפתח כלפי מטה.

**3)** א. מישורים.
ב. משטח רמה $k$ הוא פרבולואיד אליפטי,
שמרכזו בנקודה $(0,0,k)$ ונפתח כלפי מעלה.

**4)** עבור $k<0$ לא קיים משטח רמה $k$.
עבור $k=0$ נקודה $(0,0,0)$. עבור $k=1$ מישורים.
עבור $k>1$ חרוט אליפטי שמרכזו על ציר ה- $y$.
עבור $0<k<1$ חרוט אליפטי שמרכזו על ציר ה- $z$.

**5)** עבור $k<0$ היפרבולואיד חד-יריעתי. עבור $k=0$ חרוט אליפטי.
עבור $k<0$ היפרבולואיד דו-יריעתי.


לפתרון מלא בסרטוני וידאו היכנסו לאתר www.GooL.co.il
כתב ופתר – גיא סלומון ©

# נספח – משטחים ממעלה שנייה

## אליפסואיד

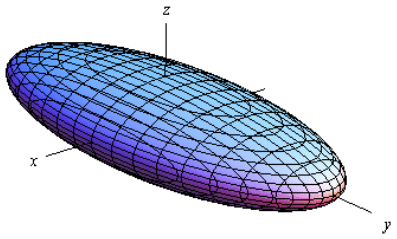


משוואה: $\frac{x^2}{a^2}+\frac{y^2}{b^2}+\frac{z^2}{c^2}=1$

תיאור: החתכים במישורי הקואורדינטות הם אליפסות; כך הם גם החתכים במישורים מקבילים. אם $a=b=c$, נקבל **כדור** עם רדיוס $a$ והחתכים הנ"ל הם מעגלים.

## חרוט אליפטי

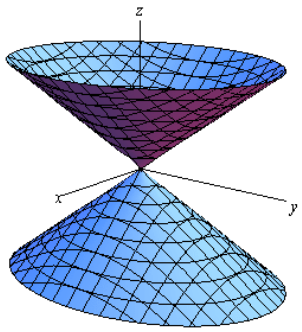


משוואה: $\frac{x^2}{a^2}+\frac{y^2}{b^2}=\frac{z^2}{c^2}$

תיאור: החתך במישור $xy$ הוא נקודה (הראשית); החתכים במישורים מקבילים למישור $xy$ הם אליפסות. החתכים במישור $xz$ ו- $yz$ הם זוג ישרים הנחתכים בראשית; החתכים במישורים מקבילים למישורים אלו הם היפרבולות.

* מרכז החרוט הוא על הציר המתאים למשתנה המופיע לבד באחד האגפים.

## גליל אליפטי

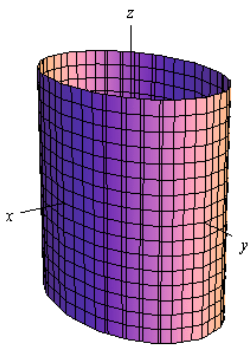


משוואה: $\frac{x^2}{a^2}+\frac{y^2}{b^2}=1$

תיאור: החתך במישור $xy$ הוא אליפסה; כך הם החתכים במישורים מקבילים למישור $xy$. החתכים במישור $xz$ ו- $yz$ הם זוג ישרים מקבילים וכך הם החתכים במישורים מקבילים למישורים אלו. במידה ומשוואת הגליל היא $x^2+y^2=r^2$, החתכים הנ"ל הם מעגלים.

* מרכז הגליל הוא על הציר המתאים למשתנה שאינו מופיע במשוואת הגליל.


לפתרון מלא בסרטוני וידאו היכנסו לאתר www.GooL.co.il
כתב ופתר – גיא סלומון ©

## היפרבולואיד חד-יריעתי

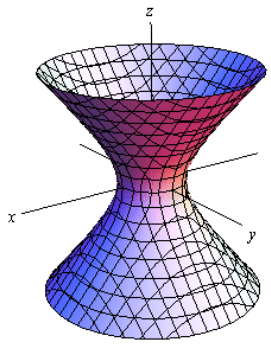


משוואה: $\frac{x^2}{a^2}+\frac{y^2}{b^2}-\frac{z^2}{c^2}=1$

תיאור: החתך במישור $xy$ הוא אליפסה; כך הם החתכים במישורים מקבילים למישור $xy$. החתכים במישור $xz$ ו- $yz$ הם היפרבולות; כך הם גם החתכים במישורים מקבילים למישורים אלו.

* מרכז היפרבולואיד חד-יריעתי הוא על הציר המתאים למשתנה שלפניו המינוס.

## היפרבולואיד דו-יריעתי

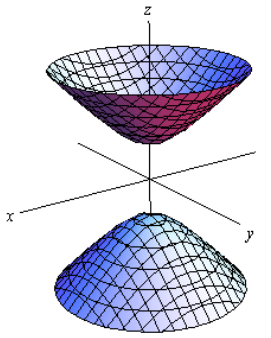


משוואה: $\frac{x^2}{a^2}+\frac{y^2}{b^2}-\frac{z^2}{c^2}=-1$

תיאור: למשטח זה אין חתך במישור $xy$; החתכים במישורים מקבילים למישור $xy$, החותכים את המשטח, הם אליפסות. החתכים במישור $xz$ ו- $yz$ הם היפרבולות; כך הם גם החתכים במישורים מקבילים למישורים אלו.

* מרכז היפרבולואיד דו-יריעתי הוא על הציר המתאים למשתנה שלפניו המינוס.

## פרבולואיד אליפטי

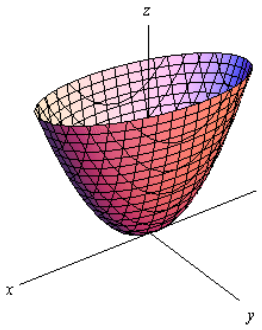


משוואה: $\frac{x^2}{a^2}+\frac{y^2}{b^2}=\frac{z}{c}$

תיאור: החתך במישור $xy$ הוא נקודה (הראשית); החתכים במישורים מקבילים למישור $xy$ ונמצאים מעליו הם אליפסות. החתכים במישור $xz$ ו- $yz$ הם פרבולות; כך הם גם החתכים במישורים מקבילים למישורים אלו.

* מרכז הפרבולואיד האליפטי הוא על הציר המתאים למשתנה המופיע ללא ריבוע.

* אם $c>0$ הפרבולואיד נפתח כלפי מעלה ואם $c<0$ הפרבולואיד נפתח כלפי מטה.


לפתרון מלא בסרטוני וידאו היכנסו לאתר www.GooL.co.il
כתב ופתר – גיא סלומון ©

## פרבולואיד היפרבולי

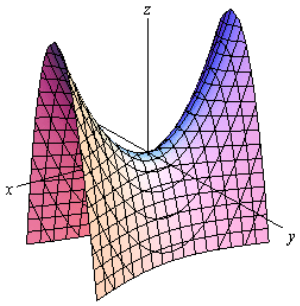


משוואה: $\frac{x^2}{a^2}-\frac{y^2}{b^2}=\frac{z}{c}$

תיאור: החתך במישור $xy$ הוא זוג ישרים נחתכים בראשית; החתכים במישורים מקבילים למישור $xy$ הם היפרבולות; אלו שמעל למישור $xy$ נפתחות בכיוון ציר ה- $y$ ואלו שמתחת למישור $xy$ נפתחות בכיוון ציר ה- $x$. החתכים במישור $xz$ ו- $yz$ הם פרבולות; כך הם גם החתכים במישורים מקבילים למישורים אלו.

* מרכז הפרבולואיד האליפטי הוא על הציר המתאים למשתנה המופיע ללא ריבוע.

* אם $c>0$ הפרבולואיד נפתח כלפי מעלה ואם $c<0$ הפרבולואיד נפתח כלפי מטה.

## דוגמאות שונות

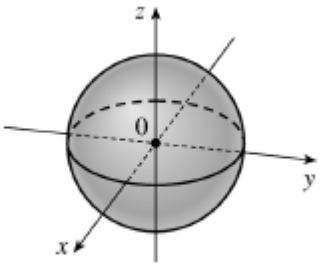


$x^2+y^2+z^2=1$

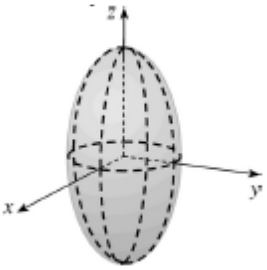


$\frac{x^2}{4}+\frac{y^2}{4}+\frac{z^2}{16}=1$

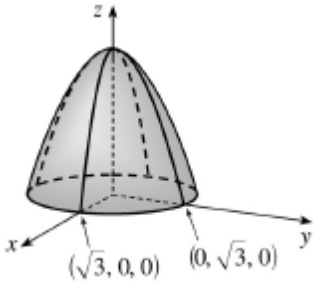


$z=3-x^2-y^2$

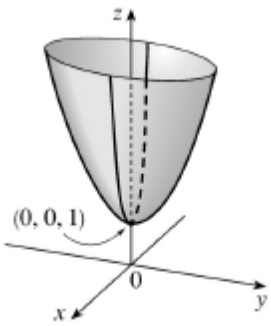


$z=4x^2+y^2+1$

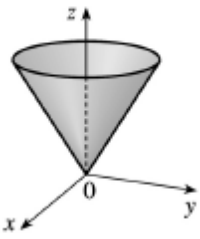


$z=\sqrt{x^2+y^2}$

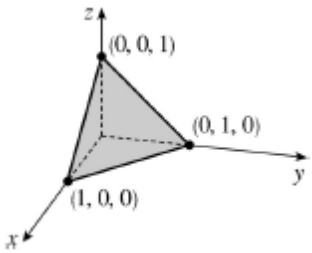


$x+y+z=1$


לפתרון מלא בסרטוני וידאו היכנסו לאתר www.GooL.co.il
כתב ופתר – גיא סלומון ©