חשבון דיפרנציאלי ואינטגרלי ב

פרק 7 - פונקציות של מספר משתנים - מבוא, קווי גובה, משטחי רמה

תוכן העניינים

1. מבוא לפונקציה של שני משתנים 1
2. קווי גובה לפונקציה של שני משתנים 3
3. משטחי רמה לפונקציה של שלושה משתנים 5
4. נספח – משטחים ממעלה שנייה 6

מבוא לפונקציה של שני משתנים

עבור כל אחת מהפונקציות הבאות:

א. מצאו את תחום ההגדרה D של הפונקציה.

ב. שרטטו סקיצה של הקבוצה D.

1) $f(x,y)=\sqrt{5-x^2-y^2}+\ln(4y-x^2)$

2) $f(x,y)=\sqrt{x^2+y^2-4}+\frac{1}{\sqrt{x}}$

3) $f(x,y)=\sqrt{-x^2+y^2+1}+\frac{x+y}{x-y}$

4) $g(x,y)=\sqrt{x+4y}+\sqrt{x-4y}$

5) $f(x,y)=\frac{1}{\sqrt{x+4y}}+\frac{1}{\sqrt{x-4y}}$

6) $h(x,y)=\sqrt{x-\sqrt{y+4}}$

7) $f(x,y)=e^{xy}\sqrt{\ln\frac{4}{x^2+y^2}}+\sqrt{x^2+y^2-4}$

8) $z(x,y)=\frac{4}{\sqrt{1-|x|-|y|}}$

9) $z(x,y)=\ln\left(\frac{x-4y}{x+4y}\right)$

10) $f(x,y)=\ln\left[x\ln(y-4x)\right]$

לפתרון מלא בסרטוני וידאו היכנסו לאתר www.GooL.co.il
כתב ופתר – גיא סלומון ©

11) $u(x,y,z)=\frac{1}{\sqrt{x+4}}+\frac{1}{\sqrt{y-1}}+\frac{1}{\sqrt{z}}$ (ענו על סעיף א בלבד)

12) $f(x,y)=\tan\frac{y}{x}$ (רק לתלמידי מדעים מדויקים/הנדסה)

13) $f(x,y)=\frac{\arcsin\left(\frac{1}{4}x^2+\frac{1}{4}y^2\right)}{\ln\left(x^2+y^2-1\right)}$ (רק לתלמידי מדעים מדויקים/הנדסה)

תשובות סופיות

1) $D=\left\{(x,y)\middle|\ \frac{1}{4}x^2\le y\le\sqrt{5-x^2}\right\}$

2) $D=\left\{(x,y)\,|\,x^2+y^2\ge 4\ ,\ x>0\right\}$

3) $D=\left\{(x,y)\,|\,x^2-y^2\le 1\ ,\ y\ne x\right\}$

4) $D=\left\{(x,y)\,|\ -\frac{1}{4}x\le y\le\frac{1}{4}x\right\}$

5) $D=\left\{(x,y)\,|\ -\frac{1}{4}x< y<\frac{1}{4}x\right\}$

6) $D=\left\{(x,y)\,|\ -4\le y\le x^2-4\ ,\ x\ge 0\right\}$

7) $D=\left\{(x,y)\,|\ x^2+y^2=4\right\}$

8) $D=\left\{(x,y)\,|\ |x|+|y|<1\right\}$

9) $D=\left\{(x,y)\middle|\frac{1}{4}x<y<-\frac{1}{4}x\ or\ -\frac{1}{4}x<y<\frac{1}{4}x\right\}$

10) $D=\left\{(x,y)\,|\,[x<0\,\text{and}\,4x<y<4x+1]\ \text{or}\ [x>0\ \text{and}\ y>4x+1]\right\}$

11) $D=\left\{(x,y,z)\,|\,x>-4, y>1, z>0\right\}$

12) $D=\left\{(x,y)\in R^2\middle|x\ne 0,\ y\ne\left(\frac{\pi}{2}+\pi k\right)x\ \ k\in\mathbb{Z}\right\}$

13) $D=\left\{(x,y)\middle|\ 1<\ x^2+y^2\ne 2\ <4\right\}$

כתב ופתר – גיא סלומון ©

קווי גובה לפונקציה של שני משתנים

עבור כל אחת מהפונקציות בשאלות **1-6**, מצאו תחום הגדרה, שרטטו אותו, ושרטטו את מפת קווי הגובה/רמה של הפונקציה:

1) $f(x,y)=\frac{y}{x}$

2) $f(x,y)=\ln x+\ln y$

3) $f(x,y)=x^2+y^2$

4) $f(x,y)=\sqrt{1-x^2-y^2}$

5) $f(x,y)=\ln(x^2-y)$

6) $f(x,y)=x\sqrt{y}$

עבור כל אחת מהפונקציות בשאלות **7-10** שרטטו מפת קווי גובה:

7) $f(x,y)=(x-1)^2+(y+3)^2$

8) $f(x,y)=e^{x-y}$

9) $f(x,y)=2\ln x+\ln y$

10) $f(x,y)=\min\{3x,y\}$

עבור כל אחת מהפונקציות בשאלות **11-13**, שרטטו את קו הגובה k:

11) $f(x,y)=(x-y)^2 \quad (k=0,4)$

12) $f(x,y)=\min\left\{y-x^2,x+y\right\} \quad (k=0,2)$

13) $f(x,y)=\begin{cases} x^2+3x-y-3 & x^2\ge y \\ -x^2+3x+y-3 & x^2<y \end{cases} \quad (k=1)$

כתב ופתר – גיא סלומון ©

14) נתונה הפונקציה $f(x,y)=\begin{cases} x^2-y & x\le 1 \\ 2x+y & x>1 \end{cases}$.

א. שרטטו את קו הגובה $f(x,y)=0$.

ב. לאילו ערכי C קו הגובה $f(x,y)=C$ הוא קו רציף?
ציירו את קו הגובה במקרה זה.

הערות

* בסוף קובץ זה תמצאו סיכום של כל המשטחים הנפוצים.
** קווי גובה = קווי רמה = עקומות אדישות = עקומות שוות ערך.

תשובות סופיות

1) $x\neq 0$, המישור ללא ציר ה- y .

2) $x>0, y>0$, הרביע הראשון ללא הצירים.

3) כל המישור.

4) $x^2+y^2\le 1$, עיגול היחידה.

5) $y<x^2$

6) $y\ge 0$, חצי המישור העליון.

לפתרונות מלאים ושרטוטים של שאר השאלות, היכנסו לאתר : GooL.co.il

כתב ופתר – גיא סלומון ©

משטחי רמה לפונקציה של שלושה משתנים

שאלות

1) נתונה הפונקציה $f(x,y,z)=\sqrt{4-x^2-y^2}-z$.
מצאו את משטח הרמה 2 של הפונקציה ושרטטו אותו.

2) נתונה הפונקציה $f(x,y,z)=z+x^2+y^2$.
מצאו את משטח הרמה 4 של הפונקציה ושרטטו אותו.

3) עבור כל אחת מהפונקציות הבאות מצאו את משטחי הרמה:
א. $f(x,y,z)=4^{x+y-z}$
ב. $f(x,y,z)=z-x^2-y^2$

4) נתונה הפונקציה $f(x,y,z)=\dfrac{x^2+y^2}{x^2+z^2}$.
מצאו את משטחי הרמה של הפונקציה.

5) נתונה הפונקציה $f(x,y,z)=z^2-y^2-x^2$.
מצאו את משטחי הרמה של הפונקציה.

תשובות סופיות

1) חצי ספירה עליונה שמרכזה בנקודה $(0,0,-2)$ ורדיוסה 2.

2) פרבולואיד אליפטי שמרכזו בנקודה $(0,0,4)$ ונפתח כלפי מטה.

3) א. מישורים.
ב. משטח רמה k הוא פרבולואיד אליפטי,
שמרכזו בנקודה $(0,0,k)$ ונפתח כלפי מעלה.

4) עבור $k<0$ לא קיים משטח רמה k.
עבור $k=0$ נקודה $(0,0,0)$. עבור $k=1$ מישורים.
עבור $k>1$ חרוט אליפטי שמרכזו על ציר ה- y.
עבור $0<k<1$ חרוט אליפטי שמרכזו על ציר ה- z.

5) עבור $k<0$ היפרבולואיד חד-יריעתי. עבור $k=0$ חרוט אליפטי.
עבור $k<0$ היפרבולואיד דו-יריעתי.

לפתרון מלא בסרטוני וידאו היכנסו לאתר www.GooL.co.il
כתב ופתר – גיא סלומון ©

נספח – משטחים ממעלה שנייה

אליפסואיד

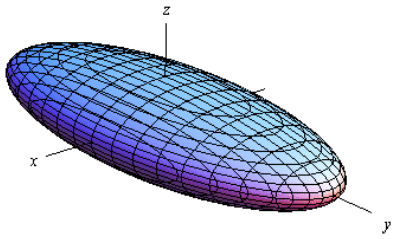

משוואה: $\frac{x^2}{a^2}+\frac{y^2}{b^2}+\frac{z^2}{c^2}=1$

תיאור: החתכים במישורי הקואורדינטות הם אליפסות; כך הם גם החתכים במישורים מקבילים. אם $a=b=c$, נקבל **כדור** עם רדיוס a והחתכים הנ"ל הם מעגלים.

חרוט אליפטי

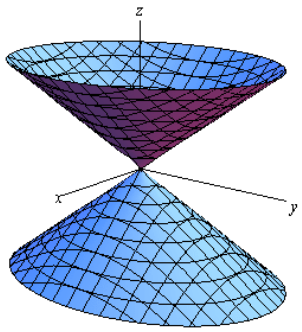

משוואה: $\frac{x^2}{a^2}+\frac{y^2}{b^2}=\frac{z^2}{c^2}$

תיאור: החתך במישור xy הוא נקודה (הראשית); החתכים במישורים מקבילים למישור xy הם אליפסות. החתכים במישור xz ו- yz הם זוג ישרים הנחתכים בראשית; החתכים במישורים מקבילים למישורים אלו הם היפרבולות.

* מרכז החרוט הוא על הציר המתאים למשתנה המופיע לבד באחד האגפים.

גליל אליפטי

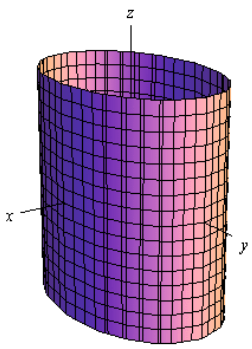

משוואה: $\frac{x^2}{a^2}+\frac{y^2}{b^2}=1$

תיאור: החתך במישור xy הוא אליפסה; כך הם החתכים במישורים מקבילים למישור xy. החתכים במישור xz ו- yz הם זוג ישרים מקבילים וכך הם החתכים במישורים מקבילים למישורים אלו. במידה ומשוואת הגליל היא $x^2+y^2=r^2$, החתכים הנ"ל הם מעגלים.

* מרכז הגליל הוא על הציר המתאים למשתנה שאינו מופיע במשוואת הגליל.

כתב ופתר – גיא סלומון ©

היפרבולואיד חד-יריעתי

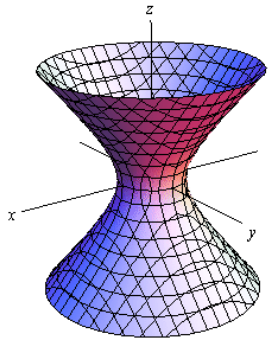

משוואה: $\frac{x^2}{a^2}+\frac{y^2}{b^2}-\frac{z^2}{c^2}=1$

תיאור: החתך במישור xy הוא אליפסה; כך הם החתכים במישורים מקבילים למישור xy. החתכים במישור xz ו- yz הם היפרבולות; כך הם גם החתכים במישורים מקבילים למישורים אלו.

* מרכז היפרבולואיד חד-יריעתי הוא על הציר המתאים למשתנה שלפניו המינוס.

היפרבולואיד דו-יריעתי

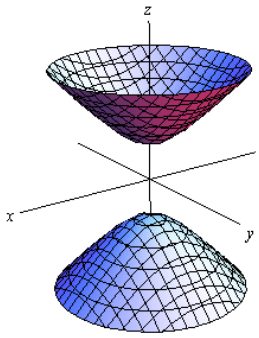

משוואה: $\frac{x^2}{a^2}+\frac{y^2}{b^2}-\frac{z^2}{c^2}=-1$

תיאור: למשטח זה אין חתך במישור xy; החתכים במישורים מקבילים למישור xy, החותכים את המשטח, הם אליפסות. החתכים במישור xz ו- yz הם היפרבולות; כך הם גם החתכים במישורים מקבילים למישורים אלו.

* מרכז היפרבולואיד דו-יריעתי הוא על הציר המתאים למשתנה שלפניו המינוס.

פרבולואיד אליפטי

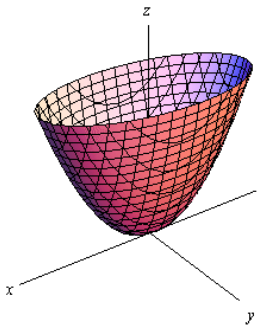

משוואה: $\frac{x^2}{a^2}+\frac{y^2}{b^2}=\frac{z}{c}$

תיאור: החתך במישור xy הוא נקודה (הראשית); החתכים במישורים מקבילים למישור xy ונמצאים מעליו הם אליפסות. החתכים במישור xz ו- yz הם פרבולות; כך הם גם החתכים במישורים מקבילים למישורים אלו.

* מרכז הפרבולואיד האליפטי הוא על הציר המתאים למשתנה המופיע ללא ריבוע.

* אם $c>0$ הפרבולואיד נפתח כלפי מעלה ואם $c<0$ הפרבולואיד נפתח כלפי מטה.

כתב ופתר – גיא סלומון ©

פרבולואיד היפרבולי

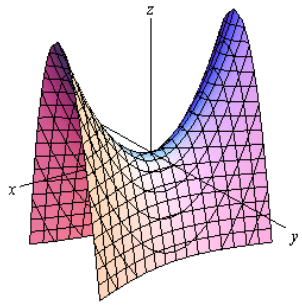

משוואה: $\frac{x^2}{a^2}-\frac{y^2}{b^2}=\frac{z}{c}$

תיאור: החתך במישור xy הוא זוג ישרים נחתכים בראשית; החתכים במישורים מקבילים למישור xy הם היפרבולות; אלו שמעל למישור xy נפתחות בכיוון ציר ה- y ואלו שמתחת למישור xy נפתחות בכיוון ציר ה- x.

החתכים במישור xz ו- yz הם פרבולות; כך הם גם החתכים במישורים מקבילים למישורים אלו.

* מרכז הפרבולואיד האליפטי הוא על הציר המתאים למשתנה המופיע ללא ריבוע.

* אם $c>0$ הפרבולואיד נפתח כלפי מעלה ואם $c<0$ הפרבולואיד נפתח כלפי מטה.

דוגמאות שונות

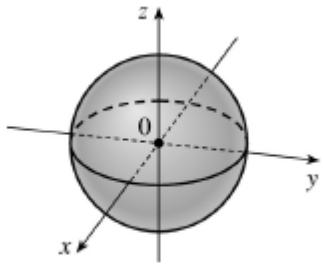

$x^2+y^2+z^2=1$

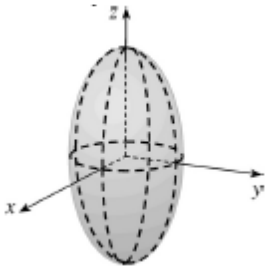

$\frac{x^2}{4}+\frac{y^2}{4}+\frac{z^2}{16}=1$

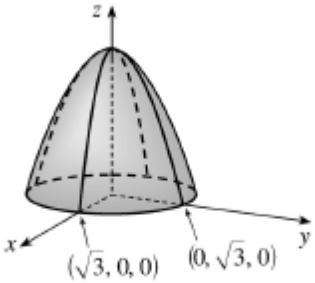

$z=3-x^2-y^2$

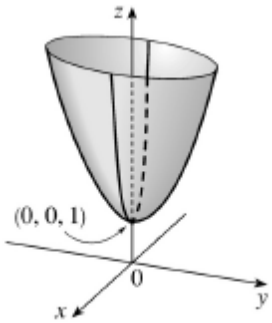

$z=4x^2+y^2+1$

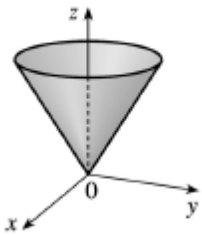

$z=\sqrt{x^2+y^2}$

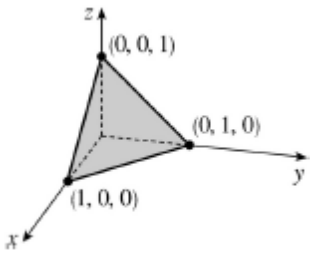

$x+y+z=1$

כתב ופתר – גיא סלומון ©