כלכלה תעשייתית הנדסת תעשיה וניהול

פרק 8 - עקומת תמורה ומסחר בינלאומי

תוכן העניינים

1. כללי 1

עקומת תמורה ומסחר בינלאומי:

שאלות:

1) להלן מספר טענות לגבי עקומת התמורה:

א. עקומת התמורה תגדל (תצא החוצה) אם תקטן האבטלה במשק.
ב. עקומת התמורה תגדל (תצא החוצה) אם המשק יעבור ממצב לא יעיל למצב יעיל.
ג. עקומת התמורה תגדל (תצא החוצה) אם יחול שיפור טכנולוגי בייצור אחד המוצרים.
ד. עקומת התמורה תגדל (תצא החוצה) יקטן מספר העובדים.
ה. עקומת התמורה תגדל (תצא החוצה) אם המשק יקבל מענק מאחד המוצרים.

2) משק מייצר את מוצר X ומוצר Y באמצעות עובדים בלבד.
להלן מספר טענות לגבי המשק כאשר הוא מייצר משני המוצרים ונמצא על עקומת התמורה:

א. המשק מייצר באופן יעיל ולכן הגדלת הייצור של מוצר X מחייבת ויתור על מוצר Y.
ב. ההוצאה האלטרנטיבית השולית לייצור כל אחד מן המוצרים יכולה להיות חיובית או אפס.
ג. המשק מייצר באופן יעיל ולכן ניתן להגדיל את הייצור של מוצר אחד מבלי להקטין את הייצור של המוצר השני.
ד. על מנת להגדיל ייצור מוצר X אפשר להעביר עובדים מייצור מוצר X לייצור מוצר Y.

3) להלן תרשים של עקומת תמורה ומספר נקודות הנמצאות ביחס מסוים לעקומה:

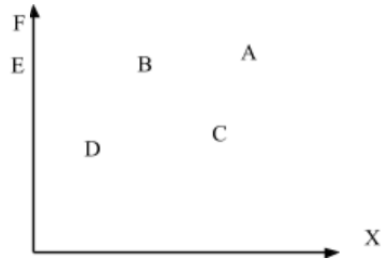

להלן מספר טענות לגבי התרשים:

א. הייצור בנקודה E אינו יעיל יותר מהייצור בנקודה B.
ב. הייצור בנקודה A יעיל יותר מהייצור בנקודה B.
ג. הייצור בנקודה C יעיל יותר מהייצור בנקודה B.
ד. הייצור בנקודה D יעיל יותר מהייצור בנקודה B.

לפתרון מלא בסרטוני וידאו היכנסו ל-www.GooL.co.il
כתב ופתר – עופר לוי ©

4) להלן תרשים של עקומת תמורה ומספר נקודות הנמצאות ביחס מסוים לעקומה:

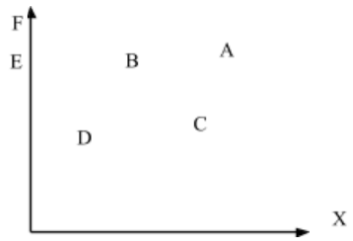

להלן מספר טענות לגבי התרשים:

א. ההוצאה האלטרנטיבית השולית לייצור מוצר X חיובית בנקודות D ו-E.
ב. ההוצאה האלטרנטיבית השולית לייצור מוצר X חיובית בנקודות B ו-C.
ג. במעבר מנקודה D לנקודה B, ניתן להגדיל את ייצור מוצר Y רק ע"י ויתור על מוצר X.
ד. במעבר מנקודה C לנקודה B, ההוצאה האלטרנטיבית השולית לייצור מוצר X גדלה.

5) להלן תרשים של עקומת תמורה ומספר נקודות הנמצאות ביחס מסוים לעקומה:

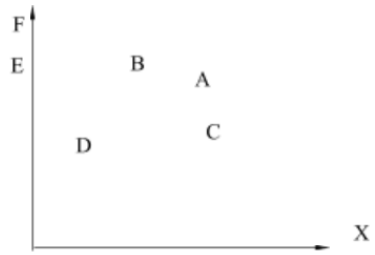

להלן מספר טענות לגבי התרשים:

א. שיפור טכנולוגי בייצור מוצר X יכול לאפשר למשק לייצר בנקודה F.
ב. שיפור טכנולוגי בייצור מוצר Y לא יכול להביא לגידול בייצור שני המוצרים.
ג. אם, במצב המוצא, המשק מייצר בנקודה E, אזי שיפור טכנולוגי בייצור מוצר X לא יכול להביא לגידול בייצור שני המוצרים.
ד. מענק שהמשק מקבל ממוצר X יכול להביא את המשק לייצר בנקודה A.

6) להלן מספר טענות לגבי עקומת התמורה:

א. גידול בכמות גורמי הייצור תגדיל בהכרח את עקומת התמורה.
ב. ייצור יעיל מחייב תעסוקה מלאה של כל גורמי הייצור.
ג. אם המשק נמצא על גבול אפשרויות הייצור הוא מייצר באופן יעיל.
ד. אם חלק מגורמי הייצור מובטלים, הרי שניתן להגדיל את התפוקה של מוצר אחד ללא ויתור על המוצר השני.

7) להלן מספר טענות לגבי עקומת התמורה של משק בעל גורם ייצור יחיד (עבודה).
איזו מהטענות הבאות אינה נכונה:
א. גידול בכמות גורמי הייצור תגדיל בהכרח את עקומת התמורה.
ב. ייצור יעיל מחייב תעסוקה מלאה של כל גורמי הייצור.
ג. אם המשק נמצא על גבול אפשרויות הייצור הוא מייצר באופן יעיל.
ד. אם חלק מגורמי הייצור מובטלים, הרי שההוצאה האלטרנטיבית השולית לייצור יחידת מוצר נוספת היא חיובית.

8) משק מייצר את מוצר X ומוצר Y באמצעות עובדים בלבד. להלן מספר טענות:
א. אם הכמויות המקסימליות שהמשק יכול לייצר משני המוצרים שוות, אזי ההוצאה האלטרנטיבית השולית לייצור מוצר X שווה 1.
ב. אם המשק מייצר כמויות שוות משני המוצרים, אזי ההוצאה האלטרנטיבית השולית לייצור מוצר X שווה 1.
ג. אם הכמויות המקסימליות שהמשק יכול לייצר משני המוצרים שוות, אזי ההוצאה האלטרנטיבית הממוצעת לייצור מוצר X שווה 1, אם המשק מייצר רק את מוצר X.
ד. אם המשק מייצר כמויות שוות משני המוצרים, אזי ההוצאה האלטרנטיבית השולית לייצור מוצר X שווה 1, רק אם עקומת התמורה ליניארית.

9) במשק הישראלי מייצרים מוצרי מזון ומוצרי בידור. כעת החליטו להעביר חלק מן הפועלים מייצור מזון לייצור מוצרי בידור. התברר שתפוקת מוצרי הבידור גדלה בעוד תפוקת מוצרי המזון לא השתנתה.
איזו מן הטענות הבאות המתייחסת למעבר הפועלים אינה נכונה:
א. במצב המוצא, הייצור במשק לא היה יעיל.
ב. התפוקה השולית של הפועלים שהועברו הייתה חיובית בשני המוצרים.
ג. התפוקה השולית של הפועלים שהועברו הייתה חיובית בייצור מוצרי בידור ואפס בייצור מוצרי מזון.
ד. ההוצאה האלטרנטיבית השולית לייצור מוצרי בידור הייתה אפס.

10) אם ידוע שהמשק מייצר תמיד כמויות חיוביות משני המוצרים ונמצא על עקומת התמורה, אזי:
א. ההוצאה האלטרנטיבית השולית בייצור שני המוצרים גדולה מאפס.
ב. אם בנוסף נתון שהמשק מייצר כמות שווה משני המוצרים, אזי ההוצאה האלטרנטיבית השולית שווה ל-1.
ג. אם בנוסף נתון שחלק מגורמי הייצור אינם מועסקים, אזי המשק אינו מייצר ביעילות.
ד. גידול בכמות של אחד מגורמי הייצור יביא בהכרח לגידול בכמות המיוצרת ממוצר Y.

11) משק מייצר את מוצר X ומוצר Y באמצעות עובדים בלבד.
ידוע שהתפוקה השולית של העובדים קבועה בשני המוצרים.
איזו מן הטענות הבאות אינה נכונה:
א. עקומת התמורה של המשק ליניארית.
ב. ההוצאה האלטרנטיבית השולית לייצור מוצר X קבועה ושווה להוצאה האלטרנטיבית השולית לייצור מוצר Y.
ג. אם הכמויות המקסימליות שהמשק יכול לייצר משני המוצרים שוות, אזי ההוצאה האלטרנטיבית השולית לייצור מוצר X שווה 1.
ד. ההוצאה האלטרנטיבית השולית לייצור מוצר X שווה להוצאה האלטרנטיבית הממוצעת לייצור מוצר X.

12) להלן מספר טענות לגבי עקומת התמורה:
1. אם התפוקה השולית של גורם הייצור חיובית וקבועה בייצור שני המוצרים, עקומת התמורה תהיה ליניארית.
2. רק אם התפוקה השולית של גורם הייצור חיובית ופוחתת בייצור שני המוצרים, עקומת התמורה תהיה קמורה (רגילה).
3. אם קיימים שני גורמי ייצור שונים והתפוקה השולית של שני גורמי הייצור חיובית וקבועה בייצור שני המוצרים, עקומת התמורה תהיה קו שבור בעל שני קטעים.

א. רק טענה 1 נכונה.
ב. רק טענה 2 נכונה.
ג. רק טענה 3 נכונה.
ד. טענות 1 ו-2 נכונות.

תשובות סופיות:

1) ג'	**2)** א'	**3)** א'	**4)** ב'	**5)** ג'
6) ג'	**7)** ד'	**8)** ג'	**9)** ב'	**10)** א'
11) ב'	**12)** א'			