כימיה אורגנית

פרק 7 - סטריאוכימיה

תוכן העניינים

1. כללי 1

סטריאוכימיה:

שאלות:

1) קבעו את הקונפיגורציה האבסולוטית של המולקולות הבאות:

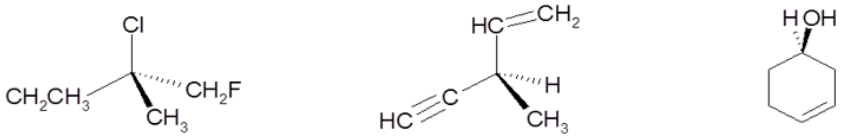

2) ציירו קונפיגורציית פישר עבור התרכובות הבאות, וקבעו את הקונפיגורציה האבסולוטית:

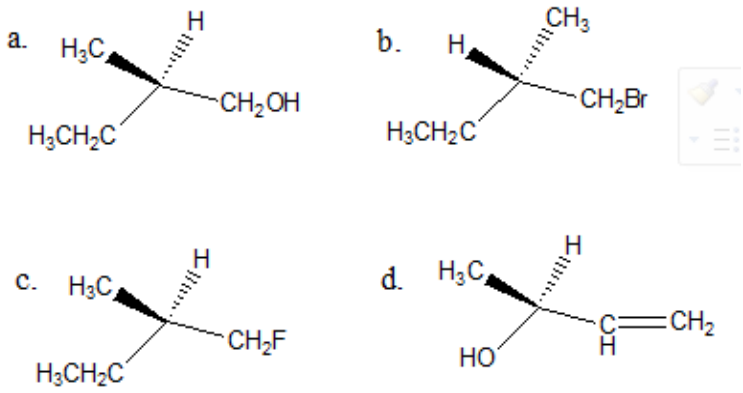

3) חשב/חשבי את $[\alpha]_D$ עבור החומרים הבאים:

א. תמיסת 0.5M של 2-chloropentane בכלורופורם ($CHCl_3$) בתא של 5cm נותנת זווית סיבוב של α=+3.64 .

ב. תמיסה המכילה 1.92gr של 2-bromooctane ב-10ml אתר נותנת זווית סיבוב $\alpha = -3.6°$ בתא באורך של 5cm.

4) התקבלה תערובת אננטיומרים בעלת $[\alpha]_D = 310°$ בטמפרטורה 22°C .
ידוע בספרות שאננטיומר אחד בעל קונפיגורציה R באותה טמפרטורה נותן $[\alpha]_D = 357°$. מהו הניקיון האופטי (%ee) ומהוא האחוז של כל אננטיומר בתערובת?

5) R-Glycidol טהור אופטית בעל זווית סיבוב ספציפית $[\alpha]_D = 12°$ (ללא ממס).

א. מה תהיה זווית הסיבוב הנמדדת של דוגמא של החומר בה 75% הוא אננטיומר ה-R והשאר אננטיומר ה-S?

ב. מה תהיה זווית הסיבוב הנמדדת של דוגמא של החומר בה 75% הוא אננטיומר ה-S והשאר R-pinene $\left([\alpha]_D = 50.7°\right)$?
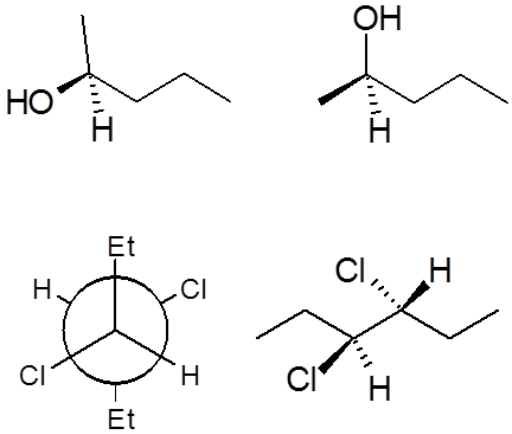
6) קבעו את הקונפיגורציה האבסולוטית עבור כל אחד מהמרכזים הכיראלים בחומרים הבאים וציין/ציינו עבור כל זוג חומרים את היחס בינם (אננטיומרים, דיאסטריומרים וכו').