# סטטיסטיקה

## פרק 4 - סטטיסטיקה תיאורית - מדדי מיקום מרכזי

תוכן העניינים

1. כללי ..... 1

# סטטיסטיקה תיאורית – מדדי מיקום מרכזי:

## רקע:

המטרה במדדי המיקום המרכזי היא למדוד את מרכז ההתפלגות של התצפיות.

### השכיח – Mode:

השכיח הוא הערך הנפוץ ביותר בהתפלגות.

### ברשימה

הערך החוזר על עצמו הכי הרבה פעמים: 6, 10, 4, 8, 4, 9, 7.

### בטבלת שכיחויות בדידה

הערך שהשכיחות שלו היא הגבוהה ביותר.

| # תוכניות החיסכון | $f(x)$ |
|---|---|
| 0 | 100 |
| 1 | 75 |
| 2 | 25 |
| 3 | 25 |
| 4 | 25 |

### בדיאגרמת מקלות

שיעור ה- $X$ של המקל הגבוה ביותר.

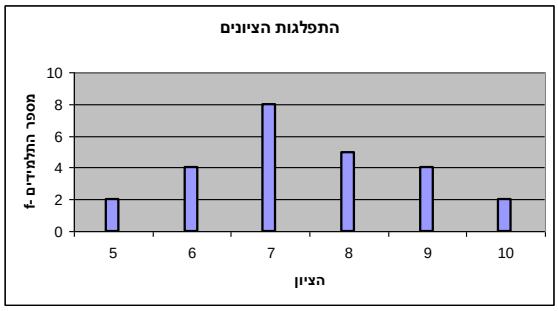



© כל הזכויות שמורות לברק קנדל

**בעוגה**

הערך של הפלח הגדול ביותר.

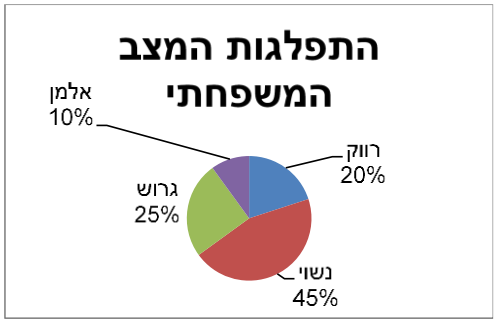


**בטבלת שכיחויות במחלקות**

אמצע המחלקה עם הצפיפות הגבוהה ביותר.
לדוגמה, התפלגות הציונים בכיתה:

| $f(x)$ | $X$ |
|---|---|
| 20 | 0-60 |
| 10 | 60-70 |
| 18 | 70-80 |
| 15 | 80-90 |
| 15 | 90-100 |

**בהיסטוגרמה**

שיעור ה- $X$ של אמצע המחלקה הגבוהה ביותר.

לדוגמה, גיל המטופלים של ד"ר שוורץ בשנים:

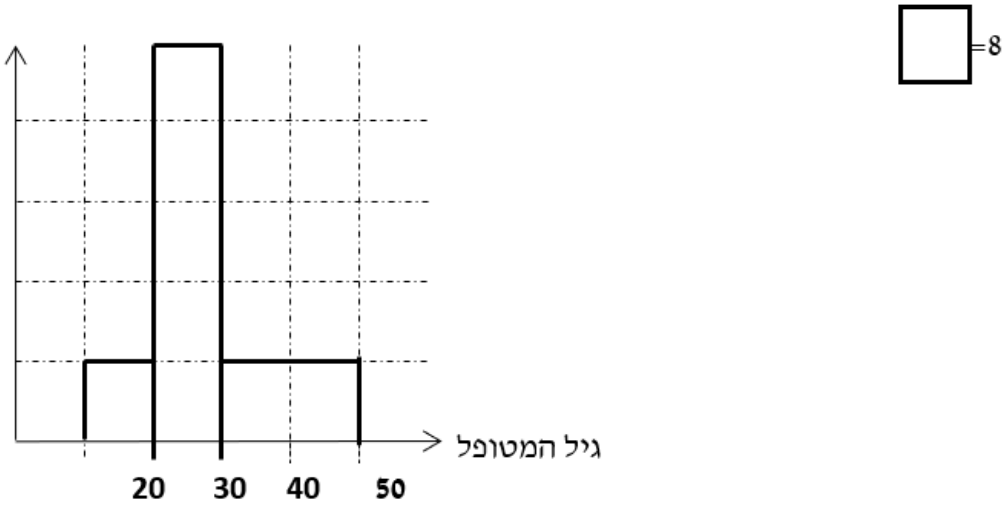



© כל הזכויות שמורות לברק קנדל

**כללי**

יתכן שלהתפלגות יותר משכיח אחד.

השכיח הוא מדד הרלבנטי לכל סוגי המשתנים.

**אמצע תחום (טווח) – Midrange:**

הממוצע בין התצפית הגבוהה ביותר לתצפית הנמוכה ביותר:

$MR = \frac{X_{\min} + X_{\max}}{2}$.

**החציון – Median:**

החציון הוא ערך שמחצית מהתצפיות קטנות או שוות לו ומחצית מהתצפיות גדולות או שוות לו.

**ברשימה**

נסדר את התצפיות בסדר עולה.

אם יש מספר אי זוגי של איברים, מקומו של החציון יהיה התצפית שמיקומה: $\frac{n+1}{2}$.

אם יש מספר זוגי של איברים – החציון הוא ממוצע של האיבר ה- $\frac{n}{2}$,

והאיבר ה- $\frac{n}{2}+1$, כלומר שיש מספר אי-זוגי של תצפיות החציון יהיה: $md = X_{\frac{n+1}{2}}$,

וכשיש מספר זוגי של תצפיות החציון יהיה: $md = \frac{X_{\frac{n}{2}} + X_{\frac{n}{2}+1}}{2}$.

**בטבלת שכיחויות בדידה**

נעשה תהליך דומה אך נעזר בשכיחות המצטברת.

**דיאגרמת מקלות**

נמיר לטבלת שכיחויות בדידה במטרה למצוא את החציון.


© כל הזכויות שמורות לברק קנדל

**בטבלת שכיחויות במחלקות**

שלב א: נמצא את המחלקה החצונית שמיקומה יהיה $\frac{n}{2}$.

שלב ב: נציב בנוסחה הבאה: $Md = L_0 + \frac{\frac{n}{2} - F(x_{m-1})}{f(x_m)} \cdot (L_1 - L_0)$.

$F(x_{m-1})$ - שכיחות מצטברת של מחלקה אחת לפני המחלקה החצונית.

$f(x_m)$ - השכיחות של המחלקה החצונית.

$L_0$ - גבול התחתון של המחלקה.

$L_1$ - גבול העליון של המחלקה.

**היסטוגרמה**

החצון הוא הערך על ציר ה- $X$ שמחלק את ההיסטוגרמה לשני חלקים שווים בשטח.

**כללי**

החצון אינו רלבנטי למשתנה מסולם שמי ולא רלבנטי למשתנה איכותי.

**הממוצע – Average:**

הממוצע הוא מרכז הכובד של ההתפלגות.

**ברשימה**

$\bar{x} = \frac{\sum_{i=1}^{n} x_i}{n}$.

**בטבלת שכיחויות**

$\bar{x} = \frac{\sum x \cdot f}{n}$.


© כל הזכויות שמורות לברק קנדל

**במחלקות**

נשתמש באותה נוסחה רק נתייחס לאמצע המחלקה בתור ה- $X$ .
הממוצע הזה יהיה ממוצע מקורב.

**כללי**

הממוצע רלבנטי רק למשתנה כמותי.

**מדדי המיקום המרכזי בהתפלגויות המיוחדות:**

בהתפלגות סימטרית פעמונית כל מדדי המרכז שווים זה לזה:

**התפלגות סימטרית**

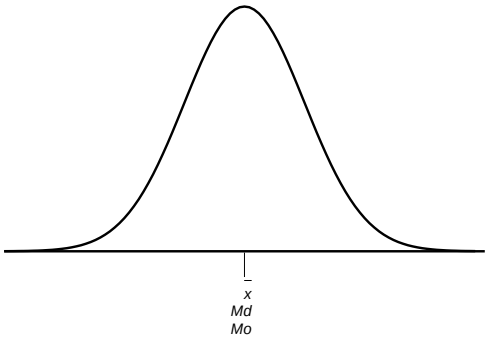


בהתפלגות סימטרית השכיח לא חייב להיות במרכז:

**התפלגות U**

**התפלגות א-סימטרית ימנית או חיובית**

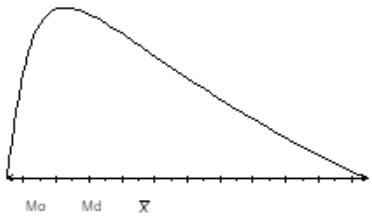


**התפלגות א-סימטרית שמאלית או שלילית**

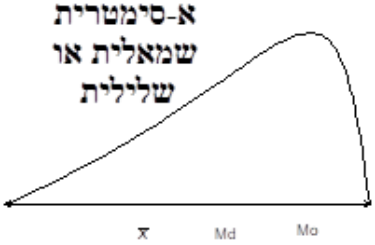



© כל הזכויות שמורות לברק קנדל

## שאלות:

**1)** להלן רשימת הציונים של 20 תלמידים שנבחנו במבחן הבנת הנקרא:
6, 5, 8, 7, 6, 9, 8, 6, 7, 6, 7, 8, 5, 4, 6, 10, 9, 8, 6, 7.
חשבו את החציון, השכיח, והממוצע של הציונים.

**2)** בדקו את מספר החדרים לדירה בבניין בן 5 דירות והתקבל ממוצע 3.8.
לגבי 4 דירות נמצא מספר חדרים: 5, 4, 3, 4.

א. כמה חדרים יש בדירה החמישית?

ב. מהו השכיח ומהו החציון?

**3)** להלן התפלגות מספר מקלטי הטלוויזיה שנספרו עבור כל משפחה בישוב מסוים:

| מספר משפחות | מספר מקלטים |
|---|---|
| 22 | 0 |
| 28 | 1 |
| 18 | 2 |
| 22 | 3 |
| 10 | 4 |

א. חשבו את הממוצע, החציון והשכיח של ההתפלגות.

ב. הסבירו ללא חישוב כיצד כל מדד שחישבת בסעיף א' היה משתנה אם חלק מהמשפחות (לא כולן) שלא היה להם עד היום טלוויזיה היו רוכשים מקלט אחד.

**4)** להלן התפלגות מספר המכוניות למשפחה בישוב "הגורן":

| מספר מכוניות למשפחה | 1 | 2 | 3 | 4 | 5 |
|---|---|---|---|---|---|
| שכיחות | 65 | 150 | 220 | 140 | 55 |

א. כמה משפחות יש בישוב?

ב. מה אחוז המשפחות בישוב עם לכל היותר 2 מכוניות?

ג. חשבו את הממוצע, החציון והשכיח.

הקפידו להסביר לגבי כל סעיף מה משמעות התוצאה שקיבלתם!


© כל הזכויות שמורות לברק קנדל

**5)** מורה לימד 2 כיתות, הוא תיאר באותה מערכת צירים את התפלגות הציונים בכל כיתה. בחרו בתשובה הנכונה:

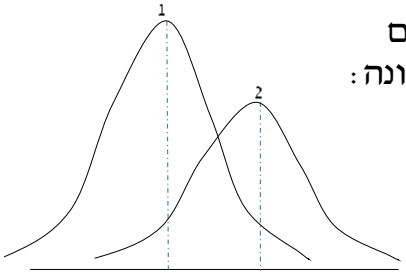


א. בכיתה 1 השכיח גבוה יותר מכיתה 2.

ב. בכיתה 2 השכיח גבוה יותר מכיתה 1.

ג. בשתי הכיתות אותו שכיח.

ד. לא ניתן לדעת באיזו כיתה השכיח גדול יותר.

**6)** ביישוב מסוים בדקו לכל משפחה את מספר הטלוויזיות שיש לה בבית. ביישוב גרות 200 משפחות. בממוצע יש למשפחה 1.5 טלוויזיות.

| מספר טלוויזיות | מספר משפחות |
|---|---|
| 0 | 28 |
| 1 | 62 |
| 2 | |
| 3 | |

א. השלימו את הטבלה.

ב. מהו השכיח, אמצע טווח והחציון.

ג. חלק מהמשפחות להן הייתה טלוויזיה אחת בדיוק הוציאו את הטלוויזיה מביתם. כיצד כל מדד ישתנה (יגדל, יקטן או לא ישתנה). הסבירו ללא חישוב.

**7)** להלן התפלגות המשקל של קבוצה מסוימת בק"ג. מה הממוצע והחציון של ההתפלגות?

| משקל | מספר מקרים |
|---|---|
| 40-45 | 10 |
| 45-50 | 20 |
| 50-60 | 30 |
| 60-65 | 20 |
| 65-70 | 10 |


© כל הזכויות שמורות לברק קנדל

**8)** להלן התפלגות הגבהים בס"מ בקבוצה מסוימת.
חשבו את הממוצע, החציון והשכיח של הגבהים בקבוצה זו.

| גובה בס"מ | שכיחות |
|---|---|
| 150-160 | 30 |
| 160-170 | 40 |
| 170-175 | 60 |
| 175-180 | 70 |
| 180-190 | 40 |

**9)** בפקולטה מסוימת בדקו לסטודנטים העובדים בה את השכר לשעת עבודה.
להלן התוצאות:

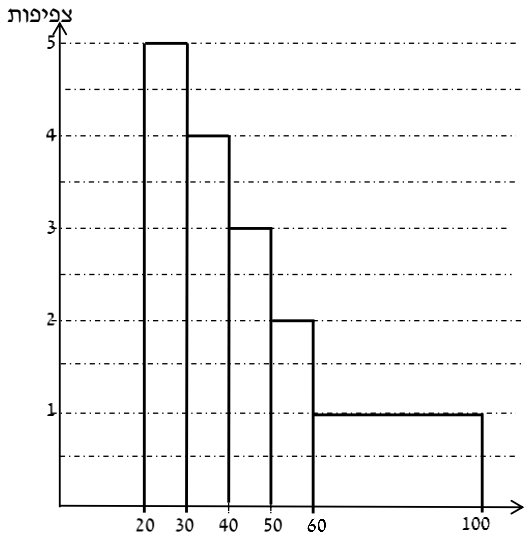


א. מצאו את השכיח בהתפלגות.
ב. מצאו את החציון בהתפלגות.
ג. הסבירו ללא חישוב האם הממוצע גדול/קטן/שווה לחציון.
ד. הסתבר שיש להוציא מספר תלמידים במחלקה בין 20-30 שקלים.
כיצד הדבר ישפיע על הממוצע, החיצון והשכיח? הסבירו ללא חישוב.


© כל הזכויות שמורות לברק קנדל

## תשובות סופיות:

**1)** חציון: 7, שכיח: 6, ממוצע: 6.9.

**2)** א. 3. ב. שכיח: 3.4, חציון: 4.

**3)** א. ממוצע: 1.7, חציון: 1.5, שכיח: 1.
ב. הממוצע יגדל ויתר המדדים לא ישתנו.

**4)** א. 630. ב. 34.13%. ג. שכיח וחציון: 3, ממוצע: 2.952.

**5)** ב'.

**6)** א. להלן טבלה: ב. חציון: 2, שכיח: 2, אמצע טווח: 1.5.

| מספר טלוויזיות | מספר משפחות |
|---|---|
| 0 | 28 |
| 1 | 62 |
| 2 | 92 |
| 3 | 18 |

ג. שכיח: לא ישתנה, אמצע הטווח: לא ישתנה, חציון: לא ישתנה, ממוצע: יקטן.

**7)** חציון וממוצע: 55.

**8)** ממוצע: 172.6, חציון: 174.17, שכיח: 177.5.

**9)** א. 25. ב. 40. ג. גדול מהחציון.
ד. שכיח: לא ישתנה, חציון: יגדל, ממוצע: יגדל.


© כל הזכויות שמורות לברק קנדל