מכינה לפיזיקה להנדסת מחשבים מס קורס 140004

פרק 20 - מתח, פוטנציאל ואנרגיה פוטנציאלית חשמלית

תוכן העניינים

1. עבודה ואנרגיה של הכוח החשמלי 1
2. פוטנציאל ומתח 3
3. פוטנציאל במוליכים 7
4. תרגילים נוספים 9

עבודה ואנרגיה של הכוח החשמלי:

שאלות:

1) עבודה להביא מטען מהאינסוף

מהי העבודה הדרושה להביא מטען $Q_1 = 2\cdot10^{-6}c$ מהאינסוף למרחק $r = 50cm$ ממטען $Q_2 = 3\cdot10^{-6}c$ המקובע במקום?

2) מטען מגיע עם מהירות מהאינסוף

מטען $Q_1 = 4\cdot10^{-5}c$ בעל מסה $m = 10^{-3}kg$ נע מהאינסוף במהירות $v_0 = 20\frac{m}{sec}$ כלפי מטען $Q_2 = 5\cdot10^{-5}c$ המקובע למקום.

א. מהו המרחק בו ייעצר רגעית המטען?

ב. מהי מהירות המטען כאשר מרחקו $100m$?

3) עבודה להרחיק שני מטענים

חשב את העבודה הדרושה להרחיק שני מטענים: $Q_1 = 3\cdot10^{-6}c$, $Q_2 = -4\cdot10^{-6}c$ ממרחק $r_1 = 20cm$ למרחק $r_2 = 40cm$.

בדוק האם הסימן הגיוני.

4) עבודה להכניס מטען לתוך קליפה טעונה

חשב את העבודה הדרושה להביא מטען של $Q_1 = 3\cdot10^{-5}c$ לתוך קליפה כדורית ברדיוס $R = 0.8m$ הטעונה בצפיפות מטען משטחית $\sigma = 2\cdot10^{-3}\frac{c}{m^2}$.

5) עבודה של לוח אינסופי

מטען $Q = 2\cdot10^{-6}C$ נמצא במרחק $d = 30c.m$ מלוח אינסופי הטעון בצפיפות מטען ליחידת שטח $\sigma = 5\cdot10^{-3}\frac{c}{m^2}$.

חשב את העבודה הדרושה להביא את המטען אל הלוח.

6) מטען זז בין שני לוחות

שני לוחות גדולים מאוד טעונים בצפיפויות מטען משטחיות הפוכות $\sigma = \pm 3\cdot 10^{-3}\frac{c}{m^2}$.

המרחק בין הלוחות הוא $d = 5cm$.

מצא את העבודה הדרושה להעביר מטען של $Q = 2\cdot 10^{-6}c$ מהלוח השלילי אל הלוח החיובי. הזנח את השפעת המטען על השדה של הלוחות.

תשובות סופיות:

1) $W = 108\cdot 10^{-3}J$

2) א. $r = 90m$ ב. $v_F \approx 6.32\frac{m}{sec}$

3) $W = 0.27J$, כן.

4) $W = 5.43\cdot 10^{3} - 0$

5) $W = 170J$

6) $W = 33.9J$

פוטנציאל ומתח:

שאלות:

1) פוטנציאל שיוצר מטען בשתי נקודות

חשב את הפוטנציאל שיוצר המטען $Q_1 = 2\cdot10^{-6}c$ במרחק $r_1 = 0.8m$

ובמרחק $r_2 = 0.3m$ מהמטען.

מהי העבודה הדרושה להזיז את המטען $Q_2 = 5\cdot10^{-6}c$ מהמרחק הראשון למרחק השני?

2) 3 מטענים בפינות של ריבוע

בשלוש פינות של ריבוע מקובעים שלושה מטענים זהים $Q = 2\cdot10^{-5}c$.

אורך צלע הריבוע היא $a = 3cm$.

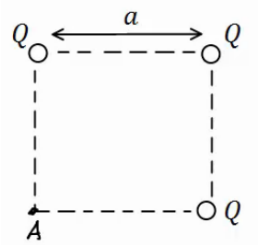

א. חשב את הפוטנציאל בפינה הרביעית של הריבוע.

ב. חשב את הפוטנציאל במרכז הריבוע.

ג. חשב את העבודה הדרושה להזיז את המטען $q = 3\cdot10^{-6}c$ ממרכז הריבוע לקצה הריבוע.

3) שני מטענים על משולש שווה צלעות

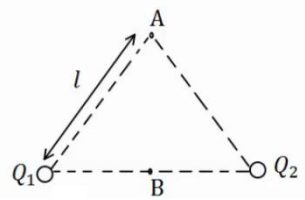

שני מטענים זהים $Q_1 = Q_2 = 10^{-6}c$ נמצאים על קדקודיו של משולש שווה צלעות בעל אורך צלע $l = 5cm$.

א. מצא את המתח בין הנקודה A הנמצאת בקודקוד השלישי של המשולש לבין הנקודה B הנמצאת באמצע הצלע המחברת את שני המטענים.

ב. חשב את העבודה הדרושה להביא מטען של $q = 5\cdot10^{-6}c$ מהקדקוד אל אמצע הצלע.

4) פוטנציאל בין לוחות

שני לוחות גדולים מאוד טעונים במטענים בעלי סימן הפוך.
ידוע כי כיוון השדה בין הלוחות הוא מהלוח התחתון ללוח העליון.

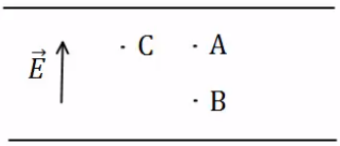

א. איזה מהלוחות טעון במטען חיובי ואיזה במטען שלילי?

ב. איזה מהלוחות נמצא בפוטנציאל יותר גבוה?

ג. איזו מהנקודות A ו-B נמצאת בפוטנציאל יותר גבוה?

ד. איזה מהנקודות A ו-C, הנמצאות באותו גובה, נמצאת בפוטנציאל גבוה יותר?

5) מתח בין לוחות

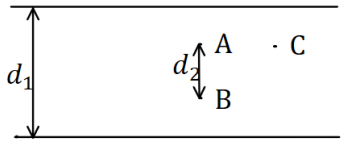

שני לוחות גדולים מאוד נמצאים במרחק $d_1 = 40cm$ זה מזה. המתח בין הלוחות הוא $\Delta V = 20V$ וידוע כי הלוח העליון נמצא בפוטנציאל גבוה יותר.

א. איזה מהלוחות טעון במטען חיובי ואיזה במטען שלילי?

ב. מהו השדה בין הלוחות (גודל וכיוון)?

ג. מהו המתח V_{BA} אם ידוע שהמרחק בין הנקודות A ו B הוא $d_2 = 5cm$?

ד. מהי העבודה הדרושה להזיז מטען $Q = 2\cdot10^{-6}c$ מ-A ל-B?

ה. מהי העבודה הדרושה להזיז מטען $Q = 2\cdot10^{-6}c$ מ-A ל-C - הנמצאת באותו הגובה של A?

6) פוטנציאל של לוח ומטען נקודתי

מטען נקודתי $Q = 3\mu C$ נמצא בגובה $2cm$ מעל לוח אינסופי הטעון בצפיפות אחידה: $\sigma = 8\cdot10^{-4}\frac{C}{m^2}$.

א. מצאו את הפוטנציאל בנקודות שבאיור (הניחו שהפוטנציאל של הלוח הוא אפס על הלוח).

ב. מהי העבודה הדרושה להזיז מטען: $q = 10^{-10}C$ מ-P_1 ל-P_2.

הניחו שהמטען Q והלוח אינם משנים את מיקומם.

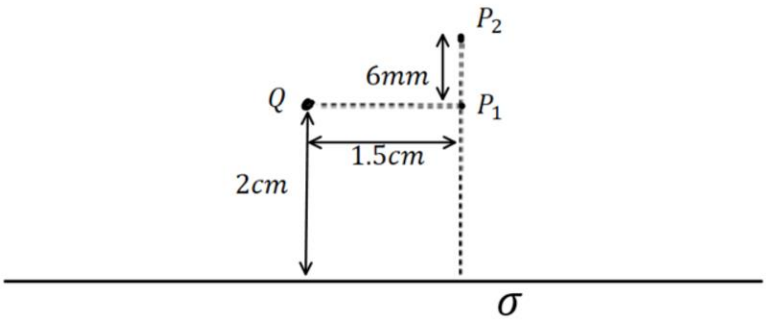

7) חישוב שדה ותנועה בין 3 לוחות

שלושה לוחות גדולים מאוד נמצאים אחד אחרי השני ומקביל כפי שמתואר באיור 1. הלוחות טעונים בצפיפויות מטען (אחידות) שונות.
הפוטנציאל כתלות במיקום נתון באיור 2 .

א. חשבו את השדה החשמלי בתחומים:

$0 < x < 15\ cm$ ו- $-15cm < x < 25cm$

נתון כי צפיפות המטען המשטחית של לוח 1 היא: $\sigma_1 = 2 \cdot 10^{-8}\ {}^{C}/_{m^2}$
וכי צפיפות המטען המשטחית של לוח 3 חיובית.

ב. חשבו את σ_2 ו- σ_3.

חלקיק קטן בעל מסה $5 \cdot 10^{-16}kg$ שמטענו q אינו ידוע משוחרר ממנוחה בסמוך ומימין ללוח 1. החלקיק נע לעבר לוח 2 ועובר דרך חור קטן בלוח במהירות: $3 \cdot 10^{6}\ {}^{m}/_{s}$.

ג. מהו מטען החלקיק (כולל הסימן)?

ד. האם החלקיק יגיע ללוח 3? אם כן, מהי תהיה מהירותו?
אם לא, היכן ייעצר?

איור 1

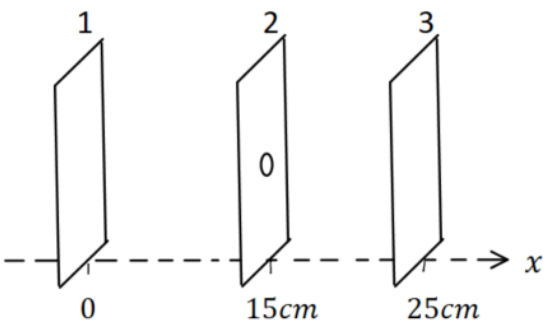

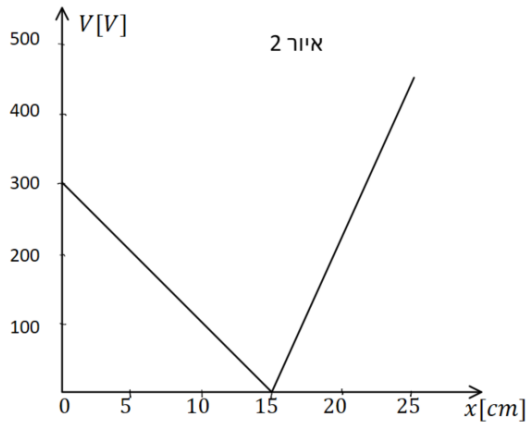

תשובות סופיות:

1) $W = 18.75 \cdot 10^{-2} J$

2) א. $V_A = 16.24 \cdot 10^6 V$ ב. $V_B = 25.46 \cdot 10^6 V$

ג. $W = -27.65J$

3) א. $V_{BA} = 3.6 \cdot 10^5 V$ ב. $W_{A \to B} = 1.8J$

4) א. הלוח הטעון במטען חיובי נמצא למטה, והשלילי למעלה.

ב. התחתון. ג. B ד. הפוטנציאל שווה.

5) א. הלוח הטעון במטען חיובי נמצא למעלה, והשלילי למטה.

ב. $E = 50 \frac{N}{m}$ ג. $-2.5V$ ד. $-5 \cdot 10^{-6} J$ ה. 0

6) א. $V(P_1) = 8.95 \cdot 10^5 V$, $V(P_2) = 4.90 \cdot 10^5 V$ ב. $-4.05 \cdot 10^5 J$

7) א. $E = \begin{cases} 2000 \frac{V}{m} & 0 < x < 15 \\ -4500 \frac{V}{m} & 15 < x < 25 \end{cases}$

ב. $\sigma_2 = -5.75 \cdot 10^{-8} \frac{C}{m^2}$, $\sigma_3 = 4.21 \cdot 10^{-8} \frac{C}{m^2}$ ג. $q = 7.5 \mu C$

ד. לא ב- $x \approx 22_{cm}$

פוטנציאל במוליכים:

שאלות:

1) שני כדורים מוליכים מחוברים

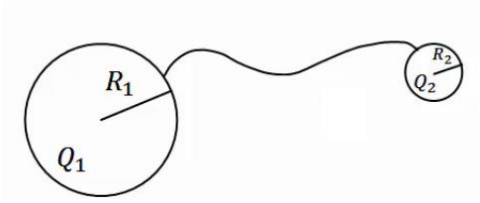

שני כדורים מוליכים בעלי רדיוסים R_1 , R_2 נמצאים במרחק גדול מאוד אחד מהשני.
הכדורים טעונים במטענים Q_1 , Q_2 בהתאמה.
מחברים את הכדורים באמצעות חוט מוליך.
מה היה המטען על כל כדור לאחר זמן רב?

2) מטען נקודתי במרכז קליפה מוארקת

מטען נקודתי Q נמצא במרכזה של קליפה (חלולה) כדורית דקה ומוליה ברדיוס R.
מהו המטען על הקליפה אם ידוע שהיא מוארקת?

3) כדור בתוך קליפה

קליפה כדורית מוליכה ודקה בעלת רדיוס b טעונה במטען Q.
במרכז הקליפה נמצא כדור מוליך בעל רדיוס a המוארק לאדמה.

א. מהו המטען על הכדור?

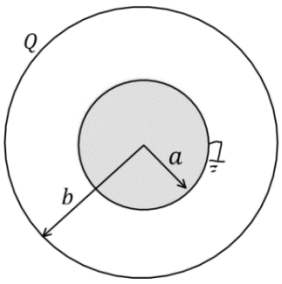

כעת הכדור טעון במטען Q (ואינו מוארק), והקליפה החיצונית מוארקת.

ב. מהו מטענה של הקליפה המוארקת?

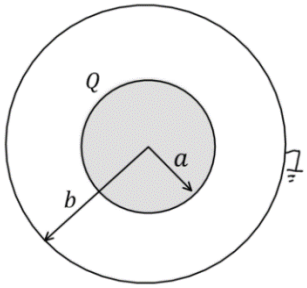

תשובות סופיות:

1) $q_1' = (Q_2 + Q_1)\frac{R_1}{R_1 + R_2}$, $q_2' = (Q_2 + Q_1)\frac{R_2}{R_1 + R_2}$

2) $q = Q$

3) א. $-\frac{a}{b}Q$ ב. $-Q$

תרגילים נוספים:

שאלות:

1) אנרגיה חשמלית של מערכת

מצא את האנרגיה הפוטנציאלית החשמלית של שני מטענים זהים: $Q_1 = Q_2 = 3\cdot10^{-6}c$ הנמצאים במרחק 80 ס"מ זה מזה.

2) מטענים בפינות ריבוע

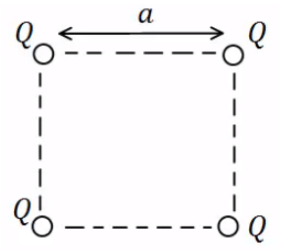

בארבעת הפינות של ריבוע בעל צלע $a = 0.5m$ ישנם מטענים זהים שגודלם הוא: $Q = 2\cdot10^{-7}c$.

א. מהי העבודה הדרושה לבניית המערכת?

ב. מהו הפוטנציאל בנקודה הנמצאת באמצע אחת מצלעות הריבוע?

ג. מהי העבודה הדרושה להבאת מטען $q = 3\cdot10^{-8}c$ לנקודה מסעיף ב'?

ד. מהי האנרגיה הפוטנציאלית החשמלית של המערכת לאחר סעיף ג'?

3) מטען שמאפס פוטנציאל בקודקוד

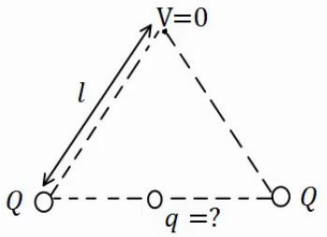

בשני קודקודיו של משולש שווה צלעות נמצאים מטענים זהים שגודלם הוא: $Q = 2\cdot10^{-5}c$.

מטען נוסף, q, מונח במרכז הצלע שביניהם.

אורך הצלע של המשולש הוא: $l = 20cm$.

א. מצא את גודלו של המטען q כך שהפוטנציאל בקודקוד השלישי יתאפס.

ב. חזור על סעיף א' אם המטען q נמצא במרכזה של צלע אחרת במשולש.

4) פוטנציאל בנקודה מסוימת

בנקודה מסוימת קיים פוטנציאל של 15V.

א. מהי העבודה להביא מטען שגודלו $1c$ מהאינסוף לנקודה זו?

ב. מהי העבודה הדרושה להביא מטען של $Q = 2\cdot10^{-6}c$ לנקודה זו?

ג. מהי העבודה הדרושה להביא מטען של $Q = -3\cdot10^{-6}c$ מפוטנציאל של $V = 5V$ לנקודה זו?

ד. מהי העבודה הדרושה להביא מטען של $Q = 2\cdot10^{-6}c$ מנקודה זו לפוטנציאל של 10V?

5) עבודה לא תלויה במסלול

מטען נקודתי $Q_1 = 10^{-5}c$ ממוקם בראשית הצירים.

מטען נקודתי נוסף $Q_2 = 2\cdot10^{-5}c$ ממוקם ב-$(0.8m,0)$.

א. מצא את הפוטנציאל בנקודות: $C(0.8m,1m)$, $B(1.5m,1m)$, $A(1.5m,0)$.

ב. מהי העבודה הדרושה להעביר את המטען $q = 3\cdot10^{-6}c$ מנקודה A ל-B?

ג. מהי העבודה הדרושה להעביר את אותו המטען מנקודה B אל נקודה C?

ד. מהי העבודה הדרושה להעביר את אותו המטען מנקודה A לנקודה C, דרך הקו הישר בין הנקודות?

6) אלקטרון מואץ בהפרש פוטנציאלים

אלקטרון מואץ בהפרש פוטנציאלים של $300V$.
האלקטרון מתחיל תנועתו ממנוחה.

א. מהו ההפרש בין האנרגיה הפוטנציאלית החשמלית של האלקטרון בתחילת התנועה לסוף התנועה, ביחידות של אלקטרון וולט וביחידות של ג'אול?

ב. מהי מהירות האלקטרון בסוף התהליך?

$q_e = -1.6\cdot10^{-19}c$, $m_e = 9.11\cdot10^{-31}kg$.

7) פרוטון נע בין לוחות

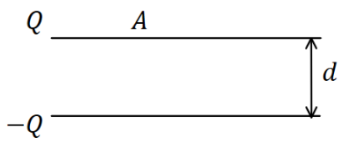

שני לוחות גדולים בעלי שטח $A = 2m^2$ נמצאים במרחק $d = 10cm$ אחד מהשני.
טוענים את אחד הלוחות במטען $Q = 6\cdot10^{-3}c$, ואת הלוח השני במטען זהה והפוך בסימנו.

א. חשב את צפיפות המטען ליחידת שטח על כל לוח.

ב. מהו השדה בין הלוחות?

ג. מהו המתח בין הלוחות?

ד. פרוטון משוחרר ממנוחה קרוב מאוד ללוח החיובי.
מהי מהירות הפרוטון בהגיעו ללוח השלילי?

$q_p = 1.6\cdot10^{-19}c$, $m_p = 1.67\cdot10^{-27}kg$

8) פוטנציאל של כדור מוליך

כדור מוליך שרדיוסו $R = 20cm$ טעון במטען $Q = 3\cdot10^{-6}c$.

א. מהו השדה החשמלי במרחק $r_1 = 25cm$ ובמרחק $r_2 = 15cm$ ממרכז הכדור?

ב. מהו הפוטנציאל באותם מרחקים?

9) מטענים על קליפות

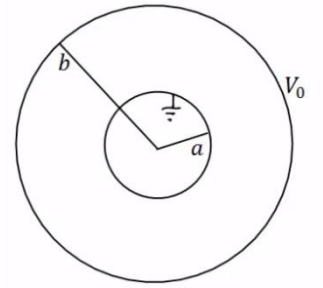

במערכת הבאה ישנם שתי קליפות כדוריות מוליכות, דקות, ברדיוסים a , b. הקליפה החיצונית מוחזקת במתח V_0 והקליפה הפנימית מוארקת.
השתמש בפוטנציאל של קליפה כדורית בודדת ובעקרון הסופרפוזיציה וחשב את המטען על כל קליפה.

10) מתח בין שני כדורים מוליכים

שני כדורים מוליכים, בעלי רדיוסים: $R_1 = 1m$ ו- $R_2 = 1.4m$,
טעונים במטענים: $Q_1 = 2\cdot10^{-6}c$ ו- $Q_2 = 6\cdot10^{-6}c$.

א. מהו הפרש הפוטנציאלים בין שפות הכדורים, אם הם מרוחקים מאוד זה מזה.
ב. מהו הפרש הפוטנציאלים בין שתי הנקודות הכי קרובות של הכדורים,
אם המרחק בין מרכזיהם הוא $d = 5m$.
הנח שהתפלגות המטען על כל כדור עדיין אחידה.

11) שני מטענים מתרחקים

שני גופים בעלי מסות $m_1 = 20gr$ ו- $m_2 = 60gr$ ומטענים ו- $Q_2 = 6\cdot10^{-6}c$
נמצאים במרחק $r_1 = 80cm$ זה מזה, ובמנוחה.

א. מה תהיה מהירות הגופים כאשר המרחק ביניהם הוא $r_2 = 1.2m$?
ב. מה תהיה מהירות הגופים לאחר זמן רב מאוד?

12) שני מטענים מתרחקים ומתקרבים

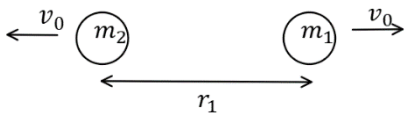

שני גופים בעלי מסות $m_1 = 25gr$ ו- $m_2 = 50gr$
ומטענים $Q_1 = 4\cdot10^{-6}c$ ו- $Q_2 = -5\cdot10^{-6}c$ נמצאים
במרחק $r_1 = 1m$ זה מזה.
לגופים מהירות התחלתית כך שאחד מתרחק מהשני.
גודל המהירות ההתחלתית של שני הגופים הוא $v_0 = 5\frac{m}{sec}$.

א. מה תהיה מהירות הגופים כאשר המרחק ביניהם הוא $r_2 = 5m$?
ב. מהו v_0 המינימאלי עבורו הגופים לא יפגשו לעולם?
ג. כעת נניח כי v_0 שווה לחצי מהערך שחישבת בסעיף ב'.
מהו המרחק המקסימאלי אליו יגיעו הגופים?
ד. מצא את מהירות הגופים כאשר $r_3 = 0.5m$.

13) 1000 טיפות שמן

1000 טיפות שמן זהות טעונות במטען זהה ונמצאות בפוטנציאל זהה v_1.
הטיפות מתחברות לטיפה אחת גדולה. מהו הפוטנציאל של הטיפה הגדולה (v_1 נתון)?
רמז: ניתן להתייחס לכל טיפה ככדור מוליך.

14) כדור מוליך מוארק בתוך קליפה כדורית

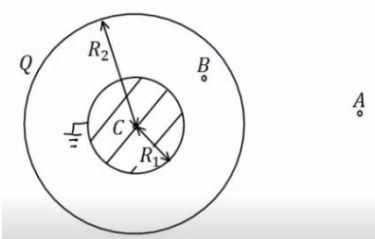

כדור מוליך ברדיוס $R_1 = 5c.m.$ נמצא בתוך ובמרכזה של קליפה כדורית דקה.
רדיוס הקליפה הוא: $R_2 = 10c.m.$ והמטען עליה הוא: $Q = 3\cdot10^{-7}c$. מאריקים את הכדור.

א. מצא את המטען על שפת הכדור.

ב. מהו הפוטנציאל בנקודות: $r_A = 20c.m.$, $r_B = 7c.m.$, $r_C = 0$?

ג. מהי העבודה הדרושה להזיז את המטען $Q = 10^{-10}c$ מ- r_A ל- r_C ?

15) שתי קליפות קונצנטריות מחוברות בחוט

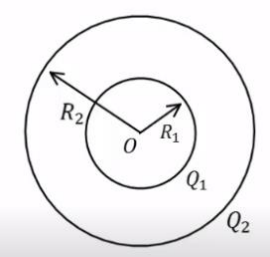

קליפה כדורית (כדור חלול) שהרדיוס שלה R_1 נמצאת בתוך קליפה כדורית שהרדיוס שלה R_2, ולשתי הקליפות מרכז משותף O (ראה תרשים). הקליפה הפנימית טעונה במטען חשמלי חיובי Q_1, והקליפה החיצונית טעונה במטען חשמלי חיובי Q_2. שתי הקליפות עשויות מחומר מוליך.

א. בטא באמצעות נתוני השאלה, את הגודל של השדה החשמלי ששתי הקליפות יוצרות בכל אחת מהנקודות הבאות:
   i. הנקודה O.
   ii. נקודה הנמצאת מחוץ לקליפה הפנימית, אך קרובה אליה מאוד, מרחקה מ-O ייחשב ל- $-R_1$.
   iii. נקודה הנמצאת מחוץ לקליפה החיצונית, אך קרובה אליה מאוד, מרחקה מ-O ייחשב ל- R_2.

ב. בטא באמצעות נתוני השאלה, את הפוטנציאל החשמלי הכולל ששתי הקליפות יוצרות בכל אחת משלוש הנקודות הבאות:
   i. הנקודה O.
   ii. נקודה על פני הקליפה הפנימית.
   iii. נקודה על פני הקליפה החיצונית.

ג. מחברים את שתי הקליפות באמצעות תיל מוליך דק שהתנגדותו זניחה, ולכן חלקיקים טעונים יכולים לעבור ביניהן.
בטא, באמצעות נתוני השאלה, את המטען החשמלי על כל אחת משתי הקליפות לאחר שנפסק הזרם בתיל.

16) כדור טעון מבודד מול מישור טעון מבודד*

כדור בעל רדיוס $R = 3m$, מבודד מבחינה חשמלית, טעון על פניו בצפיפות מטען אחידה: $\sigma_1 = 5\cdot10^{-9}\frac{C}{m^2}$. במרחק $d = 6m$ ממרכז הכדור נמצא משטח מישורי גדול מבודד, הטעון בצפיפות מטען אחידה: $\sigma_2 = 15\cdot10^{-9}\frac{C}{m^2}$.

הנקודות P_1 ו-P_2 שבציור נמצאות מחוץ לכדור, אך קרוב מאד לשפתו. הישר המחבר את הנקודות P_3 ו-P_4 ניצב למשטח ומרוחק $D = 4m$ ממרכז הכדור. P_4 היא נקודה מימין למשטח, אך מאוד קרובה אליו. הנקודות P_1 ו-P_3 נמצאות בדיוק מעל מרכז הכדור. לעזרתכם: שטח פנים של כדור בעל רדיוס R נתון ע"י $4\pi R^2$.

א. מה ערכו של השדה החשמלי השקול בנקודה P_2?

ב. מהו הפרש הפוטנציאלים בין הנקודות P_1 ו-P_2 בהתאמה?

ג. מטען קטן: $q = 10^{-9}C$ נמצא בנקודה P_3.
מהו ערכו של הכוח החשמלי הפועל על המטען בנקודה זו?

ד. מהי העבודה הדרושה, כדי להעביר את q מהנקודה P_3 לנקודה P_1?

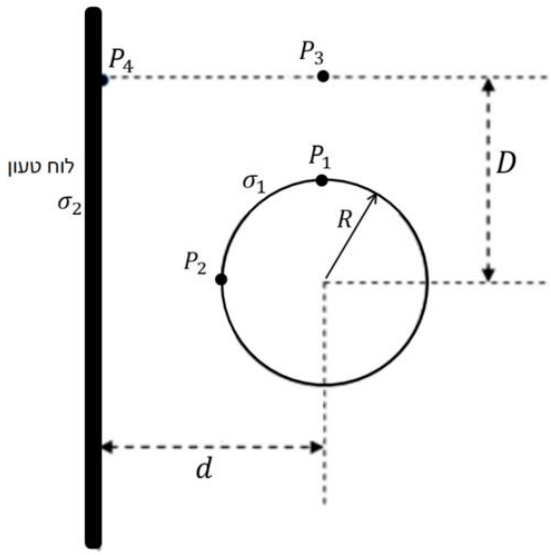

17) כדור בתוך קליפה מוליכה עבה**

כדור מוליך בעל רדיוס a טעון במטען חיובי 5Q ונמצא בתוך קליפה כדורית מוליכה בעלת רדיוס פנימי b ורדיוס חיצוני c, הטעונה במטען $-2Q$.

לכדור ולקליפה הכדורית יש מרכז משותף.

א. מהו המטען על השפה הפנימית ($r=b$) והחיצונית ($r=c$) של הקליפה הכדורית?

ב. מהו הפוטנציאל החשמלי על השפה הפנימית ($r=b$) והחיצונית ($r=c$) של הקליפה הכדורית? הניחו שהפוטנציאל באינסוף הוא אפס.

ג. מהו הפוטנציאל החשמלי במרכז הכדור ($r=0$)?

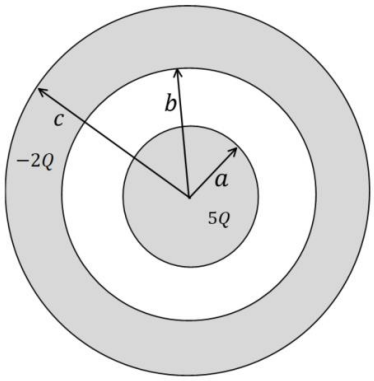

תשובות סופיות:

1) $U \approx 0.101J$

2) א. $W \approx 3.9\cdot 10^{-3}J$ ב. $V_A = 20.84\cdot 10^{3}V$ ג. $W \approx 6.25\cdot 10^{-4}J$

ד. $W = 4.53\cdot 10^{-3}J$

3) א. $q = -3.46\cdot 10^{-5}c$ ב. $q = -2\cdot 10^{-5}c$

4) א. $W = 15J$ ב. $W = 3\cdot 10^{-7}J$ ג. $W = -3\cdot 10^{-5}J$

ד. $W = -10^{-5}J$

5) א. $V_A = 3.17\cdot 10^{5}V$, $V_B \approx 1.97\cdot 10^{5}V$, $V_C = 2.5\cdot 10^{5}V$

ב. $W_{AB} = -3.6\cdot 10^{-1}J$ ג. $W_{B\to C} = 1.59\cdot 10^{-1}J$ ד. $W_{AC} = -2.01\cdot 10^{-1}J$

6) א. $\Delta U = -300eV \ / = 4.8\cdot 10^{-17}J$ ב. $V_F \approx 1.02\cdot 10^{7}\frac{m}{sec}$

7) א. $\sigma = 3\cdot 10^{-6}\frac{c}{m^2}$ ב. $E \approx 3.39\cdot 10^{5}\frac{N}{C}$ ג. $V = 3.39\cdot 10^{4}V$

ד. $v = 2.55\cdot 10^{6}\frac{m}{sec}$

8) א. $E(r_1) = 4.32\cdot 10^{5}\frac{N}{C}$, $E(r_2) = 0$

ב. $V(r_1) = 1.08\cdot 10^{5}V$, $V(r_2) = 1.35\cdot 10^{5}V$

9) $q_1 = \frac{bv_0}{k}\cdot\frac{a}{(a-b)}$, $q_2 = -\frac{bv_0}{ka\left(\frac{1}{b}-\frac{1}{a}\right)}$

10) א. $V_{21} \approx 2.06\cdot 10^{4}V$ ב. $V_{ba} = 7.6\cdot 10^{3}V$

11) א. $u_1 \approx -1.84\frac{m}{sec}$, $u_2 = 0.612\frac{m}{sec}$ ב. $u_2 = 1.06\frac{m}{sec}$, $u_1 = -3.18\frac{m}{sec}$

12) א. $u_1 = -7.96\frac{m}{sec}$, $u_2 = 1.48\frac{m}{sec}$ / $u_1 = 4.62\frac{m}{sec}$, $u_2 = -4.81\frac{m}{sec}$

ב. $v_{0_{min}} \approx 2.18\frac{m}{sec}$ ג. $r_{max} = 1.29m$ ד. $u_1 = -3.79\frac{m}{sec}$, $u_2 = 1.35\frac{m}{sec}$

13) $V_{1000} = 100V_1$

14) א. $q = -1.5\cdot 10^{-7}c$ ב. $V_A = 6.75\cdot 10^{3}V$, $V_B \approx 7.71\cdot 10^{3}V$, $V_C = 0$

ג. $W_{A\to C} = -6.75\cdot 10^{-7}J$

15) א. i. $E_T = 0$ ii. $E_T = \frac{kQ_1}{R_1^2}$ iii. $E_T = \frac{k(Q_1+Q_2)}{R_2^2}$

ב. i. $V_T = \frac{kQ_1}{R_1}+\frac{kQ_2}{R_2}$ ii. $V_T(R_1) = \frac{kQ_1}{R_1}+\frac{kQ_2}{R_2}$ iii. $V_T(R_2) = \frac{k(Q_1+Q_2)}{R_2}$

ג. $q_1' = 0$, $q_2' = Q_1+Q_2$

16) א. $90 \cdot \pi \frac{N}{C} \hat{x}$ ב. $810\pi V$

ג. $270 \cdot \pi \cdot 10^{-9} N\hat{x} + 101 \cdot \pi \cdot 10^{-9} N\hat{y}$ ד. $-3.375 \cdot 10^{-6} J$

17) א. $q(r=b) = -5Q$, $q(r=c) = 3Q$ ב. $V(b) = V(c) = \frac{3KQ}{c}$

ג. $\frac{5KQ}{a} - \frac{5KQ}{b} + \frac{3KQ}{c}$