כימיה אורגנית להנדסאים

פרק 13 - מערכות מצומדות

תוכן העניינים

1. כללי 1

מערכות מצומדות:

שאלות:

1) בתגובת ההתמרה נוקלאופילית הבאה התקבלו התוצרים הבאים:

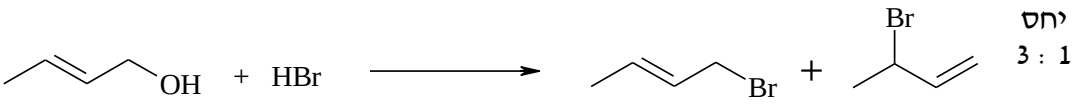

מה מנגנון התגובה?

2) דרגו את הרדיקלים האלקיליים הבאים לפי יציבותם:

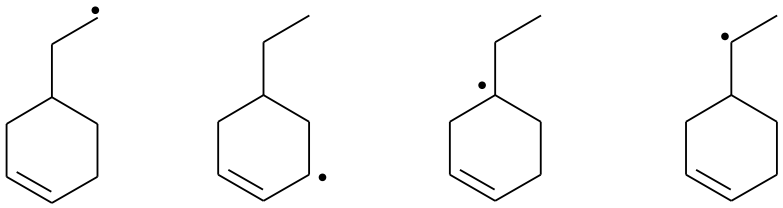

3) לאיזו מהמולקולות הבאות חומציות גבוהה יותר (העזרו בתאוריית הרזוננס)?

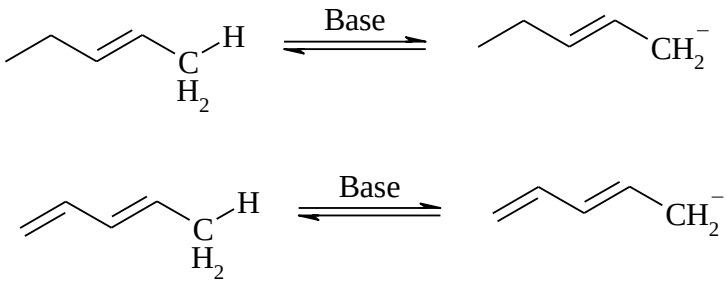

4) כמה תוצרים יתקבלו בתגובה הבאה?



5) צייר את מבני הרזוננס האפשריים וציין מי המבנה היציב ביותר עבור כל מולקולה:

א. 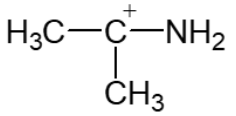

ב. 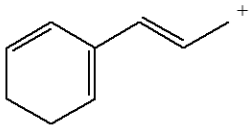

ג. 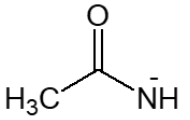

6) רשום את תוצרי התגובות הבאות:

א. 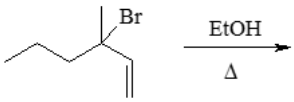

ב. 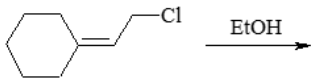

ג. 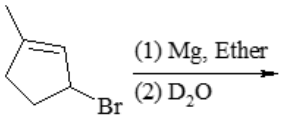

7) קבעו את ההיברידיזציה של האטומים המסומנים, והצורה המרחבית מסביב לאטום:

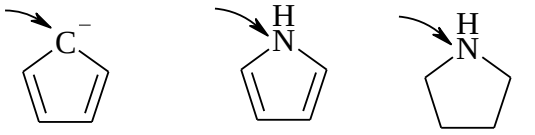

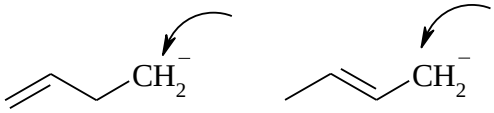

8) תוך שימוש בתיאוריית הרזוננס, הסבירו מדוע אורך שני קשרי ה-C-O במולקולה זהה?

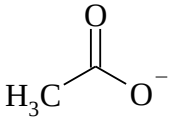

9) מהו מבנה התרכובת שמתאים לנתונים הספקטרליים הבאים:

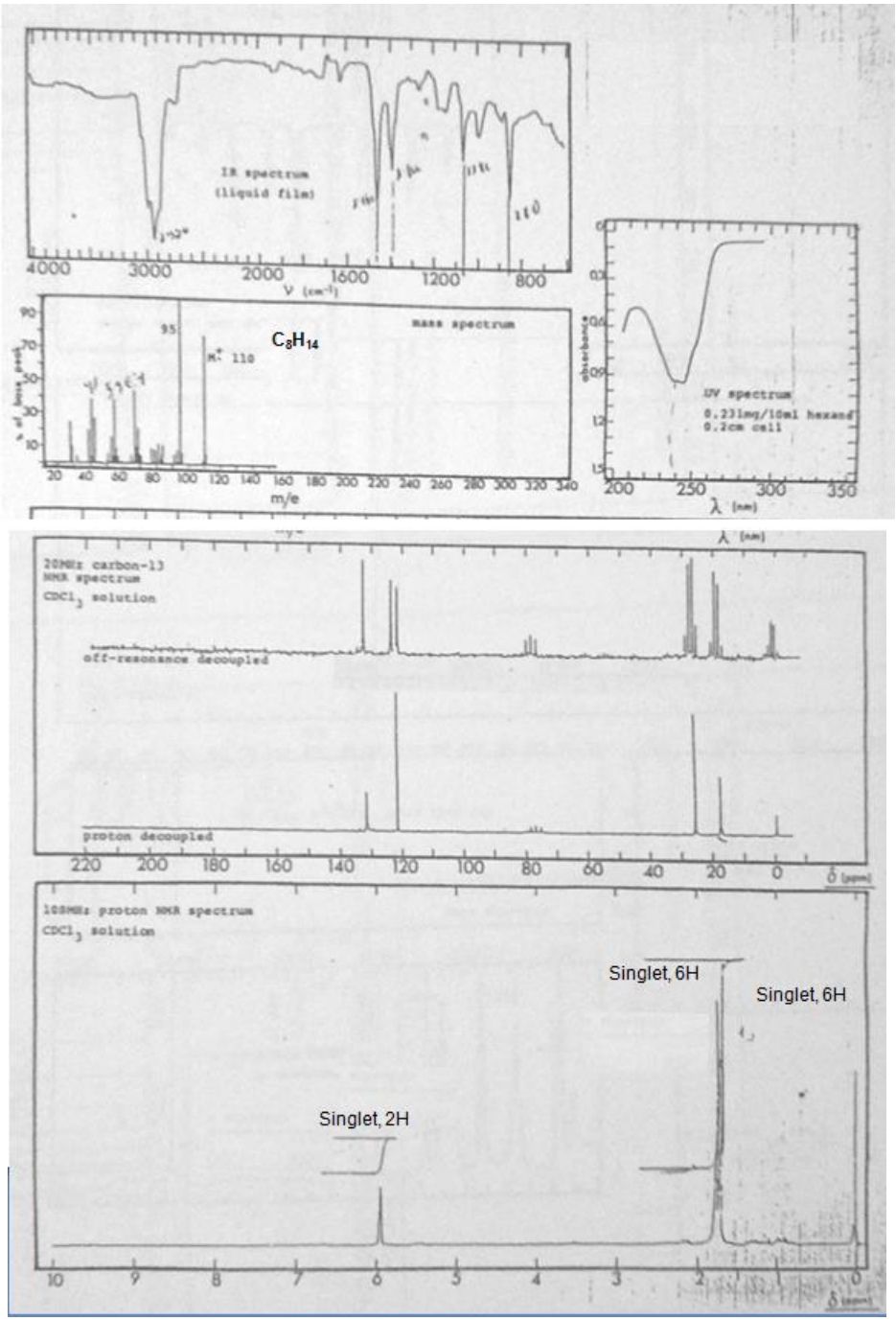

10) פרט את התוצרים המתקבלים בהידרוהלוגנציה של החומרים הבאים:

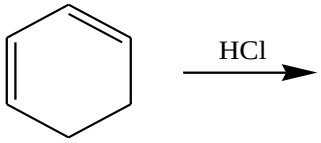

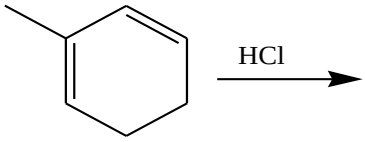

11) רשום את תוצאות התגובות הבאות:

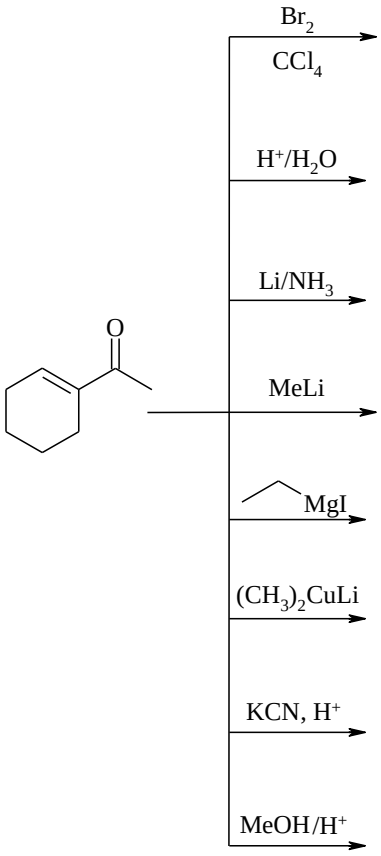

12) השלם את הסכימה הבאה:

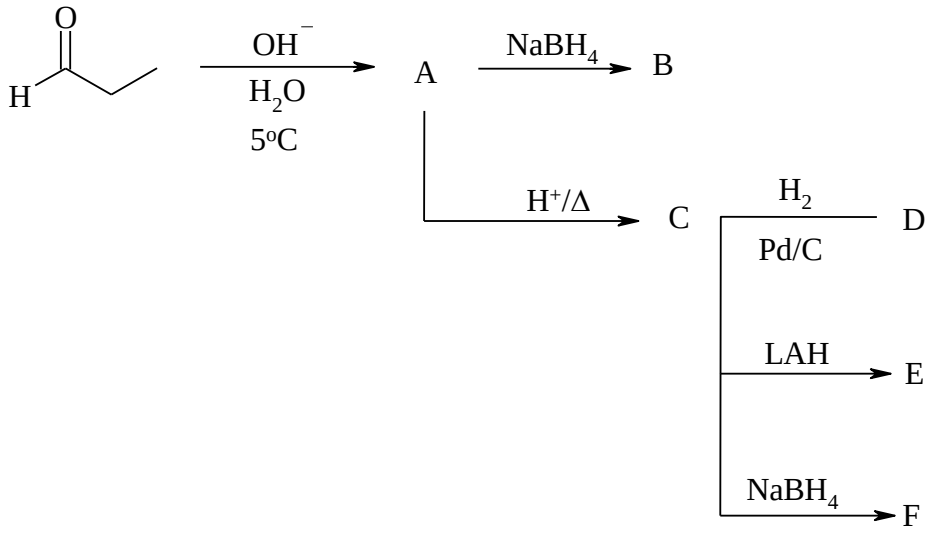

13) הצע דרך סינטטית לקבלת התוצרים הבאים:

א.

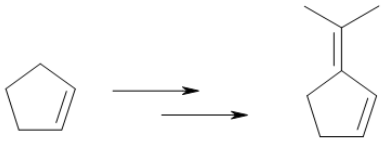

ב.

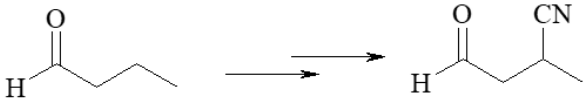

14) מה יהיו תוצרי התגובות הבאה?

א.

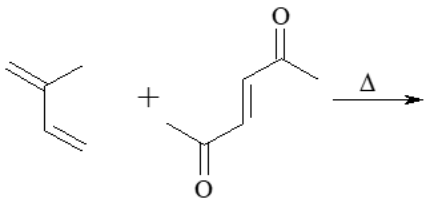

ב.

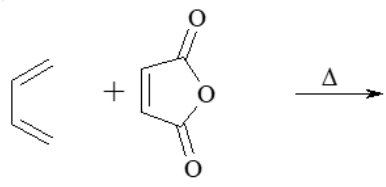

15) הציעו דיאן ודיאנופיל שיתנו בתגובת דיאלס-אלדר את התוצרים הבאים:

א.
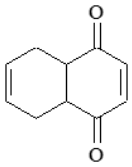

ב.
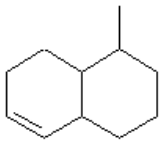

ג.
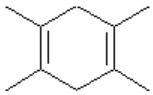

ד.
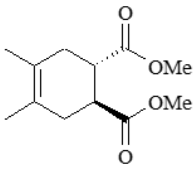

16) מה יהיו תוצרי התגובות הבאות?

א.
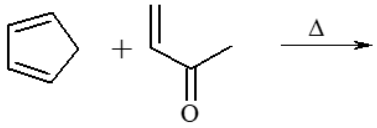

ב.
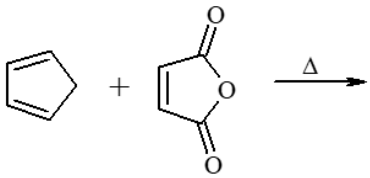

ג.
