פיזיקה 2 חשמל ומגנטיות

פרק 1 - מבוא מתמטי

תוכן העניינים

1. צפיפות מטען 1
2. אופרטור הנאבלה 2
3. וקטורים 3
4. קואורדינטות ואלמנטים דיפרנציאלים 5

צפיפות מטען:

רקע:

צפיפות נפחית – כמות המטען ביחידת נפח.

אם הצפיפות אחידה אז היא שווה ל- $\rho = \frac{Q_T}{V}$.

צפיפות משטחית – כמות המטען ביחידת שטח.

אם הצפיפות אחידה אז היא שווה ל- $\sigma = \frac{Q}{S}$.

צפיפות אורכית – כמות המטען ביחידת אורך.

אם הצפיפות אחידה אז היא שווה ל- $\lambda = \frac{Q}{L}$.

אלמנט מטען אינפיטיסימלי:

$$dq = \lambda d\,l / \sigma\, ds / \rho\, dv$$

שאלות:

1) **תרגיל - דיסקה עם חור**

מצא את צפיפות המטען של דיסקה בעלת רדיוס R הטעונה במטען כולל Q המתפלג אחידה.

בדיסקה קדחו חור ברדיוס r, מצא את כמות המטען שהוצאה מהדיסקה.

2) **תרגיל – מטען כולל בכדור**

מצא את המטען הכולל בכדור בעל רדיוס R וצפיפות מטען: $\rho(r) = \rho_0 \frac{r}{R}$.

תשובות:

1) $Q\left(\frac{r}{R}\right)^2$

2) $\rho_0 \pi R^3$

אופרטור נאבלה:

רקע:

$$\vec{\nabla}=\left(\hat{x}\frac{\partial}{\partial x}+\hat{y}\frac{\partial}{\partial y}+\hat{z}\frac{\partial}{\partial z}\right)\equiv\left(\frac{\partial}{\partial x},\frac{\partial}{\partial y},\frac{\partial}{\partial z}\right)$$

	קרטזיות	גליליות	כדוריות
grad $\vec{\nabla}f$	$\frac{\partial f}{\partial x}\hat{x}+\frac{\partial f}{\partial y}\hat{y}+\frac{\partial f}{\partial z}\hat{z}$	$\frac{\partial f}{\partial r}\hat{r}+\frac{1}{r}\frac{\partial f}{\partial \theta}\hat{\theta}+\frac{\partial f}{\partial z}\hat{z}$	$\frac{\partial f}{\partial r}\hat{r}+\frac{1}{rsin\varphi}\frac{\partial f}{\partial \theta}\hat{\theta}+\frac{1}{r}\frac{\partial f}{\partial \varphi}\hat{z}$
div $\vec{\nabla}\cdot\vec{F}$	$\frac{\partial F_x}{\partial x}+\frac{\partial F_y}{\partial y}+\frac{\partial F_z}{\partial z}$	$\frac{1}{r}\frac{\partial(rF_r)}{\partial r}+\frac{1}{r}\frac{\partial F_\theta}{\partial \theta}+\frac{\partial F_z}{\partial z}$	$\frac{1}{r^2}\frac{\partial(r^2F_r)}{\partial r}+\frac{1}{r\sin\varphi}\frac{\partial F_\theta}{\partial \theta}+\frac{1}{r\sin\varphi}\frac{\partial}{\partial \varphi}(A_\varphi\sin\varphi)$
Rot/curl $\vec{\nabla}\times\vec{F}$	$\left(\frac{\partial F_z}{\partial y}-\frac{\partial F_y}{\partial z}\right)\hat{x}-\left(\frac{\partial F_z}{\partial x}-\frac{\partial F_x}{\partial z}\right)\hat{y}+\left(\frac{\partial F_y}{\partial x}-\frac{\partial F_x}{\partial y}\right)\hat{z}$	$\left(\frac{1}{r}\frac{\partial F_z}{\partial \theta}-\frac{\partial F_\theta}{\partial z}\right)\hat{r}+\left(\frac{\partial F_r}{\partial z}-\frac{\partial F_z}{\partial r}\right)\hat{\theta}+\frac{1}{r}\left(\frac{\partial(rF_\theta)}{\partial r}-\frac{\partial F_r}{\partial \theta}\right)\hat{z}$	$\frac{1}{r\sin\theta}\left(\frac{\partial}{\partial \theta}(F_\theta\sin\varphi)-\frac{\partial F_\varphi}{\partial \theta}\right)\hat{r}+\frac{1}{r}\left(\frac{\partial}{\partial r}(rF_\varphi)-\frac{\partial F_r}{\partial \varphi}\right)\hat{\theta}+\frac{1}{r}\left(\frac{1}{\sin\theta}\frac{\partial F_r}{\partial \theta}-\frac{\partial}{\partial r}(r\cdot F_\theta)\right)\hat{\varphi}$

זהויות:

$$\vec{\nabla}(f+g)=\vec{\nabla}f+\vec{\nabla}g$$
$$\vec{\nabla}(\vec{A}+\vec{B})=(\vec{\nabla}\cdot\vec{A})+(\vec{\nabla}\cdot\vec{B})$$
$$\vec{\nabla}\times(\vec{A}+\vec{B})=(\vec{\nabla}\times\vec{A})+(\vec{\nabla}\times\vec{B})$$
$$\vec{\nabla}(\vec{A}\cdot\vec{B})=\vec{A}\times(\vec{\nabla}\times\vec{B})+\vec{B}\times(\vec{\nabla}\times\vec{A})+(\vec{A}\cdot\vec{\nabla})\vec{B}+(\vec{B}\cdot\vec{\nabla})\vec{A}$$
$$\vec{\nabla}(f\cdot g)=(\vec{\nabla}f)\cdot g+(\vec{\nabla}g)\cdot f$$
$$\vec{\nabla}(f\cdot\vec{A})=f(\vec{\nabla}\cdot\vec{A})+\vec{A}\cdot(\vec{\nabla}f)$$

וקטורים:

רקע:

וקטור יחידה:

$$\hat{A} = \frac{\vec{A}}{|\vec{A}|}$$

מכפלה סקלרית:

$$\vec{A} \cdot \vec{B} = A_x B_x + A_y B_y + A_z \cdot B_z = |\vec{A}||\vec{B}| \cdot cos\,\alpha$$

מציאת זווית בין וקטורים:

$$cos\,\alpha = \frac{A_x B_x + A_y B_y + A_z \cdot B_z}{|\vec{A}||\vec{B}|}$$

מכפלה וקטורית:

<u>דרך 1 – דטרמיננטה</u>:

$$\vec{A} \times \vec{B} = \begin{vmatrix} \hat{x} & \hat{y} & \hat{z} \\ A_x & A_y & A_z \\ B_x & B_y & B_z \end{vmatrix}$$

<u>דרך 2 – לפי גודל וכיוון בנפרד</u>:

גודל המכפלה - $|\vec{A} \times \vec{B}| = |\vec{A}||\vec{B}||\sin\alpha|$

כיוון לפי כלל יד ימין -

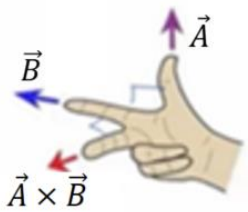

יש כמה דרכים לבצע את הכלל, אם מחליפים אצבעות לכל שלושת הוקטורים הכלל נשאר נכון (אם מחליפים מקום רק לשני וקטורים – טעות).

דרך נוספת לכלל יד ימין נקראת כלל הבורג -



מסובבים את האצבעות מ-$\vec{A}$ ל-$\vec{B}$ והתוצאה בכיוון האגודל.

בחירת מערכת צירים:

במערכת צירים צריך להתקיים: $\hat{x} \times \hat{y} = \hat{z}$.

זהויות:

$$\vec{A} \cdot (\vec{B} \times \vec{C}) = \vec{B} \cdot (\vec{C} \times \vec{A}) = \vec{C} \cdot (\vec{A} \times \vec{B})$$

$$\vec{A} \times (\vec{B} \times \vec{C}) = \vec{B}(\vec{A} \cdot \vec{C}) - \vec{C}(\vec{A} \cdot \vec{B})$$

$$(\vec{A} \times \vec{B}) \cdot (\vec{C} \times \vec{D}) = (\vec{A} \cdot \vec{C}) \cdot (\vec{B} \cdot \vec{D}) - (\vec{A} \cdot \vec{D})(\vec{B} \cdot \vec{C})$$

$$\vec{A} \times \left(\vec{B} \times (\vec{C} \times \vec{D})\right) = \vec{B}\left(\vec{A} \cdot (\vec{C} \times \vec{D})\right) - (\vec{A} \cdot \vec{B})(\vec{C} \times \vec{D})$$

קואורדינטות ואלמנטים דיפרנציאלים:

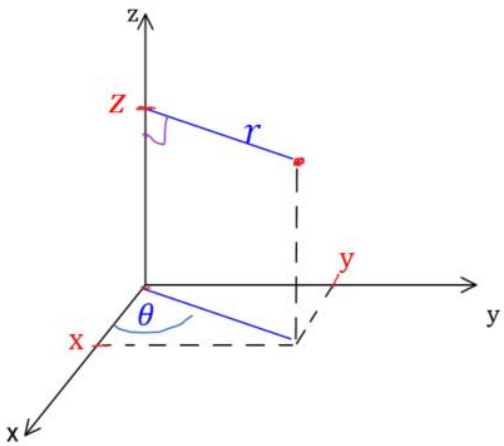

רקע:

קואורדינטות גליליות: (r, θ, z)

$$x = r\cos\theta$$

$$y = r\sin\theta$$

$$z = z$$

$$r = \sqrt{x^2 + y^2}$$

$$\tan\theta = \frac{y}{x}$$

טבעת

$$dl = r\,d\theta / d\,r / d\,z$$

דיסקה

מעטפת גלילית

$$dS = rd\theta\; d\,r / r\; d\theta\; d\,z / d\,r\; dz$$

גליל מלא

$$dV = rd\theta\; dr\; dz$$

קואורדינטות כדוריות: (r, θ, φ)

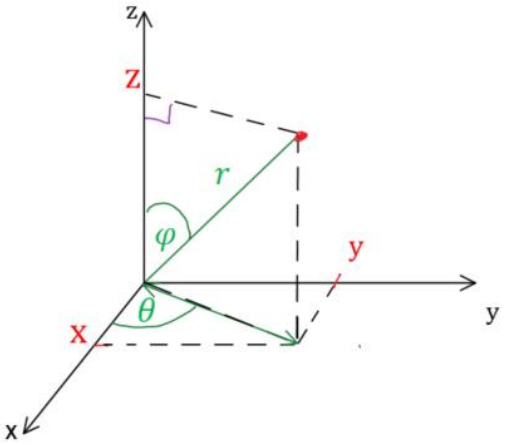

$$z = r\cos\varphi$$

$$x = r\sin\varphi\cos\theta$$

$$y = r\sin\varphi\sin\theta$$

$$r = \sqrt{x^2 + y^2 + z^2}$$

$$\tan\theta = \frac{y}{x}$$

$$\cos\varphi = \frac{z}{r} = \frac{z}{\sqrt{x^2 + y^2 + z^2}}$$

$$dl = d\,r / r\sin\varphi d\theta / r\,\mathrm{d}\varphi$$

מעטפת כדור

$$dS = r^2\sin\varphi d\theta\,\mathrm{d}\varphi$$

כדור מלא

$$dV = r^2\sin\varphi dr d\theta\,\mathrm{d}\varphi$$

שאלות:

1) שטח מעגל

חשבו שטח דיסקה בעלת רדיוס R (שטח מעגל) באמצעות אינטגרל על אלמנט שטח בקואורדינטות פולריות.

2) חישוב נפח גליל

חשבו נפח גליל באמצעות אינטגרל על אלמנט נפח בקואורדינטות גליליות.

תשובות סופיות:

1) $S = \pi R^2$

2) $V = \pi R^2 h$