# כימיה אורגנית

## פרק 7 - כהלים וראקציות של אלכוהול ואתרים

### תוכן העניינים

1. כללי ..... 1

# כהלים ואתרים, תיאולים וסולפידים:

## שאלות:

**1)** ציירו את המבנים הבאים:

א. tert-butyl alcohol

ב. 4-methyl-3-hexanol

ג. (1S, 3R)-3-methylcyclohexanol

**2)** תנו שמות לפי IUPAC לחומרים הבאים:

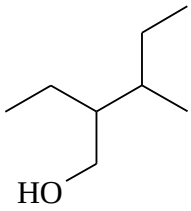


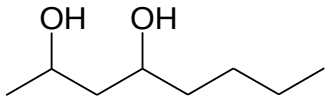


**3)** סדר תרכובות לפי טמפרטורת רתיחה.

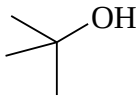


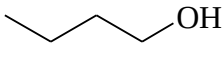


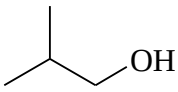


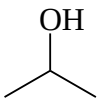


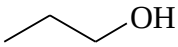


**4)** איזו משתי התרכובות הבאות תהייה חומצית יותר?
נמק את תשובתך ע"י שימוש בתיאוריית הרזוננס.

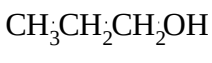


A

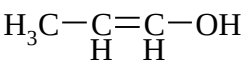


B

**5)** מה המנגנון לריאקציה הבאה?

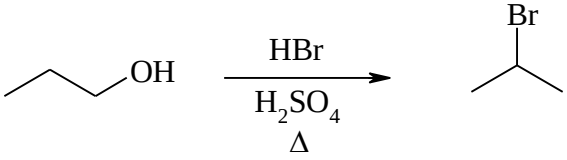

**6)** מה יהיה התוצר בתגובה הבאה? פרטו מנגנון.

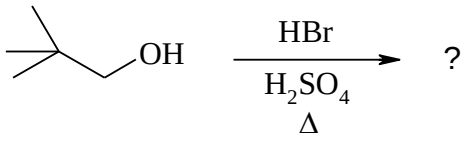


**7)** רשמו ליד כל אחת מהתגובות הבאות האם התרכובת עברה חימצון, חיזור אם בכלל. נמקו.

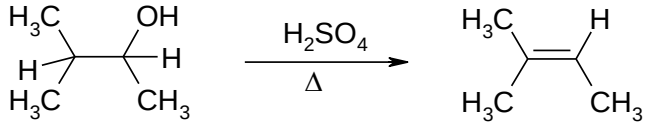


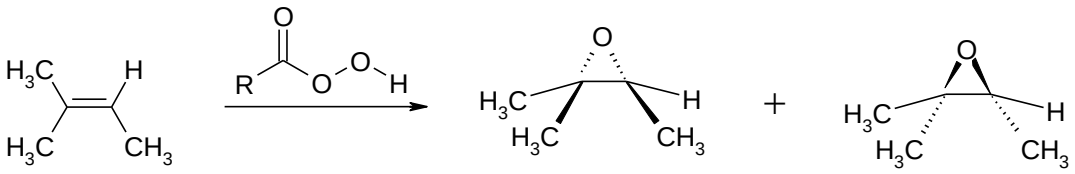


**8)** דיאול $C_6H_{14}O_2$ הופך כתוצאה מתגובת אתריפיקציה אינטראמולקולרית לאתר טבעתי. מהם המבנה/ים של חומר המוצא אם ידוע:

א. בטבעת ישנם 5 אטומים.

ב. חומר המוצא והאתר הנוצר הם תרכובות כיראליות.

ג. חימצון הדיאול גורם להיווצרות די-קטון.

**9)** מהם השלבים לקבלת התוצרים הבאים ממגיב A?

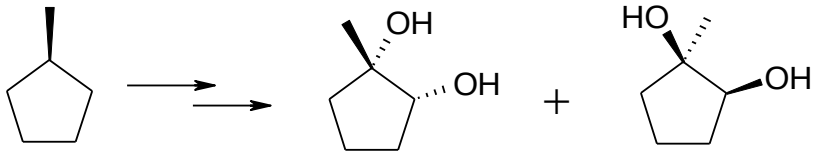


A

**10)** מה התוצרים של התגובות הבאות?

א.

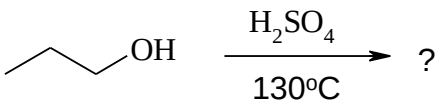


ב.

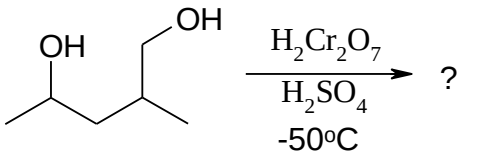


ג.

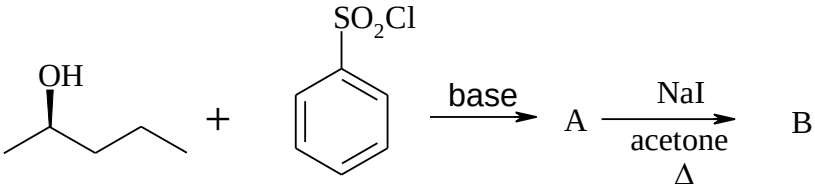


**11)** מה תוצר התגובה הבאה? ציין קונפיגורציה.




**12)** רשום את התוצר העיקרי שיתקבל בכל תגובה. פרט מנגנון:

א.




ב.

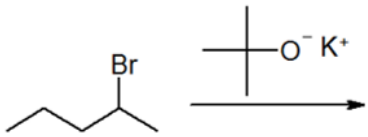


ג.

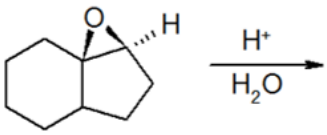


ד.

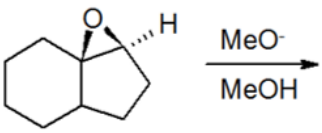

**13)** הצע סינטזה להכנת החומרים הבאים. ניתן להשתמש בכל חומר אי אורגני וכל חומר אורגני המכיל לכל היותר 5 פחמנים.

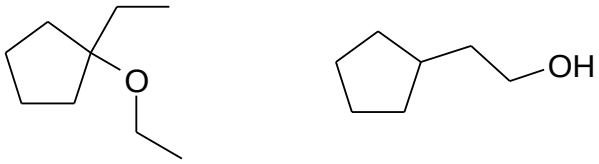


**14)** הציעו דרך להכין את התיולים והסולפידים הבאים. (סולפידים מתיולים).
באיזה מנגנון התמרה נוקלאופילית מתרחשת התגובה:

(a)
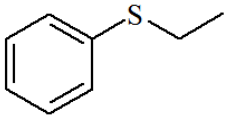


(b)
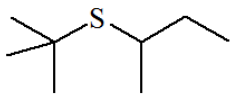


(c)
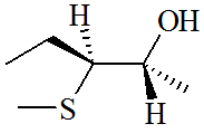


(d)
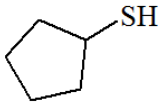


**15)** השלם את הסכימות הבאות:

א.
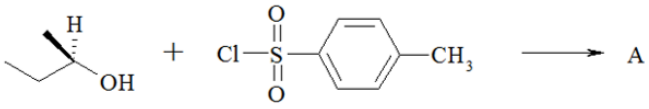


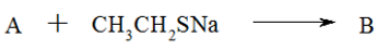


ב.
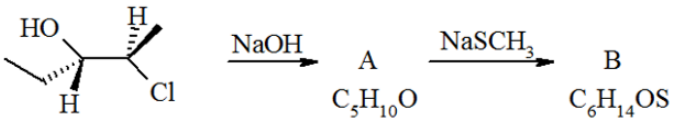


**16)** חימצון 4-*tert*-butylthiane עם sodium periodate ($NaIO_4$) נותן שני תוצרים שחימצונם הנוסף על $H_2O_2$ נותן סולפון זהה. מהו מבנה תוצרי החימצון?

