כימיה אורגנית

פרק 8 - כהלים ואתרים, תיאולים וסולפידים

תוכן העניינים

1. כללי 1

כהלים ואתרים, תיאולים וסולפידים:

שאלות:

1) ציירו את המבנים הבאים:

א. tert-butyl alcohol

ב. 4-methyl-3-hexanol

ג. (1S, 3R)-3-methylcyclohexanol

2) תנו שמות לפי IUPAC לחומרים הבאים:

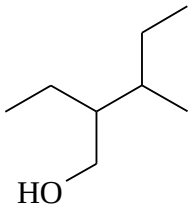

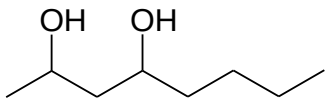

3) סדר תרכובות לפי טמפרטורת רתיחה.

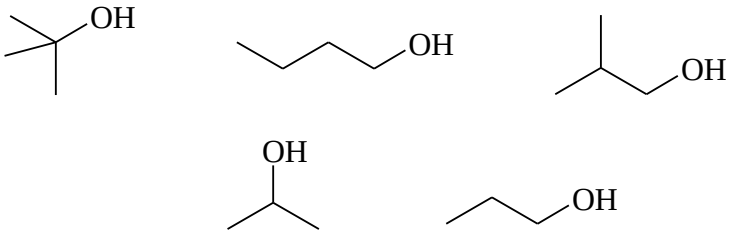

4) איזו משתי התרכובות הבאות תהייה חומצית יותר?
נמק את תשובתך ע"י שימוש בתיאוריית הרזוננס.

$CH_3CH_2CH_2OH$ — A

$H_3C-\underset{H}{C}=\underset{H}{C}-OH$ — B

5) מה המנגנון לריאקציה הבאה?

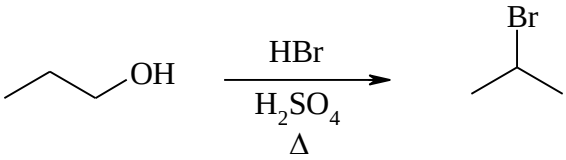

6) מה יהיה התוצר בתגובה הבאה? פרטו מנגנון.

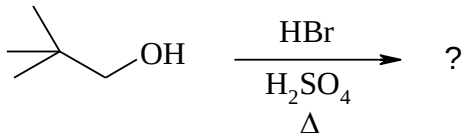

7) רשמו ליד כל אחת מהתגובות הבאות האם התרכובת עברה חימצון, חיזור אם בכלל. נמקו.

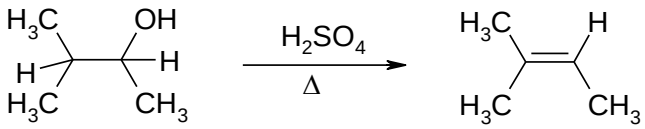

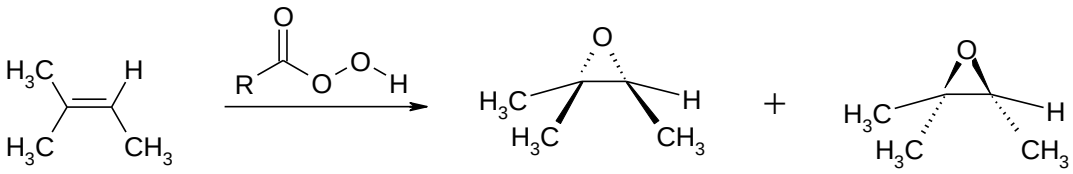

8) דיאול $C_6H_{14}O_2$ הופך כתוצאה מתגובת אתריפיקציה אינטראמולקולרית לאתר טבעתי. מהם המבנה/ים של חומר המוצא אם ידוע:

א. בטבעת ישנם 5 אטומים.

ב. חומר המוצא והאתר הנוצר הם תרכובות כיראליות.

ג. חימצון הדיאול גורם להיווצרות די-קטון.

9) מהם השלבים לקבלת התוצרים הבאים ממגיב A?

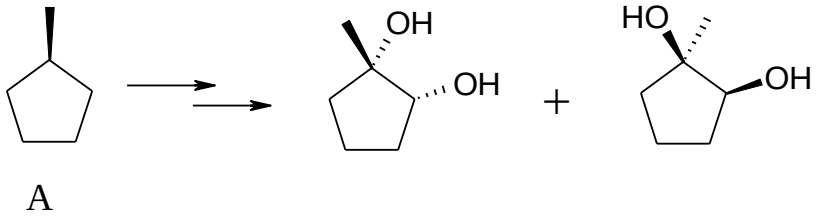

10) מה התוצרים של התגובות הבאות?

א.

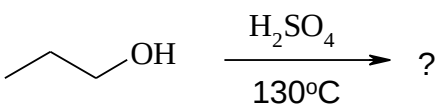

ב.

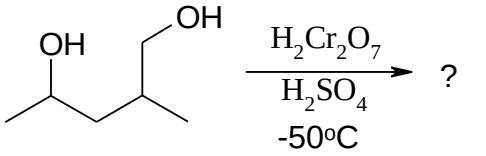

ג.

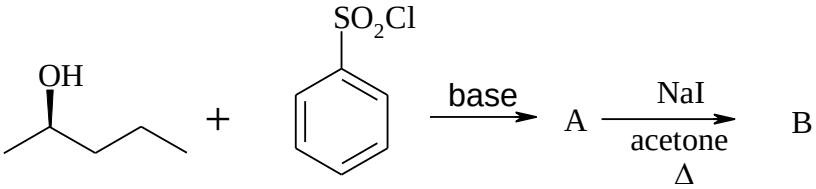

11) מה תוצר התגובה הבאה? ציין קונפיגורציה.

12) רשום את התוצר העיקרי שיתקבל בכל תגובה. פרט מנגנון:

א.

ב.

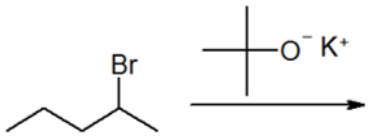

ג.

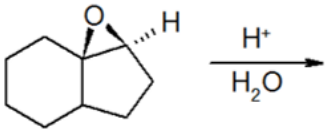

ד.

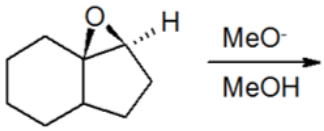

13) הצע סינטזה להכנת החומרים הבאים. ניתן להשתמש בכל חומר אי אורגני וכל חומר אורגני המכיל לכל היותר 5 פחמנים.

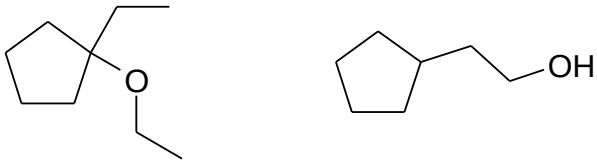

14) הציעו דרך להכין את התיולים והסולפידים הבאים. (סולפידים מתיולים).
באיזה מנגנון התמרה נוקלאופילית מתרחשת התגובה:

(a)
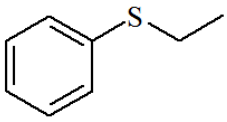

(b)
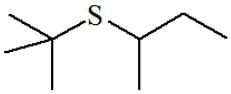

(c)
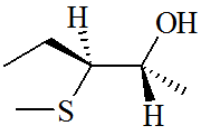

(d)
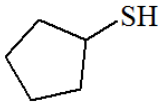

15) השלם את הסכימות הבאות:

א.
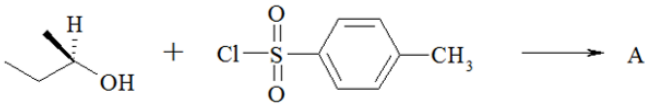

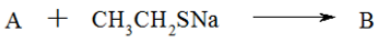

ב.
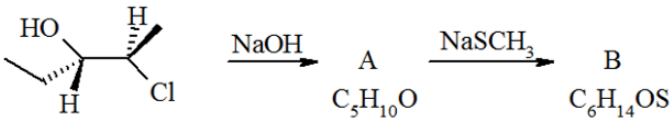
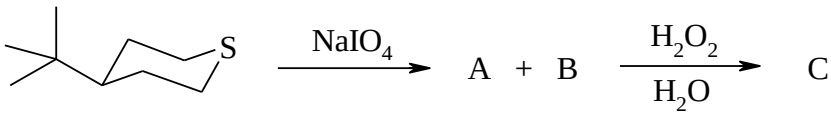
16) חימצון 4-*tert*-butylthiane עם sodium periodate ($NaIO_4$) נותן שני תוצרים שחימצונם הנוסף על H_2O_2 נותן סולפון זהה. מהו מבנה תוצרי החימצון?