כימיה אורגנית

פרק 8 - כהלים ואתרים, תיאולים וסולפידים

תוכן העניינים

1. כללי 1

כהלים ואתרים, תיאולים וסולפידים:

שאלות:

1) ציירו את המבנים הבאים:

א. tert-butyl alcohol

ב. 4-methyl-3-hexanol

ג. (1S, 3R)-3-methylcyclohexanol

2) תנו שמות לפי IUPAC לחומרים הבאים:

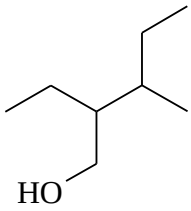

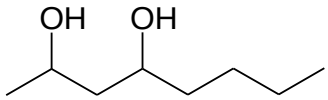

3) סדר תרכובות לפי טמפרטורת רתיחה.

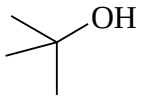

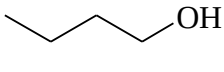

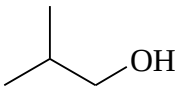

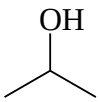

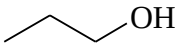

4) איזו משתי התרכובות הבאות תהייה חומצית יותר?
נמק את תשובתך ע"י שימוש בתיאוריית הרזוננס.

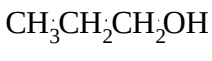

A

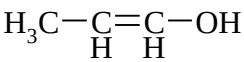

B

5) מה המנגנון לריאקציה הבאה?

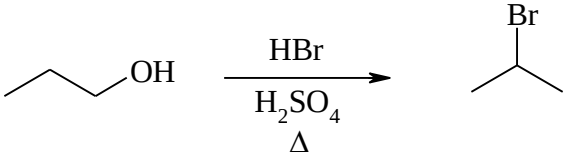

6) מה יהיה התוצר בתגובה הבאה? פרטו מנגנון.

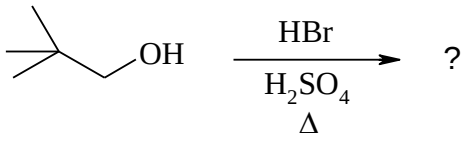

7) רשמו ליד כל אחת מהתגובות הבאות האם התרכובת עברה חימצון, חיזור או בכלל. נמקו.

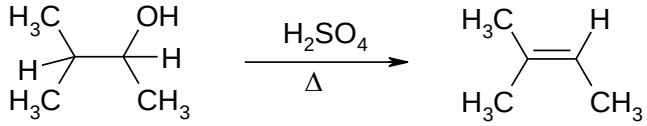

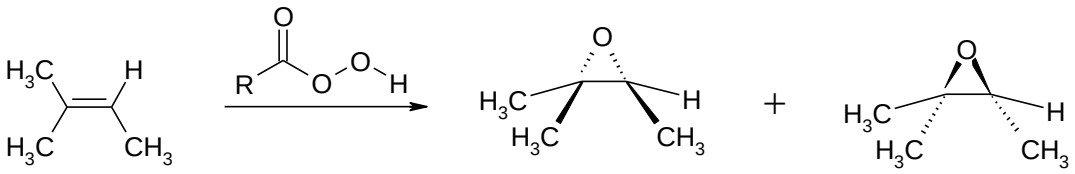

8) דיאול $C_6H_{14}O_2$ הופך כתוצאה מתגובת אתריפיקציה אינטראמולקולרית לאתר טבעתי. מהם המבנה/ים של חומר המוצא אם ידוע:

א. בטבעת ישנם 5 אטומים.

ב. חומר המוצא והאתר הנוצר הם תרכובות כיראליות.

ג. חימצון הדיאול גורם להיווצרות די-קטון.

9) מהם השלבים לקבלת התוצרים הבאים ממגיב A?

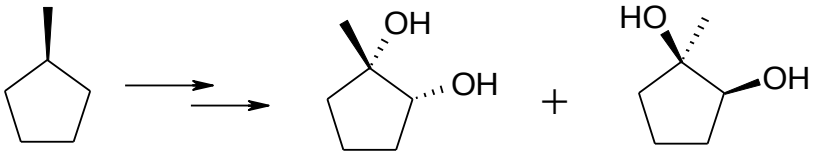

A

10) מה התוצרים של התגובות הבאות?

א.

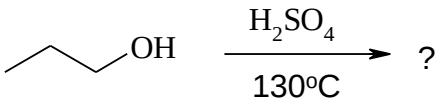

ב.

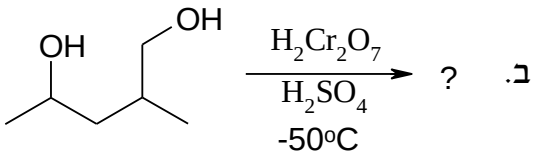

ג.

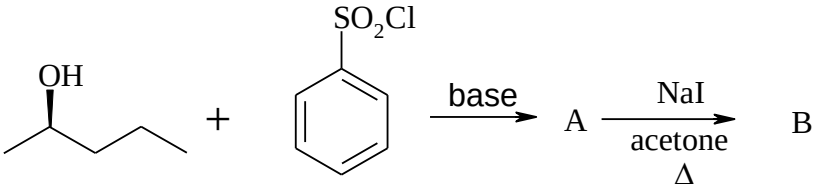

11) מה תוצר התגובה הבאה? ציין קונפיגורציה.



12) רשום את התוצר העיקרי שיתקבל בכל תגובה. פרט מנגנון:

א.



ב.

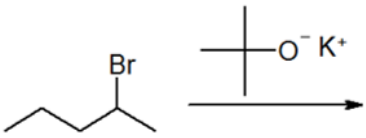

ג.

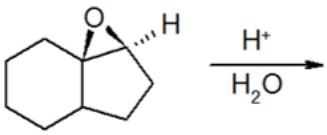

ד.

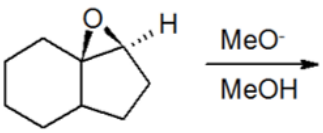

13) הצע סינטזה להכנת החומרים הבאים. ניתן להשתמש בכל חומר אי אורגני וכל חומר אורגני המכיל לכל היותר 5 פחמנים.

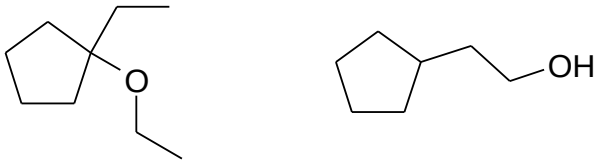

14) הציעו דרך להכין את התיולים והסולפידים הבאים. (סולפידים מתיולים).
באיזה מנגנון התמרה נוקלאופילית מתרחשת התגובה:

(a)
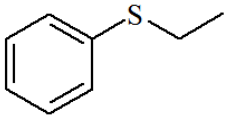

(b)
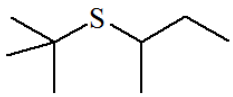

(c)
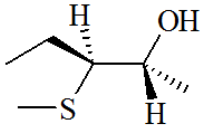

(d)
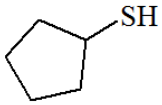

15) השלם את הסכימות הבאות:

א.
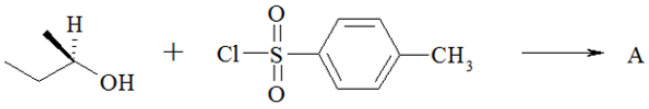

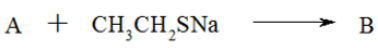

ב.
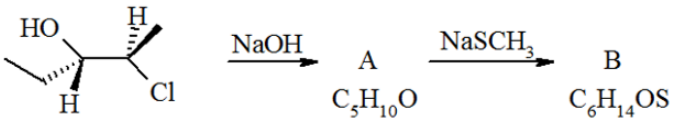

16) חימצון 4-*tert*-butylthiane עם sodium periodate ($NaIO_4$) נותן שני תוצרים שחימצונם הנוסף על H_2O_2 נותן סולפון זהה. מהו מבנה תוצרי החימצון?

