# כימיה אורגנית ב

## פרק 4 - כהלים ואתרים, תיאולים וסולפידים

תוכן העניינים

1. כללי ..... 1

# כהלים ואתרים, תיאולים וסולפידים:

## שאלות:

**1)** ציירו את המבנים הבאים:

א. tert-butyl alcohol

ב. 4-methyl-3-hexanol

ג. (1S, 3R)-3-methylcyclohexanol

**2)** תנו שמות לפי IUPAC לחומרים הבאים:

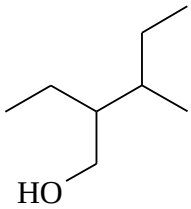


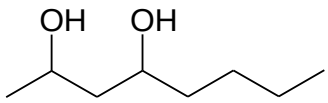


**3)** סדר תרכובות לפי טמפרטורת רתיחה.

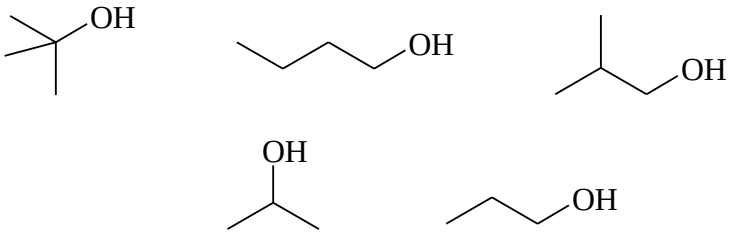


**4)** איזו משתי התרכובות הבאות תהייה חומצית יותר?
נמק את תשובתך ע"י שימוש בתיאוריית הרזוננס.

$CH_3CH_2CH_2OH$ — A

$H_3C-\underset{H}{C}=\underset{H}{C}-OH$ — B

**5)** מה המנגנון לריאקציה הבאה?

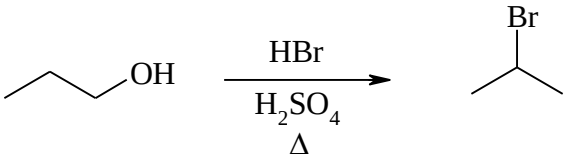

**6)** מה יהיה התוצר בתגובה הבאה? פרטו מנגנון.

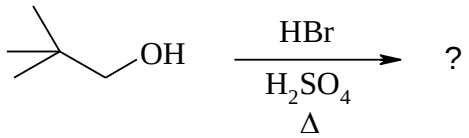


**7)** רשמו ליד כל אחת מהתגובות הבאות האם התרכובת עברה חימצון, חיזור אם בכלל. נמקו.

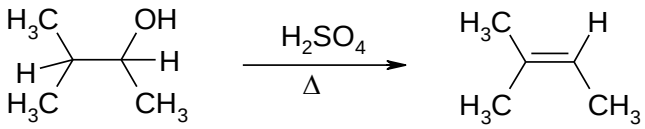


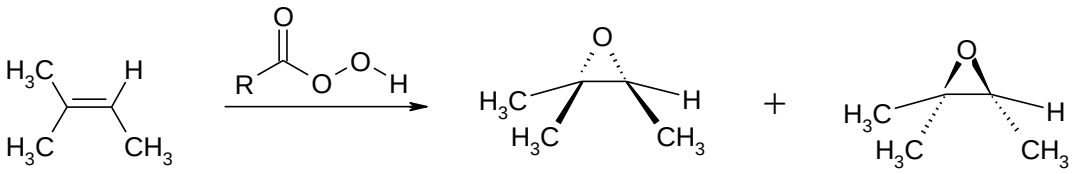


**8)** דיאול $C_6H_{14}O_2$ הופך כתוצאה מתגובת אתריפיקציה אינטראמולקולרית לאתר טבעתי. מהם המבנה/ים של חומר המוצא אם ידוע:

א. בטבעת ישנם 5 אטומים.

ב. חומר המוצא והאתר הנוצר הם תרכובות כיראליות.

ג. חימצון הדיאול גורם להיווצרות די-קטון.

**9)** מהם השלבים לקבלת התוצרים הבאים ממגיב A?

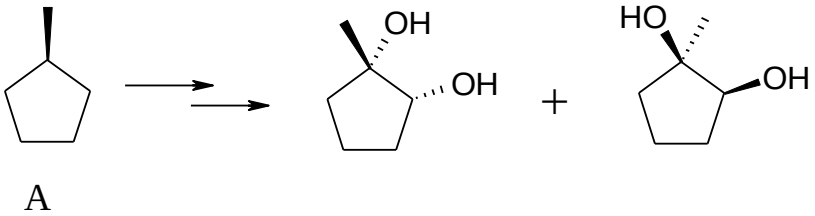

**10)** מה התוצרים של התגובות הבאות?

א.

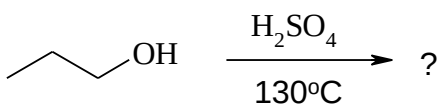


ב.

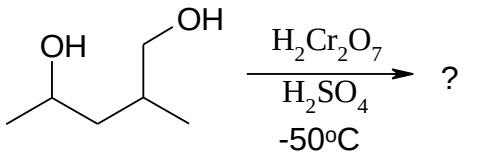


ג.

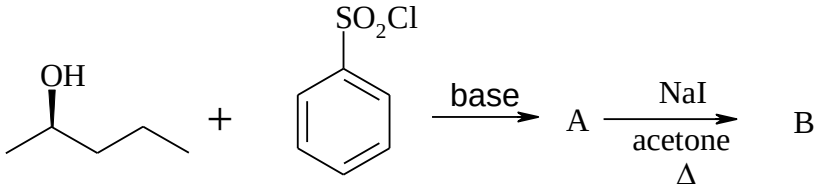


**11)** מה תוצר התגובה הבאה? ציין קונפיגורציה.

**12)** רשום את התוצר העיקרי שיתקבל בכל תגובה. פרט מנגנון:

א.

ב.

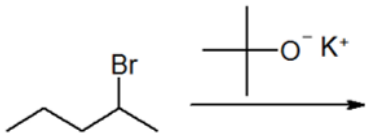


ג.

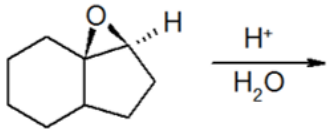


ד.

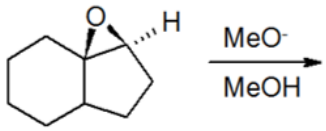
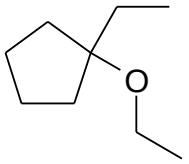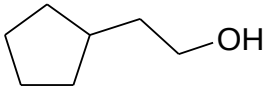
**13)** הצע סינטזה להכנת החומרים הבאים. ניתן להשתמש בכל חומר אי אורגני וכל חומר אורגני המכיל לכל היותר 5 פחמנים.