יסודות הפיזיקה 20125

פרק 20 - יחידה 1 (ב) - חוק גאוס

תוכן העניינים

1. צפיפות מטען 1
2. חוק גאוס 2
3. סיכום חוק גאוס ..... (ללא ספר)
4. תרגילים נוספים 3

צפיפות מטען:

שאלות:

1) גליל עם חור

גליל בעל רדיוס R וגובה H, טעון במטען Q המתפלג בצורה אחידה.

קודחים בגליל חור ברדיוס $r < R$, לכל אורכו.

מהו המטען שיצא מהגליל?

(נוסחה לנפח גליל: $\pi r^2 h$).

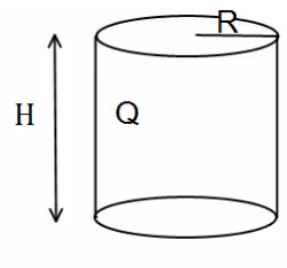

תשובות סופיות:

1) $q = \frac{Qr^2}{R^2}$

חוק גאוס:

שאלות:

1) שדה באלכסון

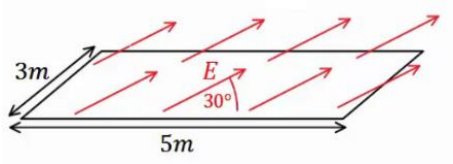

באיור הבא נתון כי השדה החשמלי על המשטח זהה בכל נקודה (שדה אחיד).

גודלו הוא $E = 2\frac{N}{C}$ והזווית בינו למשטח היא $30°$.

אורך המשטח הוא 5m ורוחבו הוא 3m.

מצא מהו השטף דרך המשטח.

2) משטח באלכסון

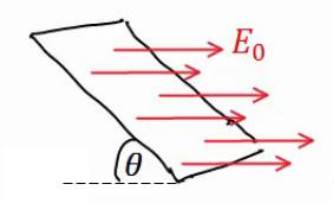

שדה חשמלי אחיד נמצא בכל המרחב בכיוון ציר ה- x,

גודלו הוא E_0.

מצא מה השטף דרך משטח המונח בזווית θ ביחס לציר ה- x.

אורך המשטח הוא a ורוחבו הוא b.

3) שדה מפוצל

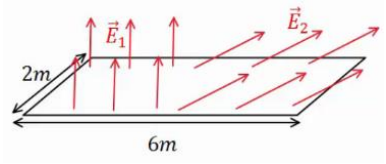

באיור הבא נתון כי השדה החשמלי על המשטח,

בחציו השמאלי, הוא: $\vec{E}_1 = 2\frac{N}{C}\hat{y}$ (שדה אחיד).

בחציו הימני של המשטח, השדה הוא: $\vec{E}_2 = 7\frac{N}{C}\hat{x} + 3\frac{N}{C}\hat{y}$.

אורך המשטח הוא 6m ורוחבו הוא 2m.

מצא מהו השטף דרך המשטח.

תשובות סופיות:

1) $\Phi_E = 15 \cdot \frac{m^2 N}{C}$

2) $\Phi_E = E_0 \sin\theta \cdot a \cdot b$

3) $\Phi_E = 30\frac{N \cdot m^2}{C}$

תרגילים נוספים:

שאלות:

1) מישור מתחת לכדור תלוי

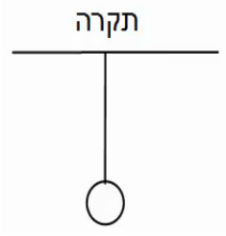

כדור בעל מסה $m=5kg$ ומטען $Q=20\mu c$ תלוי באמצעות חוט מהתקרה. מתחת לכדור ישנו מישור אינסופי בעל צפיפות מטען משטחית: $\sigma=-\frac{30\mu c}{m^3}$.

א. מצא את המתיחות בחוט.

ב. מצא את המתיחות בחוט אם $\sigma=+\frac{5\mu c}{m^3}$.

2) שתי קליפות כדוריות

במערכת הבאה שתי קליפות (חלולות) בעלות מרכז משותף (קונצנטריות). רדיוס הקליפה הפנימי הוא a והמטען עליה הוא Q_1, רדיוס הקליפה החיצונית הוא b והמטען עליה הוא Q_2.

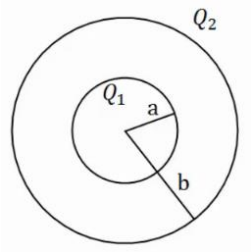

א. חשב את פונקציית השדה החשמלי בכל המרחב.

ב. מה הכוח (גודל וכיוון) שירגיש מטען בגודל Q_3, הנמצא במרחק $3b$ ממרכז הכדור.

תשובות סופיות:

1) א. $T=83.93N$ ב. $T\approx 44.35N$

2) א. $E=\begin{cases}0 & r<a\\ \frac{kQ_1}{r^2} & a<r<b\\ \frac{k(Q_1+Q_2)}{r^2} & b<r\end{cases}$

ב. $\vec{F}=Q_3\frac{k(Q_1+Q_2)}{(3b)^2}$, כיוון: כלפי חוץ.