מכינה במתמטיקה ברמת 5 יחידות

פרק 23 - טריגונומטריה במשולש ישר זווית

תוכן העניינים

1. משולש ישר זווית 1

משולש ישר זווית:

סיכום כללי:

הגדרות הפונקציות הטריגונומטריות:

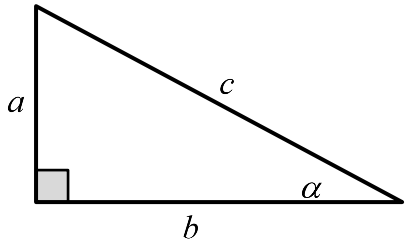

$$\sin\alpha = \frac{\text{הניצב שמול הזווית}}{\text{היתר}} = \frac{a}{c}$$

$$\cos\alpha = \frac{\text{הניצב שליד הזווית}}{\text{היתר}} = \frac{b}{c}$$

$$\tan\alpha = \frac{\text{הניצב שמול הזווית}}{\text{הניצב שליד הזווית}} = \frac{a}{b}$$

משפט פיתגורס: $a^2+b^2=c^2$

שאלות:

1) מצא את ערכו של α / x במשולשים ישרי הזווית הבאים:

א.

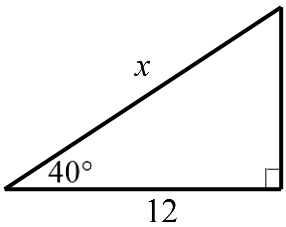

ב.

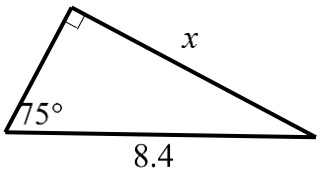

ג.

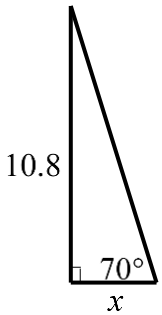

ד.

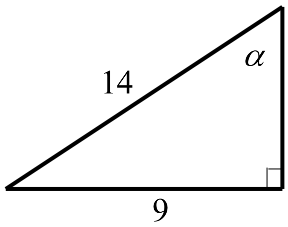

ה.

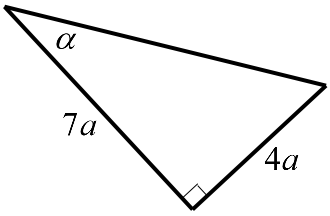

2) המשולש ABC שבציור הוא משולש ישר זווית $(\sphericalangle B = 90°)$.

AD הוא התיכון לניצב BC.

נתון: $\sphericalangle C = 28°$, 6 ס"מ = AB.

מצא את AD ואת $\sphericalangle BAD$.

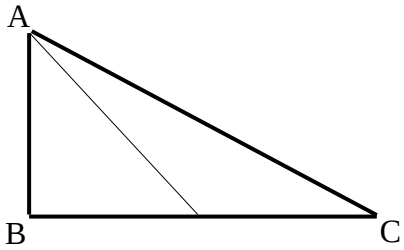

3) המשולש ABC שבציור הוא משולש ישר זווית $(\sphericalangle B=90^\circ)$. BD הוא התיכון ליתר ו-AE הוא חוצה הזווית $\sphericalangle A$.
נתון: BD = 5.6 ס"מ , BC = 8 ס"מ.
מצא את BE ואת $\sphericalangle BAE$.

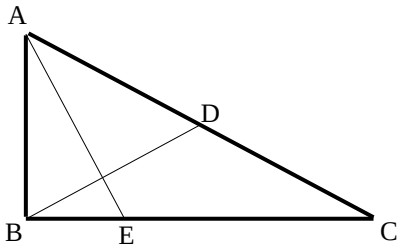

4) מצא את זוויותיו של מעוין שאורכי אלכסוניו 24 ס"מ ו-18 ס"מ.

5) המשולש ABC חסום במעגל כך שהצלע AC היא קוטר המעגל.
המשיק למעגל בנקודה A והמשך הצלע CB נפגשים בנקודה D.
נתון: BD=4 ס"מ , $\sphericalangle DAB=32^\circ$.
מצא את אורכו של רדיוס המעגל.

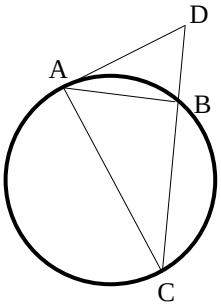

6) במשולש שווה שוקיים שבו השוק ארוכה ב-4 ס"מ מהבסיס נתון כי זווית הראש היא 34.92°. מצא את שטח המשולש.

7) המשולש ABC שבציור הוא משולש ישר זווית $(\sphericalangle B=90^\circ)$.
נתון: $\sphericalangle A=\alpha$, $AB=a$.
הבע באמצעות α ו-a את היקף המשולש.

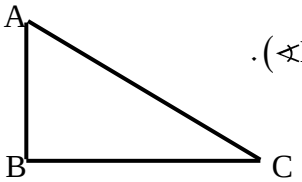

8) המשולש ABC שבציור הוא משולש ישר זווית $(\sphericalangle B=90^\circ)$.
AD הוא התיכון לניצב BC.
נתון: $\sphericalangle C=\alpha$, $AB=b$.
הבע באמצעות α ו-b את אורכי הקטעים BD ו-AD.

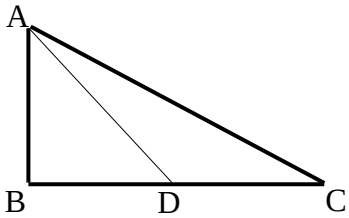

9) במשולש ישר זווית אחת הזוויות החדות היא α ואורך חוצה זווית זו הוא k.
הבע באמצעות α ו-k את שטח המשולש ואת אורך היתר.

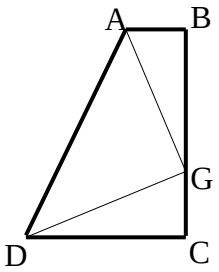

10) טרפז ABCD הוא טרפז ישר זווית $(\sphericalangle B=\sphericalangle C=90^\circ)$.
הנקודה G נמצאת על השוק BC כך ש- $AG\perp DG$.
נתון: $AG=DG=m$, $\sphericalangle BAG=\beta$.
הבע באמצעות β ו- m את שטח הטרפז.

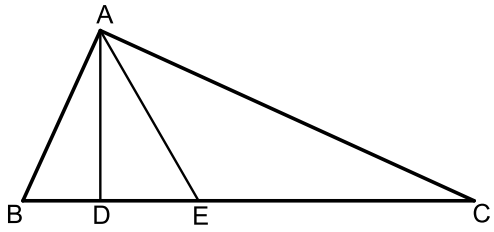

11) המשולש ABC הוא ישר זווית $(\sphericalangle A=90^\circ)$.
הקטעים AD ו-AE הם בהתאמה גובה ליתר וחוצה זווית.
מסמנים: $DE=k$, $\sphericalangle DAE=\alpha$.

א. הבע באמצעות k ו- α את שטח המשולש ABC.

ב. חשב את שטח המשולש ABC אם ידוע כי: $\alpha=30$ ו- $k=2$.

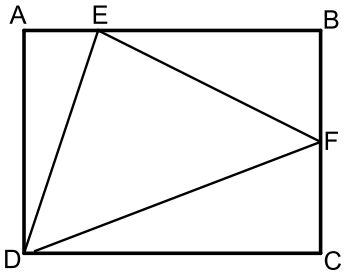

12) במלבן ABCD מסמנים את הנקודות E ו-F הנמצאות על הצלעות AB ו-BC בהתאמה כך ש-E מקיימת: $3AE=BE$ ו-F היא אמצע הצלע BC.
אורך הצלע AD שווה לאורך הקטע BE.
מעבירים את הקטעים DF , EF ו-DE כך שנוצר במשולש DEF.

א. סמן ב- t את אורך הקטע AE והבע באמצעות t את אורכי צלעות המשולש DEF.

ב. חשב את זוויות המשולש EDF.

13) משולש שווה שוקיים שאורך שוקו k וזווית הבסיס שלו היא β חוסם מעגל.
הבע באמצעות β ו- k את רדיוס המעגל.

14) בטרפז ישר זווית חסום מעגל. אורך השוק הארוכה בטרפז היא b והזווית שהיא יוצרת עם הבסיס הגדול היא α.
הבע באמצעות α ו- b את אורכו של הבסיס הגדול בטרפז ואת שטחו.

הערה: השאלות הבאות משלבות ידע בגיאומטריה ובטריגונומטריה יחד:

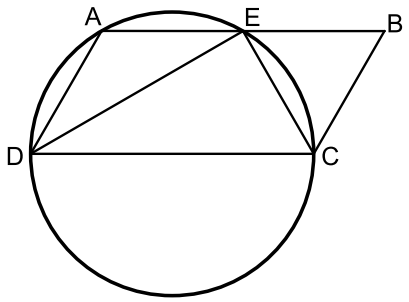

15) דרך הקודקודים A , C ו-D של המקבילית ABCD מעבירים מעגל. היקף המעגל חוצה את הצלע AB בנקודה E, $(AE = BE)$.
נתון כי DC הוא קוטר במעגל וכי המיתר DE חוצה את זווית D.

א. הוכח כי המיתר CE חוצה את זוויות C.

ב. רדיוס המעגל יסומן ב- R.
הבע באמצעות R את היקף המקבילית.

ג. מצא את רדיוס המעגל אם ידוע כי שטח המקבילית הוא $16\sqrt{3}$ סמ"ר.

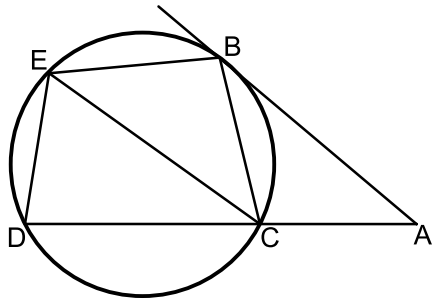

16) מהנקודה A שמחוץ למעגל מעבירים משיק AB וישר חותך ACD.
מעבירים את המיתרים BC ו-BE אשר זהים באורכם.
כמו כן מעבירים את המיתר DE.
אורך המיתר CE שונה מאורך המשיק AB.

א. הוכח כי המרובע ABEC הוא טרפז.

ב. הוכח כי: $2\cdot\sphericalangle BEC = \sphericalangle EDC$.

ג. נתונים: $\sphericalangle A = 40°$, AC = 6 ס"מ, AB = 9 ס"מ , CE = 8 ס"מ.
חשב את שטח המרובע ABEC.

תשובות סופיות:

1) א. $x=15.665$ ב. $x=8.114$ ג. $x=3.931$ ד. $\alpha=40.005°$ ה. $\alpha=29.745°$.

2) $\sphericalangle BAD=43.24°$, 8.236 ס"מ = AD.

3) $\sphericalangle BAE=22.792°$, 3.294 ס"מ = BE.

4) $106.26°$, $106.26°$, $73.74°$, $73.74°$.

5) 6.04 ס"מ = R.

6) 28.618 סמ"ר = S.

7) $P=a\left(1+\tan\alpha+\frac{1}{\cos\alpha}\right)$.

8) $BD=\frac{b}{2\tan\alpha}$, $AD=\sqrt{b^2+\frac{b^2}{4\tan^2\alpha}}$.

9) $S=\frac{k^2\cos^2\frac{\alpha}{2}\tan\alpha}{2}$, $AC=\frac{k\cos\frac{\alpha}{2}}{\cos\alpha}$.

10) $\frac{(m\sin\beta+m\cos\beta)^2}{2}$.

11) א. $S=\frac{k^2}{\cos 2\alpha\tan^2\alpha}$ ב. 24 סמ"ר.

12) א. $DF=t\sqrt{18.25}$, $EF=t\sqrt{11.25}$, $DE=t\sqrt{10}$ ב. $47.14°$, $51°$, $81.86°$.

13) $R=k\cos\beta\tan\frac{\beta}{2}$.

14) $S=\frac{1}{2}b^2\sin\alpha(1+\sin\alpha)$, $\frac{1}{2}b\sin\alpha+\frac{\frac{1}{2}b\sin\alpha}{\tan\frac{\alpha}{2}}$.

15) א. שאלת הוכחה. ב. $6R$ ג. 4 ס"מ.

16) א. שאלת הוכחה. ב. שאלת הוכחה. ג. 32.78 סמ"ר.