מתמטיקה לתלמידי גאוגרפיה ופיתוח סביבתי 2

פרק 14 - חשבון דיפרנציאלי - פונקציות לוגריתמיות

תוכן העניינים

1. הנגזרת של פונקציה לוגריתמית 1
2. שימושי הנגזרת 6
3. חקירה של פונקציה לוגריתמית 7

הנגזרת של פונקציה לוגריתמית:

סיכום כללי:

הגדרות כלליות:

להלן תיאורים גרפיים של פונקציה לוגריתמית כללית מהצורה: $f(x)=\log_a x$ עבור $a>1$ ו- $0<a<1$:

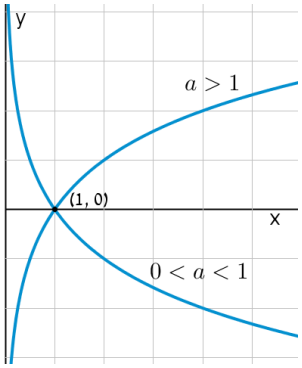

תכונות כלליות:

- לפונקציות תחום הגדרה $x>0$.
- הפונקציות תמיד חותכות את ציר ה- x בנקודה $(1,0)$.
- עבור $a>1$ הפונקציה עולה בכל ת.ה. ועבור $0<a<1$ הפונקציה יורדת בכל ת.ה.

עבור הפונקציות $f(x)=\ln x=\log_e x$ נקבל כי שיפוע המשיק לגרף הפונקציה בנקודת החיתוך שלה עם ציר ה- x הוא 1:

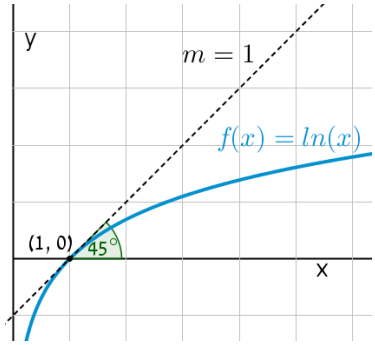

תחום הגדרה של פונקציה לוגריתמית:

תחום ההגדרה של פונקציה לוגריתמית מהצורה: $y=\log\left(f(x)\right)$ הוא: $f(x)>0$.

נגזרות של פונקציות לוגריתמיות:

הפונקציה	הנגזרת
$y=\log_a x$	$y'=\frac{1}{x\ln a}$
$y=\log_a f(x)$	$y'=\frac{f'(x)}{f(x)\ln a}$
$y=\ln x$	$y'=\frac{1}{x}$
$y=\ln f(x)$	$y'=\frac{f'(x)}{f(x)}$

שאלות:

1) גזור את הפונקציות הבאות (גזירה לוגריתמית יסודית עם ביטויים פנימיים שונים):

א. $f(x)=3\ln x+4\ln(x+2)-\ln(5x-1)$ ב. $f(x)=\ln(x^2-3x)$

ג. $f(x)=\ln\frac{x+1}{x-1}$ ד. $f(x)=\ln(e^x+1)$

ה. $f(x)=\ln(\cos x)$ ו. $f(x)=\log_2 x+5\log_3(2x-1)$

2) גזור את הפונקציות הבאות (מכפלה ומנה של פונקציות):

א. $f(x)=x\ln x$ ב. $f(x)=(3x+1)^2\ln x$ ג. $f(x)=\frac{\ln x}{x}$

ד. $f(x)=\frac{\ln x-2}{\ln x+2}$ ה. $f(x)=\sqrt{\ln x+x}$

3) גזור את הפונקציות הבאות (פונקציות מורכבות):

א. $f(x)=\ln^3 x$ ב. $f(x)=3\ln^2 x$

ג. $f(x)=x^2\ln^2 x$ ד. $f(x)=\frac{\ln^2 x+1}{(\ln x+1)^2}$

4) גזור את הפונקציות הבאות (שאלות שונות):

א. $f(x)=\ln(x+2)$

ב. $f(x)=\ln^2 x+2\ln x-3$

ג. $f(x)=x^2\ln x$

ד. $f(x)=x^3\ln x$

ה. $f(x)=\ln e^{2x}$

ו. $f(x)=e^x\ln x$

ז. $f(x)=e^{-x^2}\ln x$

ח. $f(x)=x^2(2\ln x-1)$

ט. $f(x)=\ln(x^2)$

י. $f(x)=\ln(x^4)$

יא. $f(x)=(\ln x)^4$

יב. $f(x)=x\ln x-\ln x^2$

יג. $f(x)=\dfrac{(\ln x)^2}{x}$

יד. $f(x)=\ln\sqrt{x}$

טו. $f(x)=\sqrt{\ln x}$

טז. $f(x)=\dfrac{\ln x}{\sqrt{x}}$

5) גזור את הפונקציות הבאות (שאלות אתגר):

א. $f(x)=\ln\dfrac{x+2}{x}$

ב. $f(x)=\ln\dfrac{x-1}{x+1}$

ג. $f(x)=\ln\dfrac{x-3}{x+3}$

ד. $f(x)=\ln\dfrac{(x-5)^3}{(x+1)^2}$

ה. $f(x)=\ln\sqrt{x^2-1}$

ו. $f(x)=\ln\left(x+\sqrt{x^2+a^2}\right)$

ז. $f(x)=e^{\sqrt{\ln x}}$

ח. $f(x)=\ln\sqrt{\dfrac{1}{2-x}}$

ט. $f(x)=\ln\sqrt{\dfrac{1-x}{1+x}}$

י. $f(x)=\ln\sqrt{\dfrac{1+5x}{1-5x}}$

יא. $f(x)=\dfrac{\ln\sqrt[3]{x}}{x}$

יב. $f(x)=\dfrac{(\ln x)^3}{x}$

יג. $f(x)=\dfrac{x}{\ln(x^2)}$

יד. $f(x)=\ln^2 x+\dfrac{1}{\ln^2 x}$

טו. $f(x)=\dfrac{x}{\ln^4 x}$

תשובות סופיות:

1) א. $f'(x)=\frac{3}{x}+\frac{4}{x+2}-\frac{5}{5x-1}$ ב. $f'(x)=\frac{2x-3}{x^2-3x}$ ג. $f'(x)=\frac{-2}{(x-1)(x+1)}$

ד. $f'(x)=\frac{e^x}{e^x+1}$ ה. $f'(x)=-\tan x$ ו. $f'(x)=\frac{1}{x\ln 2}+\frac{10}{(2x-1)\ln 3}$

2) א. $f'(x)=\ln x+1$ ב. $f'(x)=(3x+1)\left(6\ln x+\frac{3x+1}{x}\right)$ ג. $f'(x)=\frac{1-\ln x}{x^2}$

ד. $f'(x)=\frac{4}{x(\ln x+2)^2}$ ה. $f'(x)=\frac{1+x}{2x\sqrt{\ln x+x}}$.

3) א. $f'(x)=\frac{3\ln^2 x}{x}$ ב. $f'(x)=\frac{6\ln x}{x}$ ג. $f'(x)=2x\ln x(\ln x+1)$

ד. $f'(x)=\frac{2(\ln x-1)}{x(\ln x+1)^3}$.

4) א. $\frac{1}{x+2}$ ב. $\frac{2\ln x+2}{x}$ ג. $x(2\ln x+1)$

ד. $x^2(3\ln x+1)$ ה. 2 ו. $e^x\left(\ln x+\frac{1}{x}\right)$

ז. $e^{-x^2}\left(\frac{1}{x}-2x\ln x\right)$ ח. $4x\ln x$ ט. $\frac{2}{x}$ י. $\frac{4}{x}$

יא. $\frac{4(\ln x)^3}{x}$ יב. $\ln x+1-\frac{2}{x}$ יג. $\frac{2\ln x-\ln^2 x}{x^2}$

יד. $\frac{1}{2x}$ טו. $\frac{1}{2x\sqrt{\ln x}}$ טז. $\frac{2-\ln x}{2x\sqrt{x}}$

5) א. $-\frac{2}{x(x+2)}$ ב. $\frac{2}{x^2-1}$ ג. $\frac{6}{x^2-9}$

ד. $\frac{3}{x-5}-\frac{2}{x+1}$ ה. $\frac{x}{x^2-1}$ ו. $\frac{\sqrt{x^2+a^2}+x}{x\sqrt{x^2+a^2}+x^2+a^2}$

ז. $\frac{e^{\sqrt{\ln x}}}{2x\sqrt{\ln x}}$ ח. $\frac{1}{4-2x}$ ט. $\frac{1}{x^2-1}$

י. $\frac{5}{1-25x^2}$

יא. $\frac{1-3\ln\sqrt[3]{x}}{3x^2}$

יב. $\frac{3\ln^2 x-\ln^3 x}{x^2}$

יג. $\frac{\ln\left(x^2\right)-2}{\ln^2\left(x^2\right)}$

יד. $\frac{2\left(\ln^4 x-1\right)}{x\ln^3 x}$

טו. $\frac{\ln x-4}{\ln^5 x}$.

שימושי הנגזרת:

שאלות:

6) מצא את משוואת המשיק לפונקציה $f(x)=\ln x$ בנקודה $A(e,1)$.

7) שיפוע המשיק לפונקציה $f(x)=\frac{\ln^2 x+a}{\ln x+b}$ בנקודה $\left(\frac{1}{e},-1\right)$ הוא $\frac{e}{3}$.
מצא את ערכי הפרמטרים a ו- b.

8) הגרפים של הפונקציות $f(x)=\ln x$ ו- $g(x)=1$ נחתכים בנקודה A ברביע הראשון.
בנקודה A העבירו משיק ל- $f(x)$.
מצא את משוואת המשיק והוכח שמשיק זה עובר דרך הראשית.

9) לפונקציה $g(x)=\frac{\ln x^2}{x}$ העבירו משיק בנקודה שבה $x=e^2$.
מצא את משוואת המשיק.

10) מצא את משוואת המשיק לגרף הפונקציה $y=x\ln\left(x^2+1\right)$ בנקודה שבה $x=1$.

תשובות סופיות:

6) $y=\frac{1}{e}x$.

7) $a=2\ ,\ b=-2$.

8) $y=\frac{1}{e}x$.

9) $y=-\frac{2}{e^4}x+\frac{6}{e^2}$.

10) $y=\ln 2\cdot x+x-1$.

חקירה של פונקציה לוגריתמית:

שאלות:

11) מצא את תחום ההגדרה של הפונקציות הבאות:

א. $f(x)=\ln x$

ב. $f(x)=\ln\left(x^2\right)$

ג. $f(x)=\log_3\left(x^2-8x-20\right)$

ד. $f(x)=\ln\left(e^x-4\right)$

ה. $f(x)=\dfrac{x-1}{\ln x-1}$

ו. $f(x)=\dfrac{1}{\ln^2 x-2\ln x-3}$

ז. $f(x)=\sqrt{\ln x-1}$

12) מצא את נקודות הקיצון של הפונקציה הבאה: $f(x)=2\ln x-x^2$.

13) מצא את נקודות הקיצון של הפונקציה הבאה: $f(x)=x^2\ln x$.

14) מצא את נקודות הקיצון של הפונקציה הבאה: $f(x)=\dfrac{\sqrt{2\ln x-1}}{x}$.

15) מצא את נקודות הקיצון של הפונקציה הבאה: $f(x)=\log_4^2 x-\log_2 x$.

16) נתונה הפונקציה: $f(x)=\dfrac{a\ln x+b}{x}$. הנקודה $\left(e^2,\dfrac{1}{e^2}\right)$ היא נקודת קיצון של הפונקציה. מצא את ערכי הפרמטרים a ו- b.

17) נתונה הפונקציה: $f(x)=\dfrac{a\ln^2 x+b\ln x}{\left(\ln x+1\right)^2}$. הנקודה $\left(\sqrt[3]{e},-\dfrac{1}{8}\right)$ היא נקודת קיצון של הפונקציה. מצא את ערכי הפרמטרים a ו- b.

18) מצא את האסימפטוטות של הפונקציה הבאה: $f(x)=\ln(x-3)$.

19) מצא את האסימפטוטות של הפונקציה הבאה: $f(x)=\dfrac{1}{\ln x-1}$.

20) מצא את האסימפטוטות של הפונקציה הבאה: $f(x)=\frac{2\ln x-1}{\ln x+1}$.

21) מצא את האסימפטוטות של הפונקציה הבאה: $f(x)=\frac{\ln x-2}{\ln^2 x-4}$.

22) מצא את האסימפטוטות של הפונקציה הבאה: $f(x)=\frac{\ln x}{x}$.

23) מצא את האסימפטוטות של הפונקציה הבאה: $f(x)=\frac{x^2-1}{\ln^2 x+1}$.

24) מצא את האסימפטוטות של הפונקציה הבאה: $f(x)=x\ln x+2$.

25) נתונה הפונקציה: $f(x)=\frac{\ln x}{x}$. מצא את נקודת הפיתול של הפונקציה.

26) חקור את הפונקציות הבאות עפ"י הסעיפים הבאים:

i. מציאת תחום ההגדרה של הפונקציה.
ii. מציאת נקודות החיתוך של גרף הפונקציה עם הצירים.
iii. מציאת נקודות הקיצון של הפונקציה וקביעת סוגן.
iv. כתיבת תחומי העלייה והירידה של הפונקציה.

א. $y=\frac{1}{2}x^2-4x+3\ln x$
ב. $y=x\ln x$
ג. $y=x\ln x-x$
ד. $y=\sqrt{x}\ln x$
ה. $y=x^2\ln x$
ו. $y=\ln\left(x^2+1\right)$

27) נתונה הפונקציה $f(x)=2x\ln^2 x$. חקור לפי הסעיפים הבאים:

א. מציאת תחום ההגדרה של הפונקציה.

ב. מציאת נקודות הקיצון של הפונקציה וקביעת סוגן.

ג. כתיבת תחומי העלייה והירידה של הפונקציה.

ד. נקודות החיתוך של גרף הפונקציה עם הצירים.

ה. סרטוט סקיצה של גרף הפונקציה.

28) נתונה הפונקציה $f(x)=\dfrac{x}{\ln x-1}$. חקור לפי הסעיפים הבאים:

א. תחום הגדרה של הפונקציה.

ב. מציאת נקודות הקיצון של הפונקציה וקביעת סוגן.

ג. כתיבת תחומי העלייה והירידה של הפונקציה.

ד. מציאת נקודות החיתוך של גרף הפונקציה עם הצירים.

ה. סרטוט סקיצה של גרף הפונקציה.

ו. מצא לאלו ערכי k הישר $y=k$ חותך את הפונקציה בשתי נקודות.

29) נתונה הפונקציה $f(x)=\log_4^2 x-\log_2 x$. חקור לפי הסעיפים הבאים:

א. תחום הגדרה של הפונקציה.

ב. מציאת נקודות הקיצון של הפונקציה וקביעת סוגן.

ג. כתיבת תחומי העלייה והירידה של הפונקציה.

ד. מציאת נקודות החיתוך של גרף הפונקציה עם הצירים.

ה. סרטוט סקיצה של גרף הפונקציה.

30) נתונה הפונקציה: $f(x)=\sqrt{\ln x}$.

א. מהו תחום ההגדרה של הפונקציה?

ב. הוכח כי גרף הפונקציה עולה בכל תחום הגדרתו.

מגדירים פונקציה נוספת: $g(x)=\ln x$.

ג. מצא את נקודות החיתוך של שני הגרפים.

ד. הנקודה A נמצאת על גרף הפונקציה $f(x)$ והנקודה B נמצאת על גרף הפונקציה $g(x)$. ידוע כי לנקודות A ו-B אותו שיעור x , $(x_A=x_B)$.
מצא את שיעור ה-x של שתי הנקודות אם ידוע כי המשיקים לגרפים של הפונקציות בנקודות אלו מקבילים.

31) נתונה שתי הפונקציות הבאות: $g(x)=\frac{\ln x}{x}$, $f(x)=\frac{x}{\ln x}$.

א. קבע אילו מהמשפטים הבאים נכונים ואלו שגויים.
נמק זאת ע"י חישוב מתאים ותקן במשפטים השגויים את הטעות.

i. לשתי הפונקציות אותו תחום הגדרה.

ii. לשתי הפונקציות יש נקודת קיצון מאותו סוג ובעלות שיעור x זהה.

iii. לשתי הפונקציות תחומי עלייה וירידה זהים.

iv. לשתי הפונקציות יש אסימפטוטות אנכיות.

ב. בוחרים באקראי שתי נקודות, אחת על כל גרף, כך ששיעור ה-x שלהן זהה.
הוכח כי מכפלת שיעורי ה-y של כל זוג נקודות כאלו שווה ל-1.

32) נתונה הפונקציה הבאה: $y=\ln\left(x^2-6x-7\right)$.

א. מצא את תחום ההגדרה של הפונקציה.

ב. מהן האסימפטוטות של הפונקציה המקבילות לציר ה-y?

ג. מצא את תחומי העלייה והירידה של הפונקציה.

ד. לפניך 4 גרפים: I , II , III ו-IV.
איזה מהגרפים מתאים לפונקציה הנתונה. נמק.

I.
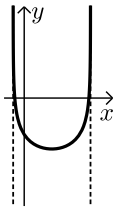

II.
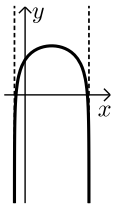

III.
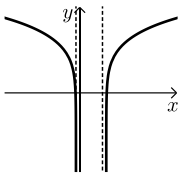

IV.
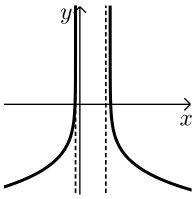

33) נתונה הפונקציה: $y=\ln\left(x^2+2x+1\right)$.

א. מצא את תחום ההגדרה של הפונקציה.

ב. מהי האסימפטוטה של הפונקציה המקבילה לציר ה-y?

ג. מצא את תחומי העלייה והירידה של הפונקציה.

ד. לפניך 4 גרפים: I , II , III ו-IV.
איזה מהגרפים מתאים לפונקציה הנתונה. נמק.

I.
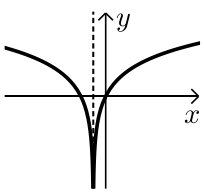

II.
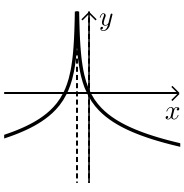

III.
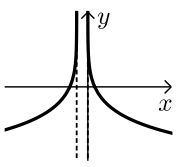

IV.
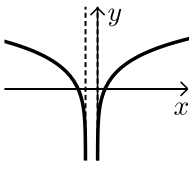

ה. העזר בגרף שבחרת וכתוב את תחומי השליליות של הפונקציה.

34) לפניך הפונקציה הבאה: $f(x)=\ln(1-\ln x)$.

א. מה הוא תחום ההגדרה של הפונקציה?

ב. הוכח כי הפונקציה יורדת בכל תחום הגדרתה.

ג. מצא את נקודות החיתוך של גרף הפונקציה עם ציר ה-x.

ד. סרטט סקיצה של גרף הפונקציה.

35) נתונה הפונקציה הבאה: $y=\ln\frac{2x+1}{x-1}$.

א. מצא את תחום ההגדרה של הפונקציה.

ב. כתוב את האסימפטוטות האנכיות של גרף הפונקציה.

ג. מצא את נקודות החיתוך של גרף הפונקציה עם ציר ה-x.

ד. הראה כי גרף הפונקציה יורד בכל תחום הגדרתו.

ה. סרטט סקיצה של גרף הפונקציה.

36) נתונה הפונקציה הבאה: $f(x)=x\left(\ln^3 x+2\ln^2 x\right)$.

א. הראה כי נגזרת הפונקציה היא: $f'(x)=\ln^3 x+5\ln^2 x+4\ln x$.

ב. מצא את התחום בו הפונקציה עולה.

ג. ענה על השאלות הבאות:

i. מצא את נקודות החיתוך של הפונקציה עם ציר ה-x.

ii. מצא את התחום בו הפונקציה חיובית.

ד. לפניך 4 גרפים. קבע איזה מהם מתאר את הפונקציה $f(x)$ ונמק את בחירתך.

I.
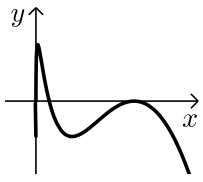

II.
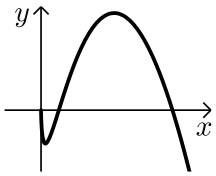

III.
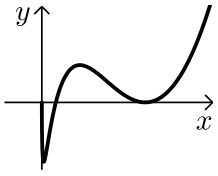

IV.
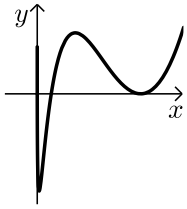

37) נתונה הפונקציה: $f(x)=\ln^3 x-3\ln x$.

א. מה הוא תחום ההגדרה של הפונקציה.

ב. מצא את נקודות החיתוך של הפונקציה עם ציר ה-x.

ג. מצא את נקודות הקיצון של הפונקציה וקבע את סוגן.

ד. סרטט סקיצה של גרף הפונקציה.

ה. מצא את נקודות החיתוך של גרף הפונקציה $f(x)$ עם הפונקציה: $g(x)=\ln x$.

38) ענה על הסעיפים הבאים:

א. פתור את המשוואה הבאה: $\ln(x+e)-\ln\left(x\sqrt{e}\right)=\ln 2-0.5$.

נתונה הפונקציה: $f(x)=\ln(x+e)-\ln\left(x\sqrt{e}\right)$.

ב. הראה כי הפונקציה יורדת בכל תחום הגדרתה.

ג. מצא את משוואת המשיק לגרף הפונקציה בנקודה שבה: $x=e$.

39) נתונה הפונקציה הבאה: $y=\dfrac{x+a}{\ln(x+a)}$, a פרמטר חיובי, $a\neq 1$.

א. הבע באמצעות a את:

i. תחום ההגדרה של הפונקציה.

ii. הנקודה המקיימת $y'=0$.

iii. נקודת החיתוך של גרף הפונקציה עם הצירים.

iv. האסימפטוטה האנכית של הפונקציה.

ב. ידוע כי גרף הפונקציה עולה רק בתחום: $x>e-2$. מצא את a.

ג. סרטט סקיצה של גרף הפונקציה בתחום $x>-1$.

ד. נתון הישר: $y=k$. מצא בסקיצה את תחום הערכים של k עבורו לישר ולגרף הפונקציה לא תהיה אף נקודה משותפת.

40) נתונה הפונקציה הבאה: $y=\ln x+\dfrac{1}{x}$.

א. ענה על הסעיפים הבאים:

i. מהו תחום ההגדרה של הפונקציה?

ii. יש לגרף הפונקציה אסימפטוטה מקבילה לציר y?
אם כן מצא אותה.

ב. מצא את נקודת הקיצון של גרף הפונקציה וקבע את סוגה.

ג. כתוב את תחומי העלייה והירידה של גרף הפונקציה.

תשובות סופיות:

11) א. $x>0$ ב. $x\neq 0$ ג. $x>10$ או $x<-2$ ד. $x>\ln 4$
ה. $0<x\neq e$ ו. $x>0$ וגם $x\neq e^3,e^{-1}$ ז. $x\geq e$.

12) $\max(1,-1)$.

13) $\min\left(\frac{1}{\sqrt{e}},-\frac{1}{2e}\right)$.

14) $\min\left(\sqrt{e},0\right)$ קצה, $\max\left(e,\frac{1}{e}\right)$.

15) $\min(4,-1)$.

16) $a=1$, $b=-1$.

17) $a=1$, $b=-1$.

18) $x=3$.

19) נקודת אי הגדרה $(0,0)$, $x=e$, $y=0$.

20) נקודת אי הגדרה $(0,2)$, $x=\frac{1}{e}$, $y=2$.

21) נקודת אי הגדרה $\left(e^2,\frac{1}{4}\right)$; $(0,0)$, $x=\frac{1}{e^2}$, $y=0$.

22) $x=0$, $y=0$.

23) נקודת אי הגדרה $(0,0)$.

24) נקודת אי הגדרה $(0,2)$.

25) $\left(\sqrt{e^3},\frac{3}{2\sqrt{e^3}}\right)$.

26) א. i. $x>0$ iii. $\max(1,-3.5)$, $\min(3,\ln 27-7.5)$
iv. עולה: $0<x<1$, $x>3$ יורדת: $1<x<3$.
ב. i. $x>0$ ii. $(1,0)$
iii. $\min\left(e^{-1},-e^{-1}\right)$ iv. עולה: $x>e^{-1}$ יורדת: $0<x<e^{-1}$.
ג. i. $x>0$ ii. $(e,0)$ iii. $\min(1,-1)$ iv. עולה: $x>1$ יורדת: $0<x<1$
ד. i. $x>0$ ii. $(1,0)$ iii. $\min\left(e^{-2},-\frac{2}{e}\right)$ iv. עולה: $x>e^{-2}$ יורדת: $0<x<e^{-2}$

ה. i. $x>0$ ii. $(1,0)$ iii. $\min\left(\frac{1}{\sqrt{e}},-\frac{1}{2e}\right)$ iv. עולה: $x>\frac{1}{\sqrt{e}}$ יורדת: $0<x<\frac{1}{\sqrt{e}}$

ו. i. כל x ii. $(0,0)$ iii. $\min(0,0)$ iv. עולה: $x>0$ יורדת: $x<0$.

27) א. $x>0$ ב. $\min(1,0)$, $\max\left(\frac{1}{e^2},\frac{8}{e^2}\right)$

ג. עלייה: $x>1$ או $0<x<\frac{1}{e^2}$, ירידה: $\frac{1}{e^2}<x<1$. ד. $(1,0)$.

28) א. $0<x\neq e$ ב. $\min\left(e^2,e^2\right)$ ג. עלייה: $x>e^2$, ירידה:

$0<x<e^2$ וגם $x\neq e$ ד. אין. ו. $k>e^2$.

29) א. $x>0$ ב. $\min(4,-1)$ ג. עלייה: $x>4$, ירידה: $0<x<4$

ד. $(16,0)$, $(1,0)$.

30) א. $x\geq 1$ ב. מתקבל: $f'(x)=\frac{1}{2x\sqrt{\ln x}}>0$ ג. $(e,1)$, $(1,0)$.

ד. $x=\sqrt[4]{e}$.

31) א. i. לא נכון. תחום ההגדרה של $f(x)$ הוא: $x>0$, $x\neq 1$ ותחום ההגדרה של $g(x)$ הוא: $x>0$.

ii. לא נכון. לשתי הפונקציות נקודת קיצון שבה $x=e$ אך עבור $f(x)$ מדובר במינימום ועבור $g(x)$ מדובר במקסימום.

iii. לא נכון. עבור $f(x)$: עולה: $x>e$ יורדת: $0<x<e$, $x\neq 1$.

ועבור $g(x)$: עולה: $0<x<e$ יורדת: $x>e$. iv. נכון.

ב. לגבי כל נקודה נאמר כי שיעור ה-y שלה הוא: $y=\frac{x}{\ln x}$ ו- $y=\frac{\ln x}{x}$.

נכפול: $y=\frac{x}{\ln x}\cdot\frac{\ln x}{x}=1$.

32) א. $x<-1$, $x>7$ ב. $x=-1,7$ ג. עולה: $x>7$ יורדת: $x<-1$.

ד. III. <u>הסבר</u>: באיורים I ו-II גרף הפונקציה לא בתחום.

באיור IV תחומי העלייה והירידה הפוכים.

33) א. $x\neq -1$ ב. $x=-1$. ג. עולה: $x>-1$ יורדת: $x<-1$

ד. I. <u>הסבר</u>: באיור II תחומי העלייה והירידה הפוכים.

באיורים III ו-IV יש אסימפטוטה מיותרת. ה. $-2<x<0$, $x\neq -1$.

34) א. $0<x<e$. (שימו לב כי תנאי ת.ה. הם: $1-\ln x>0$ וגם $x>0$).

ב. $f'(x)=\frac{-\frac{1}{x}}{1-\ln x}=-\frac{1}{x(1-\ln x)}<0$ - ולכן הפונקציה יורדת בת.ה.

ג. $(1,0)$.

35) א. $x>1$, $x<-\frac{1}{2}$ ב. $x=-\frac{1}{2},1$ ג. $(-2,0)$

ד. מתקבל: $y'=\frac{-3}{(2x+1)(x-1)}<0$.

36) ב. $e^{-4}<x<e^{-1}$, $x>1$.

ג. i. 2 נקודות והן: $(1,0)$, $(e^{-2},0)$. הנקודה שבה: $x=0$ לא קיימת עקב ת.ה.

ii. $x>e^{-2}$, $x\neq 1$. ד. III – בראשית הצירים יש חור ולא אסימפטוטה.
שאר הנתונים כפי שהתקבלו בסעיפים הקודמים.

37) א. $x>0$ ב. $(1,0)$, $(e^{\sqrt{3}},0)$, $(e^{-\sqrt{3}},0)$. ג. $\min(e,-2)$, $\max(e^{-1},2)$

ה. $(1,0)$, $(e^{2},2)$, $(e^{-2},-2)$.

38) א. $x=e$ ב. מתקבל: $y'=\frac{-e}{x(x+e)}<0$ ג. $y=-\frac{1}{2e}x+\ln 2$.

39) א. i. $x>-a$, $x\neq 1-a$ ii. $(e-a,e)$ iii. $\left(0,\frac{a}{\ln a}\right)$

iv. $x=1-a$ ב. $a=2$ ד. $k<e$.

40) א. i. $x>0$ ii. $x=0$ ב. $\min(1,1)$ ג. עולה: $x>1$, יורדת: $0<x<1$.

סקיצות לשאלות:

(27

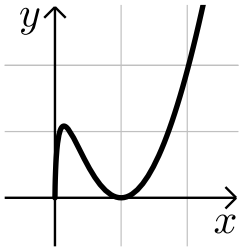

(28

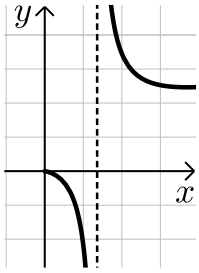

(29

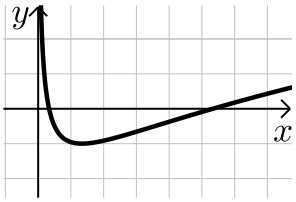

(34

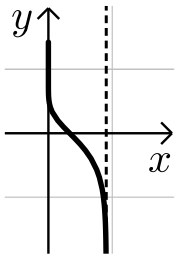

(35

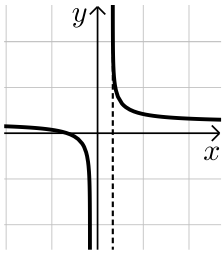

(37

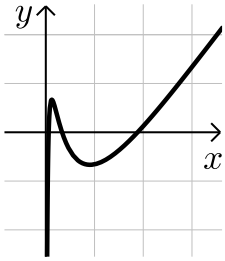

(39

