קורס מתמטיקה להנדסאי טכנולוגיות מים

פרק 23 - חשבון דיפרנציאלי - חקירת פונקצית פולינום

תוכן העניינים

1. נקודות קיצון של פונקציות 1
2. חקירת פונקציה פולינומית 4
3. פונקציה זוגית ואי-זוגית 8

נקודות קיצון של פונקציות:

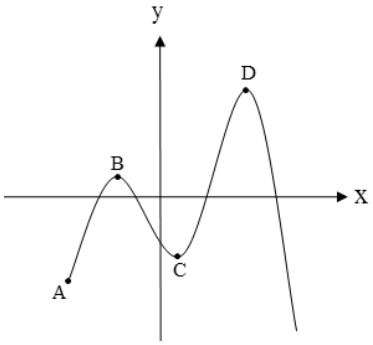

סיכום כללי:

נקודות קיצון (נקודות מינימום/מקסימום):

- מינימום או מקסימום מקומי (פנימי) – B , C , D.
- מינימום או מקסימום קצה – A.
- מינימום או מקסימום מוחלט – D.

נקודות קיצון מקומיות:

- שיפוע המשיק לפונקציה בנקודות קיצון מקומיות הוא אפס.
- בנקודה שבה שיפוע המשיק לפונקציה הוא אפס תיתכן נקודת קיצון מקומית. נקודה כזו נקראת נקודה חשודה כקיצון. ניתן לבדוק אם היא אכן נקודת קיצון.

שלבים למציאת נקודות קיצון מקומיות:

- נגזור את הפונקציה.
- נשווה את הנגזרת לאפס ונחלץ את ערכי ה-x של הנקודות החשודות כקיצון.
- נציב את ערכי ה-x מסעיף ב' בפונקציה המקורית לקבלת ערכי ה-y.
- נקבע אם הנקודה היא נקודת קיצון ונסווג את סוג הקיצון על ידי טבלה.

שאלות:

1) מצא את נקודות הקיצון של הפונקציה $f(x)=10x-x^2$.

2) נתונה הפונקציה $f(x)=x^3-12x$.

א. מהן נקודות הקיצון של הפונקציה?

ב. מהם תחומי העלייה והירידה של הפונקציה?

3) נתונה הפונקציה $f(x)=x^4-10x^2+9$.

א. מהן נקודות הקיצון של הפונקציה?

ב. מהם תחומי העלייה והירידה של הפונקציה?

4) נתונה הפונקציה $f(x)=x^4-4x^3+32$.

א. מהן נקודות הקיצון של הפונקציה?

ב. מהם תחומי העלייה והירידה של הפונקציה?

5) לפונקציה $f(x)=ax-x^3-5$ יש נקודת קיצון בנקודה שבה $x=-1$.
מצא את ערכו של הפרמטר a .

6) נתונה הפונקציה $f(x)=ax^3+x^2$. ידוע שהנקודה $x=1$ נקודת קיצון.
מצא את הקבוע a

7) לפונקציה $f(x)=Ax^3+Bx^2-1$ יש נקודת קיצון ששיעוריה : $(2,3)$.
מצא את ערכי הפרמטרים B , A.

8) לפונקציה $f(x)=Ax^3+Bx^2-4x$ יש נקודת קיצון ב-$x=-1$ ו-$x=4$.
מצא את הפרמטרים ואת שיעור ה-y של שתי נקודות הקיצון.

9) נתונה הפונקציה $f(x)=ax^3+bx^2$. ידוע שהנקודה $(1,2)$ נקודת קיצון.
מצא את הפרמטרים a , b .

10) לפונקציה $f(x)=ax^4+bx^2+35$ יש נקודת קיצון ששיעוריה $(2,3)$.
מצא את ערכי הפרמטרים a , b .

תשובות סופיות:

1) $\max(5,25)$.

2) א. $\max(-2,16)$, $\min(2,-16)$ ב. עולה: $x>2$, $x<-2$ יורדת: $-2<x<2$.

3) א. $\max(0,9)$, $\min(\sqrt{5},-16)$, $\min(-\sqrt{5},-16)$

ב. עולה: $-\sqrt{5}<x<0$, $x>\sqrt{5}$ יורדת: $0<x<\sqrt{5}$, $x<-\sqrt{5}$.

4) א. $\min(3,5)$ ב. עולה: $x>3$ יורדת: $x<3$.

5) $a=3$.

6) $a=-\frac{2}{3}$.

7) $A=-1$, $B=3$.

8) $\left(4,-18\frac{2}{3}\right)$, $\left(-1,2\frac{1}{6}\right)$, $B=-\frac{3}{2}$, $A=\frac{1}{3}$.

9) $a=-4$, $b=6$.

10) $a=2$, $b=-16$.

חקירת פונקציה פולינומית:

שאלות:

11) נתונה הפונקציה $f(x)=10x-x^2$.
חקור את הפונקציה על פי הסעיפים הבאים:
א. מהו תחום ההגדרה של הפונקציה?
ב. מצא את נקודות הקיצון של הפונקציה.
ג. מצא את תחומי העלייה והירידה של הפונקציה.
ד. מצא את נקודות החיתוך של הפונקציה עם הצירים.
ה. שרטט סקיצה של גרף הפונקציה.

12) נתונה הפונקציה $f(x)=x^3-12x$.
חקור את הפונקציה על פי הסעיפים הבאים:
א. מציאת תחום ההגדרה.
ב. מציאת נקודות קיצון של הפונקציה.
ג. כתיבת תחומי העלייה והירידה של הפונקציה.
ד. מציאת נקודות החיתוך של גרף הפונקציה עם הצירים.
ה. שרטוט סקיצה של גרף הפונקציה.

13) נתונה הפונקציה $f(x)=x^4-10x^2+9$.
חקור את הפונקציה על פי הסעיפים הבאים:
א. מציאת תחום ההגדרה.
ב. מציאת נקודות קיצון של הפונקציה.
ג. כתיבת תחומי העלייה והירידה של הפונקציה.
ד. מציאת נקודות החיתוך של גרף הפונקציה עם הצירים.
ה. שרטוט סקיצה של גרף הפונקציה.

14) נתונה הפונקציה $f(x)=x^4-4x^3+32$ חקור את הפונקציה על פי הסעיפים הבאים:
א. מציאת תחום ההגדרה.
ב. מציאת נקודות קיצון של הפונקציה.
ג. כתיבת תחומי העלייה והירידה של הפונקציה.
ד. מציאת נקודות החיתוך של גרף הפונקציה עם הצירים.
ה. שרטוט סקיצה של גרף הפונקציה.

15) נתונה הפונקציה $f(x)=x^3$ חקור את הפונקציה על פי הסעיפים הבאים:

א. מציאת תחום ההגדרה.

ב. מציאת נקודות קיצון של הפונקציה.

ג. כתיבת תחומי העלייה והירידה של הפונקציה.

ד. מציאת נקודות החיתוך של גרף הפונקציה עם הצירים.

ה. שרטוט סקיצה של גרף הפונקציה.

16) נתונה הפונקציה: $f(x)=2x^3-3ax^2+54x-50$.

א. לאלו ערכים של הפרמטר a עולה הפונקציה בכל תחום הגדרתה?

ב. הצב בפונקציה $a=6$ וחקור את הפונקציה על פי הסעיפים הבאים:
תחום הגדרה, נקודות קיצון, תחומי עלייה וירידה, נקודת חיתוך עם ציר ה- y, סרטוט.

17) נתונה הפונקציה: $y=-3x^3+6x^2-4x+d$ (d פרמטר).
ידוע כי הפונקציה חותכת את ציר ה- x בנקודה שבה: $x=2$.

א. מצא את d.

ב. האם יש לפונקציה נקודות קיצון?

ג. כתוב את תחומי העלייה וירידה של הפונקציה.

ד. מצא את נקודת החיתוך של הפונקציה עם ציר ה- y.

ה. סרטט סקיצה של גרף הפונקציה.

18) לפניך גרף הפונקציה $f(x)=x^3-3x$:

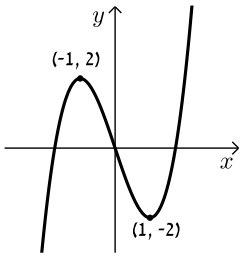

א. מהו מספר הפתרונות של המשוואה $f(x)=5$?

ב. מהו מספר הפתרונות של המשוואה $f(x)=2$?

ג. מהו מספר הפתרונות של המשוואה $f(x)=0.5$?

ד. עבור איזה ערך של k למשוואה $f(x)=k$ יש בדיוק פתרון אחד?

ה. עבור איזה ערך של k למשוואה $f(x)=k$ יש בדיוק שני פתרונות?

ו. עבור איזה ערך של k למשוואה $f(x)=k$ יש בדיוק שלושה פתרונות?

ז. האם קיים ערך של k עבורו למשוואה $f(x)=k$ אין פתרון?

תשובות סופיות:

11) א. כל x ב. $\max(5,25)$ ג. עלייה: $x<5$, ירידה: $x>5$

ד. $(10,0)$, $(0,0)$. ה. להלן גרף:

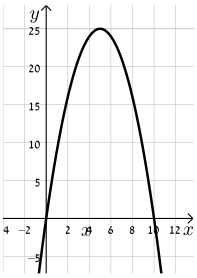

12) א. כל x ב. $\max(-2,16)$, $\min(2,-16)$

ג. עלייה: $x>2$, $x<-2$, ירידה: $-2<x<2$

ד. $(-\sqrt{12},0)$, $(\sqrt{12},0)$, $(0,0)$. ה. להלן גרף:

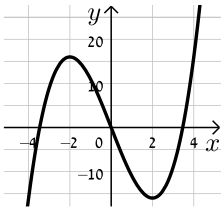

13) א. כל x ב. $\min(-\sqrt{5},-16)$, $\min(\sqrt{5},-16)$, $\max(0,9)$

ג. עלייה: $-\sqrt{5}<x<0$, $x>\sqrt{5}$, ירידה: $x<-\sqrt{5}$, $0<x<\sqrt{5}$.

ד. $(\pm 3,0)$, $(\pm 1,0)$, $(0,9)$. ה. להלן גרף:

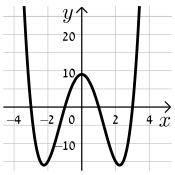

14) א. כל x ב. $\min(3,5)$ ג. תחומי עלייה: $x>3$, תחומי ירידה: $x<3$

ד. $(0,32)$. ה. להלן גרף:

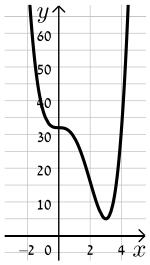

15) א. כל x ב. אין. ג. עולה לכל x

ד. $(0,0)$. ה. להלן גרף:

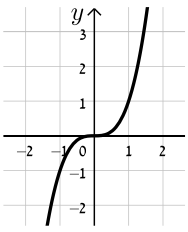

16) א. $-6<a<6$ ב. תחום הגדרה: כל x, נקודות קיצון: אין, תחומי עלייה: כל x, תחומי ירידה: אין, נקודת חיתוך עם הצירים: $(0,-50)$, להלן גרף:

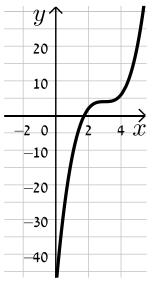

17) א. $d=8$ ב. לא. ג. יורדת בתחום $x\neq\frac{2}{3}$

ד. $(0,8)$. ה. להלן גרף:

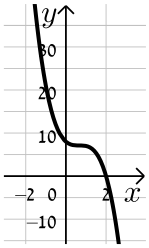

18) א. 1. ב. 2. ג. 3. ד. $k>2$, $k<-2$

ה. $k=\pm 2$ ו. $-2<k<2$ ז. לא.

פונקציה זוגית ואי-זוגית:

סיכום כללי:

הגדרות:

- פונקציה $f(x)$ תיקרא זוגית אם לכל x בתחום הגדרתה מתקיים: $f(x)=f(-x)$.
- פונקציה $f(x)$ תיקרא אי-זוגית אם לכל x בתחום הגדרתה מתקיים: $f(-x)=-f(x)$.

שאלות:

1) קבע אלו מהפונקציות הבאות הן זוגיות/אי-זוגיות לא זו ולא זו:

א. $f(x)=3x-5$

ב. $f(x)=3x^2$

ג. $f(x)=2x^3$

ד. $f(x)=x^3-2x^2$

ה. $f(x)=4x^4-3x^2+1$

ו. $f(x)=4x^5-3x^3-1$

2) הפונקציות המסורטטות להלן מוגדרות לכל x.
השלם את ציור הגרף של הפונקציה כך שתתקבל פונקציה זוגית:

א.

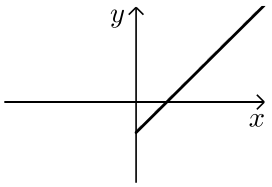

ב.

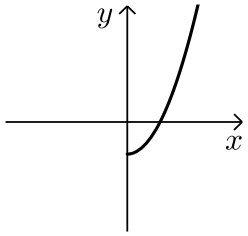

ג.

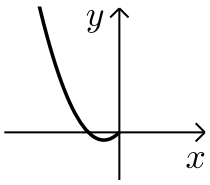

ד.

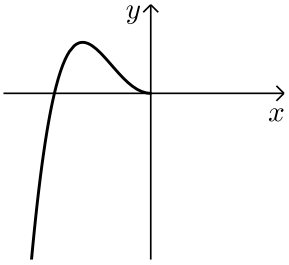

3) הפונקציות המסורטטות להלן מוגדרות לכל x.
השלם את ציור הגרף של הפונקציה כך שתתקבל פונקציה אי-זוגית:

א.
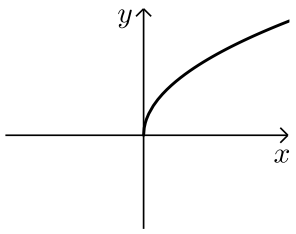

ב.
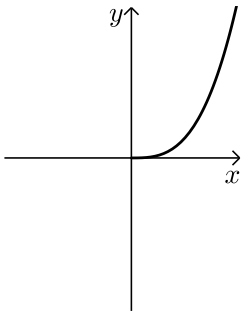

ג.
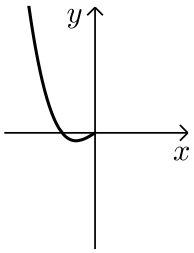

ד.
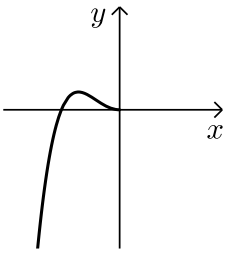

4) נתונה הפונקציה הבאה: $f(x)=x^4-4x^2$ בתחום: $[0:3]$.

א. חקור את הפונקציה בתחום הנ"ל לפי הסעיפים הבאים:
   i. תחום הגדרה.
   ii. מציאת נקודות חיתוך עם הצירים.
   iii. מציאת נקודות קיצון וסיווגן.
   iv. כתיבת תחומי עלייה וירידה.
   v. סרטוט סקיצה של גרף הפונקציה.

ב. הוכח כי הפונקציה $f(x)$ היא פונקציה זוגית.

ג. התבסס על ממצאיך מהסעיפים הקודמים וסרטט את הפונקציה בתחום: $[-3:3]$ (הוסף את סרטוט גרף הפונקציה בתחום $[-3:0]$ לגרף שסרטטת בסעיף הקודם).

5) נתונה הפונקציה הבאה: $f(x)=x^6-3x^2+3$.

א. חקור את הפונקציה בתחום: $[0:4]$ לפי הסעיפים הבאים:
תחום הגדרה, מציאת חיתוך עם ציר ה- y, מציאת נקודות קיצון וסיווגן, כתיבת תחומי עלייה וירידה, סרטוט סקיצה בתחום הנ"ל.

ב. האם הפונקציה היא זוגית? אי-זוגית? לא זו ולא זו?
נמק באמצעות חישוב מתאים.

ג. הסתמך על ממציאך מהסעיפים הקודמים והוסף לסקיצה שסרטטת בסעיף א', את עקום הפונקציה בתחום $[-4:0]$.

ד. הוכח כי הפונקציה חיובית לכל x בתחום הגדרתה.

6) לפניך הפונקציה: $f(x)=-2x^6+3x^4+a$, a פרמטר.
ידוע כי לפונקציה ערך מירבי של 1.

א. מצא את a וכתוב את הפונקציה $f(x)$.

ב. חקור את הפונקציה בתחום: $[-2:0]$ לפי הסעיפים הבאים:
כתיבת תחום הגדרה, מציאת נקודות חיתוך עם הצירים,
מציאת נקודות קיצון וסיווגן, כתיבת תחומי עלייה וירידה, סרטוט סקיצה.

ג. האם הפונקציה היא זוגית? אי-זוגית? לא זה ולא זה?
נמק באמצעות חישוב מתאים.

ד. הסתמך על ממציאך מהסעיפים הקודמים וסרטט את גרף הפונקציה בתחום: $[-2:2]$.

7) נתונה הפונקציה הבאה: $f(x)=3x^3-9x$.

א. חקור את הפונקציה בתחום: $[0:5]$ לפי הסעיפים הבאים:
כתיבת תחום הגדרה, מציאת נקודות חיתוך עם הצירים,
מציאת נקודות קיצון וסיווגן, כתיבת תחומי עלייה וירידה, סרטוט סקיצה.

ב. הוכח כי הפונקציה היא אי-זוגית.

ג. התבסס על ממציאך מהסעיפים הקודמים וסרטט את הפונקציה בתחום: $[-5:5]$ (הוסף את סרטוט גרף הפונקציה בתחום $[-5:0]$ לגרף שסרטטת בסעיף הקודם).

8) לפניך הפונקציה הבאה: $f(x)=5x^3-3x^5+b$, b פרמטר.
ידוע כי הישר $y=2x$ עובר דרך כל הנקודות על גרף הפונקציה שמקיימות: $f'(x)=0$.

א. מצא את b וכתוב את הפונקציה $f(x)$.

ב. חקור את הפונקציה בתחום: $[0:2]$ לפי הסעיפים הבאים:

i. תחום הגדרה.
ii. מציאת נקודות חיתוך עם הצירים.
iii. מציאת נקודות קיצון וסיווגן.
iv. כתיבת תחומי עלייה וירידה.
v. סרטוט סקיצה של גרף הפונקציה.

ג. בדוק האם הפונקציה היא זוגית/אי-זוגית או לא זו ולא זו.
נמק את קביעתך באמצעות חישוב מתאים.

ד. הסתמך על ממציאך מהסעיפים הקודמים והוסף לסקיצה של גרף הפונקציה את הגרף בתחום $[-2:0]$.

9) נתונה הפונקציה: $f(x)=\frac{x^7-x}{3}$.

א. חקור את הפונקציה בתחום: $[-4:0]$ לפי הסעיפים הבאים:

i. תחום הגדרה.
ii. מציאת נקודות חיתוך עם הצירים.
iii. מציאת נקודות קיצון וסיווגן
(בתשובתך השאר עד 2 ספרות לאחר הנקודה העשרונית).
iv. כתיבת תחומי עלייה וירידה.
v. סרטוט סקיצה של גרף הפונקציה.

ב. האם הפונקציה היא זוגית? אי-זוגית? או לא זו ולא זו?
נמק ע"י חישוב מתאים.

ג. הסתמך על ממציאך מהסעיפים הקודמים והוסף לסקיצה שעשית את גרף הפונקציה בתחום $[0:4]$.

תשובות סופיות:

1) זוגית: ב', ה'. אי-זוגית: ג', לא זו ולא זו: א', ד', ו'.

2) להלן הגרפים:

א.
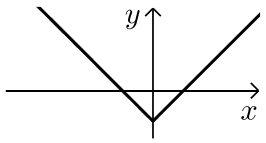

ב.
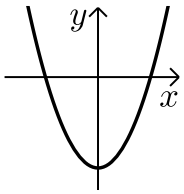

ג.
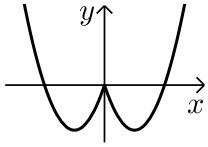

ד.
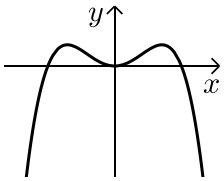

3) להלן הגרפים:

א.
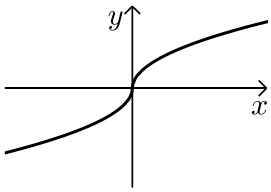

ב.
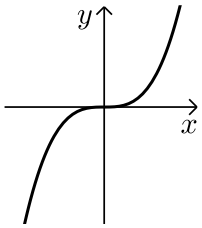

ג.
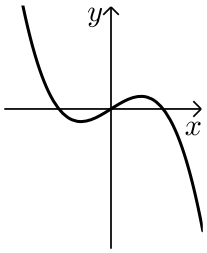

ד.
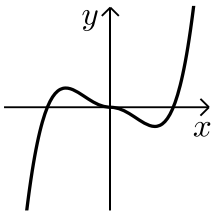

4) א. i. $0 \le x \le 3$ ii. $(0,0),(2,0)$ iii. $\max(3,45)$ קצה, $\min\left(\sqrt{2},-4\right)$,

$\max(0,0)$ קצה. iv. עולה: $\sqrt{2} < x < 3$, יורדת: $0 < x < \sqrt{2}$ ב. סעיף הוכחה.

סרטוט עבור חלק v:

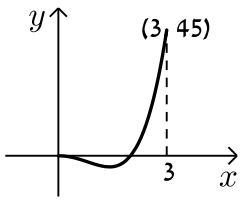

סרטוט עבור סעיף ג:

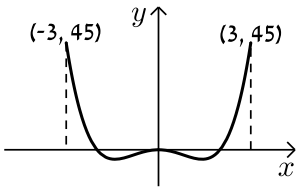

5) א. תחום הגדרה: $0 \le x \le 4$, חיתוך עם ציר ה-y: $(0,3)$,

נקודות קיצון: $\max(4,4051)$ קצה, $\min(1,1)$, $\max(0,3)$ קצה,

עולה: $1 < x < 4$, יורדת: $0 < x < 1$ ב. זוגית.

ד. הוכחה עפ"י הסרטוט.

סרטוט עבור סעיף א:

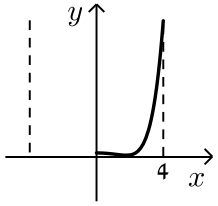

סרטוט עבור סעיף ג:

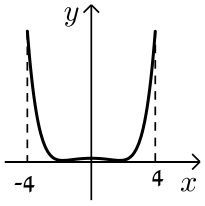

6) א. $a=0$ ב. תחום הגדרה: $-2\le x\le 0$, חיתוך עם הצירים: $(0,0),(-1.225,0)$, נקודות קיצון: $\min(-2,-80)$ קצה, $\max(-1,1)$, $\min(0,0)$ קצה,
עולה: $-2<x<-1$, יורדת: $-1<x<0$. ג. זוגית.

סרטוט עבור סעיף א:

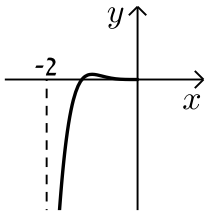

סרטוט עבור סעיף ד:

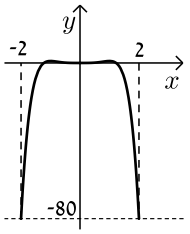

7) א. תחום הגדרה: $0\le x\le 5$, חיתוך עם הצירים: $(0,0),\left(\sqrt{3},0\right)$,
נקודות קיצון: $\max(5,330)$ קצה, $\min(1,-6)$, $\max(0,0)$ קצה,
עולה: $1<x<5$, יורדת: $0<x<1$, ב. אי-זוגית.

סרטוט עבור סעיף א:

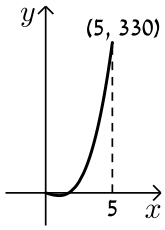

סרטוט עבור סעיף ג:

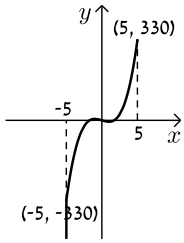

8) א. $b=0$ ב. i $0\le x\le 2$ ii. $(0,0),(1.29,0)$ iii. $\min(2,-56)$ קצה,
$\max(1,2)$, $\min(0,0)$ קצה. iv. עולה: $0<x<1$, יורדת: $1<x<2$
ג. אי-זוגית.

סרטוט עבור חלק v:

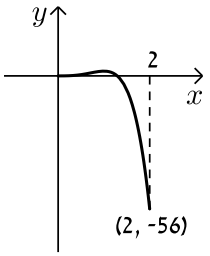

סרטוט עבור סעיף ד:

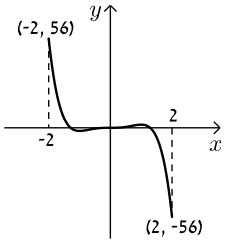

9) א. i $-4\le x\le 0$ ii. $(-1,0),(0,0)$ iii. $\min(0,0)$ קצה, $\max(-0.723,0.207)$,
$\min(-4,-5460)$ קצה. iv. עולה: $-4<x<-0.723$,
יורדת: $-0.723<x<0$ ג. אי-זוגית.

סרטוט עבור חלק v:

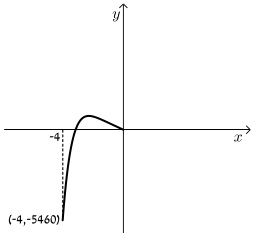

סרטוט עבור סעיף ד:

