מתמטיקה לתלמידי גאוגרפיה ופיתוח סביבתי 2

פרק 9 - חשבון דיפרנציאלי - חקירת פונקצית מנה ושורש

תוכן העניינים

1. מציאת תחום הגדרה 1
2. מציאת נקודות קיצון ותחומי עלייה וירידה 3
3. מציאת אסימפטוטות המקבילות לצירים 4
4. חקירת פונקצית מנה 9
5. חקירת פונקצית שורש 18
6. תחומי קעירות ונקודות פיתול 26
7. חקירת פונקציה עם פרמטר 32
8. פונקציות ללא תבנית מפורשת 35

מציאת תחום הגדרה:

סיכום כללי:

- כל פולינום מוגדר לכל x.
- בפונקציה עם מכנה, אסור שיתקבל אפס במכנה.
- בפונקציה עם שורש זוגי, אסור שיתקבל מספר שלילי בתוך השורש.

שאלות:

1) מצא את תחום ההגדרה של הפונקציות הבאות:

א. $f(x)=x^2+\frac{1}{2}x$

ב. $f(x)=4x^3-x^2+\frac{x}{2}+1$

ג. $f(x)=x^3-x^2-4x+1$

ד. $f(x)=\frac{2x}{x-3}$

ה. $f(x)=\frac{1}{x^2-4}$

ו. $f(x)=\frac{5x^3+4x}{x^2-1}$

ז. $f(x)=\frac{x^2}{x^2-x-2}$

ח. $f(x)=\frac{x^2+1}{x^2-2x-8}$

ט. $f(x)=\frac{6}{x^2+1}$

י. $f(x)=\frac{4x+1}{x^2+1}$

יא. $f(x)=\frac{1}{x^3-x}$

יב. $f(x)=\frac{x^2}{x^3-4x}$

2) מצא את תחום ההגדרה של הפונקציות הבאות:

א. $f(x)=\sqrt{x}$

ב. $f(x)=2\sqrt{x-3}$

ג. $f(x)=\sqrt{x-4}$

ד. $f(x)=3x\sqrt{1-2x}$

ה. $f(x)=\sqrt{x^2+3x-10}$

ו. $f(x)=\sqrt{x^2+x-2}$

ז. $f(x)=\frac{5x}{\sqrt{x+4}}$

ח. $f(x)=\frac{\sqrt{x^2+5x+6}}{x-1}$

ט. $f(x)=\sqrt{\frac{2x^2+x-3}{x^2+5x+9}}$

י. $f(x)=\frac{x-2}{\sqrt{x^3-9x}}$

יא. $f(x)=\frac{1}{x+\sqrt{x+6}}$

יב. $f(x)=\frac{x+1}{x-\sqrt{2-x}}$

יג. $f(x)=\frac{1}{\sqrt{1-|x|}}$

יד. $f(x)=\sqrt{\sqrt{x+2}-3}$

תשובות סופיות:

1) א. כל x ב. כל x ג. כל x ד. $x\neq 3$ ה. $x\neq \pm 2$ ו. $x\neq \pm 1$
ז. $x\neq -1,2$ ח. $x\neq 4,-2$ ט. כל x י. כל x יא. $x\neq \pm 1,0$ יב. $x\neq \pm 2,0$.

2) א. $x\geq 0$ ב. $x\geq 3$ ג. $x\geq 4$ ד. $x\leq \frac{1}{2}$ ה. $x\leq -5\ ,\ x\geq 2$
ו. $x\geq 1\ ,\ x\leq -2$ ז. $x>-4$ ח. $x\leq -3\ ,\ -2\leq x<1\ ,\ x>1$ ט. $x\leq -1.5\ ,\ x\geq 1$
י. $-3<x<0\ ,\ x>3$ יא. $-6\leq x<-2\ ,\ x>-2$ יב. $x<1\ ,\ 1<x\leq 2$
יג. $-1<x<1$ יד. $x\geq 7$.

מציאת נקודות קיצון ותחומי עלייה וירידה:

שאלות:

3) נתונה הפונקציה: $f(x)=\frac{6x}{x^2-10x+9}$.

א. מהן נקודות הקיצון של הפונקציה?

ב. מהם תחומי העלייה והירידה של הפונקציה?

תשובות סופיות:

3) א. $\max\left(3,-1\frac{1}{2}\right)$, $\min\left(-3,-\frac{3}{8}\right)$.

ב. עולה: $-3<x<3$, $x\neq 1$, יורדת: $3<x\neq 9$, $x<-3$.

מציאת אסימפטוטות המקבילות לצירים:

סיכום כללי:

אסימפטוטה אנכית:

הגדרה: הישר $x=k$ הוא אסימפטוטה אנכית של פונקציה מהצורה: $y=\frac{f(x)}{g(x)}$

אם הוא מקיים: $g(k)=0$ וגם: $f(k)\neq 0$. בצורה מתמטית: אם: $\lim_{x\to k^+}\frac{f(x)}{g(x)}=\pm\infty$

או: $\lim_{x\to k^-}\frac{f(x)}{g(x)}=\pm\infty$ או שניהם אז הישר: $x=k$ הוא אסימפטוטה אנכית לפונקציה $y=\frac{f(x)}{g(x)}$.

הסבר כללי:

בעבור ערכי x שמאפסים את המכנה, אבל לא את המונה יש אסימפטוטה אנכית.
כאשר ערך x מאפס את המכנה וגם את המונה יש לפרק את המונה והמכנה
(על ידי נוסחאות כפל מקוצר או טרינום למשל) ולצמצם.
אם אחרי הצמצום אותו ערך של x עדיין מאפס את המכנה תתקבל אסימפטוטה אנכית,
אך אם ערך x זה לא מאפס את המכנה אחרי שצומצם אין אסימפטוטה אנכית אלא
נקודת אי הגדרה.

אסימפטוטה אופקית:

הגדרה: ישר מהצורה: $y=n$ הוא אסימפטוטה אופקית לפונקציה מהצורה: $y=\frac{f(x)}{g(x)}$

אם מתקיים: $\lim_{x\to\infty^+}\frac{f(x)}{g(x)}=n$ או: $\lim_{x\to\infty^-}\frac{f(x)}{g(x)}=n$ או שניהם.

אופן החישוב הכללי:

נתונה הפונקציה $f(x)=\frac{ax^m+\ldots}{bx^n+\ldots}$ (יש בפונקציה קו שבר אחד!)

- אם $m>n$, לפונקציה אין אסימפטוטה אופקית.
- אם $m=n$, לפונקציה יש אסימפטוטה אופקית שמשוואתה $y=\frac{a}{b}$.
- אם $m<n$, לפונקציה יש אסימפטוטה אופקית שמשוואתה $y=0$.

חוקי גבולות לאינסוף:

במקרים רבים נרצה לדעת האם פונקציה מסוימת מתכנסת לערך כלשהו כאשר x שואף לערכים ההולכים וגדלים (לאינסוף, או למינוס אינסוף).
עבור ערכי x שהולכים וגדלים (או קטנים) נרשום: $x=\infty$ או $x=-\infty$ בהתאמה.

ישנם 4 מצבים בהם ערך הפונקציה בשאיפת x לאחד הקצוות ניתן לחישוב ישיר:

- הגבול: $\lim\limits_{x\to\infty}\frac{1}{x}=\text{"}\frac{1}{\infty}\text{"}=0$.
- הגבול: $\lim\limits_{x\to 0}\frac{1}{x}$ ניתן לפיצול לשני מקרים:
  - אם: $x\to 0^+$ (מתקרב ל- 0 מהכיוון החיובי) אז: $\lim\limits_{x\to 0^+}\frac{1}{x}=\text{"}\frac{1}{0^+}\text{"}=+\infty$.
  - אם: $x\to 0^-$ (מתקרב ל- 0 מהכיוון השלילי) אז: $\lim\limits_{x\to 0^-}\frac{1}{x}=\text{"}\frac{1}{0^-}\text{"}=-\infty$.
- הגבול מהצורה $\infty\cdot\infty$ (מכפלת שני ביטויים של x אשר כל אחד מהם שואף לאינסוף בפני עצמו) מקיים: $\infty\cdot\infty=\infty$.
- הגבול מהצורה $\infty+\infty$ (סכום שני ביטויים של x אשר כל אחד מהם שואף לאינסוף בפני עצמו) מקיים: $\infty+\infty=\infty$.

ישנם 3 מקרים בהם לא ניתן לדעת מהו ערך הפונקציה בלקיחת הגבול בצורה ישירה והם:

- הגבול מהצורה: $\frac{\infty}{\infty}$ (מנת שני ביטויים שהולכים וגדלים עם שאיפת x).
- הגבול מהצורה: $\frac{0}{0}$ (מנת שני ביטויים שהולכים וקטנים עם שאיפת x).
- הגבול מהצורה: $\infty-\infty$ (הפרש של שני ביטויים שהולכים וגדלים עם שאיפת x).
במקרים אלו נעזר בפישוטים שהוצגו לעיל על מנת למצוא את ערך הגבול עצמו.

שאלות:

4) מצא את האסימפטוטות המקבילות לצירים של הפונקציה: $f(x)=\frac{1}{x-2}+3$.

5) מצא את האסימפטוטות המקבילות לצירים של הפונקציה: $f(x)=\frac{5x^2+1}{x^2-9}$.

6) מצא את האסימפטוטות המקבילות לצירים של הפונקציה: $f(x)=\frac{2x^2-5x+2}{1+3x^2}$.

7) מצא את האסימפטוטות המקבילות לצירים של הפונקציה: $f(x)=\frac{3x}{x^2-2x-15}$.

8) מצא את האסימפטוטות המקבילות לצירים של הפונקציה: $f(x)=\frac{6x^3-5x+1}{1+2x^2}$.

9) מצא את האסימפטוטות המקבילות לצירים של הפונקציה: $f(x)=\frac{ax+b}{x-b}$.

10) מצא את האסימפטוטות המקבילות לצירים של הפונקציה: $f(x)=\frac{x^2-4}{x^2-3x+2}$
ואת נקודת אי הרציפות שלה.

11) מצא את האסימפטוטות המקבילות לצירים של הפונקציה: $f(x)=\frac{x^2}{2x^2-4x}$
ואת נקודת אי הרציפות שלה.

12) מצא את האסימפטוטות המקבילות לצירים של הפונקציה: $f(x)=\frac{\sqrt{x-1}}{x^2-4}$.

13) מצא את האסימפטוטות המקבילות לצירים של הפונקציה: $f(x)=\frac{x}{\sqrt{4-x}}$.

14) מצא את האסימפטוטות המקבילות לצירים של הפונקציה: $f(x)=\frac{\sqrt{x}}{1-\sqrt{x}}$.

15) מצא את האסימפטוטות המקבילות לצירים של הפונקציה: $f(x)=\frac{2x}{x-\sqrt{x}}$.

16) מצא את האסימפטוטות המקבילות לצירים של הפונקציה: $f(x)=\frac{3x}{\sqrt{x^2+5}}$.

17) מצא את האסימפטוטות המקבילות לצירים של הפונקציה: $f(x)=\frac{5x}{\sqrt{x^2-16}}$.

18) נתונה הפונקציה: $f(x)=\frac{4x^2+1}{ax^2-x+b}$.
האסימפטוטה האופקית של הפונקציה ואחת האסימפטוטות האנכיות של הפונקציה נפגשות בנקודה $(-1,2)$.
מצא את ערכי הפרמטרים a ו- b.

19) נתונה הפונקציה: $f(x)=\frac{ax+8}{x+b\sqrt{x}}$.
הפונקציה חותכת את האסימפטוטה האופקית שלה בנקודה $(16,2)$.
מצא את ערכי הפרמטרים a ו- b.

תשובות סופיות:

4) $x=2\ ,\ y=3$.

5) $x=\pm 3\ ,\ y=5$.

6) $y=\frac{2}{3}$.

7) $x=-3\ ,\ x=5\ ,\ y=0$.

8) אין.

9) $x=b\ ,\ y=a$.

10) $x=1\ ,\ y=1$, נקודת אי-הגדרה: $(2,4)$.

11) $x=2\ ,\ y=\frac{1}{2}$, נקודת אי-הגדרה: $(0,0)$.

12) $x=2\ ,\ y=0$.

13) $x=4$.

14) $x=1\ ,\ y=-1$.

15) $x=1\ ,\ y=2$.

16) $y=\lim_{x\to\infty}\left(f\left(x\right)\right)=3\ ,\ y=\lim_{x\to-\infty}\left(f\left(x\right)\right)=-3$.

17) $x=4\ ,\ x=-4\ ,\ y=5\ ,\ y=-5$.

18) $a=2\ ,\ b=-3$.

19) $a=2\ ,\ b=1$.

חקירת פונקצית מנה:

שאלות:

20) נתונה הפונקציה: $f(x)=\frac{6x^2-10x+6}{3x^2-10x+3}$. חקור את הפונקציה לפי הסעיפים הבאים:

א. מציאת תחום ההגדרה.

ב. מציאת נקודות הקיצון של הפונקציה.

ג. כתיבת תחומי העלייה והירידה של הפונקציה.

ד. מציאת נקודות החיתוך של גרף הפונקציה עם הצירים.

ה. מציאת אסימפטוטות המקבילות לצירים.

ו. שרטוט סקיצה של גרף הפונקציה.

21) נתונה הפונקציה: $f(x)=x+\frac{1}{x}$. חקור את הפונקציה לפי הסעיפים הבאים:

א. מציאת תחום ההגדרה.

ב. מציאת נקודות הקיצון של הפונקציה.

ג. כתיבת תחומי העלייה והירידה של הפונקציה.

ד. מציאת נקודות החיתוך של גרף הפונקציה עם הצירים.

ה. שרטוט סקיצה של גרף הפונקציה.

22) נתונה הפונקציה: $f(x)=\frac{2x+1}{x-3}$. חקור את הפונקציה לפי הסעיפים הבאים:

א. מציאת תחום ההגדרה.

ב. מציאת נקודות הקיצון של הפונקציה.

ג. כתיבת תחומי העלייה והירידה של הפונקציה.

ד. מציאת נקודות החיתוך של גרף הפונקציה עם הצירים.

ה. מציאת אסימפטוטות המקבילות לצירים.

ו. שרטוט סקיצה של גרף הפונקציה.

23) נתונה הפונקציה: $f(x)=\frac{6x}{x^2-5x+4}$. חקור את הפונקציה לפי הסעיפים הבאים:

א. מציאת תחום ההגדרה.

ב. מציאת נקודות הקיצון של הפונקציה.

ג. כתיבת תחומי העלייה והירידה של הפונקציה.

ד. מציאת נקודות החיתוך של גרף הפונקציה עם הצירים.

ה. שרטוט סקיצה של גרף הפונקציה.

24) נתונה הפונקציה: $f(x)=\frac{x^2-3x}{x^2+3}$. חקור את הפונקציה לפי הסעיפים הבאים:

א. מציאת תחום ההגדרה.

ב. מציאת נקודות הקיצון של הפונקציה.

ג. כתיבת תחומי העלייה והירידה של הפונקציה.

ד. מציאת נקודות החיתוך של גרף הפונקציה עם הצירים.

ה. שרטוט סקיצה של גרף הפונקציה.

25) נתונה הפונקציה הבאה: $y=\frac{2x^2-5x+2}{4x}$. חקור לפי הסעיפים הבאים:

א. תחום הגדרה.

ב. נקודות קיצון.

ג. קביעת סוג הקיצון ותחומי עלייה וירידה.

ד. חיתוך עם הצירים.

ה. מציאת אסימפטוטה אנכית.

ו. סרטוט סקיצה.

26) נתונה הפונקציה: $f(x)=\frac{x^2-5x+6}{x-3}$. חקור את הפונקציה לפי הסעיפים הבאים:

א. מציאת תחום הגדרה.

ב. מציאת נקודות קיצון של הפונקציה.

ג. כתיבת תחומי העלייה והירידה של הפונקציה.

ד. מציאת נקודות החיתוך של גרף הפונקציה עם הצירים.

ה. מציאת אסימפטוטות המקבילות לצירים.

ו. סרטוט סקיצה של גרף הפונקציה.

27) נתונה הפונקציה: $f(x)=\frac{x^2-3x+2}{x^2-1}$. חקור את הפונקציה לפי הסעיפים הבאים:

א. מציאת תחום הגדרה.

ב. מציאת נקודות קיצון של הפונקציה.

ג. כתיבת תחומי העלייה והירידה של הפונקציה.

ד. מציאת נקודות החיתוך של גרף הפונקציה עם הצירים.

ה. מציאת אסימפטוטות המקבילות לצירים.

ו. סרטוט סקיצה של גרף הפונקציה.

28) לגרף הפונקציה: $f(x)=\frac{ax+4}{x^2}$ יש נקודת קיצון שבה $x=-8$.

א. מצא את a וכתוב את הפונקציה.

ב. כתוב את תחומי העלייה והירידה של הפונקציה.

ג. מצא את נקודות החיתוך של הפונקציה עם הצירים.

ד. מצא את האסימפטוטות המקבילות לצירים.

ה. סרטט סקיצה של גרף הפונקציה.

29) נתונה הפונקציה: $f(x)=\frac{3x^2}{2x^2-8}$.

א. מהו תחום הגדרה של הפונקציה?

ב. מצא את נקודות הקיצון של הפונקציה.

ג. קבע את סוג הקיצון ותחומי העלייה והירידה של הפונקציה.

ד. מצא את נקודות החיתוך עם הצירים של הפונקציה.

ה. מצא את האסימפטוטות המקבילות לצירים של הפונקציה.

ו. סרטט סקיצה של גרף הפונקציה.

30) נתונה הפונקציה: $y=\frac{a^2x-4}{2x^2-1}$, (a קבוע).

ידוע כי שיפוע המשיק לגרף הפונקציה בנקודה שבה: $x=1$ הוא: $m=4$.

א. מצא את כל הערכים האפשריים עבור a.

ב. מצא את נקודות החיתוך של גרף הפונקציה עם הצירים.

ג. מצא את נקודת החיתוך בין המשיק הנתון ומשיק העובר דרך נקודת החיתוך של גרף הפונקציה עם ציר ה- y.

31) נתונה הפונקציה הבאה: $f(x)=1.5x-\frac{5x+1}{x+5}$. חקור לפי הסעיפים הבאים:

א. תחום הגדרה.

ב. נקודות קיצון וסוגן.

ג. תחומי עלייה וירידה.

ד. חיתוך עם הצירים.

ה. מציאת אסימפטוטות המקבילות לצירים.

ו. סרטוט סקיצה.

32) נתונה הפונקציה: $f(x)=\frac{x-a}{x-1}$, $(a\neq 1)$.

א. מצא את תחום ההגדרה של הפונקציה.

ב. מצא את האסימפטוטות של הפונקציה המקבילות לצירים.

ג. הבע באמצעות a את השיעורים של נקודת החיתוך של גרף הפונקציה עם ציר ה-x ועם ציר ה-y.

ד. ענה על הסעיפים הבאים:

i. מצא עבור אילו ערכים של a הפונקציה $f(x)$ עולה לכל x בתחום ההגדרה.

ii. ישר המשיק לגרף הפונקציה $f(x)$ בנקודה שבה $x=a$ מקביל לישר המשיק לגרף הפונקציה בנקודה שבה: $x=2$.
מצא את הערך של a אם נתון כי הפונקציה עולה לכל x.

33) נתונה הפונקציה: $f(x)=\frac{x^2+ax+6}{x-2}$, ($a$ פרמטר).
ידוע שאחת מנקודות הקיצון של הפונקציה נמצאת על ציר ה-y.

א. מצא את הערך של a.

ב. הצב את הערך של a שמצאת בסעיף א' ומצא:

i. את תחום ההגדרה של הפונקציה.

ii. את נקודות החיתוך של גרף הפונקציה עם הצירים (אם יש כאלה).

iii. את השיעורים של נקודות הקיצון של הפונקציה, וקבע את סוגן.

iv. את האסימפטוטות של הפונקציה המקבילות לצירים (אם יש כאלה).

ג. עבור אלו ערכי x הפונקציה שלילית?

ד. נתון הישר: $y=k$. עבור אלו ערכי k אין נקודות משותפות לישר ולגרף הפונקציה? נמק.

34) נתונה הפונקציה: $y=\frac{x+3}{x-2}+A$, (A פרמטר). גרף הפונקציה עובר בנקודה $(3A\ ,\ A)$.

א. מצא את ערך הפרמטר A.

ב. כתוב את תחום ההגדרה של הפונקציה.

ג. הוכח כי גרף הפונקציה יורד לכל x.

ד. מצא את נקודת החיתוך של גרף הפונקציה עם ציר ה- y.

ה. סרטט סקיצה של גרף הפונקציה.

ו. נתון הישר: $y=k$.
האם קיים ערך של k עבורו הישר חותך את גרף הפונקציה בשתי נקודות שונות? נמק.

35) נתונה הפונקציה: $f(x)=\frac{ax^2-20x+28}{x^2+2a}$.

ידוע כי גרף הפונקציה חותך את האסימפטוטה האופקית שלו בנקודה $(3\ ,\ 0.5)$.

א. מצא את ערך הפרמטר a וכתוב את הפונקציה ואת תחום הגדרתה.

ב. מצא את נקודות הקיצון של הפונקציה וקבע את סוגן.

ג. כתוב את תחומי העלייה והירידה של הפונקציה.

ד. מצא את נקודות החיתוך של גרף הפונקציה עם הצירים.

ה. סרטט סקיצה של גרף הפונקציה.

ו. העזר בגרף הפונקציה וקבע עבור אלו ערכים של k הישר: $y=k$ יחתוך את גרף הפונקציה בנקודה אחת בלבד.

36) ענה על הסעיפים הבאים:

א. הוכח כי לגרף הפונקציה: $f(x)=\frac{9-x^2}{x^2-k}$ יש נקודת קיצון שנמצאת על ציר ה- y.

ב. הוכח כי הפונקציה $f(x)$ מוגדרת לכל x אם ידוע כי שיעור ה- y של נקודת הקיצון הוא 3.

ג. מצא את נקודות החיתוך של גרף הפונקציה עם ציר ה- x.

ד. מצא את האסימפטוטה האופקית של הפונקציה.

ה. סרטט סקיצה של גרף הפונקציה וקבע בכמה נקודות יחתוך אותו הישר $y=-1$.
נמק את תשובתך.

תשובות סופיות:

20) א. $x\neq 3\ ,\ x\neq \frac{1}{3}$ ב. $\max\left(1,-\frac{1}{2}\right)\ ,\ \min\left(-1,1\frac{3}{8}\right)$.

ג. תחומי עלייה: $-1<x<1$ וגם $1<x\neq 3$, תחומי ירידה: $x\neq\frac{1}{3}$ או $x<-1$.

ד. $(0,2)$ ה. $y=2\ ,\ x=\frac{1}{3}\ ,\ x=3$. ו. להלן סקיצה:

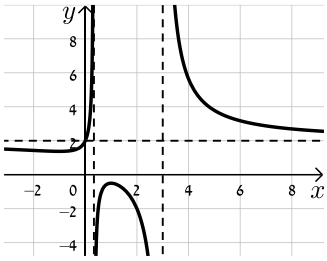

21) א. $x\neq 0$ ב. $\max(-1,-2)\ ,\ \min(1,2)$

ג. עולה: $x>1$ או $x<-1$, יורדת: $-1<x<1\ ,\ x\neq 0$ ד. אין

ה. להלן סקיצה:

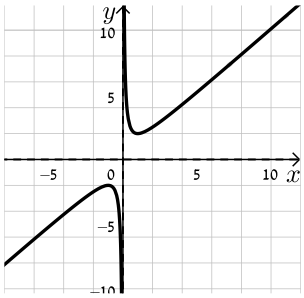

22) א. $x\neq 3$ ב. אין. ג. הפונקציה יורדת בכל ת.ה

ד. $\left(0,-\frac{1}{3}\right)\ ,\ \left(-\frac{1}{2},0\right)$ ה. $x=3\ ,\ y=2$.

ו. להלן סקיצה:

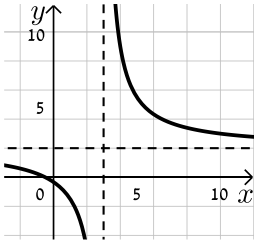

23) א. $x\neq 1\ ,\ x\neq 4$ ב. $\max(2,-6)\ ,\ \min\left(-2,-\frac{2}{3}\right)$

ג. תחומי עלייה: $-2<x<2\ ,\ x\neq 1$, תחומי ירידה: $x>2\ ,\ x\neq 4$ או $x<-2$

ד. $(0,0)$ (אסימפטוטות: $x=4\ ,\ x=1\ ,\ y=0$).

ה. להלן סקיצה:

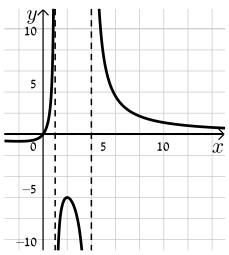

24) א. כל x ב. $\min\left(1,-\frac{1}{2}\right)$, $\max\left(-3,1\frac{1}{2}\right)$

ג. עולה: $x>1$ או $x<-3$, יורדת: $-3<x<1$ ד. $(3,0),(0,0)$ (אסימפטוטה: $y=1$).

ה. להלן סקיצה:

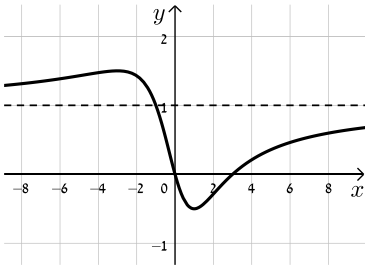

25) א. $x\neq 0$ ב. $\min(1,-0.25)$, $\max(-1,-2.25)$

ג. עולה: $x>1$, $x<-1$, יורדת: $-1<x<1$, $x\neq 0$ ד. $(0.5,0),(2,0)$ ה. $x=0$.

ו. להלן סקיצה:

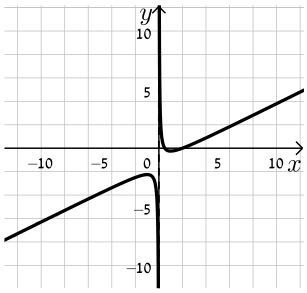

26) א. $x\neq 3$ ב. אין ג. הפונקציה עולה בכל תחום הגדרתה

ד. $(0,-2),(2,0)$ ה. אין, יש נקודת אי הגדרה ששיעוריה $(3,1)$.

ו. להלן סקיצה:

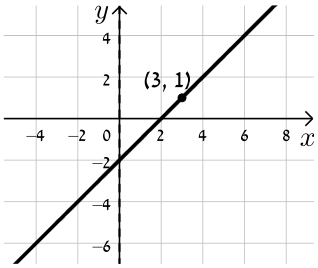

27) א. $x\neq \pm 1$ ב. אין ג. הפונקציה עולה בכל תחום הגדרתה

ד. $(0,-2),(2,0)$ ה. $x=-1$, $y=1$, יש נקודת אי הגדרה: $\left(1,-\frac{1}{2}\right)$.

ו. להלן סקיצה:

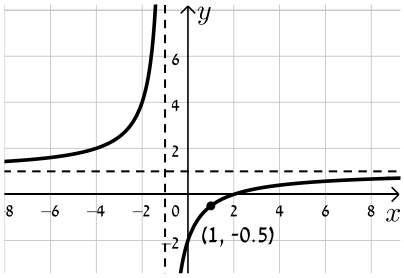

28) א. $a=1$, $f(x)=\frac{x+4}{x^2}$ ב. עולה: $-8<x<0$ יורדת: $x<-8$, $x>0$

ג. $(-4,0)$ ד. $x=0$, $y=0$.

ה. להלן סקיצה:

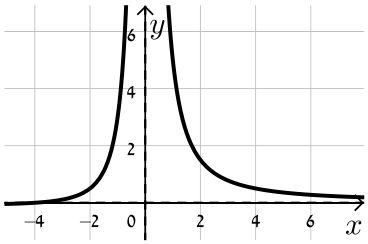

29) א. $x\neq\pm2$ ב. $\max(0,0)$ ג. יורדת: $x>0$, $x\neq2$ עולה: $x<0$, $x\neq-2$

ד. $(0,0)$ ה. $x=\pm2$, $y=1.5$. ו. להלן סקיצה:

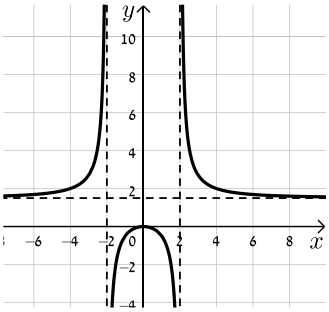

30) א. $a=\pm2$ ב. $(0,4)$, $(1,0)$

ג. המשיק: $y=-4x+4$ אשר עובר בנקודה $(1,0)$. נקודת החיתוך: $(1,0)$.

31) א. $x\neq-5$ ב. $\max(-9,-24.5)$, $\min(-1,-0.5)$

ג. עולה: $x>-1$, $x<-9$, יורדת: $-9<x<-1$, $x\neq-5$

ד. $(-2,0),\left(\frac{1}{3},0\right),(0,-0.2)$ ה. $x=-5$. ו. להלן סקיצה:

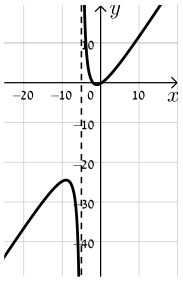

32) א. $x\neq1$ ב. $x=1$, $y=1$ ג. $(a,0),(0,a)$ ד. i. $a>1$ ii. $a=2$.

33) א. $a=-3$ ב. i. $x\neq2$ ii. $(0,-3)$ iii. $\max(0,-3)$, $\min(4,5)$

iv. $x=2$ ג. $x<2$ ד. $-3<k<5$.

34) א. A $=-1$ ב. $x\neq2$ ד. $(0,-2.5)$

ה. להלן סקיצה:

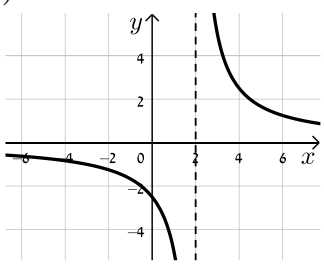

ו. לא

35) א. $a=3$, $f(x)=\frac{3x^2-20x+28}{x^2+6}$, כל x.

ב. $\max(-2,8)$, $\min\left(3,-\frac{1}{3}\right)$

ג. עולה: $x>3$, $x<-2$; יורדת: $-2<x<3$

ד. $(2,0),\left(0,4\frac{2}{3}\right),\left(4\frac{2}{3},0\right)$

ה. להלן סקיצה:

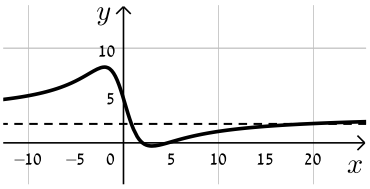

ו. 3 , $-\frac{1}{3}$, $k=8$.

36) ב. $k=-3$ ג. $(3,0),(-3,0)$ ד. $y=-1$

ה. באף נקודה.

ו. להלן סקיצה:

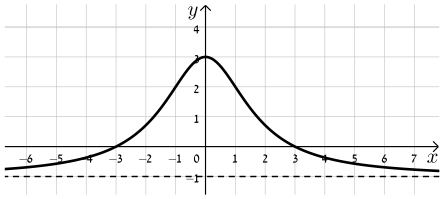

חקירת פונקצית שורש:

שאלות:

37) נתונה הפונקציה: $f(x)=\sqrt{x-3}$. חקור את הפונקציה לפי הסעיפים הבאים:

א. מציאת תחום ההגדרה.
ב. מציאת נקודות הקיצון של הפונקציה.
ג. כתיבת תחומי העלייה והירידה של הפונקציה.
ד. מציאת נקודות החיתוך של גרף הפונקציה עם הצירים.
ה. מציאת אסימפטוטות המקבילות לצירים.
ו. שרטוט סקיצה של גרף הפונקציה.

38) נתונה הפונקציה: $f(x)=(x-4)\sqrt{x-1}$. חקור את הפונקציה לפי הסעיפים הבאים:

א. מציאת תחום ההגדרה.
ב. מציאת נקודות הקיצון של הפונקציה.
ג. כתיבת תחומי העלייה והירידה של הפונקציה.
ד. מציאת נקודות החיתוך של גרף הפונקציה עם הצירים.
ה. מציאת אסימפטוטות המקבילות לצירים.
ו. שרטוט סקיצה של גרף הפונקציה.

39) נתונה הפונקציה: $f(x)=x\sqrt{6-x}$. חקור את הפונקציה לפי הסעיפים הבאים:

א. מציאת תחום ההגדרה.
ב. מציאת נקודות הקיצון של הפונקציה.
ג. כתיבת תחומי העלייה והירידה של הפונקציה.
ד. מציאת נקודות החיתוך של גרף הפונקציה עם הצירים.
ה. שרטוט סקיצה של גרף הפונקציה.

40) נתונה הפונקציה: $f(x)=\frac{4\sqrt{x}}{x^2+3}$. חקור את הפונקציה לפי הסעיפים הבאים:

א. מציאת תחום ההגדרה.

ב. מציאת נקודות הקיצון של הפונקציה.

ג. כתיבת תחומי העלייה והירידה של הפונקציה.

ד. מציאת נקודות החיתוך של גרף הפונקציה עם הצירים.

ה. מציאת אסימפטוטות המקבילות לצירים.

ו. שרטוט סקיצה של גרף הפונקציה.

41) נתונה הפונקציה: $f(x)=\frac{\sqrt{9-x^2}}{x}$. חקור את הפונקציה לפי הסעיפים הבאים:

א. מציאת תחום ההגדרה.

ב. מציאת נקודות הקיצון של הפונקציה.

ג. כתיבת תחומי העלייה והירידה של הפונקציה.

ד. מציאת נקודות החיתוך של גרף הפונקציה עם הצירים.

ה. מציאת אסימפטוטות המקבילות לצירים.

ו. שרטוט סקיצה של גרף הפונקציה.

42) נתונה הפונקציה הבאה: $f(x)=\frac{\sqrt{x^2-2x}}{x^2}$.

א. מה הוא תחום ההגדרה של הפונקציה?

ב. מצא את נקודות קיצון של הפונקציה וקבע את סוגן.

ג. מצא את נקודת החיתוך של גרף הפונקציה עם ציר ה-x.

ד. סרטט סקיצה של גרף הפונקציה.

43) נתונה הפונקציה הבאה: $f(x)=\frac{x^2-4}{\sqrt{x}}$.

א. מצא את נקודת החיתוך של הפונקציה עם ציר ה-x.

ב. האם ניתן להעביר משיק לגרף הפונקציה המקביל לציר ה-x? נמק והראה חישוב מתאים.

ג. כתוב את משוואת המשיק לגרף הפונקציה העובר דרך נקודת החיתוך שלה עם ציר ה-x.

ד. חשב את שטח המשולש הכלוא בין המשיק והצירים.

44) נתונה הפונקציה הבאה: $f(x)=\frac{x+3}{\sqrt{x}-1}$.

א. מהו תחום הגדרה של הפונקציה?

ב. כמה נקודות יש לגרף הפונקציה שהמשיק העובר דרכן מקביל לציר ה-x? מצא אותן.

ג. כתוב את משוואות המשיקים בנקודות שמצאת בסעיף הקודם.

45) נתונה הפונקציה: $f(x)=\frac{\sqrt{9-x^2}}{x}$. חקור לפי הסעיפים הבאים:

א. מציאת תחום הגדרה.

ב. מציאת נקודות קיצון של הפונקציה.

ג. כתיבת תחומי העלייה והירידה של הפונקציה.

ד. מציאת נקודות החיתוך של גרף הפונקציה עם הצירים.

ה. מציאת אסימפטוטות המקבילות לצירים.

ו. סרטוט סקיצה של גרף הפונקציה.

46) נתונה הפונקציה הבאה: $f(x)=\frac{ax+6}{\sqrt{9-x^2}}$, a פרמטר.

מעבירים משיק לגרף הפונקציה בנקודת החיתוך שלה עם ציר ה-y.

ידוע כי הוא מקביל לישר: $3y-x=0$.

א. מצא את ערך הפרמטר a.

ב. כתוב את תחום ההגדרה של הפונקציה.

ג. מצא את נקודת הקיצון של הפונקציה.

ד. כתוב את התחומי העלייה והירידה של הפונקציה.

47) נתונות שתי הפונקציות הבאות: $g(x)=\frac{\sqrt{x-k}}{x}$, $f(x)=\frac{x}{\sqrt{x+k}}$ (k פרמטר חיובי).

ידוע כי הפונקציות חותכות זו את זו בנקודה שבה: $x=0.8$.

א. מצא את k.

ב. האם הפונקציות נחתכות בנקודה נוספת מלבד לנקודה הנתונה? אם כן מצא אותה.

ג. מצא את משוואת המשיק לגרף הפונקציה $f(x)$ בנקודה שבה: $x=0.52$.

48) נתונה הפונקציה הבאה: $f(x)=\frac{kx}{\sqrt{k-x^2}}$, k פרמטר חיובי.

א. ענה על הסעיפים הבאים:

i. מהו תחום ההגדרה של הפונקציה? (בטא באמצעות k).

ii. מהן האסימפטוטות האנכיות של הפונקציה?

ב. הראה כי הפונקציה עולה עבור כל ערך של k בתחום הגדרתה.

ג. כתוב את משוואת המשיק לגרף הפונקציה בנקודת החיתוך שלה עם ציר ה-x. (בטא באמצעות k).

ד. המשיק אשר מצאת בסעיף הקודם חותך את אחת האסימפטוטות של הפונקציה בנקודה A. ידוע כי שטח המשולש הכלוא בין המשיק, ציר ה-x והאסימפטוטה הנ"ל הוא: 4 יח"ש $S=$. מצא את ערך הפרמטר k.

49) נתונה הפונקציה: $f(x)=\frac{x+2}{x+4}$. מגדירים פונקציה נוספת: $g(x)=\sqrt{f(x)}$.

א. כתוב בצורה מפורשת את הפונקציה $g(x)$.

ב. לפניך מספר טענות המתייחסות לפונקציות $f(x)$ ו-$g(x)$.
קבע אילו מהטענות הבאות נכונות ואלו אינן נכונות.
הצדק את קביעותיך באמצעות חישוב מתאים:

i. לפונקציות תחום הגדרה זהה.

ii. שתי הפונקציות עולות בכל תחום הגדרתן.

iii. שתי הפונקציות חותכות את ציר ה-x באותה נקודה.

iv. לשתי הפונקציות יש אסימפטוטה משותפת.

ג. מצא את נקודות החיתוך של כל פונקציה עם ציר ה-y.

אסף פתר את סעיפים א' ו-ב' והחליט לטעון את הטענה הבאה:

היות והפונקציה $g(x)$ מוגדרת להיות: $g(x)=\sqrt{f(x)}$ אזי ניתן למצוא את שיעור ה-y של כל נקודה שעל גרף הפונקציה $f(x)$ ע"י כך שנמצא תחילה את שיעור ה-y של הנקודה בעלת אותו שיעור x על הגרף של $g(x)$ ונעלה אותה בריבוע.

ד. האם אסף צודק? נמק בצורה איכותית (חישובים אינם נדרשים) את שיקולך.

50) לפניך הפונקציות הבאות: $g(x)=\frac{x}{\sqrt{x-1}}$, $f(x)=\frac{x}{\sqrt{x}-1}$.

א. קבע אילו מהטענות הבאות נכונות ואלו אינן נכונות.
הצדק את קביעותיך באמצעות חישוב מתאים:

i. לשתי הפונקציות יש את אותו תחום ההגדרה.

ii. לשתי הפונקציות יש נקודות קיצון הנמצאות על הישר: $y=x$.

iii. הפונקציות לא חותכות זו את זו.

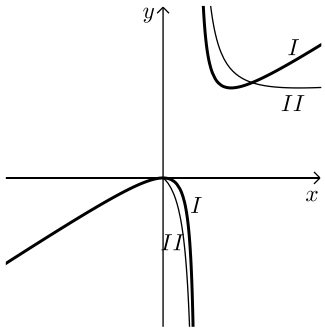

מגדירים פונקציה נוספת והיא: $h(x)=\left(g(x)\right)^2$.

ב. כתוב באופן מפורש את הפונקציה החדשה: $h(x)$.

ג. האם תחום ההגדרה של הפונקציה $h(x)$ זהה לשל $g(x)$?

ד. באיור הסמוך ישנם שני גרפים.
קבע על סמך הסעיפים הקודמים איזו פונקציה כל גרף
מתאר מבין הפונקציות: $h(x)$, $g(x)$, $f(x)$. נמק את בחירותיך.

51) לפניך שלוש פונקציות: $h(x)=\frac{\sqrt{k-x^2}}{x^2}$, $g(x)=\frac{x^2}{\sqrt{k-x^2}}$, $f(x)=x^2\sqrt{k-x^2}$, $(k>0)$.

א. קבע אילו מהטענות הבאות נכונות ואלו אינן נכונות. הצדק את קביעותיך
באמצעות חישוב מתאים:

i. לפונקציות $f(x)$ ו-$g(x)$ תחום הגדרה זהה, השונה מתחום ההגדרה של $h(x)$.

ii. קיימת פונקציה אשר אינה חותכת את ציר ה-x כלל.

iii. הפונקציות: $h(x)$ ו-$g(x)$ הפוכות זו מזו בתחומי העלייה והירידה שלהן
(כאשר אחת עולה השנייה יורדת).

iv. לפונקציה: $f(x)$ יש נקודת קיצון אחת בלבד.

מסמנים נקודה $A\left(0,\sqrt{12}\right)$ על ציר ה-y . ידוע כי מרחקה מאחת מנקודות החיתוך
של גרף הפונקציה $f(x)$ עם ציר ה-x שאינה בראשית הוא: $d=6$.

ב. מצא את k .

ג. מצא את נקודות הקיצון של גרף
הפונקציה $f(x)$ וקבע את סוגן.

ד. לפניך איור ובו מסורטטות הסקיצות של
שלושת הפונקציות.
קבע עפ"י הסעיפים הקודמים איזה גרף
שייך לכל פונקציה.

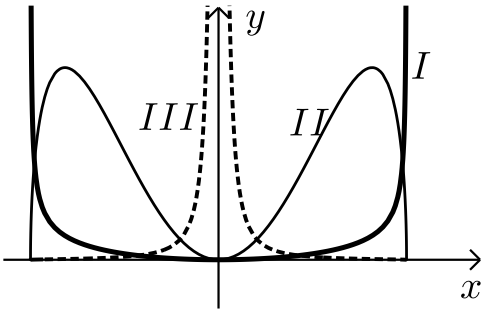

תשובות סופיות:

37) א. $x\geq 3$ ב. $\min(3,0)$ קצה ג. הפונקציה עולה בכל ת.ה.

ד. $(3,0)$ ה. אין. ו. להלן סקיצה:

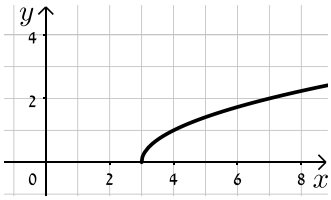

38) א. $x\geq 1$ ב. $\min(2,-2)$, $\max(1,0)$ קצה

ג. עולה: $x>2$, יורדת: $1<x<2$. ד. $(1,0),(4,0)$ ה. אין.

ו. להלן סקיצה:

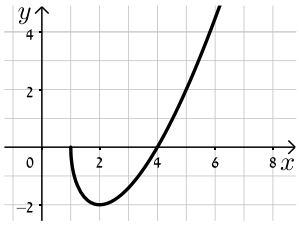

39) א. $x\leq 6$ ב. $\min(6,0)$, $\max\left(4,4\sqrt{2}\right)$ קצה

ג. עלייה: $x<4$, ירידה: $4<x<6$ ד. $(6,0),(0,0)$.

ה. להלן סקיצה:

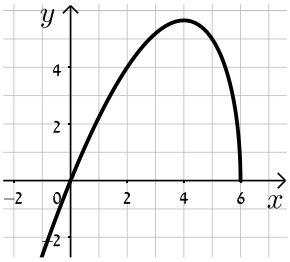

40) א. $x\geq 0$ ב. $\min(0,0)$, $\max(1,1)$ קצה

ג. עולה: $0<x<1$, יורדת: $x>1$ ד. $(0,0)$ ה. $y=0$.

ו. להלן סקיצה:



41) א. $-3\le x\le 3$ וגם $x\ne 0$ ב. $\max(-3,0)$ קצה, $\min(3,0)$ קצה

ג. עולה: אף x, יורדת: $-3\le x\le 3$, $x\ne 0$ ד. $(-3,0),(3,0)$

ה. $x=0$. ו. להלן סקיצה:

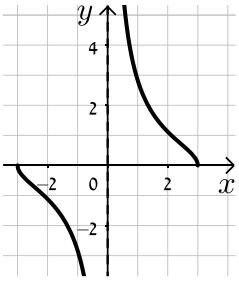

42) א. $x<0$, $x\ge 2$ ב. $\max\left(3,\frac{1}{\sqrt{27}}\right)$ $\min(2,0)$ ג. $(2,0)$.

ד. להלן סקיצה:

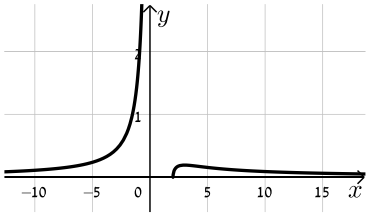

43) א. $(2,0)$ ב. לא ג. $y=2\sqrt{2}x-4\sqrt{2}$ ד. $S=4\sqrt{2}$.

44) א. $x\ge 0$, $x\ne 1$ ב. $(9,6)$ ג. $y=6$.

45) א. $-3\le x\le 3$ וגם $x\ne 0$ ב. $\max(-3,0)$ קצה, $\min(3,0)$ קצה

ג. עולה: אף x, יורדת: $-3\le x\le 3$ וגם $x\ne 0$ ד. $(-3,0),(3,0)$

ה. $x=0$ ו. להלן סקיצה:

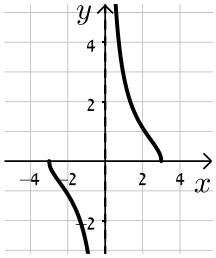

46) א. $a=1$ ב. $-3<x<3$ ג. $\left(-1.5,\sqrt{3}\right)$

ד. יורדת: $-3<x<-1.5$, עולה: $-1.5<x<3$.

47) א. $k=0.48$ ב. כן, $(0.6,0.57)$ ג. $y=0.74x+0.1352$.

48) א. i. $-\sqrt{k}<x<\sqrt{k}$ ii. $x=\pm\sqrt{k}$ ב. $f'(x)=\frac{k^2}{\left(k-x^2\right)^{1.5}}>0$

ג. $y=\sqrt{k}x$ ד. $k=4$.

49) א. $g(x)=\sqrt{\frac{x+2}{x+4}}$ ב. i. לא נכון ii. נכון

iii. נכון iv. נכון

ג. $f(x):\left(0,\frac{1}{2}\right)$, $g(x):\left(0,\frac{1}{\sqrt{2}}\right)$

ד. אסף צודק.

50) א. i. לא נכון ii. נכון iii. נכון

ב. $h(x)=\frac{x^2}{x-1}$

ג. לא, $h(x):x\neq 1$

ד. $\mathrm{I}=h(x)$, $\mathrm{II}=f(x)$.

51) א. i. לא נכון ii. לא נכון iii. נכון iv. נכון

ב. $k=24$ ג. $\max\left(\pm 4,32\sqrt{2}\right)$, $\min(0,0)$

ד. $\mathrm{I}=g(x)$, $\mathrm{II}=f(x)$, $\mathrm{III}=h(x)$.

תחומי קעירות ונקודות פיתול:

סיכום כללי:

תחומי קעירות – הגדרה:

- פונקציה $f(x)$ קעורה כלפי מטה (קמורה) בתחום $[x_0, x_1]$ אם לכל x בתחום הנ"ל המשיק לפונקציה נמצא מעל לגרף הפונקציה.
כדי למצוא תחומי קעירות כלפי מטה יש למצוא תחום שבו: $f''(x) < 0$.
- פונקציה $f(x)$ קעורה כלפי מעלה (קעורה) בתחום $[x_0, x_1]$ אם לכל x בתחום הנ"ל המשיק לפונקציה נמצא מתחת לגרף הפונקציה.
כדי למצוא תחומי קעירות כלפי מעלה יש למצוא תחום שבו: $f''(x) > 0$.

נקודת פיתול – הגדרות:

- נקודת פיתול היא נקודה שבה הפונקציה עוברת מתחום קעירות כלפי מטה לקעירות כלפי מעלה ולהיפך.
- נקודת פיתול מקיימת: $f''(x) = 0$ כאשר ערך הנגזרת השנייה משנה את סימנו בתחום שלפני ואחרי הנקודה המאפסת אותו.
- בנקודת פיתול המשיק לגרף הפונקציה חותך אותה ולא רק משיק לה מכיוון אחד.

שאלות:

52) מצא את נקודות הפיתול ואת תחומי הקעירות של הפונקציה: $f(x) = x^4 - 6x^3 + 12x^2$.

53) מצא את נקודות הפיתול ואת תחומי הקעירות של הפונקציה: $f(x) = \frac{3x-2}{x^2}$.

54) מצא את נקודות הקיצון והפיתול של הפונקציה: $f(x) = \frac{2x}{\sqrt{x-1}}$.

55) מצא את נקודות הקיצון והפיתול של הפונקציה: $f(x) = x(x-2)^3$.

56) נתונה הפונקציה: $f(x)=\frac{a}{x^2+b}$, a,b פרמטרים.
הנקודה $(-1\ ,\ 1)$ היא נקודת פיתול של הפונקציה.
מצא את ערכי הפרמטרים a,b.

57) נתונה הפונקציה: $f(x)=\frac{1}{x}-\frac{1}{x^2}+2$. חקור את הפונקציה לפי הסעיפים הבאים:

א. מציאת תחום הגדרה.
ב. מציאת נקודות קיצון של הפונקציה.
ג. כתיבת תחומי העלייה והירידה של הפונקציה.
ד. מציאת נקודות החיתוך של גרף הפונקציה עם הצירים.
ה. מציאת אסימפטוטות המקבילות לצירים.
ו. מציאת נקודות פיתול.
ז. מציאת תחומי הקעירות כלפי מעלה ומטה.
ח. סרטוט סקיצה של גרף הפונקציה.

58) נתונה הפונקציה: $f(x)=\frac{2x}{x-\sqrt{x}}$. חקור את הפונקציה לפי הסעיפים הבאים:

א. מציאת תחום הגדרה.
ב. מציאת נקודות קיצון של הפונקציה.
ג. כתיבת תחומי העלייה והירידה של הפונקציה.
ד. מציאת נקודות החיתוך של גרף הפונקציה עם הצירים.
ה. מציאת אסימפטוטות המקבילות לצירים.
ו. מציאת נקודות פיתול.
ז. מציאת תחומי הקעירות כלפי מעלה ומטה.
ח. סרטוט סקיצה של גרף הפונקציה.

59) חקור את הפונקציות הבאות לפי הסעיפים הבאים:

i. מציאת תחום הגדרה.
ii. מציאת נקודות חיתוך עם הצירים.
iii. מציאת נקודות קיצון וקביעת סוגן.
iv. מציאת תחומי העלייה והירידה של הפונקציה.
v. מציאת אסימפטוטות המקבילות לצירים.
vi. מציאת נקודות הפיתול של הפונקציה.
vii. מציאת תחומי הקעירות של הפונקציה.
viii. סרטוט סקיצה של גרף הפונקציה.

א. $f(x)=\frac{x-1}{x^2}$

ב. $f(x)=\frac{2x^2}{(x+1)^2}$

ג. $f(x)=\frac{x^3}{x^2-4}$

ד. $f(x)=\frac{x^3}{(x+1)^2}$

ה. $f(x)=\left(\frac{x+1}{x-1}\right)^3$

ו. $f(x)=\frac{x^2-1}{(x-2)(x-5)}$

ז. $f(x)=\frac{x^2-4x+3}{x^2-4}$

ח. $f(x)=\frac{x^3-x^2}{x^2-1}$

הערה: בסעיפים ו ו-ז יש לבצע חקירה ללא סעיפים vi ו-vii.

תשובות סופיות:

52) $(1,7),(2,16)$, קעירות כלפי מעלה: $x>2$ או $x<1$, קעירות כלפי מטה: $1<x<2$.

53) $(2,1)$, קעירות כלפי מעלה: $x>2$, קעירות כלפי מטה: $0\neq x<2$.

54) קיצון: $\min(2,4)$, פיתול: $\left(4,\frac{8}{\sqrt{3}}\right)$.

55) קיצון: $\min\left(\frac{1}{2},-\frac{27}{16}\right)$, פיתול: $(2,0),(1,-1)$.

56) $a=4$, $b=3$.

57) א. $x\neq 0$ ב. $\max\left(2,2\frac{1}{4}\right)$ ג. עולה: $0<x<2$ יורדת: $x>2$, $x<0$

ד. $\left(\frac{1}{2},0\right),(-1,0)$ ה. $x=0$, $y=2$ ו. $\left(3,2\frac{2}{9}\right)$.

ז. קעירות כלפי מעלה: $x>3$, קעירות כלפי מטה: $0\neq x<3$.

ח. להלן סקיצה:

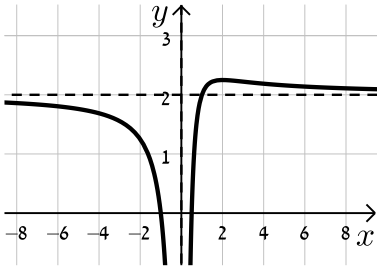

58) א. $1\neq x>0$ ב. אין. ג. יורדת בכל תחום הגדרתה.

ד. אין. ה. $x=1$, $y=2$ נקודת אי הגדרה: $(0,0)$. ו. $\left(\frac{1}{9},-1\right)$.

ז. קעירות כלפי מעלה: $x>1$ או $0<x<\frac{1}{9}$, קעירות כלפי מטה: $\frac{1}{9}<x<1$.

ח. להלן סקיצה:

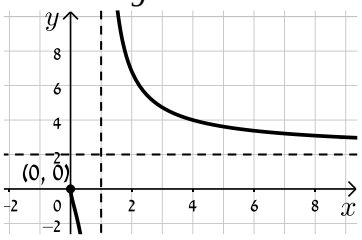

59) א. i. $x\neq 0$ ii. $(1,0)$ iii. $x=0$, $y=0$ iv. $\max(2,0.25)$

v. עולה: $0<x<2$, יורדת: $x<0$, $x>2$ vi. $\left(3,\frac{2}{9}\right)$

vii. קעורה כלפי מעלה: $x>3$, קעורה כלפי מטה: $0<x<3$, $x<0$.

ב. i. $x\neq -1$ ii. $(0,0)$ iii. $x=-1$, $y=2$ iv. $\min(0,0)$

v. עולה: $x<-1$, $x>0$, יורדת: $-1<x<0$ vi. $\left(\frac{1}{2},\frac{2}{9}\right)$

vii. קעורה כלפי מעלה: $-1<x<\frac{1}{2}$, קעורה כלפי מטה: $x<-1$, $x<\frac{1}{2}$.

ג. i. $x\neq\pm2$ ii. $(0,0)$ iii. $x=\pm2$

iv. $\max\left(-\sqrt{12},-5.2\right)$, $\min\left(\sqrt{12},5.2\right)$.

v. עולה: $x>\sqrt{12}$, $x<-\sqrt{12}$, יורדת: $2<x<\sqrt{12}$, $-2<x<2$, $-\sqrt{12}<x<-2$

vi. $(0,0)$.

vii. קעורה כלפי מעלה: $x>2$, $-2<x<0$, קעורה כלפי מטה: $0<x<2$, $x<-2$.

ד. i. $x\neq-1$ ii. $(0,0)$ iii. $x=-1$ iv. $\max(-3,-6.75)$

v. עולה: $x>-1$, $x<-3$, יורדת: $-3<x<-1$ vi. $(0,0)$

vii. קעורה כלפי מעלה: $x>0$, קעורה כלפי מטה: $-1<x<0$, $x<-1$.

ה. i. $x\neq1$ ii. $(-1,0),(0,-1)$ iii. $x=1$, $y=1$ iv. אין.

v. יורדת בכל ת.ה. vi. $\left(-3,\frac{1}{8}\right),(-1,0)$

vii. קעורה כלפי מעלה: $-3<x<-1$, $x>1$, קעורה כלפי מטה: $-1<x<1$, $x<-3$.

ו. i. $x\neq2,5$ ii. $(0,-0.1),(-1,0),(1,0)$ iii. $x=2$, $x=5$, $y=1$

iv. $\min(0.359,-0.11)$, $\max(2.78,-3.89)$

v. עולה: $0.359<x<2$, $2<x<2.78$, יורדת: $x>5$, $2.78<x<5$, $x<0.359$.

ז. i. $x\neq\pm2$ ii. $(3,0),(1,0),(0,-0.75)$ iii. $x=\pm2$, $y=1$

iv. אין. v. יורדת בכל ת.ה.

ח. i. $x\neq\pm1$ ii. $(0,0)$ iii. $x=-1$ iv. $\max(-2,-4)$, $\min(0,0)$.

v. עולה: $x>0$, $x<-2$, $x\neq1$, יורדת: $-1<x<0$, $-2<x<-1$

vi. אין. vii. קעורה כלפי מעלה: $x>-1$, $x\neq1$, קעורה כלפי מטה: $x<-1$.

סקיצות:

א.

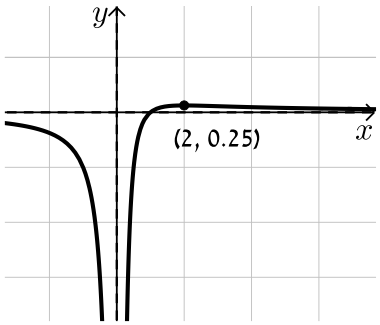

ב.

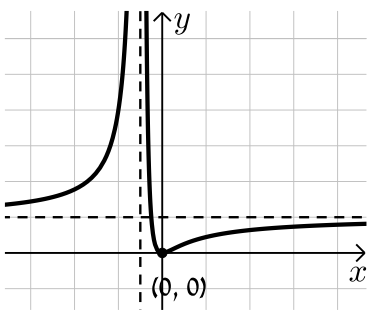

ג.

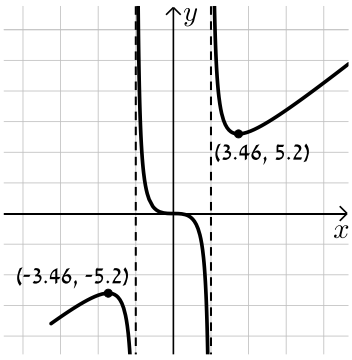

ד.

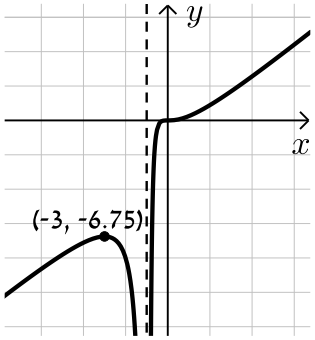

ה.

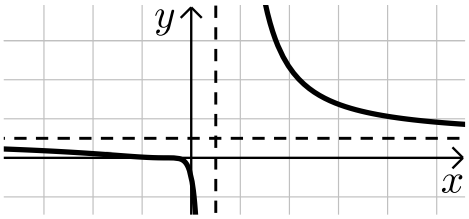

ו.

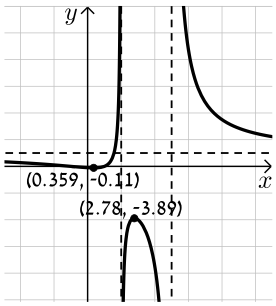

ז.

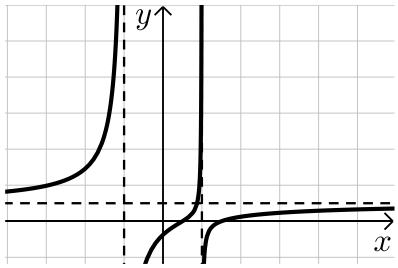

ח.

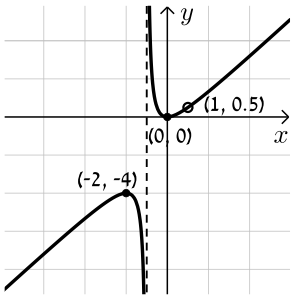

חקירת פונקציה עם פרמטר:

סיכום כללי:

סיווג נקודות קיצון באמצעות "y" :

אם הנקודה $A(x_1,y_1)$ היא נקודת קיצון אז:

- אם $f''(x_1)>0$ הנקודה $A(x_1,y_1)$ היא נקודת מינימום.
- אם $f''(x_1)<0$ הנקודה $A(x_1,y_1)$ היא נקודת מקסימום.

שאלות:

1) מצא וסווג את נקודות הקיצון של הפונקציה: $f(x)=x^3-12x$.

2) מצא וסווג את נקודות הקיצון של הפונקציה: $f(x)=x^2-6x-16$.

3) מצא וסווג את נקודות הקיצון של הפונקציה: $f(x)=x^3-3b^2x$, $b>0$ פרמטר.
שרטט סקיצה של גרף הפונקציה.

4) נתונה הפונקציה: $f(x)=\frac{2x}{a^2+x^2}$ $(a>0)$. חקור לפי הסעיפים הבאים:

א. מציאת תחום ההגדרה.
ב. מציאת נקודות קיצון של הפונקציה.
ג. כתיבת תחומי העלייה והירידה של הפונקציה.
ד. מציאת נקודות החיתוך של גרף הפונקציה עם הצירים.
ה. מציאת אסימפטוטות המקבילות לצירים.
ו. שרטוט סקיצה של גרף הפונקציה.

5) נתונה הפונקציה: $f(x)=\frac{1-x^2}{(x-b)^2}$, $(b>1)$. חקור לפי הסעיפים הבאים:

א. מציאת תחום ההגדרה.

ב. מציאת נקודות קיצון של הפונקציה.

ג. כתיבת תחומי העלייה והירידה של הפונקציה.

ד. מציאת נקודות החיתוך של גרף הפונקציה עם הצירים.

ה. מציאת אסימפטוטות המקבילות לצירים.

ו. שרטוט סקיצה של גרף הפונקציה.

6) נתונה הפונקציה: $f(x)=4x\sqrt{b^2-x^2}$, $(b>0)$.

חקור לפי הסעיפים הבאים:

א. מציאת תחום ההגדרה.

ב. מציאת נקודות קיצון של הפונקציה.

ג. כתיבת תחומי העלייה והירידה של הפונקציה.

ד. מציאת נקודות החיתוך של גרף הפונקציה עם הצירים.

ה. שרטוט סקיצה של גרף הפונקציה.

7) נתונה הפונקציה: $f(x)=\frac{x^2-m}{ax-4}$, a,m פרמטרים קבועים כאשר: $a>0$.

ידוע כי אחת מנקודות הקיצון של הפונקציה נמצאת על ציר ה- y.

א. מצא את הערך של הפרמטר m.

ב. הצב את הערך של m שמצאת בסעיף א' והבא באמצעות a את:

i. תחום ההגדרה של הפונקציה.

ii. נקודות הקיצון של הפונקציה וקבע את סוגן.

iii. האסימפטוטות לגרף הפונקציה המקבילות לצירים.

ג. סרטט סקיצה וסמן בה את נקודות הקיצון ואת משוואות האסימפטוטות שהבעת באמצעות a בסעיף הקודם.

ד. ידוע כי נקודת הקיצון שאינה על ציר ה- y נמצאת במרחקים שווים מהצירים. מצא את הערך של הפרמטר a.

ה. נתון הישר: $y=k$. מצא עבור אילו ערכים של k אין לישר ולגרף הפונקציה נקודות משותפות כלל.

תשובות סופיות:

1) $\max(-2,16)$, $\min(2,-16)$

2) $\min(3,-25)$

3) $\max(-b,2b^3)$, $\min(b,-2b^3)$

4) א. כל x ב. $\max\left(a,\frac{1}{a}\right)$, $\min\left(-a,-\frac{1}{a}\right)$.
ג. עולה: $-a<x<a$ יורדת: $x>a$, $x<-a$.
ד. $(0,0)$ ה. אסימפטוטה אופקית: $y=0$

5) א. $x\neq b$ ב. $\max\left(\frac{1}{b},\frac{1}{b^2-1}\right)$ ג. עולה: $x>b$, $x<\frac{1}{b}$ יורדת: $\frac{1}{b}<x<b$.
ד. $\left(0,\frac{1}{b^2}\right)$, $(-1,0)$, $(1,0)$ ה. $x=b$, $y=-1$.

6) א. $-b\le x\le b$ ב. $\min\left(-\frac{b}{\sqrt{2}},-2b^2\right)$, $\max\left(\frac{b}{\sqrt{2}},2b^2\right)$, $\min(-b,0)$ קצה,
$\min(b,0)$ קצה. ג. עולה: $-\frac{b}{\sqrt{2}}<x<\frac{b}{\sqrt{2}}$, יורדת: $\frac{b}{\sqrt{2}}<x<b$, $-b<x<-\frac{b}{\sqrt{2}}$.
ד. $(0,0)$, $(-b,0)$, $(b,0)$.

7) א. $m=0$ ב. i. $x\neq\frac{4}{a}$ ii. $\min\left(\frac{8}{a},\frac{16}{a^2}\right)$, $\max(0,0)$
iii. $x=\frac{4}{a}$ ד. $a=2$ ה. $0<k<4$.

סקיצות לשאלות:

3)
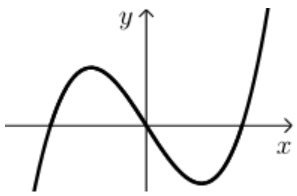

4)
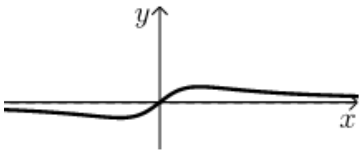

5)
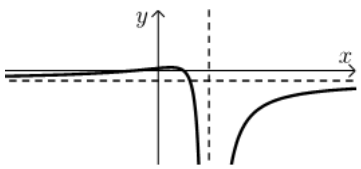

6)
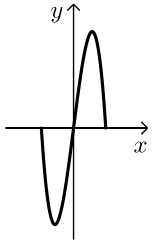

7)
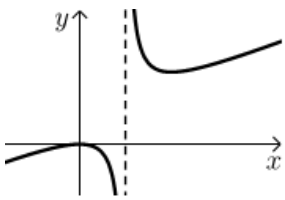

פונקציות ללא תבנית מפורשת:

סיכום כללי:

הגדרת פונקציה:

פונקציה f היא התאמה בין ערך x לערך y ומסומנת באופן הבא: $f:x\to y$.
כך שלכל x מתאים ערך אחד בלבד של y. סימון אחר: $y=f(x)$.
הנגזרת של פונקציה $f(x)$ מסומנת $f'(x)$.

כללי הגזירה לפי כלל השרשרת:

- סימון הנגזרת: $\left(f(x)\right)'=f'(x)$.
- גזירה של פונקציה בחזקה: $\left(f^2(x)\right)'=2f(x)f'(x)$.
- גזירה של הרכבת פונקציות: $\left(f\left(g(x)\right)\right)'=f'\left(g(x)\right)\cdot g'(x)$.

שאלות:

1) הפונקציה $f(x)$ מקיימת: $f(1)=3$ ו- $f'(1)=-2$.
חשב את ערכי הביטויים הבאים:

א. $f(1)+4$.

ב. $f'(1)+4$.

ג. $\dfrac{f(1)+1}{f'(1)-1}$.

ד. $\sqrt{f(1)+f'(1)}$.

2) נתונה פונקציה f המקיימת: $f(4)=0$ ו- $f'(4)=1$.
מגדירים: $g(x)=2x+f(2x)$.
חשב את $g(2)$ ואת $g'(2)$.

3) נתונה פונקציה המקיימת: $f(8)=-1$ ו-$f'(8)=1$.

א. נתון: $g(x)=x^2\sqrt{f(4x)+f'(x+6)}$. חשב את $g(2)$.

ב. נתון: $h(x)=\dfrac{f(x+2)+x+2}{f'(14-x)-14+x}$. חשב את $h(6)$.

4) נתונה פונקציה המקיימת: $f(9)=-4$, $f'(9)=3$.

מגדירים: $g(x)=f^2(3x)+f'(x^2)$. חשב את $g(3)$.

5) פונקציה f מקיימת: $f(4)=2$, $f'(4)=1$.

מגדירים: $g(x)=f^2(x)+f(x)+x$.

חשב את $g(4)$ ואת $g'(4)$.

6) פונקציה f מקיימת: $f(1)=-3$, $f'(1)=3$. מגדירים: $g(x)=\dfrac{x\cdot f(x)}{x+f(x)}$.

חשב את $g(1)$ ואת $g'(1)$.

7) פונקציה f מקיימת: $f(-2)=6$, $f'(-2)=2$. מגדירים: $g(x)=\sqrt{f^2(x)+1}$.

חשב את $g(-2)$ ואת $g'(-2)$.

8) פונקציה f מקיימת: $f\left(\frac{1}{2}\right)=3$, $f'\left(\frac{1}{2}\right)=\frac{4}{3}$. מגדירים: $g(x)=3x\cdot f(2x)$.

חשב את $g\left(\frac{1}{4}\right)$ ואת $g'\left(\frac{1}{4}\right)$.

9) פונקציה f מקיימת: $f(6)=\frac{2}{3}$, $f'(6)=-\frac{3}{2}$. מגדירים: $g(x)=\dfrac{x+3+f(x+3)}{f(2x)+3}$.

חשב את $g(3)$ ואת $g'(3)$.

10) נתונה פונקציה המקיימת: $f(8)=-3$. מגדירים: $g(x)=\frac{f(4x)+1}{f(x+6)+2}$.

א. חשב את $g(2)$.

ב. חשב את $f'(8)$ אם ידוע כי: $g'(2)=1$.

ג. חשב את $f'(8)$ אם ידוע כי: $g'(2)=\left(f'(8)\right)^2$ וכי $f'(8)<0$.

11) נתונה פונקציה המקיימת: $f(3)=-2$.

מגדירים: $g(x)=\frac{x^2\cdot f(x-2)}{f(2x-7)}$ וידוע כי $g'(5)=-15$.

חשב את $g(5)$ ואת $f'(3)$.

12) נתונה פונקציה שמקיימת: $f(4)=\frac{1}{2}$.

מגדירים: $g(x)=x^2\cdot f\left(x^2\right)+f'^2\left(x^2\right)$.

א. הבע את $g'(x)$ באמצעות f.

ב. חשב את $g(-2)$ ואת $g(2)$ אם ידוע כי $f'(4)=1$.

ג. חשב את $f'(4)$ אם ידוע כי $g'(2)=11$ ו- $f''(4)=\frac{1}{4}$.

תשובות סופיות:

1) א. 7 ב. 2 ג. $-\frac{4}{3}$ ד. 1.

2) $g(2)=4\,,\,g'(2)=4$.

3) א. $g(2)=0$ ב. $h(6)=-1$.

4) $g(3)=19$.

5) $g(4)=10\,,\,g'(4)=6$.

6) $g(1)=1.5\,,\,g'(1)=3$.

7) $g(-2)=\sqrt{37}\,,\,g'(2)=\frac{12}{\sqrt{37}}$.

8) $g\left(\frac{1}{4}\right)=\frac{9}{4}\,,\,g'\left(\frac{1}{4}\right)=11$.

9) $g(3)=1\frac{9}{11}\,,\;g'(3)=\frac{327}{242}=1.351$.

10) א. $g(2)=2$ ב. $f'(8)=-\frac{1}{2}$ ג. $f'(8)=-2$.

11) $g(5)=25\,,\,f'(3)=-2$.

12) א. $g'(x)=2x\,f\left(x^2\right)+2x^3 f'\left(x^2\right)+4x\,f'\left(x^2\right)f''\left(x^2\right)$

ב. $g(2)=3\,,\,g'(-2)=3$ ג. $f'(4)=\frac{1}{2}$.