חדוא 1

פרק 11 - חקירת פונקציה

תוכן העניינים

1. מושגי יסוד 1
2. חקירת פולינום 2
3. חקירת פונקציה רציונלית 3
4. חקירת פונקציה מעריכית 7
5. חקירת פונקציה לוגריתמית 10
6. חקירת פונקציה עם שורשים 14
7. חקירת פונקציה לא גזירה - שורש וערך מוחלט 15
8. חקירת פונקציה טריגונומטרית 18
9. חקירת פונקציות טריגונומטריות הפוכות 22
10. חקירת פונקציה – שאלות כלליות 24
11. הוכחת אי שוויונות בעזרת חקירת פונקציה 29

הערות

1. בשאלות החקירה בפרק זה יש לחקור לפי השלבים הבאים:
   - תחום הגדרה ורציפות.
   - נקודות חיתוך עם הצירים.
   - זוגיות ואי-זוגיות.
   - אסימפטוטות אנכיות, אופקיות ומשופעות.
   - תחומי עלייה וירידה.
   - נקודות קיצון.
   - תחומי קמירות וקעירות.
   - נקודות פיתול.
   - שרטוט סקיצה של גרף הפונקציה.
2. יש האומרים על פונקציה קמורה שהיא קעורה כלפי מעלה ועל פונקציה קעורה שהיא קעורה כלפי מטה. אלה מינוחים שמקובלים בדרך כלל בתיכון.
3. ברוב המוסדות האקדמיים לומדים למצוא אסימפטוטה משופעת, שכוללת בתוכה גם את האפשרות לאסימפטוטה אופקית. יחד עם זאת, בחלק מהמוסדות לומדים רק אסימפטוטה אופקית, ולכן בכל חקירה אני מוצא גם אסימפטוטה משופעת וגם אופקית. צפו בפתרון רק בחלק ברלוונטי עבורכם.
4. בחלק מהחקירות אציין בשאלה שאין צורך לעבור על כל שלבי החקירה. שימו לב לזה.
5. אני ממליץ על תוכנה חינמית בשם Graph, שניתן להוריד מכאן.

   בעזרתה תוכלו לשרטט כל פונקציה בקלות ולבדוק את תשובותיכם.

כתב ופתר – גיא סלומון ©

חקירת פולינום

שאלות

חקור את הפונקציות הבאות חקירה מלאה:

1) $f(x)=x(x-9)^2$

2) $f(x)=x^4-2x^3$

תשובות סופיות

1) תחום הגדרה: כל x. נקודות חיתוך עם ציר ה-y: 0, עם ציר ה-x: 0 ו-9.
נקודות קיצון: מינימום: $(9,0)$, מקסימום: $(3,108)$.
תחום עלייה: $x<3$ or $x>9$, ירידה: $3<x<9$.
תחום קמירות: $x>6$, קעירות: $x<6$.
נקודת פיתול: $(6,54)$.

2) תחום הגדרה: כל x. נקודות חיתוך עם ציר ה-y: 0, עם ציר ה-x: 0 ו-2.
נקודות קיצון: מינימום: $\left(1.5,\frac{-27}{16}\right)$.
תחום עלייה: $x>1.5$, ירידה: $x<1.5$.
תחום קמירות: $x<0$ or $x>1$, קעירות: $0<x<1$.
נקודות פיתול: $(1,-1)$, $(0,0)$.

גרפים

1)

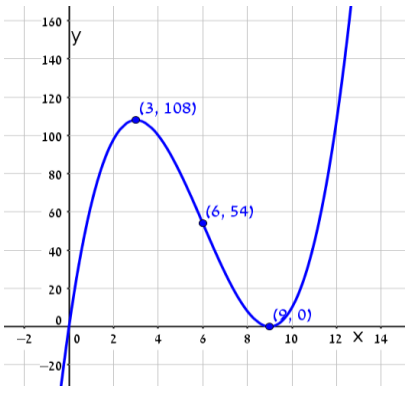

2)

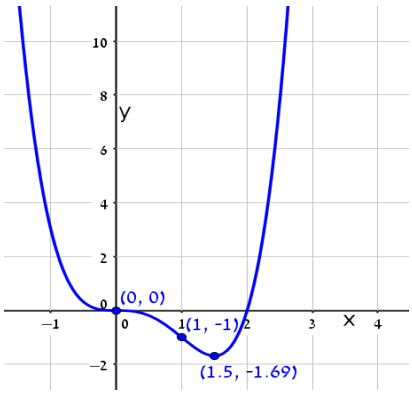

לפתרון מלא בסרטוני וידאו היכנסו לאתר www.GooL.co.il
כתב ופתר – גיא סלומון ©

חקירת פונקציה רציונלית

שאלות

חקור את הפונקציות הבאות חקירה מלאה:

1) $f(x)=\frac{x-1}{x^2}$

2) $f(x)=\frac{2x^2}{(x+1)^2}$

3) $f(x)=\frac{x^3}{x^2-4}$

4) $f(x)=\frac{x^3}{(x+1)^2}$

5) $f(x)=\left(\frac{x+1}{x-1}\right)^3$

6) $f(x)=\frac{x^2-1}{(x-2)(x-5)}$

7) $f(x)=\frac{x^2-4x+3}{x^2-4}$

8) $f(x)=\frac{x^3-x^2}{x^2-1}$

הערות

1. בשאלה 6 יש למצוא נקודת פיתול, רק אם למדת לפתור משוואה ממעלה שלישית.
2. בשאלה 7 יש למצוא נקודת פיתול, רק אם למדת לפתור משוואות בדרך נומרית. למשל, בשיטת ניוטון-רפסון.
3. בשאלה 8 מצאתי רק אסימפטוטה אופקית ולא משופעת. מומלץ למצוא גם אסימפטוטה משופעת. פונקציה כמעט זהה יש בסרטון ההסבר על אסימפטוטה משופעת. בכל אופן מקבלים שם אסימפטוטה משופעת $y=x-1$.

לפתרון מלא בסרטוני וידאו היכנסו לאתר www.GooL.co.il
כתב ופתר – גיא סלומון ©

תשובות סופיות

1) תחום הגדרה ורציפות: לכל $x \neq 0$. זוגיות: לא זוגית ולא אי-זוגית (כללית).
נקודות חיתוך עם ציר ה-y: אין, עם ציר ה-x: 1.
אסימפטוטה אנכית: הישר $x=0$, משופעת ואופקית: הישר $y=0$ ב-$\pm\infty$.
נקודות קיצון: מקסימום: $(2,0.25)$. נקודת פיתול: $\left(3,\frac{2}{9}\right)$.
תחום עליה: $0<x<2$, ירידה: $x<0 \ \ or \ \ x>2$.
תחום קמירות: $x>3$, קעירות: $x<0 \ \ or \ \ 0<x<3$.

2) תחום הגדרה ורציפות: לכל $x \neq -1$. זוגיות: לא זוגית ולא אי-זוגית (כללית).
נקודות חיתוך עם ציר ה-y: 0, עם ציר ה-x: 0.
אסימפטוטה אנכית: הישר $x=-1$, משופעת ואופקית: הישר $y=2$ ב-$\pm\infty$.
נקודות קיצון: מינימום: $(0,0)$. נקודת פיתול: $\left(\frac{1}{2},\frac{2}{9}\right)$.
תחום עליה: $x>0 \ \ or \ \ x<-1$, ירידה: $-1<x<0$.
תחום קמירות: $-1<x<\frac{1}{2}$, קעירות: $x<-1 \ \ or \ \ x>\frac{1}{2}$.

3) תחום הגדרה ורציפות: לכל $x \neq \pm 2$. זוגיות: אי-זוגית (סימטרית ביחס לראשית).
נקודות חיתוך עם ציר ה-y: 0, עם ציר ה-x: 0.
אסימפטוטה אנכית: הישרים $x=2, \ x=-2$, משופעת: הישר $y=x$ ב-$\pm\infty$,
אופקית: אין.
נקודות קיצון: מינימום: $\left(\sqrt{12},\sqrt{27}\right)$, מקסימום: $\left(-\sqrt{12},-\sqrt{27}\right)$.
תחום עליה: $x<-\sqrt{12} \ \ or \ \ x>\sqrt{12}$, ירידה: $-\sqrt{12}<x\neq\pm 2<\sqrt{12}$.
נקודת פיתול: $(0,0)$.
תחום קמירות: $-2<x<0 \ \ or \ \ x>2$, קעירות: $0<x<2 \ \ or \ \ x<-2$.

4) תחום הגדרה ורציפות: לכל $x \neq -1$. זוגיות: לא זוגית ולא אי-זוגית (כללית).
נקודות חיתוך עם ציר ה-y: 0, עם ציר ה-x: 0.
אסימפטוטה אנכית: הישר $x=-1$, משופעת: הישר $y=x-2$ ב-$\pm\infty$,
אופקית: אין, כי הפונקציה רציונלית, שבה מעלת המונה גדולה ממעלת המכנה.
נקודות קיצון: מקסימום: $\left(-3,-\frac{27}{4}\right)$.
תחום עליה: $x>-1 \ \ or \ \ x<-3$, ירידה: $-3<x<-1$.
נקודת פיתול: $(0,0)$.
תחום קמירות: $x>0$, קעירות: $-1<x<0 \ \ or \ \ x<-1$.

לפתרון מלא בסרטוני וידאו היכנסו לאתר www.GooL.co.il
כתב ופתר – גיא סלומון ©

5) תחום הגדרה ורציפות: לכל $x\neq 1$. זוגיות: לא זוגית ולא אי-זוגית (כללית).
נקודות חיתוך עם ציר ה-y: -1, עם ציר ה-x: -1.
אסימפטוטה אנכית: הישר $x=1$, משופעת ואופקית: הישר $y=1$ ב-$\pm\infty$.
נקודות קיצון: אין; הפונקציה יורדת בכל תחום הגדרתה.
נקודות פיתול: $(-1,0)$, $\left(-3,\frac{1}{8}\right)$.
תחום קמירות: $-3<x<-1$ & $x>1$, קעירות: $-1<x<1$ or $x<-3$.

6) תחום הגדרה ורציפות: לכל $x\neq 5,\ x\neq 2$. זוגיות: כללית.
נקודות חיתוך עם ציר ה-y: $y=-\frac{1}{10}$, עם ציר ה-x: ± 1.
אסימפטוטה אנכית: הישרים $x=5,\ x=2$, משופעת ואופקית: הישר $y=1$ ב-$\pm\infty$.
נקודות קיצון: מקסימום: $(2.78,-3.88)$, מינימום: $(0.36,-0.11)$.
תחום עלייה: $0.36<x<2$ or $2<x<2.78$,
ירידה: $x>5$ or $2.78<x<5$ or $x<0.36$. נקודת פיתול: $(-1,0)$.
תחום קמירות: $-1<x<2$ or $x>5$, קעירות: $2<x<5$ or $x<-1$.

7) תחום הגדרה ורציפות: לכל $x\neq\pm 2$. זוגיות: כללית.
נקודות חיתוך עם ציר ה-y: $y=-\frac{3}{4}$, עם ציר ה-x: $x=3,\ x=1$.
אסימפטוטה אנכית: הישרים $x=2,\ x=-2$, משופעת ואופקית: הישר $y=1$ ב-$\pm\infty$.
נקודות קיצון: אין; כי למשוואה הריבועית שקיבלנו אין פתרון.
תחום עלייה: הפונקציה עולה בכל תחום הגדרתה.
נקודת פיתול: $(0.85,-0.09)$.
תחום קמירות: $0.85<x<2$ or $x<-2$, קעירות: $-2<x<0.85$ or $x>2$.

8) תחום הגדרה ורציפות: לכל $x\neq -1,\ x\neq 1$.
נקודות חיתוך עם ציר ה-y: 0, עם ציר ה-x: 0.
אסימפטוטה אופקית: אין, אנכית: הישר $x=-1$.
נקודות קיצון: מקסימום: $(-2,-4)$, מינימום: $(0,0)$.
תחום עלייה: $x<-2$ or $0<x<1$ or $x>1$, ירידה: $-2<x<-1$ or $-1<x<0$.
נקודת פיתול: אין.
תחום קמירות: $-1<x<1$ or $x>1$, קעירות: $x<-1$.

גרפים

1)

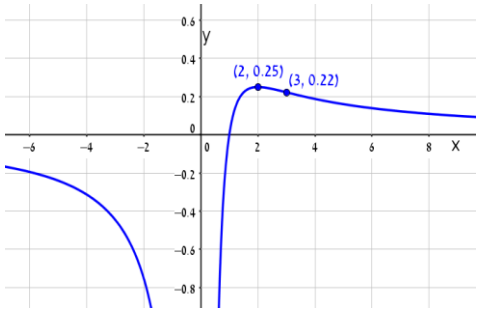

2)

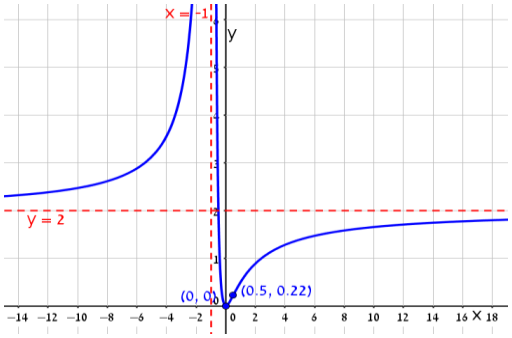

3)

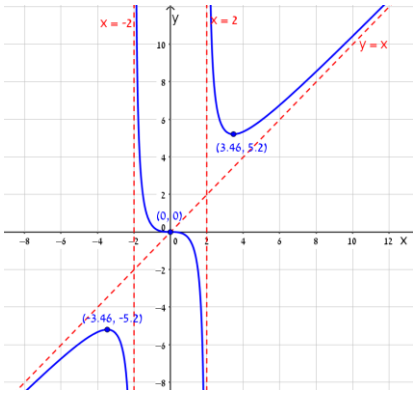

4)

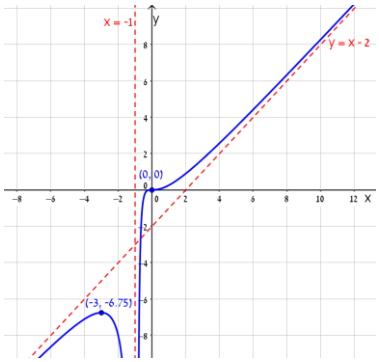

5)

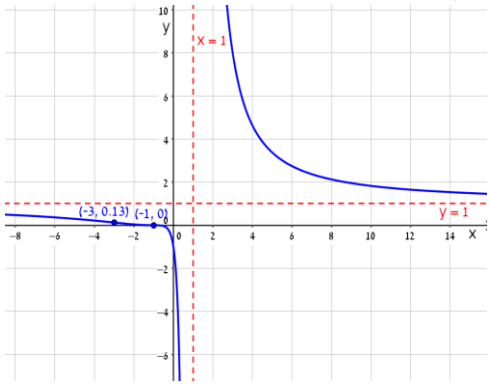

6)

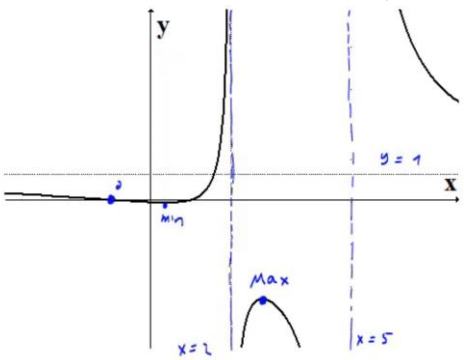

7)

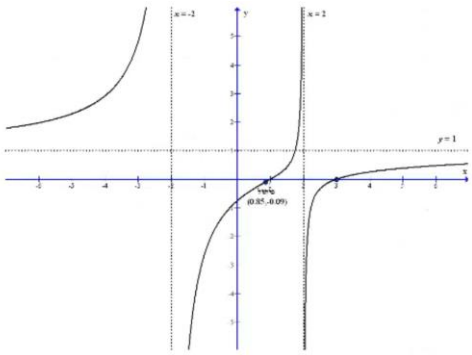

8)

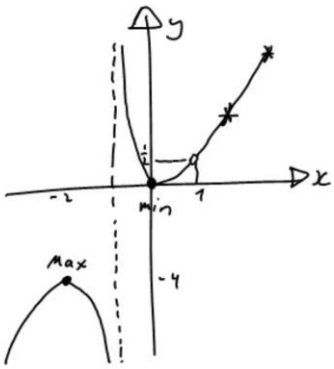

חקירת פונקציה מעריכית

שאלות

חקור את הפונקציות הבאות חקירה מלאה:

1) $f(x)=x-e^{x}$

2) $f(x)=e^{\frac{1}{x}}$

3) $f(x)=(x+2)\cdot e^{\frac{1}{x}}$

4) $f(x)=x\cdot e^{-2x^{2}}$

לפתרון מלא בסרטוני וידאו היכנסו לאתר www.GooL.co.il
כתב ופתר – גיא סלומון ©

תשובות סופיות

1) תחום הגדרה ורציפות: לכל x. זוגיות: כללית.
נקודות חיתוך עם ציר ה-y: -1, עם ציר ה-x: אין (ראו בהרחבה בסרטון).
אסימפטוטה אנכית: אין, משופעת: הישר $y=x$ ב-$-\infty$ בלבד.
נקודות קיצון: מקסימום: $(0,-1)$. תחום עלייה: $x<0$, ירידה: $x>0$.
נקודת פיתול: אין. תחום קמירות: קעורה לכל x.

2) תחום הגדרה ורציפות: לכל $x\neq 0$. זוגיות: כללית.
נקודות חיתוך עם ציר ה-y: אין, עם ציר ה-x: אין.
אסימפטוטה אנכית (חד-צדדית): $x=0$, משופעת ואופקית: הישר $y=1$ ב-$\pm\infty$.
נקודות קיצון: אין.
תחום עלייה וירידה: הפונקציה יורדת בתחום הגדרתה.
נקודת פיתול: $\left(-0.5,e^{-2}\right)$.
תחום קמירות: $-0.5<x<0$ or $x>0$, תחום קעירות: $x<-0.5$.

3) תחום הגדרה ורציפות: לכל $x\neq 0$. זוגיות: כללית.
נקודות חיתוך עם ציר ה-y: אין, עם ציר ה-x: -2.
אסימפטוטה אנכית (חד-צדדית): $x=0$, משופעת: הישר $y=x+3$ ב-$\pm\infty$.
אופקית: אין. נקודות קיצון: מקסימום: $\left(-1,e^{-1}\right)$, מינימום: $\left(2,4e^{\frac{1}{2}}\right)$.
תחום עלייה: $x<-1$ or $-1<x<0$, ירידה: $x>2$ or $0<x<2$.
נקודת פיתול: $\left(-0.4,1.6e^{-2.5}\right)$.
תחום קמירות: $-0.4<x<0$ or $x>0$, תחום קעירות: $x<-0.4$.

4) תחום הגדרה ורציפות: לכל x. זוגיות: אי-זוגית (סימטרית ביחס לראשית).
נקודות חיתוך עם ציר ה-y: 0, עם ציר ה-x: 0.
אסימפטוטה אנכית: אין, משופעת (אופקית): הישר $y=0$ ב-$\pm\infty$.
נקודות קיצון: מקסימום: $\left(\frac{1}{2},\frac{1}{2}e^{-\frac{1}{2}}\right)$, מינימום: $\left(-\frac{1}{2},-\frac{1}{2}e^{-\frac{1}{2}}\right)$.
תחום עלייה: $-\frac{1}{2}<x<\frac{1}{2}$, ירידה: $x<-\frac{1}{2}$ or $x>\frac{1}{2}$.
נקודות פיתול: $\left(\sqrt{\frac{3}{4}},\sqrt{\frac{3}{4}}e^{-1.5}\right)$, $\left(-\sqrt{\frac{3}{4}},-\sqrt{\frac{3}{4}}e^{-1.5}\right)$, $(0,0)$.
תחום קמירות: $-\sqrt{\frac{3}{4}}<x<0$ or $x>\sqrt{\frac{3}{4}}$, תחום קעירות:
$0<x<\sqrt{\frac{3}{4}}$ or $x<-\sqrt{\frac{3}{4}}$.

לפתרון מלא בסרטוני וידאו היכנסו לאתר www.GooL.co.il
כתב ופתר – גיא סלומון ©

גרפים

1)

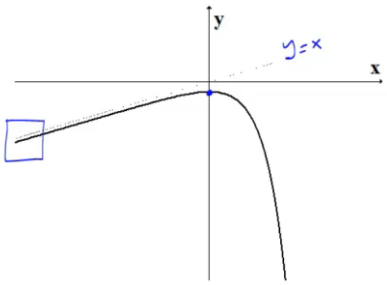

2)

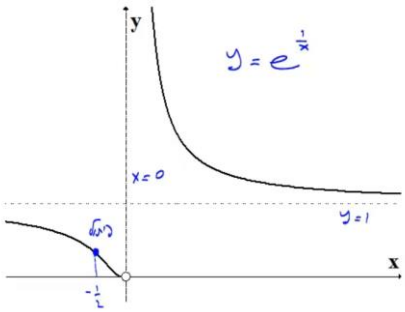

3)

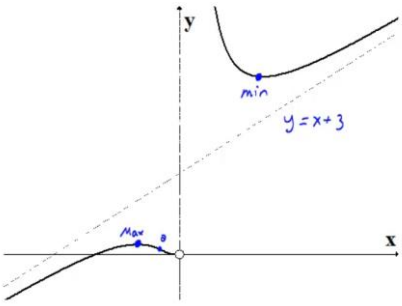

4)

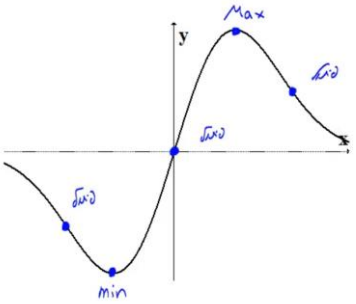

לפתרון מלא בסרטוני וידאו היכנסו לאתר www.GooL.co.il
כתב ופתר – גיא סלומון ©

חקירת פונקציה לוגריתמית

שאלות

חקור את הפונקציות הבאות חקירה מלאה:

1) $f(x)=\frac{\ln x}{x}$

2) $f(x)=\frac{\ln x}{\sqrt{x}}$

3) $f(x)=\ln\sqrt{\frac{1}{2-x}}$

4) $f(x)=x\cdot\ln x$

5) $f(x)=\ln^2 x+2\ln x-3$

6) $f(x)=4\ln^2 x-4\ln x-3$

7) $f(x)=\ln^2 x+\frac{1}{\ln^2 x}$

הערה

בשאלה 7 יש למצוא נקודת פיתול רק אם למדת לפתור משוואות בדרך נומרית. למשל, בשיטת ניוטון-רפסון.

לפתרון מלא בסרטוני וידאו היכנסו לאתר www.GooL.co.il
כתב ופתר – גיא סלומון ©

תשובות סופיות

1) תחום הגדרה ורציפות: לכל $x>0$. זוגיות: כללית.
נקודות חיתוך עם ציר ה-y: אין, עם ציר ה-x: 1.
אסימפטוטה אנכית: הישר $x=0$, משופעת ואופקית: הישר $y=0$ ב-∞.
נקודות קיצון: מקסימום: $\left(e,\frac{1}{e}\right)$.
תחום עלייה: $0<x<e$, ירידה: $x>e$.
נקודת פיתול: $\left(e^{1.5},\frac{1.5}{e^{1.5}}\right)$.
תחום קמירות: $x>e^{1.5}$, קעירות: $0<x<e^{1.5}$.

2) תחום הגדרה ורציפות: לכל $x>0$. זוגיות: כללית.
נקודות חיתוך עם ציר ה-y: אין, עם ציר ה-x: 1.
אסימפטוטה אנכית (חד-צדדית): הישר $x=0$,
משופעת ואופקית: הישר $y=0$ ב-∞.
נקודות קיצון: מקסימום: $\left(e^2,\frac{2}{e}\right)$.
תחום עלייה: $0<x<e^2$, ירידה: $x>e^2$.
נקודת פיתול: $\left(e^{\frac{8}{3}},\frac{\frac{8}{3}}{\sqrt{e^{\frac{8}{3}}}}\right)$. תחום קמירות: $0<x<e^{\frac{8}{3}}$, קעירות: $x>e^{\frac{8}{3}}$.

3) תחום הגדרה ורציפות: לכל $x<2$. זוגיות: כללית.
נקודות חיתוך עם ציר ה-y: $y=-\frac{1}{2}\ln 2$, עם ציר ה-x: 1.
אסימפטוטה אנכית: הישר $x=2$, משופעת: אין.
נקודות קיצון: אין.
תחום עלייה: עולה בכל תחום הגדרתה.
נקודת פיתול: אין. קמורה בכל תחום הגדרתה.

4) תחום הגדרה ורציפות: לכל $x>0$. זוגיות: כללית.
נקודות חיתוך עם ציר ה-y: אין, עם ציר ה-x: 1.
אסימפטוטה אנכית: אין, משופעת: אין.
נקודות קיצון: מינימום: $\left(e^{-1},-e^{-1}\right)$.
תחום עלייה: $x>e^{-1}$, ירידה: $0<x<e^{-1}$.
נקודת פיתול: אין. קמורה בכל תחום הגדרתה.

כתב ופתר – גיא סלומון ©

5) תחום הגדרה ורציפות: לכל $x>0$. זוגיות: כללית.
נקודות חיתוך עם ציר ה-y: אין, עם ציר ה-x: $x=e^{-3},\ x=e^{1}$.
אסימפטוטה אנכית: $x=0$, משופעת ואופקית: אין.
נקודות קיצון: מינימום: $\left(e^{-1},-4\right)$.
תחום עלייה: $x>e^{-1}$, ירידה: $0<x<e^{-1}$.
נקודת פיתול: $(1,-3)$. תחום קמירות: $x>1$, קעירות: $0<x<1$.

6) תחום הגדרה ורציפות: לכל $x>0$. זוגיות: כללית.
נקודות חיתוך עם ציר ה-y: אין, עם ציר ה-x: $x=e^{-0.5},\ x=e^{1.5}$.
אסימפטוטה אנכית: $x=0$, משופעת ואופקית: אין.
נקודות קיצון: מינימום: $\left(e^{\frac{1}{2}},-4\right)$.
תחום עלייה: $x>e^{\frac{1}{2}}$, ירידה: $0<x<e^{\frac{1}{2}}$.
נקודת פיתול: $\left(e^{1.5},0\right)$. תחום קמירות: $0<x<1.5$, קעירות: $x>1.5$.

7) תחום הגדרה ורציפות: לכל $x>0,\ x\neq 1$. זוגיות: כללית.
נקודות חיתוך עם ציר ה-y: אין, עם ציר ה-x: אין.
אסימפטוטה אנכית: $x=1$, משופעת ואופקית: אין.
נקודות קיצון: מינימום: $\left(e^{-1},2\right),(e,2)$.
תחום עלייה: $e^{-1}<x<1\ \ or\ \ x>e$, ירידה: $x<e^{-1}\ \ or\ \ 1<x<e$.
נקודת פיתול: $(5.15,3.06)$.
תחום קמירות: $0<x<1\ \ or\ \ 1<x<5.15$, קעירות: $x>5.15$.

לפתרון מלא בסרטוני וידאו היכנסו לאתר www.GooL.co.il
כתב ופתר – גיא סלומון ©

גרפים

1)

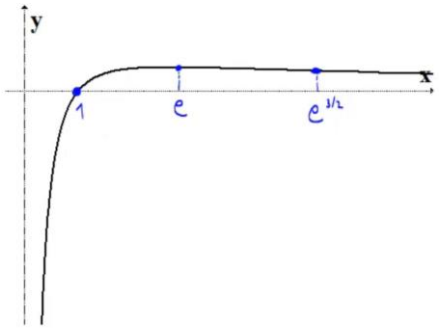

2)

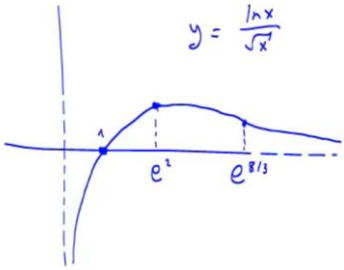

3)

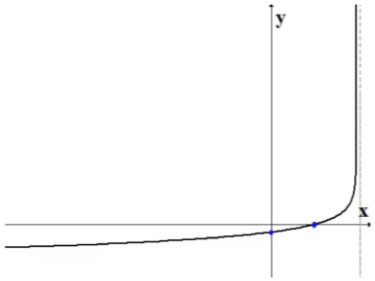

4)

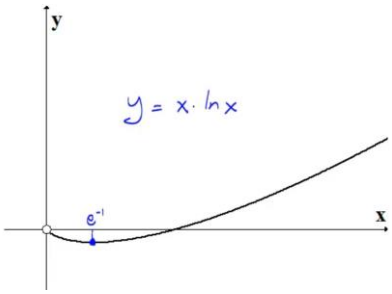

5)

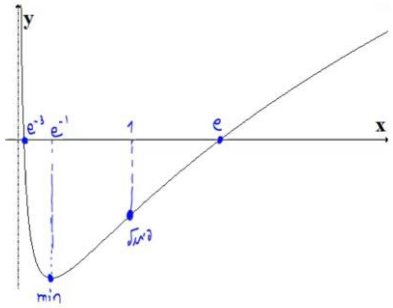

6)

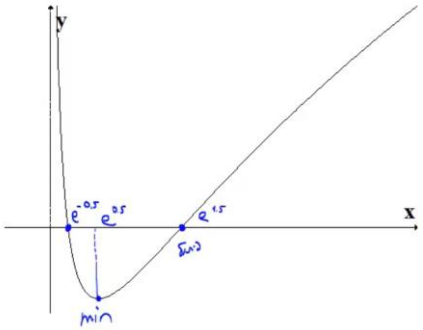

7)

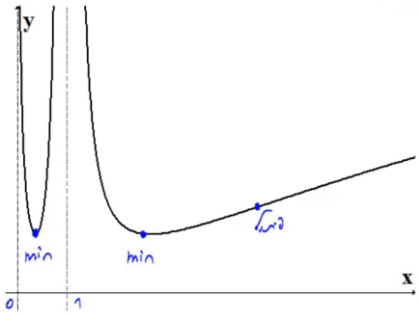

לפתרון מלא בסרטוני וידאו היכנסו לאתר www.GooL.co.il
כתב ופתר – גיא סלומון ©

חקירת פונקציה עם שורשים

שאלה

1) חקור את הפונקציה הבאה חקירה מלאה: $f(x)=\frac{1}{\sqrt{x^2+1}}$.

תשובה

1) תחום הגדרה ורציפות: לכל x.
נקודות חיתוך עם ציר ה-y: 1, עם ציר ה-x: אין.
אסימפטוטה אנכית: אין, אופקית: $y=0$.
נקודות קיצון: מקסימום: $(0,1)$. תחום עלייה: $x<0$, ירידה: $x>0$.
נקודות פיתול: $\left(-\sqrt{\frac{1}{2}},\frac{1}{\sqrt{\frac{1}{2}}}\right)$, $\left(\sqrt{\frac{1}{2}},\frac{1}{\sqrt{\frac{1}{2}}}\right)$.
תחום קמירות: $x<\sqrt{\frac{1}{2}}$ or $x<-\sqrt{\frac{1}{2}}$, קעירות: $-\sqrt{\frac{1}{2}}<x<\sqrt{\frac{1}{2}}$.
גרף:

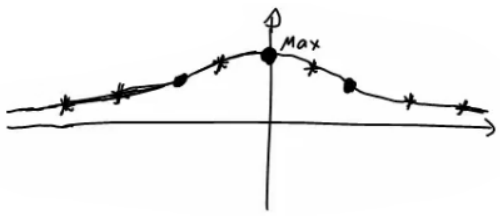

לפתרון מלא בסרטוני וידאו היכנסו לאתר www.GooL.co.il
כתב ופתר – גיא סלומון ©

חקירת פונקציה לא גזירה – שורש וערך מוחלט

שאלות

חקור את הפונקציות הבאות חקירה מלאה:

1) $f(x)=\sqrt[3]{x^2}(1-x)=x^{\frac{2}{3}}-x^{\frac{5}{3}}$

2) $f(x)=\left(\sqrt[3]{x^2}-1\right)^2$

3) $f(x)=\sqrt[3]{x^2-1}$

4) $f(x)=\frac{|x-3|}{x-2}$

לפתרון מלא בסרטוני וידאו היכנסו לאתר www.GooL.co.il
כתב ופתר – גיא סלומון ©

תשובות סופיות

1) תחום הגדרה ורציפות: לכל x. זוגיות: כללית.
נקודות חיתוך עם ציר ה-y: 0, עם ציר ה-x: 0 או 1.
אסימפטוטה אנכית: אין, אופקית: אין.
נקודות קיצון: מקסימום: $\left(\frac{2}{5},0.326\right)$, מינימום: $(0,0)$.
תחום עליה: $0<x<\frac{2}{5}$, ירידה: $x>\frac{2}{5}$ or $x<0$.
נקודות פיתול: $(-0.2,0.41)$.
תחום קמירות: $x<-0.2$, קעירות: $-0.2<x<0$ or $x>0$.

2) תחום הגדרה ורציפות: לכל x.
נקודות חיתוך עם ציר ה-y: 1, עם ציר ה-x: 1- או 1.
אסימפטוטה אנכית: אין, אופקית: אין.
נקודות קיצון: מקסימום: $(0,1)$, מינימום: $(1,0)$, $(-1,0)$.
תחום עליה: $x>1$ or $-1<x<0$, ירידה: $0<x<1$ or $x<-1$.
נקודות פיתול: אין.
תחום קמירות: קמורה לכל x.

3) תחום הגדרה ורציפות: לכל x. זוגיות: זוגית.
נקודות חיתוך עם ציר ה-y: -1, עם ציר ה-x: ± 1.
אסימפטוטה אנכית: אין, אופקית: אין.
נקודות קיצון: מינימום: $(0,-1)$.
תחום עליה: $x>1$ or $0<x<1$, ירידה: $-1<x<0$ or $x<-1$.
נקודות פיתול: $(1,0)$, $(-1,0)$.
תחום קמירות: $-1<x<1$, קעירות: $x>1$ or $x<-1$.

4) תחום הגדרה ורציפות: לכל $x\neq 2$. זוגיות: כללית.
נקודות חיתוך עם ציר ה-y: -1.5, עם ציר ה-x: 3.
אסימפטוטה אנכית: הישר $x=2$,
משופעת ואופקית: הישר $y=1$ ב-∞, ו-$y=-1$ ב-$-\infty$.
נקודות קיצון: מינימום: $(3,0)$.
תחום עליה: $x>3$, ירידה: $2<x<3$ or $x<2$.
נקודות פיתול: $(3,0)$.
תחום קמירות: $2<x<3$, קעירות: $x<2$ or $x>3$.

לפתרון מלא בסרטוני וידאו היכנסו לאתר www.GooL.co.il
כתב ופתר – גיא סלומון ©

גרפים

1)

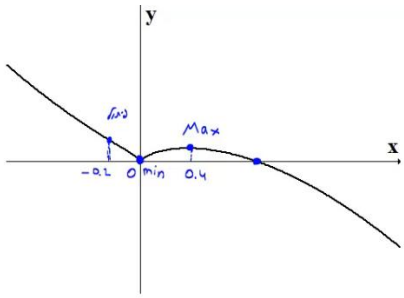

2)

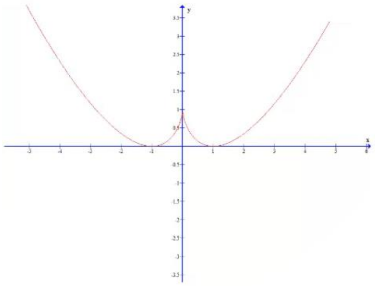

3)

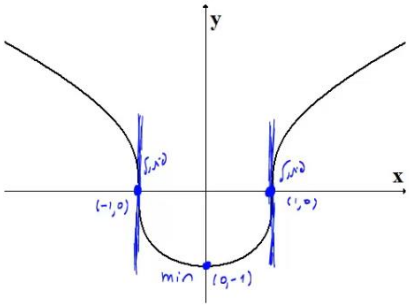

4)

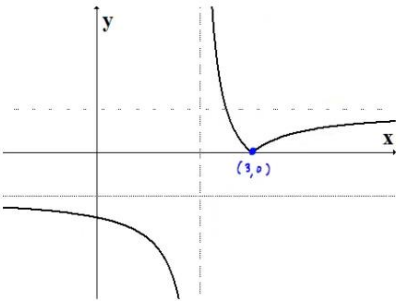

לפתרון מלא בסרטוני וידאו היכנסו לאתר www.GooL.co.il
כתב ופתר – גיא סלומון ©

חקירת פונקציה טריגונומטרית

שאלות

1) נתונה הפונקציה: $f(x)=x+2\cos x$ בתחום $[0,2\pi]$.
חקור לפי הסעיפים הבאים:
א. מציאת תחום ההגדרה של הפונקציה.
ב. מציאת נקודות הקיצון של גרף הפונקציה.
ג. תחומי עלייה וירידה של גרף הפונקציה.
ד. מציאת נקודת החיתוך של גרף הפונקציה עם ציר ה- y.
ה. מציאת אסימפטוטות המקבילות לצירים.
ו. מציאת נקודות פיתול.
ז. מציאת תחומי הקעירות כלפי מעלה ומטה.
ח. שרטוט סקיצה של גרף הפונקציה.

2) נתונה הפונקציה: $f(x)=4x-3\tan x$ בתחום $\left[-\frac{\pi}{6},\frac{2\pi}{3}\right]$.
חקור את הפונקציה על פי הסעיפים הבאים:
א. מציאת תחום ההגדרה של הפונקציה.
ב. מציאת נקודות הקיצון של גרף הפונקציה.
ג. תחומי עלייה וירידה של גרף הפונקציה.
ד. מציאת נקודת החיתוך של גרף הפונקציה עם ציר ה- y.
ה. מציאת אסימפטוטות אנכיות.
ו. מציאת נקודות פיתול.
ז. מציאת תחומי קעירות כלפי מעלה ומטה.
ח. שרטוט סקיצה של גרף הפונקציה.

3) נתונה הפונקציה: $f(x)=\frac{1}{\cos x}+\frac{1}{\sin x}$ בתחום $[0,\pi]$.
חקור לפי הסעיפים הבאים:
א. מציאת תחום ההגדרה של הפונקציה.
ב. מציאת נקודות הקיצון של גרף הפונקציה.
ג. תחומי עלייה וירידה של גרף הפונקציה.
ד. מציאת נקודת החיתוך של גרף הפונקציה עם ציר ה- x בתחום הנתון.
ה. מציאת אסימפטוטות המקבילות לצירים.
ו. שרטוט סקיצה של גרף הפונקציה.

לפתרון מלא בסרטוני וידאו היכנסו לאתר www.GooL.co.il
כתב ופתר – גיא סלומון ©

4) נתונה הפונקציה: $f(x)=\cos^2 x-\cos x-2$ בתחום: $0\le x\le 2\pi$.

א. מצא את נקודות החיתוך של גרף הפונקציה עם הצירים.

ב. מצא את נקודות הקיצון של גרף הפונקציה וקבע את סוגן.

ג. כתוב את תחומי העלייה והירידה של הפונקציה.

ד. שרטט סקיצה של גרף הפונקציה.

5) נתונה הפונקציה הבאה: $y=(\sin x+1)\cdot\cos x$ בתחום: $0\le x\le 1.5\pi$.

א. מצא את נקודות החיתוך של גרף הפונקציה עם הצירים.

ב. מצא את נקודות הקיצון של גרף הפונקציה.

ג. שרטט סקיצה של גרף הפונקציה.

ד. כמה פתרונות יש למשוואה: $\cos x\cdot(\sin x+1)=1$ בתחום הנתון?

6) נתונה הפונקציה: $f(x)=\sin^2 x+\cos x-1$.

א. מצא את נקודות החיתוך עם הצירים ואת נקודות הקיצון של הפונקציה בתחום $[0,\pi]$.

ב. הוכח שהפונקציה זוגית.

ג. שרטט את הפונקציה בתחום $[-\pi,\pi]$.

7) נתונה הפונקציה: $f(x)=\tan 2x-8\sin 2x$ בתחום: $-0.25\pi<x<0.25\pi$.

א. מצא את נקודות החיתוך של גרף הפונקציה עם הצירים בתחום הנתון.

ב. כתוב את האסימפטוטות האנכיות של גרף הפונקציה.

ג. מצא את נקודות הקיצון של גרף הפונקציה בתחום הנתון.

ד. שרטט סקיצה של גרף הפונקציה בתחום הנתון.

חקור את הפונקציות הבאות חקירה מלאה:

8) $[0,2\pi]$, $f(x)=8\cos x+2\cos 2x-3$

9) $[0,\pi]$, $f(x)=2\cos^2 x-\sin 2x$

לפתרון מלא בסרטוני וידאו היכנסו לאתר www.GooL.co.il
כתב ופתר – גיא סלומון ©

תשובות סופיות

1) א. $0<x<2\pi$.

ב. $\max(2\pi,2\pi+2)$ קצה, $\min\left(\frac{5}{6}\pi,\frac{5}{6}\pi-\sqrt{3}\right)$, $\max\left(\frac{\pi}{6},\frac{\pi}{6}+\sqrt{3}\right)$, $\min(0,2)$ קצה.

ג. תחומי עלייה: $\frac{5\pi}{6}<x<2\pi$ או $0<x<\frac{\pi}{6}$, תחומי ירידה: $\frac{\pi}{6}<x<\frac{5}{6}\pi$.

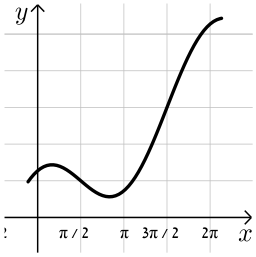

ד. $(0,2)$. ה. אין. ו. $\left(\frac{3\pi}{2},\frac{3\pi}{2}\right)$, $\left(\frac{\pi}{2},\frac{\pi}{2}\right)$.

ז. קעירות כלפי מעלה: $\frac{\pi}{2}<x<\frac{3}{2}\pi$,

קעירות כלפי מטה: $\frac{3\pi}{2}<x<2\pi$ או $0<x<\frac{\pi}{2}$.

2) א. $-\frac{\pi}{6}\le x\le\frac{2}{3}\pi$ וגם $x\ne\frac{\pi}{2}$

ב. $\min\left(\frac{2}{3}\pi,13.57\right)$ קצה, $\max\left(\frac{\pi}{6},0.36\right),\min\left(-\frac{\pi}{6},-0.36\right)$ קצה.

ג. תחומי עלייה: $-\frac{\pi}{6}\le x\le\frac{\pi}{6}$, תחומי ירידה: $\frac{\pi}{6}\le x\le\frac{2}{3}\pi$ וגם $x\ne\frac{\pi}{2}$.

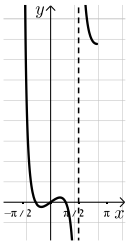

ד. $(0,0)$ ה. אנכית: $x=\frac{\pi}{2}$ ו. $(0,0)$

ז. קעירות כלפי מעלה: $\frac{\pi}{2}\le x\le\frac{2}{3}\pi$ או $-\frac{\pi}{6}\le x\le 0$,

קעירות כלפי מטה: $0<x<\frac{\pi}{2}$.

3) א. $0<x<\frac{\pi}{2}$; $\frac{\pi}{2}<x<\pi$ ב. $\min\left(\frac{\pi}{4},2\sqrt{2}\right)$.

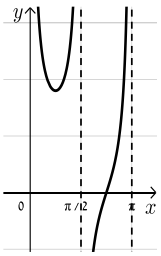

ג. תחומי עלייה: $\frac{\pi}{2}<x<\pi$, $\frac{\pi}{4}<x<\frac{\pi}{2}$ תחומי ירידה: $0<x<\frac{\pi}{4}$

ד. $\left(\frac{3}{4}\pi,0\right)$ ה. אנכית: $x=\pi$, $x=\frac{\pi}{2}$, $x=0$.

4) א. $(\pi,0),(0,-2)$.

ב. $\max\left(1\frac{2}{3}\pi,-2.25\right),\max(2\pi,-2),\max(0,-2),\min\left(\frac{\pi}{3},-2.25\right),\max(\pi,0)$

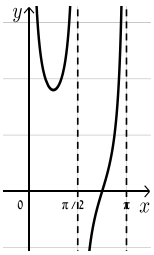

ג. עולה: $1\frac{2}{3}\pi<x<2\pi$, $\frac{\pi}{3}<x<\pi$, יורדת: $\pi<x<1\frac{2}{3}\pi$, $0<x<\frac{\pi}{3}$. גרף:

לפתרון מלא בסרטוני וידאו היכנסו לאתר www.GooL.co.il
כתב ופתר – גיא סלומון ©

5) א. $(0,1)$, $\left(\frac{\pi}{2},0\right)$, $\left(\frac{3\pi}{2},0\right)$

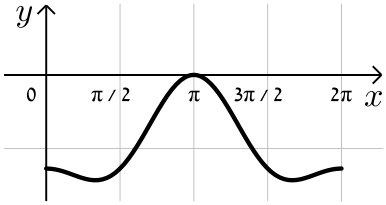

ב. $(0,1),\left(\frac{\pi}{6},1.29\right),\left(\frac{5}{6}\pi,-1.29\right),(1.5\pi,0)$

ד. 2 פתרונות.

6) א. חיתוך: $(0,0),\left(\frac{\pi}{2},0\right)$, קיצון: $\min(\pi,-2)$ קצה,

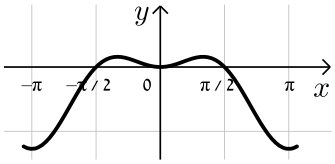

$\min(0,0),\max\left(\frac{\pi}{3},\frac{1}{4}\right)$ קצה.

7) א. $(0,0),(\pm 0.23\pi,0)$ ב. $x=\pm 0.25\pi$.

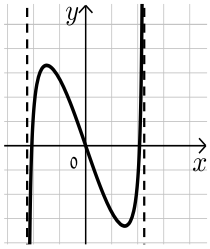

ג. $\max\left(-\frac{\pi}{6},\sqrt{27}\right)$, $\min\left(\frac{\pi}{6},-\sqrt{27}\right)$.

8) נקודות חיתוך עם ציר ה-y: 7, עם ציר ה-x: $x=7$, $x=\frac{5\pi}{3}$, $x=\frac{\pi}{3}$.

נקודות קיצון: מינימום: $(\pi,-9)$, מקסימום: $(0,7)$, $(2\pi,7)$.

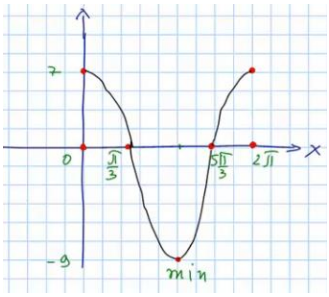

נקודות פיתול: $x=\frac{\pi}{3}$, $x=\frac{5\pi}{3}$.

תחום קמירות: $\frac{\pi}{3}<x<\frac{5\pi}{3}$,

קעירות: $0<x<\frac{\pi}{3}$ or $\frac{5\pi}{3}<x<2\pi$.

תחום עלייה: $x>3$, ירידה: $2<x<3$ or $x<2$.

9) נקודות חיתוך עם ציר ה-y: 2, עם ציר ה-x: $x=\frac{\pi}{2}$, $x=\frac{\pi}{4}$.

נקודות קיצון: מינימום: $\left(\frac{3\pi}{8},1-\sqrt{2}\right)$, מקסימום: $\left(\frac{7\pi}{8},1+\sqrt{2}\right)$.

תחום עלייה: $\frac{3\pi}{8}<x<\frac{7\pi}{8}$, ירידה: $\frac{7\pi}{8}<x<\pi$ or $0<x<\frac{3\pi}{8}$.

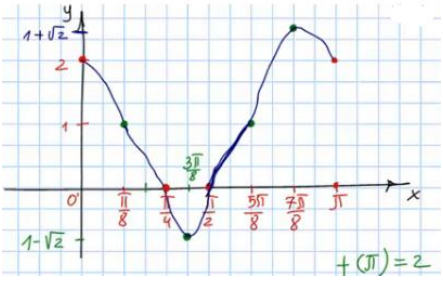

נקודות פיתול: $\left(\frac{\pi}{8},1\right)$, $\left(\frac{5\pi}{8},1\right)$.

תחום קמירות: $\frac{\pi}{8}<x<\frac{5\pi}{8}$,

קעירות: $0<x<\frac{\pi}{8}$ or $\frac{5\pi}{8}<x<\pi$.

לפתרון מלא בסרטוני וידאו היכנסו לאתר www.GooL.co.il
כתב ופתר – גיא סלומון ©

חקירת פונקציות טריגונומטריות הפוכות

חקור את הפונקציות הבאות חקירה מלאה:

1) $f\left(x\right)=x-2\arctan x$

2) $f\left(x\right)=\arcsin\left(\sin x\right)$

לפתרון מלא בסרטוני וידאו היכנסו לאתר www.GooL.co.il
כתב ופתר – גיא סלומון ©

תשובות סופיות

1) תחום הגדרה ורציפות: לכל x. זוגיות: אי-זוגית.
נקודות חיתוך עם ציר ה-y: 0.
אסימפטוטה אנכית: אין,
משופעת: הישר $y=x+\pi$ ב-$-\infty$, אופקית: אין.
נקודות קיצון: מקסימום: $(-1,0.575)$, מינימום: $(1,-0.575)$.
תחום עלייה: $x>1 \;\; or \;\; x<-1$, ירידה: $-1<x<1$.
נקודות פיתול: $(0,0)$.
תחום קמירות: $x>0$, קעירות: $x<0$.

2) תחום הגדרה ורציפות: לכל x. זוגיות: אי-זוגית.
מחזוריות: כן, ממחזור 2π.
נקודות חיתוך עם ציר ה-y: 0, עם ציר ה-x: $x=0,\ \pi,\ 2\pi$.
אסימפטוטה אנכית: אין,
משופעת: הישר $y=x+\pi$ ב-$-\infty$, אופקית: אין.
נקודות קיצון: מקסימום: $\left(\frac{\pi}{2},\frac{\pi}{2}\right)$, מינימום: $\left(\frac{3\pi}{2},\frac{-\pi}{2}\right)$.
תחום עלייה: $0\le x\le\frac{\pi}{2} \;\; or \;\; \frac{3\pi}{2}<x<2\pi$, ירידה: $\frac{\pi}{2}<x<\frac{3\pi}{2}$.
נקודות פיתול: אין.

גרפים

1)

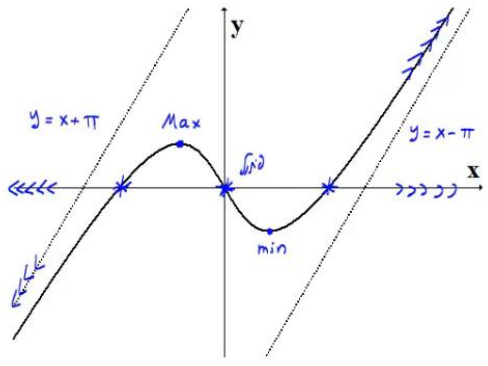

2)

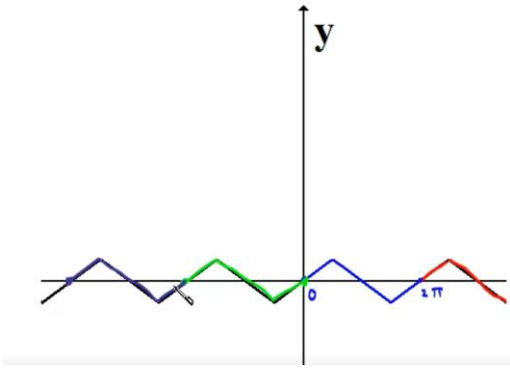

לפתרון מלא בסרטוני וידאו היכנסו לאתר www.GooL.co.il
כתב ופתר – גיא סלומון ©

חקירת פונקציה – שאלות כלליות

שאלות

1) נתונה הפונקציה $f(x)=ax^3+x^2$, וידוע שהנקודה $x=1$ נקודת קיצון.
מצאו את הקבוע a.

2) נתונה הפונקציה $f(x)=ax^3+bx^2$, וידוע שהנקודה $(1,2)$ נקודת קיצון.
מצאו את הקבועים a,b.

3) נתונה הפונקציה $f(x)=ax^3+x^2$, וידוע שהנקודה $x=1$ נקודת פיתול.
מצאו את הקבוע a.

4) נתונה הפונקציה $f(x)=ax^3+bx^2$, וידוע שהנקודה $(1,2)$ נקודת פיתול.
מצאו את הקבועים a,b.

5) נתונה הפונקציה $f(x)=ax^3+x^2$. שיפוע המשיק לגרף הפונקציה
בנקודה $x=3$ הוא 33.
מצאו את a.

6) נתונה הפונקציה $f(x)=ax^3+bx^2$.
שיפוע המשיק לגרף הפונקציה בנקודה $(3,9)$ הוא 12.
מצאו את a,b.

7) נתונה הפונקציה $f(x)=\dfrac{ax^3+x^2}{2x^3+x+6}$.
ידוע שהישר $y=4$ אסימפטוטה לגרף הפונקציה.
מצאו את a.

8) נתונה הפונקציה $f(x)=\dfrac{ax^2+bx+4}{x}$.
ידוע שהישר $y=0.5x+1$ אסימפטוטה לגרף הפונקציה.
מצאו את a ואת b.

לפתרון מלא בסרטוני וידאו היכנסו לאתר www.GooL.co.il
כתב ופתר – גיא סלומון ©

9) נתונה הפונקציה $f(x)=\frac{x^2+2x+4}{x^2+ax+6}$.
ידוע שהישר $x=1$ אסימפטוטה לגרף הפונקציה.
מצאו את a.

שאלות **10-17** מתייחסות לגרף הפונקציה $f(x)=x^3-3x$:

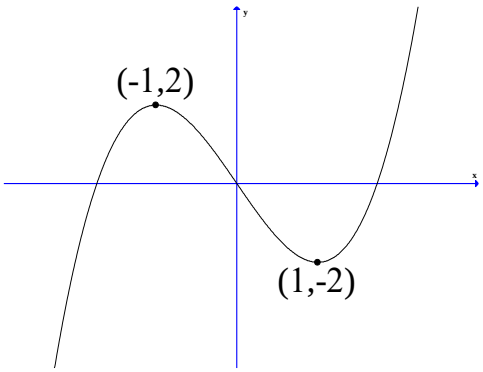

10) מהו מספר הפתרונות של המשוואה $f(x)=5$?

11) מהו מספר הפתרונות של המשוואה $f(x)=2$?

12) מהו מספר הפתרונות של המשוואה $f(x)=0.5$?

13) עבור איזה ערך של k, למשוואה $f(x)=k$ יש בדיוק פתרון אחד?

14) עבור איזה ערך של k, למשוואה $f(x)=k$ יש בדיוק שני פתרונות?

15) עבור איזה ערך של k, למשוואה $f(x)=k$ יש בדיוק שלושה פתרונות?

16) האם קיים ערך של k, עבורו למשוואה $f(x)=k$ אין פתרון?

17) מצאו את התחומים בהם הפונקציה חח"ע.

18) נתונה פונקציה $f(x)$ המקיימת $f'(2)=4$.
נגדיר פונקציה חדשה $z(x)=f\left(\frac{1}{x}\right)$.

א. חשבו $z'(0.5)$.

ב. נתון בנוסף כי f עולה. הוכיחו כי z יורדת.

לפתרון מלא בסרטוני וידאו היכנסו לאתר www.GooL.co.il
כתב ופתר – גיא סלומון ©

19) נתונה פונקציה $f(x)$ המקיימת $f(1)=2,\ f'(1)=e$.

נגדיר פונקציה חדשה $z(x)=f^2(\ln x)+\frac{1}{x}$.

א. האם z עולה או יורדת בנקודה $x=e$?

ב. נתון בנוסף כי f שלילית ועולה.

מה ניתן לומר על תחומי העלייה והירידה של z?

20) נתונה פונקציה $f(x)$ חיובית ויורדת.

נגדיר פונקציה חדשה $z(x)=\sqrt{f\left(x^2\right)+4}$.

מי מהבאים בהכרח נכון?

א. z עולה לכל x.

ב. z יורדת לכל x.

ג. z עולה לכל $x>0$.

ד. z יורדת לכל $x>0$.

21) נתונה פונקציה $f(x)$, המקיימת $f'(1)=e$.

נגדיר פונקציה חדשה: $g(x)=x^2+f(\ln x)$.

א. חשבו את $g'(e)$.

ב. הוכיחו שהפונקציה g עולה בנקודה $x=e$.

חשבו את הגבול $\lim\limits_{h\to 0}\frac{g(e+h)-g(e)}{h}$.

22) הפונקציה $f(x)$ היא אי-זוגית.

ידוע שנקודת החיתוך היחידה של $f(x)$ עם ציר ה-x היא ב-$x=0$.

נגדיר $g(x)=\left(f(x)\right)^2$. איזו מבין הטענות הבאות **בהכרח לא נכונה**:

א. אם f עולה בכל תחום הגדרתה אז ל-g יש נקודת מינימום.

ב. אם f יורדת בכל תחום הגדרתה אז ל-g יש נקודת מינימום.

ג. אם f עולה בכל תחום הגדרתה אז ל-g אין נקודת קיצון.

לפתרון מלא בסרטוני וידאו היכנסו לאתר www.GooL.co.il
כתב ופתר – גיא סלומון ©

23) הפונקציה $f(x)$ מוגדרת וגזירה פעמיים לכל x ומקיימת $f''(x)=a\cdot f(x)$, כאשר $a<0$.

איזו מבין הטענות הבאות **בהכרח לא נכונה**:

א. בתחום בו $f(x)$ שלילית, $f(x)$ קמורה (קעורה כלפי מעלה).

ב. אם $f(x)$ חיובית בתחום מסוים אז $f'(x)$ יורדת באותו התחום.

ג. אם בתחום מסוים $f(x)$ עולה וחותכת את ציר x בנקודה $(n,0)$, אז שיפוע המשיק לגרף הפונקציה בנקודה $x=n$ הוא המקסימלי באותו התחום.

ד. אם לפונקציה $f(x)$ יש נקודת פיתול אז $f(x)$ שלילית בכל תחום הגדרתה.

לפתרון מלא בסרטוני וידאו היכנסו לאתר www.GooL.co.il
כתב ופתר – גיא סלומון ©

תשובות סופיות

1) $a=-\frac{2}{3}$

2) $a=-4\ ,\ b=6$

3) $a=-\frac{1}{3}$

4) $a=-1\ ,\ b=3$

5) $a=1$

6) $a=\frac{2}{3}\ ,\ b=-1$

7) $a=8$

8) $a=\frac{1}{2}\ ,\ b=1$

9) $a=-7$

10) 1

11) 2

12) 3

13) $k<-2\ ,\ k>2$

14) $k=\pm 2$

15) $-2<k<2$

16) לא

17) $x<-1\ ,\ -1<x<1\ ,\ x>1$

18) א. $z'(0.5)=-16$ ב. שאלת הוכחה.

19) א. עולה. ב. יורדת.

20) ד

21) א. $2e+1$ ב. שאלת הוכחה. ג. $2e+1$

22) ג

23) ד

לפתרון מלא בסרטוני וידאו היכנסו לאתר www.GooL.co.il
כתב ופתר – גיא סלומון ©

הוכחת אי שוויונות בעזרת חקירת פונקציה

שאלות

הוכיחו את אי השוויונים הבאים לגבי התחום הרשום לידם:

1) $8x^3 \le 3x^4 + 6x^2$, $(-\infty < x < \infty)$

2) $x < 2\sin x$, $\left(0 < x < \frac{\pi}{3}\right)$

3) $\sqrt{x+1} < 1 + \frac{x}{2}$, $(x > 0)$

4) $\ln(x+1) \le x$, $(x \ge 0)$

5) נתון כי f רציפה לכל $x \ge 0$, $f'(x) > 0$ לכל $x > 0$, וכן $f(0) = 0$.
הוכיחו כי לכל $x > 0$ מתקיים $f(x) - \frac{1}{2}(f(x))^2 < \ln(1 + f(x))$.

לתשובות מלאות בסרטוני וידאו היכנסו לאתר www.GooL.co.il

לפתרון מלא בסרטוני וידאו היכנסו לאתר www.GooL.co.il
כתב ופתר – גיא סלומון ©