מכינה במתמטיקה ברמת 5 יחידות

פרק 5 - חקירת משוואה ממעלה שנייה

תוכן העניינים

1. פתרון משוואות ממעלה שנייה עם פרמטר 1
2. חקירה של משוואה ממעלה שנייה 2
3. חקירות עם קדקוד פרבולה 11

פתרון משוואות ממעלה שנייה עם פרמטר:

סיכום כללי:

משוואות מהצורה: $ax^2+bx+c=0$ המכילות פרמטר כלשהו, m, המגולם בתוך הביטויים של המקדמים a , b ו-c נקראות משוואות עם פרמטר.

פתרון של משוואה עם פרמטר יתבצע באופן רגיל, אך יכול להכיל את הפרמטר.

שאלות:

1) פתור את המשוואה: $x^2+mx-12m^2=0$.

2) פתור את המשוואה: $2x^2+5m^2=(11m+1)x-5m$.

תשובות סופיות:

1) $x_1=3m$, $x_2=-4m$.

2) $x_1=5m$, $x_2=\frac{m+1}{2}$.

חקירה של משוואה ממעלה שנייה:

סיכום כללי:

המשוואה הריבועית:

תהא המשוואה הריבועית: $ax^2+bx+c=0$ כאשר $a\neq 0$.
נגדיר: $\Delta=b^2-4ac$ ונאמר כי:

- למשוואה יהיו שני פתרונות ממשיים שונים אם: $\Delta>0$.
- למשוואה יהיה פתרון ממשי אחד אם: $\Delta=0$.
- למשוואה לא יהיו שני פתרונות ממשיים כלל אם: $\Delta<0$.

אם $a=0$ תתקבל משוואה ליניארית מהצורה: $bx+c=0$.

- למשוואה זו יהיה פתרון ממשי אחד אם $b\neq 0$.
- למשוואה לא יהיו פתרונות כלל אם: $b=0$ ו-$c\neq 0$.

אם $b=0$ וגם $c=0$ למשוואה יהיו אינסוף פתרונות ממשיים.

הפונקציה הריבועית:

תהא הפונקציה הריבועית: $y=ax^2+bx+c$ כאשר $a\neq 0$.
נגדיר: $\Delta=b^2-4ac$ ונאמר כי לפונקציה נקודות חיתוך עם ציר ה-x באופן הבא:

- אם $a>0$ תתקבל פרבולה ישרה (מחייכת):
  - עבור $\Delta>0$ הפרבולה תחתוך את ציר ה-x בשתי נקודות שונות.
  - עבור $\Delta=0$ הפרבולה תשיק לציר ה-x (חיתוך בנקודה אחת).
  - עבור $\Delta<0$ הפרבולה תהיה מרחפת (ללא חיתוך עם ציר ה-x כלל).
- אם $a>0$ תתקבל פרבולה הפוכה (עצובה):
  - עבור $\Delta>0$ הפרבולה תחתוך את ציר ה-x בשתי נקודות שונות.
  - עבור $\Delta=0$ הפרבולה תשיק לציר ה-x (חיתוך בנקודה אחת).
  - עבור $\Delta<0$ הפרבולה תהיה מרחפת (ללא חיתוך עם ציר ה-x כלל).

- אם $a=0$ תתקבל פונקציה ליניארית: $y=bx+c$ ולה:
  - עבור $b>0$ יתקבל ישר עולה החותך את ציר ה-x ב-$\left(-\frac{c}{b},0\right)$.
  - עבור $b<0$ יתקבל יורד עולה החותך את ציר ה-x ב-$\left(-\frac{c}{b},0\right)$.
- אם $b=0$ יתקבל ישר $y=c$ וכעת:
  - אם $c>0$ הישר כולו מעל לציר ה-x ומקביל לו.
  - אם $c<0$ הישר כולו מתחת לציר ה-x ומקביל לו.
  - אם $c=0$ הישר מתלכד עם ציר ה-x.

ניתן לסכם את כל המקרים באופן הבא:

פירוט מילולי	תנאים	$\Delta>0$	$\Delta=0$	$\Delta<0$
תיאור גרפי של $y=ax^2+bx+c$ עבור $a\neq 0$	$a>0$	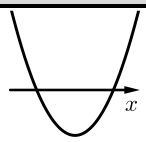	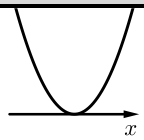	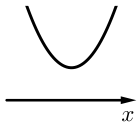
	$a<0$	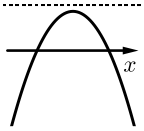	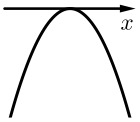	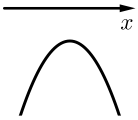
		$b>0$	$b<0$	
תיאור גרפי של $y=bx+c$ כאשר $a=0$ ו- $b\neq 0$	$a=0$ $b\neq 0$	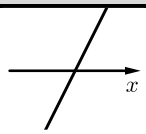	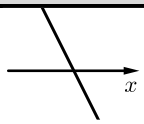	
		$c>0$	$c<0$	$c=0$
תיאור גרפי של $y=c$ כאשר $a=0$ ו- $b=0$	$a=0$ $b=0$			

שאלות:

1) נתונה המשוואה: $(3-m)x^2+4mx-2m=0$, $(m\neq 3)$.

מצא לאלו ערכי m למשוואה:

א. שני פתרונות ממשיים שונים.

ב. פתרון ממשי אחד.

ג. אין פתרונות ממשיים כלל.

2) נתונה הפונקציה: $y=2mx^2+mx-1$.

מצא לאלו ערכי m הפונקציה אינה חותכת את ציר ה-x.

3) נתונה הפונקציה: $y=(m^2-9)x^2+(m+3)x+4$, $(m\neq \pm 3)$.

מצא לאלו ערכי m הפונקציה נמצאת מעל ציר ה-x לכל ערך של x.

4) נתון אי השוויון: $mx^2>(m+4)(x-1)-x^2$.

מצא לאלו ערכי m אי השוויון מתקיים לכל ערך של x.

5) נתונה המשוואה הבאה: $-m(x-1)^2+2(m+16)=x(6-x(2m-3))+1$.

א. מצא עבור אלו ערכי m יש למשוואה:

i. שני פתרונות ממשיים שונים.

ii. פתרון ממשי אחד.

iii. אף פתרון ממשי.

ב. מצא את הפתרון היחיד עבור ערכי ה-m המתאימים במידה והוא קיים.

6) נתונה המשוואה הבאה: $m^2x(9x+1)+1=0$.

א. מצא עבור אלו ערכי m יש למשוואה:

i. שני פתרונות ממשיים שונים.

ii. פתרון ממשי אחד.

iii. אף פתרון ממשי.

ב. מצא את הפתרון היחיד עבור ערכי ה-m המתאימים במידה והוא קיים.

7) נתונה המשוואה: $mx^2-(9m+4)x+20m+16=0$.

א. הראה שעבור כל ערך של m יש למשוואה לפחות פתרון ממשי אחד.

ב. פתור את משוואה והראה כי אחד השורשים הוא מספר קבוע שאינו תלוי ב-m.

8) לפניך הפונקציה הבאה: $f(x)=(m^2-m-2)x^2+2(m-2)x+4$.

ענה על השאלות הבאות:

א. עבור אלו ערכי m גרף הפונקציה חותך את ציר ה-x בשתי נקודות שונות?

ב. עבור אלו ערכי m גרף הפונקציה חותך את ציר ה-x בנקודת אחת בלבד?

ג. עבור אלו ערכי m גרף הפונקציה לא חותך את ציר ה-x כלל?

ד. עבור אלו ערכי m גרף הפונקציה חיובי לכל ערך של x?

ה. עבור אלו ערכי m גרף הפונקציה שלילי לכל ערך של x?

9) נתונה הפונקציה: $f(x)=kx^2-5kx+6k+1$.

א. עבור אלו ערכי k גרף הפונקציה יהיה כולו מעל לציר ה-x?

ב. עבור איזה ערך של k יתקבל גרף פרבולה הנוגעת בציר ה-x?

10) עבור אלו ערכי m גרף הפונקציה: $f(x)=(k^2-5k-6)x^2+(2-3k)x+2$

הוא אי-שלילי לכל ערך של x?

11) נתונות הפונקציות: $f(x)=x^2+4x+2m+2$ ו-$g(x)=(1-m)x^2-3mx-1.5$.

א. מצא עבור אלו ערכי m נחתכים הגרפים של הפונקציות:

i. בשתי נקודות שונות.

ii. בנקודה אחת בלבד.

iii. באף נקודה.

ב. מצא לאלו ערכי m יהיה גרף הפונקציה $f(x)$ כולו מתחת לגרף הפונקציה $g(x)$.

12) נתונה הפונקציה: $f(x)=2kx^2+6kx+8k+2$.

א. עבור איזה ערך של k גרף הפונקציה יהיה ישר העובר ברביעים הראשון והשני בלבד?

מגדירים פונקציה נוספת: $g(x)=kx^2-6x-10$.

ב. האם קיימים ערכי k עבורם גרף הפונקציה $f(x)$ הוא מעל גרף הפונקציה $g(x)$ לכל x? הראה חישוב מתאים.

ג. הוכח כי קיים ערך של k עבורו גרפים של שתי הפונקציות משיקים זה לזה ומצא אותו.

13) נתונה הפונקציה הריבועית: $f(x)=2x^2-(5m+7)x+3m^2+8m+5$.

א. הראה כי גרף הפונקציה חותך את ציר ה-x לפחות פעם אחת לכל ערך של m.

ב. מצא את שורשי הפונקציה.

ג. עבור אלו ערכי m סכום השורשים גדול מ-3.5.

ד. מהם שורשי הפונקציה כאשר: $m=0$?

14) נתונה המשוואה הבאה: $(k+1)x^2+(k^2-4k-5)x-54=0$.

א. ענה על שני החלקים הבאים:

i. עבור אלו ערכי k יהיו פתרונות המשוואה שני מספרים נגדיים?

ii. מהם פתרונות המשוואה עבור ערכי ה-k שמצאת?

ב. הראה כי לא קיים ערך של k עבורו פתרונות המשוואה:
$(k-4)x^2+(6k-k^2-8)x+5k-10=0$ הם מספרים נגדיים.

15) נתונה הפונקציה הבאה: $f(x)=mx^2+(m-2)x+m^2+3m-10$.

א. מצא עבור אלו ערכי m גרף הפונקציה עובר בראשית הצירים.

ב. מצא את נקודות החיתוך שבין הגרפים המתקבלים עבור כל ערכי ה-m שמצאת בסעיף א'.

16) מצא עבור אלו ערכי m למשוואה: $(4-m)x^2+(m+2)x+m^2-12m-28=0$
יהיו שני פתרונות ממשיים שונים שאחד מהם הוא אפס.

17) נתונה משפחת הפרבולות הבאה: $f(x)=2x^2+(m+1)x+m^2+2m-2.5$.

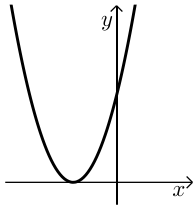

א. מצא ערך של m עבורו גרף הפרבולה השייכת למשפחת הפונקציות הנ"ל היא מהצורה:

ב. עבור ערך ה-m שמצאת בסעיף הקודם מצא את התחום של k עבורו יהיה לגרף הפרבולה ולישר $y=kx-4$ שתי נקודות חיתוך.

18) נתונה הפונקציה הבאה: $f(x)=(m^2-5m+4)x^2+(2m-2)x+1$.

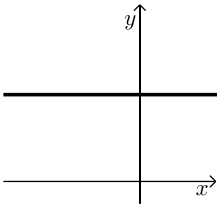

א. עבור אלו ערכים של m הפונקציה תחתוך את ציר ה-x בשתי נקודות שונות?

ב. מצא ערך של m עבורו גרף הפונקציה השייך למשפחת הפונקציות הנ"ל יהיה מהצורה שבצד, וכתוב את משוואת הישר המתקבלת במקרה זה.

ג. הגרף שאת משוואתו מצאת בסעיף הקודם חותך את גרף הפונקציה $f(x)$ בשתי נקודות שונות. הראה כי אחת מהן אינה תלויה ב-m.

ד. עבור אלו ערכי m נקודת החיתוך שתלויה ב-m תהיה מימין לנקודת החיתוך שמצאת בסעיף הקודם?

19) נתונה הפונקציה: $f(x)=\frac{4x(mx+2)+4-m}{4}$, m פרמטר חיובי.

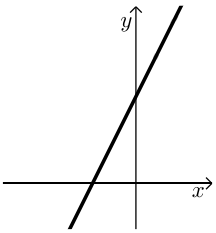

א. הראה כי לכל הגרפים המייצגים את משפחת הפונקציות הנ"ל יש נקודת חיתוך עם ציר ה-x שאינה תלויה ב-m ומצא את נקודה זו.

ב. עבור איזה ערך של m גרף הפונקציה יהיה מיוצג ע"י ישר מהצורה:

ג. הראה כי קיים תחום של x אשר לא תלוי ב-m ובו גרף הפונקציה נמצא תמיד מתחת לישר שמצאת בסעיף הקודם ומצא את תחום זה.

20) נתונה הפונקציה: $f(x)=3m^2x^2+4mx+2$.

א. הוכח כי הפונקציה נמצאת תמיד מעל לציר ה-x עבור כל ערך של m.

ב. מגדירים פונקציה חדשה באופן הבא: $y=\frac{mx^2+2x(m+2)+m}{3m^2x^2+4mx+2}$.

מצא עבור אלו ערכי m הפונקציה y היא שלילית.

21) נתונה הפונקציה: $f(x)=mx^2+(2m+1)x-\frac{1}{4}$.

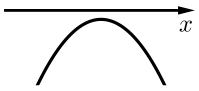

א. עבור אלו ערכי m גרף הפונקציה השייך למשפחת הפונקציות הנ"ל יהיה מהצורה:

ב. מגדירים פונקציה חדשה באופן הבא: $y=\frac{(m^2-9)x^2+(m+3)x-1}{mx^2+(2m+1)x-\frac{1}{4}}$.

הראה כי הפונקציה y חיובית בתחום שמצאת בסעיף הקודם.

ג. דרך נקודת החיתוך של גרף הפונקציה y עם ציר ה- y מעבירים ישר המקביל לציר ה- x.

i. כתוב את משוואת ישר זה.

ii. מצא עבור אלו ערכים של m גרף הפונקציה חותך את הישר בנקודה שבה: $x=-9$.

תשובות סופיות:

1) א. $m>0$ או $m<-3$ וגם $m\neq 3$ ב. $m=0\ ,\ -3$ ג. $-3<m<0$.

2) $-8<m\leq 0$.

3) $m>3\frac{2}{5}$ או $m<-3$.

4) $m>0$.

5) א. i. $m>3$ ii. אף m iii. $m<3$.
ב. לא קיים מקרה בו יש למשוואה פתרון יחיד.

6) א. i. $m<-6\ ,\ m>6$ ii. $m=\pm 6$ iii. $m\neq 0\ ,\ -6<m<6$
ב. בשני המקרים יתקבל: $x=-\frac{1}{18}$.

7) א. מתקבל: $\Delta=(m+4)^2$ שתמיד אי-שלילי ובמקרה הלא-ריבועי מתקבלת משוואה עם פתרון אחד. ב. $\frac{5m+4}{m}$, $m_{1,2}=4$.

8) א. $-2<m<2\ ,\ m\neq -1$ ב. $m=-1,-2$ ג. $m<-2\ ,\ m\geq 2$
ד. $-2<m<-1\ ,\ m=2$. ה. אף m.

9) א. $0\leq k<4$ ב. $k=4$.

10) $-26\leq k\leq -2$.

11) א. i. $m<-8\ ,\ m>-2\ ,\ m\neq 0$ ii. $m=0,-2,-8$ iii. $-8<m<-2$.
ב. $-8<m<-2$.

12) א. $k=0$ ב. לא. אין פתרון לאי-שוויון: $f(x)>g(x)$.
ג. עבור אי-השוויון של סעיף ב' מתקבל: $\Delta=4(k+3)^2$ ולכן כאשר $k=-3$ הגרפים נוגעים זה בזה בנקודה אחת.

13) א. הוכחה. ב. $x_{1,2}=m+1\ ,\ 1.5m+2.5$
ג. $m>0$ ד. $x_{1,2}=1\ ,\ 2.5$.

14) א. i. $k=5$ ii. $x=\pm 3$ ב. הוכחה.

15) א. $m=2,-5$ ב. $(-1,2)\ ,\ (0,0)$.

16) $m=14$.

17) א. $m=1$. כאשר: $m=-3$ נקבל גרף: $y=2x^2-2x+0.5$ המשיק לציר x מימין לראשית ולכן נפסל. ב. $k<-4\ ,\ k>8$.

18) א. $m>1\ ,\ m\neq 4$ ב. $f(x)=1\ ,\ m=1$ ג. הנקודה היא: $(0,1)$
ד. $m\neq 1\ ,\ m<4$.

19) א. הנקודה היא: $(-0.5,0)$ ב. $m=0$ ג. $-0.5<x<0.5$.

20) א. מתקבל: $\Delta = -8m^2$ ולכן לגרף הפרבולה אין חיתוכים כלל ומכיוון ש-A אי-שלילי הרי שמדובר בפרבולה מרחפת חיובית. במקרה הישר מתקבל ישר המקביל לציר ה-x שגם כן כולו חיובי.

ב. מאחר והמכנה תמיד חיובי (ממקודם) יש לדרוש תנאים שיקיימו מונה שלילי ($\Delta < 0$, $a < 0$ - עבור המונה) נקבל: $m < -1$.

21) א. $-1 < m < -\frac{1}{4}$ ב. הוכחה. ג. i. $y = 4$

ii. $-1\frac{7}{9}$, $m = 5$.

חקירות עם קדקוד פרבולה:

סיכום כללי:

תהא הפונקציה הריבועית: $y=ax^2+bx+c$ כאשר $a\neq 0$. נגדיר: $\Delta=b^2-4ac$.

התיאור הגרפי של הפונקציה הריבועית הוא פרבולה.

עבור $a\neq 0$ נקבל כי קדקוד הפרבולה הוא: $\left(-\frac{b}{2a},-\frac{\Delta}{4a}\right)$.

- שאלות העוסקות בקדקוד חיובי/שלילי נדרוש: $-\frac{\Delta}{4a}>0$ או $-\frac{\Delta}{4a}<0$ בהתאמה.
- שאלות העוסקות בקדקוד הנמצא מימין/משמאל לציר ה- y נדרוש $-\frac{b}{2a}>0$ או $-\frac{b}{2a}<0$ בהתאמה.
- שאלות העוסקות בקדקוד שנמצא מעל/מתחת לישר $y=n$ או מימין/משמאל לישר $x=k$ נדרוש $-\frac{\Delta}{4a}\gtrless n$ ו- $-\frac{b}{2a}\gtrless k$ בהתאמה.
- שאלות העוסקות בקדקוד שבאחד הרביעים נדרוש $-\frac{b}{2a}\gtrless 0$ ו- $-\frac{\Delta}{4a}\gtrless 0$ לפי הרביע המבוקש.

שאלות:

1) נתונה הפונקציה: $f(x)=(m+3)x^2+(3m+14)x+2m+7$.

א. עבור אלו ערכי m גרף הפונקציה הוא פרבולה החותכת את ציר ה- x בשתי נקודות?

ב. הבע באמצעות m את שיעורי קדקוד הפרבולה של גרף הפונקציה הנתונה.

ג. עבור אלו ערכי m קדקוד הפרבולה יהיה וודאי מתחת לישר: $y=-4$?

ד. עבור אלו ערכי m מתקיימים התנאים של סעיף א' ו-ג' יחד?

2) נתונה הפרבולה הבאה: $f(x)=x^2-3(m-2)x+2m^2-8m+7$.

א. הוכח את הטענות הבאות:

i. גרף הפרבולה חותך את ציר ה-x בשתי נקודות עבור כל ערך של m.

ii. קדקודי כל הפרבולות המיוצגות ע"י תבנית הפונקציה הנתונה נמצאים מתחת לציר ה-x.

ב. עבור איזה ערך של m גרף הפרבולה יחתוך את ציר ה-x בשתי נקודות הנמצאות באותו מרחק מראשית הצירים?

ג. עבור ערך ה-m שמצאת בסעיף הקודם מצא את נקודות החיתוך על ציר ה-x.

ד. הראה כי קדקוד הפרבולה המתקבלת בעת הצבת ערך ה-m הנ"ל נמצא על ציר ה-y.

3) נתונה הפונקציה: $f(x)=(m^2-2m-3)x^2+8x+0.5$.

א. עבור אלו ערכי m גרף הפונקציה הוא פרבולה?

ב. עבור אלו ערכי m גרף הפונקציה הוא פרבולה החותכת את ציר ה-x בשתי נקודות?

ג. הבע באמצעות m את שיעורי קדקוד הפרבולה.

ד. הוכח כי קדקודי כל הפרבולות נמצאים על הישר: $2y=8x+1$ עבור כל ערך של m עבורו מתקבלת פרבולה.

4) נתונה הפונקציה: $f(x)=(k^2-2k+15)x^2+kx+12$.

א. הוכח כי עבור כל ערך של k גרף הפונקציה לא נוגע בציר ה-x כלל.

ב. הוכח כי קדקוד הפרבולה המיוצגת ע"י התבנית הנ"ל תמיד מעל לציר ה-x.

ג. עבור איזה ערך של k קדקוד הפרבולה יהיה על ציר ה-y?

ד. מצא את שיעורי קדקוד הפרבולה במקרה זה.

5) נתונה הפונקציה הבאה: $f(x)=(k^2-9)x^2+(k+3)x-1$.

א. עבור אלו ערכי k גרף הפונקציה אינו חותך את ציר ה-x?

ב. הבע באמצעות k את שיעורי קדקוד הפרבולה המיוצגת ע"י התבנית של $f(x)$.

ג. מצא עבור אלו ערכי k קדקוד הפרבולה יהיה ברביע הראשון.

ד. האם קיים ערך של k עבורו קדקוד הפרבולה נמצא על ציר ה-y? נמק את תשובתך.

6) נתונה הפונקציה: $f(x)=(m^2-4)x^2+5mx+6$.

א. הראה כי הפונקציה חותכת את ציר ה-x לפחות פעם אחת עבור כל ערך של m.

ב. עבור אלו ערכי m גרף הפונקציה הוא פרבולת מינימום?

ג. הראה כי קדקוד הפרבולה המתקבל עבור ערכי ה-m שמצאת בסעיף הקודם נמצא תמיד מתחת לציר ה-x.

7) נתונה הפונקציה: $f(x)=(m^2-8m+12)x^2+(m-2)x+2$.

א. עבור אלו ערכי m גרף הפונקציה יהיה כולו מעל לציר ה-x?

ב. עבור אלו ערכי m גרף הפונקציה הוא פרבולה מרחפת חיובית שקדקודה משמאל לישר: $x=-\frac{1}{2}$.

ג. האם ייתכן כי גרף הפונקציה יכול להיות פרבולת מקסימום שקדקודה הוא משמאל לישר: $x=-\frac{1}{2}$? נמק והראה חישוב מתאים.

8) נתונות הפונקציות הבאות: $f(x)=(m^2-4)x^2+2x+1$, $g(x)=(m+2)x^2+(5-m)x+3$.

א. ענה על השאלות הבאות:

i. מצא ערך של m עבורו הגרפים משיקים זה לזה.

ii. מצא ערך של m עבורו הגרפים חותכים זה את זה בנקודה אחת בלבד.

iii. הסבר מדוע בכל מקרה התקבל ערך m שונה.

ב. עבור אלו ערכי m הגרפים של הפונקציות הם פרבולות מינימום המקיימות שקדקוד הפרבולה המיוצגת ע"י הפונקציה $f(x)$ נמצא מימין לקדקוד הפרבולה המיוצגת ע"י $g(x)$?

9) נתונות הפונקציות הבאות: $f(x)=(m^2-9)x^2+7x+5$, $g(x)=(m-3)x^2+(4m-3)x+1$.

א. עבור אלו ערכי m הגרפים נחתכים בשתי נקודות שונות?

ב. ענה על השאלות הבאות:

i. עבור איזה ערך של m הגרפים הם פרבולות נוגעות זו בזו?

ii. עבור איזה ערך של m הגרפים חותכים זה את זה בנקודה אחת בלבד.

iii. הסבר את ההבדל בין הערכים של m שהתקבלו בחלק i ובחלק ii.

ג. מצא את נקודת החיתוך של שני הגרפים.

ד. עבור אלו ערכי m הסכום של שיעורי ה-x של נקודות קדקודי הפרבולות של שתי הפונקציות יהיה קטן מ-1?

תשובות סופיות:

1) א. $m \neq -3$, $m > -4$, $m < -28$ ב. $\left(\frac{-3m-14}{2m+6}, \frac{-m^2-32m-112}{4m+12}\right)$.

ג. $m > -3$ ד. $m > -3$.

2) א. i. מתקבל: $\Delta = m^2 - 4m + 8$ שחיובי תמיד.

ii שיעור ה- y של הקדקוד הוא: $-\frac{\Delta}{4}$ אשר שלילי תמיד. ב. $m = 2$

ג. $(\pm 1, 0)$ ד. הקדקוד: $(0, -1)$.

3) א. $m \neq 3, -1$ ב. $-5 < m < 7$, $m \neq 3, -1$ ג. $\left(\frac{-4}{m^2-2m-3}, \frac{m^2-2m-35}{2(m^2-2m-3)}\right)$.

ד. יש להציב את הקדקוד בישר ולקבל שוויון אמת.

4) א. המקדם a תמיד חיובי ומתקבל: $\Delta = -47k^2 + 96k - 720$ שתמיד שלילי.

מכאן שמדובר בפרבולה מרחפת עבור כל k. ג. $k = 0$ ד. $(0, 12)$

5) א. $-3 \leq k < 1.8$ ב. $\left(\frac{1}{2(3-k)}, \frac{9-5k}{4(k-3)}\right)$ ג. $1.8 < k < 3$.

ד. לא. מכיוון שלא קיים ערך של k עבורו שיעור ה- x של קדקוד הפרבולה יהיה אפס.

6) א. מתקבל: $\Delta = m^2 + 96$ המעיד כי תמיד יש לפונקציה שני חיתוכים וכאשר $m = \pm 2$

מתקבלים שני ישרים החותכים את ציר ה- x. ב. $m < -2$, $m > 2$.

7) א. $m \leq 2$, $m > 6\frac{4}{7}$. ב. $6\frac{4}{7} < m < 7$. ג. לא.

8) א. i. $m = -1\frac{4}{9}$ ii. $m = -2$ iii. במקרה i מדובר בפרבולות אשר

יכולות להשיק ובמקרה ii מדובר בשני ישרים אשר רק נחתכים. ב. $3 < m < 4$.

9) א. $m \neq 3, -2$, $m < 3\frac{1}{16}$ ב. i. $m = 3\frac{1}{16}$ ii. $m = 3, -2$

iii. במקרה i מדובר במשוואה ריבועית ובנקודת השקה, ובמקרה ii מדובר

במשוואה ליניארית ובנקודת חיתוך.

ג. עבור $m = -2$ מתקבלת: $\left(-\frac{2}{9}, 3\frac{16}{81}\right)$, עבור: $m = 3$ מתקבלת: $(2, 19)$.

ד. $m > 3$, $-2.72 < m < 1.22$, $m < -3$.