אלגברה ליניארית

פרק 10 - וקטורים גיאומטרים

תוכן העניינים

1. וקטורים 1
2. מכפלה וקטורית ומכפלה מעורבת 8
3. שימושי מכפלה וקטורית לגיאומטריה אנליטית במרחב 10

וקטורים

הערת סימון: נסמן את הווקטור u כך $\underline{u}$. סימונים מקובלים נוספים הם: $\mathbf{u}, \vec{u}$.
את גודל הווקטור $\underline{u}$ נסמן כך $|\underline{u}|$. סימון מקובל נוסף הוא $\|\underline{u}\|$.
גודל וקטור נקרא גם אורך הווקטור וגם הנורמה של הווקטור.

שאלות

1) רשמו את נוסחת כל אחד מהווקטורים $\vec{P},\vec{Q},\vec{R},\vec{S}$ שבאיור.
הניחו שאורך ורוחב כל משבצת באיור הוא יחידה אחת.

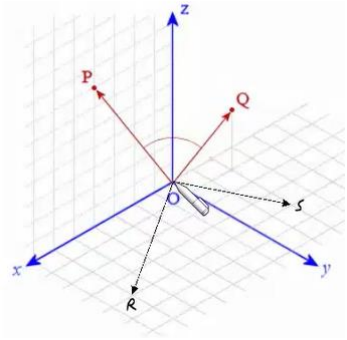

2) בשרטוט הבא נתונה מקבילית,
ששיעורי שלושה מקדקודיה נתונים.
מצאו את שיעורי הקדקוד D.
רמז: היעזר בנוסחת אמצע קטע.

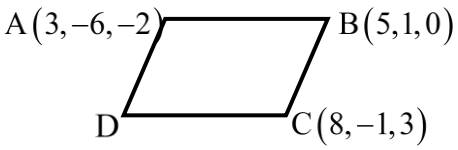

3) נתונה תיבה שמידותיה מצוינות במערכת הצירים.
מצאו מהו הווקטור $\underline{u}$ על פי השרטוט.

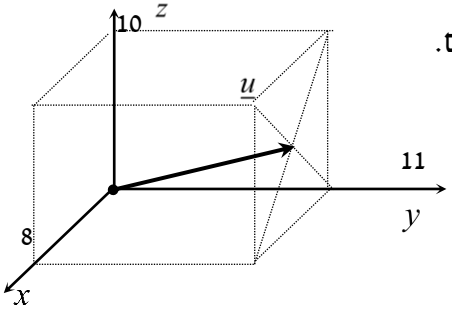

4) בשרטוט הבא נתון משולש ששיעורי קדקודיו נתונים.
מצאו את שיעורי מפגש התיכונים במשולש.

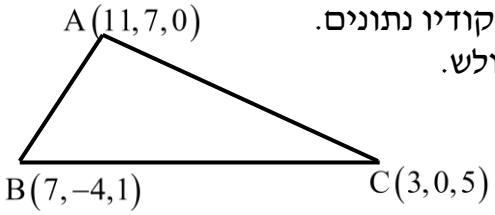

לפתרון מלא בסרטוני וידאו היכנסו לאתר www.GooL.co.il
כתב ופתר – גיא סלומון ©

5) ענו על הסעיפים הבאים (אין קשר בין הסעיפים):

א. מצאו את הווקטור $\overrightarrow{EF}$, אם נתונות הנקודות $E(2,0,-3)$ ו-$F(7,-1,-3)$.

ב. מצאו את שיעורי הנקודה N, אם נתונה הנקודה $M(0,-4,1)$ והווקטור $\overrightarrow{MN}=(-1,-1,9)$.

6) נתונה תיבה שמידותיה מצוינות במערכת הצירים שלפניך.
מצאו מהו הווקטור $\underline{u}$ ומהו הווקטור $\underline{v}$.

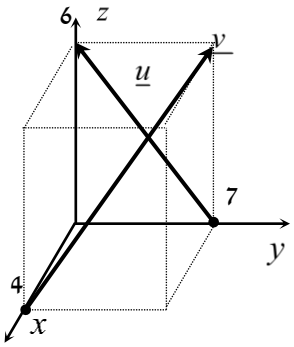

7) מצאו את x, y ו-z, אם נתון ש-$\underline{u}=\underline{v}$, כאשר $\underline{u}=(4,-1,2)$,
$\underline{v}=(z-2,y+1,x-3)$.

8) נתונות הנקודות הבאות:
$A(1,0,2)$, $B(3,7,-4)$, $C(6,9,0)$, $D(7,4,10)$, $E(9,11,4)$.

א. הראו כי: $\overrightarrow{AB}=\overrightarrow{DE}$.

ב. האם ניתן לומר כי גם $\overrightarrow{AD}=\overrightarrow{BC}$? נמק.

9) בשרטוט נתונה מקבילית,
ששיעורי שלושה מקדקודיה נתונים.
מצאו את שיעורי הקדקוד D.
* אין להיעזר בפתרון בנוסחת אמצע קטע.

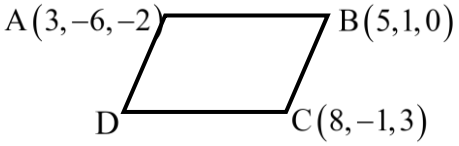

לפתרון מלא בסרטוני וידאו היכנסו לאתר www.GooL.co.il
כתב ופתר – גיא סלומון ©

בשאלות **10-16** נתונים הווקטורים: $\underline{u}=(-3,1,4)$, $\underline{v}=(4,-2,-6)$, $\underline{w}=(2,6,-5)$.

* בשאלות **13**, **14**, **16** הסבירו את משמעות התוצאות מבחינה גיאומטרית.

10) חשבו:

א. $2\underline{u}$ ב. $-0.5\underline{v}$ ג. $3\underline{u}-2\underline{v}$

11) חשבו:

א. $0.25\underline{v}-0.5\underline{u}$ ב. $\underline{v}-0.5\underline{u}+2\underline{w}$

12) $2\underline{v}-\underline{u}+4\underline{w}$

13) $\underline{u}/|\underline{u}|$

14) $\mathrm{d}(\underline{u},\underline{v})$

15) $\underline{v}\cdot\underline{u}+2\underline{w}\cdot\underline{v}$

16) $\mathrm{proj}(\underline{u},\underline{v})$

בשאלות **17-19** נתונות הנקודות: $A(1,-3,0)$, $B(4,2,-1)$, $C(3,-1,2)$,
ויש למצוא את הווקטורים:

17) $\overrightarrow{AC}+\overrightarrow{AB}$

18) $2\overrightarrow{AC}-4\overrightarrow{AB}$

19) $2\overrightarrow{AC}+\overrightarrow{AB}-\overrightarrow{BC}$

20) נתונים ארבעת קדקודי המרובע ABCD:
$A(-4,2,1)$, $B(0,2,-1)$, $C(-3,-5,0)$, $D(-7,-5,2)$.
הוכיחו כי המרובע הוא מקבילית.

לפתרון מלא בסרטוני וידאו היכנסו לאתר www.GooL.co.il
כתב ופתר – גיא סלומון ©

21) נתונים ארבעת קדקודי המרובע ABCD:
$A(1,2,0)$, $B(-2,5,3)$, $C(-1,8,4)$, $D(4,3,-1)$.

א. הוכיחו כי המרובע הוא טרפז.

ב. האם הטרפז שווה שוקיים?

22) חשבו את הזווית שבין הווקטורים $\underline{u}$ ו-$\underline{v}$, כאשר:

א. $\underline{u}=(-2,2,5)$, $\underline{v}=(4,0,1)$

ב. $\underline{u}=(6,-3,1)$, $\underline{v}=(2,5,3)$

ג. $\underline{u}=(-2,1,3)$, $\underline{v}=(4,-2,-6)$

23) מצאו את שטחו של משולש ABC, שקדקודיו הם:
$A(-3,2,1)$, $B(0,3,2)$, $C(5,-1,0)$.

24) נתונים הווקטורים: $\underline{v}=(5,0,3)$, $\underline{u}=(2,-1,0)$.
מצאו וקטור $\underline{w}$, שמכפלתו ב-$\underline{u}$ היא 0 ומכפלתו ב-$\underline{v}$ היא 0,
אם ידוע שגודלו הוא $\sqrt{70}$.

25) מצאו וקטור שמאונך לשני הווקטורים $(3,2,1)$ ו-$(1,-1,2)$,
ושמרחקו מהווקטור $(1,1,0)$ הוא $\sqrt{3}$.

26) ענו על שני הסעיפים הבאים:

א. הוכיחו כי $u\perp v \Leftrightarrow |u+v|=|u-v|$.

הסבירו מהו הפירוש הגיאומטרי של תכונה זו במישור.

ב. הוכיחו כי $u\perp v \Leftrightarrow |u+v|^2=|u|^2+|v|^2$.

הסבירו מהו הפירוש הגיאומטרי של תכונה זו במישור.

27) ענו על חמשת הסעיפים הבאים:

א. הוכיחו כי $|u+v|^2=|u|^2+2u\cdot v+|v|^2$.

ב. הוכיחו כי $|u-v|^2=|u|^2-2u\cdot v+|v|^2$.

ג. הוכיחו כי $(u-v)(u+v)=|u|^2-|v|^2$.

ד. הוכיחו כי $|u+v|^2+|u-v|^2=2|u|^2+2|v|^2$.

תנו פירוש גיאומטרי לתוצאה במישור.

ה. הוכיחו כי $u\cdot v=\frac{1}{4}\left(|u+v|^2-|u-v|^2\right)$.

לפתרון מלא בסרטוני וידאו היכנסו לאתר www.GooL.co.il
כתב ופתר – גיא סלומון ©

28) יהיו $u,v\in\mathbb{R}^n$ וקטורים שונים מ- 0, אורתוגונליים זה לזה ובעלי אותה נורמה.
נגדיר $a=u-2v,\ b=3u+v$.
אם α היא הזווית בין a ל- b, אז $\cos\alpha$ שווה ל-?

29) יהיו $w_1,w_2\in\mathbb{R}^n$ וקטורים שונים מ- 0, אורתוגונליים זה לזה ובעלי נורמה k.
יהי $v=\alpha w_1+\frac{3}{4}w_2$ וקטור שמרחקו מ- $2w_2$ שווה למרחקו מ- w_1.
מהו המרחק של v מ- w_1?

30) יהיו $u,v\in\mathbb{R}^n$ וקטורי יחידה המקיימים $\|u-v\|=2$.
הוכיחו ש- u ו- v הם בהכרח כפולה בסקלר אחד של השני.

לפתרון מלא בסרטוני וידאו היכנסו לאתר www.GooL.co.il
כתב ופתר – גיא סלומון ©

תשובות סופיות

1) $\vec{P}=(4,0,7),\quad \vec{Q}=(-2,1,3),\quad \vec{R}=(6,4,0),\quad \vec{S}=(-2,4,0)$

2) $D=(6,-8,1)$

3) $\underline{u}=(4,11,5)$

4) $M=(7,1,2)$

5) א. $\overrightarrow{EF}=(5,-1,0)$ ב. $N=(-1,-5,10)$

6) $\underline{u}=(0,-7,6),\quad \underline{v}=(-4,7,6)$

7) א. $x=5\quad y=-2,\quad z=6$

8) א. הוכחה. ב. לא.

9) $D=(6,-8,1)$

10) א. $(-6,2,8)$ ב. $(-2,1,3)$ ג. $(-17,7,24)$

11) א. $(2.5,-1,-3.5)$ ב. $(9.5,9.5,-18)$

12) $(19,19,-36)$

13) $\left(\frac{-3}{\sqrt{20}},\frac{1}{\sqrt{20}},\frac{4}{\sqrt{20}}\right)$

14) $\sqrt{158}$

15) 14

16) $\underline{u}^*$

17) $(5,7,1)$

18) $(-8,-16,8)$

19) $(8,12,0)$

20) שאלת הוכחה.

21) א. שאלת הוכחה. ב. כן.

22) א. $\alpha=97.277°$ ב. $\alpha=90°$ ג. $\alpha=180°$

23) $S_{\Delta ABC}=10.173$ יח"ש.

24) $(-3,-6,5)$

25) $v=\left(-\frac{1}{\sqrt{3}},\frac{1}{\sqrt{3}},\frac{1}{\sqrt{3}}\right)\ or\ v=\left(\frac{1}{\sqrt{3}},-\frac{1}{\sqrt{3}},-\frac{1}{\sqrt{3}}\right)$

26) שאלת הוכחה.

27) שאלת הוכחה.

28) $\frac{1}{\sqrt{50}}$

לפתרון מלא בסרטוני וידאו היכנסו לאתר www.GooL.co.il
כתב ופתר – גיא סלומון ©

29) $\frac{5}{4}k$

30) שאלת הוכחה.

לפתרון מלא בסרטוני וידאו היכנסו לאתר www.GooL.co.il
כתב ופתר – גיא סלומון ©

מכפלה וקטורית ומכפלה מעורבת

שאלות

1) נתון: $u=\begin{pmatrix}1\\0\\1\end{pmatrix},\ v=\begin{pmatrix}0\\1\\1\end{pmatrix},\ w=\begin{pmatrix}0\\1\\0\end{pmatrix}$.

חשבו: $(u\times v)\times w$.

2) חשבו את שטח המשולש, שקדקודיו: $A(8,2,3),\ B(4,-1,2),\ C(-8,0,4)$.

3) נתונים שלושה וקטורים u,v,w במרחב.

ידוע כי: $|u|\neq 0,\quad u\cdot w=0,\quad u\times v=0$.

הוכיחו כי: $v\cdot w=0$.

4) נתונים שני וקטורים u,v במרחב.

ידוע כי: $|v|=4,\quad |u|=1,\quad u\perp v$.

חשבו: $\left|(u+v)\times(u-v)\right|$.

5) נתון $u=\begin{pmatrix}1\\2\\3\end{pmatrix}, v=\begin{pmatrix}4\\5\\6\end{pmatrix},\ w=\begin{pmatrix}7\\8\\10\end{pmatrix}$.

חשבו:

א. $u\cdot(v\times w)$ ב. $v\cdot(w\times u)$ ג. $(u\times v)\cdot w$

6) ענו על הסעיפים הבאים:

א. חשבו את נפח המקבילון שקדקודיו $A(1,1,1),B(2,2,2),C(3,0,2),D(4,1,1)$.

ב. חשבו את נפח הפירמידה שקדקודיה $A(1,1,1),B(2,2,2),C(3,0,2),D(4,1,1)$.

7) חשבו את נפח הפירמידה שקדקודיה $A(2,2,5),B(1,-1,-4),C(3,3,10),D(8,6,3)$.

לפתרון מלא בסרטוני וידאו היכנסו לאתר www.GooL.co.il
כתב ופתר – גיא סלומון ©

8) נתון מקבילון הבנוי על וקטורים $\mathbf{a},\mathbf{b},\mathbf{c}$.
הוכיחו כי נפח המקבילון, הבנוי על הווקטורים $\mathbf{a},\mathbf{a}-\mathbf{b},\mathbf{a}+\mathbf{b}-4\mathbf{c}$,
שווה לפי 4 מנפח המקבילון הנתון.

9) נתונים שלושה וקטורים u,v,w במרחב.
הוכיחו כי $[(u+v)\times(v+w)](u+w)=2w\cdot(u\times v)$.

10) נתונים שלושה וקטורים u,v,w במרחב.
ידוע כי: $u\cdot(v\times w)=4$.
חשבו:

א. $u\cdot(w\times v)$

ב. $(v\times w)\cdot u$

ג. $w\cdot(u\times v)$

ד. $v\cdot(u\times w)$

11) נתונים שלושה וקטורים $\mathbf{a},\mathbf{b},\mathbf{c}$ במרחב.
מהי הנוסחה עבור $\mathbf{a}\times\mathbf{b}\times\mathbf{c}$?

תשובות סופיות

1) $\begin{pmatrix}-1\\0\\-1\end{pmatrix}$

2) $S=22.5$

3) שאלת הוכחה.

4) 8

5) א. -3 ב. -3 ג. -3

6) א. -6 ב. 1

7) $9\frac{1}{3}$

8) שאלת הוכחה.

9) שאלת הוכחה.

10) א. -4 ב. 4 ג. 4 ד. 4

11) אין לו נוסחה.

לפתרון מלא בסרטוני וידאו היכנסו לאתר www.GooL.co.il
כתב ופתר – גיא סלומון ©

שימושי מכפלה וקטורית לגיאומטריה אנליטית במרחב

שאלות

1) הוכיחו שהנקודות הבאות נמצאות על מישור אחד:
$A=(1,2,1)$, $B(1,1,1)$, $C=(2,1,2)$, $D(2,2,2)$.

2) מצאו את מרחק הנקודה $A(3,-2,1)$
מהישר $L:(-10,8,-8)+t(2,-1,2)$.

3) נתונים שני ישרים:

$$L_1:\quad \frac{x-2}{2}=3-y=\frac{z-4}{3},\qquad L_2:\quad x+7=y-5,\ z=3$$

א. הוכיחו שהישרים מצטלבים.

ב. מצאו את המרחק בין הישרים.

תשובות סופיות

1) שאלת הוכחה.

2) $\sqrt{26}$

3) א. שאלת הוכחה. ב. 5.7735

לפתרון מלא בסרטוני וידאו היכנסו לאתר www.GooL.co.il
כתב ופתר – גיא סלומון ©