מתמטיקה הכנה למבחן סיווג להנדסאים

פרק 29 - וקטורים גיאומטריים

תוכן העניינים

1. הגדרות וכללים יסודיים 1
2. וקטורים הפורשים מישור 6
3. מכפלה סקלרית וחישוב גודל של וקטור 10

הגדרות וכללים יסודיים:

סיכום כללי:

הגדרה כללית:

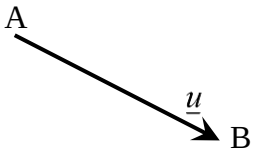

להלן תיאור של וקטור גיאומטרי: וקטור שמוצאו בנקודה A ומסתיים בנקודה B יסומן באופן הבא: $\overrightarrow{AB}$.

ניתן לסמן וקטור באות קטנה באופן הבא: $\underline{u}$ (אותיות מקובלות לסימון הן: $\underline{u}, \underline{v}, \underline{w}$).

מהאיור לעיל מתקיים: $\overrightarrow{AB} = \underline{u}$.

קשרים בין וקטורים:

- וקטורים שווים: שני וקטורים נקראים שווים אם הם זהים בגודלם ובכיוונם.
  דוגמא לוקטורים שווים: מתקיים: $\overrightarrow{AB} = \overrightarrow{CD}$.

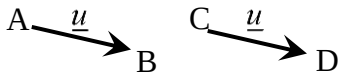

- וקטורים מקבילים: שני וקטורים שכיוונם זהה נקראים מקבילים.
  ניתן להביע את האחד באמצעות השני ע"י כפל בסקלר.
  וקטורים מקבילים נקראים גם "וקטורים תלויים ליניארית".
  דוגמא לתלות בין וקטורים מקבילים:
  עבור $\alpha > 1$ מתקיים: $\underline{v} = \alpha \underline{u}$, או: $\overrightarrow{AB} = \alpha \cdot \overrightarrow{CD}$.

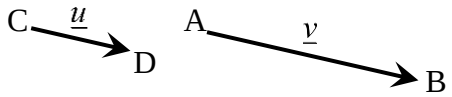

- אם זוג וקטורים במרחב: $\overrightarrow{AB} = \alpha \underline{u} + \beta \underline{v} + \gamma \underline{w}$ ו- $\overrightarrow{CD} = a\underline{u} + b\underline{v} + c\underline{w}$ מקבילים
  אז מתקיים: $\frac{\alpha}{a} = \frac{\beta}{b} = \frac{\gamma}{c}$.

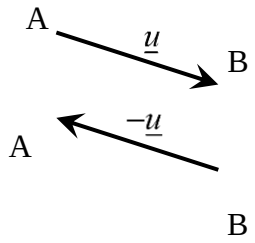

- וקטור המסומן $\overrightarrow{BA}$ הוא בעל גודל זהה לוקטור $\overrightarrow{AB}$
  וכיוון הפוך לו. במקרה זה מתקיים: $\overrightarrow{BA} = -\underline{u}$.

הערה:

שני וקטורים $\underline{u}$ ו- $\underline{v}$ יקראו מקבילים אם מתקיים: $\underline{v} = \alpha \underline{u}$ כאשר הגודל α יכול לקבל כל ערך מספרי בתחום $\alpha \neq 0$. בפרט עבור $\alpha < 0$ כיוונם הפוך ב- $180°$.

שאלות:

1) במקבילית ABCD נתון: $\overrightarrow{AB}=\underline{u}$, $\overrightarrow{AD}=\underline{v}$
מצא את כל הווקטורים במקבילית ששווים ל- $\underline{u}$ או $\underline{v}$.

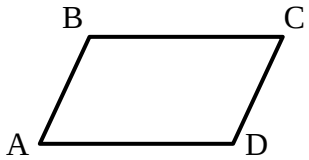

2) בתיבה ABCDA'B'C'D'
נתון: $\overrightarrow{AB}=\underline{u}$, $\overrightarrow{AD}=\underline{v}$, $\overrightarrow{AA'}=\underline{w}$.
מצא את כל הווקטורים בתיבה ששווים ל- $\underline{u}$, $\underline{v}$ או $\underline{w}$.

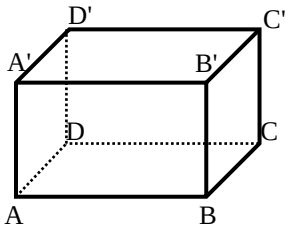

3) בפירמידה SABCD שבסיסה ריבוע
נתון: $\overrightarrow{AB}=\underline{u}$, $\overrightarrow{AD}=\underline{v}$, $\overrightarrow{AS}=\underline{w}$.
מצא את כל הווקטורים שבפירמידה השווים ל- $\underline{u}$, $\underline{v}$ או $\underline{w}$.

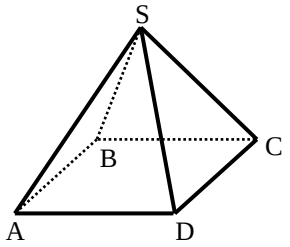

4) בטרפז ABCD שבשרטוט
נתון: $AD=3BC$, $\overrightarrow{AD}=\underline{v}$, $\overrightarrow{AB}=\underline{u}$.
מצא את כל הווקטורים בטרפז שניתן להביע באמצעות $\underline{u}$ או $\underline{v}$.

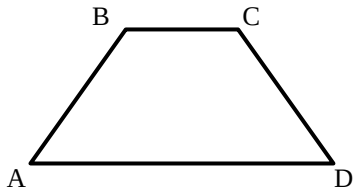

5) בטרפז ABCD שבשרטוט
נתון: $AD=3BC$, $\overrightarrow{AD}=\underline{v}$, $\overrightarrow{AB}=\underline{u}$

א. הבע באמצעות $\underline{u}$ ו- $\underline{v}$ את הווקטורים $\overrightarrow{AC}$ ו- $\overrightarrow{DC}$.

ב. הנקודה E היא אמצע הצלע AD.
הבע באמצעות $\underline{u}$ ו- $\underline{v}$ את הווקטור $\overrightarrow{BE}$.

ג. הנקודה F היא אמצע הצלע CD.
הבע באמצעות $\underline{u}$ ו- $\underline{v}$ את הווקטור $\overrightarrow{AF}$.

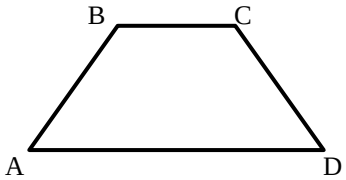

6) בפירמידה SABCD שבסיסה ריבוע

נתון: $\overrightarrow{AS}=\underline{w}$, $\overrightarrow{AD}=\underline{v}$, $\overrightarrow{AB}=\underline{u}$.

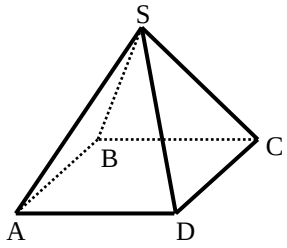

א. הבע באמצעות $\underline{u}$, $\underline{v}$ ו- $\underline{w}$ את הווקטורים $\overrightarrow{AC}$ ו- $\overrightarrow{SC}$.

ב. הנקודה N היא אמצע המקצוע SD.

הבע באמצעות $\underline{u}$, $\underline{v}$ ו- $\underline{w}$ את הווקטור $\overrightarrow{BN}$.

7) הנקודה P נמצאת על הקטע AB כך ש: $AP:PB=2:3$. נתון: $\overrightarrow{AB}=\underline{u}$.

הבע באמצעות $\underline{u}$ את הווקטורים $\overrightarrow{AP}$ ו- $\overrightarrow{PB}$.

8) הנקודה P נמצאת על הקטע AB כך ש: $AP:PB=3:5$. נתון: $\overrightarrow{AP}=\underline{u}$.

הבע באמצעות $\underline{u}$ את הווקטורים $\overrightarrow{PB}$ ו- $\overrightarrow{AB}$.

9) הנקודה P נמצאת על הקטע AB כך ש: $\frac{AP}{AB}=\alpha$. נתון: $\overrightarrow{AB}=\underline{u}$.

הבע באמצעות $\underline{u}$ את הווקטורים $\overrightarrow{AP}$ ו- $\overrightarrow{PB}$.

10) הנקודה P נמצאת על הקטע AB כך ש: $\frac{AP}{PB}=\alpha$. נתון: $\overrightarrow{AB}=\underline{u}$.

הבע באמצעות $\underline{u}$ את הווקטורים $\overrightarrow{AP}$ ו- $\overrightarrow{PB}$.

11) בטרפז ABCD שבשרטוט

נתון: $AD=3BC$, $\overrightarrow{AD}=\underline{v}$, $\overrightarrow{AB}=\underline{u}$.

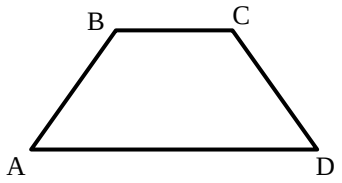

הנקודה F נמצאת על הצלע CD

ומקיימת: $\frac{DF}{FC}=\beta$.

הבע באמצעות $\underline{u}$, $\underline{v}$ ו- β את הווקטור $\overrightarrow{AF}$.

12) בתיבה ABCDA'B'C'D' נתון: $\overrightarrow{AB}=\underline{u}$, $\overrightarrow{AD}=\underline{v}$, $\overrightarrow{AA'}=\underline{w}$

הנקודה P נמצאת על המקצוע A'B' ומקיימת: $\frac{A'P}{A'B'}=\alpha$

והנקודה Q נמצאת על המקצוע CC' ומקיימת: $\frac{CQ}{QC'}=\beta$

הבע באמצעות $\underline{w}$, $\underline{v}$, $\underline{u}$, α ו- β את הווקטור: $\overrightarrow{PQ}$.

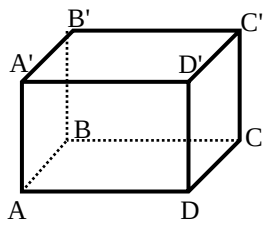

13) בטרפז ABCD שבשרטוט נתון: $AD=3BC$, $\overrightarrow{AD}=\underline{v}$, $\overrightarrow{AB}=\underline{u}$.

הנקודה E נמצאת באמצע הצלע CD.

הנקודה F נמצאת על הצלע AD ומקיימת: $\frac{AF}{FD}=\alpha$

מצא את ערכו של α שבעבורו מתקיים $\overrightarrow{FE}\parallel\overrightarrow{AB}$.

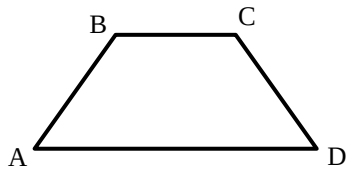

14) בטרפז ABCD שבשרטוט נתון: $AD=3BC$, $\overrightarrow{AD}=\underline{v}$, $\overrightarrow{AB}=\underline{u}$.

הנקודה E נמצאת באמצע הצלע CD.

הנקודה F נמצאת על הצלע AD ומקיימת: $\frac{AF}{FD}=\alpha$

מצא את ערכו של α שבעבורו מתקיים: $\overrightarrow{FE}\parallel\overrightarrow{AC}$.

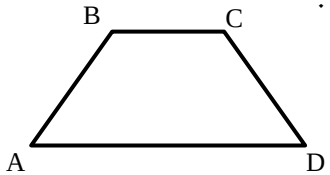

15) בתיבה ABCDA'B'C'D' נתון: $\overrightarrow{AA'}=\underline{w}$, $\overrightarrow{AD}=\underline{v}$, $\overrightarrow{AB}=\underline{u}$.

הנקודה P נמצאת על המקצוע A'B' ומקיימת: $\frac{A'P}{A'B'}=\alpha$

והנקודה Q נמצאת על המקצוע CC' ומקיימת: $\frac{CQ}{QC'}=\beta$.

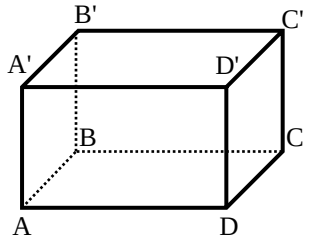

א. הבע באמצעות $\underline{w}$, $\underline{v}$, $\underline{u}$, α ו- β את הווקטור $\overrightarrow{PQ}$.

ב. האם קיימים ערכי α ו- β שבעבורם $\overrightarrow{PQ}\parallel\overrightarrow{AC}$? נמק.

ג. הנקודה E היא מפגש אלכסוני הפאה ABB'A'.

מצא את ערכי α ו- β אם נתון כי $\overrightarrow{PQ}\parallel\overrightarrow{EC}$.

תשובות סופיות:

1) $\underline{u}=\overrightarrow{DC}$, $\underline{v}=\overrightarrow{BC}$.

2) $\underline{v}=\overrightarrow{AD}=\overrightarrow{BC}=\overrightarrow{A'D'}=\overrightarrow{B'C'}$, $\underline{u}=\overrightarrow{DC}=\overrightarrow{D'C'}=\overrightarrow{A'B'}=\overrightarrow{AB}$, $\underline{w}=\overrightarrow{AA'}=\overrightarrow{DD'}=\overrightarrow{CC'}=\overrightarrow{BB'}$.

3) $\underline{w}=\overrightarrow{AS}$, $\underline{v}=\overrightarrow{AD}=\overrightarrow{BC}$, $\underline{u}=\overrightarrow{AB}=\overrightarrow{DC}$.

4) $\overrightarrow{BC}=\frac{1}{3}\underline{v}$.

5) א. $\overrightarrow{DC}=\underline{u}-\frac{2}{3}\underline{v}$, $\overrightarrow{AC}=\underline{u}+\frac{1}{3}\underline{v}$ ב. $\overrightarrow{BE}=-\underline{u}+\frac{1}{2}\underline{v}$ ג. $\overrightarrow{AF}=\frac{1}{2}\underline{u}+\frac{2}{3}\underline{v}$.

6) א. $\overrightarrow{SC}=\underline{u}+\underline{v}-\underline{w}$, $\overrightarrow{AC}=\underline{u}+\underline{v}$ ב. $\overrightarrow{BN}=-\underline{u}+\frac{1}{2}\underline{v}+\frac{1}{2}\underline{w}$.

7) $\overrightarrow{BP}=\frac{3}{5}\underline{u}$, $\overrightarrow{AP}=\frac{2}{5}\underline{u}$.

8) $\overrightarrow{PB}=\frac{5}{3}\underline{u}$, $\overrightarrow{AB}=\frac{8}{3}\underline{u}$.

9) $\overrightarrow{PB}=(1-\alpha)\underline{u}$, $\overrightarrow{AP}=\alpha\underline{u}$.

10) $\overrightarrow{PB}=\frac{1}{1+\alpha}\underline{u}$, $\overrightarrow{AP}=\frac{\alpha}{1+\alpha}\underline{u}$.

11) $\overrightarrow{AF}=\frac{\beta}{1+\beta}\underline{u}+\frac{3+\beta}{3+3\beta}\underline{v}$.

12) $\overrightarrow{PQ}=(1-\alpha)\underline{u}+\underline{v}-\frac{1}{1+\beta}\underline{w}$.

13) $\alpha=2$.

14) $\alpha=1$.

15) א. $\overrightarrow{PQ}=(1-\alpha)\underline{u}+\underline{v}-\frac{1}{1+\beta}\underline{w}$ ב. לא ג. $\beta=1$, $\alpha=\frac{1}{2}$.

ווקטורים הפורשים מישור:

סיכום כללי:

ווקטורים הפורשים מישור:

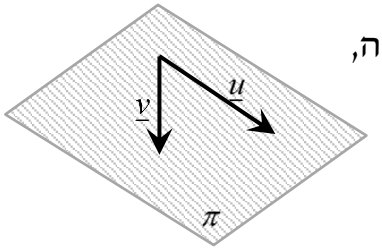

כל שני ווקטורים שאינם מקבילים, כלומר, בלתי תלויים זה בזה, פורשים מישור.

דוגמא:

הווקטורים $\underline{u}$ ו-$\underline{v}$ בעלי כוונים שונים ולכן פורשים

את המישור π.

קומבינציה לינארית של ווקטורים:

- כל ווקטור שנמצא במישור (או מקביל למישור זה) ניתן להצגה ע"י קומבינציה ליניארית של שני ווקטורים הפורשים את המישור.
- כל ווקטור שהוא קומבינציה ליניארית של שני ווקטורים הפורשים את המישור, מקביל למישור.
- אם ניתן להביע ווקטור שקומבינציה לינארית של שני ווקטורים אחרים (או יותר) אז שלושת הווקטורים נקראים תלויים ליניארית (ניתן לבטא כל ווקטור באמצעות האחרים).

דוגמא:

עבור המישור הנפרש לעיל, ניתן להציג כל ווקטור $\underline{w}$ המוכל, או מקביל

למישור π באופן הבא: $\underline{w}=\alpha\cdot\underline{u}+\beta\cdot\underline{v}$ כאשר: $\alpha,\ \beta$ מספרים ממשיים כלשהם.

במקרה זה שלושת הווקטורים $\underline{v}$, $\underline{u}$ ו- $\underline{w}$ נקראים תלויים ליניארית.

שאלות:

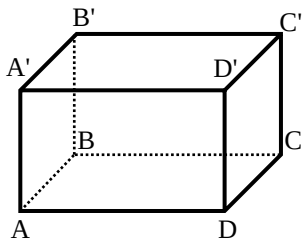

16) בתיבה ABCDA'B'C'D' נתון: $\overrightarrow{AA'}=\underline{w}$, $\overrightarrow{AD}=\underline{v}$, $\overrightarrow{AB}=\underline{u}$.

הנקודה P נמצאת על המקצוע A'B' ומקיימת: $\frac{A'P}{A'B'}=\alpha$

והנקודה Q נמצאת על המקצוע CC' ומקיימת: $\frac{CQ}{QC'}=\beta$

א. הבע באמצעות $\underline{w}$, $\underline{v}$, $\underline{u}$, α ו- β את הווקטור $\overrightarrow{PQ}$.

ב. מהו ערכו של α שבעבורו הווקטור $\overrightarrow{PQ}$ מקביל לפאה ADD'A'?

ג. האם קיים ערך של β שבעבורו הווקטור $\overrightarrow{PQ}$ מקביל לבסיס ABCD?

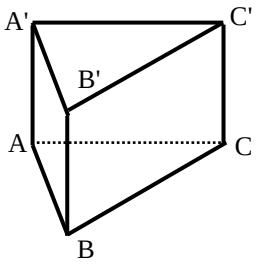

17) נתונה מנסרה משולשת ABCA'B'C'

ובה נתון: $\overrightarrow{AA'}=\underline{w}$, $\overrightarrow{AC}=\underline{v}$, $\overrightarrow{AB}=\underline{u}$.

הנקודה M נמצאת על המקצוע A'C' ומקיימת: $\frac{A'M}{MC'}=\alpha$

והנקודה N נמצאת על המקצוע BC ומקיימת: $\frac{BN}{BC}=\beta$.

א. הבע באמצעות $\underline{w}$, $\underline{v}$, $\underline{u}$, α ו- β את הווקטור $\overrightarrow{NM}$.

ב. מהו ערכו של β שבעבורו הווקטור $\overrightarrow{NM}$ מקביל לפאה ACC'A'?

ג. נתון כי הווקטור $\overrightarrow{NM}$ מקביל לפאה ABB'A'.
הבע את α באמצעות β .

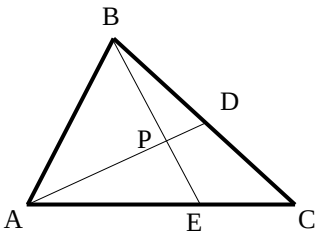

18) במשולש ABC הנקודה D היא אמצע הצלע BC

והנקודה E נמצאת על הצלע AC כך שמתקיים: $\frac{AE}{CE}=2$.

הנקודה P היא מפגש הקטעים AD ו-BE.

נגדיר: $\overrightarrow{AC}=\underline{v}$, $\overrightarrow{AB}=\underline{u}$, וכן: $\overrightarrow{AP}=t\cdot\overrightarrow{AD}$, $\overrightarrow{BP}=s\cdot\overrightarrow{BE}$.

א. הבע באמצעות $\underline{u}$, $\underline{v}$, t ו- s את הווקטור $\overrightarrow{AP}$ בשתי דרכים שונות.

ב. מצא באיזה יחס מחלקת הנקודה P את הקטע AD ואת הקטע BE.

19) בטרפז ABCD, ($AD \parallel BC$) שבשרטוט נתון : $AD = 3BC$.
הנקודה E נמצאת באמצע הצלע CD
והנקודה F נמצאת באמצע הצלע AD.
הנקודה P היא מפגש הקטעים AE ו-CF.
מצא באיזה יחס מחלקת הנקודה P את הקטע AE ואת הקטע CF.

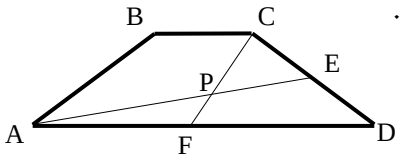

20) במשולש ABC הנקודה D היא אמצע הצלע AB
והנקודה E נמצאת על הצלע AC כך שמתקיים : $\overrightarrow{DE} \parallel \overrightarrow{BC}$.
הנקודה P היא אמצע הקטע DE והמשך הקטע BP
חותך את הצלע AC בנקודה Q.

א. מצא באיזה יחס מחלקת הנקודה Q את הצלע AC.

ב. חשב את היחס : $\frac{S_{\Delta QPE}}{S_{\Delta DPB}}$.

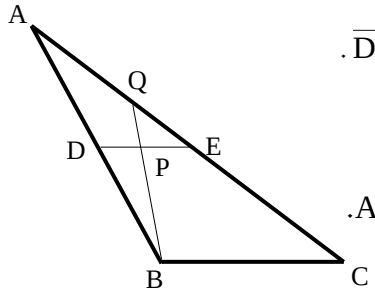

21) במקבילון ABCDA'B'C'D'
נתון : $\overrightarrow{DA} = \underline{u}$, $\overrightarrow{DC} = \underline{v}$, $\overrightarrow{DD'} = \underline{w}$.
הנקודה F נמצאת באמצע המקצוע CC',
הנקודה E נמצאת על המקצוע AA'
ומקיימת : $A'E = 2AE$ והנקודה P נמצאת על
המקצוע BB' ומקיימת : $\overrightarrow{B'P} = k \cdot \overrightarrow{B'B}$.
נתון : $\overrightarrow{DP} = t \cdot \overrightarrow{DE} + s \cdot \overrightarrow{DF}$.

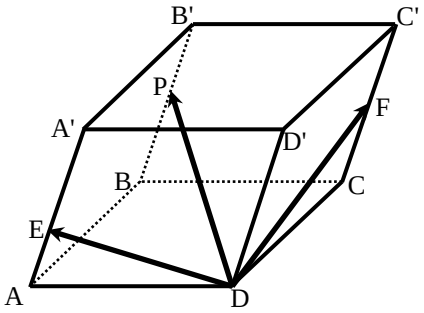

א. הבע באמצעות $\underline{w}$, $\underline{v}$, $\underline{u}$ ו- k את הווקטור $\overrightarrow{DP}$.

ב. מצא באיזה יחס מחלקת הנקודה P את המקצוע BB'.

ג. האם הנקודות D , E, F ו- P נמצאות על אותו מישור? נמק.

תשובות סופיות:

16) א. $\overrightarrow{PQ}=(1-\alpha)\underline{u}+\underline{v}-\frac{1}{1+\beta}\underline{w}$ ב. $\alpha=1$ ג. לא.

17) א. $\overrightarrow{NM}=(\beta-1)\underline{u}+\left(\frac{\alpha}{\alpha+1}-\beta\right)\underline{v}+\underline{w}$ ב. $\beta=1$ ג. $\alpha=\frac{\beta}{1-\beta}$

18) א. $\overrightarrow{AP}=(1-s)\underline{u}+\frac{2}{3}s\underline{v}$, $\overrightarrow{AP}=\frac{1}{2}t\underline{u}+\frac{1}{2}t\underline{v}$ ב. $BP:PE=3:2$, $AP:PD=4:1$

19) $AP:PE=2:1$, $CP:PF=2:1$

20) א. $AQ:QC=1:2$ ב. $\frac{S_{QPE}}{S_{DPB}}=\frac{1}{3}$

21) א. $\overrightarrow{DP}=\underline{u}+\underline{v}+(1-k)\underline{w}$ ב. $B'P:PB=1:5$ ג. כן.

מכפלה סקלרית וחישוב גודל של וקטור:

סיכום כללי:

מכפלה סקלרית של שני וקטורים $\underline{u}$ ו- $\underline{v}$ תסומן: $\underline{u}\cdot\underline{v}$ ותחושב ע"י הנוסחה הבאה:

$$\underline{u}\cdot\underline{v}=|\underline{u}|\cdot|\underline{v}|\cdot\cos\alpha$$

כאשר α היא הזווית הנוצרת בין נקודת חיבור מוצאי הווקטורים ובין כיווני הווקטורים כמתואר באיור.

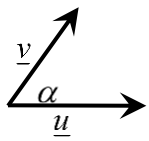

ניתן למצוא את הזווית שבין שני וקטורים ע"י: $\cos\alpha=\frac{\underline{u}\cdot\underline{v}}{|\underline{u}|\cdot|\underline{v}|}$.

גודל של וקטור נתון ע"י: $|\underline{u}|=\sqrt{\underline{u}^2}$, או: $|\underline{u}|^2=\underline{u}^2$.

הערה:

המכפלה הסקלרית $\underline{u}\cdot\underline{v}$ בין שני וקטורים מקבלת ערך מספרי בלבד! היא יכולה להיות חיובית, שלילית או אפס כפי שנראה בהמשך.

שאלות:

22) חשב את המכפלה הסקלרית של הווקטורים $\underline{u}$ ו- $\underline{v}$ על פי הנתונים על גודלם והזווית שביניהם:

א. $|\underline{u}|=3$, $|\underline{v}|=2$, $\alpha=60°$

ב. $|\underline{u}|=4$, $|\underline{v}|=5$, $\alpha=120°$

ג. $|\underline{u}|=2$, $|\underline{v}|=6$, $\alpha=30°$

ד. $|\underline{u}|=8$, $|\underline{v}|=3$, $\alpha=180°$

ה. $|\underline{u}|=3$, $|\underline{v}|=5$, $\alpha=0°$

ו. $|\underline{u}|=7$, $|\underline{v}|=4$, $\alpha=90°$

23) חשב את הזווית בין הווקטורים $\underline{u}$ ו- $\underline{v}$ על פי הנתונים על גודלם והמכפלה הסקלרית שלהם:

א. $|\underline{u}|=3$, $|\underline{v}|=4$, $\underline{u}\cdot\underline{v}=6$

ב. $|\underline{u}|=4$, $|\underline{v}|=2$, $\underline{u}\cdot\underline{v}=-4\sqrt{3}$

ג. $|\underline{u}|=9$, $|\underline{v}|=5$, $\underline{u}\cdot\underline{v}=0$

ד. $|\underline{u}|=2$, $|\underline{v}|=6$, $\underline{u}\cdot\underline{v}=12$

24) נתונים שני וקטורים $\underline{u}$ ו-$\underline{v}$ שאורכם: $|\underline{u}|=6$, $|\underline{v}|=3$. הזווית ביניהם היא $120°$.
חשב את גודלו של הווקטור $\overrightarrow{PQ}$ שמוגדר: $\overrightarrow{PQ}=2\underline{u}-3\underline{v}$.

25) נתונים שני וקטורים $\underline{u}$ ו-$\underline{v}$ המאונכים זה לזה שאורכם: $|\underline{u}|=4$, $|\underline{v}|=5$.
חשב את גודלו של הווקטור $\overrightarrow{MN}$ שמוגדר: $\overrightarrow{MN}=0.5\underline{u}-\underline{v}$.

26) נתונים שני וקטורים $\underline{u}$ ו-$\underline{v}$ שאורכם: $|\underline{u}|=6$, $|\underline{v}|=3$. הזווית ביניהם היא $120°$.
חשב את גודל הזווית $\sphericalangle QPM$ אם נתון: $\overrightarrow{PM}=4\underline{u}+\underline{v}$, $\overrightarrow{PQ}=2\underline{u}-3\underline{v}$.

27) המשולש ABC הוא משולש ישר זווית ($\sphericalangle BAC=90°$).
הנקודה D היא אמצע היתר BC והנקודה E נמצאת על הניצב AC.
הנקודה P היא מפגש הקטעים AD ו-BE.
נתון: $\frac{AP}{PD}=3$, $AB=8$, $AC=12$.
חשב את גודל הזווית $\sphericalangle DPC$.

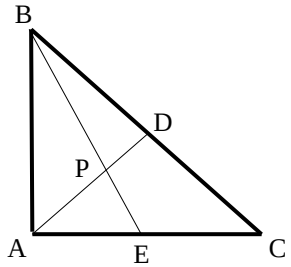

28) נתונה מנסרה משולשת וישרה ABCA'B'C'
שבסיסה משולש שווה צלעות שאורך כל אחת מצלעותיו הוא 6. גובה המנסרה הוא 8.
הנקודה M היא אמצע המקצוע A'C' והנקודה N נמצאת על המקצוע BC ומקיימת: $BN=2CN$.
נסמן: $\overrightarrow{AA'}=\underline{w}$, $\overrightarrow{AC}=\underline{v}$, $\overrightarrow{AB}=\underline{u}$.
חשב את גודל הזווית: $\sphericalangle MAN$.

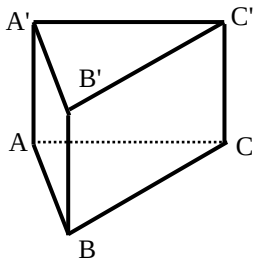

29) בפירמידה SABCD שבסיסה ריבוע המקצוע SA הוא גובה הפירמידה.
נתון: $AB=AD=\frac{1}{2}AS=k$.
נסמן: $\overrightarrow{AS}=\underline{w}$, $\overrightarrow{AD}=\underline{v}$, $\overrightarrow{AB}=\underline{u}$.
הנקודה Q היא אמצע המקצוע SC והנקודה P היא אמצע המקצוע SB.
חשב את גודל הזווית: $\sphericalangle PAQ$.

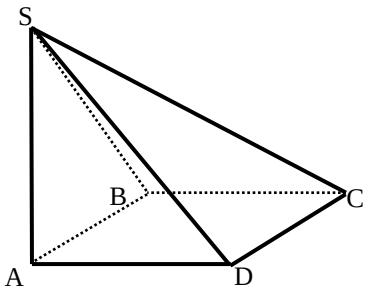

30) בתיבה ABCDA'B'C'D' נתון: $\overrightarrow{AA'}=\underline{w}$, $\overrightarrow{AD}=\underline{v}$, $\overrightarrow{AB}=\underline{u}$, $AB=\frac{1}{\sqrt{2}}AD=AA'$.

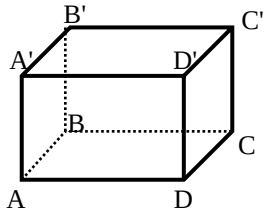

הנקודה P נמצאת על המקצוע A'B' ומקיימת: $\frac{A'P}{A'B'}=\alpha$

והנקודה Q היא אמצע המקצוע DD'.

א. מהו ערכו של α שבעבורו מתקיים: $\left|\overrightarrow{AP}\right|=\frac{5}{6}\left|\overrightarrow{AQ}\right|$?

ב. הבע באמצעות α את $\cos\sphericalangle PAQ$
והראה כי לכל ערך של α הזווית $\sphericalangle PAQ$ חדה.

ג. מהו ערכו של α שבעבורו הזווית $\sphericalangle PAQ$ מקיימת: $\cos\sphericalangle PAQ=\frac{2}{3\sqrt{5}}$?

31) הוכח כי בכל מרובע ABCD מתקיים: $\overrightarrow{AC}\cdot\overrightarrow{BD}=\overrightarrow{AB}\cdot\overrightarrow{CD}+\overrightarrow{AD}\cdot\overrightarrow{BC}$.

32) נתון מלבן ABCD. הוכח כי לכל נקודה כלשהי P מתקיים: $\overrightarrow{PA}\cdot\overrightarrow{PC}=\overrightarrow{PB}\cdot\overrightarrow{PD}$.

33) נתון ריבוע ABCD. הנקודה P היא אמצע הצלע BC והנקודה Q היא אמצע הצלע CD.
הוכח כי מתקיים: $S_{ABCD}=\overrightarrow{AP}\cdot\overrightarrow{AQ}$.

34) נתון מרובע ABCD. הנקודה P היא אמצע הצלע AB והנקודה Q היא אמצע הצלע CD.
הוכח כי מתקיים: $\overrightarrow{PQ}=\frac{\overrightarrow{AD}+\overrightarrow{BC}}{2}$.

35) נתונה פירמידה משולשת SABC שבה $\overrightarrow{AS}\perp\overrightarrow{BC}$ ו- $\overrightarrow{BS}\perp\overrightarrow{AC}$.
הוכח: $\overrightarrow{CS}\perp\overrightarrow{AB}$.

36) הוכח: וקטור המאונך לשני וקטורים בלתי תלויים במישור מאונך לכל הווקטורים שבמישור.

37) ענה על הסעיפים הבאים:

א. הנקודה M היא מפגש התיכונים במשולש ABC.
הוכח: $\overrightarrow{MA}+\overrightarrow{MB}+\overrightarrow{MC}=0$.

ב. נתונה פירמידה משולשת SABC. הנקודה P היא מפגש התיכונים בפאה SBC.
הוכח: $\overrightarrow{AP}=\frac{1}{3}\left(\overrightarrow{AB}+\overrightarrow{AC}+\overrightarrow{AS}\right)$.

ג. נתון בנוסף כי $\overrightarrow{AS}$ ו- $\overrightarrow{AP}$ מאונכים ל- $\overrightarrow{BC}$.
הוכח כי $AB=AC$. (הדרכה: סמן $\overrightarrow{AS}=\underline{w}$, $\overrightarrow{AC}=\underline{v}$, $\overrightarrow{AB}=\underline{u}$).

38) הנקודה P נמצאת בתוך מרובע כלשהו ABCD
כך שהמשולשים APD ו-BPC הם משולשים
ישרי זווית וש"ש ($AP=PD$, $BP=PC$).
הנקודה E היא אמצע הצלע CD. הוכח: $\overrightarrow{PE}\perp\overrightarrow{AB}$.
(הדרכה: סמן $\overrightarrow{PD}=\underline{d}$, $\overrightarrow{PA}=\underline{c}$, $\overrightarrow{PC}=\underline{b}$, $\overrightarrow{PB}=\underline{a}$).

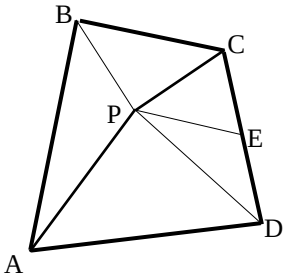

39) בטטראדר SABC נתון: $\overrightarrow{AS}=\underline{w}$, $\overrightarrow{AC}=\underline{v}$, $\overrightarrow{AB}=\underline{u}$.
הנקודה P נמצאת על המקצוע AS ומקיימת: $\overrightarrow{AP}=\alpha\cdot\overrightarrow{AS}$.
הנקודה Q נמצאת על הפאה SBC ומקיימת: $\overrightarrow{SQ}=\beta\left(\overrightarrow{SB}+\overrightarrow{SC}\right)$.

א. מצא את הקשר בין α ו- β שבעבורו $\overrightarrow{PQ}$ מקביל למישור ABC.

ב. נתון: $\alpha=\beta=\frac{1}{3}$, $\overrightarrow{PQ}\perp\overrightarrow{BC}$. הוכח: $AB=AC$.

40) נתונה פירמידה שבסיסה מלבן. הוכח כי אם שלושה המקצועות הצדדיים שבה שווים, אז גם המקצוע הצדדי הרביעי שווה להם.

תשובות סופיות:

22) א. 3 ב. -10 ג. $6\sqrt{3}$ ד. -24 ה. 15 ו. 0.

23) א. $60°$ ב. $150°$ ג. $90°$ ד. $0°$.

24) $\left|\overrightarrow{PQ}\right| = 18.248$

25) $\left|\overrightarrow{MN}\right| = \sqrt{29}$

26) $31.87°$

27) $55.49°$

28) $70.623°$

29) $24.095°$

30) א. $\alpha = \frac{3}{4}$ ב. $\cos\left(\sphericalangle PAQ\right) = \frac{1}{3\sqrt{1+\alpha^2}}$ ג. $\alpha = \frac{1}{2}$

31) שאלת הוכחה.

32) שאלת הוכחה.

33) שאלת הוכחה.

34) שאלת הוכחה.

35) שאלת הוכחה.

36) שאלת הוכחה.

37) שאלת הוכחה.

38) שאלת הוכחה.

39) א. $\alpha + 2\beta = 1$ ב. שאלת הוכחה.

40) שאלת הוכחה.