כימיה אורגנית להנדסאים

פרק 4 - התמרה נוקלאופילית

תוכן העניינים

1. כללי 1

התמרה נוקלאופילית:

שאלות:

1) סדרו את התרכובות בכל סעיף לפי סדר הראקטיביות שלהם בתגובת S_N2.

א. 2-bromo-2-methylbutane, 1-bromopentane, 2-bromopentane

ב. 1-bromo-3-methylbutane, 2-bromo-2-methylbutane, 3-bromo-2-methylbutane

ג. 1-bromobutane, 1-bromo-2,2-dimethylpropane, 1-bromo-2- methylbutane, 1-bromo-3-methylbutane

2) עבור תגובות S_N2 הבאות, רשמו איזו תגובה תצא לפועל ואיזו תגובה תתרחש לאט מאוד/בכלל לא, הסבירו.

א. $CH_3CN + I^- \rightarrow CH_3I + CN^-$

ב. $CH_3F + Cl^- \rightarrow CH_3Cl + F^-$

ג. $CH_3OTs + Cl^- \rightarrow CH_3Cl + TsO^-$

3) מי מבין שני החומרים A ו- B מגיב מהר יותר מנגנון S_N1? הסבירו באמצעות מנגנון מפורט.

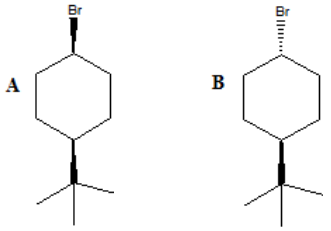

4) אילו תוצרים יתקבלו בהידרוליזה הבאה:

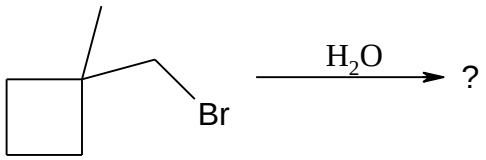

5) עבור תגובות הבאות רשמו את המנגנון המפורט:

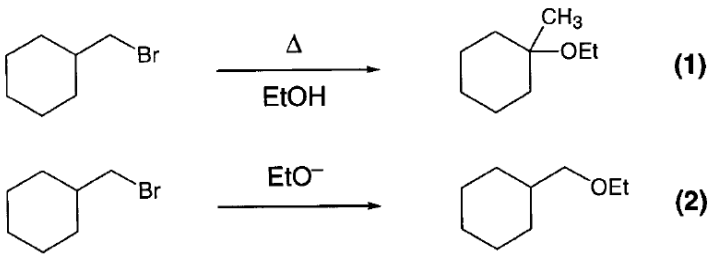

6) כאשר cis-1-t-butyl-4-chlorocyclohexane באתנול מחומם עד לרתיחה למשך מספר שעות מתקבל תוצר עיקרי trans-t-butyl-4- ethoxycyclohexane, אולם כאשר מוסף לתמיסה אשלגן טרטבוטוקסיד ($t\text{-buO}^-K^+$) בריכוז 2M, התוצר העיקרי הינו האלקן 1-t-butylcyclohexene.
רשום/י מנגנון מלא לכל אחת מן התגובות והסבר את התוצאות.

7) רשום מי מהכהלים הבאים יעבור דה-הידרציה מהירה יותרף

א. $CH_3CH_2CH_2CH_2CH_2OH$ or $CH_3CH_2CH_2CHOHCH_3$

ב. $(CH_3)_2C(OH)CH_2CH_3$ or $(CH_3)_2CHCHOHCH_3$

ג. $(CH_3)_2CHC(OH)(CH_3)_2$ or $(CH_3)_2CHCH(CH_3)CH_2OH$

8) כהל שלישוני חומם עם חומצה בנוכחות מים מסומנים איזוטופית:

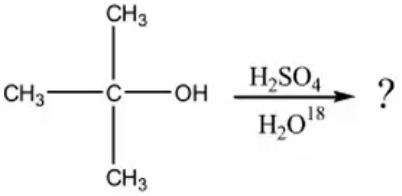

בדגימות שנלקחו לפני תום התגובה נמצא אותו כהל שלישוני מסומן בחמצן איזוטופי. מדידות קינטיות הראו שהיווצרות הכוהל המסומן הייתה פי 30 מהירה יותר מאשר היווצרות התוצר הסופי, האלקן.

א. הצע דרך לקבלת כהל מסומן.

ב. הסבר תוצאות של מדידות קינטיות תוך שימוש במשוואות מתאימות ודיון בגודל יחסי (איכותי) של קבועי קצב האחראים לתוצאות אלה.