# חדוא 1

## פרק 4 - הפונקציה הממשית - תכונות מתקדמות

### תוכן העניינים

1. תחום הגדרה של פונקציה ..... 1
2. הרכבת פונקציות ..... 3
3. הפונקציה ההפוכה ..... 6
4. פונקציה זוגית ופונקציה אי זוגית ..... 10
5. פונקציה מחזורית ..... 15
6. פונקציה מפוצלת ופונקציה אלמנטרית ..... 18
7. תרגילים משולבים ..... 19

# תחום הגדרה של פונקציה

## שאלות

מצאו את תחום ההגדרה של הפונקציות הבאות:

**1)** $y=x^3-x^2-4x+1$

**2)** $y=\frac{1}{x^2-4}$

**3)** $y=\frac{4x+1}{x^2+1}$

**4)** $y=\frac{1}{x^3-x}$

**5)** $y=\frac{x^2}{x^2-x-2}$

**6)** $y=\sqrt{x-4}$

**7)** $y=\sqrt{x^2+x-2}$

**8)** $y=\sqrt[3]{x^2+x-1}$

**9)** $y=\frac{1}{\sqrt{1-|x|}}$

**10)** $y=\ln\left(x^2+x-2\right)$

**11)** $y=\log x+\frac{1}{\log x}$

**12)** $y=e^{x^2+x+1}$

**13)** $y=\log_x\left(x+4\right)$

**14)** $y=\tan\left(10x\right)$

**15)** $y=\cot\left(4x\right)$

**16)** $y=\arctan\left(x+4\right)$

**17)** $y=\arcsin\left(x-4\right)$

**18)** $y=\arccos\left(x+1\right)$


לפתרון מלא בסרטוני וידאו היכנסו לאתר www.GooL.co.il
כתב ופתר – גיא סלומון ©

## תשובות סופיות

1) כל $x$.
2) $x \neq \pm 2$
3) כל $x$.
4) $x \neq 0,1,-1$
5) $x \neq 2,-1$
6) $x \geq 4$
7) $x \leq -2$ , $x \geq 1$
8) כל $x$.
9) $-1 < x < 1$
10) $x < -2$ , $x > 1$
11) $x > 0$ , $x \neq 1$
12) כל $x$.
13) $x > 0$ , $x \neq 1$
14) $x \neq \frac{\pi}{20} + \frac{\pi k}{10}$
15) $x \neq \frac{\pi k}{4}$
16) כל $x$.
17) $3 < x < 5$
18) $-2 < x < 0$


לפתרון מלא בסרטוני וידאו היכנסו לאתר www.GooL.co.il
כתב ופתר – גיא סלומון ©

# הרכבת פונקציות

## שאלות

**1)** נתונות הפונקציות הבאות: $f(x)=x-4$ , $g(x)=x^2$ , $h(x)=\frac{4}{x}$.

חשבו את הפונקציות המורכבות הבאות:

א. $f(g(1))$ ב. $h(g(f(5)))$ ג. $f(g(x))$

ד. $h(f(x))$ ה. $f(f(x))$ ו. $h(h(x))$

**2)** נתון: $f(x)=\frac{x-2}{x-1}$.

חשבו $f(f(x))$ עבור $x=3$.

**3)** נתון: $f(x)=\frac{x-3}{x+2}$ $g(x)=\frac{5-x}{x-7}$.

חשבו $f(g(x))+g(f(x))$ עבור $x=8$.

**4)** נתון: $f(x)=x^2-7x,\ g(x)=\ln x$.

חשבו $f(g(x))$ עבור $x=e^2$.

**5)** נתון: $f(x)=e^{2x}$ $g(x)=\ln x$.

חשבו $f(g(x))$ עבור $x=2$.

**6)** נתון: $f(x)=\begin{cases}\frac{1}{x} & x>0\\ x^2 & x\le 0\end{cases}$, $g(x)=\begin{cases}x+3 & x>4\\ 3x & x\le 4\end{cases}$.

חשבו $f(g(x)),\ g(f(x))$.

**7)** נתונות הפונקציות:

$g(x)=\begin{cases}x^2-4 & x<1\\ -x^2-2x-1 & x\ge 1\end{cases}$ ו- $f(x)=\begin{cases}2x+4 & x\le -1\\ \sqrt{x+1} & x>-1\end{cases}$.

מצאו נוסחה עבור ההרכבה $z(x)=g(f(x))$.


לפתרון מלא בסרטוני וידאו היכנסו לאתר www.GooL.co.il
כתב ופתר – גיא סלומון ©

**8)** נתונות הפונקציות:

$$g(x)=\begin{cases}x^2-4 & x<1\\ -x^2-2x-1 & x\geq 1\end{cases}$$ ו- $$f(x)=\begin{cases}2x+4 & x\leq -1\\ \sqrt{x+1} & x>-1\end{cases}$$.

א. מצאו נוסחה עבור ההרכבה $h(x)=f\left(g(x)\right)$.

ב. נתון ש- $n\in\mathbb{Z}$ ו- $h(n)\notin\mathbb{Z}$.

מה ניתן להסיק בוודאות?

1. $n\leq -3$
2. $n\geq 1$
3. $n$ אי-זוגי שלילי.
4. אף תשובה אינה נכונה.

**9)** נתון $f(x)=\dfrac{x}{\sqrt{1+x^2}}$.

מצאו את $f^n(x)=\underbrace{f(f(f(...(f(x)))))}_{n\text{ times}}$.


לפתרון מלא בסרטוני וידאו היכנסו לאתר www.GooL.co.il
כתב ופתר – גיא סלומון ©

## תשובות סופיות

1) א. $-3$ ב. $4$ ג. $x^2-4$ ד. $\frac{4}{x-4}$ ה. $x-8$ ו. $x$

2) $3$

3) $\frac{69}{13}$

4) $-10$

5) $4$

6) $$f\left(g\left(x\right)\right)=\begin{cases}\frac{1}{x+3} & x>4\\ \frac{1}{3x} & 0<x\le 4\\ \left(3x\right)^2 & x\le 0\end{cases},\quad g\left(f\left(x\right)\right)=\begin{cases}x^2+3 & x<2\\ 3x^2 & -2\le x\le 0\\ \frac{1}{x}+3 & 0<x<\frac{1}{4}\\ 3\frac{1}{x} & x\ge\frac{1}{4}\end{cases}$$

7) $$z(x)=\begin{cases}4x^2+16x+12 & x<-1.5\\ -4x^2-20x-25 & -1.5\le x\le -1\\ x-3 & -1<x<0\\ -x-2-2\sqrt{x+1} & x\ge 0\end{cases}$$

8) $$h(x)=\begin{cases}\sqrt{x^2-3} & x<-\sqrt{3}\\ 2x^2-4 & -\sqrt{3}\le x<1\\ -2x^2-4x+2 & x\ge 1\end{cases}$$ א. ב. $n\le -3$

9) $$f^n(x)=\frac{x}{\sqrt{1+nx^2}}$$


לפתרון מלא בסרטוני וידאו היכנסו לאתר www.GooL.co.il
כתב ופתר – גיא סלומון ©

# הפונקציה ההפוכה

## שאלות

בתרגילים **1-4** הוכיחו שהפונקציה הנתונה היא חח"ע בתחום הגדרתה ומצאו את הפונקציה ההפוכה לה. בנוסף, מצאו את התמונה של הפונקציה.

**1)** $f(x)=\frac{x-1}{3}$

**2)** $f(x)=\frac{x+1}{x}$

**3)** $f(x)=\frac{3x-2}{x-2}$

**4)** $f(x)=x^2-4 \quad (x\geq 0)$

בתרגילים **5-7**, בדקו האם הפונקציה היא חח"ע.
בנוסף, מצאו את התמונה של הפונקציה:

**5)** $f(x)=x+\frac{1}{x}$

**6)** $f(x)=x^2-x$

**7)** $f(x)=\sqrt{1-x^2}$

בתרגילים **8-10**, בדקו האם הפונקציה היא חח"ע,
אם כן, מצאו את הפונקציה ההפוכה ואת התמונה של הפונקציה.

**8)** $f(x)=\frac{1}{\sqrt{1-x}}$

**9)** $y=\frac{x^2+3}{2x-1}$

**10)** $f(x)=\left(\frac{2x-1}{2x+1}\right)^3$

**11)** נתונה $f(x)=\frac{x+2}{\sqrt{x-1}}$.
האם הפונקציה היא חח"ע?
מצאו את התמונה של הפונקציה.

**12)** עבור כל אחת מהפונקציות הבאות, מצאו את תחום ההגדרה, הטווח והתמונה וקבעו האם היא פונקציה על:

א. $f:\mathbb{R}\to\mathbb{R} \quad f(x)=\frac{x-1}{3}$

ב. $f:\mathbb{R}\setminus\{0\}\to\mathbb{R} \quad f(x)=\frac{x+1}{x}$

ג. $f:\mathbb{R}\setminus\{2\}\to\mathbb{R}\setminus\{3\} \quad f(x)=\frac{3x-2}{x-2}$

ד. $f:[0,\infty)\to\mathbb{R} \quad f(x)=x^2-4$


לפתרון מלא בסרטוני וידאו היכנסו לאתר www.GooL.co.il
כתב ופתר – גיא סלומון ©

**13)** עבור כל אחת מהפונקציות הבאות מצאו תחום הגדרה, טווח ותמונה.
בנוסף, קבעו האם הפונקציה הנתונה היא על.

א. $f:\mathbb{R}\to\mathbb{R}$ $\quad f(x)=\dfrac{1}{x^2+1}$

ב. $f:\mathbb{R}\to(0,1]$ $\quad g(x)=\dfrac{1}{x^2+1}$

ג. $f:(1,\infty)\to(0,1]$ $\quad h(x)=\dfrac{1}{x^2+1}$

**14)** תהיינה שתי פונקציות $f:A\to B,\ g:B\to C$,
ותהי $h:A\to C$ ההרכבה המוגדרת על ידי $h(x)=g\left(f(x)\right)$.
הוכיחו או הפריכו:

א. אם $f$ ו-$g$ חח"ע, אז $h$ חח"ע.

ב. אם $f$ ו-$g$ חח"ע, אז $h$ על.

ג. אם $f$ ו-$g$ על, אז $h$ על.

ד. אם $f$ ו-$g$ על, אז $h$ חח"ע.

ה. אם $f$ חח"ע ו-$g$ על, אז $h$ חח"ע.

ו. אם $f$ חח"ע ו-$g$ על, אז $h$ על.

ז. אם $f$ על ו-$g$ חח"ע, אז $h$ חח"ע.

ח. אם $f$ על ו-$g$ חח"ע, אז $h$ על.

**15)** תהיינה שתי פונקציות $f:A\to B,\ g:B\to C$,
ותהי $h:A\to C$ ההרכבה המוגדרת על ידי $h(x)=g\left(f(x)\right)$.
נתון כי $h$ על.
הוכיחו או הפריכו:

א. $f$ חח"ע.

ב. $f$ על.

ג. $g$ חח"ע.

ד. $g$ על.


לפתרון מלא בסרטוני וידאו היכנסו לאתר www.GooL.co.il
כתב ופתר – גיא סלומון ©

**16)** תהיינה שתי פונקציות $f:A\to B,\ g:B\to C$,
ותהי $h:A\to C$ ההרכבה המוגדרת על ידי $h(x)=g\left(f\left(x\right)\right)$.

נתון כי $h$ חח"ע.

הוכיחו או הפריכו:

א. $g$ על.

ב. $f$ על.

ג. $g$ חח"ע.

ד. $f$ חח"ע.


לפתרון מלא בסרטוני וידאו היכנסו לאתר www.GooL.co.il
כתב ופתר – גיא סלומון ©

## תשובות סופיות

**1)** $f^{-1}(x)=3x+1$ , כל $y$.

**2)** $f^{-1}(x)=\frac{1}{x-1}$ , $y\neq 1$

**3)** $f^{-1}(x)=\frac{2x-2}{x-3}$ , $y\neq 3$

**4)** $f^{-1}(x)=\sqrt{x+4}$ , $y\geq -4$

**5)** לא חח"ע. תמונה: $y\leq -2$ או $y\geq 2$.

**6)** לא חח"ע. תמונה: $y\geq -\frac{1}{4}$.

**7)** לא חח"ע. תמונה $0\leq y\leq 1$.

**8)** כן חח"ע. תמונה: $y>0$. פונקציה הפוכה: $x>0$ $f^{-1}(x)=1-\frac{1}{x^2}$.

**9)** לא חח"ע. תמונה: $y\geq 2.3$ או $y\leq -1.3$

**10)** כן חח"ע. תמונה: $y\neq 1$. פונקציה הפוכה: $f^{-1}(x)=\frac{1}{1-\sqrt[3]{x}}-\frac{1}{2}$.

**11)** לא חח"ע. תמונה: $y\geq \frac{6}{\sqrt{3}}$.

**12)** א. תחום הגדרה, טווח ותמונה: $\mathbb{R}$ ; על.

ב. תחום הגדרה $\mathbb{R}\setminus\{0\}$, טווח $\mathbb{R}$, תמונה: $\mathbb{R}\setminus\{0\}$ ; לא על.

ג. תחום הגדרה $\mathbb{R}\setminus\{2\}$, טווח ותמונה: $\mathbb{R}\setminus\{3\}$ ; על.

ד. תחום הגדרה $[0,\infty)$, טווח $\mathbb{R}$, תמונה: $[-4,\infty)$ ; לא על.

**13)** א. תחום הגדרה וטווח: $\mathbb{R}$, תמונה: $(0,1]$ ; לא על.

ב. תחום הגדרה $\mathbb{R}$, טווח ותמונה: $(0,1]$ ; על.

ג. תחום הגדרה $[1,\infty)$, טווח $(0,1]$, תמונה: $(0,0.5)$ ; לא על.

**14)** שאלת הוכחה.

**15)** שאלת הוכחה.

**16)** שאלת הוכחה.


לפתרון מלא בסרטוני וידאו היכנסו לאתר www.GooL.co.il
כתב ופתר – גיא סלומון ©

# פונקציה זוגית ואי זוגית

## שאלות

מצאו אילו מבין הפונקציות בשאלות **1-8** הן אי-זוגיות ואיזה זוגיות:

**1)** $y=4x^3$ **2)** $y=x^4+x^{10}$ **3)** $y=1$

**4)** $y=\frac{1}{x}$ **5)** $y=x^2+\sin^2 x$ **6)** $y=2^x$

**7)** $y=\ln x+x^2$ **8)** $y=\sin x\cdot\cos x$

**9)** נתונה פונקציה אי-זוגית $f:\mathbb{R}\to\mathbb{R}$.

נסמן: $z(x)=f\left(x^2\right),\ k(x)=-f(x)$.

בדקו, עבור כל אחת מהפונקציות $k,z$, האם היא זוגית או אי-זוגית.

**10)** נתונה פונקציה אי-זוגית $f:\mathbb{R}\to\mathbb{R}$, ופונקציה זוגית $g:\mathbb{R}\to\mathbb{R}$.

נסמן: $z(x)=-g\left(x^3\right)$ ו- $k(x)=-f\left(x^3\right)$.

טענה א': $z(x)$ אי-זוגית.

טענה ב': $k(x)$ אי-זוגית.

איזו טענה נכונה?

**11)** נתונה פונקציה אי-זוגית $f:\mathbb{R}\to\mathbb{R}$ ונתונה פונקציה זוגית $g:\mathbb{R}\to\mathbb{R}$

נסמן: $k(x)=f(-x)+x^{11}g(|x|)$ , $z(x)=-g(-4x)\cdot f\left(x^4\right)$

בדקו, עבור כל אחת מהפונקציות $z,k$, האם היא זוגית או אי-זוגית.

**12)** נתון כי $f(x)$ פונקציה אי-זוגית ב- $\mathbb{R}$ ומקיימת $|f(x)|<1$.

נתון כי $g(x)$ פונקציה זוגית ב- $\mathbb{R}$.

הוכיחו שהפונקציה $z(x)=g(x)\ln\left(\frac{1-f(x)}{1+f(x)}\right)$ היא אי-זוגית ב- $\mathbb{R}$.


לפתרון מלא בסרטוני וידאו היכנסו לאתר www.GooL.co.il
כתב ופתר – גיא סלומון ©

**13)** הוכיחו כי:

א. סכום פונקציות זוגיות היא פונקציה זוגית

ב. מכפלת פונקציות זוגיות היא פונקציה זוגית.

ג. מנת פונקציות זוגיות היא פונקציה זוגית.

ד. הרכבה של פונקציות זוגיות היא פונקציה זוגית.

ה. הרכבה של פונקציות אי-זוגיות היא פונקציה אי-זוגית.

**14)** הוכיחו כי:

א. סכום פונקציות אי-זוגיות הוא פונקציה אי-זוגית.

ב. מכפלת פונקציות אי-זוגיות היא פונקציה זוגית.

ג. מנת פונקציות אי-זוגיות היא פונקציה זוגית.

ד. מכפלה של פונקציה זוגית בפונקציה אי-זוגית היא פונקציה אי-זוגית.

ה. הרכבה של פונקציה זוגית על פונקציה אי-זוגית היא פונקציה זוגית.

ו. הרכבה של פונקציה אי-זוגית על פונקציה זוגית היא פונקציה זוגית.

ז. הפונקציה היחידה שהיא גם זוגית וגם אי-זוגית לכל $x$ היא פונקציית האפס.

**15)** הפונקציה $f(x)$ היא אי-זוגית.

נגדיר $z(x)=\left(f(x)\right)^n$ כאשר $n>1$ טבעי.

קבעו האם הפונקציה $z$ היא זוגית, אי-זוגית או כללית.

**16)** נתונה הפונקציה $f(x)$ המוגדרת לכל $x$.

נגדיר: $f_{odd}(x)=\frac{f(x)-f(-x)}{2}$, $f_{even}(x)=\frac{f(x)+f(-x)}{2}$

א. הוכיחו כי $f_{odd}(x)$ היא פונקציה אי-זוגית ו-$f_{even}(x)$ היא פונקציה זוגית.

ב. הוכיחו כי $f(x)=f_{odd}(x)+f_{even}(x)$ והסבירו במילים את התוצאה שקיבלת.

ג. הציגו את הפונקציה $f(x)=x^2+x+1$ כסכום של פונקציה זוגית ופונקציה אי-זוגית.

**17)** הוכיחו או הפריכו כל אחת מהטענות הבאות:

א. אם $f$ פונקציה אי-זוגית אז $f(0)=0$.

ב. אם $f$ פונקציה אי-זוגית המוגדרת ב-$x=0$ אז $f(0)=0$.


לפתרון מלא בסרטוני וידאו היכנסו לאתר www.GooL.co.il
כתב ופתר – גיא סלומון ©

**18)** הוכיחו את הטענות הבאות:

א. הפונקציה $f(x)=\cos x$ היא זוגית.

ב. הפונקציה $f(x)=\sin x$ היא אי-זוגית.

ג. הפונקציה $f(x)=\tan x$ היא אי-זוגית.

ד. הפונקציה $f(x)=\cot x$ היא אי-זוגית.

**19)** נתון כי $f(x)$ פונקציה אי-זוגית וחד-חד ערכית המוגדרת בקטע $(-a,a)$ $(a>0)$.

הוכיחו כי גם $f^{-1}$ פונקציה אי-זוגית.

**20)** הוכיחו שהפונקציות הבאות הן אי זוגיות:

א. $y=\arctan x$

ב. $y=\arcsin x$

**21)** הפונקציות המסורטטות להלן מוגדרות לכל $x$.
השלם את ציור הגרף של הפונקציה כך שתתקבל פונקציה זוגית:

א.

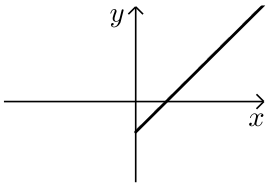


ב.

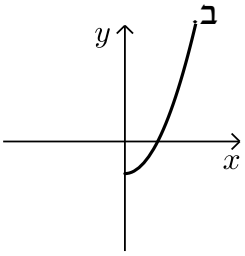


ג.

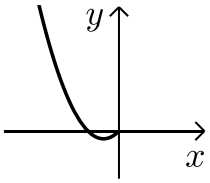


ד.

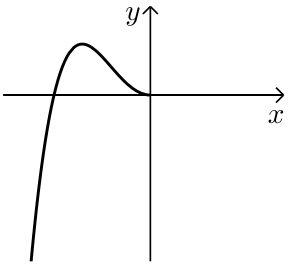



לפתרון מלא בסרטוני וידאו היכנסו לאתר www.GooL.co.il
כתב ופתר – גיא סלומון ©

**22)** הפונקציות המסורטטות להלן מוגדרות לכל $x$.
השלם את ציור הגרף של הפונקציה כך שתתקבל פונקציה אי-זוגית:

א.

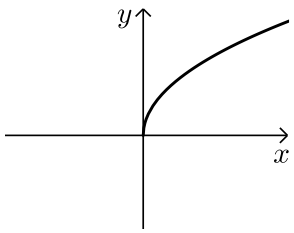


ב

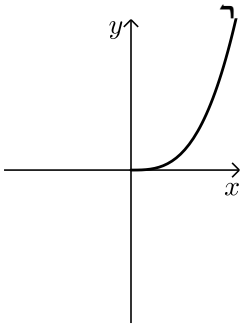


ג.

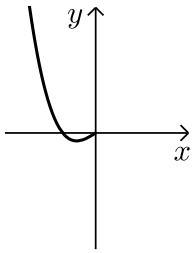


ד

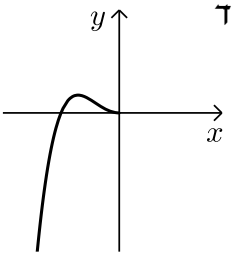


**23)** השלימו (אם ניתן) את גרף הפונקציות הבאות לפונקציה זוגית ולפונקציה אי-זוגית.

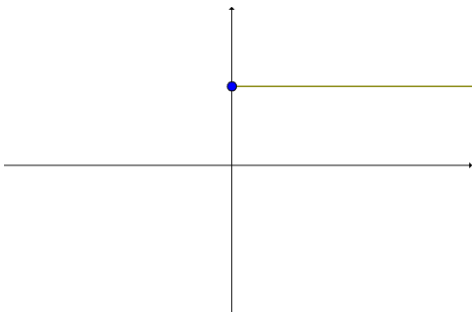

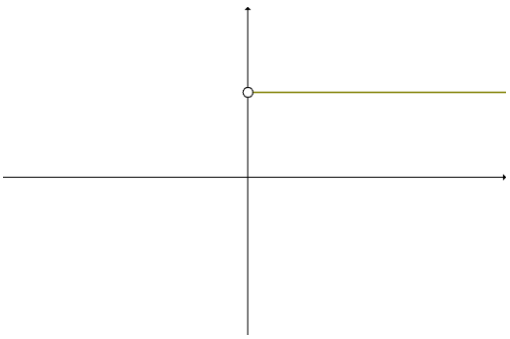


לפתרון מלא בסרטוני וידאו היכנסו לאתר www.GooL.co.il
כתב ופתר – גיא סלומון ©

## תשובות סופיות

שאלות **1-8** : זוגית : **2,3,5,8** ; אי- זוגית : **1,4** ; כללית : **6,7**.

**9)** $k$ אי-זוגית, $z$ זוגית.

**10)** טענה ב'.

**11)** $k$ אי-זוגית, $z$ זוגית.

**12)** שאלת הוכחה.

**13)** שאלת הוכחה.

**14)** שאלת הוכחה.

**15)** כאשר $n$ זוגי – זוגית, וכאשר $n$ אי-זוגי – אי-זוגית.

**16)** א.+ב. שאלת הוכחה. ג. $f(x)=\underbrace{x}_{odd}+\underbrace{x^2+1}_{even}$

**17)** שאלת הוכחה.

**18)** שאלת הוכחה.

**19)** שאלת הוכחה.

**20)** שאלת הוכחה.

**21)** להלן הגרפים :

א. 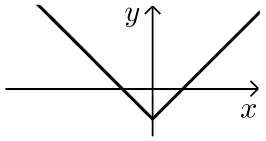


ב. 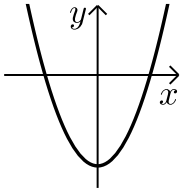


ג. 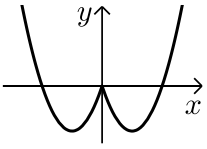


ד. 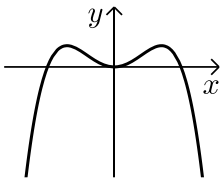


**22)** להלן הגרפים :

א. 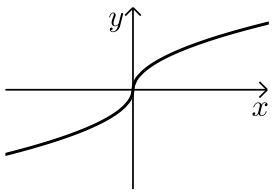


ב. 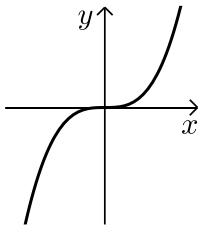


ג. 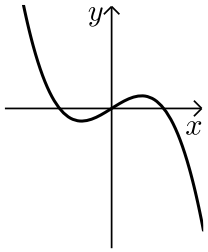


ד. 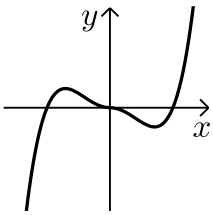


**23)** ראו בסרטון.


לפתרון מלא בסרטוני וידאו היכנסו לאתר www.GooL.co.il
כתב ופתר – גיא סלומון ©

# פונקציה מחזורית

## שאלות

מצאו את המחזור של כל אחת מהפונקציות בשאלות **1-20**:

**1)** $y=1+10\sin(0.5x+4)$

**2)** $y=1+14\cos 20x$

**3)** $y=-4+20\tan 4x$

**4)** $y=-1+14\sec 2x$

**5)** $y=\sin^2 4x$

**6)** $y=\cos^2 2x$

**7)** $y=\cos^4 x-\sin^4 x$

**8)** $y=(\sin x+\cos x)^2$

**9)** $y=\cos^4 x+\sin^4 x$

**10)** $y=\cot^2 x$

**11)** $y=\sin\frac{x}{4}+\cos\frac{x}{10}$

**12)** $y=\sin 4x+\sin 14x$

**13)** $y=\sin 4x+\sin 14x+\sin x$

**14)** $y=\cos 2x\cos x$

**15)** $y=\sin^3 x$

**16)** $y=\sin^4 x$

**17)** $y=\frac{\sin 5x}{\cos 2x\cos 3x}$

**18)** $y=|\sin x|$

**19)** $y=\sin^2 x+\cos^2 x$

**20)** $y=\cot x-\tan x$

הוכיחו שהפונקציות בשאלות **21-26** אינן מחזוריות:

**21)** $y=x+\sin x$

**22)** $y=x+\cos x$

**23)** $y=x\sin x$

**24)** $y=x^2\cos x$

**25)** $y=\frac{\sin x}{x}$

**26)** $y=\cos 5x+\cos\sqrt{5x}$

הערה: בשאלות **21** ו-**22** נדרש ידע בחקירת פונקציה.

**27)** הוכיחו:

אם $f(x)$ מחזורית בעלת מחזור $p$,

אז $y=a+b\cdot f(cx+d)$ מחזורית בעלת מחזור $\frac{p}{c}$.

**28)** הוכיחו: אם $T$ הוא מחזור של $f(x)$, אז לכל $n$ שלם $f(x+nT)=f(x)$.


לפתרון מלא בסרטוני וידאו היכנסו לאתר www.GooL.co.il
כתב ופתר – גיא סלומון ©

**29)** נתון כי $f,g$ מוגדרות לכל $x$ ובעלת מחזור $p_1, p_2$ , בהתאמה.

נתון כי היחס $\frac{p_1}{p_2}$ הוא מספר רציונלי.

הוכיחו כי גם הפונקציות $f \cdot g,\ \frac{f}{g}\ (g \neq 0)$ $f \pm g,$ הן מחזוריות.

**30)** נתונה הפונקציה $f(x) = x - [x]$ .

א. שרטטו את גרף הפונקציה.

ב. על סמך הגרף, מהו מחזור הפונקציה?

ג. הוכיחו את התשובה בסעיף ב.

**31)** נתונה הפונקציה $f(x) = x$ בקטע $[0,1]$.

ציירו את גרף הפונקציה המחזורית והאי-זוגית $g(x)$ , המוגדרת לכל $x$ ,
שהיא בעלת מחזור 2 ומתלכדת עם $f(x)$ בקטע $[0,1]$, ורשמו נוסחה עבור $f$ .

**32)** נתונה הפונקציה $f(x) = x^2$ בקטע $[0,1]$.

ציירו את גרף הפונקציה המחזורית והזוגית $g(x)$ , המוגדרת לכל $x$ ,
שהיא בעלת מחזור 2 ומתלכדת עם $f(x)$ ב-$[0,1]$, ורשמו נוסחה עבור $g$ .


לפתרון מלא בסרטוני וידאו היכנסו לאתר www.GooL.co.il
כתב ופתר – גיא סלומון ©

## תשובות סופיות

| | | | | |
|---|---|---|---|---|
| **1)** $4\pi$ | **2)** $\frac{\pi}{10}$ | **3)** $\frac{\pi}{4}$ | **4)** $\pi$ | **5)** $\frac{\pi}{4}$ |
| **6)** $\frac{\pi}{2}$ | **7)** $\pi$ | **8)** $\pi$ | **9)** $\frac{\pi}{2}$ | **10)** $\pi$ |
| **11)** $40\pi$ | **12)** $\pi$ | **13)** $2\pi$ | **14)** $2\pi$ | **15)** $2\pi$ |
| **16)** $\pi$ | **17)** $\pi$ | **18)** $\pi$ | | |

**19)** הפונקציה היא למעשה $y=1$ , כלומר פונקציה קבועה ולכן מחזורית.
כל מספר חיובי הוא מחזור שלה ואין לה מחזור קטן ביותר.

**20)** $\frac{\pi}{2}$

**21)** שאלת הוכחה.

**22)** שאלת הוכחה.

**23)** שאלת הוכחה.

**24)** שאלת הוכחה.

**25)** שאלת הוכחה.

**26)** שאלת הוכחה.

**27)** שאלת הוכחה.

**28)** שאלת הוכחה.

**29)** שאלת הוכחה.

**30)** א.

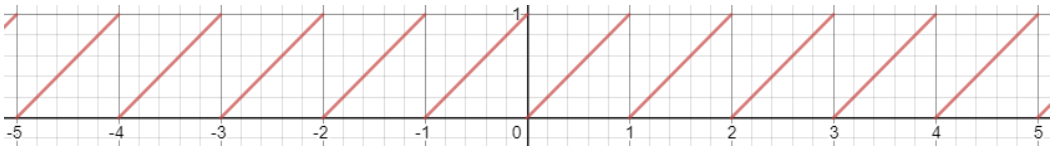


ב. 1 ג. שאלת הוכחה.

**31)** $g(x)=x-k,\ k-1\le x\le k+1$ עבור $k$ שלם, זוגי.

**32)** $g(x)=(x-k)^2,\ k-1\le x\le k+1$ עבור $k$ שלם, זוגי.

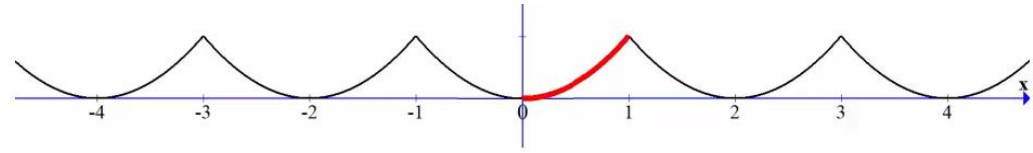



לפתרון מלא בסרטוני וידאו היכנסו לאתר www.GooL.co.il
כתב ופתר – גיא סלומון ©

# פונקציה מפוצלת ופונקציה אלמנטרית

## שאלות

רשמו כל אחת מהפונקציות **1-4** כפונקציה מפוצלת ושרטטו את גרף הפונקציה:

**1)** $y=|x-2|$

**2)** $y=3|x+1|$

**3)** $y=x^2+2|x-1|$

**4)** $y=\frac{|x|}{x}$

**5)** נתונה הפונקציה $f(x)=\begin{cases}x^2 & 0\le x\le 4\\ -x & x<0\end{cases}$.

א. חשבו $f(7),\ f(0),\ f(-4),\ f(4),\ f(1)$.

ב. שרטטו את גרף הפונקציה.

ג. בדקו האם הפונקציה זוגית, אי-זוגית או כללית.

## תשובות סופיות

**1)** $y=\begin{cases}x-2 & x\ge 2\\ 2-x & x<2\end{cases}$

**2)** $y=\begin{cases}3x+3 & x\ge -1\\ -3x-3 & x<-1\end{cases}$

**3)** $y=\begin{cases}x^2+2x-2 & x\ge 1\\ x^2-2x+2 & x<1\end{cases}$

**4)** $y=\begin{cases}1 & x>0\\ -1 & x<0\end{cases}$

**5)** א. $f(7)=\text{undefind},\ f(0)=0,\ f(-4)=4,\ f(4)=16,\ f(1)=1$

ב.

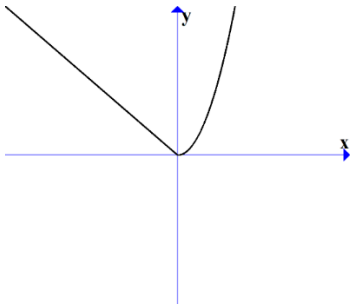


ג. כללית.


לפתרון מלא בסרטוני וידאו היכנסו לאתר www.GooL.co.il
כתב ופתר – גיא סלומון ©

# תרגילים משולבים

## שאלות

**1)** נתונה הפונקציה $f(x)=\begin{cases}x+1 & x>1\\ x^3+1 & -1\le x\le 1\\ x+1 & x<-1\end{cases}$.

שרטטו את הפונקציה, וקבעו האם היא:

א. עולה.

ב. יורדת.

ג. אי-זוגית.

ד. זוגית.

ה. חסומה.

ו. לא חסומה.

ז. חח"ע.

ח. על $\mathbb{R}$.

הערה: ניתן להתבסס על הציור כנימוק.

**2)** נתונה הפונקציה $f(x)=\begin{cases}\frac{2}{x} & x>1\\ x^5+1 & -1\le x\le 1\\ x+1 & x<-1\end{cases}$.

בכל אחד מהסעיפים הבאים יש טענה.

קבעו האם הטענה נכונה או לא נכונה.

א. הפונקציה מונוטונית עולה ממש.

ב. הפונקציה על $\mathbb{R}$.

ג. הפונקציה אי-זוגית.

ד. הפונקציה זוגית.

ה. הפונקציה חח"ע.

הערה: ניתן לשרטט ולהתבסס על הציור כנימוק.


לפתרון מלא בסרטוני וידאו היכנסו לאתר www.GooL.co.il
כתב ופתר – גיא סלומון ©

**3)** נתונה פונקציה $f:\mathbb{R}\to\mathbb{R}$ , זוגית ומונוטונית עולה ממש,
ופונקציה $g:\mathbb{R}\to\mathbb{R}$ , אי-זוגית ומונוטונית יורדת ממש.
נסמן: $z(x)=-g\left(x^3\right)$ ו- $k(x)=-f\left(x^3\right)$.
טענה א': $k(x)$ מונוטונית עולה ממש.
טענה ב': $z(x)$ מונוטונית עולה ממש.
טענה ג': $h(x)=k(x)z(x)$ זוגית.
מי מבין הטענות נכונה?

**4)** נתונות שתי פונקציות, $f,g:[0,1]\to[0,1]$.
נתון ש- $f$ מונוטונית עולה ממש, ואילו $g$ מונוטונית יורדת חלש,
אך אינה יורדת ממש.
תהי $h(x)=f\left(g(x)\right)$.
איזו טענה נכונה?

א. $h$ יורדת חלש.
ב. $h$ עולה ממש.
ג. $h$ עולה חלש, אך אינה עולה ממש.
ד. $h$ אינה חסומה בהכרח.

**5)** נתונות הפונקציות $g(x)=\begin{cases}x^2-4 & x<0\\ -x^2-2x-1 & x\geq 0\end{cases}$ ו- $f(x)=\begin{cases}x+4 & x\leq 0\\ \sqrt{x} & x>0\end{cases}$.
תהי $h(x)=f(g(x))$.

א. מצאו את $h$ בקטע $[-2,0)$.
ב. קבעו האם $h$ חח"ע בקטע $[-2,0)$.
ג. קבעו האם $h$ חסומה בקטע $[-2,0)$.
ד. קבעו האם $h:[-2,0)\to[0,4]$ היא על.

* בסעיפים ב-ד ניתן להסתמך על גרף הפונקציה.

**6)** נתונות פונקציות המוגדרות על כל $\mathbb{R}$ : $g(x)=(-1)^{\lfloor x\rfloor}$, $f(x)=x^3$.
קבעו מי מבין הטענות הבאות נכונה.
הפונקציה $h(x)=f\left(g(x)\right)$ היא:

א. חסומה.
ב. אי-זוגית.
ג. חח"ע.
ד. מונוטונית.


לפתרון מלא בסרטוני וידאו היכנסו לאתר www.GooL.co.il
כתב ופתר – גיא סלומון ©

**7)** נתונות פונקציות המוגדרות על כל $\mathbb{R}$ : $f(x)=x^3,\ g(x)=-\lfloor x\rfloor$ .

א. בדקו את מונוטוניות $z(x)=f\left(g(x)\right)$ .

ב. בדקו את מונוטוניות $k(x)=g\left(f(x)\right)$ .

ג. בדקו האם $h(x)=\sqrt[3]{f(x)}-g(-x)$ חסומה.

תזכורת לסעיפים א+ב :

אם $a<b \Leftarrow f(a)\geq f(b)$ , אז הפונקציה $f$ יורדת חלש.

**8)** נתונות פונקציות המוגדרות על כל $\mathbb{R}$ : $f(x)=\left(3\lfloor x\rfloor\right)^3+27\lfloor x\rfloor$ .
$g(x)=f(x)+x^3-28$

הוכיחו או הפריכו :

א. הפונקציה $f$ עולה ממש וחח"ע.

ב. הפונקציה $g$ עולה ממש וחח"ע.

**9)** מצאו את הפונקציה ההפוכה לפונקציה $f(x)=\frac{1}{2}(e^x-e^{-x})$ ,

וקבעו את תחום הגדרתה.

הוכיחו שהפונקציה על $\mathbb{R}$ .

הערה : פונקציה זו נקראת סינוס היפרבולי.

**10)** חקרו את מונוטוניות הפונקציה $f(x)=\frac{2x+3}{3x-1}$ .

הערה : אין להשתמש בנגזרות.

**11)** נתונה הפונקציה $f(x)=\sqrt{2+x-x^2}$ .

א. מצאו את תחום ההגדרה של הפונקציה.

ב. מצאו את התמונה של הפונקציה.

ג. הוכיחו שהפונקציה חסומה.

ד. מצאו את תחומי העלייה והירידה של הפונקציה.


לפתרון מלא בסרטוני וידאו היכנסו לאתר www.GooL.co.il
כתב ופתר – גיא סלומון ©

## תשובות סופיות

**1)** א. כן. ב. לא. ג. לא. ד. לא. ה. לא. ו. כן.
ז. כן. ח. כן.

**2)** אף טענה אינה נכונה.

**3)** טענה ב' נכונה.

**4)** טענה א' נכונה.

**5)** א. $h(x)=x^2$ ב. הפונקציה חח"ע בקטע.
ג. הפונקציה חסומה בקטע. ד. הפונקציה לא על.

**6)** א. הפונקציה חסומה. ב. הפונקציה לא זוגית ולא אי זוגית.
ג. הפונקציה לא חח"ע. ד. הפונקציה לא מונוטונית.

**7)** א. הפונקציה $z(x)$ יורדת חלש. ב. הפונקציה $k(x)$ יורדת חלש.
ג. הפונקציה חסומה.

**8)** שאלת הוכחה.

**9)** $f^{-1}(x)=\ln\left(x+\sqrt{x^2+1}\right)$ ; תחום הגדרתה: כל $x$.

**10)** ראו באתר.

**11)** א. $-1\le x\le 2$ ב. $0\le y\le \frac{3}{2}$ ג. שאלת הוכחה.
ד. $-1\le x<\frac{1}{2}$ עלייה, $\frac{1}{2}<x\le 2$ ירידה.


לפתרון מלא בסרטוני וידאו היכנסו לאתר www.GooL.co.il
כתב ופתר – גיא סלומון ©