מבוא לפיזיקה 1

פרק 9 - דינמיקה - מערכות גלגלות מורכבות

תוכן העניינים

1. גלגלות נעות ומכפלי כוח 1

גלגלות נעות ומכפלי כוח:

רקע:

נבטא את אורך החוט באמצעות מיקום הגופים וקבועים ונגזור.

שאלות:

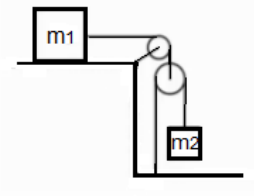

1) גלגלות וגזירה בזמן של אורך החוט
במערכת הבאה מסות הגופים ידועות.
אין חיכוך בין המסות למשטח.
מצא את תאוצות הגופים ואת המתיחויות בחוטים.

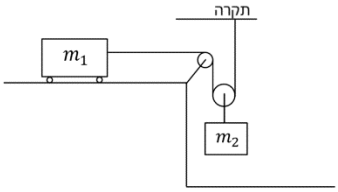

2) אחת תלויה מהתקרה ואחת על שולחן
במערכת הבאה המסה m_1 נמצאת על שולחן חסר חיכוך ומחוברת באמצעות חוט אידיאלי כפי שמתואר באיור.
הגלגלות אידיאליות ו- m_2 נתונה.
מצא את התאוצה של כל מסה כל עוד הן לא נופלות מהשולחן או פוגעות ברצפה.

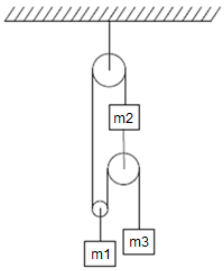

3) מערכת גלגלות מסובכת
מצאו את תאוצת הגופים במערכת הבאה.
מה התנאי לכך שהמסה m_3 תנוע כלפי מעלה
אם נתון שהמערכת מתחילה ממנוחה?

תשובות סופיות:

1) $a_1 = \frac{2m_2 g}{4m_2 + m_1}$

2) $a_1 = \frac{m_2 g}{2m_1 + \frac{m_2}{2}}$, $a_2 = \frac{m_2 g}{4m_1 + m_2}$

3) $a_3 < 0$, $a_3 = \left((m_2 + m_3)(4m_2 + m_1) + 4m_2^{\,2}\right)$