מתמטיקה לתלמידי גאוגרפיה ופיתוח סביבתי 1

פרק 10 - גיאומטריה אנליטית - האליפסה והפרבולה

תוכן העניינים

1. האליפסה 1
2. הפרבולה 5

האליפסה:

סיכום כללי:

הגדרה:

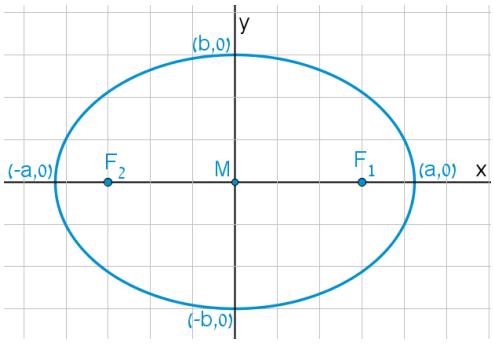

המקום הגאומטרי של כל הנקודות, שסכום מרחקיהן משתי נקודות קבועות במישור קבוע, נקרא אליפסה. הנקודות הקבועות נקראות מוקדי האליפסה.

מושגים באליפסה:

- הציר הגדול: הקטע שהאליפסה חותכת מציר ה- x.
- הציר הקטן: הקטע שהאליפסה חותכת מציר ה- y.
- מרכז האליפסה: מפגש צירי האליפסה (ראה איור).
באליפסה קנונית מרכז האליפסה נמצא בראשית הצירים.
- מוקדי האליפסה: שתי נקודות קבועות שבעבורך סכום המרחקים מכל נקודה על האליפסה הוא גודל קבוע השווה ל- $2a$. המוקדים יסומנו ב- F_1 ו- F_2 ושיעוריהם הם: $F_1(c,0)$, $F_2(-c,0)$.
- רדיוסי ווקטור: המרחקים של כל נקודה על האליפסה משני המוקדים.
אורך הרדיוס מנקודה (x,y) שעל האליפסה למוקד הימני הוא: $r_1 = a - \frac{cx}{a}$.
אורך הרדיוס מנקודה (x,y) שעל האליפסה למוקד השמאלי הוא: $r_2 = a + \frac{cx}{a}$.
- מיתר: קטע המחבר שתי נקודות שעל האליפסה.
- קוטר: מיתר העובר דרך מרכז האליפסה.

משוואות וקשרים:

- משוואת אליפסה קנונית היא: $\frac{x^2}{a^2} + \frac{y^2}{b^2} = 1$ או: $b^2x^2 + a^2y^2 = a^2b^2$.
- הקשר בין הפרמטרים של האליפסה הוא: $a^2 - b^2 = c^2$.
- מכפלת שיפועי מיתר באליפסה והקוטר החוצה אותו היא קבועה ושווה ל- $-\frac{b^2}{a^2}$.

שאלות:

1) מצא את אורך צירי אליפסה שמשוואתה $x^2+4y^2=36$.

2) מצא את משוואתה של אליפסה שאורך צירה הגדול הוא 18 ואורך צירה הקטן הוא $2\sqrt{3}$.

3) מצא את משוואתה של אליפסה שאורך צירה הגדול הוא 12 והמרחק בין מוקדיה $8\sqrt{2}$.

4) מצא את משוואתה של אליפסה שאורך צירה הקטן הוא 8 והיא עוברת בנקודה $\left(-3\sqrt{3},2\right)$.

5) מצא את משוואתה של אליפסה שחסומה במעגל שמשוואתו $x^2+y^2=16$ ומוקד אחד שלה הוא בנקודה $\left(\sqrt{10},0\right)$.

6) מצא את משוואתה של אליפסה שחותכת את ציר ה- y בנקודה $\left(0,-2\sqrt{5}\right)$ והמרחק בין המוקד הימני לקדקוד הימני בה הוא 2.

7) מצא את משוואתה של אליפסה שעוברת בנקודות $\left(-2,\sqrt{6}\right)$ ו- $\left(\sqrt{14},1\right)$.

8) מצא על האליפסה $3x^2+4y^2=144$ את הנקודות שהפרש מרחקיהן מהמוקדים הוא 4.

9) מצא את משוואתה של אליפסה שעוברת בנקודה $(-3,1)$ ומכפלת המרחקים מנקודה זו למוקדים הוא 6.

10) מצא על האליפסה $x^2+3y^2=12$ את הנקודות שמהן רואים את הקטע שבין שני המוקדים בזווית ישרה.

11) מצא את משוואתו של קוטר באליפסה $x^2+4y^2=50$ ששיפועו חיובי ואורכו $\sqrt{56}$.

12) נתונים האליפסה $\frac{x^2}{30}+\frac{y^2}{24}=1$ והישר $y=2x+k$. מצא לאלו ערכים של הפרמטר k הישר משיק לאליפסה ולאלו ערכים של הפרמטר k הישר חותך את האליפסה.

13) מצא את שטחו של ריבוע החסום באליפסה $3x^2+5y^2=120$ כך שצלעותיו מקבילות לצירים.

14) מצא את שטחו של ריבוע החסום באליפסה $b^2x^2+a^2y^2=a^2b^2$ כך שצלעותיו מקבילות לצירים.

15) באליפסה $5x^2+9y^2=90$ חסום מלבן שצלעותיו מקבילות לצירים. מצא את שטח המלבן אם שתיים מצלעותיו עוברות במוקדי האליפסה.

16) באליפסה $x^2+5y^2=16$ חסום משולש שווה צלעות כך שקדקוד אחד שלו הוא הקדקוד הימני של האליפסה. מצא את שיעורי קדקודיו האחרים.

17) באליפסה חסום משולש שווה צלעות כך שקדקוד אחד שלו הוא הקדקוד הימני של האליפסה וקדקודיו האחרים הם נקודות החיתוך של האליפסה עם ציר ה- y.
מצא את משוואת האליפסה אם אחד ממוקדיה נמצא בנקודה $\left(4\sqrt{2},0\right)$.

18) מצא באליפסה $2x^2+3y^2=12$ משוואת מיתר שנקודת האמצע שלו היא $\left(1.5,1\right)$.

19) ישר שמשוואתו $x-y-3=0$ חותך מאליפסה מיתר שאמצעו בנקודה $\left(2,-1\right)$.
מצא את משוואת האליפסה אם ידוע שהיא עוברת בנקודה $\left(2\sqrt{2},-2\right)$.

20) נתונה המשוואה $\frac{x^2}{a^2}-\frac{y^2}{a^2-25}=1$, $(0<a\neq 5)$.

א. ענה על הסעיפים הבאים:

i. לאיזה ערך של a המשוואה מייצגת מעגל?

ii. לאלו ערכים של a המשוואה מייצגת אליפסה?

ב. הוכח כי בעבור $a=4$ אין אף נקודה על האליפסה שממנה רואים את הקטע שבין המוקדים בזווית ישרה.

תשובות סופיות:

1) $2a=12$, $2b=6$

2) $\frac{x^2}{81}+\frac{y^2}{3}=1$

3) $\frac{x^2}{36}+\frac{y^2}{4}=1$

4) $\frac{x^2}{36}+\frac{y^2}{16}=1$

5) $\frac{x^2}{16}+\frac{y^2}{6}=1$

6) $\frac{x^2}{36}+\frac{y^2}{20}=1$

7) $\frac{x^2}{16}+\frac{y^2}{8}=1$

8) $\left(4,\sqrt{24}\right)$, $\left(4,-\sqrt{24}\right)$, $\left(-4,\sqrt{24}\right)$, $\left(-4,-\sqrt{24}\right)$

9) $\frac{x^2}{12}+\frac{y^2}{4}=1$

10) $\left(\sqrt{6},\sqrt{2}\right)$, $\left(-\sqrt{6},\sqrt{2}\right)$, $\left(\sqrt{6},-\sqrt{2}\right)$, $\left(-\sqrt{6},-\sqrt{2}\right)$

11) $y=\sqrt{6}x$

12) משיק: $k=\pm 12$, חותך: $-12<k<12$.

13) $S=$ 60 יח"ש

14) $S=\frac{4a^2b^2}{a^2+b^2}$

15) $S=$ יח"ש $26\frac{2}{3}$

16) $\left(1,\sqrt{3}\right)$, $\left(1,-\sqrt{3}\right)$

17) $\frac{x^2}{48}+\frac{y^2}{16}=1$

18) $y=-x+2.5$

19) $\frac{x^2}{16}+\frac{y^2}{8}=1$

20) א. i. $a=\sqrt{12.5}$ ii. $a\neq\sqrt{12.5}$

הפרבולה:

סיכום כללי:

הגדרה:

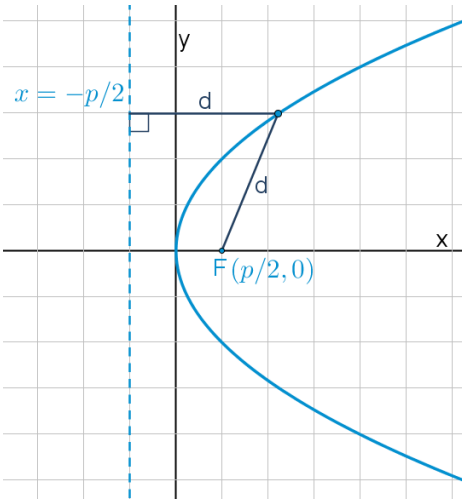

המקום הגאומטרי של כל הנקודות, שמרחקן מנקודה קבועה שווה למרחקן מישר קבוע נקרא פרבולה.
הנקודה הקבועה נקראת מוקד הפרבולה והישר הקבוע נקרא מדריך הפרבולה.

מושגים בפרבולה:

- מוקד: נקודה קבועה שמרחק כל נקודה על הפרבולה ממנה שווה למרחק הנקודה מהמדריך.
- מדריך: ישר קבוע שמרחק כל נקודה על הפרבולה אליו שווה למרחק הנקודה מהמוקד.
- קדקוד הפרבולה: ראשית הצירים.
- רדיוס: מרחק בין המוקד לנקודה שעל הפרבולה: $r = x + \frac{p}{2}$.
- מיתר: קטע המחבר בין שתי נקודות על הפרבולה.
- קוטר (לא בחומר): ישר המקביל לציר הסימטריה של הפרבולה (ציר ה- x אצלנו).

משוואת הפרבולה:

משוואת הפרבולה הקנונית היא: $y^2 = 2px$ כאשר p הוא פרמטר הפרבולה.

משיק לפרבולה:

- משוואת המשיק לפרבולה $y^2=2px$ בנקודה $A(x_0,y_0)$ שעליה היא: $yy_0=p(x+x_0)$.
- שיפוע המשיק לפרבולה $y^2=2px$ בנקודה $A(x_0,y_0)$ שעליה הוא: $m=\frac{p}{y_0}$.

מיתר המחבר שתי נקודות השקה:

משוואת המיתר, המחבר את שתי נקודות ההשקה של שני המשיקים לפרבולה $y^2=2px$ היוצאים מהנקודה $A(x_0,y_0)$ שמחוץ לפרבולה היא: $yy_0=p(x+x_0)$.

תיאורים גרפיים:

פרבולה שמשוואתה $y^2=2px$:

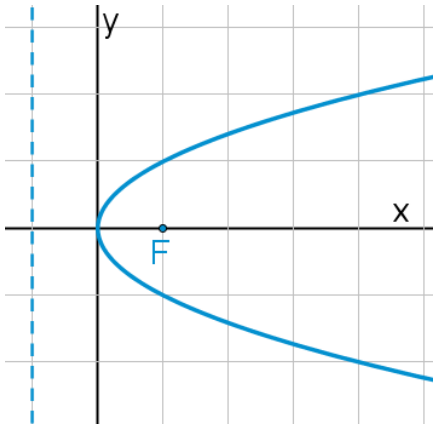

פרבולה שמשוואתה $y^2=-2px$:

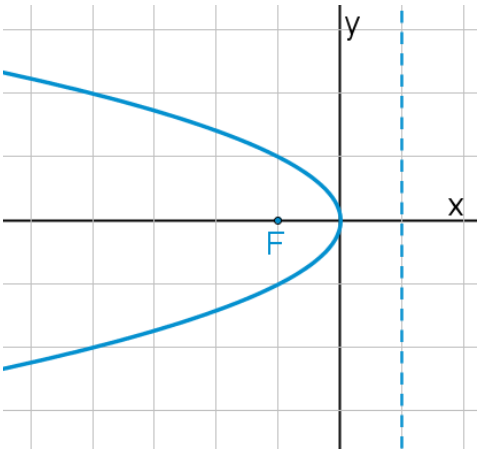

שאלות:

1) נתונה הפרבולה $y^2=18x$. מצא מהו הפרמטר, המוקד והמדריך שלה.

2) מצא את משוואתה של פרבולה שהישר $x=-3$ הוא המדריך שלה.

3) מצא את משוואתה של פרבולה שהמרחק בין המוקד שלה למדריך שלה הוא 5.

4) מצא את משוואתה של פרבולה שעוברת בנקודה $(9,-6)$.

5) מצא את משוואתה של פרבולה שמוקדה מתלכד עם המוקד הימני של האליפסה $x^2+2y^2=18$.

6) מצא נקודות על הפרבולה $y^2=6x$ שמרחקן מהמוקד הוא 4.

7) מצא נקודות על הפרבולה $y^2=8x$ שמרחקן מהמוקד שווה למרחקן מהקדקוד.

8) מצא נקודות על הפרבולה $y^2=2px$ שמרחקן מהמוקד שווה למרחקן מהקדקוד.

9) מצא את שטחו של משולש שווה צלעות שקדקוד אחד שלו נמצא בראשית הצירים ושני קדקודיו האחרים מונחים על הפרבולה $y^2=10x$.

10) הבע באמצעות p את שטחו של משולש שווה צלעות שקדקוד אחד שלו נמצא בראשית הצירים ושני קדקודיו האחרים מונחים על הפרבולה $y^2=2px$.

11) נתונה הפרבולה $y^2=2px$. הבע באמצעות p את שטחו של משולש שווה צלעות שקדקוד אחד שלו מונח על ציר ה-x, וקודקודיו האחרים מונחים על מדריך הפרבולה אם ידוע שמפגש תיכוני המשולש הוא מוקד הפרבולה.

12) את נקודה A שעל הפרבולה $y^2=20x$ חיברו עם המוקד F וגם העבירו ממנה אנך למדריך. היקף הטרפז, שבסיסיו הם האנך והקטע על ציר ה-x שבין מוקד הפרבולה למדריך שלה, שוק אחת שלו היא AF והשוק השנייה שלו מונחת על המדריך, הוא 27.5. חשב את שטח הטרפז.

13) קצות מיתר בפרבולה $y^2=4x$ הם A ו-B. מצא את שיעורי הנקודה B אם ידוע שהמיתר עובר במוקד הפרבולה ושערך ה-x של נקודה A הוא 4.

14) מצא משוואת מיתר בפרבולה $y^2=16x$, שעובר בראשית הצירים ומרחקו מהמוקד הוא $\frac{8}{\sqrt{5}}$.

15) מצא משוואת מיתר בפרבולה $y^2=2x$, שאמצעו בנקודה $\left(1\frac{1}{4},\frac{1}{2}\right)$.

16) נתונה הפרבולה $y^2=4x$ והישר $y=2x+k$, לאיזה ערך של k הישר משיק לפרבולה?

17) נתונה הפרבולה $y^2=6x$.

א. מצא את משוואות המשיקים לפרבולה בנקודות שבהן $x=1.5$.

ב. הוכח שנקודת החיתוך של הנורמלים בנקודות אלה נמצאת על ציר ה-x .

18) הנקודות A ו-B נמצאות על הפרבולה $y^2=12x$. נתון כי $y_A=4$.
מצא את שיעורי נקודה B אם ידוע שהמשיקים לפרבולה בנקודות הנתונות יוצרים זווית ישרה.

19) נקודה A נמצאת על הפרבולה $y^2=28x$ בربיע הרביעי.
אורך הנורמל לפרבולה מנקודה A עד לציר ה-x הוא $7\sqrt{5}$.
מצא את משוואת הנורמל.

20) מרחק המוקד של הפרבולה $y^2=8x$ ממשיק לה ששיפועו חיובי הוא $\sqrt{8}$.
מצא את משוואת המשיק.

21) נתונה הפרבולה $y^2=2px$. הבע באמצעות p את שיעורי הנקודה שעל הפרבולה ברביע הראשון, שמרחק המשיק בה ממוקד הפרבולה הוא p .

22) נתונות שתי פרבולות: I. $y^2=6x$, II. $y^2=12x$
ישר שעובר בראשית הצירים חותך את הפרבולות בנקודות A ו-B.
הראה כי המשיקים בנקודות A ו-B מקבילים.

23) נתונה הפרבולה $y^2=14x$ והנקודה $(-1,-3)$, ממנה יוצאים שני משיקים לפרבולה. מצא את משוואת המיתר המחבר בין נקודות ההשקה.

24) נתונה הפרבולה $y^2=18x$ ונקודה ברביע השלישי, ששיעור ה-x שלה קטן ב-1 משיעור ה-y שלה. מהנקודה יוצאים שני משיקים לפרבולה. המיתר המחבר בין נקודות ההשקה יוצר עם הצירים משולש ששטחו 18.
מצא את משוואת המיתר.

25) מצא את משוואתו של מעגל שמרכזו במוקד הפרבולה $y^2=24x$ והוא משיק למדריך שלה.

26) מצא את משוואתו של מעגל שמרכזו בנקודה $(8,0)$ והוא משיק לפרבולה $y^2=10x$ בשתי נקודות.

27) נתונה הפרבולה $y^2=2px$ ומעגל שמרכזו על ציר ה-x והוא משיק לפרבולה מבפנים בשתי נקודות. הישר המחבר בין נקודות ההשקה יוצר עם המשיקים בנקודות אלה משולש שווה צלעות. הבע באמצעות p את משוואת המעגל.

28) הנקודה $A(2,3)$ נמצאת על פרבולה. מצא את משוואתו של מעגל שמשיק לפרבולה בנקודה A ומשיק לציר ה-y.

29) נתונה הפרבולה $y^2=2px$ שבה $p>4$. הישר $x=2$ חותך את הפרבולה בנקודות A ו-B. הבע באמצעות p את שיעורי קדקוד C של משולש ΔABC שמוקד הפרבולה הוא מפגש האנכים האמצעיים בו, אם ידוע שקדקוד C נמצא על ציר ה-x.

30) אליפסה שמשוואתה $x^2+4y^2=16$ חותכת את הפרבולה $y^2=2px$ בשתי נקודות. המרובע שקדקודיו הם נקודות החיתוך, מרכז האליפסה וקדקודה הימני של האליפסה הוא מעוין. מצא את משוואת הפרבולה.

תשובות סופיות:

1) $p=9$, $\mathrm{F}\left(4\frac{1}{2},0\right)$

2) $y^2=12x$

3) $y^2=10x$

4) $y^2=4x$

5) $y^2=12x$

6) $\left(2\frac{1}{2},\sqrt{15}\right)$, $\left(2\frac{1}{2},-\sqrt{15}\right)$

7) $\left(1,\sqrt{8}\right)$, $\left(1,-\sqrt{8}\right)$

8) $\left(\frac{p}{4},\frac{p}{\sqrt{2}}\right)$, $\left(\frac{p}{4},-\frac{p}{\sqrt{2}}\right)$

9) $S_{\mathrm{OAB}}=300\sqrt{3}$ יח"ש

10) $S_{\mathrm{ABO}}=12\sqrt{3}p^2$ יח"ש

11) $S_{\mathrm{ABC}}=3\sqrt{3}p^2$ יח"ש

12) $S_{\mathrm{ABCF}}=40\frac{5}{8}$ יח"ש

13) $\mathrm{B}\left(\frac{1}{4},-1\right)$ או $\mathrm{B}\left(\frac{1}{4},1\right)$

14) $y=2x$ או $y=-2x$

15) $y=2x-2$

16) $k=\frac{1}{2}$

17) א. $y=x+1\frac{1}{2}$, $y=-x-1\frac{1}{2}$

18) $\mathrm{B}\left(6\frac{3}{4},-9\right)$

19) $y=\frac{1}{2}x-7\frac{7}{8}$

20) $y=x+2$

21) $\mathrm{A}\left(\frac{3}{2}p,\sqrt{3}p\right)$

22) הוכחה.

23) $7x+3y-7=0$

24) $y=-9x+18$

25) $(x-6)^2+y^2=144$

26) $(x-8)^2+y^2=55$

27) $\left(x-2\frac{1}{2}p\right)^2+y^2=4p^2$

28) $\left(x-1\frac{1}{4}\right)^2+(y-4)^2=\frac{25}{16}$

29) $\mathrm{C}(p+2,0)$

30) $y^2=1\frac{1}{2}x$