חדוא 2

פרק 18 - אינטגרלים כפולים בקואורדינטות קוטביות (פולריות)

תוכן העניינים

1. מבוא מתמטי לפרק 1
2. אינטגרלים כפולים בקואורדינטות קוטביות 3

מבוא מתמטי לפרק

שאלות

1) שרטטו את התחומים הבאים במישור והציגו אותם בהצגה פולרית:

א. $S=\left\{(x,y)\,|\,x^2+y^2\le 4\right\}$

ב. $S=\left\{(x,y)\,|\,0\le y\le \sqrt{4-x^2}\right\}$

ג. $S=\left\{(x,y)\,|\,-\sqrt{4-y^2}\le x\le 0\right\}$

2) שרטטו את התחומים הבאים במישור והציגו אותם בהצגה פולרית:

א. $S=\left\{(x,y)\,|\,1\le x^2+y^2\le 4\right\}$

ב. $S=\left\{(x,y)\,|\,1\le x^2+y^2\le 4,\ x\ge 0, y\ge 0\right\}$

ג. $S=\left\{(x,y)\,|\,1\le x^2+y^2\le 4,\ x\ge 0\right\}$

ד. $S=\left\{(x,y)\,|\,1\le x^2+y^2\le 4,\ y\ge 0\right\}$

3) שרטטו את התחומים הבאים במישור והציגו אותם בהצגה פולרית:

א. $S=\left\{(x,y)\,|\,1\le x^2+y^2\le 4,\ x\le y\le 2x\right\}$

ב. $S=\left\{(x,y)\,|\,x^2+y^2\le 4,\ y\ge x\right\}$

4) הציגו את התחום הבא בצורה פולרית: $S=\left\{(x,y)\,|\,\frac{1}{7}x+\frac{25}{7}\le y\le \sqrt{25-x^2}\right\}$.

5) הציגו את התחום הבא בצורה פולרית: $S=\left\{(x,y)\,|\,\frac{1}{\sqrt{3}}x\le y\le \sqrt{8x-x^2}\right\}$.

לפתרון מלא בסרטוני וידאו היכנסו לאתר www.GooL.co.il
כתב ופתר – גיא סלומון ©

6) להלן שני איורים, ובכל איור תחום.
כתבו כל אחד מהתחומים בהצגה פולרית ותארו במילים כל אחד מהתחומים.

איור א

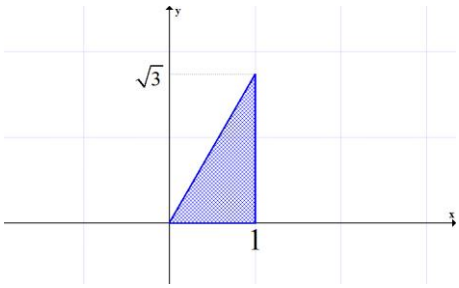

איור ב

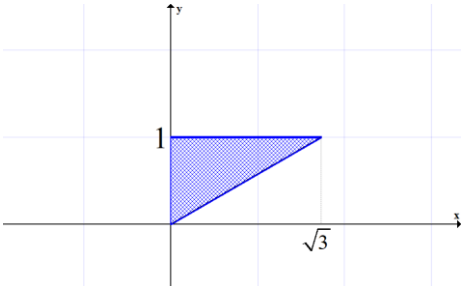

תשובות סופיות

1) א. $\begin{cases}0\le r\le 2\\ 0\le\theta\le 2\pi\end{cases}$ ב. $\begin{cases}0\le r\le 2\\ 0\le\theta\le \pi\end{cases}$ ג. $\begin{cases}0\le r\le 2\\ 0.5\pi\le\theta\le 1.5\pi\end{cases}$

2) א. $\begin{cases}1\le r\le 2\\ 0\le\theta\le 2\pi\end{cases}$ ב. $\begin{cases}1\le r\le 2\\ 0\le\theta\le 0.5\pi\end{cases}$ ג. $\begin{cases}1\le r\le 2\\ -0.5\pi\le\theta\le 0.5\pi\end{cases}$ *or* $\begin{cases}1\le r\le 2\\ 1.5\pi\le\theta\le 2.5\pi\end{cases}$

ד. $\begin{cases}1\le r\le 2\\ 0\le\theta\le \pi\end{cases}$

3) א. $1\le r\le 2$, $0.25\pi\le\theta\le\arctan 2$ ב. $0\le r\le 2,\ 0.25\pi\le\theta\le 1.25\pi$

4) $\dfrac{25}{7\sin\theta-\cos\theta}\le r\le 5$, $\arctan\dfrac{4}{3}\le\theta\le\arctan\left(-\dfrac{3}{4}\right)+\pi$

5) $0\le r\le 8\cos\theta,\ \dfrac{\pi}{6}\le\theta\le\dfrac{\pi}{2}$

6) א. $0\le\theta\le\dfrac{\pi}{3}$ $0\le r\le\dfrac{1}{\cos\theta}$ ב. $\dfrac{\pi}{6}\le\theta\le\dfrac{\pi}{2}$ $0\le r\le\dfrac{1}{\sin\theta}$

כתב ופתר – גיא סלומון ©

אינטגרלים כפולים בקואורדינטות קוטביות (פולריות)

שאלות

1) חשבו $\iint\limits_D \sqrt{x^2+y^2}\,dA$, כאשר D התחום המתואר בשרטוט.

* בסעיף ט אל תחשבו את האינטגרל המתקבל לאחר המעבר לקואורדינטות קוטביות.

א.

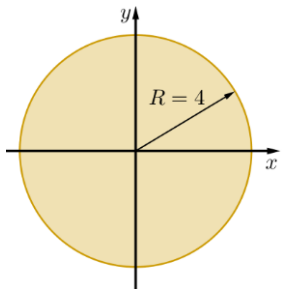

ב.

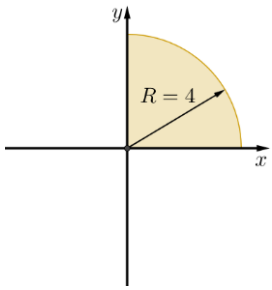

ג.

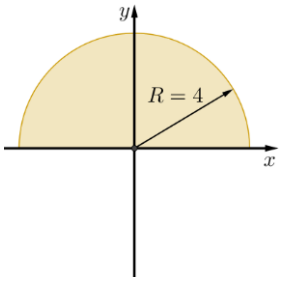

ד.

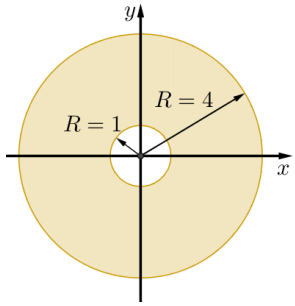

ה.

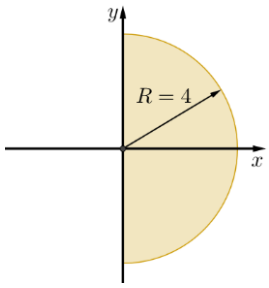

ו.

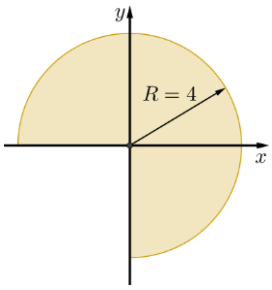

ז.

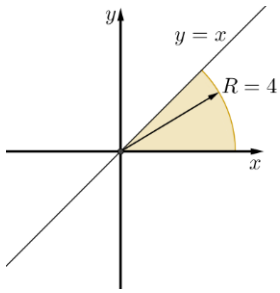

ח.

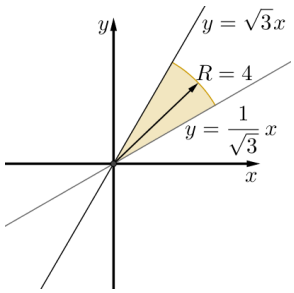

ט.

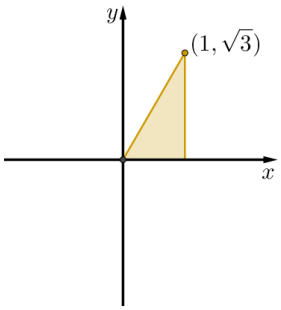

חשבו את האינטגרלים בשאלות **2-17**, תוך מעבר לקואורדינטות קוטביות:

2) $\int_{-1}^{1}\int_{0}^{\sqrt{1-x^2}} dydx$

3) $\int_{-1}^{1}\int_{-\sqrt{1-x^2}}^{\sqrt{1-x^2}} dydx$

4) $\int_{0}^{1}\int_{0}^{\sqrt{1-y^2}} (x^2+y^2)dxdy$

5) $\int_{-1}^{1}\int_{-\sqrt{1-y^2}}^{\sqrt{1-y^2}} (x^2+y^2)dxdy$

6) $\int_{-a}^{a}\int_{-\sqrt{a^2-x^2}}^{\sqrt{a^2-x^2}} dydx$

7) $\int_{0}^{2}\int_{0}^{\sqrt{4-y^2}} (x^2+y^2)dxdy$

8) $\int_{0}^{6}\int_{0}^{y} xdxdy$

9) $\int_{0}^{2}\int_{0}^{x} ydydx$

10) $\int_{-1}^{0}\int_{-\sqrt{1-x^2}}^{0} \frac{2}{1+\sqrt{x^2+y^2}}dydx$

11) $\int_{-1}^{1}\int_{-\sqrt{1-y^2}}^{0} \frac{4\sqrt{x^2+y^2}}{1+x^2+y^2}dxdy$

12) $\int_{0}^{\ln 2}\int_{0}^{\sqrt{\ln^2 2-y^2}} e^{\sqrt{x^2+y^2}}dxdy$

13) $\int_{0}^{1}\int_{0}^{\sqrt{1-x^2}} e^{-(x^2+y^2)}dydx$

14) $\int_{0}^{2}\int_{0}^{\sqrt{1-(x-1)^2}} \frac{x+y}{x^2+y^2}dydx$

15) $\int_{0}^{2}\int_{-\sqrt{1-(y-1)^2}}^{0} xy^2dxdy$

16) $\int_{-1}^{1}\int_{-\sqrt{1-y^2}}^{\sqrt{1-y^2}} \ln(x^2+y^2+1)dxdy$

17) $\int_{-1}^{1}\int_{-\sqrt{1-x^2}}^{\sqrt{1-x^2}} \frac{2}{(1+x^2+y^2)^2}dydx$

בשאלות **18-20** חשבו את **נפח הגוף** המתואר:

18) הגוף הכלוא בין פני הכדור $x^2+y^2+z^2=9$ לבין הגליל $x^2+y^2=1$.

19) הגוף הכלוא בתוך הגליל $x^2+y^2=2y$, בין החרוט $z=\sqrt{x^2+y^2}$ מלמעלה לבין המישור xy מלמטה.

20) הגוף הכלוא בתוך הגליל $x^2+y^2=x$, בין הפרבולואיד $z=1-x^2-y^2$ מלמעלה לבין מישור xy מלמטה.

21) חשבו את **שטח התחום** החסום על ידי $x^2+y^2=2x$, $y=0$, $y=x\sqrt{3}$.

כתב ופתר – גיא סלומון ©

תשובות סופיות

1) א. $\frac{128\pi}{3}$ ב. $\frac{32\pi}{3}$ ג. $\frac{64\pi}{3}$ ד. 42π ה. $\frac{64\pi}{3}$

ו. 32π ז. $\frac{16\pi}{3}$ ח. $\frac{32\pi}{9}$ ט. $\int_0^{\frac{\pi}{3}}\int_0^{\frac{1}{\cos\theta}} r^2 dr d\theta$

2) $\frac{\pi}{2}$ 3) π 4) $\frac{\pi}{8}$ 5) $\frac{\pi}{2}$

6) πa^2 7) 2π 8) 36 9) $\frac{4}{3}$

10) $\pi \ln\frac{e}{2}$ 11) $\pi(4-\pi)$ 12) $\frac{\pi}{2}\ln\frac{4}{e}$ 13) $\frac{\pi(e-1)}{4e}$

14) $\frac{\pi}{2}+1$ 15) $-\frac{4}{5}$ 16) $\pi\ln\frac{4}{e}$ 17) π

18) $\frac{(108-64\sqrt{2})\pi}{3}$

19) $\frac{32}{9}$

20) $\frac{5\pi}{32}$

21) $\frac{\pi}{3}+\frac{\sqrt{3}}{4}$

כתב ופתר – גיא סלומון ©