# קורס קדם במתמטיקה למהנדסים

# תוכן העניינים


1. מבוא לאלגברה ..... 1
2. משוואות אלגבריות ..... 47
3. אי שוויונים אלגבריים ..... 69
4. חוקי החזקות והשורשים ..... 85
5. משוואות ואי-שוויונים מעריכיים ..... 95
6. חוקי הלוגריתמים, משוואות ואי-שוויונים לוגריתמים ..... 105
7. גיאומטריה אנליטית - נקודה וישר ..... 121
8. גיאומטריה אנליטית - המעגל ..... 146
9. גיאומטריה אנליטית - האליפסה והפרבולה ..... 165
10. גיאומטריה אנליטית - ההיפרבולה (העשרה) ..... 175
11. גיאומטריה אנליטית - מקומות גיאומטרים והוכחות ..... 181
12. טריגונומטריה במשולש ישר זווית ..... 187
13. זהויות טריגונומטריות ..... 192
14. משוואות טריגונומטריות ..... 213
15. טריגונומטריה במישור ..... 234
16. סדרות ..... 251
17. אינדוקציה מתמטית ..... 269
18. סימן הסכימה (סיגמה) ..... 283
19. מבוא לתורת הקבוצות ..... 286
20. הפונקציה הממשית - תכונות בסיסיות ופונקציות נפוצות ..... (ללא ספר)
21. הפונקציה הממשית - תכונות מתקדמות ..... 296
22. חשבון דיפרנציאלי - נגזרות ומשיקים ..... 314
23. חשבון דיפרנציאלי - חקירת פונקצית פולינום ..... 329

# תוכן העניינים


24. חשבון דיפרנציאלי - חקירת פונקצית מנה ושורש ..... 342

25. חשבון דיפרנציאלי - חקירת פונקציות טריגונומטריות ..... 380

26. חשבון דיפרנציאלי - הקשר שבין גרף הפונקציה וגרף הנגזרת ..... (ללא ספר)

27. חשבון דיפרנציאלי - פונקצית הערך המוחלט ..... 398

28. חשבון דיפרנציאלי - הזזות ומתיחות של פונקציות ..... 412

29. חשבון דיפרנציאלי - פונקציות מעריכיות ..... 447

30. חשבון דיפרנציאלי - פונקציות לוגריתמיות ..... 463

31. חשבון דיפרנציאלי - חילוק פולינומים ופתרון משוואות פולינומיאליות ..... 479

32. מספרים מרוכבים ..... 484

# קורס קדם במתמטיקה למהנדסים

## פרק 1 - מבוא לאלגברה

### תוכן העניינים


1. מספרים מכוונים ..... 1
2. חזקות ושורשים עם מספרים מכוונים ..... 5
3. סדר פעולות חשבון עם מספרים מכוונים ..... 7
4. שברים פשוטים, עשרוניים ואחוזים ..... 8
5. כפל וחילוק שברים ..... 14
6. חיבור וחיסור שברים ..... 16
7. בעיות יסודיות באחוזים ..... 20
8. חזרה על תבניות מספר ..... 22
9. כינוס איברים ..... 24
10. פישוט ביטויים על ידי פתיחת סוגריים ..... 26
11. פישוט ביטויים באמצעות נוסחאות הכפל המקוצר ..... 28
12. פירוק לגורמים של ביטויים אלגברים ..... 30
13. פירוק הטרינום ..... 33
14. שברים אלגברים ..... 35
15. כפל וחילוק של שברים אלגברים ..... 39
16. חיבור וחיסור של שברים אלגברים ..... 41
17. שברים כפולים ..... 45

# מספרים מכוונים:

## סיכום כללי:

מספרים מכוונים הם מספרים שיכולים לקבל סימן חיובי או שלילי, כגון:

- בקניון גדול ישנן קומות 1, 2, 3, 4, וכן חניונים הממוקמים בקומות 1-, 2- ו-3-.
- גובה פני הים מוגדר להיות 0 מטרים. העיר חיפה נמצאת כ-103 מטרים מעל פני הים בעוד שים המלח נמצא בגובה 426- מטרים.

**כללים:**

- כאשר מחברים שני מספרים בעלי סימנים זהים, מחברים את המספרים עצמם והסימן נשאר.
- כאשר מחברים שני מספרים בעלי סימנים מנוגדים, מחסירים את המספרים זה מזה (הקטן מהגדול) וסימן התוצאה כסימן המספר הגדול מביניהם.
- כפל וחילוק יתבצע בשני חלקים:
  - ביצוע הפעולה על המספרים עצמם.
  - קביעת הסימן של התוצאה באופן הבא:
    - כפל או חילוק של שני מספרים בעלי אותו סימן - התוצאה תהיה חיובית.
    - כפל או חילוק של שני מספרים שוני סימן - התוצאה תהיה שלילית.

**הערה:**

אם יש רצף של מכפלות (או חילוקים), סימן התוצאה תלוי במספר הפעמים שבהם מופיע סימן שלילי (-). אם הסימן מופיע מספר זוגי של פעמים התוצאה חיובית, ואם הוא מופיע מספר אי-זוגי של פעמים אזי התוצאה שלילית.

## שאלות:

**1)** סמנו את המספרים הבאים על ציר המספרים בהתאמה:

$-3\frac{1}{2}$ , $4$ , $1\frac{1}{3}$ , $-5$ , $-\frac{1}{2}$ , $2$ , $0$ , $\frac{1}{2}$ , $-2$

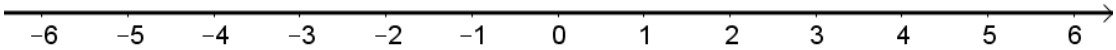


**2)** חשבו את ערכי הביטויים הבאים:

| | |
|---|---|
| א. $3+2$ | ב. $-3-2$ |
| ג. $3-2$ | ד. $-3+2$ |
| ה. $-1-4$ | ו. $7+10$ |
| ז. $-6+5$ | ח. $-7+3$ |

**3)** חשבו את ערכי הביטויים הבאים:

| | |
|---|---|
| א. $5+7-23+1$ | ב. $5-8-12+17$ |
| ג. $3-14+2+6$ | ד. $-4-11+2+9$ |
| ה. $6-21+3-7$ | ו. $-7-13+5-3$ |

**4)** חשב את ערכי הביטויים הבאים:

| | |
|---|---|
| א. $4\cdot 9$ | ב. $4\cdot(-7)$ |
| ג. $(-6)\cdot(-5)$ | ד. $(-5)\cdot(-3)$ |
| ה. $(-2)\cdot 8$ | ו. $(-8)\cdot 5$ |
| ז. $(-2)\cdot(-3)\cdot(-3)$ | ח. $2\cdot 3\cdot 3$ |
| ט. $(-2)\cdot 3\cdot(-3)$ | י. $(-2)\cdot(-3)\cdot 3$ |
| יא. $2\cdot 3\cdot(-3)$ | יב. $(-2)\cdot(-3)\cdot(-3)\cdot(-2)$ |
| יג. $(-1)\cdot(-2)\cdot(-4)\cdot 2$ | יד. $1\cdot(-2)\cdot(-4)\cdot 2$ |

**5)** מהו הסימן של תוצאת המכפלה בכל מקרה:

א. $(-2)\cdot(-4)\cdot(-3)\cdot(-10)\cdot(-6)\cdot(-5)$

ב. $(-1)\cdot 2\cdot 4\cdot(-3)\cdot(-10)\cdot 6\cdot(-5)$

ג. $(-1)\cdot 2\cdot 4\cdot(-3)\cdot(-10)\cdot(-6)\cdot(-5)$

ד. $(-1)\cdot 2\cdot 4\cdot(-3)\cdot(-10)\cdot 6\cdot 5$

**6)** חשבו את ערכי הביטויים הבאים:

א. $(-25):(-5)$

ב. $(-30):3$

ג. $40:(-10)$

ד. $(-32):(-4)$

ה. $(-6):18$

ו. $4:(-16)$

**7)** חשבו את ערכי הביטויים הבאים:

א. $\frac{-60}{12}$

ב. $\frac{42}{-6}$

ג. $\frac{32}{-4}$

ד. $\frac{-12}{-3}$

**8)** מה התוצאה של כל אחת מהפעולות הבאות:

א. $0:5$

ב. $(-2)\cdot 0$

ג. $0\cdot(-3)\cdot 4$

ד. $6:0$

ה. $0+4$

ו. $0-4$

## תשובות סופיות:

**1)** להלן מערכת הצירים:

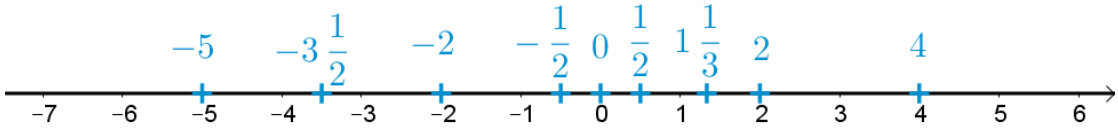


**2)** א. 5 ב. -5 ג. 1 ד. -1 ה. -5
ו. 17 ז. -1 ח. -4.

**3)** א. -10 ב. 2 ג. -3 ד. -4 ה. -19 ו. -18.

**4)** א. 36 ב. -28 ג. 30 ד. 15 ה. -16
ו. -40 ז. -18 ח. 18 ט. 18 י. 18
יא. -18 יב. 36 יג. -16 יד. 16.

**5)** א. + ב. + ג. - ד. -.

**6)** א. 5 ב. -10 ג. -4 ד. 8 ה. $-\frac{1}{3}$ ו. $-\frac{1}{4}$.

**7)** א. -5 ב. -7 ג. -8 ד. 4.

**8)** א. 0 ב. 0 ג. 0 ד. לא מוגדר ה. 4 ו. -4.

# חזקות ושורשים עם מספרים מכוונים:

## סיכום כללי:

**הגדרה:**

פעולת החזקה היא צורה מקוצרת שמייצגת פעולת כפל של אותו מספר בעצמו מספר פעמים. סימון החזקה הוא באופן הבא:

$$a^n = \underbrace{a \cdot a \cdot a \cdot \ldots \cdot a}_{n}$$

כאשר $a$ נקרא הבסיס ו- $n$ נקראת החזקה.

**הערות:**

- כאשר הבסיס חיובי, התוצאה תמיד תהיה חיובית ללא קשר האם החזקה היא זוגית או אי-זוגית.
- כאשר הבסיס שלילי, התוצאה תהיה חיובית אם החזקה היא זוגית ושלילית אם החזקה היא אי-זוגית.

**הגדרה:**

פעולת השורש היא הפוכה לפעולת החזקה והיא מאפשרת למצוא את בסיס החזקה. סימון השורש הוא באופן הבא:

$$\sqrt[n]{a}$$

כאשר $a$ נקרא הבסיס ו- $n$ נקרא סדר השורש.

**הערות:**

- שורש למספר חיובי יכול להיות מסדר זוגי או אי-זוגי.
- שורש למספר שלילי יכול להיות מסדר אי-זוגי בלבד.

## שאלות:

**1)** חשב את ערכי הביטויים הבאים:

א. $3^2$
ב. $3^3$
ג. $(-3)^3$
ד. $(-2)^3$
ה. $4^3$
ו. $3^4$
ז. $(-5)^3$
ח. $10^4$
ט. $-(-3)^4$
י. $-5^4$
יא. $-4^3$
יב. $-(-2)^6$

**2)** חשב את ערכי הביטויים הבאים:

א. $\sqrt[3]{-27}$
ב. $\sqrt[4]{625}$
ג. $\sqrt[4]{-16}$
ד. $\sqrt[5]{-32}$
ה. $-\sqrt[4]{81}$
ו. $-\sqrt[3]{1000}$

## תשובות סופיות:

**1)** א. 9 ב. 27 ג. -27 ד. -8 ה. 64 ו. 81
ז. -125 ח. 10000 ט. -81 י. -625 יא. -64 יב. -64

**2)** א.-3 ב. 5 ג. לא מוגדר ד. -2 ה. -3 ו. -10

# סדר פעולות חשבון עם מספרים מכוונים:

## סיכום כללי:

**סדר פעולות חשבון:**

- פעולות כפל וחילוק קודמות לפעולות חיבור וחיסור.
- פעולות חזקה ושורש קודמות לפעולות כפל וחילוק.
- סוגריים קודמים לכל.

## שאלות:

חשב את ערכי הביטויים הבאים:

**1)** $\sqrt{81}+3\cdot 2^3-40:8$

**2)** $(-3)^2:9-2\cdot(-4^2)$

**3)** $\sqrt{144}-20:4+3\cdot(-2)^2$

**4)** $3+4\cdot[-3+4\cdot(-2)]+\sqrt{10+6}$

**5)** $(-3)^4:(-9)-5\cdot(-2)^3$

**6)** $-\sqrt{9}+5^2:(-4-1)-24:12\cdot 3$

**7)** $-2^5:(-8)+4^2-3\cdot 5$

**8)** $\sqrt[3]{-27}+4\cdot 3^2-2\cdot 3^3$

**9)** $\left[6\cdot(-1)^4-10\cdot(-1)^3\right]\cdot(-1)^5$

**10)** $\left(8-\sqrt[3]{64}\right)\cdot\left(2\cdot(-4)-\sqrt[5]{243}\right)$

**11)** $\dfrac{3^2\cdot(8-2\cdot 3)^3}{(5^2\cdot 3-72)\cdot(-4)}+2\cdot\{15-20:(4+3\cdot 2)\}$

## תשובות סופיות:

| | | | |
|---|---|---|---|
| **1)** 28 | **2)** 33 | **3)** 19 | **4)** -37 |
| **5)** 31 | **6)** -14 | **7)** 5 | **8)** -21 |
| **9)** -16 | **10)** -44 | **11)** 20 | |

# שברים פשוטים, עשרוניים ואחוזים:

## סיכום כללי:

**הגדרה כללית:**

השבר הוא חלק מתוך השלם. מקובל לסמן שבר באמצעות קו שבר המפריד בין המונה (החלק העליון) למכנה (החלק התחתון) באופן הבא:

$$\frac{\text{מונה}}{\text{מכנה}}$$

**ישנם שלושה סוגים אפשריים של שברים:**

- שבר פשוט – בו המונה קטן מהמכנה (ולכן תמיד יהיה קטן מ-1).
- שבר מדומה – בו המונה גדול מהמכנה (יהיה גדול בערכו מ-1).
- שבר מעורב – המכיל שילוב של מספר שלם ושבר כלשהו.

**שבר עשרוני:**

שבר שהמכנה שלו הוא מספר המהווה כפולות של 10 כגון: 10, 100, 1000 ...
שבר עשרוני מיוצג ע"י נקודה עשרונית אשר מבדילה בין החלק שלם לחלק השברי באופן הבא:

$$\underbrace{XX}_{\text{שלמים}}.\underbrace{YYY}_{\text{שברים}}$$

כדי להמיר שבר פשוט לשבר עשרוני המכנה צריך להיות בכפולות של 10.

**אחוזים - הגדרה:**

השבר $\frac{1}{100}$ מוגדר להיות אחוז אחד ומסומן באופן הבא: 1%.

באופן זה השבר $\frac{45}{100}$ יכתב: 45% , והשבר $\frac{145}{100}$ יכתב: 145%.

## שאלות:

**1)** צבע את החלקים המתאימים בכל עיגול:

א. צבע $\frac{1}{2}$ מהעיגול

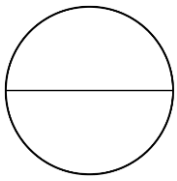

ב. צבע $\frac{1}{6}$ מהעיגול

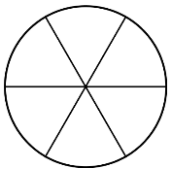

ג. צבע $\frac{3}{8}$ מהעיגול

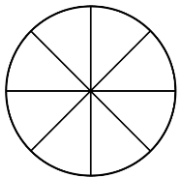

ד. צבע $\frac{2}{5}$ מהעיגול

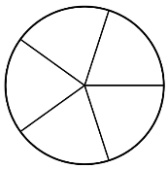

**2)** כתוב את השבר המתאים לחלקים הצבועים בכל אחד מהמקרים הבאים:

א. שבר:

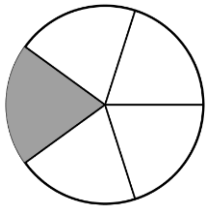

ב. שבר:

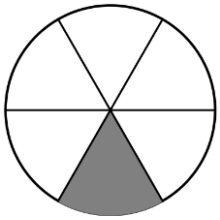

ג. שבר:

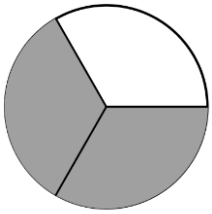

ד. שבר:

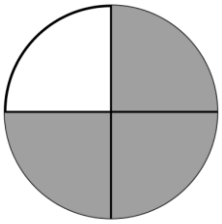

**3)** הרחב את השברים הבאים:

א. השבר $\frac{1}{2}$ לפי בסיס 4, לפי בסיס 18, לפי בסיס 40.

ב. השבר $\frac{3}{5}$ לפי בסיס 10, לפי בסיס 25, לפי בסיס 60.

ג. השבר $\frac{5}{8}$ לפי בסיס 16, לפי בסיס 32, לפי בסיס 88.

**4)** צמצם את השברים הבאים ככל הניתן:

א. $\frac{25}{30}$ ב. $\frac{10}{30}$ ג. $\frac{6}{24}$ ד. $\frac{4}{20}$

ה. $\frac{35}{56}$ ו. $\frac{24}{42}$ ז. $\frac{36}{48}$ ח. $\frac{33}{121}$

**5)** המר את השברים המדומים הבאים לשברים מעורבים:

א. $-\frac{20}{3}$ ב. $\frac{19}{4}$ ג. $\frac{12}{5}$ ד. $\frac{22}{5}$

ה. $-\frac{34}{6}$ ו. $-\frac{50}{7}$ ז. $\frac{47}{8}$ ח. $\frac{60}{9}$

**6)** המר את השברים המעורבים הבאים לשברים מדומים:

א. $1\frac{2}{3}$ ב. $3\frac{5}{6}$ ג. $4\frac{1}{2}$ ד. $6\frac{1}{4}$

ה. $11\frac{3}{4}$ ו. $-2\frac{5}{8}$ ז. $-6\frac{2}{7}$ ח. $12\frac{7}{9}$

**7)** קבע איזה שבר גדול יותר בכל אחד מהמקרים הבאים:

א. $\frac{3}{10}$ או $\frac{4}{10}$ ב. $\frac{7}{8}$ או $\frac{7}{6}$

ג. $\frac{2}{3}$ או $\frac{5}{6}$ ד. $\frac{5}{18}$ או $\frac{7}{12}$

**8)** המר את השברים העשרוניים הבאים לשברים פשוטים מצומצמים או מעורבים:

א. 0.7 ב. 0.07 ג. 0.007 ד. 0.34

ה. 0.304 ו. 0.65 ז. 1.2 ח. 1.02

ט. 1.42 י. 3.5 יא. 6.03 יב. 5.125

**9)** המר את השברים הבאים לשברים עשרוניים:

| | | | |
|---|---|---|---|
| א. $\frac{3}{10}$ | ב. $\frac{3}{100}$ | ג. $\frac{3}{1000}$ | ד. $\frac{23}{1000}$ |
| ה. $\frac{1}{2}$ | ו. $\frac{3}{4}$ | ז. $\frac{2}{5}$ | ח. $\frac{4}{25}$ |
| ט. $\frac{7}{50}$ | י. $\frac{3}{20}$ | יא. $\frac{7}{8}$ | יב. $\frac{9}{16}$ |
| יג. $9\frac{1}{10}$ | יד. $3\frac{1}{5}$ | טו. $4\frac{7}{8}$ | טז. $-4\frac{1}{16}$ |

**10)** כתוב את השברים הבאים בצורתם העשרונית
(היעזר במחשבון וכתוב עד 3 ספרות אחרי הנקודה העשרונית):

| | | | |
|---|---|---|---|
| א. $\frac{2}{3}$ | ב. $\frac{5}{6}$ | ג. $\frac{3}{7}$ | ד. $\frac{2}{11}$ |

**11)** המר מאחוזים לשברים פשוטים:

| | | | |
|---|---|---|---|
| א. 25% | ב. 32% | ג. 64% | ד. 80% |
| ה. 120% | ו. 5% | ז. 300% | ח. 150% |

**12)** המר משברים פשוטים לאחוזים:

| | | | |
|---|---|---|---|
| א. $\frac{3}{4}$ | ב. $\frac{1}{8}$ | ג. $\frac{4}{5}$ | ד. $\frac{7}{20}$ |
| ה. $\frac{11}{40}$ | ו. $\frac{70}{125}$ | ז. $\frac{5}{6}$ | ח. $\frac{4}{9}$ |

## תשובות סופיות:

**1)** תשובה מודגמת בסרטון.

**2)** א. $\frac{1}{5}$ ב. $\frac{1}{6}$ ג. $\frac{2}{3}$ ד. $\frac{3}{4}$

**3)** א. $\frac{40}{80},\frac{18}{36},\frac{4}{8}$ ב. $\frac{180}{300},\frac{75}{125},\frac{30}{50}$ ג. $\frac{440}{700},\frac{160}{256},\frac{80}{128}$

**4)** א. $\frac{5}{6}$ ב. $\frac{1}{3}$ ג. $\frac{1}{4}$ ד. $\frac{1}{5}$ ה. $\frac{5}{8}$ ו. $\frac{4}{7}$

ז. $\frac{3}{4}$ ח. $\frac{3}{11}$

**5)** א. $-6\frac{2}{3}$ ב. $4\frac{3}{4}$ ג. $2\frac{2}{5}$ ד. $4\frac{2}{5}$ ה. $-5\frac{4}{6}$ ו. $-7\frac{1}{7}$

ז. $5\frac{7}{8}$ ח. $6\frac{2}{3}$

**6)** א. $\frac{5}{3}$ ב. $\frac{23}{6}$ ג. $\frac{9}{2}$ ד. $\frac{25}{4}$ ה. $\frac{47}{4}$ ו. $-\frac{21}{8}$

ז. $-\frac{44}{7}$ ח. $\frac{115}{9}$

**7)** א. $\frac{4}{10}$ ב. $\frac{7}{6}$ ג. $\frac{5}{6}$ ד. $\frac{7}{12}$

**8)** א. $\frac{7}{10}$ ב. $\frac{7}{100}$ ג. $\frac{7}{1000}$ ד. $\frac{17}{50}$ ה. $\frac{38}{125}$ ו. $\frac{13}{20}$

ז. $1\frac{1}{5}$ ח. $1\frac{1}{50}$ ט. $1\frac{21}{50}$ י. $3\frac{1}{2}$ יא. $6\frac{3}{100}$ יב. $5\frac{1}{8}$

**9)** א. 0.3 ב. 0.03 ג. 0.003 ד. 0.023 ה. 0.5 ו. 0.75

ז. 0.4 ח. 0.16 ט. 0.14 י. 0.15 יא. 0.875

יב. 0.5625 יג. 9.1 יד. 3.2 טו. 4.875 טז. -4.0625

**10)** א. $0.\overline{6}$ ב. $0.8\overline{3}$ ג. 0.428 ד. $0.1\overline{8}$

**11)** א. $\frac{1}{4}$ ב. $\frac{8}{25}$ ג. $\frac{16}{25}$ ד. $\frac{4}{5}$ ה. $1\frac{1}{5}$ ו. $\frac{1}{20}$

ז. 3 ח. $1\frac{1}{2}$

**12)** א. 75% ב. 12.5% ג. 80% ד. 35% ה. 27.5% ו. 56%

ז. 83.333% ח. 44.444%

# כפל וחילוק שברים:

## סיכום כללי:

- כשכופלים שני שברים יש לכפול מונה במונה ומכנה במכנה.
  - במידה ומדובר במספר שלם הכופל שבר, יש לכפול אותו במונה.
  - במידה ומדובר בשברים מעורבים, יש להפוך אותם תחילה לשברים מדומים ורק אז לבצע את פעולת הכפל.
- כדי לחלק שברים, יש לכפול את השבר הראשון בהופכי של השבר השני.
  - הופכי של שבר מסוים מתקבל ע"י החלפת המונה במכנה.

## שאלות:

**1)** חשב את ערכי הביטויים הבאים:

א. $\frac{3}{5}\cdot\frac{3}{4}$ ב. $\frac{2}{7}\cdot\frac{5}{6}$ ג. $\frac{2}{9}\cdot\frac{8}{10}$

ד. $3\cdot\frac{4}{5}$ ה. $6\cdot\frac{2}{3}$ ו. $\frac{12}{25}\cdot 5$

ז. $1\frac{3}{5}\cdot 2\frac{1}{4}$ ח. $3\frac{1}{2}\cdot 4\frac{2}{5}$ ט. $3\frac{3}{7}\cdot 2\frac{2}{5}$

י. $\left(\frac{4}{5}\right)^3$ יא. $\frac{4}{5^3}$ יב. $\frac{4^3}{5}$

**2)** חשב את ערכי הביטויים הבאים:

א. $\frac{2}{5}:\frac{4}{9}$ ב. $\frac{3}{4}:\frac{1}{2}$ ג. $\frac{3}{25}:\frac{7}{10}$

ד. $8:\frac{2}{9}$ ה. $10:\frac{2}{3}$ ו. $\frac{5}{6}:3$

ז. $\frac{2}{5}:5$ ח. $3\frac{3}{4}:5\frac{5}{8}$ ט. $2\frac{2}{5}:1\frac{3}{15}$

## תשובות סופיות:

**1)** א. $\frac{9}{20}$ ב. $\frac{5}{21}$ ג. $\frac{8}{45}$ ד. $2\frac{2}{5}$ ה. $4$ ו. $2\frac{2}{5}$

ז. $3\frac{3}{5}$ ח. $15\frac{2}{5}$ ט. $8\frac{8}{35}$ י. $\frac{64}{125}$ יא. $\frac{4}{125}$ יב. $12\frac{4}{5}$

**2)** א. $\frac{9}{10}$ ב. $1\frac{1}{2}$ ג. $\frac{6}{35}$ ד. $36$ ה. $15$ ו. $\frac{5}{18}$

ז. $\frac{2}{25}$ ח. $\frac{2}{3}$ ט. $2$

# חיבור וחיסור שברים:

## סיכום כללי:

**כפולה משותפת מינימלית:**

בהינתן זוג מספרים $a$ ו- $b$, המספר הקטן ביותר אשר תוצאת חלוקתו במספרים הנ"ל מניבה מספר שלם נקרא הכפולה המינימלית שלהם.

**הערות:**

- כפולה מינימלית יכולה להיות גם עבור יותר משני מספרים.
- הכפולה המינימלית תהיה המכנה המשותף בעת פעולות חיבור וחיסור של שברים.

**כללי החיבור והחיסור של שברים:**

- חיבור וחיסור של שברים בעלי אותו המכנה מתבצע על המספרים שבמונה בלבד כאשר המכנה נשאר כפי שהוא.

  דוגמא: $\frac{2}{7}+\frac{3}{7}=\frac{2+3}{7}=\frac{5}{7}$ , $\frac{2}{7}-\frac{3}{7}=\frac{2-3}{7}=\frac{-1}{7}$.

- חיבור וחיסור של שברים בעלי מכנים שונים מתבצע ע"י פעולת מכנה משותף.

  דוגמא: $\frac{2}{5}+\frac{1}{3}=\frac{6}{15}+\frac{5}{15}=\frac{6+5}{15}=\frac{11}{15}$ , $\frac{1}{4}-\frac{5}{6}=\frac{3}{12}-\frac{10}{12}=\frac{3-10}{12}=-\frac{7}{12}$.

- חיבור של שבר עם מספר שלם יתבצע באופן ישיר.

  דוגמא: $3+\frac{1}{4}=3\frac{1}{4}$.

  חיסור של שבר ממספר שלם יתבצע ע"י הוצאת שלמים מהשבר.

  דוגמא: $3-\frac{1}{4}=2\frac{4}{4}-\frac{1}{4}=2\frac{3}{4}$.

  דרך נוספת היא ע"י העברת המספר השלם לשבר מדומה: $3-\frac{1}{4}=\frac{12}{4}-\frac{1}{4}=\frac{11}{4}=2\frac{3}{4}$.

- חיבור וחיסור של שברים מעורבים יתבצע ע"י העברתם לשברים מדומים תחילה.

דוגמא: $3\frac{2}{5}+2\frac{1}{6}=\frac{17}{5}+\frac{13}{6}=\frac{17\cdot 6}{30}+\frac{13\cdot 5}{30}=\frac{102+65}{30}=\frac{167}{30}=5\frac{17}{30}$.

ניתן גם לפצל ולבצע את פעולת החיבור (או החיסור) של המספרים השלמים תחילה, ולאחר מכן לבצע את הפעולה עבור השברים.

דוגמא: $2\frac{3}{4}-5\frac{1}{3}=(2-5)+\left(\frac{3}{4}-\frac{1}{3}\right)=-3+\left(\frac{9}{12}-\frac{4}{12}\right)=-3+\frac{5}{12}=-2\frac{7}{12}$.

## שאלות:

**1)** מצא את הכפולה המשותפת המינימלית של המספרים הבאים:

| | | | |
|---|---|---|---|
| א. 2 ו-3 | ב. 2 ו-4 | ג. 3 ו-5 | ד. 6 ו-10 |
| ה. 4 ו-10 | ו. 4 ו-6 | ז. 3, 5 ו-10 | ח. 2, 3 ו-8 |

**2)** חשב את ערכי הביטויים הבאים:

| | |
|---|---|
| א. $\frac{1}{5}+\frac{3}{5}$ | ב. $\frac{5}{9}+\frac{2}{9}$ |
| ג. $\frac{4}{13}+\frac{9}{13}$ | ד. $\frac{7}{8}+\frac{7}{8}$ |
| ה. $\frac{7}{8}-\frac{3}{8}$ | ו. $\frac{8}{9}-\frac{7}{9}$ |
| ז. $\frac{2}{12}-\frac{5}{12}$ | ח. $\frac{2}{5}-\frac{6}{5}$ |
| ט. $\frac{2}{8}+\frac{5}{8}+\frac{6}{8}$ | י. $\frac{7}{15}+\frac{8}{15}-\frac{6}{15}$ |

**3)** חשב את ערכי הביטויים הבאים:

א. $\frac{1}{2}+\frac{4}{3}$

ב. $\frac{3}{5}+\frac{1}{10}$

ג. $\frac{4}{6}-\frac{1}{12}$

ד. $\frac{3}{6}-\frac{5}{8}$

ה. $\frac{5}{4}+\frac{7}{2}+\frac{2}{8}$

ו. $\frac{7}{3}+\frac{6}{5}+\frac{3}{10}$

ז. $\frac{4}{7}-\frac{1}{6}+\frac{1}{2}$

ח. $\frac{1}{4}+\frac{2}{8}-\frac{3}{5}$

**4)** חשב את ערכי הביטויים הבאים:

א. $2+\frac{5}{6}$

ב. $2-\frac{5}{6}$

ג. $2\frac{1}{4}+\frac{5}{6}$

ד. $2\frac{1}{4}-\frac{5}{6}$

ה. $3\frac{2}{3}+4\frac{1}{4}$

ו. $5\frac{7}{8}-6\frac{1}{2}$

ז. $2+\frac{5}{6}-\frac{1}{9}$

ח. $\frac{3}{4}-1\frac{1}{5}+\frac{8}{20}$

**5)** חשב את ערכי הביטויים הבאים:

א. $\frac{1}{2}\cdot\left(1-\frac{3}{4}\right)+2\frac{1}{3}$

ב. $\frac{3}{14}:\frac{2}{7}+\frac{1}{3}\cdot 2\frac{1}{4}-\frac{2}{5}$

ג. $\frac{5}{11}\cdot 2\frac{3}{4}-6:\frac{2}{5}$

ד. $2\frac{4}{5}:\frac{9}{10}\cdot\frac{6}{7}+\frac{1}{6}$

ה. $\frac{5}{6}:\frac{3}{4}+\frac{2}{3}\cdot 3\frac{1}{4}$

## תשובות סופיות:

| | | | | | | |
|---|---|---|---|---|---|---|
| 1) | א. 6 | ב. 4 | ג. 15 | ד. 30 | ה. 20 | ו. 12 |
| | ז. 30 | ח. 24 | | | | |
| 2) | א. $\frac{4}{5}$ | ב. $\frac{7}{9}$ | ג. 1 | ד. $1\frac{3}{4}$ | ה. $\frac{1}{2}$ | ו. $\frac{1}{9}$ |
| | ז. $-\frac{1}{4}$ | ח. $-\frac{4}{5}$ | ט. $1\frac{5}{8}$ | י. $\frac{3}{5}$ | | |
| 3) | א. $1\frac{5}{6}$ | ב. $\frac{7}{10}$ | ג. $\frac{7}{12}$ | ד. $-\frac{1}{8}$ | ה. 5 | ו. $3\frac{5}{6}$ |
| | ז. $\frac{19}{21}$ | ח. $-\frac{1}{10}$ | | | | |
| 4) | א. $2\frac{5}{6}$ | ב. $1\frac{1}{6}$ | ג. $3\frac{1}{12}$ | ד. $1\frac{5}{12}$ | ה. $7\frac{11}{12}$ | ו. $-\frac{5}{8}$ |
| | ז. $2\frac{13}{18}$ | ח. $-\frac{1}{20}$ | | | | |
| 5) | א. $2\frac{11}{24}$ | ב. $1\frac{1}{10}$ | ג. $-13\frac{3}{4}$ | ד. $2\frac{5}{6}$ | ה. $3\frac{5}{18}$ | |

# בעיות יסודיות באחוזים:

## סיכום כללי:

נוסחה לביצוע חישובים עם אחוזים:

$$\text{תמורת האחוז} = \text{שלם} \cdot \frac{\text{אחוז}}{100}$$

למשל, בהינתן גודל שלם 120, אשר יש לחשב כמה הם 40 אחוזים ממנו, נקבל לפי הנוסחה: $\frac{40}{100}\cdot 120 = 48$, כלומר: **תמורת האחוז 40 מהגודל 120 היא 48**.

## שאלות:

**1)** בכיתה 30 תלמידים. 60% מתוכם בנות.
א. כמה בנות בכיתה?
ב. כמה בנים בכיתה?

**2)** בכיתה 28 בנות המהוות 70% מכלל התלמידים בכיתה.
א. כמה תלמידים בכיתה?
ב. כמה בנים בכיתה?

**3)** מחיר בגד-ים הוא 300 ₪. בסוף העונה הוא נמכר ב-20% הנחה.
א. מהו מחירו בסוף העונה?
ב. מה גודל ההנחה?

**4)** מחיר ההשקה של בושם מסוים הוא 500 ₪. לאחר מכן מועלה מחירו ב-8%.
א. מה מחירו הסופי?
ב. מה גודל ההתייקרות?

**5)** מחיר ליטר דלק הוא 5 ₪ לליטר. בחנוכה מוזל מחירו ב-7%.
בפסח מועלה מחירו ב-7%. מה מחירו בסוף השנה?

**6)** מוצר מסויים מתייקר בסוכות ב-12%. בפורים מוזל המוצר ב-12%.
מחירו בסוף השנה הוא 394.24 ₪. מה מחירו בתחילת השנה?

**7)** ענה על השאלות הבאות:

א. באולם קולנוע 200 צופים, מתוכם 176 בנים.
מה אחוז הבנים בקהל?

ב. בכיתה 30 תלמידים, מתוכם 18 בנות.
מה אחוז הבנות בכיתה?

ג. מחיר מוצר התייקר מ-80 ₪ ל-120 ₪.
בכמה אחוזים התייקר המוצר?

ד. מחיר מוצר הוזל מ-120 ₪ ל-80 ₪.
בכמה אחוזים הוזל המוצר?

ה. מחיר מוצר התייקר מ-150 ₪ ל-200 ₪.
בכמה אחוזים התייקר המוצר?

ו. מחיר מוצר מוזל הוזל מ-200 ₪ ל-150 ₪.
בכמה אחוזים הוזל המוצר?

## תשובות סופיות:

**1)** א. 18 בנות. ב. 12 בנים.

**2)** א. 40 תלמידים. ב. 12 בנים.

**3)** א. 240 ₪ ב. 60 ₪

**4)** א. 540 ₪ ב. 40 ₪

**5)** 4.9755 ₪

**6)** 400 ₪

**7)** א. 88% ב. 60% ג. 50% ד. 33.33% ה. 33.33% ו. 25%

# חזרה על תבניות מספר:

## סיכום כללי:

משתנה הוא סמל המתאר כמות או גודל כלשהם אשר אינם ידועים ועשויים להשתנות.

תבנית מספר היא ביטוי אלגברי אשר מכיל משתנה (או משתנים).
ניתן להציב במשתנים ערכים מספריים שונים ולקבל תוצאות שונות עבור תבנית המספר עצמה.

במתמטיקה, תפקידה של תבנית המספר הוא להביע גודל מסוים אשר לערכו יש משמעויות שונות. דוגמא לכך היא: קנייה של $x$ פריטים, אשר כל אחד עולה 3 שקלים, יניבו תבנית מספר של $3\cdot x$ אשר מייצגת את הסכום הכולל של הפריטים.

## שאלות:

**1)** חשב את ערכי הביטויים האלגבריים הבאים עבור ה- $x$ הנתון:

א. $2x+5$ כאשר $x=3$

ב. $x^2+3x$ כאשר $x=2$

ג. $-x^2+2x+3$ כאשר $x=5$

ד. $-x^2-9x+5$ כאשר $x=5$

ה. $x^3+1$ כאשר $x=-2$

ו. $4-x^3$ כאשר $x=-1$

ז. $(x+1)(2-x)$ כאשר $x=4$

ח. $x^2(3x-4)$ כאשר $x=3$

**2)** חשב את ערכי הביטויים האלגבריים הבאים עבור ה- $x$ הנתון:

א. $27x^5-2x^3+x$ כאשר $x=\frac{1}{3}$.

ב. $\frac{1}{3}x^2+\frac{1}{2}x+6$ כאשר $x=-\frac{2}{3}$.

**3)** הצב את הערכים המספריים במקום הפרמטרים וחשב את ערך תבנית המספר:

א. $a^2+2ab+b^2$ עבור: $a=3\,,\,b=-5$.

ב. $(x-3)^2+3x^2b$ עבור: $x=5\,,\,b=-1$.

ג. $-x^3-2xy+y^4$ עבור: $x=-2\,,\,y=-1$.

ד. $\frac{(a-2c)^4}{a}-a^2$ עבור: $a=2\,,\,c=-2$.

ה. $\frac{4a^2-3b}{c}$ עבור: $a=-1\,,\,b=2\,,\,c=-4$.

ו. $\sqrt{c-3a}$ עבור: $a=-1\,,\,c=13$ ועבור: $a=\frac{1}{3}\,,\,c=82$.

ז. $\frac{p^3+2\sqrt{q+1}}{m}$ עבור: $m=3\,,\,q=48\,,\,p=-5$.

## תשובות סופיות:

**1)** א. 11 ב. 10 ג. -12 ד. -65 ה. -7 ו. 5

ז. -10 ח. 45

**2)** א. $\frac{10}{27}$ ב. $5\frac{22}{27}$

**3)** א. 4 ב. -71 ג. 5 ד. 644 ה. $\frac{1}{2}$

ו. הצבה ראשונה: 4, הצבה שניה: 9 ז. -37

# כינוס איברים:

## סיכום כללי:

תבניות אלגבריות יכולות להכיל איברים רבים ולכן נרצה לכנס אותם על מנת לפשט את התבנית. כדי לכנס איברים ניקח את כל קבוצת האיברים מאותו הסוג ונחבר את המקדמים שלהם. דוגמא: $3x+6x-5x=(3+6-5)x=4x$.

איברים שונים נבדלים זה מזה בערך התבנית האלגברית שלהם.

כך: $3x$ שונה מ- $4y$ ושונה מ- $2xy$. באותו האופן, האיברים $x$ ו- $x^2$ הם שונים.

## שאלות:

כנס איברים דומים:

1) $5x+7x-4x$

2) $9x^2-2x^2-3x^2-2x^2$

3) $-10xy+15xy+xy-2yx$

4) $x^2y-3yx^2+x^2y$

5) $8a^2+10a-5a^2-11a+a^2$

6) $2x^2-3m^2-x^2+3m^2$

7) $3xy+y-30y+6yx-7y$

8) $mn^2+4m^2n+6n^2m-10nm^2+mn^2$

9) $-6+x^3+4-3x^3+17x^3-17$

10) $y^2+x^2-5x^2+5y^2+4x^2-6y^2$

11) $7x^2-3x-4x+2$

12) $5xy+2x-3yx-x+1$

13) $3-x-x^2+4x+5x^2-12$

14) $x+xy+y-6yx-6y-6x$

15) $mn+n-5m+5nm-14n+3m$

16) $ab^2+6ba^2-6b+16a^2b+3b-6b^2a$

17) $z^3-4z^2+7-z^3-8+8z^2$

18) $4x^2z+6xz^2-6-xz^2+12+10zx^2$

19) $2-x^3-3-4x^2+2x+x^3+x^2-2$

20) $x^3-3x-4x^2+2x+x^3+x^2-2x^3$

21) $2a^2b+3x^2y+5a^2b+10x^2y$

22) $12x^2y^3+13a^2-20x^2y^3+2a^2$

23) $2y^2-4x^3y^2-10y^2-x^3y^2$

24) $-2x^3y+5x^2-4yx^3-6x^2$

25) $2a^2b+2b+3a^2+5b$

26) $5a^2b-8ab^2+20a^2b-14ab^2$

27) $-12x^2+2y^2+3x^2y+14xy^2-5xy^2-6y^2+2xy+11x^2+x^2y-9xy$

28) $21x^3y^3+x^2y^2-3xy^3+x^3y-15x^2y^2-7x^3y+12x^3y^3-4xy^3+4xy^3-6x^3y$

## תשובות סופיות:

1) $8x$
2) $2x^2$
3) $4xy$
4) $-x^2y$
5) $4a^2-a$
6) $x^2$
7) $9xy-36y$
8) $8mn^2-6nm^2$
9) $15x^3-19$
10) 0
11) $7x^2-7x+2$
12) $2xy+x+1$
13) $4x^2+3x-9$
14) $-5x-5y-5xy$
15) $-13n-2m+6mn$
16) $-5ab^2+22a^2b-3b$
17) $4z^2-1$
18) $14x^2z+5xz^2+6$
19) $-3x^2+2x-3$
20) $-3x^2-x$
21) $7a^2b+13x^2y$
22) $-8x^2y^3+15a^2$
23) $-8y^2-5x^3y^2$
24) $-6x^3y-x^2$
25) $2a^2b+3a^2+7b$
26) $25a^2b-22ab^2$
27) $-x^2-4y^2+4x^2y+9xy^2-7xy$
28) $33x^3y^3-14x^2y^2-3xy^3-12x^3y$

# פישוט ביטויים ע"י פתיחת סוגריים:

## סיכום כללי:

בעת ביצוע כפל בין שני איברים יש לכפול את המקדמים בנפרד ואת האותיות (משתנים) בנפרד.

כלל הפילוג:

- $a(b+c)=ab+ac$.
- $(a+b)(c+d)=ac+ad+bc+bd$.

## שאלות:

**1)** פשט את הביטויים הבאים:

א. $2x\cdot 3x$ ב. $-4x\cdot(-7x)$ ג. $-2x\cdot(-4x)\cdot(-3)$

ד. $8m^2\cdot 4m^3$ ה. $3a^3\cdot(-2a^2)$ ו. $-b\cdot 4b^2\cdot\frac{b^2}{2}$

ז. $a\cdot 3b$ ח. $4a^2\cdot 7b^2$ ט. $ab\cdot(-2a^2b)$

**2)** פשט את הביטויים הבאים ע"י פתיחת סוגריים:

א. $2(3x-4)$ ב. $2(-3x^2+5x-1)$

ג. $(7x-2)4$ ד. $(1-2x)(-2)$

ה. $a(3a-1)$ ו. $b(b^2-3b+4)$

ז. $2x(5x+3)$ ח. $5x(x^2+2x-3)$

ט. $3t^2(4t-t^2+6)$ י. $\frac{5}{2}(4d^4-3d)d$

**3)** פשט את הביטויים הבאים:

א. $5x+(3x-2)+(-4-2x)$ ב. $7x+(-4x-5)+3x+(-1+7x)$

ג. $8-(2x-5)-(4x+2)$ ד. $-6x-(-3x-1)-(-7-4x)+1$

ה. $(3-2x^2+4)2+3(x-x^2)-6(7-5x)+4x^2$

ו. $3y^2-(y+1-2y^2)+6(5y-6)-(-y-4)3+5(y^2+1)-7$

**4)** פשט את הביטויים הבאים:

א. $(x-1)(x+2)$ ב. $(x+3)(x-7)$

ג. $(3-x)(x+4)$ ד. $(3x+4)(5x+1)$

ה. $3(4x+1)(2x-3)$ ו. $-2(3x-1)(5-2x)$

**5)** פשט את ערכי הביטויים הבאים:

א. $(x-1)(x+3)+2(3-x)$

ב. $(a+4)(a-2)-(a+5)(a-3)$

ג. $(2m-3)(4m+3)+5(2m^2-6)$

ד. $-x^2y^2(x^3y+x^2)+2xy(2x^3y-x^4y^2)$

## תשובות סופיות:

**1)** א. $6x^2$ ב. $28x^2$ ג. $-24x^2$ ד. $32m^5$ ה. $-6a^5$ ו. $-2b^5$

ז. $3ab$ ח. $28a^2b^2$ ט. $-2a^3b^2$

**2)** א. $6x-8$ ב. $-6x^2+10x-2$ ג. $28x-8$ ד. $-2+4x$

ה. $3a^2-a$ ו. $b^3-3b^2+4b$ ז. $10x^2+6x$ ח. $5x^3+10x^2-15x$

ט. $12t^3-3t^4+18t^2$ י. $10d^5-7.5d^2$

**3)** א. $6x-6$ ב. $13x-6$ ג. $-6x+11$ ד. $x+9$ ה. $-3x^2+33x-28$

ו. $10y^2+32y-27$

**4)** א. $x^2+x-2$ ב. $x^2-4x-21$ ג. $-x^2-x+12$

ד. $15x^2+23x+4$ ה. $24x^2-30x-9$ ו. $12x^2-34x+10$

**5)** א. $x^2+3$ ב. $7$ ג. $18m^2-6m-39$ ד. $-3x^5y^3+3x^4y^2$

# פישוט ביטויים באמצעות נוסחאות הכפל המקוצר:

## סיכום כללי:

- נוסחת ריבוע של סכום/הפרש: $(a\pm b)^2=a^2\pm 2ab+b^2$.
- נוסחה להפרש ריבועים: $(a+b)(a-b)=a^2-b^2$.

## שאלות:

**1)** פשט את הביטויים הבאים:

א. $(x+5)^2$ ב. $(x+2)^2$ ג. $(4x+5)^2$

ד. $(6x+2)^2$ ה. $(7x+y)^2$ ו. $(5x+2y)^2$

ז. $(x^2+7)^2$ ח. $(x^2+y^2)^2$ ט. $(x^3+2y^2x)^2$

**2)** פשט את הביטויים הבאים:

א. $(x-6)^2$ ב. $(x-2)^2$ ג. $(5-x)^2$

ד. $(6x-1)^2$ ה. $\left(3x-\frac{1}{2}\right)^2$ ו. $\left(\frac{1}{3}x-5\right)^2$

ז. $(3m-2n)^2$ ח. $\left(x^2-\frac{3}{5}y\right)^2$ ט. $(x^2y^2-7)^2$

**3)** פשט את הביטויים הבאים:

א. $(x-5)(x+5)$ ב. $(3+x)(x-3)$

ג. $(3x-1)(3x+1)$ ד. $(5-7x)(7x+5)$

ה. $\left(\frac{1}{2}x+6\right)\left(\frac{1}{2}x-6\right)$ ו. $\left(5y-\frac{1}{4}x\right)\left(\frac{1}{4}x+5y\right)$

ז. $(x^2+y)(x^2-y)$ ח. $(3a^2b^3-4)(3a^2b^3+4)$

**4)** פשט את הביטויים הבאים:

א. $(x+1)(x+2)-3x$

ב. $(x-5)(5x-1)+2(4+x)$

ג. $x(2x-1)(2x+1)-4x^2(x+1)$

ד. $-(y+3x)(y-3x)+(y-3x)^2$

ה. $x(x+3)-(6+x)(6x+2)-(x+2)^2$

ו. $-5(x+7)(x-7)+3(2x+5)(5-x)+(x+1)^2$

## תשובות סופיות:

**1)** א. $x^2+10x+25$ ב. $x^2+4x+4$ ג. $16x^2+40x+25$

ד. $36x^2+24x+4$ ה. $49x^2+14xy+y^2$ ו. $25x^2+20xy+4y^2$

ז. $x^4+14x+49$ ח. $x^4+2x^2y^2+y^4$ ט. $x^6+4x^4y^2+4y^4x^2$

**2)** א. $x^2-12x+36$ ב. $x^2-4x+4$ ג. $25-10x+x^2$

ד. $36x^2-12x+1$ ה. $9x^2-3x+\frac{1}{4}$ ו. $\frac{1}{9}x^2-3\frac{1}{3}x+25$

ז. $9m^2-12mn+4n^2$ ח. $x^4-\frac{6}{5}x^2y+\frac{9}{25}y^2$ ט. $x^4y^4-14x^2y^2+49$

**3)** א. $x^2-25$ ב. $x^2-9$ ג. $9x^2-1$ ד. $25-49x^2$

ה. $\frac{1}{4}x^2-36$ ו. $25y^2-\frac{1}{16}x^2$ ז. $x^4-y^2$ ח. $9a^4b^6-16$

**4)** א. $x^2+2$ ב. $5x^2-24x+13$ ג. $-4x^2-x$

ד. $18x^2-6xy$ ה. $-6x^2-39x-16$ ו. $-10x^2+17x+321$

# פירוק לגורמים של ביטויים אלגברים:

## סיכום כללי:

פירוק לגורמים הוא פעולה הפוכה לפתיחת סוגריים – נרצה להוציא את הגורמים המשותפים לאיברים מחוץ לסוגריים.

- פירוק לגורמים ע"י הוצאת איבר אחד משותף:
  - הוצאת מספר משותף: $2x-8=2(x-4)$.
  - הוצאת אות משותפת: $x^2-12x=x(x-12)$.
  - הוצאת מספר ואות יחד: $3x^2-21x=3x(x-7)$.
- פירוק לגורמים ע"י נוסחאות הכפל המקוצר:
  - נוסחת הבינום של ניוטון: $a^2\pm 2ab+b^2=(a\pm b)^2$.
  - נוסחה להפרש ריבועים: $a^2-b^2=(a+b)(a-b)$.

## שאלות:

**1)** פשט את הביטויים הבאים ע"י הוצאת גורם משותף:

א. $3x-12$ ב. $6y-4$

ג. $20-8a$ ד. $4a^3+8b$

ה. $75m^2+25m+15$ ו. $40a^2-8b^2+64c^2$

**2)** פשט את הביטויים הבאים ע"י הוצאת גורם משותף:

א. $y^2+5y$ ב. $3x-11x^3$

ג. $6y^2+5y^3+4y$ ד. $\frac{1}{2}a^7-\frac{1}{4}a^5+a^3$

**3)** פשט את הביטויים הבאים ע"י הוצאת גורם משותף:

א. $2x^2-8x$
ב. $3t^2+12t$
ג. $5n^3-20n^2+50n$
ד. $8y^2+6y^3-2y^4$
ה. $4x^2y^2+16x^2y-20xy^2$
ו. $27mn-3n^2m+9n^3m$

**4)** פשט את הביטויים הבאים ע"י שימוש בנוסחאות הכפל המקוצר:

א. $x^2+10x+25$
ב. $x^2+12x+36$
ג. $y^2-18y+81$
ד. $y^2-22y+121$
ה. $4x^2+4x+1$
ו. $16y^2-8y+1$
ז. $9x^2-24x+16$
ח. $25x^2+70x+49$

**5)** פשט את הביטויים הבאים ע"י שימוש בנוסחאות הכפל המקוצר:

א. $r^2-25$
ב. $x^2-81$
ג. $25y^2-49$
ד. $121x^2-1$
ה. $x^2y^2-4$
ו. $9y^4-169x^4$

**6)** פשט את הביטויים הבאים ע"י הוצאת גורם משותף ונוסחאות הכפל המקוצר:

א. $y-y^3$
ב. $x^3-10x^2+25x$
ג. $m^4-1$
ד. $196x^4-140x^3+25x^2$

## תשובות סופיות:

1) א. $3(x-4)$ ב. $2(3y-2)$ ג. $4(5-2a)$

ד. $4(a^3+2b)$ ה. $5(15m^2+5m+3)$ ו. $8(5a^2-b^2+8c^2)$

2) א. $y(y+5)$ ב. $x(3-11x^2)$ ג. $y(6y+5y^2+4)$

ד. $a^3\left(\frac{1}{2}a^4-\frac{1}{4}a^2+1\right)$

3) א. $2x(x-4)$ ב. $3t(t+4)$ ג. $5n(n^2-4n+10)$

ד. $2y^2(4+3y-y^2)$ ה. $4xy(xy+4x-5y)$ ו. $3mn(9-n-3n^2)$

4) א. $(x+5)^2$ ב. $(x+6)^2$ ג. $(y-9)^2$ ד. $(y-11)^2$

ה. $(2x+1)^2$ ו. $(4y-1)^2$ ז. $(3x-4)^2$ ח. $(5x+7)^2$

5) א. $(r+5)(r-5)$ ב. $(x+9)(x-9)$ ג. $(5y+7)(5y-7)$

ד. $(11x+1)(11x-1)$ ה. $(xy+2)(xy-2)$ ו. $(3y^2+13x^2)(3y^2-13x^2)$

6) א. $y(1+y)(1-y)$ ב. $x(x-5)^2$ ג. $(m^2+1)(m+1)(m-1)$

ד. $x^2(14x-5)^2$ .

# פירוק הטרינום:

## סיכום כללי:

טרינום משמעו תלת איבר מהצורה: $ax^2+bx+c$ כאשר $a$, $b$ ו-$c$ הם מספרים כלשהם.

שיטת הטרינום מאפשרת לפרק את תלת האיבר ל-4 איברים ע"י פיצול האיבר $bx$ לשני איברים באופן כזה שמאפשר להוציא גורם משותף.

הכלל הוא למצוא שני מספרים, $m_1$ ו-$m_2$, שמקיימים: $m_1\cdot m_2=ac$ ו-$m_1+m_2=b$.

לאחר מכן ניתן לפרק את הטרינום: $ax^2+bx+c=ax^2+m_1x+m_2x+c$.

השלב האחרון הוא הוצאת גורם משותף מכל זוג: $\underbrace{ax^2+m_1x}+\underbrace{m_2x+c}$.

**הערה:**

במקרה שנוסחת השורשים ידועה, ניתן להיעזר בה כדי למצוא את המספרים $m_1$ ו-$m_2$ באופן הבא: $m_2=\frac{-b-\sqrt{b^2-4ac}}{2a}$ , $m_1=\frac{-b+\sqrt{b^2-4ac}}{2a}$ ולאחר מכן ניתן לכתוב את הטרינום כמכפלה: $ax^2+bx+c=a(x-m_1)(x-m_2)$. אם קיים פתרון (שורש) אחד $m_1=m_2=\frac{-b}{2a}$ אז נכתוב: $ax^2+bx+c=a(x-m_1)^2$ ואם לא קיימים פתרונות אז לא קיים פירוק כלל.

## שאלות:

**1)** פרק את הביטויים הבאים לפי פירוק טרינום:

| | | |
|---|---|---|
| א. $x^2+5x+4$ | ב. $x^2-8x+15$ | ג. $x^2-33x+62$ |
| ד. $2x^2+7x-15$ | ה. $3x^2-11x+6$ | ו. $6x^2+5x+1$ |
| ז. $2x^2+x-6$ | ח. $x^2-18x+81$ | ט. $x^2+2x+8$ |

**2)** פרק את הביטויים הבאים ע"י שימוש בנוסחת השורשים.
**הערה: במידה ולא למדת על נוסחת השורשים התעלם משאלה זו.**

| | |
|---|---|
| א. $6x^2+5x+1$ | ב. $x^2+5x+4$ |
| ג. $4x^2+20x+25$ | ד. $3x^2-x+20$ |

## תשובות סופיות:

**1)** א. $(x+1)(x+4)$ ב. $(x-3)(x-5)$ ג. $(x-2)(x-31)$

ד. $(2x-3)(x+5)$ ה. $(3x-2)(x-3)$ ו. $(3x+1)(2x+1)$

ז. $(x+2)(2x-3)$ ח. $(x-9)^2$ ט. אין פירוק.

**2)** א. $6\left(x+\frac{1}{3}\right)\left(x+\frac{1}{2}\right)$ ב. $(x+1)(x+4)$ ג. $(2x+5)^2$ ד. אין פירוק.

# שברים אלגבריים:

## סיכום כללי:

### הגדרה:

שבר אלגברי מורכב משתי תבניות, אשר אחת מחלקת את השנייה.

דוגמא לשברים אלגבריים: $\frac{4}{x-x^3}$ , $\frac{3x}{x^2+1}$ , $\frac{x+1}{x+2}$.

במקרה בו המכנה הוא מספר, לא מדובר בשבר אלגברי מכיוון שניתן לכתוב את הביטוי ללא צורך בחילוק בין ביטויים שונים כגון: $\frac{3x+5}{4}=\frac{3}{4}x+\frac{5}{4}$.

### תחום הגדרה של שבר:

היות ושבר אלגברי הוא תבנית אשר יכולה לקבל ערכים שונים בעת הצבות שונות, חשוב להגביל את המספרים שניתן להציב באופן כזה שלא תתקבל חלוקה באפס.

דוגמא: השבר $\frac{1}{x+4}$ לא מוגדר כאשר $x=-4$ מכיוון שמתקבל: $\frac{1}{0}$.

במקרים אלו נדרוש **תנאי** על המשתנה אשר יכתב באופן הבא: $x\neq -4$ ומשמעו היא ש-$x$ יכול לקבל על ערך מספרי אפשרי למעט 4-, מכיוון שבמקרה זה השבר לא מוגדר.

### כלל צמצום שברים אלגבריים:

ניתן לצמצם שברים אלגבריים ע"י הבאת המונה והמכנה למכפלה של ביטויים.
במידה וקיימות פעולות החיבור והחיסור בין איברים שונים לא ניתן לבצע צמצום של איברים דומים בין המונה והמכנה. להלן מספר דוגמאות הנוגעות לצמצומים:

- צמצום ע"י הוצאת גורם משותף: $\frac{2x+8}{x+4}=\frac{2\cancel{(x+4)}}{\cancel{x+4}}=\frac{2\cdot 1}{1}=2$.
- צמצום ע"י נוסחת כפל מקוצר: $\frac{3x-15}{x^2-10x+25}=\frac{3\cancel{(x-5)}}{(x-5)^{\cancel{2}}}=\frac{3\cdot 1}{x-5}=\frac{3}{x-5}$.
- צמצום ע"י פירוק טרינום: $\frac{x^2-2x-3}{x^2-3x-4}=\frac{\cancel{(x+1)}(x-3)}{\cancel{(x+1)}(x-4)}=\frac{x-3}{x-4}$.

## שאלות:

**1)** מצא את תחום ההגדרה של השברים האלגבריים הבאים:

א. $\frac{x+4}{x+3}$

ב. $\frac{5}{x-6}$

ג. $\frac{x+7}{2x-8}$

ד. $\frac{x^2+1}{x^2-4x}$

ה. $\frac{3}{x^2+2x+1}$

ו. $\frac{x^2}{x^2-4}$

ז. $\frac{6}{y^4-y^2}$

ח. $\frac{8x-2}{3x^3-15x^2+12x}$

**2)** צמצם את השברים הבאים (במידה ולא ניתן צמצם הסבר מדוע):

א. $\frac{ax}{a}$

ב. $\frac{a-x}{a}$

ג. $\frac{a-ax}{a}$

ד. $\frac{x+1}{y+1}$

ה. $\frac{x}{x+y}$

ו. $\frac{6x}{6y}$

ז. $\frac{x^2y}{xy^2}$

ח. $\frac{x^2+y^2}{x^2y^2}$

ט. $\frac{4x^2y}{xy}$

י. $\frac{3x^2}{x^2+3}$

**3)** צמצם את השברים הבאים ע"י הוצאת גורם משותף וכתוב את תחום הגדרתם:

א. $\frac{3x+12}{x+4}$

ב. $\frac{m^2+4m}{4m+16}$

ג. $\frac{2a-12}{a^2-6a}$

ד. $\frac{x^2-5x}{15-3x}$

ה. $\frac{3-18y^2}{6y^2-1}$

ו. $\frac{4x^3-2x^2}{6x-3}$

ז. $\frac{3y}{y^3-3y^2}$

ח. $\frac{3z^3-12z^2+4z}{z^2+5z}$

**4)** צמצם את השברים הבאים ע"י פירוק לגורמים וכתוב את תחום הגדרתם:

א. $\frac{x^2+10x+25}{2x+10}$

ב. $\frac{8n-n^2}{n^2-16n+64}$

ג. $\frac{z^3-4z^2}{2z^2-16z+32}$

ד. $\frac{4m^2+20m+25}{4m^2+10m}$

ה. $\frac{18y^2-24y+8}{2y-3y^2}$

ו. $\frac{a^3+4a^2b+4ab^2}{3ab+6b^2}$

**5)** צמצם את השברים הבאים ע"י טרינום ריבועי וכתוב את תחום הגדרתם:

א. $\frac{x+2}{x^2-3x-10}$

ב. $\frac{m^2-12m+32}{m-4}$

ג. $\frac{4y-10}{2y^2+y-15}$

ד. $\frac{3z^2+26z+16}{3z+2}$

ה. $\frac{x^2+5x-36}{x^3+9x^2}$

ו. $\frac{9n^2-12n}{4+5n-6n^2}$

ז. $\frac{x^2+4x+4}{x^2+5x+6}$

ח. $\frac{x^2-14x+49}{x^2+x-56}$

ט. $\frac{3a^2b-10ab^2+3b^3}{-3a^3b+11a^2b^2-6ab^3}$

י. $\frac{m^3n-m^2n^2-m^2+mn}{2m^2n^3+mn^2-3n}$

## תשובות סופיות:

**1)** א. $x \neq -3$ ב. $x \neq 6$ ג. $x \neq 4$ ד. $x \neq 0 , x \neq 4$

ה. $x \neq -1$ ו. $x \neq -2 , x \neq 2$ ז. $y \neq 0 , y \neq -1 , y \neq 1$

ח. $x \neq 0 , x \neq 1 , x \neq 4$

**2)** א. $x$ ב. לא ניתן לצמצם ג. $1-x$

ד. לא ניתן לצמצם ה. לא ניתן לצמצם ו. $\frac{x}{y}$ ז. $\frac{x}{y}$

ח. לא ניתן לצמצם ט. $4x$ י. לא ניתן לצמצם

**3)** א. $3 , x \neq -4$ ב. $\frac{m}{4} , m \neq -4$ ג. $\frac{2}{a} , a \neq 0,6$

ד. $-\frac{x}{3} , x \neq 5$ ה. $-3 , y \neq \pm\frac{1}{\sqrt{6}}$ ו. $\frac{2x^2}{3} , x \neq \frac{1}{2}$

ז. $\frac{3}{y(y-3)} , y \neq 0,3$ ח. $\frac{3z^2-12z+4}{z+5} , z \neq 0,-5$

**4)** א. $\frac{x+5}{2} , x \neq -5$ ב. $\frac{n}{8-n} , n \neq 8$ ג. $\frac{z^2}{2(z-4)} , z \neq 4$

ד. $\frac{2m+5}{2m} , m \neq 0,-\frac{5}{2}$ ה. $\frac{2(2-3y)}{y} , y \neq 0,\frac{2}{3}$ ו. $\frac{a(a+2b)}{3b} , b \neq 0, a \neq -2b$

**5)** א. $\frac{1}{x-5} , x \neq 5,-2$ ב. $m-8 , m \neq 4$ ג. $\frac{2}{y+3} , x \neq -3,\frac{5}{2}$

ד. $z+8 , z \neq -\frac{2}{3}$ ה. $\frac{x-4}{x^2} , x \neq 0,-9$ ו. $\frac{-3n}{2n+1} , n \neq -\frac{1}{2},\frac{4}{3}$

ז. $\frac{x+2}{x+3} , x \neq -2,-3$ ח. $\frac{x-7}{x+8} , x \neq 7,-8$

ט. $\frac{3a-b}{a(2b-3a)} , a \neq 0 , b \neq 0, a \neq 3b , 2b \neq 3a$ י. $\frac{m(m-n)}{n(2mn+3)} , mn \neq 1,-\frac{3}{2},n \neq 0$

# כפל וחילוק של שברים אלגברים:

## סיכום כללי:

כפל שברים יתבצע ע"י הכפלת כל מונה בנפרד והכפלת כל מכנה בנפרד.

חילוק שברים יתבצע ע"י לקיחת ההופכי של שבר המחלק וביצוע פעולת כפל.

- דוגמא לכפל שברים: $\frac{x+1}{x^2}\cdot\frac{x}{3x+3}=\frac{x+1}{x^2}\cdot\frac{x}{3(x+1)}=\frac{\cancel{x}\cancel{(x+1)}}{3x^{\cancel{2}}\cancel{(x+1)}}=\frac{1}{3x}$.

- דוגמא לחילוק שברים: $\frac{4x}{y}:\frac{12}{y^2+y}=\frac{4x}{y}\cdot\frac{y^2+y}{12}=\frac{\cancel{4}^{1}x}{\cancel{y}}\cdot\frac{\cancel{y}(y+1)}{\cancel{12}_{3}}=\frac{x(y+1)}{3}$.

## שאלות:

**1)** פשט את הביטויים הבאים:

א. $\frac{x}{3}\cdot\frac{x}{8}$

ב. $\frac{x}{3}\cdot\frac{9}{x^2}$

ג. $7y\cdot\frac{5}{y^2}$

ד. $6x^2\cdot\frac{3}{40x}$

ה. $(x^2+3x)\cdot\frac{2}{3x+9}$

ו. $(a^2-25)\cdot\frac{20}{5a+25}$

ז. $\frac{w^2-9}{w}\cdot\frac{w^2}{2w+6}$

ח. $\frac{y+4}{y^2+16}\cdot\frac{y^2-16}{2y+8}$

ט. $\frac{z^2+30z+225}{6z+90}\cdot\frac{12}{2z-10}$

י. $\frac{5n^2}{n^2-121}\cdot\frac{2n^2+44n+242}{n+2}\cdot\frac{n^2+4n+4}{n}$

**2)** פשט את הביטויים הבאים:

א. $\frac{x}{8}:\frac{x}{6}$

ב. $\frac{y}{25}:\frac{5}{y}$

ג. $a^2:\frac{1}{6a}$

ד. $\frac{5}{6a}:a^2$

ה. $\left(d^2-3d\right):\frac{5d-15}{5d}$

ו. $\frac{t}{t+4}:\frac{3t}{t+4}$

ז. $\frac{y^2+8y+16}{8y^2}:\frac{y^2-16}{7y^2}$

ח. $\frac{a^2-64}{a^2-36}:\frac{a+8}{a+6}$

## תשובות סופיות:

**1)** א. $\frac{x^2}{24}$ ב. $\frac{3}{x}$ ג. $\frac{35}{y}$ ד. $\frac{9x}{20}$ ה. $\frac{2x}{3}$

ו. $4(a-5)$ ז. $\frac{w(w-3)}{2}$ ח. $\frac{y^2-16}{2y^2+32}$ ט. $\frac{z+15}{z-5}$ י. $\frac{10n(n+11)(n+2)}{n-11}$

**2)** א. $\frac{3}{4}$ ב. $\frac{y^2}{125}$ ג. $6a^3$ ד. $\frac{5}{6a^3}$ ה. $d^2$ ו. $\frac{1}{3}$

ז. $\frac{7(y+4)}{8(y-4)}$ ח. $\frac{a-8}{a-6}$

# חיבור וחיסור של שברים אלגברים:

## סיכום כללי:

ביצוע פעולת החיבור והחיסור תתבצע באופן זהה לשברים מספריים.

נרצה להרחיב את השברים כך שהמכנה של שניהם יהיה זהה, ולאחר מכן נחבר את המונים.

כדי להרחיב את השברים נעזר בפעולת מציאת מכנה משותף.
לשם כך נעזר בפירוקים השונים כדי להביא את הביטויים שבכל מכנה לצורתם המופשטת.

דוגמא לחיבור שברים בעלי אותו מכנה:

$$\frac{1}{x}+\frac{x+1}{x}=\frac{1+(x+1)}{x}=\frac{x+2}{x}$$

דוגמא לחיבור מספר לשבר אלגברי:

$$2+\frac{3}{x+2}=\frac{2(x+2)}{x+2}+\frac{3}{x+2}=\frac{2(x+2)+3}{x+2}=\frac{2x+7}{x+2}$$

דוגמא לחיבור שברים עם מכנים שונים (ע"י פעולת מכנה משותף):

$$\frac{1}{x+1}+\frac{1}{x}=\frac{x}{x(x+1)}+\frac{x+1}{x(x+1)}=\frac{x+x+1}{x(x+1)}=\frac{2x+1}{x(x+1)}$$

דוגמא לחיבור שברים ע"י שימוש בפירוק לגורמים (כדי למצוא מכנה משותף מינימלי):

$$\frac{1}{x^2-3x}+\frac{3}{x-3}=\frac{1}{x^2-3x}+\frac{3x}{x^2-3x}=\frac{1+3x}{x^2-3x}$$

דוגמא לחיבור שברים ע"י נוסחאות הכפל המקוצר (כדי למצוא מכנה משותף מינימלי):

$$\frac{3}{x^2-6x+9}-\frac{2}{x^2-9}=\frac{3}{(x-3)^2}-\frac{2}{(x-3)(x+3)}=\frac{3(x+3)-2(x-3)}{(x-3)^2(x+3)}=\frac{x+15}{(x-3)^2(x+3)}$$

## שאלות:

**1)** פשט את הביטויים הבאים:

א. $\frac{a}{6}+\frac{a-5}{6}$

ב. $\frac{5}{x}+\frac{4x+3}{x}$

ג. $\frac{x-2}{x+1}+\frac{3+4x}{x+1}$

ד. $\frac{7z}{2z-3}-\frac{4z}{2z-3}-\frac{z+3}{2z-3}$

**2)** פשט את הביטויים הבאים:

א. $\frac{1}{ab}-\frac{5}{bc}$

ב. $\frac{1}{xy}+\frac{5}{yz}+\frac{4}{xz}$

ג. $\frac{c}{ab}-\frac{ad}{bc}+\frac{2b}{cd}$

ד. $-\frac{5}{x}+\frac{x+1}{xy^2}$

ה. $\frac{1}{(y+1)^2}+\frac{3}{y+1}$

ו. $\frac{3}{z(z-3)}-\frac{2}{z(z-2)}$

**3)** פשט את הביטויים הבאים:

א. $1-\frac{2}{x}$

ב. $1+\frac{3}{y^2}$

ג. $2+\frac{2}{x+1}$

ד. $3-\frac{1}{x}+\frac{1}{3x}$

ה. $\frac{a+1}{a^2}-\frac{3-a}{4a}-3$

ו. $\frac{x}{9yz}+\frac{z}{3y^2x}+\frac{3-y}{12xz}-3\frac{1}{2}$

**4)** פשט את הביטויים הבאים:

א. $\frac{3}{x+1}+\frac{1}{x}$

ב. $\frac{4}{y+2}-\frac{3}{y}$

ג. $\frac{a+1}{a+2}+\frac{3}{a}$

ד. $\frac{1}{z+3}+\frac{2}{3z}-\frac{3}{z}$

**5)** פשט את הביטויים הבאים:

א. $\frac{24}{a^2-9}+\frac{4}{a+3}$

ב. $\frac{3}{x^2-16}+\frac{2}{(x+4)^2}$

ג. $\frac{y}{(y-2)^2}+\frac{3y}{4-y^2}$

ד. $\frac{3z}{z^2+4z+3}-\frac{z+0.5}{z^2+2z+1}$

ה. $\frac{x-1}{x^2+3x-40}+\frac{2}{-x^2+8x-15}$

ו. $\frac{2a+3}{2a^2+15a+7}+\frac{a+3}{a^2+14a+49}$

ז. $\frac{x}{x-3}+\frac{9-x}{x^2-8x+15}$

ח. $\frac{1}{a-b}+\frac{2}{a+2b}-\frac{3b}{a^2+ab-2b^2}$

**6)** פשט את הביטויים הבאים:

א. $\frac{4}{x}\cdot\frac{x^2}{8}+\frac{9}{x+1}\cdot\frac{x+1}{18}$

ב. $\left(\frac{2}{x}+1\right)\cdot\frac{x^2}{7x+14}$

ג. $\frac{7}{y^2}:\frac{6}{y^3}-\frac{y-4}{63}\cdot\frac{3y-4}{y^2-8y+16}$

ד. $\left(3x-\frac{2}{x^2}+\frac{1}{x}\right):\frac{6x^3+2x-4}{x^2}$

ה. $\left(\frac{2x+1}{20x^2-28x-3}-\frac{3x+1}{30x^2-17x-2}\right):\frac{18x+3}{6x^2-13x+6}$

## תשובות סופיות:

1) א. $\frac{2a-5}{6}$ ב. $\frac{4x+8}{x}$ ג. $\frac{5x+1}{x+1}$ ד. $1$

2) א. $\frac{c-5a}{abc}$ ב. $\frac{z+5x+4y}{xyz}$ ג. $\frac{c^2d-a^2d^2+2ab^2}{abcd}$

ד. $\frac{-5y^2+x+1}{xy^2}$ ה. $\frac{3y+4}{(y+1)^2}$ ו. $\frac{1}{(z-2)(z-3)}$

3) א. $\frac{x-2}{x}$ ב. $\frac{y^2+3}{y^2}$ ג. $\frac{2x+4}{x+1}$

ד. $\frac{9x-2}{3x}$ ה. $\frac{-11a^2+a+4}{4a^2}$ ו. $\frac{4x^2y+12z^2+9y^2-3y^3-126xy^2z}{36xy^2z}$

4) א. $\frac{4x+1}{x(x+1)}$ ב. $\frac{y-6}{y(y+2)}$ ג. $\frac{a^2+4a+6}{a(a+2)}$

ד. $-\frac{4z+21}{3z(z+3)}$

5) א. $\frac{4}{a-3}$ ב. $\frac{5x+4}{(x-4)(x+4)^2}$ ג. $\frac{2y(4-y)}{(y-2)^2(y+2)}$

ד. $\frac{(4z+3)(z-1)}{2(z+1)^2(z+3)}$ ה. $\frac{x^2-6x-13}{(x+8)(x-5)(x-3)}$ ו. $\frac{4(a^2+6a+6)}{(a+7)^2(2a+1)}$

ז. $\frac{x-3}{x-5}$ ח. $\frac{3}{a+2b}$

6) א. $\frac{x+1}{2}$ ב. $\frac{x}{7}$ ג. $\frac{147y^2-594y+8}{126(y-4)}$ ד. $\frac{1}{2}$ ה. $\frac{1}{3(10x+1)}$

# שברים כפולים:

## סיכום כללי:

שבר כפול מורכב באופן הבא: $\frac{\frac{a}{b}}{\frac{c}{d}}$ כאשר מתקיים: $\frac{\frac{a}{b}}{\frac{c}{d}}=\frac{a}{b}:\frac{c}{d}=\frac{a}{b}\cdot\frac{d}{c}=\frac{ad}{bc}$.

נובע מכאן כי ניתן לצמצם ביטויים בין שני המכנים או שני המונים בלבד.

## שאלות:

פשט את הביטויים הבאים:

1) $\frac{\frac{4x}{12}}{x}$

2) $\frac{\frac{y+1}{2y+2}}{5}$

3) $\frac{\frac{5}{t}}{30t^2}$

4) $\frac{\frac{t^2-81}{9t^2}}{6t+54}$

5) $\frac{\frac{3y^3-y^2}{25}}{\frac{y^2}{3-y}}$

6) $\frac{\frac{4x}{x+1}}{\frac{8}{x^2+2x+1}}$

7) $\frac{\frac{8c^2}{3c^3-9c^2-12c}}{\frac{40}{15c+15}}$

8) $\frac{\frac{t^2-t-20}{16t+8}}{\frac{25-t^2}{2t+1}}$

9) $\frac{\frac{1}{x}-4+\frac{x}{x+1}}{\frac{1-3x(x+1)}{5x+5}}$

## תשובות סופיות:

1) $\frac{x^2}{3}$

2) $2.5$

3) $\frac{1}{6t^3}$

4) $\frac{t-9}{54t^2}$

5) $\frac{(3y-1)(3-y)}{25}$

6) $\frac{x(x+1)}{2}$

7) $\frac{c}{c-4}$

8) $\frac{t+4}{-8(t+5)}$

9) $\frac{5}{x}$

# קורס קדם במתמטיקה למהנדסים

## פרק 2 - משוואות אלגבריות

### תוכן העניינים


1. משוואות ממעלה ראשונה ..... 47
2. מערכת שתי משוואות בשני נעלמים ממעלה ראשונה ..... 49
3. משוואות עם אינסוף פתרונות וללא פתרון ..... 52
4. משוואה ממעלה שנייה ..... 53
5. משוואות דו-ריבועיות ..... 55
6. משוואות עם פרמטרים ..... 57
7. משוואות עם שורשים ..... 59
8. משוואות עם ערך מוחלט ..... 61
9. מערכת משוואות ממעלה שנייה ..... 62
10. משוואות מתקדמות מסכמות ..... 64
11. פישוט ביטויים ומשוואות ממעלה שלישית ..... 67

# משוואה ממעלה ראשונה:

## סיכום כללי:

משוואה ממעלה ראשונה היא מהצורה: $ax=b$ (כלומר, החזקה של הנעלם היא 1).

פתרון של משוואה ממעלה ראשונה הוא $x=\frac{b}{a}$ כאשר $a\neq 0$.

שלבי הפתרון הם:

1. ביצוע מכנה משותף (במידה וצריך).
2. פתיחת סוגריים אם ישנם.
3. העברת אגפים וכינוס אברים דומים (בידוד הנעלם באגף אחד והמספרים באגף שני).
4. בידוד הנעלם ומציאתו ע"י חילוק במקדם שלו.

## שאלות:

**1)** פתור את המשוואות הבאות (משוואות יסודיות ממעלה ראשונה):

א. $6x+2=8$

ב. $7-2x=7$

ג. $2x+x=24$

ד. $2x+6=8+x$

ה. $-7x+5+2x=4x-13$

ו. $6x-3+5-7x=x-5x-7$

ז. $2-5x+7=-3x+8$

ח. $x-2+5x=4-3x-5+7x+7$

**2)** פתור את המשוואות הבאות (משוואות עם פתיחת סוגריים):

א. $3(x-1)-4=2$

ב. $7x-4(3-4x)=-x$

ג. $6(4-x)-(6-x)=3x$

ד. $5x-(3x-7)4=21$

ה. $x(x-5)=x^2-7x+8$

ו. $(7-x)(1-x)-(x-3)^2=0$

**3)** פתור את המשוואות הבאות (משוואות עם מכנה מספרי):

א. $\frac{x}{3}-\frac{x}{9}=-4$

ב. $\frac{4x}{15}-\frac{3x}{10}=1$

ג. $\frac{2}{3}x+\frac{4}{5}x=x-\frac{7}{15}$

ד. $\frac{5x+1}{6}-\frac{6x-1}{5}=\frac{3x+1}{4}-1$

ה. $\frac{2}{5}(x-3)-\frac{3}{15}(4-x)=x+2$

ו. $5\left(\frac{x}{3}-\frac{x}{7}\right)-x=1$

**4)** פתור את המשוואות הבאות (משוואות עם נעלם במכנה):

א. $\frac{1}{4}-\frac{2}{x}=0$

ב. $\frac{1}{2}-\frac{x}{x-1}=0$

ג. $\frac{3}{x}=\frac{1}{x+2}$

ד. $\frac{5}{2x-1}=\frac{4}{3x+2}$

ה. $\frac{x+5}{3x^2}-\frac{1}{6x}=\frac{1}{x}$

ו. $\frac{1}{4x}+\frac{3}{x}=\frac{13}{2}$

**5)** פתור את המשוואות הבאות (משוואות עם מכנה משותף ע"י פירוק לגורמים):

א. $\frac{x^2+2}{3x^2+5x}=\frac{3x-1}{9x+15}$

ב. $\frac{7}{x^2-1}+\frac{2}{x+1}+\frac{3}{2-2x}=0$

ג. $\frac{3}{(2-x)^2}+\frac{5}{12-3x^2}=0$

ד. $\frac{4x^2-24x+36}{x-3}=12$

## תשובות סופיות:

**1)** א. $x=1$ ב. $x=0$ ג. $x=8$ ד. $x=2$ ה. $x=2$ ו. $x=-3$

ז. $x=\frac{1}{2}$ ח. $x=4$.

**2)** א. $x=3$ ב. $x=\frac{1}{2}$ ג. $x=2\frac{1}{4}$ ד. $x=1$ ה. $x=4$ ו. $x=-1$.

**3)** א. $x=-18$ ב. $x=-30$ ג. $x=-1$ ד. $x=1$ ה. $x=-10$ ו. $x=-21$.

**4)** א. $x=8$ ב. $x=-1$ ג. $x=-3$ ד. $x=-2$ ה. $x=2$ ו. $x=\frac{1}{2}$.

**5)** א. $x=-6$ ב. $x=-7$ ג. $x=-7$ ד. $x=6\ ,\ x\neq 3$.

# מערכת שתי משוואות בשני נעלמים ממעלה ראשונה:

## סיכום כללי:

**הגדרה:**

מערכת שתי משוואות בשני נעלמים ממעלה ראשונה (ליניאריות) היא מהצורה הבאה:

$$\begin{cases} a_1x+b_1y=c_1 \\ a_2x+b_2y=c_2 \end{cases}$$

כאשר $a_1$ , $b_1$ , $c_1$ ו- $a_2$ , $b_2$ , $c_2$ הם מקדמים מספריים.

דוגמאות למערכות של משוואות: $\begin{cases} x+y=3 \\ 2x-y=1 \end{cases}$ , $\begin{cases} y=3x-1 \\ \frac{x+3}{2}=y+6 \end{cases}$.

**פתרון של מערכת משוואות:**

פתרון של מערכת המשוואות הוא זוג סדור המקיים את כל המשוואות שבמערכת.

**הצגה גרפית של מערכת משוואות:**

פתרון גרפי של מערכת משוואות הוא נקודת החיתוך של הישרים המייצגים כל משוואה.

יתכנו שלושה מצבים הדדיים בין שני ישרים:

- הישרים נחתכים:
במקרה זה נקודת החיתוך תהיה פתרון המערכת.

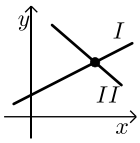


- הישרים מקבילים:
במקרה זה לא יהיה פתרון למערכת.

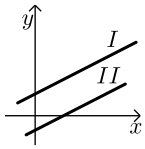


- הישרים מתלכדים:
במקרה זה יהיו אינסוף פתרונות למערכת המשוואות.

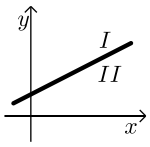

**פתרון אלגברי של מערכת משוואות:**

- פתרון ע"י שיטת ההצבה:
נבודד את אחד הנעלמים ממשוואה אחת ונציב אותו במשוואה השנייה.
נבחר בשיטה זו במקרים בהם קל לבודד נעלם באחת המשוואות.

- פתרון ע"י השוואת מקדמים:

1. כופלים (או מחלקים) משוואה אחת (או שתיהן) במספר השונה מאפס כך שתתקבלנה משוואות שקולות בעלות מקדמים נגדיים או זהים עבור אחד המשתנים.
2. מחברים (או מחסרים) את המשוואות ומקבלים משוואה חדשה עם נעלם אחד.
3. מוצאים את ערך הנעלם מהמשוואה החדשה ומציבים אותו באחת המשוואות המקוריות למציאת ערך הנעלם השני.

**הערה:**

נוח להשתמש בשיטת השוואת המקדמים ע"י כך שמעבירים את המערכת הנתונה למערכת שקולה שבה המשתנים באגף אחד והמספר החופשי באגף השני.

## שאלות:

**1)** פתור את המשוואות הבאות:

א. $\begin{cases} 3x+y=11 \\ y=5 \end{cases}$

ב. $\begin{cases} y=x-3 \\ y=2x+4 \end{cases}$

ג. $\begin{cases} -3x+2y=-16 \\ x=5y+14 \end{cases}$

ד. $\begin{cases} 5x-2y=-2 \\ x+4y=4 \end{cases}$

ה. $\begin{cases} -5x+7y=-26 \\ x+3y=-8 \end{cases}$

ו. $\begin{cases} 2x+3y=5 \\ 5x+7y=11 \end{cases}$

**2)** פתור את המשוואות הבאות:

א. $\begin{cases} x+3y=5 \\ x-3y=3 \end{cases}$

ב. $\begin{cases} 5x+2y=14 \\ 5x+3y=23 \end{cases}$

ג. $\begin{cases} 5y=2x \\ 4x=5y+8 \end{cases}$

ד. $\begin{cases} 4x=3y-29 \\ 5y=9-13x \end{cases}$

**3)** פתור את המשוואות הבאות:

א. $\begin{cases} x+2y=1 \\ 4x+8y=5 \end{cases}$

ב. $\begin{cases} 2(x-y)+4y=1+x \\ 2-7y+x=3(x-y) \end{cases}$.

4) פתור את המשוואות הבאות:

א. $\begin{cases} 3y-x+2=4x+2-3y \\ 2x-3-y=5y-4x+3 \end{cases}$

ב. $\begin{cases} \frac{x-3}{8}-\frac{x+y}{16}=\frac{y-1}{4} \\ 3(2x-y)-4x-11=0 \end{cases}$

ג. $\begin{cases} \frac{3x-1}{4}-\frac{2}{5}(x-y)=\frac{3}{10}(x+3) \\ \frac{x+1}{4}-\frac{y}{2}=1 \end{cases}$.

5) פתור את המשוואות הבאות:

א. $\begin{cases} \frac{3}{x}+\frac{1}{y}=4 \\ \frac{5}{x}-\frac{1}{y}=4 \end{cases}$

ב. $\begin{cases} \frac{3}{x}+\frac{3}{y}=2 \\ \frac{9}{x}-\frac{4}{y}=-7 \end{cases}$

ג. $\begin{cases} 4x-\frac{7}{y}=-3 \\ 5x+\frac{2}{y}=7 \end{cases}$

6) פתור את המשוואות הבאות:

א. $\begin{cases} x(y+2)+y=xy-5 \\ x-y=2 \end{cases}$

ב. $\begin{cases} xy=20 \\ y(3x-4)=20 \end{cases}$

ג. $\begin{cases} 5x-4xy=22 \\ 6x+xy=-20 \end{cases}$

## תשובות סופיות:

1) א. $(2,5)$ ב. $(-7,-10)$ ג. $(4,-2)$ ד. $(0,1)$ ה. $(1,-3)$ ו. $(-2,3)$.

2) א. $\left(4,\frac{1}{3}\right)$ ב. $\left(-\frac{4}{5},9\right)$ ג. $(4,1.6)$ ד. $(-2,7)$.

3) א. אין פתרון. ב. אינסוף פתרונות.

4) א. $(6,5)$ ב. $(7,1)$ ג. $(7,2)$.

5) א. $(1,1)$ ב. $(-3,1)$ ג. $(1,1)$.

6) א. $(-1,-3)$ ב. $(2,10)$ ג. $(-2,4)$.

# משוואות עם אינסוף פתרונות וללא פתרון:

## סיכום כללי:

**משוואה ממעלה ראשונה:**

למשוואה ממעלה ראשונה מהצורה: $ax=b$ יתכן פתרון יחיד אם ורק אם $a\neq 0$ מכיוון שניתן לחלק ולכתוב: $x=\frac{b}{a}$.

כאשר $a=0$ מתקבלת המשוואה $0\cdot x=b$ ויתכנו שני מצבים:

1. אם $b=0$ את המשוואה היא $0x=0$ ויש אינסוף פתרונות המקיימים אותה.
2. אם $b\neq 0$ את המשוואה היא $0x=b\neq 0$ ואין אף ערך של $x$ המקיים אותה.

## שאלות:

פתור את המשוואות הבאות:

1) $x+4=6+x$

2) $3x+6-x=4+2x+2$

3) $6(x-2)=2x+5+4x$

4) $5x-3+x=4x+2x-3$

5) נתונה המשוואה: $3-2(x+2)=5x+\square$.

א. איזה מספר יש להציב ב-$\square$ על מנת שפתרון המשוואה יהיה 1?

ב. איזה מספר יש להציב ב-$\square$ על מנת שפתרון המשוואה יהיה 0?

ג. מצא ביטוי אלגברי שיש להציב ב-$\square$ על מנת שלמשוואה יהיו אינסוף פתרונות.

ד. מצא ביטוי אלגברי שיש להציב ב-$\square$ על מנת שלמשוואה לא יהיה פתרון.

## תשובות סופיות:

1) אף פתרון.

2) אינסוף פתרונות.

3) אין פתרון.

4) אינסוף פתרונות.

5) א. 8- ב. 1- ג. $-7x-1$

ד. $-7x+k$ כאשר $k$ הוא מספר כלשהו השונה מ- 1-.

# משוואה ממעלה שנייה:

## סיכום כללי:

משוואה מהצורה: $ax^2+bx+c=0$ , $(a\neq 0)$ נקראת משוואה ריבועית.

פתרונות המשוואה יסומנו ב- $x_1$ ו- $x_2$ ויחושבו לפי נוסחת השורשים:

$$x_{1,2}=\frac{-b\pm\sqrt{b^2-4ac}}{2a}.$$

למשוואה ריבועית יתכנו שלושה סוגים של פתרונות:

1. **משוואה עם שני פתרונות ממשיים שונים.**
אם מתקבל מספר חיובי בתוך השורש שבנוסחת השורשים אזי למשוואה יהיו שני פתרונות ממשיים שונים.
דוגמא: $x^2+5x-4=0$.

2. **משוואה עם פתרון ממשי אחד בלבד.**
אם מתקבל אפס בתוך השורש שבנוסחת השורשים אזי למשוואה יהיה פתרון ממשי אחד בלבד.
דוגמא: $x^2+4x+4=0$.

3. **משוואה ללא פתרונות ממשיים כלל.**
אם מתקבל מספר שלילי בתוך השורש שבנוסחת השורשים אזי למשוואה לא יהיו פתרונות ממשיים כלל.
דוגמא: $x^2+x+4=0$.

## שאלות:

**1)** פתור את המשוואות הבאות:

א. $x^2+3x-10=0$

ב. $-x^2+10x-16=0$

ג. $25x^2-20x+4=0$

ד. $2x^2-6x+5=0$

**2)** פתור את המשוואות הבאות:

א. $4x^2-5x+7=4-x^2+13$

ב. $-x(x-5)=(1-3x)(1-x)+4$

ג. $2(x-5)^2-(2x-3)^2=10x+21$

ד. $(2x-1)^2+x(2x+3)=(x-1)(x-7)$

**3)** פתור את המשוואות הבאות (משוואה חסרת $b$):

א. $x^2-36=0$

ב. $32x^2-18=0$

ג. $4x-x(x+2)=3(x-1)-x-6$

ד. $(2x-1)^2+(2x+1)^2=10$

**4)** פתור את המשוואות הבאות (משוואה חסרת $c$):

א. $-7x^2-14x=0$

ב. $5x^2-x=0$

ג. $6x(x-2)-1=4x-3(x+1)+2$

ד. $(5x-2)^2=(x-2)(x+3)+10$

**5)** פתור את המשוואות הבאות:

א. $\frac{4x+1}{3}-\frac{x+2}{2}=\frac{2}{x}$

ב. $\frac{x^2-9}{x+3}+x=x^2-18$

ג. $\frac{3}{2x+2}-\frac{2x-5}{2(x-1)^2}-\frac{4}{1-x^2}=0$

ד. $\frac{x}{2x^2-72}+\frac{2}{x^2+12x+36}=\frac{8x-15}{24-4x}+2$

## תשובות סופיות:

**1)** א. $x_1=2\ ,\ x_2=-5$ ב. $x_1=2\ ,\ x_2=8$ ג. $x=\frac{2}{5}$ ד. אין פתרון.

**2)** א. $x_1=2\ ,\ x_2=-1$ ב. $x_1=1\ ,\ x_2=1\frac{1}{4}$ ג. $x_1=1\ ,\ x_2=-10$

ד. $x_1=0.6\ ,\ x_2=-2$.

**3)** א. $x=\pm 6$ ב. $x=\pm\frac{3}{4}$ ג. $x=\pm 3$ ד. $x=\pm 1$

**4)** א. $x_1=0\ ,\ x_2=-2$ ב. $x_1=0\ ,\ x_2=\frac{1}{5}$ ג. $x_1=0\ ,\ x_2=2\frac{1}{6}$

ד. $x_1=0\ ,\ x_2=\frac{7}{8}$.

**5)** א. $x_1=2\ ,\ x_2=-1.2$ ב. $x=5\ ,\ x\neq -3$ ג. $x_1=0\ ,\ x_2=-5$

ד. $x_1=-7.6\ ,\ x_2=-4\frac{2}{7}$.

# משוואות דו-ריבועיות:

## סיכום כללי:

משוואה דו-ריבועית היא משוואה מהצורה: $ax^4+bx^2+c=0$ כאשר הנעלם הוא $x$.
פתרון המשוואה יבוצע ע"י מעבר לפרמטר: $x^2=t \to at^2+bt+c=0$ ומציאתו.
לאחר מכן יש להחזיר את ההצבה ולמצוא את ערכי $x$.

ניתן להביא משוואות לצורה זו ולהגדיר ביטוי המופיע בחזקות 2 ו-4
כגון: $\left(x^2-1\right)^2+3\left(x^2-1\right)-2=0$ באמצעות פרמטר: $t=x^2-1$
ובכך לפתור משוואה: $t^2+3t-2=0$ ולהחזיר את ההצבה עבור מציאת $x$.
דרך הפתרון תקפה לכל משוואה בה הנעלם מופיע בחזקות כפולות כגון 3 ו-6, או 4 ו-8.

## שאלות:

פתור את המשוואות הבאות:

1) $5x^4+3x^2-8=0$

2) $x^4-3x^2+2=0$

3) $13x^2\left(3x^2-1\right)-2=3\left(x^2-1\right)\left(x^2+1\right)$

4) $x^2\left(x^2+1\right)=10\left(3x^2-10\right)$

5) $x^6+x^3=56$

6) $x^3+4=\frac{32}{x^3}$

7) $x-9\sqrt{x}+14=0$

8) $x^8-4x^4-50=31x^4-84$

9) $125x^6-1=124\left(x^6+x^3+1\right)$

10) $\left(2x^2-x\right)^2-4\left(2x^2-x\right)+3=0$

11) $\left(x^2+2x\right)^2+7x^2+14x=-6$

12) $\frac{21}{x^2-4x+10}=6+x^2-4x$

13) $\frac{12}{x^2+2x-8}=1+\frac{7.5}{x^2+2x-3}$

14) $\frac{x^2+2x+2}{x^2+2x+3}=\frac{7}{6}-\frac{x^2+2x+1}{x^2+2x+2}$

15) $\frac{3}{3x^2-15}+\frac{1}{x^2+5}=\frac{10}{x^4-25}$

16) $\frac{x^2-1}{4x^2-28}+2=\frac{9}{x^4-8x^2+7}+\frac{x^2}{2x^2-2}$

17) $\left(2x+\frac{3}{x}\right)^2+35=12\left(2x+\frac{3}{x}\right)$

18) $\frac{3x^4}{(x+2)^2}+\frac{3x^2}{x+2}=6$

19) $\left(2x-x^2+3\right)\left(2x-x^2-2\right)=0$

20) $\left(x^2-5x+6\right)\left(x^2-5x-8\right)=-24$

## תשובות סופיות:

1) $x=\pm 1$

2) $x=\pm 1,\pm\sqrt{2}$

3) $x=\pm\frac{1}{2},\pm\frac{1}{3}$

4) $x=\pm 2,\pm 5$

5) $x_1=\sqrt[3]{7}\ ,\ x_2=-2$

6) $x=-2,\sqrt[3]{4}$

7) $x_1=4\ ,\ x_2=49$

8) $x_{1,2}=\pm\sqrt[4]{34}\ ,\ x_{3,4}=\pm 1$

9) $x=5,-1$

10) $x_1=1.5\ ,\ x_2=-1\ ,\ x_3=1\ ,\ x_4=-\frac{1}{2}$

11) $x=-1$

12) $x_{1,2}=1,3$

13) $x_1=0\ ,\ x_2=-2\ ,\ x_3=3.06\ ,\ x_4=-5.06$

14) $x_1=0\ ,\ x_2=-2$

15) אין פתרונות.

16) $x=\pm\sqrt{\frac{3}{7}}$

17) $x=\frac{1}{2},1,\frac{3}{2},3$

18) $x=-1,2$

19) $x=3,-1$

20) $x=\pm 1,4,6$

# משוואות עם פרמטרים:

## סיכום כללי:

משוואה עם פרמטר הינה משוואה שמכילה שני סוגים של גדלים – משתנים ופרמטרים.
את המשתנים מקובל לסמן באותיות $x$ , $y$ , $z$ ואת הפרמטרים מסמנים בשאר האותיות.
פתרון המשוואה יתקבל ע"י בידוד המשתנה כך שיבוטא באמצעות הפרמטר/ים שבמשוואה.

למשל פתרון המשוואה: $mx=4$ (כאשר $x$ הוא הנעלם ו- $m$ הוא פרמטר) הוא $x=\frac{4}{m}$

אשר מבוטא באמצאות הפרמטר $m$.

בכתיבת פתרון של משוואה עם פרמטרים יש לציין את תחום ההגדרה של הפרמטר עבורו הפתרון הוא בעל משמעות. בדוגמא הנ"ל תחום ההגדרה הוא $m\neq 0$.

## שאלות:

**1)** פתור את המשוואות הבאות:

א. $3x-b=(b+1)x-6$

ב. $\frac{1}{3}(a-3x)=\frac{1}{a}(ax-3)$

ג. $(x-2a)(x-2b)=x^2-2(a^2+b^2)$

ד. $\frac{m+1}{x-1}=\frac{m-1}{x+1}$

ה. $\frac{x}{a^2-a}-\frac{1}{2a}=\frac{ax+x}{2a^3-4a^2+2a}-\frac{2}{a^3-2a^2+a}$

**2)** פתור את מערכות המשוואות הבאות:

א. $\begin{cases} x+my=1 \\ x+y=m \end{cases}$

ב. $\begin{cases} ax+y=2 \\ x+ay=4 \end{cases}$

ג. $\begin{cases} \frac{x}{m}+y=m \\ x-m^2y=1 \end{cases}$

ד. $\begin{cases} (m-1)x-(2m+3)y=5 \\ (m+2)x-(2m-1)y=10m \end{cases}$

ה. $\begin{cases} (2a+b)x-(2a-b)y=8ab \\ (2a-b)x+(2a+b)y=8a^2-2b^2 \end{cases}$

**3)** פתור את המשוואות הריבועיות הבאות:

א. $x^2-2mx+m^2-1=0$

ב. $x^2-2x+4a=a^2+3$

ג. $x^2+m(x+10)=2m^2-5x$

ד. $\frac{1}{a-x}+\frac{1}{a}+\frac{1}{a+x}=0$

ה. $(m^2+1)x^2-m^2x-1=0$

ו. $\frac{a}{x}+\frac{1}{b}=\frac{x}{a}+b$

ז. $x+\frac{1}{x}=\frac{a-b}{a+b}+\frac{a+b}{a-b}$

## תשובות סופיות:

**1)** א. $x=\frac{b-6}{2-b}\ ,\ b\neq 2$ ב. $x=\frac{a^2+9}{6a}\ ,\ a\neq 0$ ג. $x=a+b$ ד. $x=-m$ ה. $x=a+1$

**2)** א. $m\neq 1\ ,\ (m+1,-1)$ ב. $a\neq \pm 1\ ,\ \left(\frac{2a-4}{a^2-1},\frac{4a-2}{a^2-1}\right)$

ג. $m\neq 0-1\ ,\ \left(m^2-m+1,\frac{m-1}{m}\right)$ ד. $m\neq 1,-2\ ,\ (2m+1,m-2)$

ה. $b\neq \pm 2a\ ,\ (2a+b,2a-b)$

**3)** א. $x=m+1,\mathrm{m}-1$ ב. $x=a-1,3-a$ ג. $x=m-5,-2m$

ד. $a\neq 0\ ,\ x\neq \pm a\ ,\ x=\pm a\sqrt{3}$ ה. $x=1,-\frac{1}{m^2+1}$

ו. $a,b\neq 0\ ,\ x=\frac{a}{b},-ab$ ז. $a\neq \pm b\ ,\ x=\frac{a+b}{a-b},\frac{a-b}{a+b}$.

# משוואות עם שורשים:

## סיכום כללי:

פתרון משוואה מהצורה: $\sqrt{x}=a$ יתקבל ע"י העלאה בריבוע של שני אגפי המשוואה באופן הבא: $\left(\sqrt{x}\right)^2=\left(a\right)^2 \quad \rightarrow \quad x=a^2$.

**הערות:**

1) יש לזכור בעת העלאה בריבוע של שני אגפי המשוואה יש לבדוק את כל הפתרונות המתקבלים ע"י הצבתם במשוואה המקורית.
2) למשוואה מהצורה $\sqrt{x}=a$ שבה $a<0$ אין פתרון.
3) יש לסדר תחילה משוואות שבהן הביטוי עם שורש אינו מבודד.
4) במשוואות שבהן יותר מביטוי אחד עם שורש יש לבודד תחילה את אחד הביטויים, להעלות בריבוע ולאחר מכן לחזור על התהליך ולבצע העלאה בריבוע פעם נוספת.

## שאלות:

פתור את המשוואות הבאות:

1) $\sqrt{2x+5}=7$
2) $\sqrt{x+2}=x$
3) $\sqrt{3x+1}+x=13$
4) $\sqrt{2x+7}+4=x$
5) $\sqrt{x-1}+3=x$
6) $\sqrt{10x+6}+9=x$
7) $\sqrt{x+6}-2=2x$
8) $\sqrt{24-x}+3=2x$
9) $\sqrt{x+16}+4=2x$
10) $2x=16-3\sqrt{x-1}$
11) $\sqrt{3x+5}=\sqrt{x+17}$
12) $\sqrt{x^2-5x+12}=2\sqrt{6-x}$
13) $\sqrt{x-1}\cdot\sqrt{2x-5}=\sqrt{11-x^2}$
14) $\sqrt{2x-1}+3=\sqrt{7x+1}$
15) $\sqrt{9x-8}-3\sqrt{x+4}=-2$
16) $\sqrt{2x-3}+\sqrt{3-x}=2$
17) $\sqrt{x+3}+\sqrt{x-2}=\sqrt{4x+1}$
18) $\sqrt{2x-2}+\sqrt{5x-4}=\sqrt{3x-2}$
19) $3\sqrt{x-1}+\sqrt{2x-3}=2\sqrt{x+2}$

## תשובות סופיות:

1) $x=22$

2) $x=2$

3) $x=8$

4) $x=9$

5) $x=5$

6) $x=25$

7) $x=0.25$

8) $x=3.75$

9) $x=4.25$

10) $x=5$

11) $x=6$

12) $x=4,-3$

13) $x=3$

14) $x=5$

15) $x=12$

16) $x=2,2\frac{8}{9}$

17) $x=6$

18) $x=1$

19) $x=2$

# משוואות עם ערך מוחלט:

## סיכום כללי:

**הגדרה:**

ערך מוחלט הינו המרחק של מספר מ-0 ומוגדר באופן הבא: $|x|=\begin{cases} x & x\ge 0 \\ -x & x<0 \end{cases}$.

**משוואה עם ערך מוחלט:**

משוואה עם ערך מוחלט היא מהצורה: $|x|=a$.

כדי לפתור משוואה עם ערכים מוחלטים יש למצוא את נקודות האפס של כל ערך מוחלט (קרי: הנקודות בהן הביטוי שבתוך הערך המוחלט מתאפס) ולפצל את המשואה הנתונה לתחומים עבור כל תחום.

## שאלות:

פתור את המשוואות הבאות:

1) $|3x+14|=7$

2) $|3x-24|=x$

3) $|12-x|=3x$

4) $2x-|8-x|=10$

5) $|4x-5|=|2x+13|$

6) $|14-3x|=2|x+5|$

7) $|x|+7=|2x|$

8) $|x+2|+6=|2x-4|$

9) $|x+2|+|2x-6|=|4x+8|$

10) $|10-3x|-|x+4|=|2x-6|$

## תשובות סופיות:

1) $x=-\frac{7}{3},\ -7$

2) $x=6,12$

3) $x=3$

4) $x=6$

5) $x=9,-1\frac{1}{3}$

6) $x=24,\frac{4}{5}$

7) $x=\pm 7$

8) $x=12,-1\frac{1}{3}$

9) $x=0,-12$

10) $x=0$

# מערכת משוואות ממעלה שנייה:

## סיכום כללי:

מערכת משוואות ריבועיות מיוחסת למערכת של שתי משוואות (לפחות) שאחת מהן מכילה את אחד מהנעלמים בריבוע. למערכת משוואות ריבועיות יכולים להתקבל עד 4 פתרונות שונים. יש לפתור את המערכת לפי הטכניקות הרגילות של בידוד והצבה או השוואת מקדמים.

## שאלות:

פתור את מערכות המשוואות הבאות:

1) $\begin{cases} x^2+y^2=20 \\ x+y=6 \end{cases}$

2) $\begin{cases} 2x^2+y^2=36 \\ x^2+3y=10 \end{cases}$

3) $\begin{cases} 3x^2+4y^2=16 \\ 5x^2-3y^2=17 \end{cases}$

4) $\begin{cases} x^2-2y^2=17 \\ xy=-10 \end{cases}$

5) $\begin{cases} x^2-xy-20y^2=0 \\ x+6y=1 \end{cases}$

6) $\begin{cases} x^2-2xy+8y^2=8 \\ 3xy-2y^2=4 \end{cases}$

7) $\begin{cases} x^2-y^2=33 \\ x+y=11 \end{cases}$

8) $\begin{cases} 16x^2-y^2=391 \\ 4x-y=23 \end{cases}$

9) $\begin{cases} 4xy+x=-15 \\ \frac{3}{y}-2x=16 \end{cases}$

10) $\begin{cases} \frac{3}{x}+\frac{1}{y}=5 \\ \frac{4}{y}-\frac{1}{x}=-19 \end{cases}$

11) $\begin{cases} \frac{3}{x}+\frac{5}{y}=21 \\ \frac{8}{x}-\frac{1}{y}=13 \end{cases}$

12) $\begin{cases} xy=24 \\ (y-x)^2-7(y-x)+10=0 \end{cases}$

13) $\begin{cases} x^2y-xy^2=84 \\ x^2-2xy+y^2+5x-5y=24 \end{cases}$

14) $\begin{cases} \sqrt{\frac{x}{y}}+\sqrt{\frac{y}{x}}=\frac{10}{3} \\ x^2+y^2=9xy+25 \end{cases}$

## תשובות סופיות:

1) $(2,4),(4,2)$

2) $(\pm 4,-2)$

3) $(\pm 2,\pm 1)$

4) $(5,-2),(-5,2)$

5) $\left(-2,\frac{1}{2}\right),\left(\frac{5}{11},\frac{1}{11}\right)$

6) $\left(3,\frac{1}{2}\right),\left(-3,-\frac{1}{2}\right),(2,1),(-2,-1)$

7) $(7,4)$

8) $(5,-3)$

9) $\left(-5,\frac{1}{2}\right)$ , $\left(-24,-\frac{3}{32}\right)$

10) $\left(\frac{1}{3},-\frac{1}{4}\right)$

11) $\left(\frac{1}{2},\frac{1}{3}\right)$

12) $(4,6)$ , $(-6,-4)$ , $(3,8)$ , $(-8,-3)$

13) $(-1.65,6.35)$ , $(-6.35,1.65)$ , $(7,4)$ , $(-4,-7)$

14) $(5,45)$ , $(-5,-45)$ , $(45,5)$ , $(-45,-5)$

# משוואות מסכמות מתקדמות:

## סיכום כללי:

**תזכורת מהירה:**

- משוואה דו-ריבועית יכולה להופיע בכל תצורה (עם שורשים, עם ערכים מוחלטים וכו').
העיקרון הוא זיהוי תבנית של הנעלם אשר חוזרת על עצמה לאורך המשוואה.
סימון התבנית במשתנה זמני ופתרון עבור משתנה זה תוביל למשוואה מוגדרת ופתירה.
לאחר מכן יש להחזיר את ההצבה לתבנית של המשתנה המקורי ולמצוא את ערכיו.

- דרך הפתרון של משוואה עם שורשים היא ע"י בידוד השורש והעלאה בריבוע.
במידה ויש יותר משורש אחד המופיעים בחיבור/חיסור יש לבצע את הפעולה פעמיים.
חשוב לוודא נכונות של כל הפתרונות המתקבלים ע"י הצבה במשוואה המקורית לפני ההעלאות בריבוע.

- דרך הפתרון של משוואה עם ערכים מוחלטים היא ע"י פיצול המשוואה לתחומים לפי סימני הערך המוחלט. זאת יש לבצע ע"י איפוס הביטוי שבכל ערך מוחלט ומציאת ערכי הנעלם המקיימים זאת, חלוקת המשוואה לתחומים מתאימים ופתרונה בכל תחום.
יש לזכור לבדוק האם הפתרון המתקבל נמצא בתחום הפתרון – במידה וכן הוא פתרון של המשוואה, אחרת הוא נפסל.

- משוואה עם פרמטר/ים נפתרת בצורה רגילה (התייחסות לפרמטר/ים כאל קבועים מספריים) כאשר יש לציין את תחומי ההגדרה שלהם. יש לבדוק פתרונות שמתקבלים המבוטאים באמצעות הפרמטר/ים במידה וקיימת הגבלת תחום הגדרה במשוואה.

## שאלות:

פתור את המשוואות הבאות:

1) $x+\sqrt{x+6}-6=0$

2) $x^2+5x-\sqrt{x^2+5x}-30=0$

3) $4x^2+16x-4\sqrt{x^2+4x}-3=0$

4) $2x^2+6x-\sqrt{x^2+3x+5}=5$

5) $x^2-\sqrt{16x^2+48}+7=0$

6) $x^2-\sqrt{6x^2-15}=1$

7) $\frac{x^2}{\sqrt{3x-2}}-\sqrt{3x-2}=1-x$

8) $\frac{\sqrt{x^2+4x-12}}{\sqrt{x-1}}+\sqrt{x+5}=\frac{7}{\sqrt{x-1}}$

9) $\sqrt{x^2-3x+2}+\sqrt{x+3}=\sqrt{x-2}+\sqrt{x^2+2x-3}$

10) $\sqrt{x+\sqrt{14x-49}}+\sqrt{x-\sqrt{14x-49}}=\sqrt{14}$

11) $\sqrt{x+6+6\sqrt{x-3}}-\sqrt{x+6-6\sqrt{x-3}}=2$

12) $\frac{4}{x+\sqrt{x^2+x}}-\frac{1}{x-\sqrt{x^2+x}}=\frac{3}{x}$

פתור את המשוואות הבאות עבור $a>0$:

13) $x^2+ax-2a\sqrt{x^2+ax-a^2}=0$

14) $x^2+ax-2a\sqrt{3x^2+3ax-9a^2}=0$

פתור את המשוואות הבאות:

15) $\left|3-\left|2-x\right|+\left|x\right|\right|=1$

16) $\left|4-\left|5-x\right|\right|=\left|x+3\right|$

17) $\left|\frac{x+\left|3-x\right|}{x+2}\right|=18$

18) $\sqrt{25+\left|16x^2-25\right|}=4+4\left|x+1\right|$

19) $\frac{x^3-5x}{\sqrt{2x^2-4x-1}-\left|x\right|+2}=0$

20) הראה כי אין פתרון למשוואה הבאה: $\frac{\left|x+2\right|}{\left|x\right|+2}=\left|2-x\right|+2$.

## תשובות סופיות:

1) $x=3$

2) $x_1=4\ ,\ x_2=-9$

3) $x_1=0.5\ ,\ x_2=-4.5$

4) $x_1=1\ ,\ x_2=-4$

5) $x_{1,2}=\pm 1$

6) $x_{1,2}=\pm 2$

7) $x=1$.

8) $x=3$.

9) $x=2$.

10) $3.5\le x\le 7$.

11) $x=4$.

12) $x=1\ ,\ x=\frac{9}{16}$.

13) $x_1=-2a\ ,\ x_2=a$

14) $x_1=-2a\ ,\ x_2=3a$

15) $x\le 0$.

16) $x=-1$.

17) $x=-\frac{39}{18},-\frac{33}{18}$.

18) $x\le\frac{5}{4}\ ,\ x=-\frac{1}{4}$.

19) $x=-\sqrt{5}$.

20) שאלת הוכחה.

# ביטויים ומשוואות ממעלה שלישית:

## סיכום כללי:

נוסחאות הכפל המקוצר ממעלה שלישית:

$$(a\pm b)^3=a^3\pm 3a^2b+3ab^2\pm b^3$$

$$a^3\pm b^3=(a\pm b)(a^2\mp ab+b^2)$$

## שאלות:

### פישוט ביטויים:

פשט את הביטויים הבאים:

1) $(x-3)^3$

2) $(2y+5)^3$

3) $8x^3-1$

4) $8y^3+343$

5) $a^6-27$

6) $x^3y^6z^9-1$

7) $11+88x^{12}$

8) $64mn^4-8m^4n^7$

9) $\dfrac{x^2+4x+4}{x^3+6x^2+12x+8}$

10) $\dfrac{x^3+64}{x^2+4x}$

### משוואות בנעלם אחד עם נוסחאות הכפל המקוצר:

פתור את המשוואות הבאות:

11) $x^3-12x^2+48x-64=0$

12) $125x^3=1-15x+75x^2$

13) $x^3+x-30=0$

14) $x^3-7x-6=0$

### משוואות בנעלם אחד עם פירוקים שונים:

פתור את המשוואות הבאות:

15) $2x^3-7x^2+7x-2=0$

16) $2x^3+5x^2-2x-5=0$

**מערכת משוואות:**

**17)** פתור את מערכת המשוואות הבאה: $\begin{cases} x^3+y^3=243 \\ x+y=9 \end{cases}$.

**18)** פתור את מערכת המשוואות הבאה: $\begin{cases} x^3-y^3=91 \\ x^2y-xy^2=30 \end{cases}$.

## תשובות סופיות:

**1)** $x^3-9x+27x-27$

**2)** $(2x-1)(4x^2+2x+1)$

**3)** $(a^2-3)(a^4+3a^2+9)$

**4)** $8(1+2x^4)(1-2x^4+4x^8)$

**5)** $\frac{1}{x+2}$

**6)** $x=4$

**7)** $x=3$

**8)** $x_{1,2,3}=\frac{1}{2}, 1, 2$

**9)** $(3,6), (6,3)$

**10)** $8y^3+60y^2+150y+125$

**11)** $(2y+7)(4y^2-17y+49)$

**12)** $(xy^2z^3-1)(x^2y^4z^6+xy^2z^3+1)$

**13)** $8mn^4(2-mn)(4+2mn+m^2n^2)$

**14)** $\frac{x^2-4x+16}{x}$

**15)** $x=\frac{1}{}$

**16)** $x_{1,2,3}=-2, -1, 3$

**17)** $x_{1,2,3}=-2.5, -1, 1$

**18)** $(-5,-6), (6,5)$

# קורס קדם במתמטיקה למהנדסים

## פרק 3 - אי שוויונים אלגבריים

### תוכן העניינים


1. אי שוויונים ממעלה ראשונה ..... 69
2. אי שוויונים ממעלה שנייה ..... 71
3. אי שוויונים ממעלה שלישית ..... 72
4. אי שוויונים עם מנה ..... 73
5. אי שוויונים כפולים מערכות וגם ואו ..... 75
6. שאלות מסכמות ..... 76
7. מציאת תחום הגדרה ..... 78
8. אי שוויונים עם ערך מוחלט ..... 80
9. אי שוויונים עם שורשים ..... 83

# אי-שוויונים ממעלה ראשונה:

## סיכום כללי:

**פעולות המותרות לביצוע בפתרון אי-שוויון:**

- לחבר או לחסר כל מספר או ביטוי.
- לכפול או לחלק בכל מספר או ביטוי חיובי.
- לכפול או לחלק בכל מספר או ביטוי שלילי תוך הפיכת סימן אי-השוויון.
- להעלות בחזקה אי זוגית.
- להעלות בחזקה זוגית אם שני אגפי אי-השוויון אינם שליליים.

**פעולות אסורות לביצוע בפתרון אי-שוויון:**

- לכפול או לחלק בביטוי שלא יודעים את סימנו.
- להעלות בחזקה זוגית כשיש אגף שלילי.

## שאלות:

פתור את אי-השוויונים הבאים:

1) $45x-26>109$

2) $6x>2(3x-1)$

3) $2(x-5)\geq\frac{1}{2}(4x+6)$

4) $(x-2)^2+4<(x+2)^2+20$

5) $\frac{8x-4}{2}<\frac{9(x+1)}{3}$

6) $4(6x-8)<8(3x-4)$

7) $\frac{x-6}{3}-\frac{x-4}{4}\geq 12-x$

8) $\frac{7-x}{10}-\frac{3x-1}{5}+\frac{x+4}{3}<7$

## תשובות סופיות:

1) $x>3$

2) כל $x$

3) אף $x$

4) $x>-2$

5) $x<5$

6) אף $x$

7) $x\geq 12$

8) $x>-13$

# אי-שוויונים ממעלה שנייה:

## סיכום כללי:

אי שוויון ריבועי הוא מהצורה: $ax^2+bx+c \gtrless 0$ כאשר $a \neq 0$.

כדי לפתור אי שוויון ריבועי יש למצוא את נקודות האפס של הביטוי הריבועי ולאחר מכן למצוא את תחום ההצבה עבורו הביטוי מקיים את אי השוויון עצמו.

## שאלות:

פתור את אי-השוויונים הבאים:

1) $x^2<144$

2) $x^2-12x>-32$

3) $(x+2)(x+5)<0$

4) $(x+2)(x+4)<35$

5) $-x^2+13x+30<0$

6) $(x-3)(x-7)\geq 8x-56$

7) $(x-5)^2+x(x+2)<89$

8) $(5x+6)^2\leq 4(x-3)^2$

9) $-3x^2+12x>0$

10) $x^2-10x+25>0$

11) $(x-3)^2>(x-1)(x+6)-x^2-3x$

12) $2x^2+2x+24\geq 0$

## תשובות סופיות:

1) $-12<x<12$

2) $x<4\ ,\ x>8$

3) $-5<x<-2$

4) $-9<x<3$

5) $x<-2\ ,\ x>15$

6) $x\leq 7\ ,\ x\geq 11$

7) $-4<x<8$

8) $-4\leq x\leq 0$

9) $0<x<4$

10) $x>5\ ,\ x<5$

11) $x<3\ ,\ x>5$

12) כל $x$

# אי-שוויונים ממעלה שלישית:

## סיכום כללי:

אי שוויונים ממעלה גבוהה מיוחסים לכאלה שניתן לכתוב אותם בצורה של פולינומים, כגון: $x^3-4x^2+4x+1>0$ , $x^4+2x^2+1<0$ וכו'.

בפועל נפתור אותם ע"י פירוק לגורמים ומציאת נקודות האפס של כל גורם.

לאחר מכן נבדוק את כל אחד מתחומי המספרים המתקבלים עבור הנעלם ונראה באלו מהם מתקבל פסוק אמת.

## שאלות:

פתור את אי-השוויונים הבאים:

1) $(x-1)(x-2)(x-3)>0$

2) $x(x^2+x+1)>0$

3) $(-2x^2-3x+2)(x+1)\le 0$

4) $x^3-25x\ge 0$

5) $(x^2+3x+5)(x-2)>0$

6) $(x^2+8x+20)(3x-5)\le 0$

7) $(x^2-x-6)(x-1)<0$

8) $x^3-6x^2+9x\le 0$

9) $(x^2+6)(x+3)>0$

10) $(x-2)(x-4)(x-1)<0$

## תשובות סופיות:

1) $1<x<2\ ,\ x>3$

2) $x>0$

3) $-2\le x\le -1\ ,\ x\ge \frac{1}{2}$

4) $-5\le x\le 0\ ,\ x\ge 5$

5) $x>2$

6) $x\le 1\frac{2}{3}$

7) $x<-2\ ,\ 1<x<3$

8) $x\le 0\ ,\ x=3$

9) $x>-3$

10) $x<1\ ,\ 2<x<4$

# אי-שוויונים עם מנה:

## סיכום כללי:

אי שוויון מהצורה: $\frac{f(x)}{g(x)}>0$ (או $\frac{f(x)}{g(x)}<0$) נקרא אי-שוויון עם מנה, בו $f(x)$ ו-$g(x)$ הם פולינומים כלשהם.

למשל: $\frac{2x+4}{x^2-3x+4}<0$ בו: $f(x)=2x+4$ ו-$g(x)=x^2-3x+4$.

כדי לפתור אי שוויון עם מנה נמצא את נקודות האפס של $f(x)$ ושל $g(x)$ ונציב מספרים בתחומים המתקבלים. אלו שיתנו פסוק אמת יהוו את פתרון אי השוויון.

**הערות:**

- ניתן לבצע כפל של המכנה בריבוע בכדי להעביר את אי השוויון לצורה של מכפלות.
- ניתן להעביר אי שוויון המכיל מספר מנות ומספרים שלמים לצורה הנ"ל ע"י פעולות אלגבריות מתאימות תחילה.

## שאלות:

פתור את אי-השוויונים הבאים:

1) $\frac{x-1}{x^2-9}>0$

2) $\frac{x-1}{3x+2}\geq -3$

3) $\frac{1}{x^2-16}>0$

4) $\frac{x-3}{2x^2-10x+12}>0$

5) $\frac{2x-1}{x-5}\leq 0$

6) $\frac{1}{-3(x-1)}<0$

7) $\frac{x-1}{x+2}\leq 1$

8) $\frac{1}{x^2-5x+6}<0$

9) $\frac{x^2-7x+6}{-x^2+3x-7}\geq 0$

10) $\frac{1}{x^2-8x+12}\geq 0$

## תשובות סופיות:

1) $-3<x<1\,,\,x>3$

2) $x<-\frac{2}{3}\,,\,x\geq-\frac{1}{2}$

3) $x<-4\,,\,x>4$

4) $2<x<3\,,\,x>3$

5) $\frac{1}{2}\leq x<5$

6) $x>1$

7) $x>-2$

8) $2<x<3$

9) $1\leq x\leq 6$

10) $x<2\,,\,x>6$

# אי-שוויונים כפולים - מערכת וגם:

## סיכום כללי:

אי-שוויון כפול הוא צורה מקוצרת להציג שני אי-שיווינים אשר יש לפתור יחד (קרי: כמערכת 'וגם'). למשל במקום לכתוב: $a<b$ וגם $b<c$ , ניתן לכתוב: $a<b<c$.

מכאן כי כדי לפתור אי שוויון כפול יש לפצל אותו תחילה לשני אי-שיווינים ולפתור כל אחד בנפרד. לאחר מכן יש לקחת את חיתוך הפתרונות.

## שאלות:

פתור את אי-השוויונים הבאים:

1) $3<x+1<5$

2) $0<\frac{1}{x+4}<2$

3) $-1<\frac{x-1}{x+1}<1$

4) $0<\frac{8-3x}{5-2x}<4$

5) $6x-38\le x-3\le 5x+7$

6) $6<\frac{2x+10}{3}\le\frac{7x-20}{5}$

7) $-1\le\frac{2x-6}{4}<\frac{x+2}{3}$

8) $\frac{4x+5}{15}>\frac{3x-8}{5}+\frac{9-x}{3}>11$

## תשובות סופיות:

1) $2<x<4$

2) $x>-3\frac{1}{2}$

3) $x>0$

4) $x<2\frac{2}{5}\ ,\ x>2\frac{2}{3}$

5) $-2.5\le x\le 7$

6) $x\ge 10$

7) $1\le x<13$

8) $\phi$

# שאלות מסכמות – אי-שוויונים:

## שאלות:

פתור את אי-השוויונים הבאים:

1) $x \le -\frac{3}{4} \cap \{-2 < x \le 5 \ \cup \ 0 < x < 8\}$

2) $x(x+5)-3x+15 \le 2x-1-x(4-x)$

3) $\frac{(x-3)(x+4)}{2-x} \le 0$

4) $\frac{(x-5)(3x+1)}{(2-x)(x+7)} < 0$

5) $\frac{(2x-3)(x-12)}{(x+1)(4-x)} \ge 0$

6) $x(x+3)(2x-5) < 0$

7) $\frac{(x-6)^2(x+1)}{x-2} > 0$

8) $\frac{5-2x}{(x-8)^2} \le 0$

9) $\frac{x-3}{x^2+2} > 0$

10) $\frac{x^2-4x}{x^2+2x-3} > 0$

11) $\frac{x^2-6x+9}{x^3-x} > 0$

12) $\frac{x-7}{x^2+x+3} > 0$

13) $\frac{x}{x^2-4} + \frac{1}{x+2} < \frac{1}{x-2}$

14) $\frac{2x^2}{x^2-6x+8} \ge \frac{x}{x-4} - \frac{x}{x-2}$

15) $6 < 5x - x^2 \cap x^2 > 3x+10$

16) $\frac{3}{x-1} - \frac{2}{x} > 0 \ \cup \ \frac{1}{x-3} < \frac{1}{1-x}$

17) $1 < \frac{x-1}{x-4} \le 2$

18) לאלו ערכי $x$ נמצאת הפונקציה $f(x) = \frac{x}{x-3}$ מעל הפונקציה: $g(x) = \frac{x+1}{x+3}$?

## תשובות סופיות:

1) $-2 < x \le -\frac{3}{4}$

2) $x \le -4$

3) $-4 \le x < 2 \, , \, 3 \le x$

4) $x < -7 \, , \, -\frac{1}{3} < x < 2 \, , \, x > 5$

5) $-1 < x \le 1.5 \, , \, 4 < x \le 12$

6) $x < -3 \, , \, 0 < x < 2.5$

7) $x < -1 \, , \, 2 < x < 6 \, , \, x > 6$

8) $2.5 \le x < 8 \, , \, x > 8$

9) $x > 3$

10) $x < -3 \, , \, 0 < x < 1 \, , \, x > 4$

11) $-1 < x < 0 \, , \, 1 < x < 3 \, , \, x > 3$

12) $x > 7$

13) $x < -2 \, , \, 2 < x < 4$

14) $x \le 0 \, , \, 1 \le x < 2 \, , \, x > 4$

15) אף $x$

16) $x \ne 1$

17) $x \ge 7$

18) $-3 < x < -\frac{3}{5} \, , \, x > 3$

# תחום הגדרה:

## שאלות:

**1)** מצא את תחום ההגדרה של הפונקציות הבאות:

א. $f(x)=\sqrt{3x-4}$

ב. $f(x)=\sqrt{x^2-5x-6}$

ג. $f(x)=\sqrt{12x-x^2-x^3}$

ד. $f(x)=\sqrt{\frac{x+5}{x^2-4}}$

ה. $f(x)=\frac{1}{\sqrt{x+2}-x}$

ו. $f(x)=\frac{\sqrt{3x^2-2x-1}}{2x-3}$

**2)** מצא את תחום ההגדרה של הפונקציות הבאות:

א. $f(x)=\sqrt{\sqrt{x+2}-3}$

ב. $f(x)=\frac{1}{x+\sqrt{x+6}}$

ג. $f(x)=\sqrt{\frac{2x^2+x-3}{x^2+5x+9}}$

ד. $f(x)=\frac{\sqrt{x^2+5x+6}}{x-1}$

**3)** תחום ההגדרה של הפונקציה: $f(x)=\sqrt{ax-x^2-4}$ הוא $1\le x\le 4$.
מצא את ערכו של הפרמטר $a$.

**4)** תחום ההגדרה של הפונקציה: $f(x)=\sqrt{\frac{x+a}{x-a}}$ הוא $x\le -2\ ,\ x>2$.
מצא את ערכו של הפרמטר $a$.

**5)** נתונה הפונקציה: $f(x)=\sqrt{\sqrt{x+6}-a}$ , ($a$ פרמטר חיובי).

א. הבע באמצעות $a$ את תחום הגדרתה.

ב. מגדירים פונקציה נוספת: $g(x)=\sqrt{\frac{2x}{x+5}}$.
ידוע כי תחום ההגדרה של שתי הפונקציות מכסה את כל ציר המספרים.
מצא את תחום הערכים האפשרי של הפרמטר $a$.

## תשובות סופיות:

**1)** א. $x \geq 1\frac{1}{3}$ ב. $x \leq -1 , x \geq 6$ ג. $x \leq -4 , 0 \leq x \leq 3$

ד. $-5 \leq x < -2 , x > 2$ ה. $-2 \leq x < 2 , x > 2$ ו. $x \leq -\frac{1}{3} , 1 \leq x < \frac{3}{2} , x > \frac{3}{2}$

**2)** א. $x \geq 7$ ב. $-6 \leq x \neq -2$ ג. $x \leq -1\frac{1}{2} , x \geq 1$

ד. $x \leq -3 , -2 \leq x \neq 1$.

**3)** $a = 5$.

**4)** $a = 2$.

**5)** א. $x \geq a^2 - 6$ ב. $0 < a \leq 1$.

# אי שוויונים עם ערך מוחלט:

## סיכום כללי:

**כללים לפתרון אי שוויון עם ערך מוחלט יחיד:**

| מקרה | $\lvert x\rvert < a$ | $\lvert x\rvert > a$ |
|---|---|---|
| פתרון | $-a < x < a$ | $x < -a \cap x > a$ |

**כללים לפתרון אי שוויון עם מספר ערכים מוחלטים:**

- נמצא את הנקודות המאפסות כל ביטוי עם ערך מוחלט.
- מחלקים את אי השוויון לתחומים לפי נקודות האפס.
- פותרים את אי השוויון לכל תחום בנפרד.
- כותבים פתרון כללי (מערכת או) לכל התחומים יחדיו.

## שאלות:

**1)** פתור את אי-השוויונים הבאים:

א. $\lvert x+2\rvert < 3$

ב. $\lvert 2x+1\rvert > 7$

ג. $\lvert 6-2x\rvert < x$

ד. $\lvert 2x+1\rvert - 3x > 4$

**2)** פתור את אי-השוויונים הבאים:

א. $1 < \lvert 4-3x\rvert < 7$

ב. $\lvert 2x+3\rvert < 8 < \lvert 5-x\rvert$

**3)** פתור את אי-השוויונים הבאים:

א. $\lvert x^2+6x-4\rvert < 12$

ב. $\lvert x^2+x-10\rvert > 3x-2$

ג. $\lvert x^2-3x\rvert < 4$

ד. $\lvert 6x^2-7x-4\rvert > 1$

ה. $x^2-6\lvert x\rvert+5 \le 0$

ו. $x^2-6\lvert x+1\rvert-1 > 0$

4) פתור את אי-השוויונים הבאים:

א. $|x-3|+|2x+2|>7$

ב. $|x+8|<11-|1-3x|$

ג. $|3-2x|-11>4-|6+x|$

ד. $|2x-6|+|x+5|>14-|1-x|$

ה. $|5+4x|-|3-x|+\left|4-\frac{1}{2}x\right|\le 22$

ו. $|x+3|+|x^2-5x+4|<19$

5) פתור את אי-השוויונים הבאים:

א. $\left|\frac{3x-1}{x-2}\right|\ge 3$

ב. $1\le\left|\frac{x+2}{x-2}\right|\le 2$

ג. $\frac{|x-6|+8x}{x-12}\le 12$

ד. $\left|\frac{x^2+3x+2}{x^2-3x+2}\right|>5$

6) פתור את אי-השוויונים הבאים (ערך מוחלט ושורשים):

א. $\sqrt{x^2-|x-12|}<x$

ב. $2-\sqrt{1-x}\le|x+2|-3$

ג. $\sqrt{|2x+1|-x-1}\le 4-|3x|$

ד. $\frac{|x+2|-|x|}{\sqrt{4-x^3}}>0$

## תשובות סופיות:

**1)** א. $-5<x<1$ ב. $3<x$ או $x<-4$

ג. $2<x<6$ ד. $x<-1$.

**2)** א. $1\frac{2}{3}<x<3\frac{2}{3}$ או $-1<x<1$ ב. $-5\frac{1}{2}<x<-3$

**3)** א. $-2<x<2$ או $-8<x<-4$ ב. $4<x$ או $x<2$

ג. $-1<x<4$ ד. $x>\frac{5}{3}$ , $-\frac{1}{3}<x<\frac{3}{2}$ , $x<-\frac{1}{2}$

ה. $1\le x\le 5$ או $-5\le x\le -1$ ו. $x<-5$ , $x>7$

**4)** א. $2<x$ או $x<-2$ ב. $-1<x<1$

ג. $4<x$ או $x<-6$ ד. $4<x$ או $x<-1$

ה. $-7\frac{3}{7}\le x\le 4$ ו. $-2<x<6$.

**5)** א. $\frac{7}{6}\le x<2$ , $x>2$ ב. $0\le x\le\frac{2}{3}$ , $x\ge 6$

ג. $x<12$ , $x\ge 46$ ד. $\frac{1}{2}<x<1$ , $1<x<2$ , $2<x\le 4$

**6)** א. $x=-1$ , $x\ge 3$ , $x\ne 12$ ב. $x\le\frac{-15+\sqrt{33}}{2}$

ג. $0\le x\le 1$ , $-1\le x\le -\frac{2}{3}$ ד. $-1<x<\sqrt[3]{4}$

# אי שוויונים עם שורשים:

## סיכום כללי:

**מקרים בפתרון אי-שוויונות עם שורשים:**

| מקרה | אי השוויון | פתרון |
|---|---|---|
| $a \geq 0$ | $\sqrt{f(x)} < a$ | $0 \leq f(x) < a^2$ |
| $a < 0$ | $\sqrt{f(x)} < a$ | אין פתרון |
| | $\sqrt{f(x)} > a$ | כל $x$ בת.ה. של $f(x)$ |

## שאלות:

פתור את אי השוויונים הבאים:

1) $\sqrt{x+3} < 7$

2) $\sqrt{2x-5} \geq 1$

3) $\sqrt{2x^2+5x-6} > 2-x$

4) $\sqrt{x^2+x-6} < x-3$

5) $\sqrt{x^2+3x+2} - 1 < \sqrt{x^2-x+1}$

6) $\sqrt{x^2+5x+6} - \sqrt{x^2-x+1} < 1$

7) $\frac{1-\sqrt{1-4x^2}}{x} > \frac{3}{2}$

8) $\frac{4}{\sqrt{2-x}} - \sqrt{2-x} < 2$

9) $\sqrt{\frac{1}{x^2} - \frac{3}{4}} < \frac{1}{x} - \frac{1}{2}$

10) $\sqrt{2-\sqrt{3+x}} < \sqrt{4+x}$

11) $\sqrt{x+6} > \sqrt{x+1} + \sqrt{2x-5}$

12) $\sqrt{1+\frac{9}{x}} + 5\sqrt{\frac{x}{x+9}} \geq 4$

## תשובות סופיות:

1) $-3 \le x < 46$.

2) $x \ge 3$.

3) $x < -10$ , $x > 1$.

4) $\varnothing$.

5) $-1 \le x < \frac{-1+\sqrt{13}}{6}$ , $x \le -2$.

6) $-2 \le x < \frac{-13+\sqrt{73}}{16}$ , $x \le -3$.

7) $\frac{12}{25} < x \le \frac{1}{2}$.

8) $x < 2\sqrt{5} - 4$.

9) $1 < x \le \frac{2}{\sqrt{3}}$.

10) $-\frac{3+\sqrt{5}}{2} < x \le 1$ שזה: $-2.618 < x \le 1$.

11) $2.5 \le x < 3$.

12) $x < -9$ , $x > 0$.

# קורס קדם במתמטיקה למהנדסים

## פרק 4 - חוקי החזקות והשורשים

### תוכן העניינים

1. חוקי החזקות ..... 85
2. חוקי השורשים ..... 90
3. כתיבה מדעית של מספרים ..... 94

# חוקי החזקות:

## סיכום כללי:

### סיכום חוקי החזקות:

1. $a^0=1$
2. $a^1=a$
3. $a^n\cdot a^m=a^{m+n}$
4. $\frac{a^n}{a^m}=a^{n-m}$
5. $\left(a^n\right)^m=a^{n\cdot m}$
6. $a^m\cdot b^m=\left(a\cdot b\right)^m$
7. $\frac{a^m}{b^m}=\left(\frac{a}{b}\right)^m$
8. $a^{-m}=\frac{1}{a^m}$
9. $\left(\frac{a}{b}\right)^{-m}=\left(\frac{b}{a}\right)^m$

## שאלות:

**1)** פשט את הביטויים הבאים בעזרת החוקים: $a^na^m=a^{n+m}$ ו- $\frac{a^n}{a^m}=a^{n-m}$.

א. $a^2a^6$ ב. $t^3t^5t^7$ ג. $b^2b^5b^{12}b^3$

ד. $\frac{k^8}{k^3}$ ה. $\frac{n^{14}}{n^9}$ ו. $\frac{c^6}{c^2}$

ז. $\frac{a^3a^{19}}{a^{15}}$ ח. $\frac{x^{30}}{x^9x^{18}}$ ט. $\frac{y^3y^{15}}{y^4y^{14}}$

י. $3^23^33^4$ יא. $\frac{2^{16}2^2}{2^{10}}$ יב. $\frac{5^{20}5^35^{16}}{5^45^{22}5^8}$

**2)** פשט את הביטויים הבאים בעזרת החוקים: $a^na^m=a^{n+m}$ ו- $\frac{a^n}{a^m}=a^{n-m}$.

א. $\frac{3^42^7}{2^63^2}$ ב. $\frac{a^{10}b^{13}a^3}{b^4b^6b^2a^{12}}$ ג. $\frac{x^8y^5y^9x^2}{y^4x^4}$

**3)** לפניך הביטוי הבא: $\frac{3^62^{17}3^32^4}{3^42^32^2}$.

מצא $n$ כך שיתקיים שוויון בין הביטוי $243\cdot 2^n$ לבין הביטוי הנתון.

**4)** חשב ללא מחשבון את ערכי הביטויים הבאים:

א. $\frac{2^3\cdot 2^7}{2^4\cdot 2^5}$

ב. $\frac{9^3\cdot 27^2}{3^9\cdot 81}$

ג. $\frac{10^9\cdot 25^5\cdot 8^{-1}}{40^3\cdot 125^5}$

ד. $2^3+2^5$

**5)** פשט את הביטויים הבאים בעזרת החוק: $\left(a^n\right)^m=a^{n\cdot m}$.

א. $\left(a^2\right)^4$

ב. $\left(c^3\right)^{10}$

ג. $\left(x^3x^{10}\right)^2$

ד. $\frac{\left(b^2\right)^3}{b^2b^3}$

ה. $\frac{n^7n^8}{\left(n^3\right)^4}$

ו. $\frac{d^{20}\left(d^4\right)^2}{d^{12}\left(d^3\right)^2}$

ז. $\frac{2^5\left(2^4\right)^2 2^3}{\left(2^32^2\right)^3}$

ח. $\frac{3^6\left(3^33^2\right)^6}{3^{28}\left(3^2\right)^3}$

ט. $\frac{\left(8^3\right)^8 8^{11}}{\left(8^28\right)^3 8^8}$

י. $\frac{\left(2^4\right)^5\left(3^6\right)^7 2^{20}}{3^{35}2^{40}}$

יא. $\frac{\left(3^2\right)^6 5^{31}3^7}{\left(5^2\right)^{10} 5^{11}3^{18}}$

יב. $\frac{\left(3^2\right)^7 5^{10}\left(5^3\right)^2}{3^95^{16}}$

**6)** לפניך הביטויים הבאים: $\left(\left(3^2\right)^3\right)^4$ ו- $\left(\left(3^6\right)^n\right)^2$.
מצא $n$ כך שיתקיים שוויון בין שני הביטויים.

**7)** חשב ללא מחשבון את הביטויים הבאים:

א. $\frac{2^33^5}{2^{\,2}3^4}$

ב. $\frac{5^{20}3^{14}3^8}{3^{20}5^{12}5^8}$

ג. $\frac{7^{12}2^22^6}{2^57^{10}7}$

**8)** פשט את הביטויים הבאים:

א. $3^29\cdot 81^2$

ב. $64^22^38^2$

ג. $125\cdot 25\cdot 5^5$

ד. $\frac{2^4\cdot 16^5}{8\cdot 512}$

ה. $\frac{\left(4^2\right)^3 16}{64\cdot 2^3}$

ו. $\frac{\left(\left(3^4\right)^4\right)^5}{81^327^43^5}$

**9)** פשט את הביטויים הבאים:

א. $\dfrac{\left(2a^2b\right)^3\cdot\left(ab^{-3}\right)^2}{4ab^{-2}\cdot\left(\dfrac{a^2}{b}\right)^4}$

ב. $\dfrac{\left(k^2\right)^{m+2}\cdot k^{1-3m}}{\left(k^{2m}\right)^3\cdot\dfrac{1}{k^{7m-4}}}$

ג. $\dfrac{4^{b+3}}{4^{b+1}+4^{b+2}}$

ד. $\dfrac{1}{x^2}\cdot\dfrac{x^{n+3}+x^{n+5}}{x^{n+2}}$

**10)** פשט את הביטויים הבאים בעזרת החוקים: $\left(ab\right)^n=a^nb^n$ ו- $\left(\dfrac{a}{b}\right)^n=\dfrac{a^n}{b^n}$

א. $\left(a^2b\right)^3$

ב. $\left(m^4n^3\right)^5$

ג. $\left(x^{12}y^3\right)^3$

ד. $\left(\dfrac{a^3}{b^2}\right)^4$

ה. $\left(\dfrac{i^4}{k^3}\right)^7$

ו. $\left(\dfrac{a^{14}b^4}{a^6ab^3}\right)^3$

ז. $\left(\dfrac{x^3y^5y^2x^6}{y^4x^7}\right)^6$

ח. $\left(\dfrac{t^7r^{20}t^3}{r^2r^{12}t^8}\right)^2$

ט. $\left(\dfrac{\left(b^{12}c\right)^2c^{14}}{c\left(c^3b^5\right)^4b^3}\right)^2$

**11)** חשב ללא מחשבון את הביטויים הבאים:

א. $\left(\dfrac{3^92^62^2}{3^62^53^2}\right)^2$

ב. $\left(\dfrac{\left(5^4\right)^2\cdot3^6}{3^55^7}\right)^2$

ג. $\left(\dfrac{7^3\cdot16\cdot128\cdot49}{\left(2^27\right)^5}\right)^3$

**12)** בטא את הביטויים הבאים מחדש בעזרת שימוש בחזקה שלילית:

א. $\dfrac{1}{4^6}$

ב. $\dfrac{1}{5^3}$

ג. $\dfrac{1}{2^{10}}$

ד. $\dfrac{1}{8}$

ה. $\dfrac{1}{81}$

ו. $\dfrac{1}{125}$

**13)** בטא את הביטויים הבאים מחדש בעזרת שימוש בחזקה חיובית וחשב את ערכם:

א. $\dfrac{1}{4^{-3}}$

ב. $\dfrac{1}{3^{-2}}$

ג. $\dfrac{1}{5^{-3}}$

**14)** חשב את הביטויים הבאים:

א. $3^2\cdot 3^{-5}\cdot 3^7$

ב. $2^{-8}\cdot 512\cdot 2^2$

ג. $5^6\cdot 5^{-3}\cdot 5^{-2}$

ד. $2^{14}\cdot 3^{-6}\cdot 2^{16}\cdot 3^4\cdot 2^{-30}$

ה. $\frac{2^{-5}\cdot 5^3\cdot 2^{14}}{5^2\cdot 5^{-10}\cdot 5^8\cdot 2^6}$

ו. $\frac{3^{-6}\cdot 7^7\cdot 7^{-4}}{3^{-4}\cdot 3^{-3}\cdot 7^3}$

**15)** פשט את הביטויים הבאים לצורה ללא חזקות שליליות.

א. $\left(\frac{5^{-4}}{3^2}\right)^{-6}$

ב. $\frac{\left(4^4\right)^{-4}3^{-11}}{\left(3^{-2}4^3\right)^{-6}}$

ג. $\frac{2^{-3}5^4}{5^4\cdot 125\cdot\left(5^2 2\right)^{-3}\cdot 2^{-4}}$

**16)** פשט את הביטויים הבאים:

א. $\frac{a^{n+2}\cdot a^{2-3n}}{\left(a^3\right)^{n+1}}$

ב. $\frac{\left(k^2\right)^{m+2}\cdot k^{1-3m}}{\left(k^{2m}\right)^3\cdot\frac{1}{k^{7m-4}}}$

ג. $\frac{\left(m^{n+2}\right)^3\cdot m^{-4n-2}}{\frac{1}{m^{6n+2}}\cdot\left(m^3\right)^{n-2}}$

## תשובות סופיות:

**1)** א. $a^8$ ב. $t^{15}$ ג. $b^{22}$ ד. $k^5$ ה. $n^5$ ו. $c^4$

ז. $a^7$ ח. $x^3$ ט. $1$ י. $3^9$ יא. $2^8$ יב. $5^5$.

**2)** א. $18$ ב. $ab$ ג. $x^6y^{10}$.

**3)** $n=16$.

**4)** א. $2$ ב. $\frac{1}{3}$ ג. $\frac{5}{8}$ ד. $40$.

**5)** א. $a^8$ ב. $c^{30}$ ג. $x^{26}$ ד. $b$ ה. $n^3$ ו. $d^{10}$

ז. $2$ ח. $9$ ט. $8^{18}$ י. $3^7$ יא. $3$ יב. $3^5$.

**6)** $n=2$.

**7)** א. $6$ ב. $9$ ג. $56$.

**8)** א. $3^{12}$ ב. $2^{21}$ ג. $5^{10}$ ד. $2^{12}$ ה. $2^7$ ו. $3^{51}$.

**9)** א. $\frac{2b^3}{a}$ ב. $k$ ג. $3\frac{1}{5}$ ד. $\frac{1}{x}+x$.

**10)** א. $a^6b^3$ ב. $m^{20}n^{15}$ ג. $x^{36}y^9$ ד. $\frac{a^{12}}{b^8}$ ה. $\frac{i^{28}}{k^{21}}$ ו. $a^{21}b^3$

ז. $x^{12}y^{18}$ ח. $t^4r^{12}$ ט. $b^2c^6$.

**11)** א. $576$ ב. $225$ ג. $8$

**12)** א. $4^{-6}$ ב. $5^{-3}$ ג. $2^{-10}$ ד. $2^{-3}$ ה. $3^{-4}$ ו. $5^{-3}$.

**13)** א. $64$ ב. $9$ ג. $125$.

**14)** א. $81$ ב. $8$ ג. $5$ ד. $\frac{1}{9}$ ה. $1000$ ו. $3$.

**15)** א. $5^{24}\cdot 3^{12}$ ב. $\frac{4^2}{3^{23}}$ ג. $5^3\cdot 2^4$.

**16)** א. $a^{1-5n}$ ב. $k$ ג. $m^{2n+12}$.

# חוקי השורשים:

## סיכום כללי:

### סיכום חוקי השורשים:

1. $\sqrt{a}=a^{\frac{1}{2}}$
2. $\sqrt[m]{a}=a^{\frac{1}{m}}$
3. $\sqrt[m]{a^n}=a^{\frac{n}{m}}$
4. $\sqrt[m]{a}\cdot\sqrt[m]{b}=\sqrt[m]{a\cdot b}$
5. $\frac{\sqrt[m]{a}}{\sqrt[m]{b}}=\sqrt[m]{\frac{a}{b}}$
6. $\sqrt[n]{\sqrt[m]{a}}=\sqrt[m\cdot n]{a}$

## שאלות:

**17)** הבא את הביטויים הבאים לצורה: $\sqrt[n]{a^m}$ .

א. $3^{\frac{1}{4}}$ ב. $2^{\frac{3}{5}}$ ג. $6^{\frac{5}{6}}$

ד. $-12^{\frac{2}{7}}$ ה. $-(-4)^{\frac{1}{3}}$ ו. $-(-3)^{\frac{3}{4}}$

ז. $5^{-\frac{1}{4}}$ ח. $27^{-\frac{1}{3}}$ ט. $64^{-\frac{5}{6}}$

**18)** חשב ללא מחשבון את ערכם של הביטויים הבאים:

א. $\sqrt{49}$ ב. $-\sqrt{25}$ ג. $\sqrt[3]{8}$

ד. $-\sqrt[7]{128}$ ה. $\sqrt[3]{(-2)^6}$ ו. $\left(\sqrt[5]{1024}\right)^2$

ז. $\left(\sqrt[5]{-243}\right)^3$ ח. $\sqrt[4]{-16}$ ט. $\sqrt[4]{-25^2}$

י. $\sqrt[4]{(-25)^2}$

**19)** חשב ללא מחשבון את ערכם של הביטויים הבאים:

א. $8^{\frac{2}{3}}$ ב. $32^{-\frac{3}{5}}$ ג. $128^{-\frac{2}{7}}$

ד. $\left(\frac{1}{25}\right)^{-1.5}$ ה. $\left(2\frac{1}{4}\right)^{-2.5}$ ו. $\left(\frac{64}{343}\right)^{-\frac{2}{3}}$

ז. $81^{\frac{3}{4}}\cdot 64^{-\frac{1}{3}}$ ח. $343^{-\frac{2}{3}}\cdot 100^{\frac{1}{2}}$ ט. $16^{\frac{1}{4}}\cdot 8^{-\frac{1}{3}}\cdot 4^{-\frac{1}{2}}$

**20)** חשב ללא מחשבון את ערך הביטוי הבא: $\frac{\sqrt[5]{2^2}\cdot\sqrt{8}}{\sqrt[5]{128}}$.

**21)** פשט את הביטויים הבאים:

א. $\sqrt{2}\cdot\sqrt{8}$ ב. $\sqrt{3}\cdot\sqrt{27}$ ג. $\sqrt{4}\cdot\sqrt{5}\cdot\sqrt{20}$

ד. $\frac{\sqrt{72}}{\sqrt{2}}$ ה. $\frac{\sqrt[3]{81}}{\sqrt[3]{3}}$ ו. $\frac{\sqrt[5]{96}}{\sqrt[5]{3}}$

ז. $\frac{\sqrt[5]{2^2}\cdot\sqrt{8}}{\sqrt[5]{128}}$ ח. $\frac{\sqrt[3]{500}\cdot\sqrt{5}}{\sqrt[4]{25^2}\cdot\sqrt[3]{4}}$ ט. $\frac{\sqrt[3]{8^2}\sqrt[4]{25}}{\sqrt[4]{400}\sqrt{2}}$

**22)** הכנס לתוך שורש את המספרים החופשיים:

א. $3\sqrt{2}$ ב. $5\sqrt{3}$ ג. $\frac{\sqrt{36}}{2}$

ד. $2\sqrt[3]{3}$ ה. $x\sqrt{x}$

**23)** הכנס את כל המקדמים בביטויים הבאים לתוך השורש:

א. $2\sqrt{5}$ ב. $4\sqrt[3]{2}$ ג. $2\sqrt[5]{3}$

ד. $\frac{\sqrt{24}}{2}$ ה. $\frac{\sqrt[3]{24}}{2}$ ו. $\frac{3\sqrt[4]{5000}}{10}$

ז. $-5\sqrt[3]{2}$ ח. $-5\sqrt[4]{2}$ ט. $-5\sqrt[5]{-2}$

**24)** הוצא מהשורש את הכופל הגדול ביותר:

א. $\sqrt{12}$ ב. $\sqrt{48}$ ג. $\sqrt{63}$

ד. $\sqrt[3]{54}$ ה. $\sqrt{x^5}$

**25)** חלץ מן הביטויים הבאים את המקדם הגבוה ביותר ככל הניתן:

א. $\sqrt{40}$ ב. $\sqrt{50}$ ג. $\sqrt{320}$

ד. $\sqrt[3]{108}$ ה. $\sqrt[3]{56}$ ו. $\sqrt[5]{160}$

ז. $\sqrt[4]{162}$ ח. $\sqrt[5]{972}$ ט. $\sqrt[6]{192}$

**26)** פשט את הביטויים הבאים:

א. $\sqrt{18}-\sqrt{8}$ ב. $\sqrt{7}+\sqrt{63}$ ג. $\sqrt[3]{16}+\sqrt[3]{128}$

ד. $\sqrt[4]{405}-\sqrt[4]{80}$ ה. $\frac{20}{\sqrt{5}}$ ו. $\frac{\sqrt{8}}{2}$

ז. $\frac{16}{\sqrt{2}}$ ח. $\frac{6}{\sqrt{3}+\sqrt{12}}$ ט. $\frac{10}{\sqrt[5]{160}-\sqrt[5]{5}}$

**27)** פשט את הביטויים הבאים:

א. $3^{\frac{1}{4}}\cdot 9^{-2.5}\cdot 27^{\frac{3}{2}}$ ב. $2^{\frac{3}{4}}\cdot 16^{\frac{1}{2}}\cdot 64^{-3}$ ג. $125^{\frac{1}{6}}\cdot 5^{2}\cdot 5^{-\frac{2}{3}}$

ד. $\frac{27^{\frac{4}{3}}\cdot 3^{-\frac{2}{3}}}{9^{\frac{1}{6}}}$ ה. $\frac{49^{\frac{2}{5}}\cdot 7^{-\frac{6}{5}}}{343^{\frac{1}{5}}}$ ו. $\frac{512^{\frac{1}{4}}\cdot 64^{-\frac{3}{4}}}{128^{-\frac{1}{8}}\cdot 2^{-2}}$

## תשובות סופיות:

**17)** א. $\sqrt[4]{3}$ ב. $\sqrt[5]{2^3}$ ג. $\sqrt[6]{6^5}$ ד. $-\sqrt[7]{12^2}$ ה. $-\sqrt[3]{-4}$ ו. $\phi$

ז. $\frac{1}{\sqrt[4]{5}}$ ח. $\frac{1}{\sqrt[3]{27}}$ או $\frac{1}{3}$ ט. $\frac{1}{\sqrt[6]{64^5}}$ או $\frac{1}{2^5}$.

**18)** א. 7 ב. $-5$ ג. 2 ד. $-2$ ה. 4 ו. 16

ז. $-27$ ח. $\phi$ ט. $\phi$ י. 5.

**19)** א. 4 ב. $\frac{1}{8}$ ג. $\frac{1}{4}$ ד. 125 ה. $\frac{32}{243}$ ו. $\frac{49}{16}$

ז. $\frac{27}{4}$ ח. $\frac{10}{49}$ ט. $\frac{1}{2}$.

**20)** $\sqrt{2}$.

**21)** א. 4 ב. 9 ג. 20 ד. 6 ה. 3 ו. 2

ז. $\sqrt{2}$ ח. $\sqrt{5}$ ט. $\sqrt{2}$.

**22)** א. $\sqrt{18}$ ב. $\sqrt{75}$ ג. $\sqrt{9}$ ד. $\sqrt[3]{24}$ ה. $\sqrt{x^3}$.

**23)** א. $\sqrt{20}$ ב. $\sqrt[3]{128}$ ג. $\sqrt[5]{96}$ ד. $\sqrt{6}$ ה. $\sqrt[3]{3}$

ו. $\sqrt[4]{40\frac{1}{2}}$ ז. $\sqrt[3]{-250}$ ח. $-\sqrt[4]{1250}$ ט. $\sqrt[5]{5^5\cdot 2}$.

**24)** א. $2\sqrt{3}$ ב. $4\sqrt{3}$ ג. $3\sqrt{7}$ ד. $3\sqrt[3]{2}$ ה. $x^2\sqrt{x}$.

**25)** א. $2\sqrt{10}$ ב. $5\sqrt{2}$ ג. $8\sqrt{5}$ ד. $3\sqrt[3]{4}$ ה. $2\sqrt[3]{7}$ ו. $2\sqrt[5]{5}$

ז. $3\sqrt[4]{2}$ ח. $3\sqrt[5]{4}$ ט. $2\sqrt[6]{3}$.

**26)** א. $\sqrt{2}$ ב. $4\sqrt{7}$ ג. $6\sqrt[3]{2}$ ד. $\sqrt[4]{5}$ ה. $4\sqrt{5}$ ו. $\sqrt{2}$

ז. $8\sqrt{2}$ ח. $\frac{2}{\sqrt{3}}$ או $\frac{2\sqrt{3}}{3}$ ט. $\frac{10}{\sqrt[5]{5}}$ או $2\sqrt[5]{5^4}$.

**27)** א. $\frac{1}{\sqrt[4]{3}}$ ב. $\frac{1}{\sqrt[4]{2^{61}}}$ ג. $\sqrt[6]{5^{11}}$ ד. 27 ה. $\frac{1}{7}$ ו. $\sqrt[8]{2^5}$.

# כתיבה מדעית של מספרים:

## שאלות:

**28)** בטא את המספרים הבאים בכתיב מדעי:

א. 15,000,000
ב. 1,500,000
ג. 150,000,000,000
ד. 23,400,000
ה. 0.0003
ו. 0.00000042
ז. 0.000000042
ח. 0.00000000042

**29)** בטא את המספרים הבאים בכתיב מדעי:

א. $(3,000,000)^2$
ב. $(2,000,000)^2$
ג. $(5,000)^3$
ד. $(50,000)^3$
ה. $(0.0002)^4$
ו. $(0.00004)^3$
ז. $(0.000005)^3$
ח. $(0.000000007)^3$

## תשובות סופיות:

**28)** א. $1.5\cdot10^{7}$ ב. $1.5\cdot10^{6}$ ג. $1.5\cdot10^{11}$ ד. $2.34\cdot10^{7}$ ה. $3\cdot10^{-4}$
ו. $4.2\cdot10^{-7}$ ז. $4.2\cdot10^{-8}$ ח. $4.2\cdot10^{-10}$.

**29)** א. $9\cdot10^{12}$ ב. $4\cdot10^{12}$ ג. $1.25\cdot10^{11}$ ד. $1.25\cdot10^{14}$ ה. $1.6\cdot10^{-15}$
ו. $6.4\cdot10^{-14}$ ז. $1.25\cdot10^{-16}$ ח. $3.43\cdot10^{-25}$.

# קורס קדם במתמטיקה למהנדסים

## פרק 5 - משוואות ואי-שוויונים מעריכיים

### תוכן העניינים


1. משוואות מעריכיות יסודיות ..... 95
2. משוואות עם חיבור וחיסור איברים ..... 97
3. משוואות עם קבוע אוילר ..... 99
4. משוואות בהן המשתנה גם בבסיס ..... 100
5. משוואות מסכמות שונות ..... 101
6. מערכת משוואות מעריכיות ..... 102
7. אי שוויונים מעריכיים ..... 103
8. אי-שוויונים עם משתנה בבסיס ובמעריך ..... 104

# משוואות מעריכיות יסודיות:

## סיכום כללי:

- פתרון כללי של משוואת מעריכית מהצורה: $a^x = a^y$ הוא: $x = y$.
- פתרון של משוואה מהצורה: $a^x = 1$ הוא: $x = 0$ שכן: $a^x = 1 = a^0$.
- פתרון של משוואה מהצורה: $a^x = b^x$ הוא: $x = 0$ שכן: $a^x = b^x = 1$ ללא תלות בבסיסים.

## שאלות:

**1)** פתור את המשוואות הבאות (שימוש בחוקי החזקות היסודיים):

א. $2^x = 16$

ב. $5^x \cdot 25^{x+2} = 125$

ג. $10^{x-2} = 10000^{x+1}$

ד. $9^x \cdot 3^{x^2} = 81^{3x-4}$

ה. $\left(2^x \cdot 32\right)^3 = 8$

ו. $\left(5^{x^2}\right)^5 \cdot \frac{1}{5^5} = 625^{x-1}$

ז. $\frac{7^x}{343^3} = 1$

ח. $\left(25 \cdot 0.2^{2x}\right)^2 = \left(\frac{1}{125}\right)^{1-x}$

**2)** פתור את המשוואות הבאות (הבסיס הוא שבר):

א. $27 \cdot \left(\frac{3}{2}\right)^{5x+2} = 8$

ב. $\left(\frac{3}{4}\right)^{2-x} \cdot \left(\frac{4}{3}\right)^{3x} = \left(\frac{9}{16}\right)^{7+x}$

ג. $25\left(\frac{7}{5}\right)^{x^2-2x} \cdot \left(\frac{5}{7}\right)^{4-x} = 49$

**3)** פתור את המשוואות הבאות (שימוש בחוקי השורשים):

א. $\sqrt{27} \cdot \left(\frac{1}{3}\right)^{2x} = 9\sqrt{3}$

ב. $\sqrt{3^{x+7}} = 81$

ג. $\left(9\sqrt{27}\right)^{3x} \cdot 3^{2-x} = \frac{1}{9}$

ד. $\sqrt[x]{16} \cdot \left(\frac{1}{2^x}\right)^3 = \frac{1}{16}$

ה. $2^{\sqrt{x}} \frac{1}{\sqrt{2^x}} = 8\left(\sqrt{8}\right)^{-\sqrt{x}}$

ו. $5^x \frac{1}{25^5} = 125^{\sqrt{x}}$

**4)** פתור את המשוואות הבאות (מכפלת בסיסים שונים):

א. $2^x = 7^x$

ב. $3^x \cdot \frac{625}{\sqrt{25^x}} = 81$

ג. $2^{3x} \cdot 5^{3x} = 1000000$

ד. $2^{x+1} \cdot 3^{x-2} \cdot 7^x = 392$

ה. $243 \cdot 2^{x-1} \cdot 18^{x-9} = \frac{1}{3^{x-2}}$

ו. $108 \cdot \frac{1}{2^{1-2x}} = 72^x \cdot \sqrt{0.5}$

ז. $2^{2x+2} \cdot 5^{x+1} = \left(2\sqrt{5}\right)^{4-x}$

## תשובות סופיות:

**1)** א. $x=4$ ב. $x=-\frac{1}{3}$ ג. $x=-2$ ד. $x=2,8$ ה. $x=-4$

ו. $x=1,-\frac{1}{5}$ ז. $x=9$ ח. $x=1$ .

**2)** א. $x=-1$ ב. $x=-2$ ג. $x=3,-2$ .

**3)** א. $x=-\frac{1}{2}$ ב. $x=1$ ג. $x=-\frac{8}{19}$ ד. $x=2,-\frac{2}{3}$ ה. $x=4,9$ ו. $x=25$ .

**4)** א. $x=0$ ב. $x=4$ ג. $x=2$ ד. $x=2$ ה. $x=5$

ו. $x=1.5$ ז. $x=\frac{2}{3}$ .

# משוואות עם חיבור וחיסור איברים:

## סיכום כללי:

במשוואות הכוללות חיבור וחיסור של איברים, נאתר את הבסיס עם המעריך הקטן ביותר ונסמן אותו ב-$t$, למשל במשוואה: $4^x-3\cdot 2^x=4$ נסמן: $2^x=t$.

נבטא את כל איברים המשוואה באמצעות $t$ ונפתור אותה עבורו.
לאחר מכן נחזיר את ההצבה למציאת ערכי ה-$x$ המתאימים.

## שאלות:

**1)** פתור את המשוואות הבאות (משוואות יסודיות עם חיבור וחיסור ממעלה ראשונה):

א. $2^x+6\cdot 2^x=56$

ב. $8^x+3\cdot 8^x=256$

ג. $5\cdot 3^x-3^{x+1}=162$

ד. $2\cdot 6^x+6^{x+2}-6^{x-1}=227$

**2)** פתור את המשוואות הבאות (משוואות כלליות עם חיבור וחיסור ממעלה ראשונה):

א. $81^{x+1}+18\cdot 3^{4x-3}=735$

ב. $5^{3x+2}+4\cdot 125^x=29$

ג. $\left(2^{3x+1}\right)^2-64^{x-\frac{1}{3}}=15$

ד. $\sqrt{10000^{x+1}}-\sqrt[4]{10^{8x+1}}=\sqrt[4]{1000}\cdot\left(\sqrt[4]{10^7}-1\right)$

ה. $6^{-x}-5\cdot 36^{-\left(\frac{x}{2}+1\right)}=186$

ו. $5^{-x}+25^{\frac{1}{2}-\frac{x}{2}}-5^{-x-1}=145$

ז. $2\cdot 10^{x+1}+10^{x+2}=3\cdot 5^{x+1}$

ח. $4^{x+2}-6\cdot 4^x=7\cdot 12^{x+1}+6\cdot 12^x$

**3)** פתור את המשוואות הבאות (משוואות עם חיבור וחיסור ממעלה שנייה):

א. $9^x-36\cdot 3^x+243=0$

ב. $16^{x+1}-65\cdot 4^x+4=0$

ג. $6^x-4\cdot 6^{-x}+3=0$

ד. $4^{-x}-3\cdot 4^x+2=0$

ה. $\left(\frac{4}{9}\right)^x-\frac{5}{2}\cdot\left(\frac{3}{2}\right)^{-x-1}=-\frac{2}{3}$

ו. $\left(2^{\frac{1}{3}x+2}\right)^2-5\cdot 2^{\frac{1}{3}x+1}+1=0$

**4)** פתור את המשוואות הבאות (משוואות כלליות):

א. $\frac{20}{9^x+1}=3-\frac{8}{9^x-1}$

ב. $\frac{7^x}{7^x-4}+\frac{8}{7^x+5}=3$

**5)** פתור את המשוואות הבאות (משוואות מסכמות):

א. $\frac{1}{25^{1-x}}-6\cdot 5^{x-1.5}+1=0$

ב. $3^x-\sqrt{16\cdot 3^{x+1}}=-9$

ג. $36^x-6^{x+1}\cdot 3^x+8\cdot 9^x=0$

ד. $4\cdot 9^x-10\cdot 6^x+6\cdot 4^x=0$

ה. $25\cdot 5^{2x}+16\cdot 15^x=9^{x+1}$

ו. $9^x+4^x-6^x=\frac{7}{6^{1-x}}$

ז. $\frac{8^{2x}-8}{7}=4^x-2$

ח. $2^{3x}-2^{2x+2}-2^x+4=0$

## תשובות סופיות:

**1)** א. $x=3$ ב. $x=2$ ג. $x=4$ ד. $x=1$.

**2)** א. $x=\frac{1}{2}$ ב. $x=0$ ג. $x=\frac{1}{3}$ ד. $x=\frac{1}{4}$

ה. $x=-3$ ו. $x=-2$ ז. $x=-3$ ח. $x=-2$

**3)** א. $x=2,3$ ב. $x=1,-2$ ג. $x=0$ ד. $x=0$

ה. $x=0,1$ ו. $x=-6,-9$.

**4)** א. $x=1,-\frac{1}{2}$ ב. $x=1$.

**5)** א. $x=\frac{1}{2},1\frac{1}{2}$ ב. $x=1,3$ ג. $x=1,2$ ד. $x=1,0$

ה. $x=-2$ ו. $x=1,-1$ ז. $x=0,\frac{1}{2}$ ח. $x=0,2$.

# משוואות עם קבוע אוילר:

## סיכום כללי:

קבוע אוילר מסומן באות $e$ וערכו שווה (בערך) ל-2.71828.
למספר זה משמעויות רבות במתמטיקה ובמדעים ועל כן הוחלט לסמן אותו באות משלו ולשלב אותו במשוואות מתמטיות ועוד.

דרך הפתרון של משוואה שבה הבסיס הוא $e$ זהה לחלוטין לשל משוואה מעריכית רגילה כפי שנלמד בפרק זה.

## שאלות:

**1)** פתור את המשוואות הבאות (משוואות יסודיות עם קבוע אוילר):

א. $e^{3x}=e^{2x-1}$ ב. $e^{5x-1}=e\cdot e^{6x+1}$

ג. $e^{x-5}=\left(e^{1-x}\right)^3$ ד. $e^x\cdot\sqrt{e^{3x-1}}=\left(\frac{1}{e^x}\right)^{1-3x}$

**2)** פתור את המשוואות הבאות (משוואות עם חיבור וחיסור):

א. $e^2\cdot e^x-e^{x+1}=e-1$ ב. $\sqrt[3]{e^{x+1}}\cdot e^2=e^x\sqrt{e}$

ג. $e^{2x}+e^x-2=0$ ד. $e^{1+x}+e^{1-x}=e^2+1$

**3)** פתור את המשוואות הבאות (המשתנה גם בבסיס):

א. $xe^x=\sqrt[4]{e}\cdot x$ ב. $e^{3x}=x\cdot e^{3x}$

ג. $xe^{x^2}=\frac{x}{\sqrt{e^x}}$ ד. $\sqrt[3]{e^{3x-1}}\cdot x=xe^x$

## תשובות סופיות:

**1)** א. $x=-1$ ב. $x=-3$ ג. $x=2$ ד. $x=1\,,\ \frac{1}{6}$.

**2)** א. $x=-1$ ב. $x=\frac{11}{4}$ ג. $x=0$ ד. $x=1\,,\ -1$.

**3)** א. $x=0\,,\ \frac{1}{4}$ ב. $x=1$ ג. $x=0\,,\ -\frac{1}{2}$ ד. $x=0$.

# משוואות בהן המשתנה גם בבסיס:

## סיכום כללי:

במשוואות עם משתנה בבסיס יש לדרוש תנאי עבורו הבסיס חיובי.
יש לקחת את חיתוך תחומי ההגדרה (במידה וקיימים ביטויים עם שורשים או שברים) יחד עם תוצאת השוואת המעריכים.

**הערה:**

יש לבדוק את ערכי ה- $x$ עבורם הבסיס שווה ל-1 ולראות האם מתקבל פסוק אמת או פסוק שקר. בהתאם יש להוסיף או להוריד אותו מתחום המספרים המהווים את פתרון המשוואה.

## שאלות:

פתור את המשוואות הבאות:

**1)** $\left(\sqrt{3-x}\right)^{\sqrt{x}}=\left(\sqrt[3]{3-x}\right)^{x}\cdot\sqrt{\sqrt[3]{3-x}}$.

**2)** $\left(1+\frac{1}{x}\right)^{x^2+x}=1$.

**3)** $\frac{|x-3|^{x^2-2}}{|x-3|^{x-1}}=|x-3|^{-1}$.

## תשובות סופיות:

**1)** $x=\frac{1}{4}\ ,\ 1\ ,\ 2$

**2)** אין פתרון.

**3)** $x=0\ ,\ 1\ ,\ 2\ ,4$

# משוואות מסכמות שונות:

## שאלות:

פתור את המשוואות הבאות:

1) $5\left(2^x-2\right)+2=4^x-2^x$.

2) $\frac{6}{4^{x-1}-1}+\frac{2^{x+1}}{2^x+2}=\frac{2^x+4}{2^x-2}$.

3) $\frac{4^x}{4^x-10}-\frac{4}{2^{2x-1}-3}=\frac{32}{16^x-4^{x+2}+60}$.

4) $3^{2x^2+2}-3^{x^2+3}+9=3^{x^2+1}$.

5) $\sqrt[x]{10}=4\cdot\sqrt[2x]{10}+60$.

6) $\sqrt[x-1]{8\cdot 2^{x+1}}=\left(\sqrt[x]{2}\right)^2\cdot\sqrt[x-1]{\sqrt[x]{32}}$.

7) $10\cdot 4^{x+2}-16\cdot 10^x-90\cdot 6^x+36\cdot 15^x=0$.

## תשובות סופיות:

1) $x=1,2$.
2) $x=3$.
3) $x=1.5$.
4) $x=1,-1$.
5) $x=\frac{1}{2}$.
6) $x=-3$.
7) $x=1,-2$.

# מערכת משוואות מעריכיות:

## שאלות:

1) פתור את מערכת המשוואות הבאה: $\begin{cases} y=3^x \\ y=18-3^x \end{cases}$.

2) פתור את מערכת המשוואות הבאה: $\begin{cases} 5^{2x}-5^y=5^x-25 \\ y-x=2 \end{cases}$.

3) פתור את מערכת המשוואות הבאה: $\begin{cases} \frac{1}{3^y-4}+\frac{3}{3^x-2}-\frac{1}{3^x+2}=3 \\ 4^y=\sqrt{256^x} \end{cases}$.

4) פתור את מערכת המשוואות הבאה: $\begin{cases} 5^x+2^y=13 \\ 2\cdot 5^x-2^y=2 \end{cases}$.

5) פתור את מערכת המשוואות הבאה: $\begin{cases} 2\cdot 3^x-3\cdot 2^y=42 \\ 3^{x+1}-2^{y+1}=73 \end{cases}$.

6) פתור את מערכת המשוואות הבאה: $\begin{cases} 5^{2x+1}+8\cdot 10^x-2^{2y+4}=0 \\ \left(\sqrt{3}\right)^y=27^{\frac{x-1}{6}} \end{cases}$.

7) פתור את מערכת המשוואות הבאה: $\begin{cases} 6\cdot 4^x-7\cdot 6^{y-1}+2\cdot 3^{x+y}=6^y \\ \sqrt[4]{5^x}\cdot\sqrt{\left(5\sqrt{5}\right)^y}=\sqrt[4]{125}\cdot 5^x \end{cases}$.

## תשובות סופיות:

1) $(2,9)$ 2) $(0,2)$ , $(2,4)$ 3) $(1,2)$ 4) $(1,3)$

5) $(3,2)$ 6) $(-1,-2)$ 7) $(1,2)$ , $(-1,0)$

# אי שוויונים מעריכיים:

## סיכום כללי:

פתרון אי-השוויון: $a^x > a^y$ הוא: $x > y$ עבור: $a > 1$ ו- $x < y$ עבור: $0 < a < 1$.

## שאלות:

פתור את אי השיוויונים הבאים:

1) $3^{2x+1} < 27^{1-\frac{1}{3}x}$

2) $\sqrt{2^x} \le 4^{x^2-1\frac{1}{4}}$

3) $e^{\sqrt{x}+1} > e^{2x}$

4) $\left(\frac{1}{7}\right)^{5x} \ge \left(\frac{1}{7}\right)^{1-3x}$

5) $25^x + 5 < 6 \cdot 5^x$

6) $e^{2x} - 2e^x + 1 \le 0$

**הערה:**

השאלות הבאות דורשות הכרות עם מושג הלוגריתם הטבעי (ln) וכן חוקי הלוגריתמים אשר ילמדו בהמשך.

7) $e^x > 3$

8) $e^{2x} - 5e^x + 4 > 0$

## תשובות סופיות:

1) $x < \frac{2}{3}$

2) $x \ge 1\frac{1}{4}$ או $x \le -1$

3) $0 \le x < 1$

4) $x \le \frac{1}{8}$

5) $0 < x < 1$

6) $x = 0$

7) $x > \ln 3$

8) $x > \ln 4$ או $x < 0$

# אי-שוויונים עם משתנה בבסיס ובמעריך:

## סיכום כללי:

דרך הפתרון של אי שוויון עם משתנה בבסיס ובמעריך:

- יש לדרוש בסיס חיובי ולחבר אי-שוויון בהתאם.
- יש לפתור את אי השוויון לפי השוואת מעריכים.
- יש למצוא את חיתוך הפתרונות.

נתון: $f(x)^{g(x)} > f(x)^{h(x)}$ נדרוש: $f(x)>0$.

דרך הפתרון: אם: $f(x)>1$ אז: $g(x)>h(x)$.

אם: $0<f(x)<1$ אז: $g(x)<h(x)$.

לבסוף נמצא את חיתוך התחומים.

## שאלות:

פתור את אי השוויונים הבאים:

1) $x^{2x-1} > x^{x+2}$

2) $(x-2)^{2x-5} < (x-2)^{x+1}$

3) $x^{2x-6} < 1$

4) $x^{2x^2+2} < x^{5x}$

5) $(x^2-6x+13)^{x^2-2x} \geq (x^2-6x+13)^3$

6) $(x+1)^{|x|} < x^2+2x+1$

## תשובות סופיות:

1) $0<x<1\ ,\ x>3$.

2) $3<x<6$.

3) $1<x<3$.

4) $0<x<0.5\ ,\ 1<x<2$.

5) $x\leq -1\ ,\ x\geq 3$.

6) $0<x<2$.

# קורס קדם במתמטיקה למהנדסים

## פרק 6 - חוקי הלוגריתמים, משוואות ואי-שוויונים לוגריתמים

תוכן העניינים


1. הגדרת הלוגריתם ומשוואות יסודיות ..... 105
2. חוקי הלוגריתמים ..... 108
3. חישובים עם חזקה לוגריתמית ..... 112
4. מעבר בין בסיסים ..... 113
5. הלוגריתם הטבעי ..... 115
6. משוואות עם בסיסים שונים ..... 117
7. מערכת משוואות לוגריתמיות ..... 118
8. מערכת משוואות לוגריתמיות ומעריכיות ..... 119
9. אי-שוויונים לוגריתמים ..... 120

# הגדרת הלוגריתם ומשוואות יסודיות:

## סיכום כללי:

**הגדרה:**

הלוגריתם מוגדר באופן הבא: $\log_a b = x \Leftrightarrow a^x = b$ כאשר: $a \neq 1$ , $b > 0$ , $a$.

**הסבר:**

לוגריתם על בסיס $a$ של $b$ מוגדר בתור החזקה שיש להעלות את $a$ על מנת שיהיה שווה ל- $b$. ערך חזקה זו הוא $x$. ערך לוגריתם יכול להיות חיובי, שלילי או אפס. נחשב ערכי לוגריתמים ונפתור משוואות לוגריתמיות ע"י מעבר לפי ההגדרה למשוואה מעריכית מתאימה.

**כללים יסודיים בלוגריתמים:**

מהגדרת הלוגריתם נובע כי: $\log_a a = 1$ וכן: $\log_a 1 = 0$ לכל $a > 0$ , $a \neq 1$.

## שאלות:

**1)** חשב ללא מחשבון את ערכי הביטויים הלוגריתמים הבאים:

א. $\log_2 32$ ב. $\log 1000$ ג. $\log_{25} 5$

ד. $\log_8 4$ ה. $\log_4 \frac{1}{16}$ ו. $\log_a a^4$

ז. $\log_a \frac{1}{a\sqrt{a}}$

**2)** פתור את המשוואות הלוגריתמיות הבאות (יסודי - שימוש בהגדרת הלוג):

א. $\log_{36} 6 = x$ ב. $\log_2 x = 16$

ג. $\log_{\frac{1}{9}} x = -1.5$ ד. $\log_x 64 = 3$

ה. $\log_x 25 = 2$ ו. $\log_x (3x+4) = 2$

**3)** פתור את המשוואות הלוגריתמיות הבאות (כללי - שימוש בהגדרת הלוג):

א. $\log_6(4x-2)=1$

ב. $\log_4(4-x)=\frac{1}{2}$

ג. $\log_8(x^4-73)=1$

ד. $\log_3\frac{x+3}{3-3x}=-2$

ה. $\log_x(2x^2+x-12)=2$

ו. $\log_{\sqrt{x+1}}(2x^2-5)=2$

**4)** פתור את המשוואות הלוגריתמיות הבאות (שימוש בהגדרת הלוג מספר פעמים):

א. $\log_4(\log_3 x)=1$

ב. $3\log_{27}(\log_2(x+3))=1$

ג. $\log_{\frac{1}{16}}(\log_3(5x^2+1))=-\frac{1}{2}$

ד. $\log_6(3+\log_2(6+\log_4(x^2+15)))=1$

**5)** פתור את המשוואות הלוגריתמיות הבאות (מתקבלת משוואה מעריכית):

א. $\log_2(3^x+37)=6$

ב. $\log_3(3\cdot 2^x-303)=4$

ג. $\log_5(126\cdot 5^x-25)=2x+1$

ד. $3\log_2\left(3\cdot 4^{1+\frac{1}{3}x}-11\cdot 2^{\frac{x}{3}}+3\right)=12+2x$

**6)** פתור את המשוואות הלוגריתמיות הבאות (הצבה):

א. $(\log_2 x)^4=10000$

ב. $2(\log_3 x)^2+\log_3 x=10$

ג. $\frac{3\cdot\log_{14}x+1}{(\log_{14}x)^2}=4$

ד. $\sqrt{\log_{\frac{1}{81}}x}+\sqrt{\log_{\frac{1}{81}}x+2}=2$

## תשובות סופיות:

1) א. 5 ב. 3 ג. $\frac{1}{2}$ ד. $\frac{2}{3}$ ה. -2
ו. 4 ז. -1.5

2) א. $x=\frac{1}{2}$ ב. $x=65,536$ ג. $x=27$ ד. $x=4$
ה. $x=5$ ו. $x=4$

3) א. $x=2$ ב. $x=2$ ג. $x=\pm 3$ ד. $x=-2$ ה. $x=3$ ו. $x=2$

4) א. $x=81$ ב. $x=5$ ג. $x=\pm 4$ ד. $x=\pm 1$

5) א. $x=3$ ב. $x=7$ ג. $x=-1,\ 2$ ד. $x=-6$

6) א. $x=1024,\ \frac{1}{1024}$ ב. $x=9,\ \frac{1}{9\sqrt{3}}$
ג. $x=14,\ \frac{1}{\sqrt[4]{14}}$ ד. $x=\frac{1}{3}$

# חוקי הלוגריתמים:

## סיכום כללי:

להלן 3 חוקי הלוגריתמים עבור בסיס $a>0\neq 1$ וארגומנטים $x$ ו- $y$ חיוביים:

- מכפלה לסכום: $\log_a(x\cdot y)=\log_a x+\log_a y$.
- מנה להפרש: $\log_a\left(\frac{x}{y}\right)=\log_a x-\log_a y$.
- מקדם למעריך: $\log_a b^n=n\log_a b$ (כאשר $b>0$ ו- $n$ מספר ממשי כלשהו).

## שאלות:

### שאלות חישוב כלליות:

**1)** חשב ללא מחשבון את ערכי הביטויים הבאים (שימוש בחוקי הלוגים):

א. $\log_3 12+\log_3 2.25$

ב. $\log_{\frac{1}{5}} 40+\log_{\frac{1}{5}} 12.5+\log_{\frac{1}{5}}\frac{1}{4}$

ג. $\log_2 200-\log_2 100$

ד. $\log_3 60-\log_3 540$

ה. $\log_4 8+\log_4 12-\log_4 6$

ו. $\log_7 1.5-\log_7 147+\log_7 2$

ז. $3\log_5 2-\log_5 1.6$

ח. $\log_{\sqrt{4}} 6.4+2\log_{\sqrt{4}}\sqrt{10}$

ט. $\frac{1}{2}\left(\log_7\frac{7}{2}+\log_7 2\right)+\log_7 14-\frac{1}{3}\log_7 8$

י. $\frac{1}{4}\log 81-\log 1.5-\frac{1}{2}\log 40$

**2)** חשב ללא מחשבון את ערכי הביטויים הבאים (שימוש בחוקי הלוגים):

א. $\frac{\log_5 16}{\log_5 8}$

ב. $\frac{\log_9 62.5+\log_9 2}{\log_9 0.2}$

ג. $\frac{\log_3 5-\log_3 2+\log_3 50}{\log_3 225-2}$

ד. $\frac{2-2\log_3 4+\log_3 8\frac{8}{9}}{4-\log_3 0.01-2\log_3 18}$

**משוואות לוגריתמיות:**

**3)** פתור את המשוואות הבאות (שימוש ישיר בחוקי הלוגריתמים):

א. $\log_2 x+\log_2(x-6)=4$

ב. $\log_3 x+\log_3(x+2)=1$

ג. $\log_2(x+30)-\log_2 x=4$

ד. $\log_5(x+146)-\log_5(x+2)=2$

ה. $2\log_3(2x-1)-\log_3(22x+9)=-1$

ו. $2\log_5(x-2)=\log_5(4x-15)+\log_5 x$

**4)** פתור את המשוואות הבאות (פתרון בשיטת לוג שווה לוג):

א. $\log_5(4x-3)=\log_5 7$.

ב. $2\log_2(2x-2)-\log_2(16-x)=\log_2(x-1)+1$.

**5)** פתור את המשוואות הבאות (מתקבלת משוואה מעריכית):

א. $\log_3(3\cdot 5^x+39)=3+\log_3(5^x-3)$.

ב. $\log_2(3-4^{x+1})-\log_2 11=x$.

**6)** פתור את המשוואות הבאות (שימוש הפוך בחוקי הלוגריתמים):

א. $\log_4 x\cdot\log_4(16x)=8$.

ב. $\log_2\left(\frac{x}{4}\right)\cdot\log_2(1024x)=-11$.

ג. $\log_2 x^2\log_2\left(\frac{x}{16}\right)=-\log_2(64x)$.

ד. $(\log_4 4x)^2=\log_4 4x^2+1$.

ה. $\log_3(9x^2)\cdot\log_3(9x^3)=\log_3\left(\frac{81}{x}\right)+2$.

ו. $\frac{\log_2\left(\frac{x^3}{32}\right)}{(\log_2 x)^2}+\frac{\log_2(2x)}{\log_2 x}=1\frac{7}{9}$.

**שאלות הבעה:**

**7)** נתון: $\log_3 2 = a$. הבע באמצעות $a$ את ערכי הביטויים הבאים:

א. $\log_3 16$ ב. $\log_3 6$

ג. $\log_3 24$ ד. $\log_3 1.5$

**8)** נתון: $\log_2 5 = b$ , $\log_2 3 = a$. הבע באמצעות $a$ ו- $b$ את ערכי הביטויים הבאים:

א. $\log_2 45$ ב. $\log_2 60$ ג. $\log_2 \sqrt{7.5}$

**9)** נתון: $\log_{18} 2 + \log_{18} 3 = a$.

הבע באמצעות $a$ את $\log_{18} 27$ ואת $\log_{18} 16$.

**שאלות נוספות:**

בכל אחת מהמשוואות הבאות, חשב את ערך הביטוי שמשמאל וקבל את התוצאה מימין:

**10)** $\log 4 \log 40 + \log 5 \log 16 = \log 64$.

**11)** $2\log^2 2 + \log 25 \cdot \log 20 = 2$.

**12)** $\log_{12} 16 \cdot \log_{12} 4 + \log_{12} 9 \cdot \log_{12} 48 = 2$

**13)** $\log_5 10 \cdot \log_5 75 - \log_5 3 \cdot \log_5 2 - \log_5 3 - \log_5 4 = 2$.

## תשובות סופיות:

1) א. 3 ב. -3 ג. 1 ד. -2 ה. 2
ו. -2 ז. 1 ח. 6 ט. 1.5 י. -0.5.

2) א. $\frac{4}{3}$ ב. -3 ג. 1.5 ד. 0.5.

3) א. $x=8$ ב. $x=3,\frac{1}{27}$ ג. $x=2$ ד. $x=4$ ה. $x=3$ ו. $x=4$.

4) א. $x=2.5$ ב. $x=6$.

5) א. $x=1$ ב. $x=-2$.

6) א. $x=16,\frac{1}{256}$ ב. $x=2,\frac{1}{512}$ ג. $x=4,2\sqrt{2}$ ד. $x=4,\frac{1}{4}$
ה. $x=\frac{1}{9},\sqrt[6]{3}$ ו. $x=8,\sqrt[7]{2^{15}}$.

7) א. $4a$ ב. $a+1$ ג. $3a+1$ ד. $1-a$.

8) א. $2a+b$ ב. $2+a+b$ ג. $\frac{1}{2}a+\frac{1}{2}b-\frac{1}{2}$.

9) $4(2a-1)$ , $3(1-a)$.

10) הוכחה.

11) הוכחה.

12) הוכחה.

13) הוכחה.

# חישובים עם חזקה לוגריתמית:

## סיכום כללי:

מהגדרת הלוגריתם ניתן לנסח את הקשר הבא: $a^{\log_a x}=x$ כאשר $a>0\neq 1$.

## שאלות:

**1)** חשב ללא מחשבון את ערכי הביטויים הבאים (חזקה לוגריתמית):

א. $6^{\log_6 8}$ ב. $4^{\log_2 5}$

**2)** נתונה התבנית: $3\cdot 4^x$. חשב את ערכה עבור:

א. $x=\log_4 7$ ב. $x=\log_4\sqrt{3}$

ג. $x=2\log_4 0.1$ ד. $x=\sqrt{\log_2 5}$

**3)** נתונה התבנית: $\frac{1}{6}\cdot 9^x-2\cdot 3^x+1$. חשב את ערכה עבור:

א. $x=-1$ ב. $x=\log_3 5$

ג. $x=\log_3\sqrt{6}$

**4)** חשב:

א. $\left(\frac{1}{6}\right)^{\log_{\sqrt{36}}81}$ ב. $\sqrt[3]{2^{3-\log_{\sqrt{8}}5}}$

## תשובות סופיות:

**1)** א. 8 ב. 25.

**2)** א. 21 ב. $3\sqrt{3}$ ג. 0.03 ד. 15.

**3)** א. $\frac{19}{54}$ ב. $-4\frac{5}{6}$ ג. $2-2\sqrt{6}$.

**4)** א. $\frac{1}{81}$ ב. $\frac{2}{\sqrt[9]{25}}$.

# מעבר בין בסיסים:

## סיכום כללי:

מעבר מבסיס $a$ לבסיס $m$ (כאשר: $a>0\ \neq 1$ ו-$m>0\neq 1$, וכן: $b>0$)
יתבצע באופן הבא: $\log_a b=\frac{\log_m b}{\log_m a}$.

## שאלות:

### שאלות חישוב כלליות:

**1)** חשב את ערכי הביטויים הבאים:

א. $\log_4 7\cdot\log_7 4$

ב. $\log_{0.1} 3\cdot\log_9 1000$

ג. $\log_{\sqrt{3}} 5\cdot\log_{\sqrt{125}} 9$

ד. $\log_4 169\cdot\log_{25} 64\cdot\log_{13} 625$

**2)** הוכח את השוויונים הבאים:

א. $\log_2 25\cdot\log_5 3\cdot\log_9 2=1$.

ב. $\log_{16} 9\cdot\log_5 4\cdot\log_3 5=1$

### משוואות לוגריתמיות:

**3)** פתור את המשוואות הבאות:

א. $\log_2 x+\log_{32} x=6$

ב. $\log_3 x\cdot\log_{27} x=3$

ג. $\log_2 4x\cdot\log_8\frac{x}{16}=-\frac{5}{3}$

ד. $\log_x 5-6\log_{125} x=1$

### שאלות הבעה:

**4)** נתון: $\log_4 6=a$. הבע באמצעות $a$ את ערכי הביטויים הבאים:

א. $\log_2 3$

ב. $\log_{32} 36$

ג. $\log_{216} 96$.

**5)** נתון: $\log_3 5=b$ , $\log_2 3=a$. הבע באמצעות $a$ ו- $b$ את ערכי הביטויים הבאים:

א. $\log_3 50$

ב. $\log_2\sqrt{30}$

ג. $\log_5 22.5$

**6)** נתון $\log 9 = 2b$ , $\log_3 7 = a$ . הבע באמצעות $a$ ו- $b$ את:

א. $\log 21$.

ב. $\log_3\left(\frac{10}{7}\right)$.

ג. $\log_7 10$.

ד. $\log_{30} 63$.

**שאלות נוספות:**

בכל אחת מהמשוואות הבאות, חשב את ערך הביטוי שמשמאל וקבל את התוצאה מימין:

**7)** $\log_6 9 \cdot \log_{15} 30 + \log_6 5 \cdot \log_{15} 4 = 2$.

**8)** $\log\sqrt{3} \cdot \log_6 50 + \log\sqrt{2} \cdot \log_6 300 = 1$.

## תשובות סופיות:

**1)** א. 1 ב. -1.5 ג. $2\frac{2}{3}$ ד. 12.

**2)** א. שאלת הוכחה. ב. שאלת הוכחה.

**3)** א. $x = 32$ ב. $x = 27, \frac{1}{27}$ ג. $x = 8, \frac{1}{2}$ ד. $x = \frac{1}{5}, \sqrt{5}$.

**4)** א. $2a - 1$ ב. $0.8a$ ג. $\frac{a+2}{3a}$.

**5)** א. $2b + \frac{1}{a}$ ב. $\frac{a}{2} + \frac{ab}{2} + \frac{1}{2}$ ג. $\frac{2}{b} + 1 - \frac{1}{ab}$.

**6)** א. $b + ab$ ב. $\frac{1}{b} - a$ ג. $\frac{1}{ab}$ ד. $\frac{ab+2b}{b+1}$.

**7)** הוכחה.

**8)** הוכחה.

# הלוגריתם הטבעי:

## סיכום כללי:

לוגריתם על בסיס $e$ (קבוע אוילר) מסומן: $\log_e \Rightarrow \ln$ והוא נקרא הלוגריתם הטבעי.

למשל: $\ln 3 = \log_e 3$ או $\ln\frac{1}{4} = \log_e \frac{1}{4}$. לוג זה נקרא בשם לן.

מהגדרת הלוגריתם מתקיים: $\ln a = b \to e^b = a$ כאשר $a > 0$ ו- $b$ מספרים כלשהם.

## שאלות:

**1)** חשב ללא מחשבון את ערכי הביטויים הלוגריתמיים הטבעיים הבאים:

א. $\ln e^2$ ב. $\ln\frac{1}{e^4}$ ג. $\ln\frac{1}{e\sqrt{e}}$

**2)** פתור את המשוואות הלוגריתמיות הבאות (שימוש בהגדרת הלוג):

א. $\ln x = 2$ ב. $\ln x = -\frac{1}{2}$

**3)** פתור את המשוואות הבאות (הצבה וחוקי הלוגריתמים):

א. $\ln\left(e^{2x} - \frac{1}{2}\right) + \ln 2 = x$

ב. $3\ln^2 x + \ln x = 2$

ג. $\ln\left(e^2 x^3\right) \cdot \ln\frac{1}{x} = \ln\left(ex^2\right)$

**4)** פתור את המשוואות הלוגריתמיות הבאות (הוצאת לוג משני אגפי המשוואה)

א. $x^{\ln x} = e^6 x$ ב. $\left(\frac{1}{x}\right)^{2-3\ln x} = \frac{1}{e} \cdot x^{1+\ln x}$

**5)** חשב ללא מחשבון את ערכי הביטויים הבאים (חזקה לוגריתמית):

א. $e^{\ln 3}$ ב. $e^{2\ln 3}$

## תשובות סופיות:

1) א. 2 ב. -4 ג. -1.5.

2) א. $x=e^2$ ב. $x=\frac{1}{\sqrt{e}}$.

3) א. $x=0$ ב. $x=\sqrt[3]{e^2},\frac{1}{e}$ ג. $x=\frac{1}{\sqrt[3]{e}},\frac{1}{e}$.

4) א. $x=e^3,\frac{1}{e^2}$ ב. $x=\sqrt{e},e$.

5) א. 3 ב. 9.

# משוואות עם בסיסים שונים:

## סיכום כללי:

לעיתים תתקבל משוואה מעריכית שבה לא ניתן למצוא חזקה שלמה, כגון: $3^x = 4$.
במקרים אלו נעזר בהגדרת הלוג כדי לבטא את ערך המעריך: $x = \log_3 4$.

את ערך הביטוי $\log_3 4$ ניתן לחשב ע"י מחשבון או ע"י מעבר לבסיס 10: $\log_3 4 = \frac{\log 4}{\log 3}$.

## שאלות:

**1)** פתור את המשוואות הבאות (בסיסים שונים):

א. $3^x = 6$ ב. $2^x - 9 = 0$

ג. $49^x - 8 \cdot 7^x + 15 = 0$ ד. $2 \cdot 3^{\frac{2x}{3}} + 5 \cdot 3^{\frac{x}{3}} + 2 = 0$

**2)** פתור את המשוואות הבאות (משוואות עם בסיס ולוגריתם טבעי):

א. $e^{3x} = 3$ ב. $4 + 3e^x = 9$

ג. $3e^{2x} - 4e^x + 1 = 0$ ד. $e\left(e^x + 1\right) = 2\sqrt{e^{x+2}} + 9e$

**3)** פתור את המשוואות הבאות (משוואות כלליות עם פתרונות לא שלמים):

א. $\log_2\left(7 - 5^x\right) = \log_2 \frac{10}{5^x}$ ב. $\log_2\left(4e^{2x} + 6\right) - 1 = \log_2\left(7e^x\right)$

## תשובות סופיות:

**1)** א. $x = \log_3 6 = 1.63$ ב. $x = \log_2 9 = 3.17$

ג. $x = \log_7 3 = 0.564$ , $x = \log_7 5 = 0.827$ ד. אין פתרון.

**2)** א. $x = \frac{1}{3}\ln 3 = 0.36$ ב. $x = \ln\frac{5}{3} = 0.51$ ג. $x = 0$ , $x = -\ln 3 = -1.09$

ד. $x = \ln 16 = 2.7725$.

**3)** א. $x = 1$ , $x = \log_5 2 = 0.43$ ב. $x_1 = \ln\frac{1}{2} = -0.693$ , $x = \ln 3 = 1.098$

# מערכת משוואות לוגריתמיות:

## שאלות:

פתור את מערכות המשוואות הבאות:

1) $\begin{cases} y=\log_2 x \\ y=6-\log_2 x \end{cases}$

2) $\begin{cases} \log_6^2 x-\log_6(2y-2)=2 \\ \frac{1}{2}x=y-1 \end{cases}$

3) $\begin{cases} \log_3(x+y)=\log_3(4x+y)-2 \\ \log_5(5x+3y)=2 \end{cases}$

4) $\begin{cases} \log_2(\log_3(x-y))=1 \\ \log_5(x+y-11)=\log_{25}x+\frac{1}{2}\log_5(y+2) \end{cases}$

5) $\begin{cases} \log_5 x+6\log_4 y=11 \\ 10\log_5 x-2\log_4 y=17 \end{cases}$

6) $\begin{cases} \log_2 x^2+\log_3\frac{1}{y}=9 \\ \log_2\sqrt{x}+\log_{\sqrt[3]{3}} y=-1 \end{cases}$

7) $\begin{cases} \log_5 x+2^{\log_2 y}=6 \\ x^y=5^8 \end{cases}$

8) $\begin{cases} xy=27 \\ x^{\log_3 y}=9 \end{cases}$

9) $\begin{cases} 2^{\log_{\frac{1}{2}}(2x-y)}=7^{\log_7\frac{2x+y}{15}} \\ \log_3 x+\log_3 y=\frac{1}{\log_{28}3} \end{cases}$

## תשובות סופיות:

1) $(8,3)$

2) $(36,19),\left(\frac{1}{6},1\frac{1}{12}\right)$

3) $(8,-5)$

4) $(16,7)$

5) $(25,8)$

6) $\left(16,\frac{1}{3}\right)$

7) $(25,4),(625,2)$

8) $(3,9),(9,3)$

9) $(4,7)$

# מערכת משוואות לוגריתמיות ומעריכיות:

## שאלות:

פתור את מערכות המשוואות הבאות:

1) $\begin{cases} y=\log_2\left(4^x-2\right) \\ y=2x-1 \end{cases}$

2) $\begin{cases} 25^y=\left(5\sqrt{5}\right)^{x+1} \\ \log_5\sqrt{x}+\log_5\sqrt{y}=\log_5 3 \end{cases}$

3) $\begin{cases} 3y+5\log_6 x=1 \\ 216\cdot x^{2-y}=6^{1-4y} \end{cases}$

4) $\begin{cases} x\cdot\log_2 3=\dfrac{y}{\log_9 2} \\ \log_3\left(9^x+27\right)=2y+\log_3 12 \end{cases}$

5) $\begin{cases} \left(2^x-1\right)^2-4y+3=0 \\ x=\log_2\left(y+1\right) \end{cases}$

6) $\begin{cases} x=\log_4\left(5-9^y\right) \\ \log_2\left(2^x+3\right)=\log_4\left(29-\left(3^y-3\right)^2\right) \end{cases}$

## תשובות סופיות:

1) $(1,1)$

2) $(3,3)$

3) $(36,-3),\left(6,-1\frac{1}{3}\right)$

4) $\left(1,\frac{1}{2}\right),(2,1)$

5) $(1,1),(2,3)$

6) $(1,0)$

# אי-שוויונים לוגריתמים:

## סיכום כללי:

פתרון אי-השוויון: $\log_a x > \log_a y$ הוא: $x > y$ עבור: $a > 1$ ו- $x < y$ עבור: $0 < a < 1$.

## שאלות:

פתור את אי-השוויונים הבאים:

1) $\log_2 x < \log_2 (5x - 20)$

2) $\log_6 (x^2 - 5x) < 1$

3) $\log_3 x > \log_9 (15 - 2x)$

4) $\log_{\frac{1}{2}} (1 - 3x) \geq \log_{\frac{1}{2}} (7 - x)$

5) $\ln x \geq \ln (x^2 - 12)$

6) $\ln x < 3$

7) $\ln^2 x - 6 \ln x < 7$

8) $\frac{6}{\ln^2 x} \geq 2 - \frac{1}{\ln x}$

## תשובות סופיות:

1) $x > 5$

2) $-1 < x < 0 \ , \ 5 < x < 6$

3) $3 < x < 7\frac{1}{2}$

4) $-3 \leq x \leq \frac{1}{3}$

5) $2\sqrt{3} < x \leq 4$

6) $0 < x < e^3$

7) $\frac{1}{e} < x < e^7$

8) $\frac{1}{\sqrt{e^3}} \leq x \leq e^2$ וגם $x \neq 1$

# קורס קדם במתמטיקה למהנדסים

## פרק 7 - גיאומטריה אנליטית - נקודה וישר

### תוכן העניינים


1. מושגי יסוד בגיאומטריה אנליטית ..... 121
2. משוואת הישר ..... 125
3. מצבים הדדיים בין ישרים ..... 130
4. מציאת משוואות ישר ..... 132
5. שאלות יסודיות שונות עם משוואת הישר ..... 133
6. נושאים מתקדמים עם משוואת הישר ..... (ללא ספר)
7. חלוקת קטע ביחס נתון ..... 139
8. מרחק נקודה מישר ..... 140
9. מיקום נקודה ביחס לישר ..... 142
10. מרחק בין ישרים מקבילים ..... 144

# מושגי יסוד בגיאומטריה אנליטית:

## סיכום כללי:

### נוסחאות כלליות:

- המרחק בין הנקודות $A(x_1,y_1)$ ו- $B(x_2,y_2)$ יחושב לפי: $d=\sqrt{(x_2-x_1)^2+(y_2-y_1)^2}$.
- אמצע הקטע M שקצותיו הם: $A(x_1,y_1)$ ו- $B(x_2,y_2)$ הוא: $x_M=\frac{x_1+x_2}{2}, y_M=\frac{y_1+y_2}{2}$.

## שאלות:

### שאלות העוסקות באמצע קטע:

**1)** מצא את אמצעי הקטעים שקדקודיהם נתונים ע"י הנקודות A ו-B:

א. $A(1,4)\ ,\ B(5,-8)$ ב. $A(-3,0)\ ,\ B(3,-2)$

ג. $A(4,5)\ ,\ B(-4,-5)$ ד. $A\left(\frac{1}{2},\frac{3}{4}\right)\ ,\ B\left(7\frac{1}{2},-2\right)$

ה. $A(6,-1)\ ,\ B(-3,-1)$ ו. $A(4,7)\ ,\ B(4,-12)$

**2)** נתון קטע AB שאמצעו בנקודה M.
מצא את שיעורי נקודת הקצה B אם נתונים שיעורי הנקודות של A ושל M:

א. $A(4,-2)\ ,\ M(2,1)$ ב. $A(-6,-8)\ ,\ M(0,0)$

ג. $A(13,-11)\ ,\ M(4,-7)$ ד. $A\left(\frac{1}{3},-\frac{4}{3}\right)\ ,\ M\left(\frac{2}{3},-\frac{1}{3}\right)$

**3)** נתון משולש שווה שוקיים ABC שבו A הוא קדקוד הראש.
ידוע כי שיעורי הקדקודים B ו-C הם $B(2,-4)\ ,\ C(6,1)$.
מעבירים תיכון AD לבסיס BC. מצא את שיעורי הנקודה D.

**4)** באיור שלפניך C היא נקודת האמצע של AB, ו-D היא נקודת האמצע של AC.
ידוע כי: $A(-2,1)\ ,\ B(6,5)$. מצא את שיעורי הנקודה D.

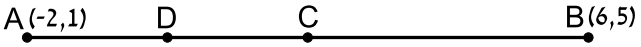

**5)** באיור שלפניך C היא נקודת האמצע של AB, ו-D היא נקודת האמצע של AC.
ידוע כי: $D(1,-2)$ , $C(-3,4)$. מצא את שיעורי הנקודות A ו-B.

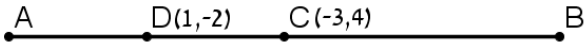


**6)** הנקודות $A(2,-7)$ , $B(-10,4)$ ו-$C(6,11)$ הן שלושה קדקודים של מקבילית ABCD.
מצא את שיעורי הקדקוד הרביעי, D.

**שאלות העוסקות במרחק בין שתי נקודות:**

**7)** מצא את המרחק בין זוגות הנקודות הבאות:

| | |
|---|---|
| א. $A(4,7)$ , $B(-3,7)$ | ב. $A(6,2)$ , $B(1,2)$ |
| ג. $A(-3,10)$ , $B(0,6)$ | ד. $A(6,-9)$ , $B(1,3)$ |
| ה. $A(4,7)$ , $B(13,-1)$ | ו. $A(6,6)$ , $B(-9,-9)$ |

**8)** חשב את היקף המשולש ABC שקודקודיו הם: $A(3,-2)$ , $B(4,9)$ , $C(0,14)$.

**9)** נתונות נקודות $A(14,4)$ , $B(6,y)$ שמרחקן הוא 10 יחידות אורך.
מצא את $y$.

**10)** נתונות נקודות $A(x,-12)$ , $B(15,-2)$ שמרחקן הוא 26 יחידות אורך.
מצא את $x$.

**11)** נתונה נקודה B ברביע השלישי, ששיעור ה- $y$ שלה גדול פי 3 משיעור ה- $x$ שלה
ומרחקה מהנקודה $A(-4,1)$ הוא 5. מצא את שיעורי הנקודה B.

**12)** במשולש שווה שוקיים ABC $(AB=AC)$ ידוע כי אורכי השוקיים הוא $\sqrt{45}$
יחידות אורך. שיעורי הקדקוד A הם $(0,4)$ ושיעורי ה- $y$ של הקדקודים B ו-C
הוא 2-. מצא את קדקודי המשולש B ו-C (הנח B ברביע הרביעי).

**13)** אורך האלכסון AC במלבן ABCD הוא $d_{AC}=\sqrt{50}$
וידוע כי: $A(-3,-2)$ , $B(-4,1)$. מצא את היקף המלבן.

**שאלות העוסקות בשיפוע בין שתי נקודות:**

**14)** מצא את השיפוע בין זוגות הנקודות הבאים:

א. $A(5,2)\ ,\ B(4,1)$

ב. $A(3,-2)\ ,\ B(-3,1)$

ג. $A(7,8)\ ,\ B(6,15)$

ד. $A(0,5)\ ,\ B(7,0)$

ה. $A(6,9)\ ,\ B(6,-7)$

ו. $A(4,-1)\ ,\ B(18,-1)$

**15)** מצא את שיפועי הישרים שצלעות המשולש שקודקודיו הם: $A(6,5)\ ,\ B(2,13)\ ,\ C(4,-7)$ מונחים עליהם.

## תשובות סופיות:

1) א. $(3,-2)$ ב. $(0,-1)$ ג. $(0,0)$
ד. $\left(4,-\frac{5}{8}\right)$ ה. $(1.5,-1)$ ו. $(4,-2.5)$.

2) א. $B(0,4)$ ב. $B(6,8)$ ג. $B(-5,-3)$ ד. $B\left(1,\frac{2}{3}\right)$.

3) $D(4,-1.5)$.

4) $D(0,2)$.

5) $A(5,-8)$ , $B(-11,16)$.

6) $D(18,0)$.

7) א. $d_{AB}=7$ ב. $d_{AB}=5$ ג. $d_{AB}=5$ ד. $d_{AB}=13$
ה. $d_{AB}=\sqrt{145}$ ו. $d_{AB}=15\sqrt{2}$.

8) 33.862 יחידות אורך $\approx P_{ABC}$.

9) $y=10$ או $y=-2$.

10) $x=-9$ או $x=39$.

11) $B(-1,-3)$.

12) $B(3,-2)$ , $C(-3,-2)$.

13) 18.97 יחידות אורך $\approx P_{ABCD}=6\sqrt{10}$.

14) א. $m_{AB}=1$ ב. $m_{AB}=-\frac{1}{2}$ ג. $m_{AB}=-7$ ד. $m_{AB}=-\frac{5}{7}$
ה. שיפוע לא מוגדר. ו. $m_{AB}=0$.

15) $m_{AB}=-2$ , $m_{BC}=-10$ , $m_{AC}=6$.

# משוואת הישר:

## סיכום כללי:

### נוסחאות כלליות:

- שיפוע ישר בין שתי נקודות $A(x_1,y_1)$ ו- $B(x_2,y_2)$ הוא: $m_{AB}=\frac{y_2-y_1}{x_2-x_1}=\frac{y_1-y_2}{x_1-x_2}$.

### שיפועים של ישרים:

- שיפועי ישרים מאונכים מקיימים: $m_1\cdot m_2=-1$.
- הקשר בין שיפוע ישר לזווית שהוא יוצר עם הכיוון החיובי של ציר ה- $x$: $m=\tan\alpha$.

### משוואת הישר:

- משוואת ישר מפורשת היא מהצורה: $y=mx+n$.
- כאשר: $m$ הוא שיפוע הישר ו- $n$ הוא ערך ה- $y$ של נקודת החיתוך של הישר עם ציר ה- $y$.

נוסחה למציאת משוואת ישר: $y-y_1=m(x-x_1)$.

## שאלות:

**16)** עבור כל אחד ממשוואות הישרים הבאות, מצא את נקודות החיתוך עם הצירים וסרטט את הישרים במערכת הצירים שלפניך.

א. $y=x+4$

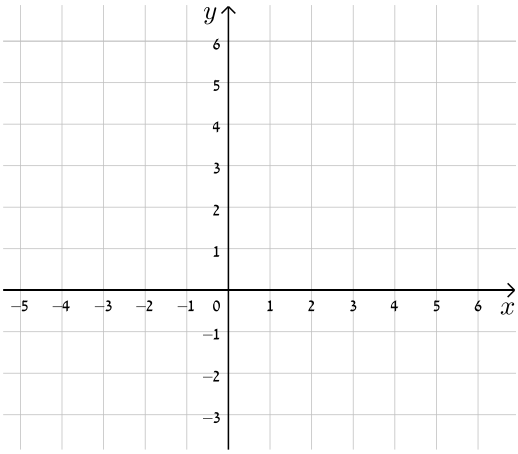

ב. $y=-x+5$

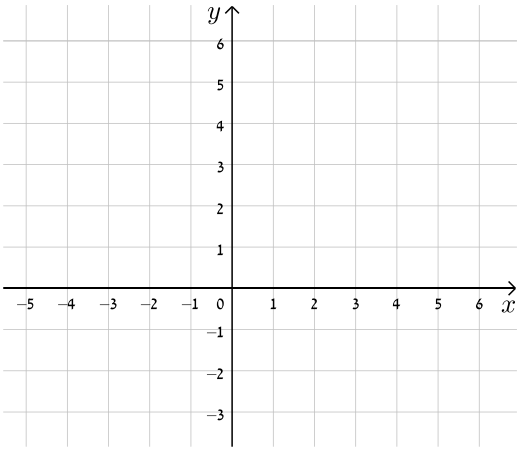

ג. $y=2x-3$

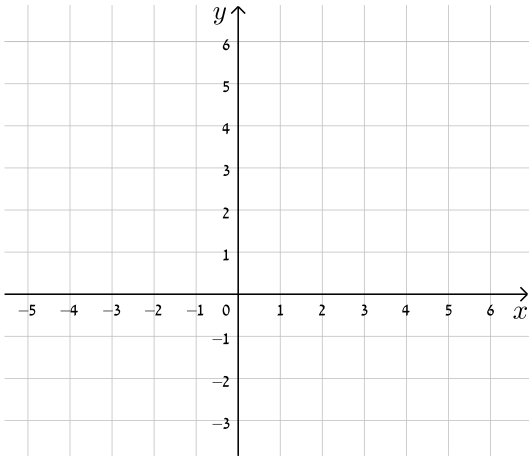

ד. $y=-3x+5$

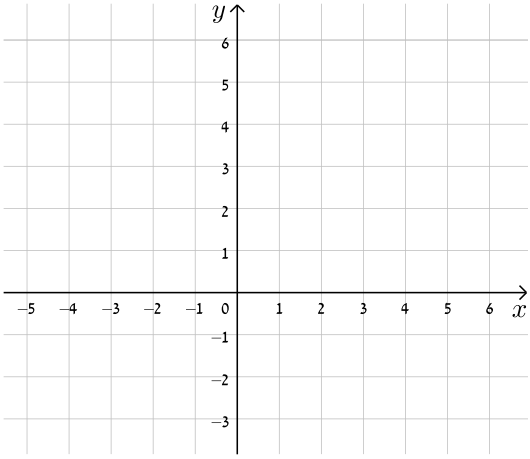

ה. $y=3x-1$

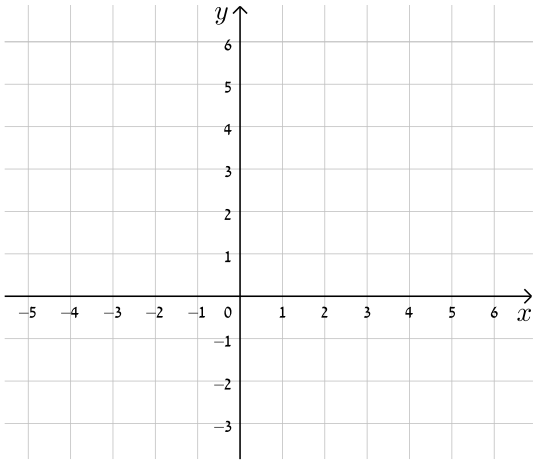

ו. $y=8-4x$

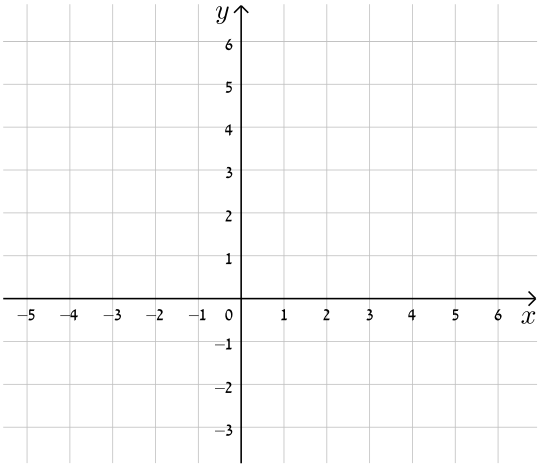

**17)** כתוב את משוואת הישר המתאימה לכל אחד מהישרים הבאים:

א.

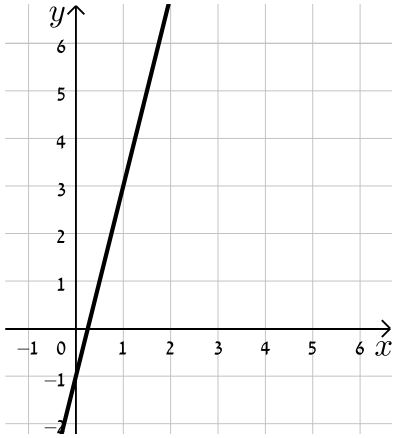

ב.

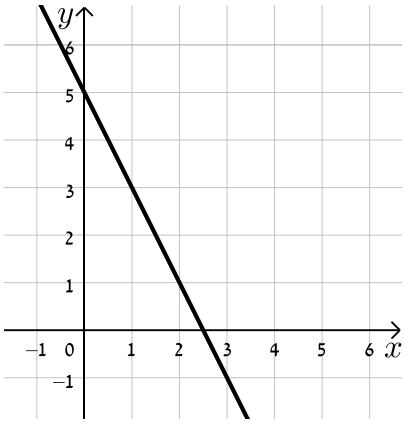

ג.

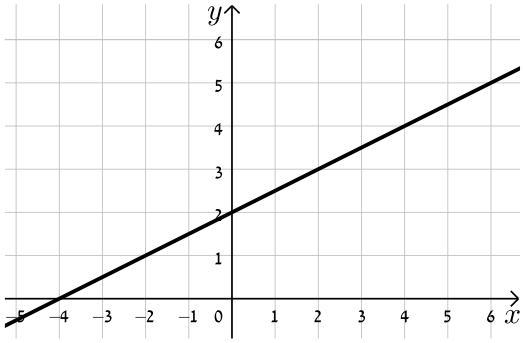


ד.

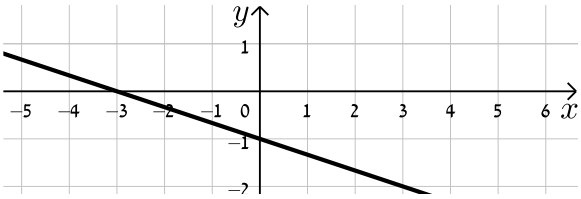


**18)** התאם בין משוואות הישרים הבאים לישרים בשרטוט:

א. $y = x + 3$

ב. $y = -x - 1$

ג. $y = 2x + 3$

ד. $y = x - 1$

ה. $y = \frac{1}{2}x$

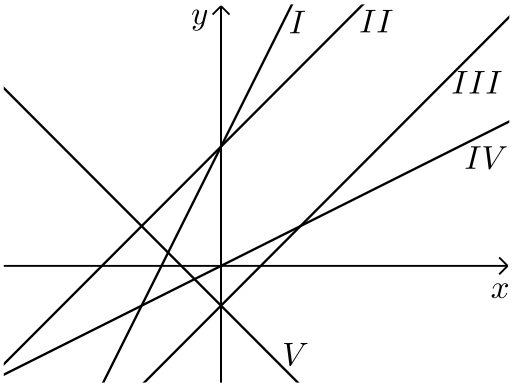


**19)** נתונה משוואה הישר הבאה: $y = 2x + 3$. קבע אלו מבין הנקודות הבאות נמצאות עליו: $D(6,15)$ , $C(0,4)$ , $B(3,3)$ , $A(-1,1)$.

**20)** נתונה משוואת הישר הבאה: $y = mx - 2.5$. ידוע כי הנקודה $A(4,2)$ נמצאת על הישר. מצא את $m$ וקבע האם גם הנקודה $B(7,-2)$ נמצאת עליו.

**21)** הנקודות $B(4,1)$ , $A(5,-3)$ נמצאות על ישר שמשוואתו היא: $y = mx + n$.
מצא את $m$ ואת $n$.

## תשובות סופיות:

**16)** להלן הגרפים של משוואות הישרים:

א.

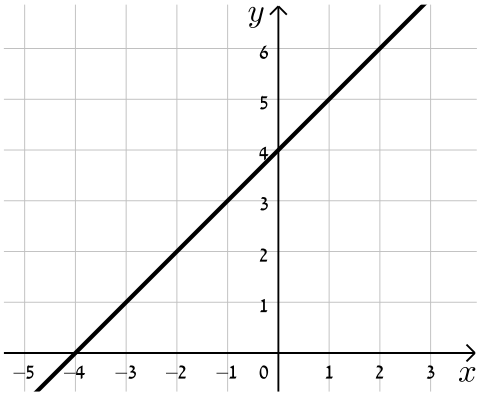

ב.

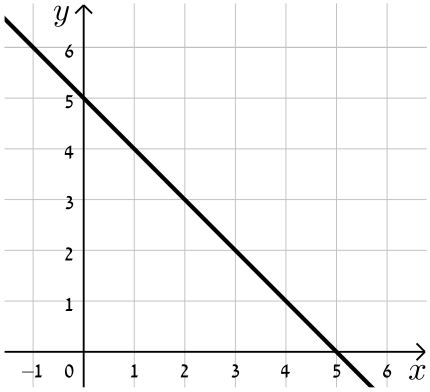

ג.

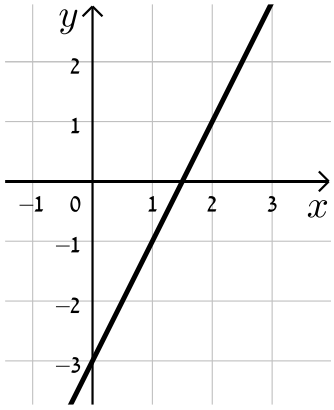

ד.

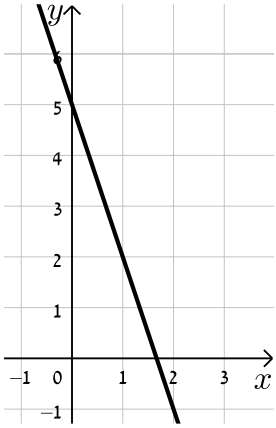

ה.

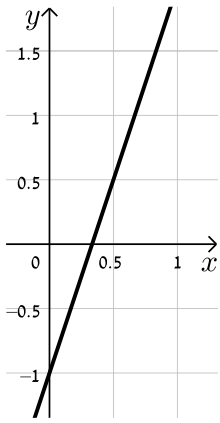

ו.

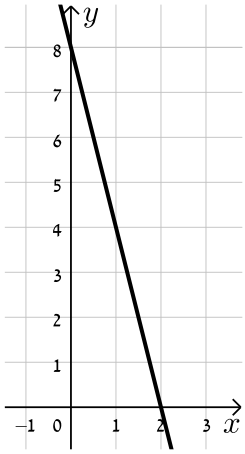

**17)** א. $y=4x-1$ ב. $y=-2x+5$ ג. $y=\frac{1}{2}x+2$ ד. $y=-\frac{1}{3}x-1$ .

**18)** א.II. ב.V. ג.I. ד.III. ה.IV.

**19)** נמצאות: A, D. לא נמצאות: B, C.

**20)** $m=\frac{9}{8}$ , B לא נמצאת.

**21)** $n=17$ , $m=-4$ .

# מצבים הדדיים בין ישרים:

## סיכום כללי:

**מצב הדדי בין שני ישרים:**

- ישרים מקבילים מקיימים: $n_1 \neq n_2$ , $m_1 = m_2$.
- ישרים חותכים מקיימים: $m_1 \neq m_2$.
- ישרים מתלכדים מקיימים: $n_1 = n_2$ , $m_1 = m_2$.

## שאלות:

**22)** מצא את נקודות החיתוך שבין זוגות הישרים הבאים:

א. $\begin{cases} y = 3x + 4 \\ y = -2x - 1 \end{cases}$ ב. $\begin{cases} y = x - 12 \\ y = 4x + 6 \end{cases}$ ג. $\begin{cases} y = 2x - 4 \\ y = x + 6 \end{cases}$

**23)** קבע את המצב ההדדי בין זוגות הישרים הבאים:

א. $\begin{cases} y = 3x + 4 \\ y = 2x + 4 \end{cases}$ ב. $\begin{cases} y = x - 7 \\ y = x + 6 \end{cases}$

ג. $\begin{cases} y = 6x - 15 \\ y = 3x + 41 \end{cases}$ ד. $\begin{cases} y = x + 8 \\ y = x + 8 \end{cases}$

**24)** קבע אלו מבין זוגות הישרים הבאים הם מאונכים זה לזה:

א. $\begin{cases} y = 3x + 1 \\ y = 3x - 1 \end{cases}$ ב. $\begin{cases} y = 2x \\ y = \frac{1}{2}x + 4 \end{cases}$

ג. $\begin{cases} y = -4x - 5 \\ y = \frac{1}{4}x + 5 \end{cases}$ ד. $\begin{cases} y = x - 6 \\ y = -x + 6 \end{cases}$

**25)** משוואת הצלע AB של המלבן ABCD היא $y = 6x - 2$ .

א. מה הם שיפועי הצלעות האחרות של המלבן?

ב. כיצד תשתנה תשובתך לסעיף הקודם אם משוואת הישר הנ"ל הייתה שייכת לצלע BC במקום AB?

**26)** במשולש ABC נתונים שיעורי הקודקודים: $A(5,-1)$ , $B(3,7)$ , $C(-5,5)$ .
הוכח שהמשולש ישר זווית ושווה שוקיים.

## תשובות סופיות:

**22)** א. $(-1,1)$ ב. $(-6,-18)$ ג. $(10,16)$.

**23)** א. נחתכים. ב. מקבילים. ג. נחתכים. ד. מתלכדים.

**24)** מאונכים: ג', ד'. לא מאונכים: א', ב'.

**25)** א. $m_{AB} = m_{CD} = 6$ , $m_{BC} = m_{AD} = -\frac{1}{6}$ .

ב. הכל הפוך: $m_{AB} = m_{CD} = -\frac{1}{6}$ , $m_{BC} = m_{AD} = 6$ .

**26)** שאלת הוכחה.

# מציאת משוואות ישר:

## שאלות:

**27)** מצא את משוואות הישרים הבאים:

א. ישר העובר דרך הנקודה $A(1,3)$ ושיפועו $m=2$.

ב. ישר העובר דרך הנקודה $A(0,-4)$ ושיפועו $m=\frac{1}{3}$.

ג. ישר העובר דרך הנקודה $A(5,9)$ ושיפועו $m=0$.

ד. ישר העובר דרך הנקודות $A(5,-12)$ ו-$B(6,-6)$.

ה. ישר העובר דרך הנקודה $A(-6,4)$ ומקביל לישר: $y=2x-3$.

ו. ישר העובר דרך הנקודה $A(3,-5)$ ומקביל לציר ה-$y$.

ז. ישר העובר דרך הנקודה $A(-7,-3)$ ומאונך לישר: $y=x+3$.

ח. ישר העובר דרך נקודת החיתוך של הישרים: $y=11x-4$ ו-$y=3x-12$ ומקביל לישר: $y=7x+5$.

## תשובות סופיות:

**27)** א. $y=2x+1$ ב. $y=\frac{1}{3}x-4$ ג. $y=9$ ד. $y=6x-42$

ה. $y=2x+16$ ו. $x=3$ ז. $y=-x-10$ ח. $y=7x-8$.

## שאלות יסודיות שונות עם משוואת הישר:

### שאלות:

**28)** במשולש ABC מעבירים את התיכון AD לצלע BC.
ידוע כי: $A(3,-2)$ , $B(2,4)$ , $D(-2,2)$ .

א. כתוב את משוואת הישר של התיכון AD.
ב. מצא את שיעורי הקדקוד C.
ג. כתוב את משוואת הישר של הצלע AC.

**29)** נתון מעוין ABCD שבו נתונים הקודקודים $A(-9,1)$ ו-$B(5,-7)$ .
משוואת הישר עליו מונח האלכסון AC היא $x+3y+6=0$ .

א. מצא את משוואת הישר עליו מונח האלכסון BD.
ב. מצא את משוואת הישר עליו מונחת הצלע BC.

**30)** שלוש המשוואות הבאות מייצגות את הישרים המופיעים בשרטוט: $x-4y-4=0$ , $x-y+2=0$ ו- $2x+y-8=0$ .
הקטע AC מקביל לציר ה- $y$ .

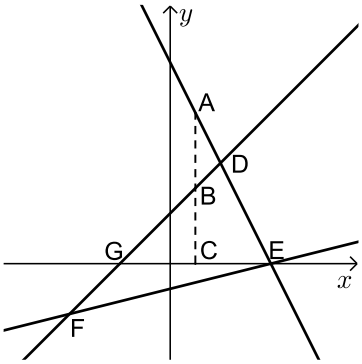


א. חשב את שטח המשולש DEF.
ב. נתון: $d_{BC}=3$ .
חשב את אורך הקטע AB.

**31)** BD הוא התיכון לצלע AC במשולש ABC שבו נתון הקודקוד $A(-6,1)$ .
משוואת התיכון BD היא $x-y=1$ ומשוואת הצלע BC היא $3x+5y=67$ .
מצא את שיעורי הקדקוד C.

**32)** נתון טרפז ABCD $(AB \parallel CD)$ ובו משוואת השוק BC היא: $x=2$ .
משוואת הבסיס CD היא $2x+3y=7$ וידוע כי $A(-4,1)$ .

א. מצא את משוואת הבסיס AB.
ב. מצא את שיעורי הקדקודים B ו-C.
ג. מעבירים את האלכסון AC.
הראה כי המשולש ABC הוא ישר זווית ומצא את שטחו.

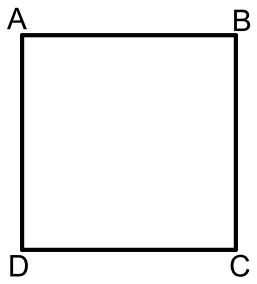


**33)** במרובע ABCD ידוע כי שיפוע הצלע BC הוא 3 ושיעורי הנקודה A הם: $(1,4)$.

א. איזה מרובע הוא המרובע ABCD?
הראה חישוב מתאים.

ב. נתון גם: $D(4,13)$ , $m_{CD}=-\frac{1}{3}$ ו- $\sqrt{90}$ ס"מ $=BC$.
איזה מרובע הוא המרובע ABCD כעת?
הראה חישוב מתאים.

ג. נתון גם: $B(-8,7)$.
איזה מרובע הוא המרובע ABCD כעת?
הראה חישוב מתאים.

ד. חשב את שטח המרובע ABCD.

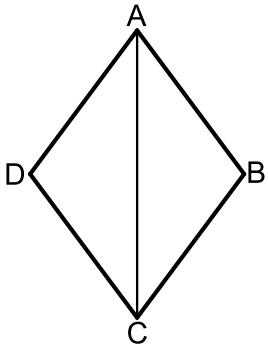


**34)** המרובע ABCD הוא מעוין.
ידוע כי שיעורי אחת הנקודות במעוין הם: $(0,6)$.
כמו כן, ידוע גם כי משוואת האלכסון AC היא: $y=-1.5x+6$ ואחת ממשואות הצלעות היא: $5y+x=4$.

א. מצא את משוואת האלכסון השני.

ב. מצא את שאר קדקודי המעוין

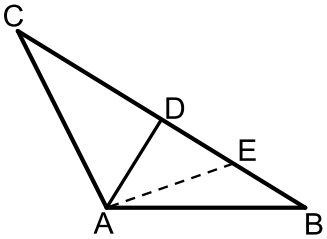


**35)** המשולש ABC הוא משולש שווה שוקיים $(AB=AC)$.
ב-$\Delta ABC$ מעבירים את הגובה AD לבסיס BC ומסמנים נקודה E כך שמתקיים: $DE=BE$.
קדקוד הראש A נמצא בראשית הצירים ונתון כי: $E(8.5,2.5)$ , $D(5,7)$.

א. מצא את שיעורי שאר קודקודי המשולש.

ב. כתוב את משוואת השוק AC.

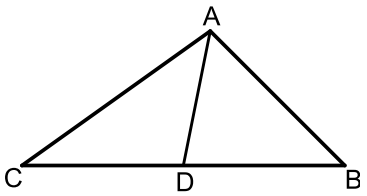


**36)** נתון משולש ABC. הנקודה D נמצאת על הצלע BC של המשולש ABC כך שהקטע AD מחלק אותו לשני משולשים שווי שטח ABD ו-ACD.
הצלע BC מונחת על הישר: $y=4$ וידוע כי שיעור ה-$x$ של הנקודה C הוא: $x_C=-1$.
כמו כן נתון: $A(7,8)$ , $m_{AB}=-2$.

א. מצא את משוואת הצלע AB.

ב. ענה על הסעיפים הבאים:

i. איזה קטע הוא AD בתוך המשולש ABC?

ii. מצא את שיעורי הנקודות B ו-D.

ג. ענה על הסעיפים הבאים:

i. חשב את אורך הצלע BC ואת אורך הקטע AD.

ii. איזה משולש הוא המשולש ABC?

**37)** המרובע ABCD הוא טרפז. הנקודה E היא אמצע הבסיס AB וידוע כי היא נמצאת על ציר ה-$x$.
שיעורי הנקודה B הם $(3,2)$ והצלע AD מונחת על הישר: $x=-5$. אורך הקטע DE הוא $\sqrt{80}$
כך ש-D ברביע השלישי וכן: $\sphericalangle DEC=90°$.

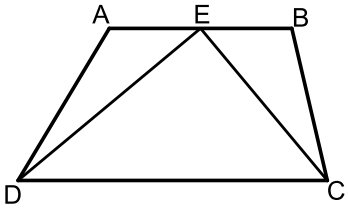


א. מצא את שיעורי הנקודות A , D ו-E.

ב. מצא את משוואת הקטע CE ואת משוואת הבסיס CD.

ג. מצא את שיעורי הנקודה C.

ד. חשב את שטח המשולש DEC.

**38)** AD ו-BE הם בהתאמה גבהים לצלעות BC ו-AC במשולש ABC.
ידוע כי שיעורי נקודת פגישת הגבהים K הם: $(1,3)$.
שיעורי הנקודות D ו-E הם: $E(3,5)$ , $D(-2,4)$.

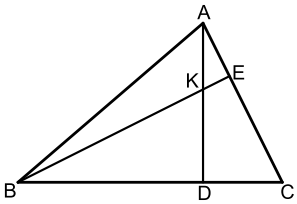


א. מצא את משוואת הגובה AD ואת משוואת הצלע AC.

ב. מצא את שיעורי הקדקוד A.

ג. מצא את משוואת הגובה BE ואת משוואת הצלע BC.

ד. מצא את שיעורי הקדקוד B.

**39)** נתון מעוין ABCD. ידוע כי הצלע CD מונחת על $y=-7$.
אלכסוני המעוין AC ו-BD נפגשים
בנקודה: $M(-0.5,-3)$. שיפוע האלכסון AC הוא -4.

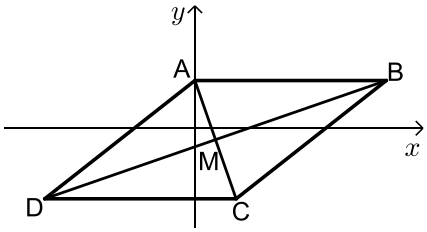


א. מצא את משוואת האלכסון AC.

ב. מצא את שיעורי הנקודה C.

ג. חשב את שטח המשולש BMC.

**40)** נתון מרובע ABCD שקודקודיו הם: $A(3,13)$ , $B(-2,4)$ , $C(9,3)$ , $D(8,14)$.
מורידים גבהים AE ו-CF לאלכסון BD.

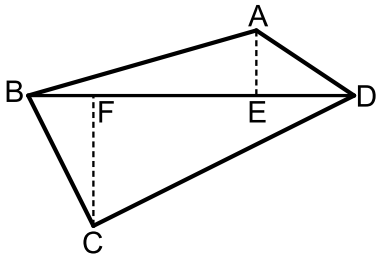


א. מצא את משוואת האלכסון BD ואת אורכו.
ב. מצא את שיעורי הנקודות E ו-F.
ג. מצא את אורכי הגבהים AE ו-CF.
ד. חשב את שטח המרובע ABCD.

**41)** על הישר $y=-5$ מסמנים את
הנקודות: $A(-7,-5)$ , $B(2,-5)$.
הנקודה C נמצאת על הישר: $y=x-5$.
נסמן את שיעור ה-$x$ של הנקודה C ב-$t$.

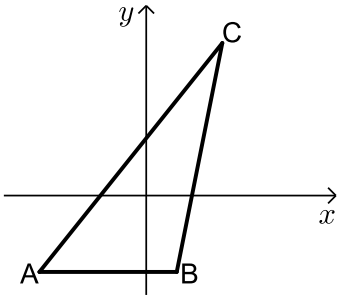


א. הבע באמצעות $t$ את שיעור ה-$y$ של הנקודה C.
ב. ידוע כי אורך הצלע AC הוא 17 ס"מ.
הבע באמצעות $t$ את המרחקים של C מ-A ומ-B.
ג. מצא את $t$ ואת אורך הצלע BC.
ד. מסמנים נקודה D על המשך הצלע AB.
ידוע כי D נמצאת ברביע השלישי.
מצא את שיעורי הנקודה D המקיימת ששטח
המשולש DAC יהיה גדול ב-16 יחידות משטח המשולש ABC.

**42)** המשולש ABC הוא שווה שוקיים $(AB=BC)$
ובו נתון: $A(-4,12)$, $B(x,6)$ ו-$C(4,8)$.
א. מצא את $x$.
ב. הוכח כי המשולש הוא ישר זווית.
ג. ענה על הסעיפים הבאים:
i. מצא את משוואת הצלע AC.
ii. מסמנים את נקודת החיתוך של הצלע AC עם ציר ה-$y$ ב-D.
מצא את שיעורי הנקודה D.
ד. ענה על הסעיפים הבאים:
i. מצא נקודה E ברביע הראשון $(x_E<5)$ כך שהמשולש DCE יהיה גם
שווה שוקיים וישר זווית $(\sphericalangle C=90^\circ)$.
ii. חשב את יחס השטחים בין המשולשים: $\frac{S_{DCE}}{S_{ABC}}$.

**43)** באיור שלפניך נתונה מקבילית ABCD.

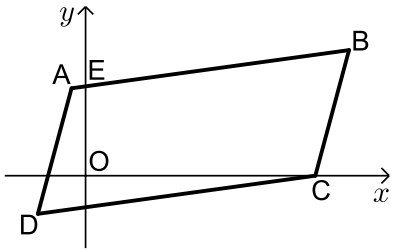


ידועים קודקודי המקבילית הבאים: $A(-1,y)$

ו-$B(x,4)$. ($x$ ו- $y$ נעלמים).

שיפוע הצלע CD הוא 0.2 ואורכה הוא: $d_{CD}=\sqrt{104}$.

א. מצא את $x$ ו- $y$ אם ידוע כי B ברביע הראשון.

ב. נתון גם כי הקדקוד C נמצא על ציר ה-$x$ בחלקו החיובי

וכי: $d_{BC}=\sqrt{17}$. מצא את שיעורי הקדקוד C (מצא שתי אפשרויות).

ג. סמן את נקודת החיתוך של הצלע AB עם ציר ה- $y$ ב-E.

שטח המרובע EOCB הוא 25.9 יח"ש. מצא את האפשרות הנכונה עבור הנקודה C מבין אלו שמצאת בסעיף הקודם.

## תשובות סופיות:

**28)** א. $y=-\frac{4}{5}x+\frac{2}{5}$ ב. $C(-6,0)$ ג. $y=-\frac{2}{9}x-\frac{4}{3}$.

**29)** א. $l_{BD}: y=3x-22$. ב. $l_{BC}: y=-\frac{1}{8}x-6\frac{3}{8}$.

**30)** א. $S_{EDF}=$ 18 יח"ש. ב. 3 יחידות אורך $=AB$.

**31)** $C(14,5)$.

**32)** א. $y=-\frac{2}{3}x-\frac{5}{3}$ ב. $C(2,1)$ , $B(2,-3)$ ג. 12 יחידות שטח $=S_{ABC}$.

**33)** א. מרובע כללי כלשהו. לא ניתן להצביע על אף תכונה.
ב. מלבן. ניתן להראות כי יש למרובע שני זוגות צלעות נגדיות מקבילות ושוות וזווית ישרה.
ג. ריבוע. ניתן להראות כי קיימות זוג צלעות סמוכות שוות. ד. 90 יח"ש $=S$.

**34)** א. $y=\frac{2}{3}x+1\frac{2}{3}$ ב. $(-1,1)$ , $(4,0)$ , $(5,5)$.

**35)** א. $C(-2,16)$ , $B(12,-2)$ ב. $y=-8x$.

**36)** א. $y=-2x+22$ ב. i. תיכון - קטע במשולש שחוצה אותו לשני משולשים שווי שטח הוא תיכון.
ב. ii. $D(4,4)$ , $B(9,4)$.
ג. ii. $BC=10$ , $AD=5$. ג. ii. משולש ישר זווית - אם במשולש יש תיכון לצלע ששווה למחציתה אז המשולש הוא ישר זווית.

**37)** א. $E(-1,0)$ , $A(-5,-2)$ , $D(-5,-8)$. ב. $CD: y=\frac{1}{2}x-5\frac{1}{2}$ , $CE: y=-\frac{1}{2}x-\frac{1}{2}$
ג. $C(5,-3)$. ד. 30 יח"ש $=S_{DEC}$.

**38)** א. $AC: y=-x+8$ , $AD: y=-\frac{1}{3}x+3\frac{1}{3}$. ב. $A(7,1)$.
ג. $BC: y=3x+10$ , $BE: y=x+2$. ד. $B(-4,-2)$.

**39)** א. $y=-4x-5$ ב. $C(0.5,-7)$ ג. 34 סמ"ר $=S_{DMC}=S_{BMC}$.

**40)** א. $y=x+6$ , $d_{BD}=\sqrt{200}$ ב. $E(5,11)$ , $F(3,9)$
ג. $d_{AE}=\sqrt{8}$ , $d_{CF}=\sqrt{72}$ ד. $S_{ABCD}=80$.

**41)** א. $C(t,t-5)$. ב. i. $BC=\sqrt{2t^2-4t+4}$ , $AC=\sqrt{2t^2+14t+49}$
ii. 10 ס"מ $=BC$ , $t=8$ ג. $D(-20,-5)$.

**42)** א. $x=-2$ ג. i. $y=-0.5x+10$ ii. $D(0,10)$ ד. i. $E(2,4)$
ii. $\frac{S_{DCE}}{S_{ABC}}=\frac{1}{2}$.

**43)** א. $y=2$ , $x=9$ ב. $C(10,0)$ , $C(8,0)$ ג. $C(8,0)$.

# חלוקת קטע ביחס נתון:

## סיכום כללי:

- שיעורי נקודה P המחלקת קטע שקצותיו $A(x_1,y_1)$ ו-$B(x_2,y_2)$ ביחס של $k:l$ הם: $x_P=\frac{k\cdot x_1+l\cdot x_2}{k+l}, y_P=\frac{k\cdot y_1+l\cdot y_2}{k+l}$ (בהצלבה).

## שאלות:

**1)** הנקודה P נמצאת על הקטע AB. נתון: $A(2,-5)$ , $B(-12,16)$.
מצא את ערכי הנקודה P, אם נתון כי: $\frac{AP}{PB}=\frac{2}{5}$.

**2)** קודקודי משולש ABC הם: $A(-1,3)$ , $B(6,0)$ , $C(4,-12)$.
מצא את שיעורי מרכז הכובד של המשולש.
(מרכז כובד של משולש הוא מפגש תיכוני המשולש).

**3)** מצא את שיעורי מרכז הכובד של משולש ABC
שקודקודיו הם: $A(x_1,y_1)$ , $B(x_2,y_2)$ , $C(x_3,y_3)$.

**4)** קודקודי המשולש ABC הם: $A(5,1)$ , $B(7,-3)$ , $C(-1,4)$.
מצא את אורכו של חוצה הזווית היוצא מקודקוד A.

## תשובות סופיות:

**1)** $P(-2,1)$

**2)** $M(3,-3)$

**3)** $\left(\frac{x_1+x_2+x_3}{3},\frac{y_1+y_2+y_3}{3}\right)$

**4)** 1.697 יחידות אורך.

# מרחק נקודה מישר:

## סיכום כללי:

**הצגה כללית של ישר ומרחקים:**

- הצגה כללית של ישר (צורה סתומה): $Ax+By+C=0$.
- מרחק הנקודה $A(x_1,y_1)$ מהישר $Ax+By+C=0$ הוא: $d=\left|\frac{Ax_1+By_1+C}{\sqrt{A^2+B^2}}\right|$.

  כאשר $B>0$:
  - אם הנקודה מעל הישר מורידים את הערך המוחלט.
  - אם הנקודה מתחת לישר מורידים את הערך המוחלט ומוסיפים מינוס לאחד האגפים.

## שאלות:

**5)** ענה על הסעיפים הבאים:

א. מצא את מרחק הנקודה $(-2,4)$ מהישר $4x+3y+11=0$.

ב. מצא את מרחק הנקודה $(4,3)$ מהישר $y=3x-1$.

ג. מצא את מרחק הנקודה $(3,-11)$ מהישר $x-5=0$.

**6)** מצא את המרחק בין הנקודה הנתונה לישר הנתון:

א. $3x-4y+6=0$ , $A(-5,-1)$

ב. $12x+5y-17=0$ , $A(-3,8)$

ב. $2y+7=0$ , $A(11,-2)$

ד. $3x-14=0$ , $A\left(6,-\frac{1}{2}\right)$

**7)** מצא את שיעורי הנקודות על הישר $x+y-7=0$ שמרחקן מהישר $2x-y+5=0$ הוא: $\sqrt{20}$.

**8)** מצא את שטחה של מקבילית ששיעורי קודקודיה הם: $A(7,-1)$ , $B(-5,4)$ , $C(-1,7)$ , $D(11,2)$.

**9)** מצא את שטחו של המשולש $\Delta ABC$ שבו שיעורי קדקוד $A$ הם $A(5,-3)$ ושניים מתיכוני המשולש מונחים על הישרים $x-4=0$ ו- $2x-y-1=0$.

**10)** מצא את שטחו של משולש שקודקודיו הם: $A(2,2)$ , $B(-1,1)$ , $C(-5,-2)$.

**11)** מצא את שיעורי הנקודות על הישר $3x-2y+6=0$, שמרחקן מהישר: $2x-y-14=0$ הוא $3\sqrt{5}$.

**12)** מצא את שיעורי הנקודות על הישר $4x+3y-20=0$, שמרחקן מהישר: $3x+2y+13=0$ הוא $2\sqrt{13}$.

## תשובות סופיות:

**5)** א. 3 ב. $\frac{8}{\sqrt{10}}$ ג. 2.

**6)** א. 1 ב. 1 ג. $1\frac{1}{2}$ ד. $1\frac{1}{3}$.

**7)** $\left(-2\frac{2}{3},9\frac{2}{3}\right)$ , $(4,3)$

**8)** $S_{ABCD}=$ 56 יח"ש

**9)** $S_{ABC}=$ 18 יח"ש

**10)** $S_{ABC}=$ 2.5 יח"ש

**11)** $(64,99)$ , $(4,9)$

**12)** $(-157,216)$ , $(-1,8)$

## מיקום נקודה ביחס לישר:

### שאלות:

**13)** מצא את שיעורי הנקודה על הישר $3x-2y+6=0$, שמרחקה מהישר: $2x-y-14=0$ הוא $3\sqrt{5}$ והיא נמצאת מתחתיו.

**14)** מצא את שיעורי הנקודה על הישר $4x+3y-20=0$, שמרחקה מהישר: $3x+2y+13=0$ הוא $2\sqrt{13}$ והיא נמצאת מעליו.

**15)** נתון משולש ABC שבו נתונים הקודקודים: $A(1,1)$ , $B(13,6)$.
הקדקוד C נמצא על הישר $2x-y-19=0$ ונמצא מתחת לצלע AB.
מצא את שיעורי הקדקוד C אם ידוע ששטח המשולש הוא 13.

**16)** נתון משולש שצלעותיו מונחות על הישרים:
$I: x+2y+1=0$ , $II: x-2y-11=0$ , $III: 2x-y+6=0$
מצא שיעורי נקודה הנמצאת בתוך המשולש, שמרחקה מישר I שווה למרחקה מישר III ושמרחקה מישר II הוא מחצית מהמרחק משני ישרים אלה.

**17)** מצא את שיעורי מרכז המעגל, החסום במשולש, שצלעותיו מונחות על הישרים: $III: 3x+4y-11=0$ , $II: 3x-4y-51=0$ , $I: 4x-3y+2=0$.

**18)** מצא משוואת ישר ששיפועו 3 אם ידוע שהנקודה $G(7,-3)$ נמצאת מתחתיו ובמרחק $2\sqrt{10}$ ממנו.

**19)** מצא משוואת ישר שעובר בנקודה $A(-2,6)$ ומרחקו מהנקודה $B(2,9)$ הוא $\sqrt{5}$.

**20)** מצא משוואת ישר שעובר בנקודה $A(9,10)$ ומרחקו מהנקודה $B(8,-3)$ הוא $5\sqrt{5}$.

**21)** מצא משוואת ישר שעובר בנקודה $A(3,6)$ ומרחקו מהנקודה $B(-9,2)$ הוא 4.

**22)** מצא משוואת ישר שעובר בנקודה $A(1,2)$ ומרחקו מהנקודה $B(-3,10)$ הוא 4.

**23)** מצא משוואת ישר שעובר בנקודה $A(10,8)$ ומרחקו מהנקודה $B(7,-1)$ הוא 3.

**24)** מצא משוואת ישר שעובר בנקודה $A(-6,1)$ ומרחקו מהנקודה $B(2,7)$ הוא 10.

## תשובות סופיות:

**13)** $(64,99)$

**14)** $(-1,8)$

**15)** $C(11,3)$

**16)** $(-1,-4)$

**17)** $(2,-5)$

**18)** $y=3x-4$

**19)** $y=\frac{2}{11}x+6\frac{4}{11}$ , $y=2x+10$

**20)** $y=\frac{1}{2}x+5\frac{1}{2}$ , $y=-\frac{22}{31}x+16\frac{12}{31}$

**21)** $y=6$ , $y=\frac{3}{4}x+3\frac{3}{4}$

**22)** $y=-\frac{3}{4}x+2\frac{3}{4}$ או $x=1$

**23)** $y=1\frac{1}{3}x-5\frac{1}{3}$ או $x=10$

**24)** $y=-\frac{4}{3}x-7$

# מרחק בין ישרים מקבילים:

## סיכום כללי:

- מרחק בין שני ישרים מקבילים: $Ax+By+C_1=0$ ו- $Ax+By+C_2=0$ כאשר: $B>0$
  הוא: $d=\left|\frac{C_1-C_2}{\sqrt{A^2+B^2}}\right|$ ומתקיים בהעדר הערך המוחלט:
  - אם: $C_1>C_2$ , $(d>0)$ אז הישר $Ax+By+C_1=0$ מתחת ל- $Ax+By+C_2=0$.
  - אם: $C_1<C_2$ , $(d<0)$ אז הישר $Ax+By+C_1=0$ מעל ל- $Ax+By+C_2=0$.

## שאלות:

**25)** מצא משוואת ישר, המקביל לישר $3x-4y+8=0$ ונמצא במרחק 4 ממנו.

**26)** מצא את המרחק בין הישרים המקבילים: $5x+12y+25=0$ , $5x+12y-14=0$.

**27)** נתונים הישרים: $12x-2y-15=0$ , $y=6x+5$.
הראה שהישרים מקבילים ומצא את המרחק ביניהם.

**28)** נתון המלבן ABCD. משוואותיהן של שתיים מצלעות המלבן הן $AB: 3x+y=0$ ו- $CD: 3x+y-6=0$. הקדקוד B נמצא בראשית הצירים. נתון כי הצלע AB ארוכה פי 4 מהצלע BC. מצא את שטח המלבן ואת מפגש אלכסוני המלבן, אם ידוע שהוא ברביע הרביעי.

**29)** צלע של ריבוע מונחת על הישר $3x-2y+5=0$.
אלכסוני הריבוע נפגשים בנקודה $B(1,-1)$.
מצא את משוואות הישרים עליהם מונחות הצלעות האחרות של הריבוע.

**30)** נתון ישר שעובר בראשית הצירים ושיפועו חיובי.
מצא את משוואת הישר אם נתון שהוא נמצא מעל הנקודות $P(4,1)$ ו- $Q(7,2)$
וסכום המרחקים ממנו לנקודות אלה הוא $3\sqrt{10}$.

**31)** במשולש BKP נתון כי הצלע BK מונחת על הישר $x-y+3=0$ והצלע BP מונחת על הישר $x+2y+3=0$. אורך הגובה לצלע BP הוא $3\sqrt{5}$ ואורך הגובה לצלע KP הוא 5. מצא את שיעורי קדקוד P אם ידוע שראשית הצירים נמצאת בתוך המשולש.

## תשובות סופיות:

**25)** $3x-4y+28=0$ , $3x-4y-12=0$

**26)** 3

**27)** $\frac{25}{\sqrt{148}}$

**28)** 14.4 יח"ש $S=$ , $(2.1,-3.3)$

**29)** $y=-\frac{2}{3}x+3$ , $y=-\frac{2}{3}x-3\frac{2}{3}$ , $3x-2y-15=0$

**30)** $y=3x$

**31)** $P\left(2,-2\frac{1}{2}\right)$

# קורס קדם במתמטיקה למהנדסים

## פרק 8 - גיאומטריה אנליטית - המעגל

### תוכן העניינים


1. הכרות עם משוואת המעגל ..... 146
2. מעגל המשיק לצירים ..... 150
3. משיק למעגל ..... 152
4. שאלות יסודיות שונות ..... 153
5. נושאים מתקדמים במעגל ..... (ללא ספר)
6. כתיבת משוואת מעגל עם השלמה לריבוע ..... 160
7. משוואות המשיקים למעגל ..... 161
8. מיתר המחבר שתי נקודות השקה ..... 163
9. שאלות מסכמות שונות ..... 164

# הכרות עם משוואת המעגל:

## סיכום כללי:

**הגדרה:**

המקום הגאומטרי של כל הנקודות, הנמצאות במרחק קבוע מנקודה קבועה במישור נקרא מעגל.

**משוואת מעגל:**

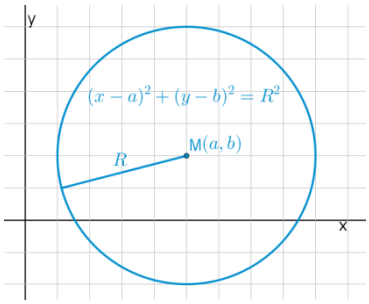


משוואת מעגל שמרכזו בנקודה $M(a,b)$

ורדיוסו $R$ היא: $(x-a)^2=(y-b)^2=R^2$.

**משוואת מעגל קנוני:**

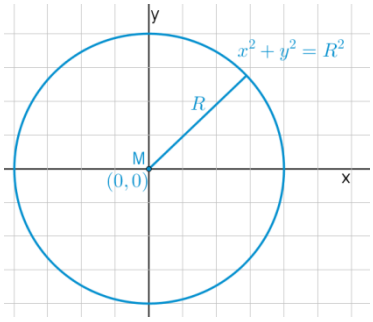


משוואת מעגל קנוני (שמרכזו בראשית הצירים $M(0,0)$)

ורדיוסו $R$ היא: $x^2+y^2=R^2$.

## שאלות:

**1)** מצא את מרכזם ורדיוסם של המעגלים הבאים:

א. $(x-3)^2+(y+5)^2=49$.

ב. $\left(x+\frac{1}{2}\right)^2+y^2=10$.

ג. $(x-m)^2+(y+n)^2=m^2+n^2$.

**2)** כתוב את משוואות המעגלים שמרכזם M ורדיוסם $R$:

א. $M(4,-2)\ ,\ R=3$

ב. $M(-3,5)\ ,\ R=10$

ג. $M(5,5)\ ,\ R=\sqrt{40}$

ד. $M(10,-12)\ ,\ R=\sqrt{30}$

**3)** כתוב את משוואות המעגלים הבאים בכל מקרה:

א.

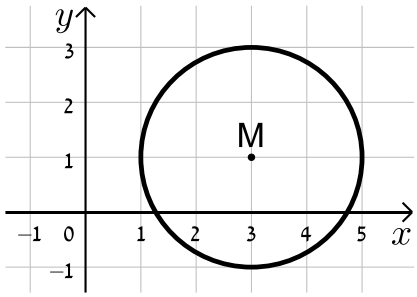


ב.

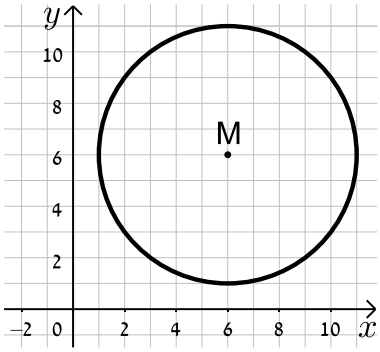


ג.

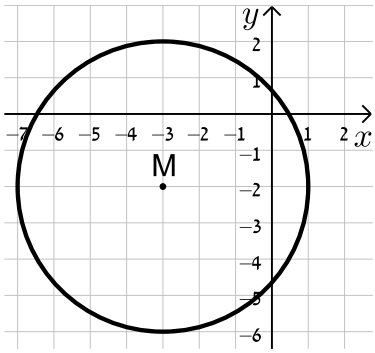


ד.

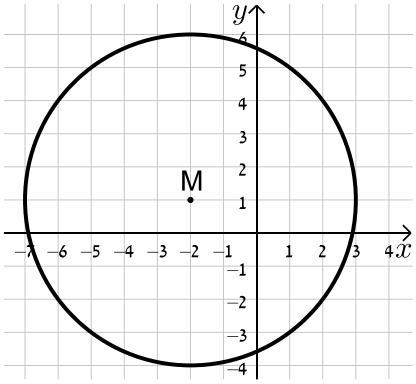


**4)** מצא את משוואתו של מעגל שעובר בנקודה $A(-4,5)$ ומרכזו בנקודה $O(2,-1)$.

**5)** מצא את משוואת המעגל שמרכזו בנקודה $M(-5,6)$ והוא חותך את ציר ה-$x$ בנקודה שבה $x=9$.

**6)** מצא את משוואת המעגל שמרכזו בנקודה $M(0,-7)$ והוא חותך את ציר ה-$y$ בנקודה שבה $y=3$.

**7)** מצא את משוואתו של מעגל שעובר בנקודה $A(11,2)$, רדיוסו 13 ומרכזו נמצא על הישר $y=2x-1$.

**8)** מצא את משוואתו של מעגל שהנקודות $A(-2,3)$ ו-$B(4,-3)$ הן קצות הקוטר שלו.

**9)** מצא את משוואתו של מעגל שמרכזו נמצא על הישר $x=4$ , רדיוסו 10 והוא חותך מציר ה-$x$ מיתר שאורכו 12.

**10)** מצא את משוואתו של מעגל שמרכזו $M(4,-3)$ אם ידוע כי הישר $y=-3x+7$ חותך אותו בשתי נקודות A ו-B כך שאורכו של המיתר AB הוא 4 יחידות אורך.

**11)** מצא את משוואתו של מעגל החוסם משולש שקודקודיו הם $A(22,-24)$ , $B(-10,40)$ , $C(-30,28)$.

**12)** נתונים שני מעגלים בעלי אותו המרכז $M(3,-1)$ , האחד הוא בעל רדיוס $R$ והשני בעל רדיוס של $2R$.

א. כתוב את המשוואות של שני המעגלים (בטא באמצעות $R$).

ב. מה תהיינה המשוואות עבור $R=2$ ?

ג. צייר את שני המעגלים במערכת הצירים שלפניך.

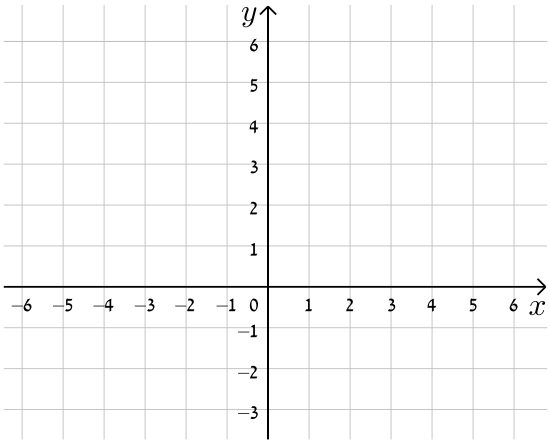


**13)** שני מעגלים שמרכזיהם $M_1(6,2)$ ו-$M_2(-3,-4)$ חותכים זה את זה בנקודה $(-2,3)$. מצא את משוואות המעגלים.

**14)** נתונה משוואת המעגל הבאה: $x^2+y^2-10x-10y+a=0$ כאשר $a$ פרמטר.

א. מצא ביטוי של רדיוס המעגל באמצעות $a$.

ב. איזה מהערכים הבאים יכול להיות הגיוני עבור $a$ ?
נמק ומצא את תחום ההגדרה של $a$.

i. $a=5$.

ii. $a=55$.

## תשובות סופיות:

1) א. $M(3,-5)\ ,\ R=7$ ב. $M(-0.5,0)\ ,\ R=\sqrt{10}$

ג. $M(m,-n)\ ,\ R=\sqrt{m^2+n^2}$ .

2) א. $(x-4)^2+(y+2)^2=9$ ב. $(x+3)^2+(y-5)^2=100$

ג. $(x-5)^2+(y-5)^2=40$ ד. $(x-10)^2+(y+12)^2=30$.

3) א. $(x-3)^2+(y-1)^2=4$ ב. $(x-6)^2+(y-6)^2=25$

ג. $(x+3)^2+(y+2)^2=16$ ד. $(x+2)^2+(y-1)^2=25$.

4) $(x-2)^2+(y+1)^2=72\ ,\ M(3,-3)$.

5) $(x+5)^2+(y-6)^2=232$.

6) $x^2+(y+7)^2=100$.

7) $(x+1)^2+(y+3)^2=169$ או $(x-7.8)^2+(y+14.6)^2=169$.

8) $(x-1)^2+y^2=18$.

9) $(x-4)^2+(y-8)^2=100$ או $(x-4)^2+(y+8)^2=100$

10) $(x-4)^2+(y+3)^2=4\frac{2}{5}$.

11) $(x+2)^2+(y-4)^2=1360$.

12) א. $(x-3)^2+(y+1)^2=4R^2\ ,\ (x-3)^2+(y+1)^2=R^2$

ב. $(x-3)^2+(y+1)^2=16\ ,\ (x-3)^2+(y+1)^2=4$.

13) $(x-6)^2+(y-2)^2=65\ ,\ (x+3)^2+(y+4)^2=50$

14) א. $R=\sqrt{50-a}$ ב. $a=5$ , ת.ה: $a<50$.

# מעגל המשיק לצירים:

## שאלות:

**15)** כתוב את משוואות המעגלים הבאים:

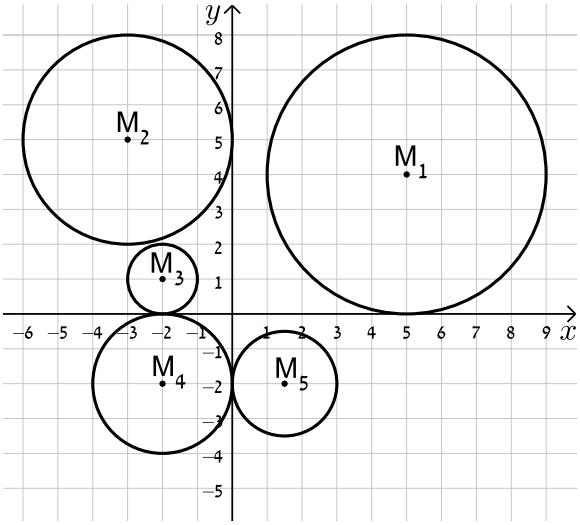


**16)** מצא את משוואתו של מעגל המשיק לשני הצירים ורדיוסו 4.

**17)** מצא את משוואת המעגל שמשיק לציר ה-$x$ ומרכזו בנקודה $M(16,8)$.

**18)** מצא את משוואת המעגל שמרכזו נמצא על הישר $2x+3y+6=0$ והוא משיק לשני הצירים.

**19)** מצא את משוואתו של מעגל שמשיק לציר ה-$y$ ולישר $y=6$ ומרכזו על הישר $y=3x-2$ ברביע הראשון.

## תשובות סופיות:

**15)** $M_1:(x-5)^2+(y-4)^2=16$ , $M_2:(x+3)^2+(y-5)^2=9$ , $M_3:(x+2)^2+(y-1)^2=1$ , $M_4:(x+2)^2+(y+2)^2=4$ , $M_5:(x-1.5)^2+(y+2)^2=2\frac{1}{4}$.

**16)** $(x\pm4)^2+(y\pm4)^2=16$.

**17)** $(x-16)^2+(y-8)^2=64$.

**18)** $(x-6)^2+(y+6)^2=36$ , $\left(x+1\frac{1}{5}\right)^2+\left(y+1\frac{1}{5}\right)^2=\frac{36}{25}$.

**19)** $(x-2)^2+(y-4)^2=4$.

# משיק למעגל:

## סיכום כללי:

משוואת המשיק למעגל $(x-a)^2=(y-b)^2=R^2$ בנקודה $A(x_1,y_1)$
שעליו היא: $(x-a)(x_1-a)+(y-b)(y_1-b)=R^2$.

## שאלות:

**20)** מצא את משוואות המשיקים למעגל $(x+1)^2+(y-2)^2=25$ בנקודות על המעגל שבהן $y=5$.

**21)** נתונה משוואת המעגל: $(x-1)^2+(y-3)^2=20$ ומשוואת הישר $y=2x+m$ כאשר $m$ פרמטר. מצא עבור אלו ערכים של $m$ הישר ישיק למעגל ולאלו ערכים הישר יחתוך את המעגל.

## תשובות סופיות:

**20)** $4x-3y+35=0$ ו- $4x+3y=27$.

**21)** משיק: $m=11,-9$ , חותך: $-9<m<11$.

## שאלות יסודיות שונות:

### שאלות:

**22)** נתון מעגל שמשוואתו $(x-3)^2+(y+4)^2=25$.

א. מצא את נקודות החיתוך של המעגל עם הצירים.

ב. העבירו קוטר במעגל, המאונך לציר ה-$x$.
מצא את שטח המרובע הנוצר על ידי נקודות החיתוך שמצאת בסעיף א' ונקודת החיתוך של הקוטר עם המעגל הנמצאת ברביע הראשון.

**23)** נתון ישר שמשוואתו $y=2x-10$. הישר חותך את ציר ה-$x$ בנקודה A ואת ציר ה-$y$ בנקודה B. בנקודה A מעבירים משיק למעגל שהקטע AB הוא קוטרו.
המשיק חותך את ציר ה-$y$ בנקודה C.
מצא את אורך הקטע BC.

**24)** נתון המעגל שמשוואתו $x^2+y^2=81$. מסמנים ב-A את נקודת החיתוך החיובית של המעגל עם ציר ה-$x$. הנקודה A היא מרכזו של מעגל נוסף בעל רדיוס של 12. מסמנים את נקודות החיתוך של שני המעגלים ב-B ו-C.
מצא את שטח המשולש שנוצר בין הנקודות B, C ו- O (O ראשית הצירים).

**25)** נתון ישר שמשוואתו $y=x$. הישר חותך מעגל קנוני שמשוואתו $x^2+y^2=32$ בשתי נקודות, A ו-B , כאשר A ברביע הראשון. בנקודה A עובר מעגל נוסף, המשיק למעגל הקנוני ובעל אותו רדיוס.
מצא את משוואת המעגל הנוסף ואת משוואת המשיק המשותף לשני המעגלים העובר בנקודה A.

**26)** הישרים: $9y+11x=94$ ו- $y=-3x+14$ נחתכים בנקודה B.
דרך נקודה זו עובר מעגל שמרכזו הוא: $M(-9,1)$.
ידוע כי מעגל זה חותך את הישרים (חוץ מהנקודה B) בשתי נקודות A ו-C (ראה איור).

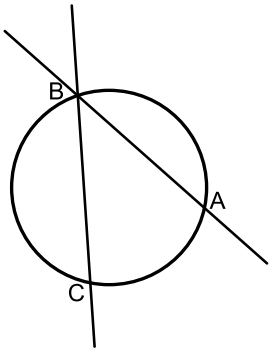


א. מצא את שיעורי הנקודה B.

ב. מצא את משוואת המעגל.

ג. מצא את שיעורי הנקודה A – נקודת החיתוך של הישר שמשוואתו: $y=-3x+14$ עם המעגל.

**27)** נתון מעגל המשיק לציר ה-$x$ בנקודה A.
מהנקודה E שעל ציר ה-$x$ מעלים אנך המשיק למעגל בנקודה B (ראה איור).
הקטע BC מקביל לציר ה-$x$ ו-O היא נקודת ראשית הצירים. יוצרים טרפז ישר זווית ABCO ששטחו הוא 170 סמ"ר.
ידוע כי: $C(0,10)$ ו- 10 ס"מ $= AE$.

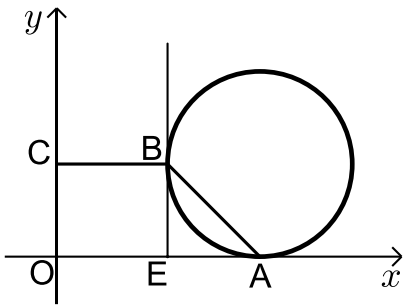


א. ענה על הסעיפים הבאים:
i. מצא את שיעורי הנקודה B.
ii. מצא את שיעורי הנקודה A.
ב. כתוב את משוואת המעגל.

**28)** הנקודה $A(17,4)$ נמצאת על המעגל שמשוואתו: $(x-7)^2+(y-4)^2=R^2$.
הישר $x=1$ חותך את המעגל בשתי נקודות B ו-C כך ש-B נמצאת ברביע הרביעי. מעבירים את הקטע AD המאונך לישר BC וידוע כי הנקודה D היא אמצע BC.

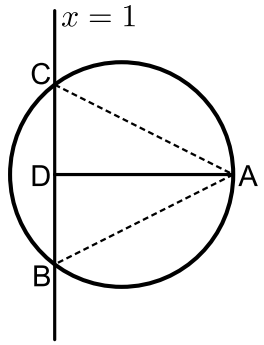


א. מצא את רדיוס המעגל.
ב. מצא את שיעורי הנקודות B ו-C.
ג. ענה על הסעיפים הבאים:
i. חשב את מרחק הנקודה A מהישר: $x=1$
ii. חשב את שטח המשולש ABC.

**29)** נתון משולש ABC. משוואות הצלעות AB ו-BC במשולש ABC הן בהתאמה: $2y-x=56$ ו- $8y+x=104$.
מעבירים גבהים לצלעות AB ו-BC אשר נחתכים בנקודה $M(0,-2)$ שבתוך המשולש.

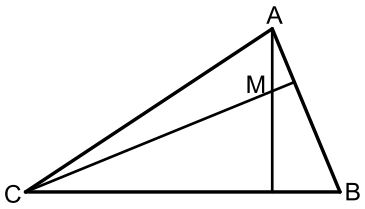


א. מצא את משוואות הגבהים.
ב. מצא את שיעורי הנקודה B.
ג. מצא את משוואת המעגל שמרכזו בנקודה M ורדיוסו הוא הקטע BM.

**30)** באיור שלפניך מתואר המעגל: $(x-4)^2+(y-3)^2=25$.
המעגל חותך את הצירים בנקודות A , B ו-O.

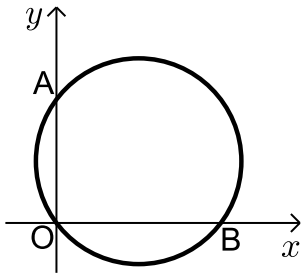


א. מצא את נקודות החיתוך של המעגל עם הצירים.
ב. מצא נקודה C הנמצאת על היקף המעגל ברביע הראשון כך שהמרובע ABCO יהיה מלבן.
ג. חשב את היקף המלבן.

**31)** המעגל: $(x+a)^2+(y-1)^2=a+4$ , $a>0$ חותך את ציר ה-$x$ בנקודה שבה: $x=1$.
א. מצא את $a$.
ב. מצא את נקודות החיתוך של המעגל הנתון עם המעגל $(x-1)^2+(y-2)^2=10$.
ג. כתוב את משוואת הישר העובר דרך נקודות החיתוך של שני המעגלים.
ד. חשב את שטח המשולש שיוצר הישר שמצאת בסעיף הקודם עם הצירים.

**32)** הנקודות M ו-D נמצאות על הישר $y=12$ ידוע כי שיעור ה-$x$ של הנקודה M הוא 9 וכי המרחק של הנקודה M מראשית הצירים גדול ב- 6 מהמרחק בין הנקודות D ו-M (ראה איור).
בונים מעגל שמרכזו נמצא בנקודה M ורדיוסו הוא האורך DM.

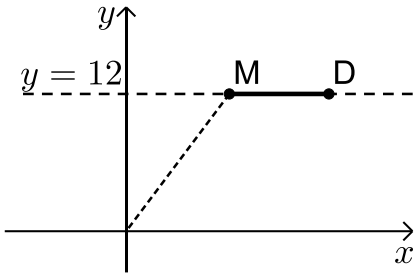


א. ענה על הסעיפים הבאים:
i. מצא את מרחק הנקודה M מראשית הצירים.
ii. מצא את שיעור ה-$x$ של הנקודה D.
ב. כתוב את משוואת המעגל.
ג. האם המעגל הזה חותך את הצירים? הראה חישוב מתאים לטענתך.

**33)** מעגל שמרכזו בנקודה $M(15,12)$ משיק לציר ה-$y$ בנקודה B וחותך את ציר ה-$x$ בשתי נקודות A ו-C כמתואר באיור.

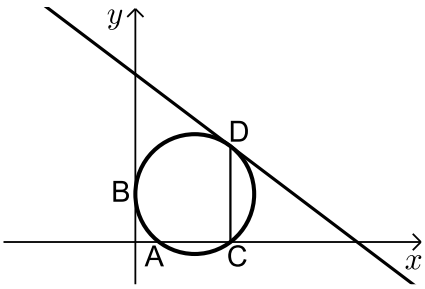


א. כתוב את משוואת המעגל.
מהנקודה C מעלים אנך לציר ה-$x$ שחותך את המעגל בנקודה נוספת D.
דרך הנקודה D עובר משיק למעגל.
ב. מצא את שיעורי הנקודות C ו-D.
ג. מצא את משוואת המשיק למעגל בנקודה D.

**34)** באיור שלפניך נתון מעגל שמרכזו בנקודה M.
המעגל חותך את ציר ה- $y$ בנקודות A ו-B.
מעבירים משיק למעגל: $6x+7y=191$
דרך הנקודה: $C(12,17)$.

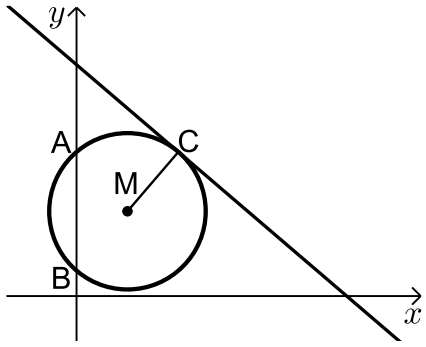


א. כתוב את משוואת הרדיוס MC.
ב. ידוע כי הנקודה M נמצאת על הישר $y=10$.
i. מצא את שיעורי הנקודה M.
ii. מצא את אורך רדיוס המעגל.
iii. כתוב את משוואת המעגל.
ג. מצא את נקודות החיתוך של המעגל עם ציר ה- $y$.
ד. חשב את שטח המשולש AMB.

**35)** באיור שלפניך נתון מעגל שמרכזו בנקודה M הנמצאת על ציר ה- $x$. המעגל חותך את ציר ה- $x$ בנקודה A.
מסמנים את ראשית הצירים ב-O.
ידוע כי A היא אמצע הקטע MO ושיעוריה הם: $A(5,0)$.

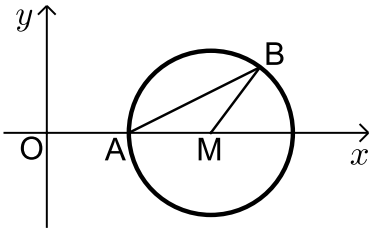


א. מצא את משוואת המעגל.
ב. כתוב את משוואת הישר שעובר דרך הנקודה A ושיפועו הוא 0.5.
ג. מצא את נקודת החיתוך הנוספת של הישר שמצאת עם המעגל.
ד. סמן את הנקודה שמצאת בסעיף הקודם ב-B וחשב את שטח המשולש AMB.

**36)** באיור שלפניך נתון מעגל שמשוואתו
היא: $(x+4)^2+(y+2)^2=8$.
מסמנים את נקודות החיתוך של המעגל עם ציר ה- $x$ ב-A ו-B (ראה איור).

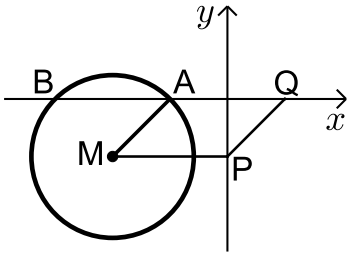


א. מצא את שיעורי הנקודות A ו-B.
מעבירים אנך לציר ה- $y$ מנקודת מרכז המעגל M
ומסמנים את חיתוכם ב- P.
ב. מצא נקודה Q כך שהמרובע AMPQ יהיה מקבילית. נמק.
ג. כתוב את משוואת הישר PQ.
ד. הוכח כי הישר שמצאת בסעיף הקודם משיק למעגל בנקודה $(-2,-4)$.

**37)** נתון מעגל שרדיוסו R $(R<16)$ ומשיק לציר ה-$x$ בנקודה שבה: $x=16$.

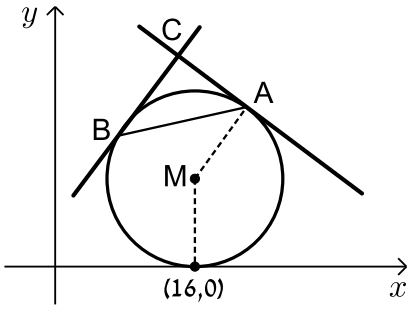


א. הבע באמצעות R את משוואת המעגל וציין האם הוא חותך את ציר ה- $y$ או לא. נמק.

מהנקודה $A(22,18)$ שעל המעגל מעבירים משיק.

ב. מצא את R וכתוב את משוואת המעגל.

ג. כתוב את משוואת המשיק למעגל בנקודה A.

ד. מצא את משוואת המשיק למעגל בנקודה B שבה $x_B < x_M$ אם ידוע כי הוא המאונך למשיק הקודם.

ה. המשיקים נחתכים בנקודה C.

i. מצא את שיעורי הנקודה C.

ii. מצא את שטח המשולש ABC.

**38)** באיור שלפניך נתון מעגל שמשוואתו: $(x+a)^2+(y-1)^2=5$ , $a$ פרמטר.

ידוע כי המעגל חותך את ציר ה-$x$ בנקודה $A(10,0)$.

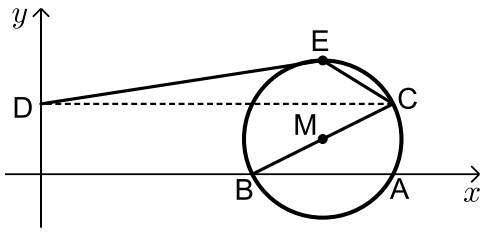


א. מצא את $a$ אם ידוע כי $a>-10$.

ב. מצא את הנקודה B - נקודת החיתוך השנייה של המעגל עם ציר ה-$x$.

ג. כתוב את משוואת הקוטר העובר דרך הנקודה B ומרכז המעגל M.

ד. מצא את נקודת החיתוך השנייה של הקוטר עם המעגל.

ה. מעבירים אנך מנקודת החיתוך שמצאת בסעיף הקודם לציר ה- $y$ בנקודה D.
הנקודה E היא הנקודה בעלת שיעור ה- $y$ הגדול ביותר על המעגל.
מחברים את הנקודות E ו-D כך שנוצר המחומש DECBO. חשב את שטחו.

**39)** באיור שלפניך נתון מעגל שמשוואתו: $(x-5)^2+(y-3)^2=R^2$ , $R$ רדיוס המעגל.

ידוע כי המעגל עובר בראשית הצירים.

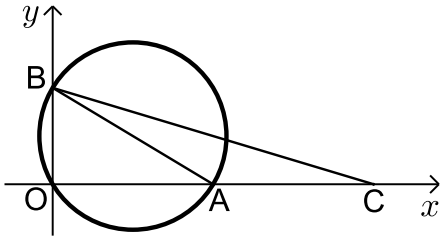


א. מצא את רדיוס המעגל וכתוב את משוואת המעגל.

ב. מצא את הנקודות A ו- B - החיתוך של המעגל עם הצירים (ראה איור).

ג. מסמנים נקודה C על ציר ה-$x$ כך ש-A היא אמצע הקטע CO.

i. מצא את שיעורי הנקודה C.

ii. חשב את שטח המשולש ABC.

## תשובות סופיות:

**22)** א. $(0,0)$ , $(6,0)$ , $(0,-8)$ ב. 27 יח"ש.

**23)** 12.5 יחידות אורך.

**24)** $\sqrt{80}$ יח"ש $= S_{\Delta BOC}$.

**25)** $(x-8)^2+(y-8)^2=32$ , $y=-x+8$.

**26)** א. $(2,8)$ ב. $(x+9)^2+(y-1)^2=170$ ג. $(4,2)$.

**27)** א. i. $B(12,10)$ ii. $A(22,0)$ ב. $(x-22)^2+(y-10)^2=100$.

**28)** א. $R=10$ ב. $B(1,-4)$ , $C(1,12)$ ג. i. $d=16$

ii. $S=128$

**29)** א. $y=-2x-2$ , $y=8x-2$ ב. $(-24,16)$ ג. $x^2+(y+2)^2=900$.

**30)** א. $B(8,0)$ , $A(0,6)$ , $O(0,0)$ ב. $C(8,6)$ ג. 28 יח"א $= P$.

**31)** א. $a=1$ ב. $(-2,3)$ , $(0,-1)$ ג. $y=-2x-1$

ד. $S=\frac{1}{4}$.

**32)** א. i. $d=15$ ii. $x=18$. ב. $(x-9)^2+(y-12)^2=81$.

ג. המעגל אינו חותך את ציר ה-$x$ -כאשר מציבים ב- $y$ אפס מתקבלת משוואה ריבועית ללא פתרון. המעגל חותך את ציר ה-$x$ בנקודה אחת- $(12,0)$.

**33)** א. $(x-15)^2+(y-12)^2=225$ ב. $C(24,0)$ , $D(24,24)$. ג. $y=-\frac{3}{4}x+42$.

**34)** א. $y=\frac{7}{6}x+3$ ב. i. $M(6,10)$ ii. $\sqrt{85}$

iii. $(x-6)^2+(y-10)^2=85$ ג. $A(0,17)$ , $B(0,3)$ ד. 42 יח"ש.

**35)** א. $(x-10)^2+y^2=25$ ב. $y=0.5x-2.5$ ג. $B(13,4)$

ד. 10 יח"ש $= S_{AMB}$.

**36)** א. $A(-2,0)$ , $B(-6,0)$ ב. $Q(2,0)$ ג. $y=x-2$ .

**37)** א. $(x-16)^2+(y-R)^2=R^2$ , המעגל אינו חותך את ציר ה- $y$ .

ב. $R=10$ , $(x-16)^2+(y-10)^2=100$ ג. $y=-\frac{3}{4}x+34\frac{1}{2}$

ד. $y=\frac{4}{3}x+5\frac{1}{3}$ ה. i. $C(14,24)$ ii. 50 יח"ש.

**38)** א. $a=-8$ ב. $B(6,0)$ ג. $y=0.5x-3$

ד. $(10,2)$. ה. $11+5\sqrt{5}$ יח"ש $=S_{DECBO}$ .

**39)** א. $\sqrt{34}$ יחידות אורך $=R$ , $(x-5)^2+(y-3)^2=34$ . ב. $A(10,0)$ , $B(0,6)$

ג. i. $C(20,0)$. ii. 30 יח"ש $=S_{ABC}$ .

# כתיבת משוואת מעגל עם השלמה לריבוע:

## שאלות:

**1)** מצא את מרכזם ורדיוסם של המעגלים הבאים:

א. $x^2+10x+y^2+6y-2=0$

ב. $x^2-2x+y^2+20y+1=0$

ג. $x^2-8x+y^2-14y=0$

ד. $x^2+y^2+2y=0$

ה. $x^2+x+y^2-3\frac{3}{4}=0$

ו. $x^2-2mx+y^2+6my+m^2=0$

**2)** משוואתו של מעגל היא $x^2+y^2-6mx-2(m+2)y+4m+4=0$.
מצא את ערכו של $m$ אם ידוע שמרכז המעגל נמצא על הישר $y=2x+7$.

**3)** משוואתו של מעגל היא $x^2+y^2-8x+12y-48=0$.
מצא את אורכו של המיתר שחותך הישר $y=2x-4$ מהמעגל בלי למצוא את נקודות הקצה של המיתר.

## תשובות סופיות:

**1)** א. $M(-5,-3)\ ,\ R=6$

ב. $M(1,-10)\ ,\ R=10$

ג. $M(4,7)\ ,\ R=\sqrt{65}$

ד. $M(0,-1)\ ,\ R=1$

ה. $M\left(-\frac{1}{2},0\right)\ ,\ R=2$

ו. $M(m,-3m)\ ,\ R=3m$.

**2)** $m=-1$.

**3)** $2\sqrt{80}$.

# משוואות המשיקים למעגל:

## שאלות:

**4)** מצא משוואת מעגל העובר בנקודה $(1,8)$ המשיק לשני הצירים.

**5)** מצא את אורך המשיק למעגל שמשוואתו $x^2+y^2-4x+14y+37=0$ היוצא מהנקודה $A(10,-3)$.

**6)** מצא את משוואת המשיק ואת משוואת הנורמל למעגל שמשוואתו $x^2+y^2-4x+6y+3=0$ בנקודה $A(5,-4)$.

**7)** מצא את נקודת החיתוך של המשיקים למעגל שמשוואתו $x^2+(y-1)^2=5$ בנקודות שבהן $x=-1$.

**8)** נתון מעגל שמרכזו בנקודה $(-2,6)$ והוא עובר בראשית הצירים. המעגל חותך את הצירים בשתי נקודות נוספות, A ו-B.

א. הוכח כי המשיקים למעגל בנקודות A ו-B מקבילים זה לזה.

ב. הוכח את סעיף א' בלי למצוא את משוואות המשיקים או את שיפועיהם.

**9)** נתון המעגל $(x-1)^2+(y-3)^2=20$ והישר $y=2x+m$.

לאלו ערכים של הפרמטר $m$ הישר משיק למעגל ולאלו ערכים של $m$ הישר חותך את המעגל?

## תשובות סופיות:

4) $(x-5)^2+(y-5)^2=25$ או $(x-13)^2+(y-13)^2=169$.

5) 8.

6) משיק: $y=3x-19$ , נורמל: $x+3y+7=0$.

7) $(-5,1)$.

8) שאלת הוכחה.

9) משיק: $m=-9,11$ , חותך: $-9<m<11$.

# מיתר המחבר שתי נקודות השקה:

## סיכום כללי:

משוואת המיתר, המחבר את שתי נקודות ההשקה של שני המשיקים

למעגל $(x-a)^2=(y-b)^2=R^2$ היוצאים מהנקודה $A(x_1,y_1)$ שמחוץ

למעגל היא: $(x-a)(x_1-a)+(y-b)(y_1-b)=R^2$.

## שאלות:

**10)** ענה על הסעיפים הבאים:

א. מצא את משוואת המיתר במעגל שמשוואתו $x^2+y^2+2x-19=0$,
המחבר את נקודות ההשקה של המשיקים היוצאים מהנקודה $A(-3,8)$

ב. מצא את משוואת המיתר במעגל שמשוואתו $x^2+(y-1)^2=5$, המחבר
את נקודות ההשקה של המשיקים היוצאים מהנקודה $A(-5,1)$.

**11)** נתון מעגל שמשוואתו $x^2+y^2+16x+48=0$ ונקודה P, שנמצאת על החלק
החיובי של ציר ה- $y$. הישר המחבר את נקודות ההשקה של המשיקים
היוצאים למעגל מנקודה P חותך את ציר ה- $y$ בנקודה Q. נתון: $PQ=14$.
מצא את שיעורי הנקודה Q.

## תשובות סופיות:

**10)** א. $x-4y+11=0$ ב. $x=-1$.

**11)** $Q(0,-8)$ או $Q(0,-6)$.

# שאלות מסכמות שונות:

## שאלות:

**12)** נתון מעגל שמשוואתו $x^2+y^2+16x-12y+64=0$ . המעגל משיק מבחוץ למעגל קנוני. מצא את משוואת המעגל הקנוני, את נקודת ההשקה בין המעגלים ואת משוואת המשיק המשותף העובר בנקודה זו.

**13)** המעגלים $x^2+y^2+22x-6y=m$ ו- $x^2+y^2=26$ נחתכים בזווית ישרה.
מצא את ערכו של $m$ .

**14)** בטרפז שווה שוקיים ABCD נתון כי הבסיס הגדול, DC, מונח על הישר: $3x-y-9=0$ והשוק AD מונחת על הישר $x+y-3=0$ .
שיעורי הקודקוד B הם $(3,-8)$ .
מצא את משוואת המעגל החוסם את הטרפז ABCD.

**15)** מצא את משוואתו של מעגל החוסם ריבוע, שאחד מקדקודיו נמצא בראשית הצירים ומשוואת אחד מאלכסוניו היא $3x-y+10=0$ .

## תשובות סופיות:

**12)** $4x-3y+20=0$ , $A(-3.2,2.4)$ , $x^2+y^2=16$ .

**13)** $m=-26$ .

**14)** $(x-1)^2+(y+4)^2=20$ .

**15)** $(x+3)^2+(y-1)^2=10$ .

# קורס קדם במתמטיקה למהנדסים

## פרק 9 - גיאומטריה אנליטית - האליפסה והפרבולה

תוכן העניינים

1. האליפסה ..... 165
2. הפרבולה ..... 169

# האליפסה:

## סיכום כללי:

**הגדרה:**

המקום הגאומטרי של כל הנקודות, שסכום מרחקיהן משתי נקודות קבועות במישור קבוע, נקרא אליפסה. הנקודות הקבועות נקראות מוקדי האליפסה.

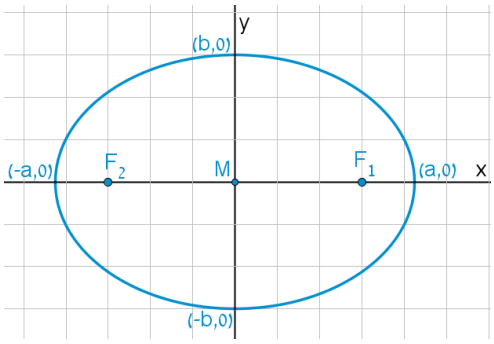


**מושגים באליפסה:**

- הציר הגדול: הקטע שהאליפסה חותכת מציר ה- $x$ .
- הציר הקטן: הקטע שהאליפסה חותכת מציר ה- $y$ .
- מרכז האליפסה: מפגש צירי האליפסה (ראה איור).
  באליפסה קנונית מרכז האליפסה נמצא בראשית הצירים.
- מוקדי האליפסה: שתי נקודות קבועות שבעבורך סכום המרחקים מכל נקודה על האליפסה הוא גודל קבוע השווה ל- $2a$ . המוקדים יסומנו ב- $F_1$ ו- $F_2$ ושיעוריהם הם: $F_1(c,0)$ , $F_2(-c,0)$ .
- רדיוסי ווקטור: המרחקים של כל נקודה על האליפסה משני המוקדים.
  אורך הרדיוס מנקודה $(x,y)$ שעל האליפסה למוקד הימני הוא: $r_1 = a - \frac{cx}{a}$ .
  אורך הרדיוס מנקודה $(x,y)$ שעל האליפסה למוקד השמאלי הוא: $r_2 = a + \frac{cx}{a}$ .
- מיתר: קטע המחבר שתי נקודות שעל האליפסה.
- קוטר: מיתר העובר דרך מרכז האליפסה.

**משוואות וקשרים:**

- משוואת אליפסה קנונית היא: $\frac{x^2}{a^2} + \frac{y^2}{b^2} = 1$ או: $b^2x^2 + a^2y^2 = a^2b^2$ .
- הקשר בין הפרמטרים של האליפסה הוא: $a^2 - b^2 = c^2$ .
- מכפלת שיפועי מיתר באליפסה והקוטר החוצה אותו היא קבועה ושווה ל- $-\frac{b^2}{a^2}$ .

## שאלות:

**1)** מצא את אורך צירי אליפסה שמשוואתה $x^2+4y^2=36$.

**2)** מצא את משוואתה של אליפסה שאורך צירה הגדול הוא 18 ואורך צירה הקטן הוא $2\sqrt{3}$.

**3)** מצא את משוואתה של אליפסה שאורך צירה הגדול הוא 12 והמרחק בין מוקדיה $8\sqrt{2}$.

**4)** מצא את משוואתה של אליפסה שאורך צירה הקטן הוא 8 והיא עוברת בנקודה $\left(-3\sqrt{3},2\right)$.

**5)** מצא את משוואתה של אליפסה שחסומה במעגל שמשוואתו $x^2+y^2=16$ ומוקד אחד שלה הוא בנקודה $\left(\sqrt{10},0\right)$.

**6)** מצא את משוואתה של אליפסה שחותכת את ציר ה- $y$ בנקודה $\left(0,-2\sqrt{5}\right)$ והמרחק בין המוקד הימני לקדקוד הימני בה הוא 2.

**7)** מצא את משוואתה של אליפסה שעוברת בנקודות $\left(-2,\sqrt{6}\right)$ ו- $\left(\sqrt{14},1\right)$.

**8)** מצא על האליפסה $3x^2+4y^2=144$ את הנקודות שהפרש מרחקיהן מהמוקדים הוא 4.

**9)** מצא את משוואתה של אליפסה שעוברת בנקודה $(-3,1)$ ומכפלת המרחקים מנקודה זו למוקדים הוא 6.

**10)** מצא על האליפסה $x^2+3y^2=12$ את הנקודות שמהן רואים את הקטע שבין שני המוקדים בזווית ישרה.

**11)** מצא את משוואתו של קוטר באליפסה $x^2+4y^2=50$ ששיפועו חיובי ואורכו $\sqrt{56}$.

**12)** נתונים האליפסה $\frac{x^2}{30}+\frac{y^2}{24}=1$ והישר $y=2x+k$. מצא לאלו ערכים של הפרמטר $k$ הישר משיק לאליפסה ולאלו ערכים של הפרמטר $k$ הישר חותך את האליפסה.

**13)** מצא את שטחו של ריבוע החסום באליפסה $3x^2+5y^2=120$ כך שצלעותיו מקבילות לצירים.

**14)** מצא את שטחו של ריבוע החסום באליפסה $b^2x^2+a^2y^2=a^2b^2$ כך שצלעותיו מקבילות לצירים.

**15)** באליפסה $5x^2+9y^2=90$ חסום מלבן שצלעותיו מקבילות לצירים. מצא את שטח המלבן אם שתיים מצלעותיו עוברות במוקדי האליפסה.

**16)** באליפסה $x^2+5y^2=16$ חסום משולש שווה צלעות כך שקדקוד אחד שלו הוא הקדקוד הימני של האליפסה. מצא את שיעורי קדקודיו האחרים.

**17)** באליפסה חסום משולש שווה צלעות כך שקדקוד אחד שלו הוא הקדקוד הימני של האליפסה וקדקודיו האחרים הם נקודות החיתוך של האליפסה עם ציר ה- $y$.
מצא את משוואת האליפסה אם אחד ממוקדיה נמצא בנקודה $\left(4\sqrt{2},0\right)$.

**18)** מצא באליפסה $2x^2+3y^2=12$ משוואת מיתר שנקודת האמצע שלו היא $(1.5,1)$.

**19)** ישר שמשוואתו $x-y-3=0$ חותך מאליפסה מיתר שאמצעו בנקודה $(2,-1)$.
מצא את משוואת האליפסה אם ידוע שהיא עוברת בנקודה $\left(2\sqrt{2},-2\right)$.

**20)** נתונה המשוואה $\frac{x^2}{a^2}-\frac{y^2}{a^2-25}=1$ , $(0<a\neq 5)$.

א. ענה על הסעיפים הבאים:

i. לאיזה ערך של $a$ המשוואה מייצגת מעגל?

ii. לאלו ערכים של $a$ המשוואה מייצגת אליפסה?

ב. הוכח כי בעבור $a=4$ אין אף נקודה על האליפסה שממנה רואים את הקטע שבין המוקדים בזווית ישרה.

## תשובות סופיות:

**1)** $2a=12$ , $2b=6$

**2)** $\frac{x^2}{81}+\frac{y^2}{3}=1$

**3)** $\frac{x^2}{36}+\frac{y^2}{4}=1$

**4)** $\frac{x^2}{36}+\frac{y^2}{16}=1$

**5)** $\frac{x^2}{16}+\frac{y^2}{6}=1$

**6)** $\frac{x^2}{36}+\frac{y^2}{20}=1$

**7)** $\frac{x^2}{16}+\frac{y^2}{8}=1$

**8)** $(4,\sqrt{24})$ , $(4,-\sqrt{24})$ , $(-4,\sqrt{24})$ , $(-4,-\sqrt{24})$

**9)** $\frac{x^2}{12}+\frac{y^2}{4}=1$

**10)** $(\sqrt{6},\sqrt{2})$ , $(-\sqrt{6},\sqrt{2})$ , $(\sqrt{6},-\sqrt{2})$ , $(-\sqrt{6},-\sqrt{2})$

**11)** $y=\sqrt{6}x$

**12)** משיק: $k=\pm 12$ , חותך: $-12<k<12$.

**13)** $S=$ יח"ש 60

**14)** $S=\frac{4a^2b^2}{a^2+b^2}$

**15)** $S=$ יח"ש $26\frac{2}{3}$

**16)** $(1,\sqrt{3})$ , $(1,-\sqrt{3})$

**17)** $\frac{x^2}{48}+\frac{y^2}{16}=1$

**18)** $y=-x+2.5$

**19)** $\frac{x^2}{16}+\frac{y^2}{8}=1$

**20)** א. i. $a=\sqrt{12.5}$ ii. $a\neq\sqrt{12.5}$

# הפרבולה:

## סיכום כללי:

**הגדרה:**

המקום הגאומטרי של כל הנקודות, שמרחקן מנקודה קבועה שווה למרחקן מישר קבוע נקרא פרבולה.
הנקודה הקבועה נקראת מוקד הפרבולה והישר הקבוע נקרא מדריך הפרבולה.

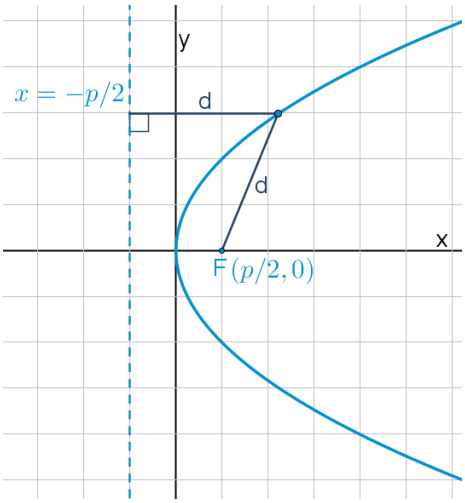


**מושגים בפרבולה:**

- מוקד: נקודה קבועה שמרחק כל נקודה על הפרבולה ממנה שווה למרחק הנקודה מהמדריך.
- מדריך: ישר קבוע שמרחק כל נקודה על הפרבולה אליו שווה למרחק הנקודה מהמוקד.
- קדקוד הפרבולה: ראשית הצירים.
- רדיוס: מרחק בין המוקד לנקודה שעל הפרבולה: $r=x+\frac{p}{2}$.
- מיתר: קטע המחבר בין שתי נקודות על הפרבולה.
- קוטר (לא בחומר): ישר המקביל לציר הסימטריה של הפרבולה (ציר ה- $x$ אצלנו).

**משוואת הפרבולה:**

משוואת הפרבולה הקנונית היא: $y^2=2px$ כאשר $p$ הוא פרמטר הפרבולה.

**משיק לפרבולה:**

- משוואת המשיק לפרבולה $y^2=2px$ בנקודה $A(x_0,y_0)$ שעליה היא: $yy_0=p(x+x_0)$.
- שיפוע המשיק לפרבולה $y^2=2px$ בנקודה $A(x_0,y_0)$ שעליה הוא: $m=\frac{p}{y_0}$.

**מיתר המחבר שתי נקודות השקה:**

משוואת המיתר, המחבר את שתי נקודות ההשקה של שני המשיקים לפרבולה $y^2=2px$ היוצאים מהנקודה $A(x_0,y_0)$ שמחוץ לפרבולה היא: $yy_0=p(x+x_0)$.

**תיאורים גרפיים:**

פרבולה שמשוואתה $y^2=2px$:

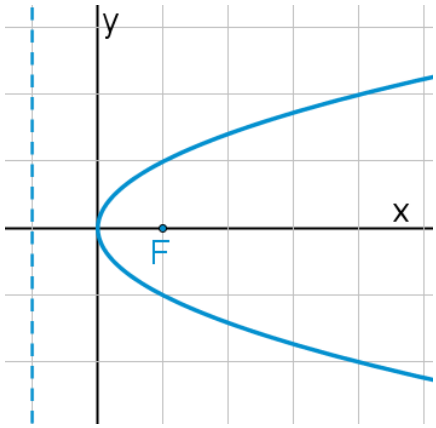


פרבולה שמשוואתה $y^2=-2px$:

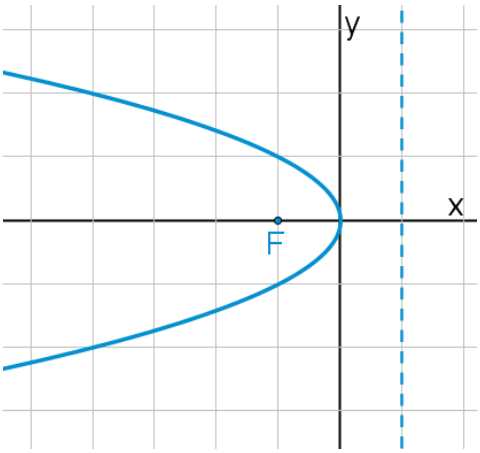


**שאלות:**

**1)** נתונה הפרבולה $y^2=18x$. מצא מהו הפרמטר, המוקד והמדריך שלה.

**2)** מצא את משוואתה של פרבולה שהישר $x=-3$ הוא המדריך שלה.

**3)** מצא את משוואתה של פרבולה שהמרחק בין המוקד שלה למדריך שלה הוא 5.

**4)** מצא את משוואתה של פרבולה שעוברת בנקודה $(9,-6)$.

**5)** מצא את משוואתה של פרבולה שמוקדה מתלכד עם המוקד הימני של האליפסה $x^2+2y^2=18$.

**6)** מצא נקודות על הפרבולה $y^2=6x$ שמרחקן מהמוקד הוא 4.

**7)** מצא נקודות על הפרבולה $y^2=8x$ שמרחקן מהמוקד שווה למרחקן מהקדקוד.

**8)** מצא נקודות על הפרבולה $y^2=2px$ שמרחקן מהמוקד שווה למרחקן מהקדקוד.

**9)** מצא את שטחו של משולש שווה צלעות שקדקוד אחד שלו נמצא בראשית הצירים ושני קדקודיו האחרים מונחים על הפרבולה $y^2=10x$.

**10)** הבע באמצעות $p$ את שטחו של משולש שווה צלעות שקדקוד אחד שלו נמצא בראשית הצירים ושני קדקודיו האחרים מונחים על הפרבולה $y^2=2px$.

**11)** נתונה הפרבולה $y^2=2px$. הבע באמצעות $p$ את שטחו של משולש שווה צלעות שקדקוד אחד שלו מונח על ציר ה-$x$, וקודקודיו האחרים מונחים על מדריך הפרבולה אם ידוע שמפגש תיכוני המשולש הוא מוקד הפרבולה.

**12)** את נקודה A שעל הפרבולה $y^2=20x$ חיברו עם המוקד F וגם העבירו ממנה אנך למדריך. היקף הטרפז, שבסיסיו הם האנך והקטע על ציר ה-$x$ שבין מוקד הפרבולה למדריך שלה, שוק אחת שלו היא AF והשוק השנייה שלו מונחת על המדריך, הוא 27.5. חשב את שטח הטרפז.

**13)** קצות מיתר בפרבולה $y^2=4x$ הם A ו-B. מצא את שיעורי הנקודה B אם ידוע שהמיתר עובר במוקד הפרבולה ושערך ה-$x$ של נקודה A הוא 4.

**14)** מצא משוואת מיתר בפרבולה $y^2=16x$, שעובר בראשית הצירים ומרחקו מהמוקד הוא $\frac{8}{\sqrt{5}}$.

**15)** מצא משוואת מיתר בפרבולה $y^2=2x$ , שאמצעו בנקודה $\left(1\frac{1}{4},\frac{1}{2}\right)$.

**16)** נתונה הפרבולה $y^2=4x$ והישר $y=2x+k$ , לאיזה ערך של $k$ הישר משיק לפרבולה?

**17)** נתונה הפרבולה $y^2=6x$ .

א. מצא את משוואות המשיקים לפרבולה בנקודות שבהן $x=1.5$ .

ב. הוכח שנקודת החיתוך של הנורמלים בנקודות אלה נמצאת על ציר ה-$x$ .

**18)** הנקודות A ו-B נמצאות על הפרבולה $y^2=12x$ . נתון כי $y_A=4$ .
מצא את שיעורי נקודה B אם ידוע שהמשיקים לפרבולה בנקודות הנתונות יוצרים זווית ישרה.

**19)** נקודה A נמצאת על הפרבולה $y^2=28x$ ברביע הרביעי.
אורך הנורמל לפרבולה מנקודה A עד לציר ה-$x$ הוא $7\sqrt{5}$ .
מצא את משוואת הנורמל.

**20)** מרחק המוקד של הפרבולה $y^2=8x$ ממשיק לה ששיפועו חיובי הוא $\sqrt{8}$ .
מצא את משוואת המשיק.

**21)** נתונה הפרבולה $y^2=2px$ . הבע באמצעות $p$ את שיעורי הנקודה שעל הפרבולה ברביע הראשון, שמרחק המשיק בה ממוקד הפרבולה הוא $p$ .

**22)** נתונות שתי פרבולות : I. $y^2=6x$ , II. $y^2=12x$
ישר שעובר בראשית הצירים חותך את הפרבולות בנקודות A ו-B.
הראה כי המשיקים בנקודות A ו-B מקבילים.

**23)** נתונה הפרבולה $y^2=14x$ והנקודה $(-1,-3)$, ממנה יוצאים שני משיקים לפרבולה. מצא את משוואת המיתר המחבר בין נקודות ההשקה.

**24)** נתונה הפרבולה $y^2=18x$ ונקודה ברביע השלישי, ששיעור ה-$x$ שלה קטן ב-1 משיעור ה-$y$ שלה. מהנקודה יוצאים שני משיקים לפרבולה. המיתר המחבר בין נקודות ההשקה יוצר עם הצירים משולש ששטחו 18.
מצא את משוואת המיתר.

**25)** מצא את משוואתו של מעגל שמרכזו במוקד הפרבולה $y^2=24x$ והוא משיק למדריך שלה.

**26)** מצא את משוואתו של מעגל שמרכזו בנקודה $(8,0)$ והוא משיק לפרבולה $y^2=10x$ בשתי נקודות.

**27)** נתונה הפרבולה $y^2=2px$ ומעגל שמרכזו על ציר ה-$x$ והוא משיק לפרבולה מבפנים בשתי נקודות. הישר המחבר בין נקודות ההשקה יוצר עם המשיקים בנקודות אלה משולש שווה צלעות. הבע באמצעות $p$ את משוואת המעגל.

**28)** הנקודה $A(2,3)$ נמצאת על פרבולה. מצא את משוואתו של מעגל שמשיק לפרבולה בנקודה A ומשיק לציר ה-$y$.

**29)** נתונה הפרבולה $y^2=2px$ שבה $p>4$. הישר $x=2$ חותך את הפרבולה בנקודות A ו-B. הבע באמצעות $p$ את שיעורי קדקוד C של משולש $\Delta ABC$ שמוקד הפרבולה הוא מפגש האנכים האמצעיים בו, אם ידוע שקדקוד C נמצא על ציר ה-$x$.

**30)** אליפסה שמשוואתה $x^2+4y^2=16$ חותכת את הפרבולה $y^2=2px$ בשתי נקודות. המרובע שקדקודיו הם נקודות החיתוך, מרכז האליפסה וקדקודה הימני של האליפסה הוא מעוין. מצא את משוואת הפרבולה.

## תשובות סופיות:

1) $p=9$ , $F\left(4\frac{1}{2},0\right)$

2) $y^2=12x$

3) $y^2=10x$

4) $y^2=4x$

5) $y^2=12x$

6) $\left(2\frac{1}{2},\sqrt{15}\right)$ , $\left(2\frac{1}{2},-\sqrt{15}\right)$

7) $\left(1,\sqrt{8}\right)$ , $\left(1,-\sqrt{8}\right)$

8) $\left(\frac{p}{4},\frac{p}{\sqrt{2}}\right)$ , $\left(\frac{p}{4},-\frac{p}{\sqrt{2}}\right)$

9) $S_{OAB}=$ יח"ש $300\sqrt{3}$

10) $S_{ABO}=$ יח"ש $12\sqrt{3}p^2$

11) $S_{ABC}=$ יח"ש $3\sqrt{3}p^2$

12) $S_{ABCF}=$ יח"ש $40\frac{5}{8}$

13) $B\left(\frac{1}{4},-1\right)$ או $B\left(\frac{1}{4},1\right)$

14) $y=2x$ או $y=-2x$

15) $y=2x-2$

16) $k=\frac{1}{2}$

17) א. $y=-x-1\frac{1}{2}$ , $y=x+1\frac{1}{2}$

18) $B\left(6\frac{3}{4},-9\right)$

19) $y=\frac{1}{2}x-7\frac{7}{8}$

20) $y=x+2$

21) $A\left(\frac{3}{2}p,\sqrt{3}p\right)$

22) הוכחה.

23) $7x+3y-7=0$

24) $y=-9x+18$

25) $(x-6)^2+y^2=144$

26) $(x-8)^2+y^2=55$

27) $\left(x-2\frac{1}{2}p\right)^2+y^2=4p^2$

28) $\left(x-1\frac{1}{4}\right)^2+(y-4)^2=\frac{25}{16}$

29) $C(p+2,0)$

30) $y^2=1\frac{1}{2}x$

# קורס קדם במתמטיקה למהנדסים

## פרק 10 - גיאומטריה אנליטית - ההיפרבולה (העשרה)

תוכן העניינים


1. הגדרות יסודיות ..... 175
2. הקשר בין הפרמטרים של היפרבולה ..... 176
3. רדיוסים של היפרבולה ..... 177
4. מיתר וקוטר החוצה אותו בהיפרבולה ..... 178
5. אסימפטוטות של היפרבולה ..... 179

# הגדרות יסודיות:

## סיכום כללי:

**הגדרה:**

המקום הגיאומטרי של כל הנקודות, שהפרש מרחקיהן משתי נקודות קבועות במישור קבוע, נקרא היפרבולה. הנקודות הקבועות נקראות מוקדי ההיפרבולה.

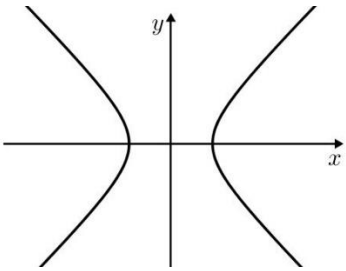


- משוואת היפרבולה קנונית: $\frac{x^2}{a^2}-\frac{y^2}{b^2}=1$.
- היפרבולה שבה $a=b$, נקראת היפרבולה שוות שוקיים.
- הקשר בין הפרמטרים: $c^2=a^2+b^2$.

## שאלות:

**1)** מצא את אורך צירי ההיפרבולה שמשוואתה $x^2-4y^2=36$.

**2)** מצא את משוואתה של ההיפרבולה שאורך צירה הממשי הוא 18 ואורך צירה המדומה הוא $2\sqrt{3}$.

**3)** מצא את משוואתה של היפרבולה שאורך צירה הממשי הוא 12 והמרחק בין מוקדיה הוא 20.

## תשובות סופיות:

**1)** אורך הציר הממשי: 12, אורך הציר המדומה: 6.

**2)** $\frac{x^2}{81}-\frac{y^2}{3}=1$

**3)** $\frac{x^2}{64}-\frac{y^2}{80}=1$

## הקשר בין הפרמטרים של היפרבולה:

### שאלות:

4) מצא את משוואתה של היפרבולה שאורך צירה המדומה הוא $8\sqrt{5}$ והיא עוברת בנקודה $\left(-10,3\sqrt{5}\right)$.

5) מצא משוואת היפרבולה שוות שוקיים שהמרחק בין מוקדיה הוא $\sqrt{200}$.

### תשובות סופיות:

4) $\frac{x^2}{36}-\frac{y^2}{64}=1$

5) $x^2-y^2=25$

# רדיוסים של היפרבולה:

## סיכום כללי:

| רדיוסים בהיפרבולה | רדיוסים באליפסה |
|---|---|
| $r_1=\left\lvert\frac{cx}{a}-a\right\rvert$ | $r_1=a-\frac{cx}{a}$ |
| $r_2=\left\lvert\frac{cx}{a}+a\right\rvert$ | $r_2=a+\frac{cx}{a}$ |

## שאלות:

**6)** נתונה היפרבולה שמשוואתה: $6x^2-y^2=18$.
מצא על ההיפרבולה את הנקודות שמכפלת מרחקיהן מהמוקדים הוא 25.

**7)** נתונה היפרבולה שמשוואתה: $7x^2-9y^2=63$.
מצא על ההיפרבולה את הנקודות שסכום ריבועי מרחקיהן מהמוקדים הוא $74\frac{8}{9}$.

**8)** נתונה היפרבולה שמשוואתה $4x^2-y^2=20$. מצא נקודה על ההיפרבולה ברביע הרביעי שממנה רואים את הקטע שבין המוקדים בזווית ישרה.

**9)** נתונה היפרבולה שמשוואתה $5x^2-4y^2=80$.
מנקודה A שעל ההיפרבולה ברביע הראשון העבירו ישר מקביל לציר ה-$x$, החותך את הענף השמאלי של ההיפרבולה בנקודה B. את נקודה A חיברו עם המוקד הימני $F_1$ של ההיפרבולה ואת הנקודה B חיברו עם המוקד השמאלי של ההיפרבולה $F_2$. נתון כי היקף הטרפז $F_1BAF_2$ הוא 29 יחידות אורך.
מצא את שיעורי הנקודה A.

## תשובות סופיות:

**6)** $\left(\pm2,\pm\sqrt{6}\right)$

**7)** $\left(\pm4,\pm2\frac{1}{3}\right)$

**8)** $(3,-4)$

**9)** $\left(5,\frac{\sqrt[3]{5}}{2}\right)$

# מיתר וקוטר החוצה אותו בהיפרבולה:

## סיכום כללי:

מכפלת שיפועי מיתר וקוטר החוצה אותו בהיפרבולה, היא: $\frac{a^2}{b^2}$ .

## שאלות:

**10)** נתונה היפרבולה שמשוואתה $4x^2-3y^2=24$ .
מצא את משוואתו של מיתר בהיפרבולה, שהנקודה $(3,4)$ היא אמצעו.

## תשובות סופיות:

**10)** $y=x+1$

# אסימפטוטות של היפרבולה:

## סיכום כללי:

לכל היפרבולה יש שתי אסימפטוטות משופעות, שענפי ההיפרבולה שואפים אליהן.

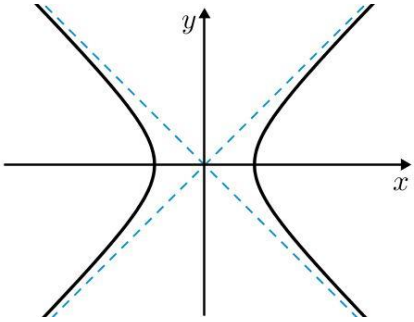


- משוואות האסימפטוטות הן: $y=\frac{b}{a}x$ , $y=-\frac{b}{a}x$ .

## שאלות:

**11)** מצא את משוואת האסימפטוטות של היפרבולה שמשוואתה $4x^2-y^2=48$ .

**12)** הישר $y=-\frac{3}{4}x$ הוא אסימפטוטה של היפרבולה, שהמרחק בין מוקדיה הוא 20.
מצא את משוואת ההיפרבולה.

**13)** נתונה היפרבולה שמשוואתה $9x^2-4y^2=k$ ואורך צירה המדומה הוא 6.
מצא נקודה על האסימפטוטה היורדת של ההיפרבולה ברביע הרביעי שממנה רואים את הקטע שבין המוקדים בזווית ישרה.

**14)** ישר שעובר בנקודה $(-6,8)$ הוא אסימפטוטה של היפרבולה שעוברת בנקודה $(9,-8\sqrt{2})$.

א. מצא את משוואת ההיפרבולה.

ב. מצא את מרחק אחד ממוקדי ההיפרבולה מאחת האסימפטוטות שלה.

**15)** מוקדיה של היפרבולה שעוברת בנקודה $(4,-1)$ מתלכדים עם מוקדיה של אליפסה שמשוואתה $16x^2+25y^2=400$. מצא נקודה על הענף השמאלי של ההיפרבולה, שמרחקה מהאסיפמטוטה העולה של ההיפרבולה הוא $1\frac{1}{3}$.

## תשובות סופיות:

11) $y=2x,\ \ y=-2x$

12) $\frac{x^2}{64}+\frac{y^2}{36}=1$

13) $(2,-3)$

14) א. $\frac{x^2}{9}-\frac{y^2}{16}=1$ ב. $d=4$

15) $\left(-3,\frac{1}{\sqrt{8}}\right)$

# קורס קדם במתמטיקה למהנדסים

## פרק 11 - גיאומטריה אנליטית - מקומות גיאומטרים והוכחות

תוכן העניינים

1. מקומות גיאומטרים ..... 181
2. שאלות הוכחה ..... 185

# מקומות גיאומטרים:

## סיכום כללי:

**הגדרה:**

מקום גאומטרי הוא אוסף נקודות בעלות תכונה מסוימת.

מקום גאומטרי הוא משוואה המקשרת בין $x$ ל- $y$ .

**טכניקות מרכזיות במציאת מקומות גיאומטריים:**

בשאלות של מקום גאומטרי נפוץ השימוש בדברים הבאים:

- שיפועים:
  i. שיפועי ישרים מקבילים (שווים זה לזה).
  ii. שיפועי ישרים מאונכים (מכפלתם היא 1-).
  iii. שלוש נקודות שעל אותו ישר שומרות על אותו שיפוע.
- משפט פיתגורס.
- אמצע קטע / חלוקת קטע ביחס נתון.
- משיק למעגל – המשיק מאונך לרדיוס – רמז לשימוש במשפט פיתגורס.
- קטע מרכזים:
  i. במעגלים המשיקים מבחוץ – סכום הרדיוסים.
  ii. במעגלים המשיקים מבפנים – הפרש הרדיוסים.
- משפטים מגאומטריה (תאלס, משפט חוצה הזווית, דמיון משולשים)
- אם נתונה משוואה בשאלה – ניתן להשתמש בה על ידי הצבת נקודה שעליה במשוואה.

## שאלות:

**1)** מצא את המקום הגאומטרי של כל הנקודות שמרחקן מהנקודה $A(-7,-6)$ שווה למרחקן מהנקודה $B(9,2)$.

**2)** מצא את המקום הגאומטרי של כל הנקודות שמרחקן מהנקודה $A(3,-6)$ גדול פי 3 ממרחקן מהנקודה $B(-1,10)$.

**3)** מצא את המקום הגאומטרי של כל הנקודות שמרחקן מהנקודה $(1,0)$ קטן פי 3 ממרחקן מהישר $x=9$.

**4)** מצא את המקום הגאומטרי של מרכזי כל המעגלים שעוברים בנקודה $(6,0)$ ומשיקים לישר $x=-6$.

**5)** נתונים שני ישרים: $\text{I. } 3x+y-6=0$ , $\text{II. } 2x+6y-1=0$
מצא את המקום הגאומטרי של כל הנקודות שמרחקן מישר I גדול פי 4 ממרחקן מישר II.

**6)** מצא את המקום הגאומטרי של מרכזי כל המעגלים שמשיקים לציר ה- $y$ מימין ומשיקים מבפנים למעגל קנוני שרדיוסו 4. מהן ההגבלות?

**7)** מצא את המקום הגאומטרי של אמצעי כל הקטעים, המחברים את הנקודה $(4,-10)$ עם נקודות על הישר $y=6x+2$.

**8)** נתון מעגל שמשוואתו $x^2+y^2+12x-16y=0$. מצא את המקום הגאומטרי של אמצעי כל המיתרים במעגל שעוברים בראשית הצירים.

**9)** נתון מעגל שמשוואתו $x^2+y^2=36$. הכפילו את שיעורי ה- $y$ של כל הנקודות על המעגל ב- $\frac{2}{3}$. מצא את המקום הגאומטרי שמתקבל באופן הזה.

**10)** נתונות הנקודות $A(2,0)$ ו-$B(10,0)$. מצא את המקום הגאומטרי של מרכזי הכובד של כל המשולשים ABC אם ידוע שהקודקוד C מונח על הישר $y=3x-12$. מהי ההגבלה?

**11)** נתון המעגל $x^2+y^2+4x-10y+11=0$. מצא את המקום הגאומטרי של כל הנקודות שאורך המשיק מהן למעגל שווה למרחקן מהנקודה $(7,2)$.

**12)** מצא את המקום הגאומטרי של כל הנקודות שמהן רואים את המעגל $(x-2)^2+(y-1)^2=9$ בזווית של $120°$.

**13)** מצא את המקום הגאומטרי של כל הנקודות שמהן רואים את המעגל $(x-a)^2+(y-b)^2=R^2$ בזווית של $60°$.

**14)** נתון מעגל שמרכזו M ומשוואתו $x^2+y^2-12x-64=0$. מנקודה A שעל המעגל העבירו אנך לציר ה-$x$ שחותך את ציר ה-$x$ בנקודה B והמשכו חותך את המעגל בנקודה C. בנקודה B העבירו מקביל לישר AM ובנקודה C העבירו מקביל לציר ה-$x$. המקביל ל-AM והמקביל לציר ה-$x$ נפגשים בנקודה D. מצא את המקום הגאומטרי של נקודה D. מהן ההגבלות?

**15)** האליפסה $\frac{x^2}{16}+\frac{y^2}{9}=1$ חותכת את חלקו החיובי של ציר ה-$x$ בנקודה A ואת חלקו החיובי של ציר ה-$y$ בנקודה B. מנקודה C שעל ציר ה-$x$ בין O ל-A (O ראשית הצירים) העלו אנך לציר ה-$x$ שחותך את הישר AB בנקודה D.
מצא את המקום הגאומטרי של נקודת מפגש הישרים BC ו-OD.

**16)** נתון מעגל קנוני שרדיוסו 3. מנקודה A שעל המעגל הורידו אנך לציר ה-$x$ שחותך את ציר ה-$x$ בנקודה C. נסמן ב-B את אמצע הקטע AC.
מנקודה C העבירו מקביל ל-AO (O ראשית הצירים).
מצא את המקום הגאומטרי של מפגש הישרים BO והמקביל ל-AO.

**17)** נתונות הנקודות $A(4,0)$ ו-$B(-2,0)$. מצא את המקום הגאומטרי של כל הנקודות C כך שהקטע CO (O ראשית הצירים) הוא חוצה זווית $\sphericalangle C$ במשולש $\Delta ABC$.

**18)** נתון מעגל קנוני שרדיוסו $R$ . את נקודה A שעל המעגל חיברו עם ראשית הצירים ועל הקטע AO ( O ראשית הצירים) סימנו נקודה B כך שמתקיים $AB : BO = a : b$ מנקודה A העבירו אנך לציר ה- $x$ ומנקודה B העבירו אנך לציר ה- $y$ .

א. מצא את המקום הגאומטרי של מפגש האנכים הללו.

ב. המקום הגאומטרי שמצאת בסעיף א' חותך את ציר ה- $y$ בנקודות P ו-Q. מצא את אורך הקטע PQ.

## תשובות סופיות:

**1)** $y=-2x$

**2)** $\left(x+1\frac{1}{2}\right)^2+(y-12)^2=38\frac{1}{4}$

**3)** $\frac{x^2}{9}+\frac{y^2}{8}=1$

**4)** $y^2=24x$

**5)** $x+11y+4=0\ ,\ 7x+13y-8=0$

**6)** $y^2=16-8x\ ,\ -4<x\ ,\ y<4$

**7)** $y=6x-16$

**8)** $(x+3)^2+(y-4)^2=25$

**9)** $\frac{x^2}{36}+\frac{y^2}{16}=1$

**10)** $y=3x-16\ ,\ x\neq 5\frac{1}{3}$

**11)** $y=3x-7$

**12)** $(x-2)^2+(y-1)^2=12$

**13)** $(x-a)^2+(y-b)^2=4R^2$

**14)** $x=6\ ,\ -10<y<10$

**15)** $3x+8y-12=0\ ,\ 0<y<3\ ,\ 0<x<4$

**16)** $\frac{x^2}{36}+\frac{y^2}{9}=1$

**17)** $(x+4)^2+y^2=16$

**18)** א. $b^2x^2+(a+b)^2y^2=R^2b^2$ ב. $PQ=\frac{2bR}{a+b}$

# שאלות הוכחה:

## שאלות:

1) הנקודה P נמצאת על המעגל $x^2+y^2=R^2$. בנקודה P מעבירים משיק למעגל שחותך את הישרים $x=R$ ו- $x=-R$ בנקודות A ו-B. הוכח: $y_A \cdot y_B = R^2$.

2) הנקודה P נמצאת על המעגל $x^2+y^2=R^2$, שחותך את ציר ה- $y$ בנקודות $A(0,R)$ ו-$B(0,-R)$. בנקודה P מעבירים משיק למעגל שחותך את הישר $y=R$ בנקודה T. הוכח: $OT \parallel BP$.

3) הנקודה P נמצאת על האליפסה $b^2x^2+a^2y^2=a^2b^2$, ש-$F_1$ ו-$F_2$ הם מוקדיה. הוכח: $PO^2+PF_1\cdot PF_2=a^2+b^2$ (O ראשית הצירים).

4) הנקודה P נמצאת על האליפסה $b^2x^2+a^2y^2=a^2b^2$, שקודקודה הימני הוא A וקדקודה השמאלי הוא B. הישר AP חותך את הישר $x=-a$ בנקודה K והישר BP חותך את הישר $x=a$ בנקודה L. הוכח: $y_K \cdot y_L = 4b^2$.

5) הנקודה P נמצאת על האליפסה $b^2x^2+a^2y^2=a^2b^2$.
הוכח: היחס בין ריבוע אורך האנך, היורד מנקודה P לציר הגדול, ובין מכפלת שני קטעי הציר הגדול שמשני צידי האנך הוא גודל קבוע.

6) הנקודה P נמצאת על האליפסה $b^2x^2+a^2y^2=a^2b^2$, שקודקודה הימני הוא A, קדקודה השמאלי הוא B ומוקדה הימני הוא $F_1$. הישר AP חותך את הישר $x=\frac{a^2}{c}$ בנקודה M והישר BP חותך את הישר $x=\frac{a^2}{c}$ בנקודה N.
הוכח: $\sphericalangle MF_1N = 90°$.

7) נתונה האליפסה $b^2x^2+a^2y^2=a^2b^2$.
הוכח כי מכפלת שיפועי מיתר וקוטר החוצה אותו היא $-\frac{b^2}{a^2}$.

**8)** בפרבולה $y^2 = 2px$ מעבירים נורמל.
הוכח כי היטלו של הנורמל על ציר ה-$x$ הוא גודל קבוע.

**9)** בפרבולה $y^2 = 2px$ מעבירים משיקים משתי נקודות שעליה, A ו-B.
המשיקים נפגשים בנקודה C. הוכח: $y_A + y_B = 2y_C$.

**10)** בנקודה A, שעל הפרבולה $y^2 = 2px$ מעבירים משיק לפרבולה שחותך את המדריך שלה בנקודה B. ממוקד הפרבולה מעלים אנך לציר ה-$x$ שחותך את המשיק בנקודה C. הוכח: $FB = FC$ (F - מוקד הפרבולה).

**11)** בפרבולה $y^2 = 2px$ מעבירים מיתר, החותך את הפרבולה בנקודות A ו-B.
המיתר חותך את ציר ה-$x$ בנקודה C. הוכח: $x_A \cdot x_B = (x_C)^2$.

# קורס קדם במתמטיקה למהנדסים

## פרק 12 - טריגונומטריה במשולש ישר זווית

### תוכן העניינים

1. משולש ישר זווית ..... 187

# משולש ישר זווית:

## סיכום כללי:

### הגדרות הפונקציות הטריגונומטריות:

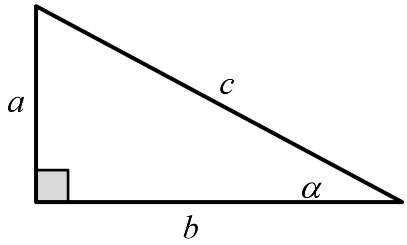


$$\sin\alpha = \frac{\text{הניצב שמול הזווית}}{\text{היתר}} = \frac{a}{c}$$

$$\cos\alpha = \frac{\text{הניצב שליד הזווית}}{\text{היתר}} = \frac{b}{c}$$

$$\tan\alpha = \frac{\text{הניצב שמול הזווית}}{\text{הניצב שליד הזווית}} = \frac{a}{b}$$

משפט פיתגורס: $a^2+b^2=c^2$

## שאלות:

**1)** מצא את ערכו של $\alpha / x$ במשולשים ישרי הזווית הבאים:

א.

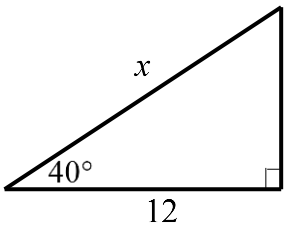


ב.

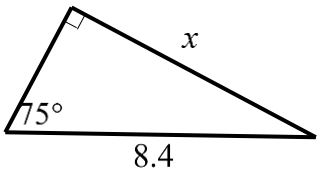


ג.

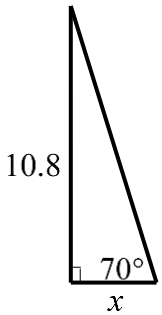


ד.

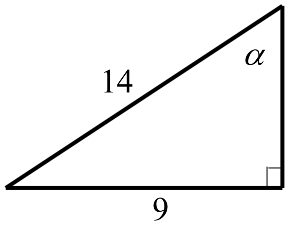


ה.

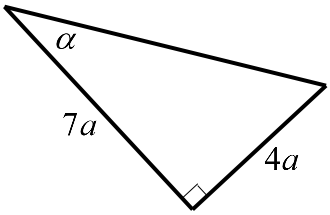


**2)** המשולש ABC שבציור הוא משולש ישר זווית $(\sphericalangle B=90°)$.

AD הוא התיכון לניצב BC.

נתון: $\sphericalangle C=28°$ , AB = 6 ס"מ.

מצא את AD ואת $\sphericalangle BAD$.

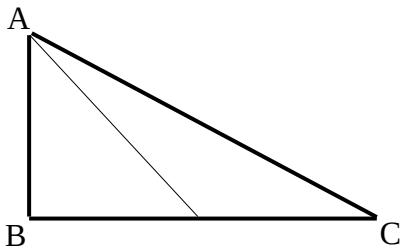

**3)** המשולש ABC שבציור הוא משולש ישר זווית $(\sphericalangle B=90^\circ)$. BD הוא התיכון ליתר ו-AE הוא חוצה הזווית $\sphericalangle A$.
נתון: BD = 5.6 ס"מ , BC = 8 ס"מ.
מצא את BE ואת $\sphericalangle BAE$.

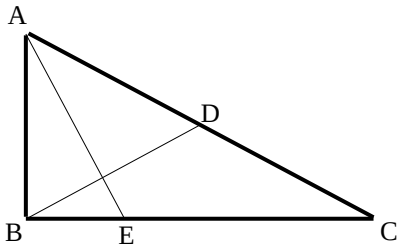


**4)** מצא את זוויותיו של מעוין שאורכי אלכסוניו 24 ס"מ ו-18 ס"מ.

**5)** המשולש ABC חסום במעגל כך שהצלע AC היא קוטר המעגל.
המשיק למעגל בנקודה A והמשך הצלע CB נפגשים בנקודה D.
נתון: BD=4 ס"מ , $\sphericalangle DAB=32^\circ$.
מצא את אורכו של רדיוס המעגל.

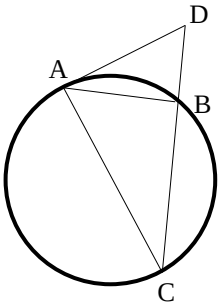


**6)** במשולש שווה שוקיים שבו השוק ארוכה ב-4 ס"מ מהבסיס נתון כי זווית הראש היא $34.92^\circ$. מצא את שטח המשולש.

**7)** המשולש ABC שבציור הוא משולש ישר זווית $(\sphericalangle B=90^\circ)$.
נתון: $\sphericalangle A=\alpha$ , $AB=a$.
הבע באמצעות $\alpha$ ו-$a$ את היקף המשולש.

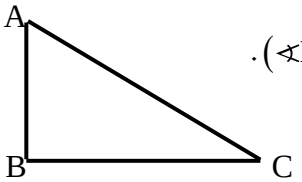


**8)** המשולש ABC שבציור הוא משולש ישר זווית $(\sphericalangle B=90^\circ)$.
AD הוא התיכון לניצב BC.
נתון: $\sphericalangle C=\alpha$ , $AB=b$.
הבע באמצעות $\alpha$ ו-$b$ את אורכי הקטעים BD ו-AD.

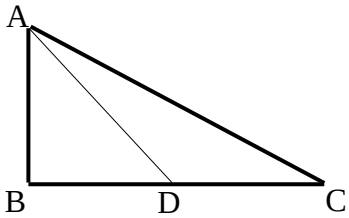


**9)** במשולש ישר זווית אחת הזוויות החדות היא $\alpha$ ואורך חוצה זווית זו הוא $k$.
הבע באמצעות $\alpha$ ו-$k$ את שטח המשולש ואת אורך היתר.

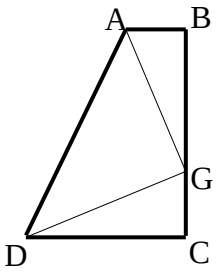


**10)** טרפז ABCD הוא טרפז ישר זווית $(\sphericalangle B=\sphericalangle C=90^\circ)$.
הנקודה G נמצאת על השוק BC כך ש- $AG\perp DG$.
נתון: $AG=DG=m$ , $\sphericalangle BAG=\beta$.
הבע באמצעות $\beta$ ו- $m$ את שטח הטרפז.

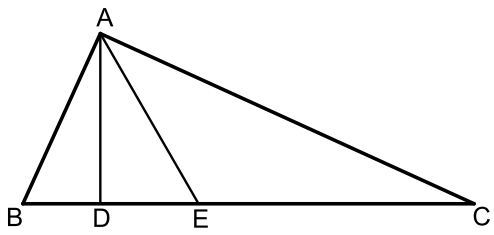


**11)** המשולש ABC הוא ישר זווית $(\sphericalangle A=90^\circ)$.
הקטעים AD ו-AE הם בהתאמה גובה ליתר וחוצה זווית.
מסמנים: $DE=k$ , $\sphericalangle DAE=\alpha$.

א. הבע באמצעות $k$ ו- $\alpha$ את שטח המשולש ABC.

ב. חשב את שטח המשולש ABC אם ידוע כי: $\alpha=30$ ו- $k=2$.

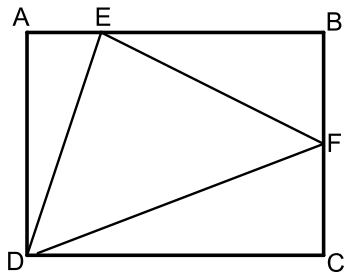


**12)** במלבן ABCD מסמנים את הנקודות E ו-F הנמצאות על הצלעות AB ו-BC בהתאמה כך ש-E מקיימת: $3AE=BE$ ו-F היא אמצע הצלע BC.
אורך הצלע AD שווה לאורך הקטע BE.
מעבירים את הקטעים DF , EF ו-DE כך שנוצר במשולש DEF.

א. סמן ב- $t$ את אורך הקטע AE והבע באמצעות $t$ את אורכי צלעות המשולש DEF.

ב. חשב את זוויות המשולש EDF.

**13)** משולש שווה שוקיים שאורך שוקו $k$ וזווית הבסיס שלו היא $\beta$ חוסם מעגל.
הבע באמצעות $\beta$ ו- $k$ את רדיוס המעגל.

**14)** בטרפז ישר זווית חסום מעגל. אורך השוק הארוכה בטרפז היא $b$ והזווית שהיא יוצרת עם הבסיס הגדול היא $\alpha$.
הבע באמצעות $\alpha$ ו- $b$ את אורכו של הבסיס הגדול בטרפז ואת שטחו.

**הערה: השאלות הבאות משלבות ידע בגיאומטריה ובטריגונומטריה יחד:**

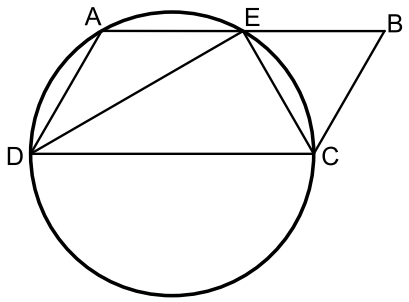


**15)** דרך הקודקודים A , C ו-D של המקבילית ABCD מעבירים מעגל. היקף המעגל חוצה את הצלע AB בנקודה E, $(AE = BE)$.
נתון כי DC הוא קוטר במעגל וכי המיתר DE חוצה את זווית D.

א. הוכח כי המיתר CE חוצה את זוויות C.

ב. רדיוס המעגל יסומן ב- $R$.
הבע באמצעות $R$ את היקף המקבילית.

ג. מצא את רדיוס המעגל אם ידוע כי שטח המקבילית הוא $16\sqrt{3}$ סמ"ר.

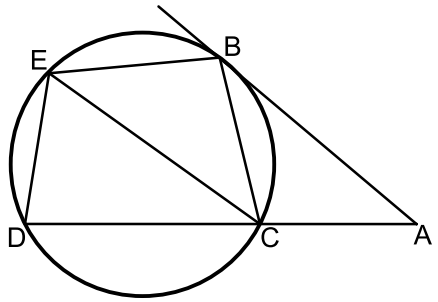


**16)** מהנקודה A שמחוץ למעגל מעבירים משיק AB וישר חותך ACD.
מעבירים את המיתרים BC ו-BE אשר זהים באורכם.
כמו כן מעבירים את המיתר DE.
אורך המיתר CE שונה מאורך המשיק AB.

א. הוכח כי המרובע ABEC הוא טרפז.

ב. הוכח כי: $2\cdot\sphericalangle BEC = \sphericalangle EDC$.

ג. נתונים: $\sphericalangle A = 40°$ , AC = 6 ס"מ, AB = 9 ס"מ , CE = 8 ס"מ.
חשב את שטח המרובע ABEC.

## תשובות סופיות:

1) א. $x=15.665$ ב. $x=8.114$ ג. $x=3.931$ ד. $\alpha=40.005°$ ה. $\alpha=29.745°$.

2) $\sphericalangle BAD=43.24°$ , 8.236 ס"מ = AD.

3) $\sphericalangle BAE=22.792°$ , 3.294 ס"מ = BE.

4) $106.26°$ , $106.26°$ , $73.74°$ , $73.74°$.

5) 6.04 ס"מ = $R$.

6) 28.618 סמ"ר = $S$.

7) $P=a\left(1+\tan\alpha+\frac{1}{\cos\alpha}\right)$.

8) $BD=\frac{b}{2\tan\alpha}$ , $AD=\sqrt{b^2+\frac{b^2}{4\tan^2\alpha}}$.

9) $S=\frac{k^2\cos^2\frac{\alpha}{2}\tan\alpha}{2}$ , $AC=\frac{k\cos\frac{\alpha}{2}}{\cos\alpha}$.

10) $\frac{(m\sin\beta+m\cos\beta)^2}{2}$.

11) א. $S=\frac{k^2}{\cos 2\alpha\tan^2\alpha}$ ב. 24 סמ"ר.

12) א. $DF=t\sqrt{18.25}$ , $EF=t\sqrt{11.25}$ , $DE=t\sqrt{10}$ ב. $47.14°$ , $51°$ , $81.86°$.

13) $R=k\cos\beta\tan\frac{\beta}{2}$.

14) $S=\frac{1}{2}b^2\sin\alpha(1+\sin\alpha)$ , $\frac{1}{2}b\sin\alpha+\frac{\frac{1}{2}b\sin\alpha}{\tan\frac{\alpha}{2}}$.

15) א. שאלת הוכחה. ב. $6R$ ג. 4 ס"מ.

16) א. שאלת הוכחה. ב. שאלת הוכחה. ג. 32.78 סמ"ר.

# קורס קדם במתמטיקה למהנדסים

## פרק 13 - זהויות טריגונומטריות

### תוכן העניינים


1. זהויות יסוד ..... 192
2. ערכי הפונקציות הטריגונומטריות עבור זוויות מיוחדות ..... 196
3. מעגל היחידה ..... 198
4. סכום והפרש זוויות ..... 201
5. זווית כפולה ..... 205
6. סכום והפרש פונקציות ..... 208
7. מכפלת פונקציות ..... 211

# זהויות יסוד:

## סיכום כללי:

| | | |
|---|---|---|
| קשרים בין פונקציות | $\tan\alpha=\frac{\sin\alpha}{\cos\alpha}$ , $\cot\alpha=\frac{\cos\alpha}{\sin\alpha}$ | $\sin^2\alpha+\cos^2\alpha=1$<br>$\tan\alpha\cdot\cot\alpha=1$ |
| זוויות משלימות ל- $90°$ | $\cos\alpha=\sin(90°-\alpha)$ | $\sin\alpha=\cos(90°-\alpha)$ |
| | $\cot\alpha=\tan(90°-\alpha)$ | $\tan\alpha=\cot(90°-\alpha)$ |
| קשרים בין פונקציות | $\cot^2\alpha+1=\frac{1}{\sin^2\alpha}$ | $\tan^2\alpha+1=\frac{1}{\cos^2\alpha}$ |

## שאלות:

### הוכחת זהויות יסודית:

הוכח את הזהויות הבאות תוך שימוש בזהויות היסוד:

1) $\tan\alpha\cdot\cos\alpha=\sin\alpha$

2) $\frac{1-\sin^2\alpha}{\cos^2\alpha}=1$

3) $\frac{\sin\alpha}{\sqrt{1-\sin^2\alpha}}=\tan\alpha$

4) $\sin^2\alpha+2\cos^2\alpha=1+\cos^2\alpha$

5) $\frac{\sin^2\alpha}{1+\cos\alpha}+\frac{\sin^2\alpha}{1-\cos\alpha}=2$

6) $(\sin\alpha+\cos\alpha)^2+(\sin\alpha-\cos\alpha)^2=2$

7) $\frac{\cos(90°-\alpha)}{\cos\alpha}=\tan\alpha$

8) $\sin^2(\alpha+45°)+\sin^2(45°-\alpha)=1$

9) $\sqrt{1+\tan^2\alpha}\cdot\sqrt{1-\cos^2\alpha}=\tan\alpha$

10) $\frac{\sin\alpha(1-\cos^2\alpha)}{\cos^3\alpha}=\tan^3\alpha$

11) $\frac{\sin(90°-\alpha)-\cos^3\alpha}{\sin^3\alpha}=\cot\alpha$

12) $\cos^2\alpha(1+\tan^2\alpha)=1$

13) $\frac{\sin\alpha\cdot\cos\alpha}{1-\cos^2\alpha}=\cot\alpha$

14) $\frac{\sin^3\alpha}{\sin(90°-\alpha)-\cos^3\alpha}=\tan\alpha$

15) $\tan^2\alpha-\sin^2\alpha=\tan^2\alpha\sin^2\alpha$

16) $\frac{1-2\sin^2\alpha\cos^2\alpha}{\sin^2\alpha\cdot\cos^2\alpha}=\tan^2\alpha+\cot^2\alpha$

**הוכחות מתקדמות:**

**17)** הוכח את הזהות הבאה: $\frac{1+\cos\alpha}{1-\cos\alpha}+\frac{1-\cos\alpha}{1+\cos\alpha}=2+4\cot^2\alpha$.

**18)** הוכח את הזהות הבאה: $\frac{1+\tan\alpha}{1-\tan\alpha}+\frac{1-\tan\alpha}{1+\tan\alpha}=\frac{2}{\cos^2\alpha-\sin^2\alpha}$.

**19)** הוכח את הזהות הבאה: $(\cot\alpha-\tan\alpha)(\cot\alpha+\tan\alpha)=(1+\cot^2\alpha)(1+\tan\alpha)(1-\tan\alpha)$.

**20)** הוכח את הזהות הבאה: $\frac{\sin^4\alpha+\cos^2\alpha-\sin^2\alpha}{\cos^4\alpha+\sin^2\alpha-\cos^2\alpha}=\cot^4\alpha$.

**21)** הוכח את הזהות הבאה: $1-\sin^2\alpha(1+\cos^2\alpha)=\cos^4\alpha$.

**22)** הוכח את הזהות הבאה: $\left(\sqrt{\frac{1+\cos\alpha}{1-\cos\alpha}}+\sqrt{\frac{1-\cos\alpha}{1+\cos\alpha}}\right)^2=4+4\cot^2\alpha$.

**23)** הוכח את הזהות הבאה: $\sin^2\alpha\cos^2\beta-\sin^2\beta\cos^2\alpha=\sin^2\alpha-\sin^2\beta$.

**24)** הוכח את הזהות הבאה: $\frac{\tan\alpha+\tan\beta}{\cot\alpha+\cot\beta}=\tan\alpha\tan\beta$.

**הבעת ביטויים וחישובים באמצעות זהויות יסוד:**

**25)** נתון כי: $\sin\alpha+\cos\alpha=k$.

הבע באמצעות $k$ את ערכי הביטויים הבאים:

א. $\sin\alpha\cdot\cos\alpha$.

ב. $\sin\alpha-\cos\alpha$.

ג. $\tan\alpha+\cot\alpha$.

ד. $\sin^3\alpha+\cos^3\alpha$.

**26)** נתון כי: $\sin\alpha=\frac{\sqrt{5}}{5}$.

מבלי למצוא את $\alpha$ חשב את: $\tan^2\alpha-2\cot^2\alpha$.

**27)** נתון כי: $\tan\alpha=\sqrt{7}$.

מבלי למצוא את $\alpha$ חשב את: $\dfrac{\sqrt{7}\sin\alpha+6\cos\alpha}{\sqrt{28}\sin\alpha-\cos\alpha}$.

**28)** חשב את ערך המכפלה הבאה: $\tan 1^\circ\cdot\tan 2^\circ\cdot\tan 3^\circ\cdot\cdots\cdot\tan 88^\circ\cdot\tan 89^\circ$.

## תשובות סופיות:

1) שאלת הוכחה.
2) שאלת הוכחה.
3) שאלת הוכחה.
4) שאלת הוכחה.
5) שאלת הוכחה.
6) שאלת הוכחה.
7) שאלת הוכחה.
8) שאלת הוכחה.
9) שאלת הוכחה.
10) שאלת הוכחה.
11) שאלת הוכחה.
12) שאלת הוכחה.
13) שאלת הוכחה.
14) שאלת הוכחה.
15) שאלת הוכחה.
16) שאלת הוכחה.
17) שאלת הוכחה.
18) שאלת הוכחה.
19) שאלת הוכחה.
20) שאלת הוכחה.
21) שאלת הוכחה.
22) שאלת הוכחה.
23) שאלת הוכחה.
24) שאלת הוכחה.
25) א. $\frac{k^2-1}{2}$ ב. $\pm\sqrt{2-k^2}$ ג. $\frac{2}{k^2-1}$ ד. $\frac{k}{2}\left(3-k^2\right)$
26) -7.75
27) 1
28) 1

# ערכי הפונקציות הטריגונומטריות עבור זוויות מיוחדות:

## סיכום כללי:

| | $\alpha=0°$ | $\alpha=30°$ | $\alpha=45°$ | $\alpha=60°$ | $\alpha=90°$ |
|---|---|---|---|---|---|
| $\sin\alpha$ | $0$ | $\frac{1}{2}$ | $\frac{\sqrt{2}}{2}$ | $\frac{\sqrt{3}}{2}$ | $1$ |
| $\cos\alpha$ | $1$ | $\frac{\sqrt{3}}{2}$ | $\frac{\sqrt{2}}{2}$ | $\frac{1}{2}$ | $0$ |
| $\tan\alpha$ | $0$ | $\frac{\sqrt{3}}{3}$ | $1$ | $\sqrt{3}$ | $\phi$ |
| $\cot\alpha$ | $\phi$ | $\sqrt{3}$ | $1$ | $\frac{\sqrt{3}}{3}$ | $0$ |

**הערות:**

- ערכי הפונקציות הטריגונומטריות עבור זוויות של $0°$ ו-$90°$ תִּלמדנה בהמשך אך ניתנו כעת כדי להשלים את תמונת ערכי הזוויות.
- ניתן לזכור את הטבלה ע"י כתיבה של שורת הסינוס לפי: $\frac{\sqrt{0}}{2},\frac{\sqrt{1}}{2},\frac{\sqrt{2}}{2},\frac{\sqrt{3}}{2},\frac{\sqrt{4}}{2}$
  אשר נותנים את הערכים של השורה הראשונה לאחר פישוט קל.
  עבור שורת ה-$\cos\alpha$ יש להפוך את הערכים ולבסוף יש לחלק כל זוג ביטויים כדי לכתוב את ערכי $\tan\alpha$ ולסובב עבור ערכי $\cot\alpha$.

## שאלות:

חשב ללא מחשבון את ערכי הביטויים הבאים תוך שימוש בערכי הפונקציות הטריגונומטריות של זוויות מיוחדות:

**1)** $\sin 30° + \cos 30°$.

**2)** $\frac{\sin 30° \cdot \cos 30°}{\sin 60°}$.

**3)** $\tan 45° + \frac{\sin 45°}{\cos 45°}$.

4) $\frac{1+\cos 60^\circ}{2\sin 60^\circ}$.

5) $\cos^2 45^\circ + \sin^2 30^\circ$.

6) $\frac{\tan^2 60^\circ \cdot \cos^2 30^\circ}{\cos^2 60^\circ}$.

7) $\frac{\tan 30^\circ \cdot \cot 60^\circ - \cot 45^\circ \cdot \tan 45^\circ}{4\left(\sin^2 60^\circ - \frac{1}{4}\right)}$.

8) $\frac{27\cot^4 60^\circ}{\sin 30^\circ \cdot \cos 45^\circ \cdot \tan 60^\circ}$.

## תשובות סופיות:

1) $\frac{1+\sqrt{3}}{2}$

2) $\frac{1}{2}$

3) $2$

4) $\frac{3}{2\sqrt{3}}$

5) $\frac{3}{4}$

6) $9$

7) $-\frac{1}{3}$

8) $2\sqrt{6}$

# מעגל היחידה – הגדרה וזהויות:

## סיכום כללי:

### הגדרת מעגל היחידה:

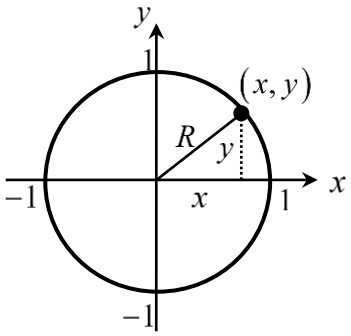


- מעגל קנוני שרדיוסו 1 מוגדר להיות המעגל הטריגונומטרי.
- הנקודות $(1,0)$ , $(0,1)$ , $(-1,0)$ , $(0,-1)$ מתאימות לזוויות של $0°$ , $90°$ , $180°$ , $270°$.

### הזהויות של המעגל הטריגונומטרי:

| רביע | סינוס | קוסינוס | טנגנס |
|---|---|---|---|
| II<br>III<br>VI | $\sin(180°-\alpha)=\sin\alpha$<br>$\sin(180°+\alpha)=-\sin\alpha$<br>$\sin(-a)=-\sin\alpha$ | $\cos(180^o-\alpha)=-\cos\alpha$<br>$\cos(180^o+\alpha)=-\cos\alpha$<br>$\cos(-\alpha)=\cos\alpha$ | $\tan(180^o-\alpha)=-\tan\alpha$<br>$\tan(180^o+\alpha)=\tan\alpha$<br>$\tan(-\alpha)=-\tan\alpha$ |
| סימנים | 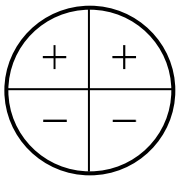 | 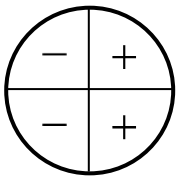 | 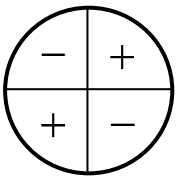 |

### זהויות עבור זווית הגדולות מ-360 מעלות:

ניתן להוסיף או להוריד 'סיבובים' שלמים לזווית לפי:

$$\boxed{\begin{aligned}\sin(\alpha+360°k)&=\sin\alpha\\ \cos(\alpha+360°k)&=\cos\alpha\end{aligned}}\quad,\quad\boxed{\begin{aligned}\tan(\alpha+180°k)&=\tan\alpha\\ \cot(\alpha+180°k)&=\cot\alpha\end{aligned}}$$

כאשר $k$ הוא מספר שלם מציין את מספר הסיבובים.

## שאלות:

**1)** העבר את הביטויים הבאים לביטויים עם זווית ברביע הראשון.
אין צורך לחשב את ערך הביטוי:

| | |
|---|---|
| א. $\sin 120°$ | ב. $\cos 150°$ |
| ג. $\tan 160°$ | ד. $\cot 130°$ |
| ה. $\sin 215°$ | ו. $\cos 245°$ |
| ז. $\tan 230°$ | ח. $\cot 200°$ |
| ט. $\sin 300°$ | י. $\cos 310°$ |

**2)** חשב את ערכי הביטויים הבאים ע"י שימוש בזהויות המעגל הטריגונומטרי:

| | | |
|---|---|---|
| א. $\sin 150°$ | ב. $\cos 210°$ | ג. $\tan 120°$ |
| ד. $\sin 330°$ | ה. $\tan 225°$ | ו. $\sin 315°$ |
| ז. $\cos 120°$ | ח. $\tan(-30°)$ | ט. $\cos(-45°)$ |
| י. $\sin 510°$ | יא. $\cos 930°$ | יב. $\tan(-225°)$ |

**3)** חשב את ערכי הביטויים הבאים ללא שימוש במחשבון:

א. $\left(\sin 240° \cdot \tan 150° + \cos(-60°)\right)^2$.

ב. $8\sin^2 150° \cdot \tan 135° - 2 \cdot \sin 135° \cdot \cos(-135°)$.

ג. $\dfrac{\cot 225°}{\sin(-225°) - \cos 135°} + \tan^2 210°$.

**4)** הוכח כי אם $\alpha$, $\beta$ ו- $\gamma$ הן זוויות במשולש, אז מתקיים:

א. $\sin(\alpha + \beta) = \sin\gamma$.

ב. $\sin\left(\dfrac{\gamma + \beta}{2}\right) = \cos\dfrac{\alpha}{2}$.

## תשובות סופיות:

1) א. $\sin 60°$ ב. $-\cos 30°$ ג. $-\tan 20°$ ד. $-\cot 50°$
ה. $-\sin 35°$ ו. $-\cos 65°$ ז. $\tan 50°$ ח. $\cot 20°$
ט. $-\sin 60°$ י. $\cos 50°$

2) א. $\frac{1}{2}$ ב. $-\frac{\sqrt{3}}{2}$ ג. $-\sqrt{3}$ ד. $-\frac{1}{2}$
ה. $1$ ו. $-\frac{\sqrt{2}}{2}$ ז. $-\frac{1}{2}$ ח. $-\frac{\sqrt{3}}{3}$
ט. $\frac{\sqrt{2}}{2}$ י. $\frac{1}{2}$ יא. $-\frac{\sqrt{3}}{2}$ יב. $-1$

3) א. $1$ ב. $-1$ ג. $\frac{1}{\sqrt{2}}+\frac{1}{3}$.

4) שאלת הוכחה.

# סכום והפרש זוויות:

## סיכום כללי:

סכום והפרש עבור $\sin(\alpha\pm\beta)$ ו- $\cos(\alpha\pm\beta)$ יחושב לפי:

$$\boxed{\begin{aligned}\sin(\alpha\pm\beta)&=\sin\alpha\cos\beta\pm\sin\beta\cos\alpha\\ \cos(\alpha\pm\beta)&=\cos\alpha\cos\beta\mp\sin\alpha\sin\beta\end{aligned}}.$$

סכום והפרש עבור $\tan(\alpha\pm\beta)$ ו- $\cot(\alpha\pm\beta)$

$$\boxed{\begin{aligned}\tan(\alpha\pm\beta)&=\frac{\tan\alpha\pm\tan\beta}{1\mp\tan\alpha\tan\beta}\\ \cot(\alpha\pm\beta)&=\frac{\cot\alpha\cot\beta\mp1}{\cot\beta\pm\cot\alpha}\end{aligned}}.$$

**הערה:**

בסרטון התיאוריה אין התייחסות מיוחדת לזהויות עבור $\tan(\alpha\pm\beta)$ ו- $\cot(\alpha\pm\beta)$.

## שאלות:

**1)** חשב את ערכי הביטויים הבאים תוך שימוש בזהויות של סכום והפרש זוויות וללא שימוש במחשבון:

| | | |
|---|---|---|
| א. $\sin 75°$ | ב. $\sin 15°$ | ג. $\sin 105°$ |
| ד. $\sin(-15°)$ | ה. $\cos 75°$ | ו. $\cos 15°$ |
| ז. $\cos(-105°)$ | ח. $\cos 165°$ | ט. $\cos(-195°)$ |

**2)** חשב ללא שימוש במחשבון את ערכי הביטויים הבאים:

א. $\sin 65°\cos 25°+\sin 25°\cos 65°$.

ב. $5\cos 50°\cos 20°+5\sin 50°\sin 20°$.

3) הוכח את הזהויות הבאות:

א. $\sin(60°+\alpha)+\sin(60°-\alpha)=\sqrt{3}\cos\alpha$.

ב. $\cos(45°-\alpha)-\cos(45°+\alpha)=\sqrt{2}\sin\alpha$.

ג. $\sin(\alpha+\beta)\cdot\sin(\alpha-\beta)=\sin^2\alpha-\sin^2\beta$.

ד. $\tan\alpha-\tan\beta=\dfrac{\sin(\alpha-\beta)}{\cos\alpha\cos\beta}$.

4) נתון: $\cos\beta=\dfrac{8}{17}$ , $\cos\alpha=\dfrac{4}{5}$ ו- $\alpha,\beta$ זוויות חדות.

מבלי למצוא את הערכים של $\alpha$ ו- $\beta$ חשב:

א. $\sin(\alpha+\beta)$.

ב. $\cos(\alpha+\beta)$.

ג. $\tan(\alpha+\beta)$.

5) הוכח את הזהות: $\sin(\alpha+\beta)-\sin(\alpha-\beta)=2\sin\beta\cos\alpha$.

6) הוכח את הזהות: $(\sin\alpha+\cos\alpha)(\sin2\alpha+\cos2\alpha)=\sin3\alpha+\cos\alpha$.

7) הוכח את הזהות: $\tan7\alpha-\tan5\alpha-\tan2\alpha=\tan7\alpha\tan5\alpha\tan2\alpha$.

8) הוכח את הזהות: $\dfrac{\sin(\alpha-\beta)}{\cos(\alpha+\beta)}=\dfrac{\tan\alpha-\tan\beta}{1-\tan\alpha\tan\beta}$.

9) הוכח את הזהות: $\cot\alpha-\cot\beta=\dfrac{\sin(\beta-\alpha)}{\sin\alpha\sin\beta}$.

10) הוכח את הזהות הבאה:

$\sin\alpha\cos\beta\cos\gamma+\cos\alpha\sin\beta\cos\gamma+\cos\alpha\cos\beta\sin\gamma-\sin\alpha\sin\beta\sin\gamma=\sin(\alpha+\beta+\gamma)$.

**11)** הוכח כי מתקיים: $\sin 65^\circ \cos 25^\circ + \sin 25^\circ \cos 65^\circ = 1$.

**12)** הוכח כי מתקיים: $\tan 18^\circ \tan 27^\circ + \tan 18^\circ + \tan 27^\circ = 1$.

**13)** נתון כי: $\sin 76^\circ = m$. הבע את $\sin 31^\circ$ באמצעות $m$.

**14)** הזוויות $\alpha$ ו- $\beta$ הן זוויות חדות.

נתון כי: $\tan\alpha = \frac{(2-k)\sqrt{3}}{3k}$ ו- $\tan\beta = \frac{(2k-1)\sqrt{3}}{3}$.

הראה כי מתקיים: $\alpha + \beta = 60^\circ$.

**15)** היעזר בנוסחה: $\tan(\alpha \pm \beta) = \frac{\tan\alpha \pm \tan\beta}{1 \mp \tan\alpha \tan\beta}$ ומצא את $\tan x$ ו- $\tan y$

אם ידוע כי: $\tan(x+y) = -3$ ו- $\tan(x-y) = \frac{1}{3}$. הבחן בין שני מקרים.

## תשובות סופיות:

1) א. $\frac{\sqrt{6}+\sqrt{2}}{4}$ ב. $\frac{\sqrt{6}-\sqrt{2}}{4}$ ג. $\frac{\sqrt{6}+\sqrt{2}}{4}$ ד. $\frac{\sqrt{2}-\sqrt{6}}{4}$ ה. $\frac{\sqrt{6}-\sqrt{2}}{4}$

ו. $\frac{\sqrt{6}+\sqrt{2}}{4}$ ז. $\frac{\sqrt{2}-\sqrt{6}}{4}$ ח. $-\frac{\sqrt{6}+\sqrt{2}}{4}$ ט. $-\frac{\sqrt{6}+\sqrt{2}}{4}$

2) א. $1$ ב. $\frac{5\sqrt{3}}{2}$

3) שאלת הוכחה.

4) א. $\frac{84}{85}$ ב. $-\frac{13}{85}$ ג. $-6\frac{6}{13}$

5) שאלת הוכחה.

6) שאלת הוכחה.

7) שאלת הוכחה.

8) שאלת הוכחה.

9) שאלת הוכחה.

10) שאלת הוכחה.

11) שאלת הוכחה.

12) שאלת הוכחה.

13) שאלת הוכחה.

14) $\frac{\sqrt{2}}{2}\left(m-\sqrt{1-m^2}\right)$.

15) שאלת הוכחה.

16) 1 ו-2 או $-\frac{1}{2}$ ו- 1-.

# זווית כפולה:

## סיכום כללי:

נפתח זווית כפולה לפי הצורות הבאות:

$$\boxed{\begin{array}{l}\sin 2\alpha = 2\sin\alpha\cos\alpha \\ \cos 2\alpha = \cos^2\alpha - \sin^2\alpha = 2\cos^2\alpha - 1 = 1 - 2\sin^2\alpha\end{array}}$$

## שאלות:

**1)** הוכח את הזהויות הבאות:

א. $4\sin\alpha\cos\alpha\cos 2\alpha = \sin 4\alpha$

ב. $(\sin\alpha - \cos\alpha)^2 = 1 - \sin 2\alpha$

ג. $(\sin 3\alpha - \cos 3\alpha)^2 = 1 - \sin 6\alpha$

ד. $\cos^4\alpha - \sin^4\alpha = \cos 2\alpha$

ה. $\frac{\cos\alpha}{\sin\alpha} - \frac{\sin\alpha}{\cos\alpha} = 2\cot 2\alpha$

ו. $\frac{\cos 2\alpha - 2\sin^2\alpha\cos 2\alpha}{\sin 4\alpha} = \frac{1}{2}\cot 2\alpha$

ז. $\cos^2 2\alpha = 4\sin^4\alpha - 4\sin^2\alpha + 1$

ח. $\cos 4\alpha = 8\cos^4\alpha - 8\cos^2\alpha + 1$

**2)** הוכח את הזהות: $\sin^3\alpha = \frac{3\sin\alpha - \sin 3\alpha}{4}$ ע"י כתיבה של $\sin 3\alpha$

לפי: $\sin(\alpha + 2\alpha)$ ושימוש בזהויות שנלמדו.

**3)** הוכח את הזהות: $\cos^3\alpha = \frac{3\cos\alpha + \cos 3\alpha}{4}$ ע"י כתיבה של $\cos 3\alpha$

לפי: $\cos(\alpha + 2\alpha)$ ושימשו בזהויות שנלמדו.

**4)** נתונה זווית חדה $\alpha$ המקיימת: $\sin\alpha = \frac{40}{41}$. מבלי להיעזר במחשבון חשב:

א. $\cos\alpha$.

ב. $\tan\alpha$.

ג. $\sin 2\alpha$.

ד. $\cos 2\alpha$.

ה. $\tan 2\alpha$.

**5)** נתונה זווית חדה $\alpha$ המקיימת: $\tan\alpha=\frac{5}{12}$. מבלי להיעזר במחשבון חשב:

א. $\sin\alpha$.

ב. $\cos\alpha$.

ג. $\sin 2\alpha$.

ד. $\cos 2\alpha$.

**6)** נתונה זווית $\alpha$ ברביע הראשון וזווית $\beta$ ברביע השני המקיימות: $\sin\alpha=\frac{5}{13}$ ו- $\cos\beta=-0.8$. מבלי למצוא את $\alpha$ ו- $\beta$ חשב את הביטויים הבאים:

א. $\sin(\alpha+\beta)$.

ב. $\cos(\alpha+\beta)$.

ג. $\sin(2\alpha+\beta)$.

**7)** נתון כי $\sin\alpha+\cos\alpha=1.2$ עבור $0°<\alpha<90°$. חשב את $\sin 2\alpha$.

**8)** פשט את הביטוי הבא: $\sqrt{\frac{1+\cos 8\alpha}{2}}$.

**9)** ללא שימוש במחשבון, חשב את ערך הביטוי הבא: $\frac{\sin 16°\cos 16°}{3-6\sin^2 29°}$.

**10)** ללא שימוש במחשבון, חשב את ערך הביטוי הבא: $\frac{\sin^2 78°-\cos^2 78°}{\sin 66°}$.

**11)** ללא שימוש במחשבון, חשב את ערך הביטוי הבא: $\frac{5\tan 15°\left(1-2\cos^2 15°\right)}{1-\tan^2 15°}$.

## תשובות סופיות:

1) שאלת הוכחה.

2) שאלת הוכחה.

3) שאלת הוכחה.

4) א. $\frac{9}{41}$ ב. $4\frac{4}{9}$ ג. $\frac{720}{1681}$ ד. $-\frac{1519}{1681}$

ה. $-\frac{720}{1519}$

5) א. $\frac{5}{13}$ ב. $\frac{12}{13}$ ג. $\frac{120}{169}$ ד. $\frac{119}{169}$

6) א. $\frac{16}{65}$ ב. $-\frac{63}{65}$ ג. $-\frac{123}{845}$

7) 0.44.

8) $\cos 4\alpha$.

9) $\frac{1}{6}$.

10) 1.

11) -1.25.

# סכום והפרש פונקציות טריגונומטריות:

## סיכום כללי:

להלן נוסחאות הסכום וההפרש של פונקציות טריגונומטריות:

$$\sin\alpha+\sin\beta=2\sin\frac{\alpha+\beta}{2}\cos\frac{\alpha-\beta}{2}$$
$$\sin\alpha-\sin\beta=2\sin\frac{\alpha-\beta}{2}\cos\frac{\alpha+\beta}{2}$$
$$\cos\alpha+\cos\beta=2\cos\frac{\alpha+\beta}{2}\cos\frac{\alpha-\beta}{2}$$
$$\cos\alpha-\cos\beta=-2\sin\frac{\alpha+\beta}{2}\sin\frac{\alpha-\beta}{2}$$

**הערה:**

בסרטון התיאוריה אין התייחסות לזהויות הסכום וההפרש של טנגנס ושל קוטנגנס עקב חוסר השימוש בהן בפתרון שאלות.

## שאלות:

1) הוכח את הזהות הבאה: $\sin 5\alpha+\sin 3\alpha=2\sin 4\alpha\cos\alpha$.

2) הוכח את הזהות הבאה: $\sin 7\alpha-\sin 2\alpha=2\sin 2.5\alpha\cos 4.5\alpha$.

3) הוכח את הזהות הבאה: $\cos\alpha+\cos 5\alpha=2\sin 2\alpha\cos 3\alpha$.

4) הוכח את הזהות הבאה: $\cos 5\alpha-\cos 2\alpha=-2\sin 3.5\alpha\cos 1.5\alpha$.

5) הוכח את הזהות הבאה: $\sin 3\alpha=2\sin 2\alpha\cos\alpha-\sin\alpha$.

6) הוכח את הזהות הבאה: $\sin^2\alpha-\sin^2\beta=\sin(\alpha+\beta)\sin(\alpha-\beta)$.

7) הוכח את הזהות הבאה: $\sin(2\alpha+\beta)-2\cos(\alpha+\beta)\sin\alpha=\sin\beta$.

8) הוכח את הזהות הבאה: $\frac{\sin 5\alpha-\sin\alpha}{\sin 4\alpha-\sin 2\alpha}=2\cos\alpha$.

9) הוכח את הזהות הבאה: $\frac{\sin 7\alpha - \sin 3\alpha}{\cos 4\alpha + \cos 6\alpha} = 2\sin\alpha$.

10) הוכח את הזהות הבאה: $\frac{\sin\alpha + \sin 2\alpha + \sin 3\alpha}{\cos\alpha + \cos 2\alpha + \cos 3\alpha} = \tan 2\alpha$.

11) הוכח את הזהות הבאה: $\tan\alpha + \tan 3\alpha = \frac{2\sin 4\alpha}{\cos 4\alpha + \cos 2\alpha}$.

12) פשט את הביטוי: $\frac{1+\cos\alpha+\cos 2\alpha+\cos 3\alpha}{\cos\alpha + 2\cos^2\alpha - 1}$ ומצא את ערכו מבלי להיעזר במחשבון אם ידוע כי $\sin\frac{\alpha}{2} = \frac{5}{6}$.

13) נתון כי $\alpha$ ו- $\beta$ הן זוויות חדות המקיימות: $\sin\alpha = \frac{2mn}{m^2+n^2}$ ו- $\sin\beta = \frac{n^2-m^2}{m^2+n^2}$.
הראה כי: $\alpha + \beta = 90°$.

14) היעזר במעבר מכפל לסכום או הפרש
והוכח כי: $\cos 6\alpha\cos 2\alpha - \cos 5\alpha\cos\alpha = -\sin 7\alpha\sin\alpha$.

15) היעזר במעבר מכפל לסכום או הפרש
והוכח כי: $\sin 4\alpha\sin 2\alpha - \sin 5\alpha\sin\alpha + \cos 3\alpha\cos\alpha = \cos 2\alpha$.

16) חשב ללא מחשבון את ערך הביטוי הבא: $\sin 52.5° \cdot \sin 7.5°$.

17) חשב ללא מחשבון את ערך הביטוי הבא: $\frac{\sin 35°\sin 55°}{\cos 40°\cos 20° - 0.25}$.

18) חשב ללא מחשבון את ערך הביטוי הבא: $\cos 20°\cos 40°\cos 80°$.

19) חשב ללא מחשבון את ערך הביטוי הבא: $\sin 5°\cdot\sin 25°\cdot\sin 35°\cdot\sin 55°\cdot\sin 65°\cdot\sin 85°$.

## תשובות סופיות:

1) שאלת הוכחה.
2) שאלת הוכחה.
3) שאלת הוכחה.
4) שאלת הוכחה.
5) שאלת הוכחה.
6) שאלת הוכחה.
7) שאלת הוכחה.
8) שאלת הוכחה.
9) שאלת הוכחה.
10) שאלת הוכחה.
11) שאלת הוכחה.
12) $-\frac{7}{9}$.
13) שאלת הוכחה.
14) שאלת הוכחה.
15) שאלת הוכחה.
16) $\frac{\sqrt{2}-1}{4}$.
17) 1.
18) $\frac{1}{8}$.
19) $\frac{1}{64}$.

# מכפלת פונקציות:

## סיכום כללי:

להלן נוסחאות המעבר מסכום למכפלה וממכפלה לסכום:

$$\begin{cases} \sin\alpha\cos\beta=\frac{1}{2}\left[\sin(\alpha+\beta)+\sin(\alpha-\beta)\right] \\ \cos\alpha\cos\beta=\frac{1}{2}\left[\cos(\alpha+\beta)+\cos(\alpha-\beta)\right] \\ \sin\alpha\sin\beta=\frac{1}{2}\left[\cos(\alpha-\beta)-\cos(\alpha+\beta)\right] \end{cases}$$

$$\begin{cases} \sin\alpha+\sin\beta=2\sin\frac{\alpha+\beta}{2}\cos\frac{\alpha-\beta}{2} \\ \sin\alpha-\sin\beta=2\sin\frac{\alpha-\beta}{2}\cos\frac{\alpha+\beta}{2} \\ \cos\alpha+\cos\beta=2\cos\frac{\alpha+\beta}{2}\cos\frac{\alpha-\beta}{2} \\ \cos\alpha-\cos\beta=-2\sin\frac{\alpha+\beta}{2}\sin\frac{\alpha-\beta}{2} \end{cases}$$

## שאלות:

1) הוכח את הזהות הבאה: $\sin 7\alpha\cos\alpha=\frac{1}{2}(\sin 8\alpha+\sin 6\alpha)$.

2) הוכח את הזהות הבאה: $\cos 11\alpha\sin 3\alpha=\frac{1}{2}(\sin 14\alpha-\sin 8\alpha)$.

3) הוכח את הזהות הבאה: $\cos 4\alpha\cos 10\alpha=\frac{1}{2}(\cos 6\alpha+\cos 14\alpha)$.

4) הוכח את הזהות הבאה: $\sin 3\alpha\sin 7\alpha=\frac{1}{2}(\cos 4\alpha-\cos 10\alpha)$.

5) הוכח את הזהות הבאה: $2\sin 7\alpha\sin 2\alpha+\cos 9\alpha=\cos 5\alpha$.

6) הוכח את הזהות הבאה: $\sin 7\alpha\cos 4\alpha-\sin 4\alpha\cos\alpha=\sin 3\alpha\cos 8\alpha$.

7) הוכח את הזהות הבאה: $\sin\alpha\sin 3\alpha=\cos 2\alpha-\cos 3\alpha\cos\alpha$.

8) הוכח את הזהות הבאה: $2\left(\sin^2\beta-\sin^2\alpha\right)=\cos 2\alpha-\cos 2\beta$.

9) הוכח את הזהות הבאה: $\frac{2}{\cot\beta-\tan\alpha}=\tan(\alpha+\beta)-\frac{\sin(\alpha-\beta)}{\cos(\alpha+\beta)}$.

## תשובות סופיות:

1) הוכחה.
2) הוכחה.
3) הוכחה.
4) הוכחה.
5) הוכחה.
6) הוכחה.
7) הוכחה.
8) הוכחה.
9) הוכחה.

# קורס קדם במתמטיקה למהנדסים

## פרק 14 - משוואות טריגונומטריות

### תוכן העניינים

1. משוואות טריגונומטריות כלליות ..... 213
2. משוואות הנפתרות עי טכניקה אלגברית ..... 216
3. משוואות הנפתרות על ידי זהויות יסוד ..... 218
4. משוואות הנפתרות על ידי זהויות של מעגל היחידה ..... 220
5. משוואות הנפתרות על ידי חלוקה בקוסינוס ..... 221
6. משוואות הנפתרות על ידי זהויות של סכום והפרש זוויות ..... 222
7. משוואות הנפתרות על ידי זהויות של זווית כפולה ..... 223
8. משוואות מהצורה $a\sin(x)+b\cos(x)=c$ ..... 224
9. משוואות הנפתרות על ידי זהויות של סכום והפרש פונקציות ..... 225
10. משוואות עם תחום נתון ..... 227
11. משוואות עם זוויות ברדיאנים ..... 228
12. אי שוויונים טריגונומטריים ..... 232

# משוואות טריגונומטריות כלליות:

## סיכום כללי:

**פתרון כללי של משוואות טריגונומטריות (במעלות):**

להלן נוסחאות הפתרון של המשוואות הטריגונומטריות היסודיות
כאשר $x$ הוא משתנה ו- $\alpha$ היא זווית נתונה/ידועה:

| המשוואה | הפתרון |
|---|---|
| $\sin x = \sin\alpha$ | $x_1 = \alpha + 360°k \ , \ x_2 = 180° - \alpha + 360°k$ |
| $\cos x = \cos\alpha$ | $x_{1,2} = \pm\alpha + 360°k$ |
| $\tan x = \tan\alpha$ | $x = \alpha + 180°k$ |
| $\cot x = \cot\alpha$ | $x = \alpha + 180°k$ |

כאשר $k$ מספר שלם.

## שאלות:

**1)** כתוב את הפתרון הכללי של המשוואות הבאות (פונקציית הסינוס):

א. $\sin x = \frac{1}{2}$ ב. $\sin x = \frac{\sqrt{2}}{2}$ ג. $\sin x = -\frac{\sqrt{3}}{2}$ ד. $\sin x = -\frac{1}{2}$

**2)** כתוב את הפתרון הכללי של המשוואות הבאות (פונקציית הקוסינוס):

א. $\cos x = \frac{1}{2}$ ב. $\cos x = -\frac{\sqrt{3}}{2}$

**3)** כתוב את הפתרון הכללי של המשוואות הבאות (פונקציית הטנגנס):

א. $\tan x = \frac{1}{\sqrt{3}}$ ב. $\tan x = -1$

**4)** כתוב את הפתרון הכללי של המשוואות הבאות (זווית כללית):

א. $\sin x = 0.7$ ב. $\cos x = -0.6$ ג. $\tan x = 5$

**5)** כתוב את הפתרון הכללי של המשוואות הבאות (משוואות לא מסודרות):

א. $\sin 3x = \frac{1}{2}$ ב. $2\cos 2x = -\sqrt{3}$

ג. $\tan 5x = -1$ ד. $3\sin 2x = 2$

ה. $3\cos 3x = 1$ ו. $2\tan 4x = 1$

**6)** כתוב את הפתרון הכללי של המשוואות הבאות (ארגומנט מורכב):

א. $\sin(2x+30°) = -\frac{\sqrt{3}}{2}$ ב. $\cos(75°-3x) = \frac{\sqrt{2}}{2}$ ג. $\tan(50°-x) = 1.3$

**7)** כתוב את הפתרון הכללי של המשוואות הבאות (פונקציות עם ארגומנטים שונים):

א. $\sin x = \sin 3x$ ב. $\sin 2x = \sin(x+30°)$

ג. $\sin x = \sin(120°-x)$ ד. $\cos x = \cos 3x$

ה. $\cos x = \cos(40°-x)$ ו. $\tan x = \tan 3x$

ז. $\tan 2x = \tan(60°-x)$

**8)** כתוב את הפתרון הכללי של המשוואות הבאות (משוואות מיוחדות):

א. $\sin x = 0$ ב. $\sin x = 1$

ג. $\sin x = -1$ ד. $\cos x = 0$

ה. $\cos x = 1$ ו. $\cos x = -1$

ז. $\tan x = 0$ ח. $\tan x = 1$

## תשובות סופיות:

1) א. $x_1 = 30° + 360°k \ , x_2 = 150° + 360°k$
ב. $x_1 = 45° + 360°k \ , x_2 = 135° + 360°k$
ג. $x_1 = -60° + 360°k \ , x_2 = 240° + 360°k$
ד. $x_1 = -30° + 360°k \ , x_2 = 210° + 360°k$ .

2) א. $x_{1,2} = \pm 60° + 360°k$
ב. $x_{1,2} = \pm 150° + 360°k$ .

3) א. $x = 30° + 180°k$
ב. $x = 135° + 180°k$ .

4) א. $x_1 = 44.427° + 360°k \ , x_2 = 135.573° + 360°k$
ב. $x_{1,2} = 126.87° + 360°k$
ג. $x = 78.69° + 180°k$ .

5) א. $x_1 = 10° + 120°k \ , x_2 = 50° + 120°k$
ב. $x_1 = 75° + 180°k \ , x_2 = -75° + 180°k$
ג. $x = -9° + 36°k$
ד. $x_1 = 20.9° + 180°k \ , x_2 = 69.09° + 180°k$
ה. $x_{1,2} = \pm 23.5° + 120°k$
ו. $x = 6.64° + 45°k$ .

6) א. $x_1 = 105° + 180°k \ , x_2 = -45° + 180°k$
ב. $x_1 = 10° + 120°k \ , x_2 = 40° + 120°k$
ג. $x = -2.431° + 180°k$ .

7) א. $x_1 = 180°k \ , x_2 = 45° + 90°k$
ב. $x_1 = 30° + 360°k \ , x_2 = 50° + 120°k$
ג. $x = 60° + 180°k$
ד. $x = 90°k$
ה. $x = 20° + 180°k$
ו. $x = 180°k$
ז. $x = 20° + 60°k$ .

8) א. $x = 180°k$
ב. $x = 90° + 360°k$
ג. $x = 180° + 360°k$
ד. $x = 90° + 180°k$
ה. $x = 360°k$
ו. $x = 180° + 360°k$
ז. $x = 180°k$
ח. $x = 45° + 180°k$ .

# משוואות הנפתרות ע"י טכניקה אלגברית:

## סיכום כללי:

נעזר בטכניקה אלגברית בכדי להביא משוואה מורכבת לצורה של משוואה יסודית.

### טכניקות שכיחות:

- הוצאת שורש ריבועי.
- פירוק לגורמים (ע"י הוצאת גורם משותף, ע"י נוסחאות הכפל המקוצר וע"י פירוק טרינום).
- פתרון משוואה ריבועית.

## שאלות:

כתוב את הפתרון הכללי של המשוואות הבאות (טכניקה אלגברית):

1) $\cos^2 x = \frac{3}{4}$

2) $\sin^2 x = \frac{1}{4}$

3) $\tan^2 2x = 3$

4) $\sin x \cos 3x = 0$

5) $\sin 2x - 2\sin^2 2x = 0$

6) $2\cos^2 x + \sqrt{3}\cos x = 0$

7) $2\sin^2 x - \sin x - 1 = 0$

8) $3\sin^2 x - \sin x = 2$

9) $6\sin^2 x - \sin x - 1 = 0$

10) $\cos^2 x + 2\cos x = 3$

11) $\tan^2 x - 3\tan x - 4 = 0$

12) $\tan^2 x = 4\tan x - 1$

13) $\cos x - \frac{2}{\cos x} + 1 = 0$

14) $\frac{\sin x}{\cos x - 1} = 0$

15) $\frac{\cos 2x}{\tan x + 1} = 0$

## תשובות סופיות:

1) $x_{1,2}=\pm 30^\circ+360^\circ k$ , $x_{3,4}=\pm 150^\circ+360^\circ k$ .

2) $x_1=30^\circ+360^\circ k$ , $x_2=150^\circ+360^\circ k$ , $x_3=330^\circ+360^\circ k$ , $x_4=210^\circ+360^\circ k$ .

3) $x_1=30^\circ+90^\circ k$ , $x_2=-30^\circ+90^\circ k$ .

4) $x_1=180^\circ k$ , $x_2=30^\circ+60^\circ k$ .

5) $x_1=90^\circ k$ , $x_2=15^\circ+180^\circ k$ , $x_3=75^\circ+180^\circ k$ .

6) $x_1=90^\circ+180^\circ k$ , $x_{2,3}=\pm 150^\circ+360^\circ k$ .

7) $x_1=90^\circ+360^\circ k$ , $x_2=210^\circ+360^\circ k$ , $x_3=-30^\circ+360^\circ k$ .

8) $x_1=90^\circ+360^\circ k$ , $x_2=-41.8^\circ+360^\circ k$ , $x_3=221.8^\circ+360^\circ k$ .

9) $x_1=30^\circ+360^\circ k,\ x_2=150^\circ+360^\circ k,\ x_3=-19.4^\circ+360^\circ k,\ x_4=199.4^\circ+360^\circ k$ .

10) $x=360^\circ k$ .

11) $x_1=-45^\circ+180^\circ k$ , $x_2=75.964^\circ+180^\circ k$ .

12) $x_1=75^\circ+180^\circ k$ , $x_2=15^\circ+180^\circ k$ .

13) $x=360^\circ k$ .

14) $x=180^\circ+360^\circ k$ .

15) $x=45^\circ+90^\circ k$ , $x\neq -45^\circ+180^\circ k$ .

# משוואות הנפתרות ע"י זהויות יסוד:

## סיכום כללי:

כאשר משוואה מכילה יותר מפונקציה טריגונומטרית אחת, יש תחילה להעביר אותה למשוואה שקולה המכילה פונקציה טריגונומטרית אחת.
לאחר מכן ניתן לבצע פעולות אלגבריות בכדי לקבל משוואות יסודיות ולכתוב את הפתרון עבור כל אחת. לשם כך נעזר בזהויות טריגונומטריות.

**תזכורת – זהויות היסוד הטריגונומטריות:**

| | | |
|---|---|---|
| **קשרים בין פונקציות** | $\tan\alpha=\frac{\sin\alpha}{\cos\alpha}$ , $\cot\alpha=\frac{\cos\alpha}{\sin\alpha}$ | $\sin^2\alpha+\cos^2\alpha=1$<br>$\tan\alpha\cdot\cot\alpha=1$ |
| **זוויות משלימות ל-** $90°$ | $\cos\alpha=\sin(90°-\alpha)$ | $\sin\alpha=\cos(90°-\alpha)$ |
| | $\cot\alpha=\tan(90°-\alpha)$ | $\tan\alpha=\cot(90°-\alpha)$ |
| **קשרים בין פונקציות** | $\cot^2\alpha+1=\frac{1}{\sin^2\alpha}$ | $\tan^2\alpha+1=\frac{1}{\cos^2\alpha}$ |

## שאלות:

כתוב את הפתרון הכללי של המשוואות הבאות:

1) $\sin x=\cos x$

2) $\sin x=\cos(x+45°)$

3) $\cos x=\frac{2}{3}\sin^2 x$

4) $2\cos^2 x=3\sin x$

5) $\sin^2 x-\cos x=\frac{1}{4}$

6) $\cos^2 x-\sin^2 x=\sin x$

7) $\sin^2 x+2\cos^2 x=1.5$

8) $\sin x-\tan x=0$

## תשובות סופיות:

1) $x = 45° + 180°k$ .
2) $x = 22.5° + 180°k$ .
3) $x_{1,2} = \pm 60° + 360°k$ .
4) $x_1 = 30° + 360°k$ , $x_2 = 150° + 360°k$ .
5) $x_{1,2} = \pm 60° + 360°k$ .
6) $x_1 = 30° + 120°k$ , $x_2 = -90° + 360°k$
7) $x_{1,2} = \pm 45° + 360°k$ , $x_{3,4} = \pm 135° + 360°k$ .
8) $x = 180°k$ .

# משוואות הנפתרות ע"י זהויות של מעגל היחידה:

## סיכום כללי:

כאשר משוואה מכילה יותר מפונקציה טריגונומטרית אחת, יש תחילה להעביר אותה למשוואה שקולה המכילה פונקציה טריגונומטרית אחת.
לאחר מכן ניתן לבצע פעולות אלגבריות בכדי לקבל משוואות יסודיות ולכתוב את הפתרון עבור כל אחת. לשם כך נעזר בזהויות טריגונומטריות.

**תזכורת – זהויות של מעגל היחידה:**

| רביע | סינוס | קוסינוס | טנגנס |
|---|---|---|---|
| I<br>II<br>III | $\sin(180^o-\alpha)=\sin\alpha$<br>$\sin(180^o+\alpha)=-\sin\alpha$ | $\cos(180^o-\alpha)=-\cos\alpha$<br>$\cos(180^o+\alpha)=-\cos\alpha$<br>$\cos(-\alpha)=\cos\alpha$ | $\tan(180^o-\alpha)=-\tan\alpha$<br>$\tan(180^o+\alpha)=\tan\alpha$<br>$\tan(-\alpha)=-\tan\alpha$ |
| סימנים | 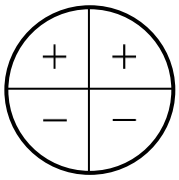 | 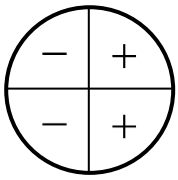 | 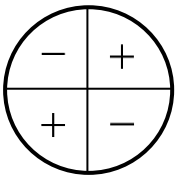 |

**זהויות עבור זוויות הגדולות מ-360 מעלות:**

$$\boxed{\begin{aligned}\tan(\alpha+180°k)&=\tan\alpha\\ \cot(\alpha+180°k)&=\cot\alpha\end{aligned}}\quad,\quad\boxed{\begin{aligned}\sin(\alpha+360°k)&=\sin\alpha\\ \cos(\alpha+360°k)&=\cos\alpha\end{aligned}}$$

## שאלות:

כתוב את הפתרון הכללי של המשוואות הבאות:

1) $\sin x=-\sin 3x$
2) $\cos 2x=-\cos 3x$
3) $\sin(x+30°)=-\cos x$
4) $\sin 3x=-\cos(180°-x)$

## תשובות סופיות:

1) $x_1=90°k\ ,\ x_2=-90°+180°k$
2) $x_1=180°+360°k\ ,\ x_2=36°+72°k$
3) $x=120°+180°k$
4) $x_1=22.5°+90°k\ ,\ x_2=45°+180°k$

# משוואות הנפתרות על ידי חלוקה בקוסינוס:

## סיכום כללי:

טכניקה יעילה כדי להעביר משוואה מהצורה: $\sin x = a\cos x$ לפונקציה טריגונומטרית אחת היא ע"י חלוקה ב-$\cos x$ (בתנאי ש-$\cos x \neq 0$).
כך מתקבלת המשוואה:

$$\sin x = a\cos x \quad / : \cos x \neq 0$$
$$\frac{\sin x}{\cos x} = a\frac{\cos x}{\cos x}$$
$$\tan x = a$$
$$x = \tanh^{-1}(a) + 180°k$$

**הערה:**

יש לבדוק האם ערכי $x$ שמקיימים $\cos x = 0$ מהווים פתרון למשוואה.
אם כן אז יש להוסיף אותם לפתרון הסופי.

## שאלות:

כתוב את הפתרון הכללי של המשוואות הבאות:

1) $\sin x = 2\cos x$
2) $3\sin x = \cos x$
3) $4\sin x = 7\cos x$
4) $2\sin x = -5\cos x$
5) $\sin^2 x = 8\cos^2 x$
6) $3\sin^2 x = \cos^2 x$

## תשובות סופיות:

1) $x = 63.43° + 180°k$.
2) $x = 18.43° + 180°k$.
3) $x = 60.25° + 180°k$.
4) $x = -68.19° + 180°k$.
5) $x_1 = 70.52° + 180°k$ , $x_2 = -70.52° + 180°k$.
6) $x_1 = 30° + 180°k$ , $x_2 = -30° + 180°k$.

# משוואות הנפתרות על ידי זהויות של סכום והפרש זוויות:

## סיכום כללי:

כאשר משוואה מכילה יותר מפונקציה טריגונומטרית אחת, יש תחילה להעביר אותה למשוואה שקולה המכילה פונקציה טריגונומטרית אחת.
לאחר מכן ניתן לבצע פעולות אלגבריות בכדי לקבל משוואות יסודיות ולכתוב את הפתרון עבור כל אחת. לשם כך נעזר בזהויות טריגונומטריות.

**תזכורת – זהויות של סכום והפרש זוויות:**

| | |
|---|---|
| **סכום והפרש עבור סינוס וקוסינוס** | $\sin(\alpha\pm\beta)=\sin\alpha\cos\beta\pm\sin\beta\cos\alpha$<br>$\cos(\alpha\pm\beta)=\cos\alpha\cos\beta\mp\sin\alpha\sin\beta$ |
| **סכום והפרש עבור טנגנס וקוטנגנס** | $\tan(\alpha\pm\beta)=\dfrac{\tan\alpha\pm\tan\beta}{1\mp\tan\alpha\tan\beta}$<br>$\cot(\alpha\pm\beta)=\dfrac{\cot\alpha\cot\beta\mp1}{\cot\beta\pm\cot\alpha}$ |

## שאלות:

כתוב את הפתרון הכללי של המשוואות הבאות:

1) $2\sin x=\sin(60°-x)$

2) $\sin(x+45°)\sin(x-45°)=\frac{1}{2}$

3) $\frac{\cos 3x}{\sin x}-\frac{\sin 3x}{\cos x}=2$

4) $3\cos^2 x-\sin^2 x=\sin 3x$

## תשובות סופיות:

1) $x=19.11°+180°k$ .

2) $x=90°+180°k$ .

3) $x=15°+60°k$ .

4) $x_{1,2}=\pm60°+180°k$ , $x_3=90°+360°k$ .

# משוואות הנפתרות ע"י זהויות של זווית כפולה:

## סיכום כללי:

כאשר משוואה מכילה יותר מפונקציה טריגונומטרית אחת, יש תחילה להעביר אותה למשוואה שקולה המכילה פונקציה טריגונומטרית אחת.
לאחר מכן ניתן לבצע פעולות אלגבריות בכדי לקבל משוואות יסודיות ולכתוב את הפתרון עבור כל אחת. לשם כך נעזר בזהויות טריגונומטריות.

**תזכורת – זהויות של זווית כפולה:**

| | |
|---|---|
| **סינוס זווית כפולה** | $\sin 2\alpha = 2\sin\alpha\cos\alpha$ |
| **קוסינוס זווית כפולה** | $\cos 2\alpha = \cos^2\alpha - \sin^2\alpha = 2\cos^2\alpha - 1 = 1 - 2\sin^2\alpha$ |

## שאלות:

כתוב את הפתרון הכללי של המשוואות הבאות:

1) $\sin x - \sin 2x = 0$
2) $\sqrt{2}\sin x + \sin 2x = 0$
3) $4\cos x = \sin 2x$
4) $2\cos 2x + \sin 4x = 0$
5) $3\cos x - \cos 2x = 0$
6) $\cos 2x = 2\sin x$
7) $\sin x + \cos 2x = 1$
8) $2\sin^2 x = \cos 2x + 2$

## תשובות סופיות:

1) $x_1 = 360°k$ , $x_2 = 60° + 120°k$
2) $x_1 = 180°k$ , $x_{2,3} = \pm 135° + 360°k$
3) $x = 90° + 180°k$
4) $x_1 = 45° + 90°k$ , $x_2 = 135° + 180°k$
5) $x_{1,2} = \pm 106.307° + 360°k$
6) $x_1 = 21.1° + 360°k$ , $x_2 = 158.9° + 360°k$
7) $x_1 = 180°k$ , $x_2 = 30° + 360°k$ , $x_3 = 150° + 360°k$ .
8) $x_1 = -60 + 360°k$ , $x_2 = 60° + 360°k$ , $x_3 = 120° + 360°k$ , $x_4 = 240° + 360°k$ .

# משוואות מהצורה: a sin(x) + b cos(x) = c :

## סיכום כללי:

ניתן להביא משוואה מהצורה: $a\sin x+b\cos x=c$ לצורה: $\sin x+\frac{b}{a}\cos x=\frac{c}{a}$.

מציאת זווית $\alpha$ המקיימת: $\alpha=\tan^{-1}\left(\frac{b}{a}\right)$ תאפשר לכתוב: $\sin x+\tan\alpha\cdot\cos x=\frac{c}{a}$.

שימוש בזהות: $\tan\alpha=\frac{\sin\alpha}{\cos\alpha}$ ובזהות: $\sin(\alpha+\beta)=\sin\alpha\cos\beta+\sin\beta\cos\alpha$ יובילו:

$$\sin x+\frac{\sin\alpha}{\cos\alpha}\cdot\cos x=\frac{c}{a}\quad /\cdot\cos\alpha$$

$$\sin x\cos\alpha+\sin\alpha\cos x=\frac{c}{a}\cos\alpha$$

$$\sin(x+\alpha)=\frac{c}{a}\cos\alpha$$

אם נסמן: $\frac{c}{a}\cos\alpha=k$ נקבל את המשוואה: $\sin(x+\alpha)=k$ כאשר $\alpha$ ו- $k$ ידועים.
מכאן הפתרון הוא ישיר לפי משוואת סינוס.

## שאלות:

פתור את המשוואות הבאות:

1) $10\sin x+3\cos x=5$

2) $5\cos x-6\sin x=1$

3) $\sqrt{3}\sin 2x+3\cos 2x=\sqrt{12}$

4) $\frac{1}{2}\sin x+\sqrt{3}\cos^2\frac{x}{2}=\cos\frac{x}{2}$

5) $\cos x+\cos(60°+x)=\sqrt{2}+\cos(60°-x)$

## תשובות סופיות:

1) $x_1=11.91°+360°k\ ,\ x_2=134.69°+360°k$

2) $x_1=227.156°+360°k\ ,\ x_2=32.44°+360°k$

3) $x=15°+180°k$

4) $x_1=-60°+720°k\ ,\ x_2=180°+360°k$

5) $x_1=-105°+360°k\ ,\ x_2=15°+360°k$

# משוואות הנפתרות ע"י זהויות של סכום והפרש פונקציות:

## סיכום כללי:

כאשר משוואה מכילה יותר מפונקציה טריגונומטרית אחת, יש תחילה להעביר אותה למשוואה שקולה המכילה פונקציה טריגונומטרית אחת.
לאחר מכן ניתן לבצע פעולות אלגבריות בכדי לקבל משוואות יסודיות ולכתוב את הפתרון עבור כל אחת. לשם כך נעזר בזהויות טריגונומטריות.

**תזכורת – זהויות של סכום והפרש פונקציות:**

| | |
|---|---|
| **סכום והפרש פונקציות עבור סינוס** | $\sin\alpha+\sin\beta=2\sin\frac{\alpha+\beta}{2}\cos\frac{\alpha-\beta}{2}$<br>$\sin\alpha-\sin\beta=2\sin\frac{\alpha-\beta}{2}\cos\frac{\alpha+\beta}{2}$ |
| **סכום והפרש פונקציות עבור קוסינוס** | $\cos\alpha+\cos\beta=2\cos\frac{\alpha+\beta}{2}\cos\frac{\alpha-\beta}{2}$<br>$\cos\alpha-\cos\beta=-2\sin\frac{\alpha+\beta}{2}\sin\frac{\alpha-\beta}{2}$ |

## שאלות:

כתוב את הפתרון הכללי של המשוואות הבאות:

1) $\sin x+\sin 3x=\sin 2x$.

2) $\cos 2x-\cos 6x=\sin 2x$.

3) $\sin x+\sin 3x=4\sin^3 x$.

4) $\sin 6x-\sin 4x=1-\cos 2x$.

5) $(\sin 5x+\sin 7x)^2=(\cos 5x+\cos 7x)^2$.

6) $2\cos^2\frac{x}{2}+\cos 3x+\cos 5x=1$.

7) $1+\sin x+\sin 7x=\cos 8x$.

8) $2\sin 3x(\cos 2x+\cos x)=\sin x+\sin 2x$.

9) $\sin(x+60^\circ)-\sin x=\sin(2x+60^\circ)-\sin 2x$.

10) $\cos^2 3x - \cos^2 x = \sin x \cos x$.

11) $\sin 8x \sin 2x + \cos 10x = 0$.

12) $\cos x + 3\sin x = 1 + 2\cos\frac{3x}{2}\cos\frac{x}{2}$.

13) $4\sin 2x \sin 5x \sin 7x - \sin 4x = 0$.

14) $4\cos x \cos 2x \cos 3x = 1$.

## תשובות סופיות:

1) $x_{1,2} = \pm 60° + 360°k$ , $x_3 = 90°k$.

2) $x_1 = 45° + 90°k$ , $x_2 = 180°k$.

3) $x_1 = 37.5° + 90°k$ , $x_2 = 7.5° + 90°k$ , $x_3 = 90°k$.

4) $x_1 = 15° + 60°k$ , $x_2 = 180°k$ , $x_3 = -22.5° + 90°k$.

5) $x_1 = 36°k$ , $x_2 = \left(\frac{180}{7}\right)° + \left(\frac{180}{7}\right)°k$.

6) $x_{1,2} = \pm 30° + 90°k$ , $x_3 = 90° + 180°k$.

7) $x_1 = -\left(12\frac{6}{7}\right)°k + \left(51\frac{3}{7}\right)°k$ , $x_2 = 45°k$.

8) $x_1 = 40°k$ , $x_2 = 180° + 360°k$.

9) $x_1 = -20° + 120°k$ , $x_2 = 360°k$.

10) $x_1 = 52.5° + 90°k$ , $x_2 = -7.5° + 90°k$ , $x_3 = 90°k$.

11) $x_1 = 45° + 90°k$ , $x_2 = 11.25° + 22.5°k$.

12) $x_1 = 30° + 360°k$ , $x_2 = 150° + 360°k$.

13) $x_1 = 7.5° + 15°k$ , $x_2 = 90°k$.

14) $x_1 = 60° + 180°k$ , $x_2 = 22.5 + 45°k$.

# משוואות עם תחום נתון:

## סיכום כללי:

כדי למצוא את הפתרונות של משוואה טריגונומטרית בתחום נתון, נמצא תחילה את הפתרון הכללי שלה ולאחר מכן נציב ערכים ב- $k$ ונבחר את הערכים שנמצאים בתחום הנתון.

## שאלות:

מצא את כל הפתרונות של המשוואות הבאות בתחום הנתון לידן:

1) $8\sin x-4=0$ , $[0°:180°]$.
2) $\sin 2x=\sin(x+60°)$ , $[-90°:90°]$.
3) $3\cos(2x+30°)+1=0$ , $[-90°:90°]$.
4) $\cos(50°-x)=-\cos x$ , $[0°:360°]$.
5) $2\sin 3x-5\cos 3x=0$ , $[-30°:30°]$.
6) $2\cos^2 3x=\sin 6x+1$ , $[0°:180°]$.
7) $\cos 4x+1=3\sin 2x$ , $[-180°:180°]$.
8) $\cos 2x+\cos^2 x+\sin x=0$ , $[-180°:180°]$.

## תשובות סופיות:

1) $x=30°\ ,\ 150°$.
2) $x=-80°\ ,\ 40°\ ,\ 60°$.
3) $x=39.736°\ ,\ -69.736°$.
4) $x=115°\ ,\ 295°$.
5) $x=22.733°$.
6) $x=7.5°\ ,\ 37.5°\ ,\ 67.5°\ ,\ 97.5°\ ,\ 127.5°\ ,\ 157.5°$.
7) $x=-165°\ ,\ -105°\ ,\ 15°\ ,\ 75°$.
8) $x=-138.19°\ ,\ -41.81°\ ,\ 90°$.

# משוואות עם זוויות ברדיאנים:

## סיכום כללי:

**הגדרת הרדיאן:**

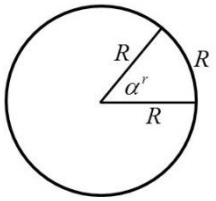


זווית של רדיאן אחד מוגדרת להיות הזווית המרכזית המתאימה לקשת שאורכה שווה לרדיוס המעגל.

עבור מעגל שרדיוסו $R$, תימצאנה $2\pi$ רדיאנים על היקפו, שכן היקף מעגל הוא $P=2\pi\cdot R$.

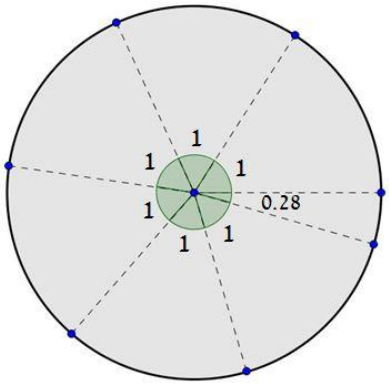


באיור שלפניך ניתן לראות חלוקה של מעגל ל-$2\pi=6.28$ קשתות אשר שוות לרדיוס המעגל.
הזווית של כל קשת כזאת שווה לרדיאן אחד,
כאשר הזווית האחרונה שווה ל-0.28 מרדיאן.
מקבלים $2\pi$ רדיאנים.

**קשר בין רדיאנים למעלות:**

- נוסחת מעבר מזווית $\alpha^\circ$ (במעלות) לזווית $\alpha^r$ (ברדיאנים): $\alpha^r=\frac{\pi}{180}\alpha^\circ$.
- נוסחת מעבר מזווית $\alpha^r$ (ברדיאנים) לזווית $\alpha^\circ$ (במעלות): $\alpha^\circ=\frac{180}{\pi}\alpha^r$.

**פתרונות משוואות טריגונומטריות ברדיאנים:**

להלן נוסחאות הפתרון של המשוואות הטריגונומטריות היסודיות כאשר $x$ הוא משתנה ו- $\alpha$ היא זווית ידועה הנתונה ברדיאנים:

| המשוואה | הפתרון |
|---|---|
| $\sin x=\sin\alpha$ | $x_1=\alpha+2\pi k\ ,\ x_2=\pi-\alpha+2\pi k$ |
| $\cos x=\cos\alpha$ | $x_{1,2}=\pm\alpha+2\pi k$ |
| $\tan x=\tan\alpha$ | $x=\alpha+\pi k$ |
| $\cot x=\cot\alpha$ | $x=\alpha+\pi k$ |

כאשר $k$ מספר שלם.

## שאלות:

**1)** המר את הזוויות הבאות ממעלות לרדיאנים:

| | | | |
|---|---|---|---|
| א. $30°$ | ב. $90°$ | ג. $75°$ | ד. $120°$ |
| ה. $210°$ | ו. $315°$ | ז. $18°$ | ח. $285°$ |
| ט. $-15°$ | י. $-80°$ | יא. $510°$ | יב. $-390°$ |

**2)** המר את הזוויות הבאות מרדיאנים למעלות:

| | | | |
|---|---|---|---|
| א. $\pi$ | ב. $2\pi$ | ג. $4\pi$ | ד. $1.5\pi$ |
| ה. $\frac{1}{2}\pi$ | ו. $\frac{\pi}{4}$ | ז. $\frac{\pi}{6}$ | ח. $\frac{1}{18}\pi$ |
| ט. $\frac{13}{18}\pi$ | י. $\frac{19}{12}\pi$ | יא. $1\frac{1}{6}\pi$ | יב. $2\frac{1}{4}\pi$ |

**3)** פתור את המשוואות הבאות בתחום שלידן (משוואות יסודיות שונות):

א. $2\sin 3x=1$ , $\left[0:\frac{1}{3}\pi\right]$

ב. $\sqrt{3}+2\cos x=0$ , $[0:\pi]$

ג. $3-3\tan\frac{x}{2}=0$ , $[0:2\pi]$

ד. $\sin\left(2x-\frac{\pi}{4}\right)=\frac{\sqrt{2}}{2}$ , $[0:\pi]$

ה. $4\cos\left(x+\frac{\pi}{3}\right)-2=0$ , $\left[0:\frac{1}{2}\pi\right]$

ו. $\sin x=\sin\left(\frac{2}{3}\pi-2x\right)$ , $\left[-\frac{5\pi}{18}:\frac{5\pi}{18}\right]$

ז. $5-5\tan(4x-0.1\pi)=0$ , $\left[0:\frac{\pi}{3}\right]$

ח. $\sin\left(2x-\frac{\pi}{5}\right)=0.7$ , $\left[-\frac{\pi}{4}:\frac{\pi}{4}\right]$

**4)** פתור את המשוואות הבאות בתחום שלידן (טכניקה אלגברית):

א. $\sin^2 x=\frac{3}{4}$ , $\left[0:\frac{\pi}{2}\right]$

ב. $16\cos^2 2x-1=0$ , $\left[-\frac{\pi}{8}:\frac{\pi}{8}\right]$

ג. $2\tan^2 x-18=0$ , $[0:\pi]$

ד. $3\sin x\cos x+3\cos x=0$ , $\left[-\frac{\pi}{3}:\frac{\pi}{3}\right]$

ה. $\sin^2 x-5\sin x\cos x=0$ , $\left[-\frac{\pi}{2}:\frac{\pi}{2}\right]$

ו. $2\sin^2 x-5\sin x+2=0$ , $[-\pi:\pi]$

ז. $4\cos^2 x-\sqrt{2}\cos x-1=0$ , $[-\pi:0]$

ח. $\tan^2 x-7\tan x+10=0$ , $[0:2\pi]$

**5)** פתור את המשוואות הבאות בתחום שלידן (שימוש בזהויות יסוד):

א. $0 \le x \le \pi \ , \ \sin x = \cos\left(x + \frac{\pi}{4}\right)$

ב. $0 \le x \le \pi \ , \ \tan x = 4\sin x$

ג. $0 \le x \le 2\pi \ , \ 2\sin^2 x = 3\cos x$

**6)** פתור את המשוואות הבאות בתחום שלידן (שימוש בזהויות ממעגל היחידה):

א. $[-\pi : \pi] \ , \ \sin\left(x - \frac{\pi}{6}\right) = -\sin x$

ב. $[0 : \pi] \ , \ \sin\left(2x + \frac{2}{9}\pi\right) = -\cos 2x$

ג. $[0 : \pi] \ , \ \sin 4x = -\cos(\pi - x)$

ד. $\left[-\frac{\pi}{2} : \frac{\pi}{2}\right] \ , \ \tan x = -\tan 2x$

**7)** פתור את המשוואות הבאות בתחום שלידן (זהויות של זווית כפולה):

א. $-\pi \le x \le \pi \ , \ \sin 2x + \cos^2 x = 0$

ב. $[-\pi : \pi] \ , \ \cos 4x + 1 = 3\sin 2x$

ג. $-\frac{\pi}{2} \le x \le \frac{\pi}{2} \ , \ 2\sin^2 x = \cos 2x + 2$

ד. $0 \le x \le \pi \ , \ \cos 4x + \sin^2 x = 1$

## תשובות סופיות:

1) א. $\frac{\pi}{6}$ ב. $\frac{\pi}{2}$ ג. $\frac{5\pi}{12}$ ד. $\frac{2\pi}{3}$ ה. $\frac{7\pi}{6}$

ו. $\frac{7\pi}{4}$ ז. $\frac{\pi}{10}$ ח. $\frac{19\pi}{12}$ ט. $-\frac{\pi}{12}$ י. $-\frac{4\pi}{9}$

יא. $\frac{17\pi}{6}$ יב. $-\frac{13\pi}{6}$.

2) א. $180°$ ב. $360°$ ג. $720°$ ד. $270°$ ה. $90°$

ו. $45°$ ז. $30°$ ח. $10°$ ט. $130°$ י. $285°$

יא. $210°$ יב. $405°$.

3) א. $\frac{5\pi}{18}$ , $x=\frac{\pi}{18}$ ב. $x=\frac{5\pi}{6}$ ג. $x=\frac{\pi}{2}$ ד. $\frac{\pi}{2}$ , $x=\frac{\pi}{4}$

ה. $x=0$ ו. $x=\frac{2\pi}{9}$ ז. $x=0.0875\pi$ ח. $x=0.224\pi$.

4) א. $x=\frac{\pi}{3}$ ב. $\phi$ ג. $x=0.398\pi, 0.602\pi$ ד. $\phi$

ה. $x=0, 0.437\pi$ ו. $\frac{5\pi}{6}$ , $x=\frac{\pi}{6}$

ז. $-0.615\pi$ , $x=-\frac{\pi}{4}$ ח. $1.437\pi$ , $1.352\pi$ , $0.437\pi$ , $x=0.352\pi$.

5) א. $x=\frac{\pi}{8}$ ב. $\pi$ , $0.42\pi$ , $x=0$ ג. $\frac{5\pi}{3}$ , $x=\frac{\pi}{3}$

6) א. $-\frac{11\pi}{12}$ , $x=\frac{\pi}{12}$ ב. $\frac{59\pi}{72}$ , $x=\frac{23\pi}{72}$

ג. $\frac{9\pi}{10}$ , $\frac{5\pi}{6}$ , $\frac{\pi}{2}$ , $\frac{\pi}{6}$ , $x=\frac{\pi}{10}$ ד. $0$ , $x=\pm\frac{\pi}{3}$.

7) א. $0.852\pi$ , $-0.148\pi$ , $x=\pm\frac{\pi}{2}$ ב. $\frac{11\pi}{12}$ , $\frac{5\pi}{12}$ , $\frac{\pi}{12}$ , $x=-\frac{7\pi}{12}$

ג. $x=\pm\frac{\pi}{3}$ ד. $\pi$ , $0.61\pi$ , $0.38\pi$ , $x=0$.

# אי שוויונים טריגונומטריים:

## סיכום כללי:

כדי לפתור אי-שוויון טריגונומטרי בתחום מסוים נבצע את השלבים הבאים:

1. נהפוך את סימן אי השוויון לסימן שוויון ונפתור את המשוואה המתקבלת.
2. נסדר את כל הפתרונות על ציר מספרים ונבחר ערך בכל תחום.
3. נציב את הערכים באי השוויון המקורי ונאמר כי:
   - אם מתקבל פסוק אמת אז תחום זה מהווה פתרון של אי השוויון.
   - אם מתקבל פסוק שקר אז תחום זה אינו פתרון של אי השוויון.
4. נרכז את כל התחומים ונכתוב את הפתרון המלא.

**הערה:**

במידה והמשוואה אינה מוגדרת עבור ערך מסוים הערך הזה מוכנס גם לציר המספרים.

## שאלות:

פתור את אי השוויונים הבאים בתחום הרשום לידם:

**1)** $\sin x < \frac{1}{2}$ $[0,180°]$

**2)** $2\cos x - \sqrt{3} \geq 0$ $[0,1.5\pi]$

**3)** $2\cos^2 x + \sin x \geq 1$ $(-90°,90°)$

**4)** $\sin x + \sin 2x + \sin 3x < 0$ $[0,\pi]$

**5)** $1 < 2\sin(x+10°) < \sqrt{3}$ $[0°,180°]$

**6)** $\sin x + \sqrt{3}\cos x \geq 1$ $(0 < x < \pi)$

**7)** $\tan x + \cot x > 0$ $[0,2\pi]$

**8)** $|\tan(x)| > \frac{1}{\sqrt{3}}$ $(-\pi < x < \pi)$

## תשובות סופיות:

1) $0^\circ \le x < 30^\circ$ , $150^\circ \le x \le 180^\circ$ .

2) $0 \le x \le \frac{\pi}{6}$ .

3) $-30^\circ \le x < 90^\circ$ .

4) $\frac{\pi}{2} < x < \frac{2\pi}{3}$ .

5) $20^\circ < x < 50^\circ$ , $110^\circ < x < 140^\circ$ .

6) $0 < x \le \frac{\pi}{2}$ .

7) $0 < x < \frac{\pi}{2}$ , $\pi < x < \frac{3}{2}\pi$ .

8) $x \ne \frac{\pi}{2}$ , $\frac{\pi}{6} < x < \frac{5\pi}{6}$ או : $x \ne -\frac{\pi}{2}$ , $-\frac{5\pi}{6} < x < -\frac{\pi}{6}$ .

# קורס קדם במתמטיקה למהנדסים

## פרק 15 - טריגונומטריה במישור

### תוכן העניינים

1. שאלות יסודיות עם משפט הסינוסים והקוסינוסים ..... 234
2. שאלות העוסקות בנוסחת שטח משולש ..... 242

# שאלות יסודיות עם משפט הסינוסים והקוסינוסים:

## סיכום כללי:

**משפט הסינוסים:**

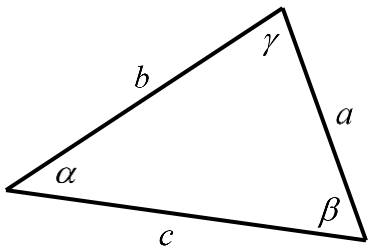


במשולש, צלע חלקי סינוס הזווית שמולה הוא גודל קבוע והוא שווה לפעמיים רדיוס המעגל החוסם.

בצורה מתמטית: $\frac{a}{\sin\alpha}=\frac{b}{\sin\beta}=\frac{c}{\sin\gamma}=2R$ .

**משפט הקוסינוסים:**

במשולש, ריבוע צלע אחת שווה לסכום ריבועי שתי הצלעות האחרות פחות מכפלתן בקוסינוס הזווית שבניהן: $c^2=a^2+b^2-2ab\cos\gamma$ או $\cos\gamma=\frac{a^2+b^2-c^2}{2ab}$ .

**מתי נשתמש בכל משפט:**

- נשתמש במשפט הסינוסים כאשר:
  - א. נתונות שתי זוויות וצלע.
  - ב. נתונות שתי צלעות והזווית מול אחת מהן.
  - ג. נתון רדיוס המעגל החוסם וצלע/זווית נוספת.

- נשתמש במשפט הקוסינוסים כאשר:
  - א. נתונות שתי צלעות והזווית ביניהן.
  - ב. נתונות שלוש צלעות.

- כאשר ישנם יותר נתונים מאשר בסעיפים שלהלן ייתכן שנוכל להשתמש בשני המשפטים. בבחירת המשפט שבו נשתמש כדאי לזכור שבמשפט הסינוסים ייתכנו שתי תשובות לזווית, גם אם בפועל רק אחת נכונה, ובמשפט הקוסינוסים תתקבל בוודאות הזווית הנכונה.

## שאלות:

**1)** מצא את ערכו של $a/x/y$ במשולשים הבאים
($R$ הוא רדיוס המעגל החוסם, נתוני הצלעות בס"מ):

א.

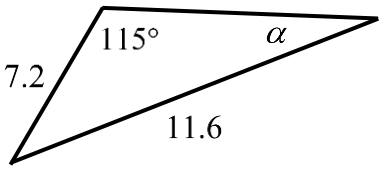


ב.

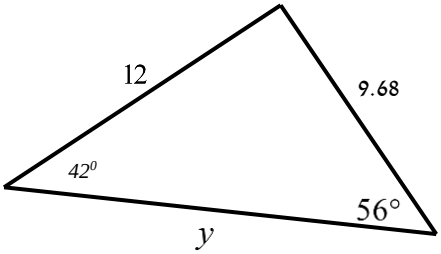


ג. רדיוס המעגל: $R=7$.

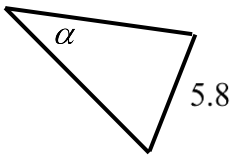


ד.

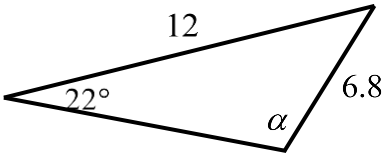


ה.

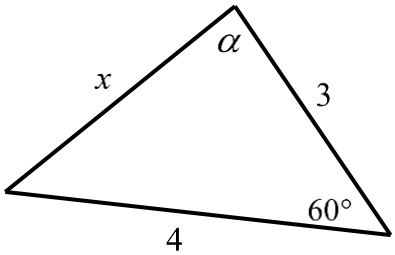


**2)** מצא את ערכו של $\alpha/x$ במשולשים הבאים:

א.

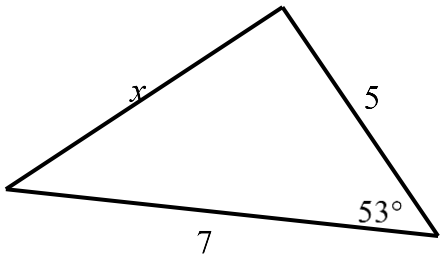


ב.

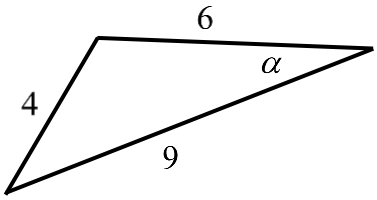


ג.

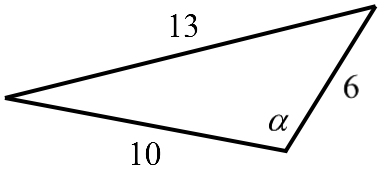


ד.

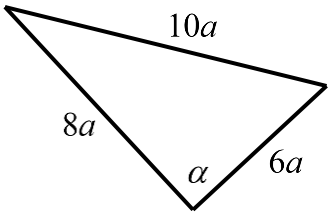

3) נתון משולש שווה שוקיים ABC (AB=AC) שאורך השוק שלו הוא 22 ס"מ
וגודלה של זווית הבסיס בו הוא 70° . CD הוא חוצה זווית הבסיס ∢C .
מצא את אורכו של הקטע AD.

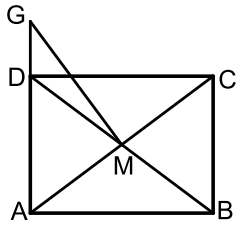


4) אלכסוני המלבן ABCD נפגשים בנקודה M.
הנקודה G נמצאת על המשך הצלע AD.
נתון: AD = 3 ס"מ , AB = 4 ס"מ , DG = 1.2 ס"מ.
מצא את גודלו של הקטע GM.

5) מרובע שאורכי אלכסוניו 8 ס"מ ו-11 ס"מ חסום במעגל
שאורך רדיוסו הוא 6 ס"מ.
חשב את זוויות המרובע.

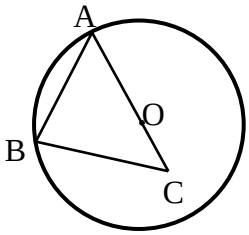


6) הצלע AB במשולש ABC היא מיתר במעגל שמרכזו O.
הצלע AC עוברת במרכז המעגל כמתואר בשרטוט.
נתון: BC = 9 ס"מ , OC = 3 ס"מ , $\sphericalangle BAC = 38°$ .
מצא את אורכם של רדיוס המעגל ושל הצלע AB.

7) אחד האלכסונים במקבילית יוצר זווית של 30° עם
צלע אחת של המקבילית וזווית של 61.05° עם הצלע הסמוכה לה.
אחת מצלעות המקבילית גדולה ב-3 ס"מ מהצלע הסמוכה לה.
חשב את היקף המקבילית.

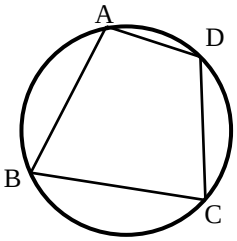


8) המרובע ABCD חסום במעגל.
נתון: AB = 6 ס"מ , BC = 9 ס"מ , CD = 10 ס"מ
ו-AD = 4 ס"מ.
מצא את אורכם של האלכסון AC ושל רדיוס המעגל.

**9)** BE ו-CF הם תיכונים במשולש ABC הנפגשים בנקודה M.
מהנקודה F מעבירים קטע GD כך שמתקיים: $AC = DC$ ו- $GD \parallel BE$.

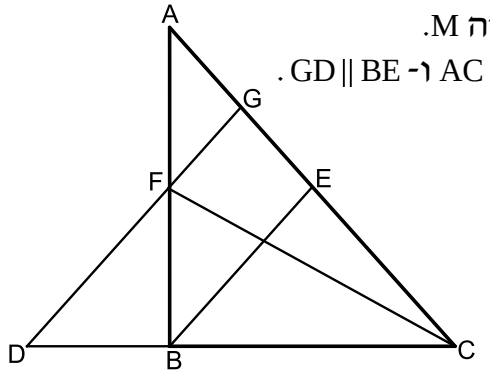


א. הוכח: $\frac{AG}{BD} = \frac{3}{4}$.

ב. נתון כי: 4 ס"מ = ME.
חשב את אורך הקטע DG.

ג. נתון כי: $\sphericalangle ACD = 48.189°$
הוכח כי המשולש DGC הוא שווה-שוקיים.

**10)** נתון משולש ABC. הקודקודים B ו-C של המשולש ABC נמצאים על מעגל שמרכזו O. מרכז המעגל O מונח על הצלע AC. אורך הצלע AB הוא 12 ס"מ ואורך הקטע AO הוא 4.5 ס"מ. זווית BAC היא $60°$.

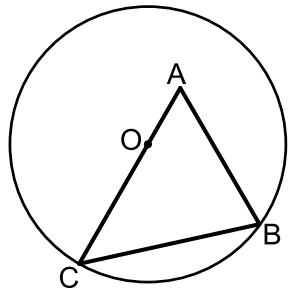


א. חשב את רדיוס המעגל.

ב. מעבירים את הקוטר BD ואת הקטע AD כך שנוצר המשולש ADB.
חשב את זווית ADB.

**11)** המשולש ABC הוא שווה שוקיים (AB = AC) החסום במעגל שרדיוסו $R$.
הנקודה E היא אמצע הבסיס BC והנקודה D היא אמצע הקשת $\overset{\frown}{AB}$.
ידוע כי זווית הבסיס של המשולש היא $80°$.

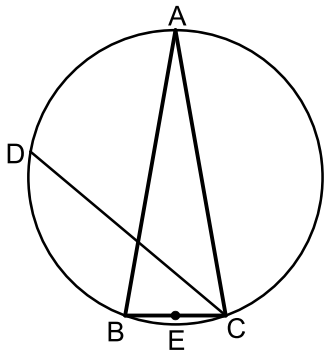


א. הבע באמצעות $R$ את הקטעים CD ו-DE.

ב. $r$ הוא רדיוס המעגל החוסם את המשולש CED.
הבע באמצעות $R$ את $r$.

**12)** AB, AC ו-AD הם מיתרים במעגל המקיימים: $\overset{\frown}{BC} = \overset{\frown}{BD}$.
מהנקודה E שעל המעגל מעבירים את המיתרים AE ו-BE.
המיתרים BE ו-AD נחתכים בנקודה F.
נתון כי: $AC = AF = EF$.

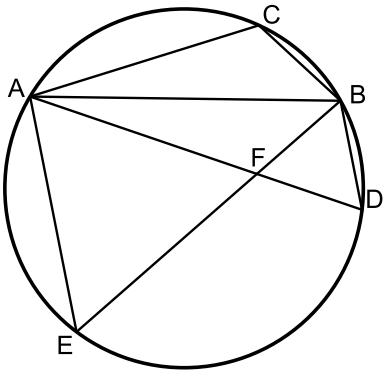


א. הוכח: $\Delta ABF \cong \Delta ABC$.

ב. נתון גם: $3 \cdot \sphericalangle CAB = \sphericalangle DAE$.
הוכח כי המשולש AFE הוא שווה צלעות.

**13)** המרובע ABCD הוא טרפז שווה שוקיים $(AB \parallel CD\ ,\ AD = BC)$.

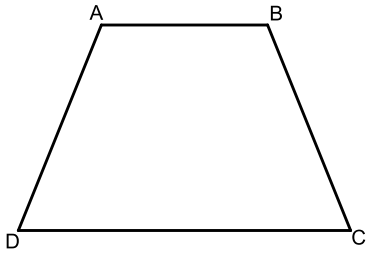


מידות הטרפז הן:

12 ס"מ = CD , 8 ס"מ= BC , 6 ס"מ = AB.

א. מצא את זווית C (עגל למספר שלם).

ב. מצא את אורך אלכסון הטרפז.

ג. חשב את רדיוס המעגל החוסם את הטרפז.

**14)** המרובע ABCD הוא טרפז ישר זווית $(AB \parallel CD\ ,\ \sphericalangle B = 90°)$.

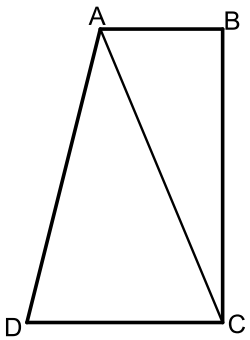


מסמנים את הבסיס: $AB = t$ וידוע כי: $DC = 1.6t$ , $AD = 3t$.

היקף הטרפז הוא: 40 ס"מ.

א. הבע באמצעות $t$ את אורך האלכסון AC.

ב. ידוע גם כי: $\sphericalangle D = 60°$.

i. חשב את אורך הקטע AC.

ii. חשב את שטח הטרפז.

**15)** המשולש ABC הוא שווה שוקיים (AB = AC) בעל זווית ראש 36° החסום במעגל שקוטרו 16 ס"מ. מעבירים תיכון לשוק BD.

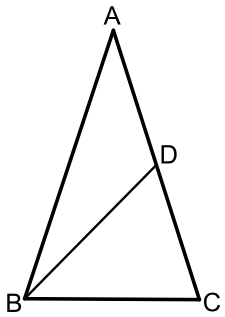


א. מצא את אורך הבסיס BC במשולש.

ב. חשב את אורך התיכון BD.

ג. מסמנים:

$r_1$ - רדיוס המעגל החוסם את המשולש ABD.

$r_2$ - רדיוס המעגל החוסם את המשולש BCD.

הוכח את היחס הבא: $\frac{r_1}{r_2} = 2\cos 36$.

**16)** המרובע ABCD הוא טרפז $(AB \parallel CD)$.

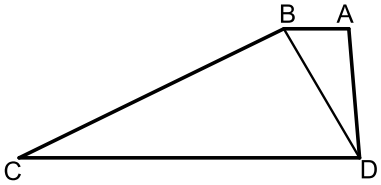


מעבירים את האלכסון BD המקיים: $\sphericalangle BCD = \sphericalangle ADB$.

נתון כי: 20 ס"מ = CD , 10 ס"מ = AD , 5 ס"מ = AB.

כמו כן ידוע כי השוק BC גדולה פי 2 מהאלכסון BD.

א. הראה כי השוק BC שווה לבסיס CD.

ב. חשב את זווית C.

ג. ממשיכים את שוקי הטרפז AD ו-BC עד לנקודה E שמחוץ לטרפז.
חשב את רדיוס המעגל החוסם את המשולש CDE.

**17)** באיור שלפניך נתון המרובע ABCD.
ידוע כי: $\sphericalangle D = 90°$.
נסמן את הצלעות באופן הבא: $AD = 3x$ , $CD = 8x$ , $BC = 5x$ , $AB = 6x$.

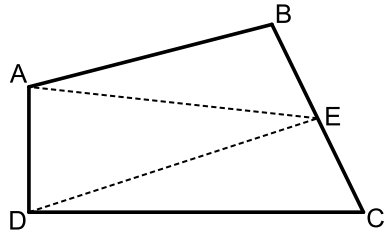


א. חשב את זווית BCD.
ב. E היא נקודה הנמצאת על אמצע הצלע BC.
מעבירים את הקטעים AE ו-DE כך
ש-DE מקביל ל-AB.
חשב את היחס הבא: $\frac{S_{ABE}}{S_{BCD}}$.

**18)** מהנקודה O מעבירים את הקטעים OA , OB , OC ו-OD.
ידוע כי זווית AOB שווה לזווית COD והיא מסומנת ב- $\alpha$.
המשולש COD הוא ישר זווית $\sphericalangle CDO = 90°$.
נתונים האורכים: $DO = 10$ , $BO = 9$.
מסמנים: $CD = 1.5m$ , $BC = 1.4m$.

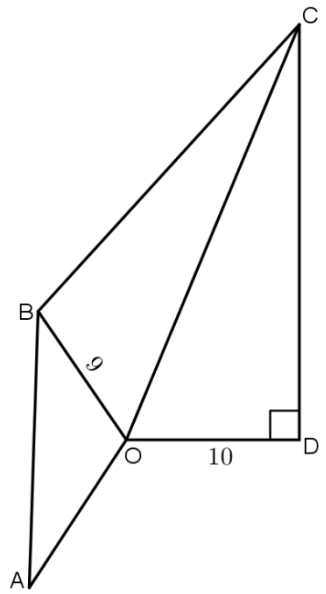


א. הבע באמצעות $m$ את $\sin\alpha$.
(העזר במשולש COD ובטא תחילה את CO).
ב. נתון גם כי: $AB = m$.
מצא את $m$ אם ידוע כי רדיוס המעגל החוסם
את המשולש AOB הוא $8\frac{2}{3}$.
ג. חשב את זווית BOC.

**19)** במשולש ABC הזווית A היא בת $60°$.
מעבירים את הקטע AD כך שנוצרת זווית: $\sphericalangle ADB = 60°$.
ידוע כי $AB = \sqrt{28}$ וכי הצלע AD במשולש ABD
גדולה פי 1.5 מהצלע BD.

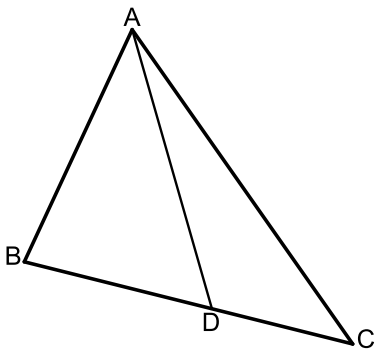


א. מצא את אורך הצלע BD.
ב. היקף המשולש ABC הוא: $P = 5\sqrt{7} + 7$.
i. סמן: $DC = t$ והבע באמצעות $t$
את אורך הצלע AC.
ii. מצא את $t$.
ג. חשב את שטח המשולש ABC.

**20)** מהנקודה A מעבירים את הקטעים AB ו-AC.
הנקודה D היא אמצע AC וממנה מעבירים את DE המקביל ל-AB.
הנקודות C , E ו-F נמצאות על אותו הישר.
ידוע כי המשולשים ABD , DEF ו-DCE הם
שווי שוקיים (AB = BD , DC = CE , EF = DE).
נתון כי : AD = 8.

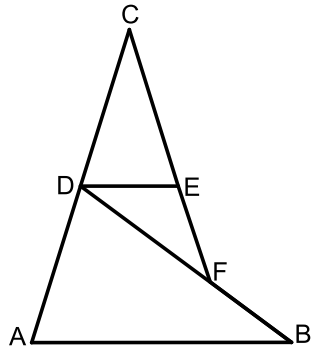


א. חשב את אורך הקטע BF.
ב. מחברים את הנקודות B ו-C.
חשב את אורך הצלע BC.

**21)** בשרטוט נתון : 6 ס"מ = AB , 8 ס"מ = AC ,
5 ס"מ = AD. הנקודה D היא אמצע הצלע BC.
חשב את אורך הקטע BC.

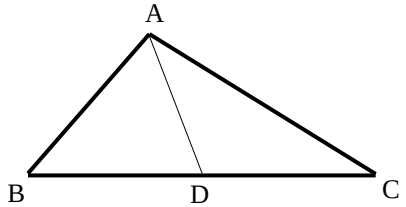


**22)** הצלע AC במשולש ABC גדולה פי 4 מהצלע AB.
הנקודה E היא אמצע הצלע AC והנקודה D נמצאת
על הצלע BC כך שמתקיים $DC = 2BD$ .
נתון : $AB = a$ , $BC = b$ .
הבע באמצעות $a$ ו- $b$ את אורך הקטע DE.

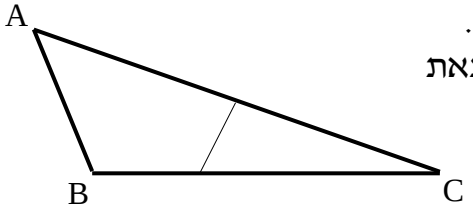


**23)** המשולש ABD חסום במעגל שרדיוסו $R$ .
המשך הצלע AD והמשיק למעגל בנקודה B
נפגשים בנקודה C. נתון : $\sphericalangle C = \alpha$ , $\sphericalangle ADB = \beta$ .
הבע באמצעות $R$ , $\alpha$ ו- $\beta$ את אורך הקטע BC.

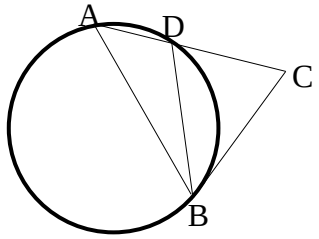


**24)** AC ו-BD הם מיתרים במעגל שרדיוסו $R$ ,
שנפגשים בנקודה M. זווית $\sphericalangle B$ היא זווית ישרה.
נתון : $AB = k$ , $DM = p$ , $DC = q$ .
הבע באמצעות $R$ , $k$ , $p$ ו- $q$ את אורך הקטע MC.

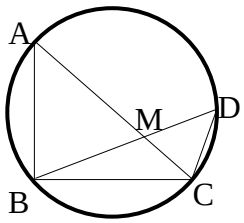

## תשובות סופיות:

1) א. $\alpha=34.231°$ ב. $y=$ 14.33 ס"מ ג. $\alpha=155.526°$ או $\alpha=24.474°$
ד. $\alpha=41.382°$ או $\alpha=138.618°$ ה. $x=$ 3.606 ס"מ , $\alpha=73.898°$

2) א. $x=$ 5.646 ס"מ ב. $\alpha=20.742°$ ג. $\alpha=105.962°$ ד. $\alpha=90°$

3) AD = 13.064 ס"מ

4) GM = 3.360 ס"מ

5) 138.190° , 41.810° , 113.556° , 66.444°

6) AB = 14.56 ס"מ , $R=$ 9.242 ס"מ

7) $P=$ 22 ס"מ

8) AC = 10.790 ס"מ , $R=$ 5.395 ס"מ

9) DG = 18

10) $R=$ 10.5 ס"מ ב. 24.32°

11) א. $CD=R\sqrt{3}$ , $DE=1.48R$ ב. $r=1.15R$

13) א. 68° ב. 11.66 ס"מ ג. $R=$ 6.29 ס"מ

14) א. $AC=\sqrt{32.36t^2-448t+1600}$ ב.i. 13 ס"מ ב.ii. 78 סמ"ר

15) א. 9.4 ס"מ ב.i. 10 ס"מ

16) ב. $\sphericalangle C=28.9°$ ג. $R=13.77$

17) א. 64.04° ב. $\frac{S_{ABE}}{S_{ECD}}=0.817$

18) א. $\sin\alpha=\frac{1.5m}{\sqrt{100+2.25m^2}}$ ב. $m=16$ ג. 56.94°

19) א. 4 ב.i. $1.5\sqrt{28}+3-t$ ב.ii. 3 ג. $S=18.18$

20) א. 4.94 ס"מ ב. 17.19 ס"מ

21) BC = 10 ס"מ

22) $DE=\sqrt{\frac{1}{9}b^2-a^2}$

23) $BC=\frac{2R\sin\beta\sin(\beta-\alpha)}{\sin\alpha}$

24) $MC=\sqrt{p^2+q^2-\frac{pqk}{R}}$

# שאלות העוסקות בנוסחת שטח משולש:

## סיכום כללי:

**שטחים של משולשים ומרובעים:**

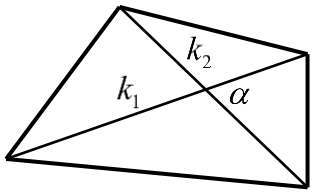


- שטח משולש ניתן לחישוב ע"י: $S=\frac{a\cdot h}{2}=\frac{ab\sin\gamma}{2}=\frac{a^2\sin\beta\sin\gamma}{2\sin\alpha}$.
- שטח מרובע ניתן לחישוב ע"י אלכסוניו: $S=\frac{k_1k_2\sin\alpha}{2}$.

## שאלות:

**25)** חשב את שטחי המשולשים הבאים:

א.

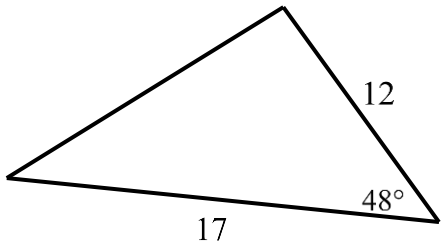


ב.

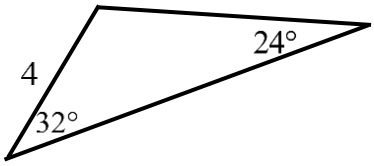


**26)** חשב את שטחו של טרפז שווה שוקיים שאורך האלכסון שלו 8 ס"מ והוא יוצר זווית של $15°$ עם הבסיסים.

**27)** אורכו של מלבן הוא $m$ ורוחבו $n$. הזווית שבין אלכסוני המלבן היא $\theta$.
הוכח כי מתקיים: $\sin\theta=\frac{2mn}{m^2+n^2}$.

**28)** במשולש ישר זווית ABC ($\sphericalangle B=90°$), BD חוצה את הזווית $\sphericalangle B$.
נתון: $AB=m$ , $\sphericalangle A=\alpha$.
הבע באמצעות $\alpha$ ו-$m$ את שטח המשולש BCD.

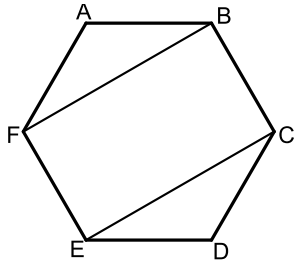


**29)** באיור שלפניך נתון משושה משוכלל ששטחו הכולל הוא $S$.
א. הבע באמצעות $S$ את אורך צלע המשושה.
ב. מעבירים אלכסונים במשושה כך שנוצר המלבן BFEC.
הבע באמצעות $S$ את שטח המלבן.

**30)** המשולש ABC הוא שווה שוקיים בעל זווית ראש $\alpha$ , (AB = AC).
אורך הבסיס BC הוא $k$.
על השוק AB בונים משולש ישר זווית ABD ובו $\sphericalangle D = 90°$.

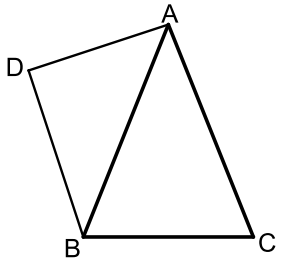


א. הבע באמצעות $k$ ו- $\alpha$ את אורך שוק המשולש ABC.
ב. הניצב AD במשולש ABD שווה ל- $0.85k$
וכי: $\sphericalangle ABD = 40°$. מצא את זוויות המשולש ABC.
ג. חשב את שטח המרובע ACBD אם ידוע כי $k = 6$.

**31)** במשולש ABC אורך הצלע AC הוא 8 ס"מ ואורך הצלע AB הוא 10 ס"מ.
הנקודה E היא אמצע הצלע AC
והנקודה D מקיימת: AD = 3 ס"מ.
ידוע כי: $\frac{DE}{BC} = \frac{2}{5}$.

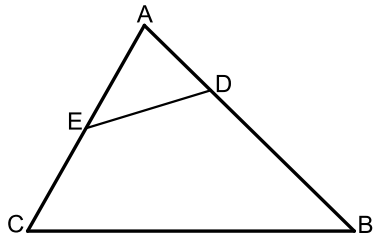


א. מצא את אורך הקטע DE.
ב. חשב את רדיוס המעגל החוסם את המשולש ADE.
ג. חשב את שטח המרובע BCED.

**32)** המרובע ABCD הוא טרפז $(AB \parallel CD)$. הקטע AC הוא אלכסון בטרפז.
מסמנים: $\sphericalangle ADC = \beta$ , $\sphericalangle ACD = \alpha$ , $AC = m$.

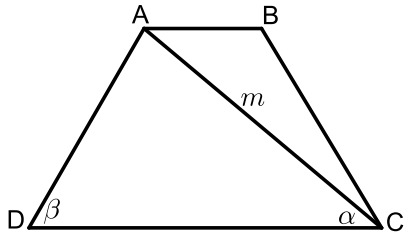


א. הבע באמצעות $\alpha$ , $\beta$ ו- $m$ את אורך הבסיס הגדול DC.
ב. נתון כי האלכסון AC מקיים: $\frac{S_{ADC}}{S_{ABC}} = 3$.
הבע באמצעות $\alpha$, $\beta$ ו- $m$ את הבסיס AB.
ג. חשב את שטח הטרפז אם ידוע כי: $\beta = 60°$ , $\alpha = 40°$ ו- $m = 8$.

**33)** המרובע ABCD הוא מלבן. מעבירים את האלכסון BD וממשיכים אותו עד לנקודה E שמחוץ למלבן.
מחברים את הנקודה E עם הקודקוד C.
ידוע כי אורך הצלע AD של המלבן הוא 6 ס"מ וכי אורך הקטע BE הוא 9 ס"מ. הזווית CBE היא $115°$.

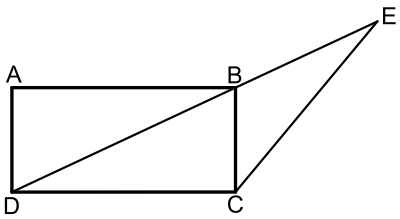


א. מצא את אורך הקטע CE.
ב. מצא את אורך האלכסון BD.
ג. חשב את שטח המשולש DCE.

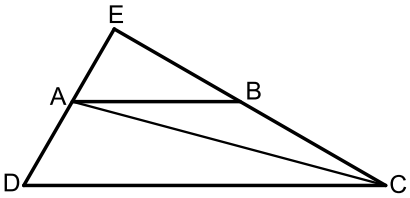


**34)** המרובע ABCD הוא טרפז $(AB \parallel CD)$.
ממשיכים את השוקיים AD ו-BC עד לפגישתם
בנקודה E.ידוע כי: $DE \perp CE$.
מעבירים את האלכסון AC אשר חוצה את זווית C.
מסמנים את הבסיס הגדול DC ב- $k$ ואת: $\sphericalangle ACD = \alpha$.

א. הבע באמצעות $k$ ו- $\alpha$ את הבסיס הקטן AB.

ב. הבע באמצעות $k$ ו- $\alpha$ את שטח המשולש ABC.

ג. חשב את שטח המשולש ABC כאשר: $\alpha = 15°$ , 12 ס"מ $= k$.

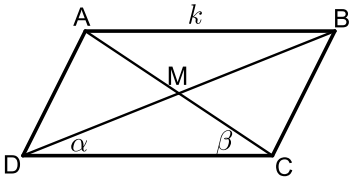


**35)** נתונה מקבילית ABCD ובה מעבירים
את האלכסונים AC ו-BD אשר נחתכים
בנקודה M כמתואר באיור.
מסמנים: $\sphericalangle ACD = \beta$ , $\sphericalangle BDC = \alpha$ , $AB = k$.

א. הוכח כי אלכסוני המקבילית מקיימים: $\frac{AC}{BD} = \frac{\sin\alpha}{\sin\beta}$.

ב. ענה על השאלות הבאות:

i. הבע באמצעות $\alpha$ , $\beta$ ו- $k$ את שטח המשולש DMC.

ii. הבע באמצעות $\alpha$ , $\beta$ ו- $k$ את שטח המקבילית ABCD.

ג. נתון כי: $\frac{AC}{BD} = 2$. הראה כי שטח המקבילית הוא: $\frac{4k^2\sin^2\beta}{\sin(\alpha+\beta)}$.

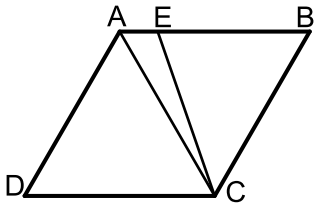


**36)** המרובע ABCD הוא מעוין ובו $\sphericalangle D = 60°$.
מעבירים את האלכסון AC ואת הקטע CE
כך שהנקודה E נמצאת על הצלע AB ומחלקת
אותה ביחס: $\frac{BE}{AE} = 4$.

א. חשב את זווית AEC.

ב. נתון כי שטח המשולש AEC הוא 8.66 סמ"ר. חשב את שטח המעוין.

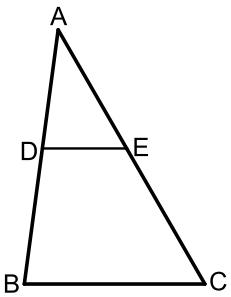


**37)** הקטע DE מקביל לצלע BC במשולש ABC כמתואר באיור.
נתון כי: $CE = 13$ , $BC = 15$ , $BD = \sqrt{129}$.
ידוע כי זווית AED היא $60°$.

א. חשב את אורך הקטע DE אם ידוע

ב. כי הוא קטן מ-10 ס"מ.

ג. חשב את שטח המשולש ADE.

**38)** המשולש ABC חסום במעגל כך ש-AB הוא קוטר.
הנקודה D היא אמצע הקשת BC וממנה מעבירים את המיתרים AD ו-BD ומעלים גובה DE לצלע BC .
מסמנים: $DE = k$ ונתון כי: $\sphericalangle ABC = 10°$ .

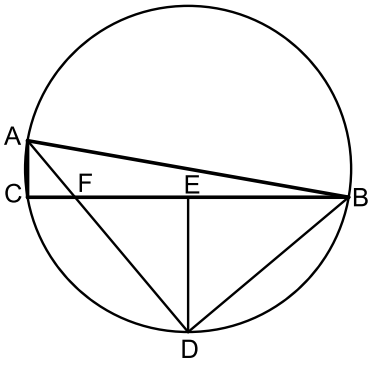


א. הבע באמצעות $k$ את רדיוס המעגל.
ב. הבע באמצעות $k$ את שטח המשולש ABF.
ג. מצא את $k$ אם ידוע כי שטח המשולש ABF הוא 15.363 סמ"ר.

**39)** במשולש ABC הקטע BE חוצה את זווית B.
הנקודה D היא אמצע הצלע AB ומקיימת: DE = CE .
ידוע כי: BC = 6 , BE = 8 , BD = 9 .

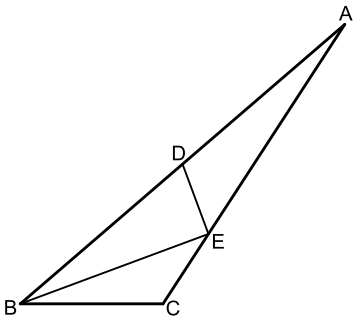


א. מצא את זווית B.
ב. חשב את שטח המשולש ADE.

**40)** נתון המעוין ABCD. אורך האלכסון הגדול במעוין AC גדול פי 1.8 מצלע המעוין.

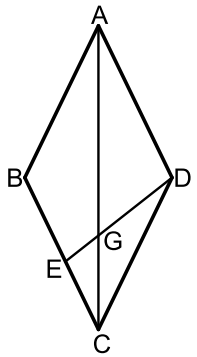


א. חשב את זוויות המעוין.
ב. מהקודקוד D מעבירים את הקטע DE שאורכו הוא $m$ .
הקטע DE חותך את האלכסון AC בנקודה G.
הזווית EDC תסומן ב- $\alpha$ .
i. הבע באמצעות $m$ ו- $\alpha$ את אורך הקטע CE.
ii. הבע באמצעות $m$ ו- $\alpha$ את שטח המשולש EGC.

**41)** המשולש ABC חסום במעגל כמתואר באיור.
מעבירים את המיתר AD החוצה את זווית BAC.
ידוע כי: $\sphericalangle ACB = 60°$ , $\sphericalangle BAC = 40°$ .
מסמנים: $AD = k$ .

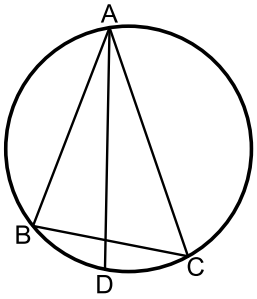


א. הבע באמצעות $k$ את אורך המיתר BD.
ב. ידוע כי שטח המשולש ABD הוא 7.368 סמ"ר.
מצא את $k$ (עגל למספר שלם).

**42)** המשולש ABC הוא שווה שוקיים (AB = AC).
ממשיכים את הצלע AC עד לנקודה D כך
שאורך שוק המשולש גדולה פי 3.8 מהקטע AD.
ידוע כי: $\sphericalangle D = 60°$.
אורך הקטע BD הוא 21 ס"מ.

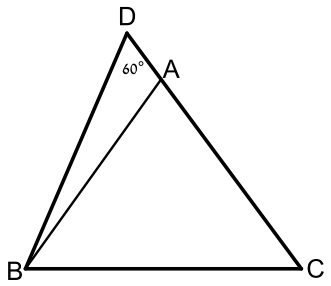


א. מצא את אורך הקטע AD.
ב. חשב את שטח המשולש ABC.

**43)** במקבילית ABCD אורך האלכסון AC הוא $\sqrt{79}$ ס"מ.
היקף המקבילית הוא 20 ס"מ וידוע כי: $\sphericalangle B = 120°$.

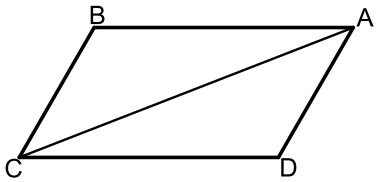


א. מצא את אורכי צלעות המקבילית.
ב. חשב את שטח המקבילית.
ג. מסמנים נקודה E על האלכסון AC כך שהמרובע CBED הוא בר חסימה.
חשב את רדיוס המעגל החוסם את המרובע CBED.

**44)** המרובע ABCD הוא מלבן החסום במעגל.
מהקודקוד D מעבירים את המיתר DF
החותך את הצלע AB בנקודה E.
ידוע כי: $\overset{\frown}{AF} = \overset{\frown}{CF}$.
הצלע AD של המלבן תסומן ב-$a$.

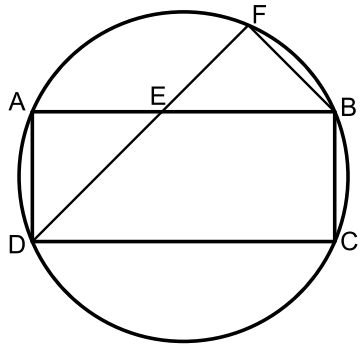


א. הוכח כי המשולש DAE הוא שווה שוקיים.
ב. נתון גם כי: BC = BF.
i. הבע באמצעות $a$ את רדיוס המעגל.
ii. חשב את הזוויות המרכזיות של הקשתות: $\overset{\frown}{AB}$, $\overset{\frown}{BC}$
(אין צורך לסרטט אותן).

**45)** המרובע ABCD חסום במעגל כמתואר באיור.
ידוע כי: $AB = b$ , $BC = a$ , $CD = a$ , $AD = 3b$.

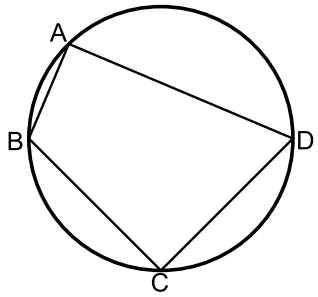


א. הבע באמצעות $a$ ו-$b$ את $\cos\sphericalangle BCD$.
ב. הוכח כי אם BD קוטר אז מתקיים: $a = b\sqrt{5}$.
ג. נתון כי רדיוס המעגל הוא 3 ס"מ.
הסתמך על סעיף ב' וחשב את שטח המרובע ABCD.

**46)** המשולש ABC הוא ישר זווית $\sphericalangle C=90^\circ$ ובו: $\sphericalangle B=2\alpha$.
מעבירים מעגל שרדיוסו $R$ דרך הקודקודים B ו-C
אשר חותך את צלעות המשולש בנקודות D ו-E.
המיתר BE חוצה את זווית B.

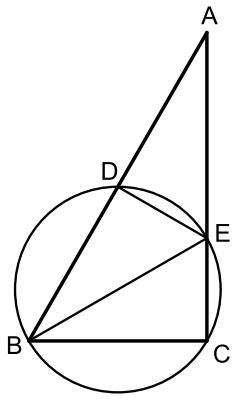


א. הבע באמצעות $R$ ו- $\alpha$ את שטח המשולש ABE.

ב. ידוע כי המשולש ABE הוא שווה שוקיים
וכי אורך המיתר CE הוא 6 ס"מ.
חשב את שטח המשולש ABE.

**47)** במשולש שווה שוקיים ABC (AB = AC) שאורך השוק בו הוא $k$ וזווית הבסיס שלו היא $\beta$, BE חוצה את זווית $\sphericalangle B$ ו- CD הוא הגובה לשוק AB.

הוכח כי שטח המשולש ADE הוא: $S_{ADE}=-\dfrac{k^2\sin\frac{\beta}{2}\sin 4\beta}{4\sin\frac{3\beta}{2}}$.

**48)** נתון משולש שווה שוקיים ABC (AB = AC) החסום במעגל.
מהקודקוד C מעבירים את המיתר CE החותך את השוק AB בנקודה D.
ידוע כי E היא אמצע הקשת $\overset{\frown}{AB}$ והיחס בין
הקטעים BD ו-CD הוא 4:7.
מסמנים: $\sphericalangle ACD=\alpha$.

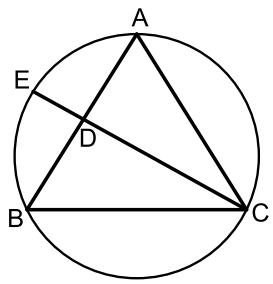


א. מצא את זוויות המשולש ABC
(עגל למספרים שלמים).

ב. חשב את אורך המיתר BE אם ידוע כי
רדיוס המעגל החוסם שווה ל-8 ס"מ.

**49)** AC ו-BD הם מיתרים במעגל שרדיוסו $R$, שנפגשים בנקודה M.
זווית $\sphericalangle B$ היא זווית ישרה.
נתון: $\sphericalangle MBC=\alpha$, $\sphericalangle MCB=\beta$.

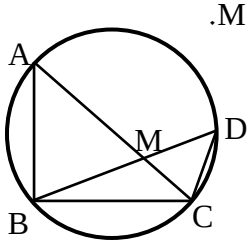


א. הבע באמצעות $R$, $\alpha$ ו- $\beta$ את שטח המשולש BDC.

ב. נתון: $\beta=2\alpha$, $S_{BDC}=\frac{1}{2}R^2$.
חשב את $\alpha$.

**50)** בטרפז שווה שוקיים, שאורך השוק שבו הוא $b$ והזווית שליד הבסיס הגדול היא $\gamma$ נתון שהאלכסונים מאונכים זה לזה.

א. הבע באמצעות $\gamma$ ו- $b$ את אורכי בסיסי הטרפז.

ב. חשב את $\gamma$ אם ידוע שהבסיס הגדול ארוך פי $\sqrt{3}$ מהבסיס הקטן.

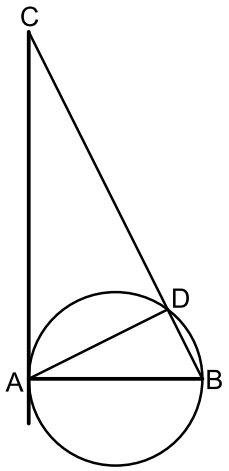


**51)** המיתר AB הוא קוטר במעגל שרדיוסו $R$ ו-AD הוא מיתר.
ממשיכים את המיתר BD ומעבירים משיק מהנקודה A.
המשיק והמשך המיתר נפגשים בנקודה C.
מסמנים: $\sphericalangle BAD = \alpha$.

א. הבע באמצעות $\alpha$ ו- $R$ את שטח המשולש ABD.

ב. הבע באמצעות $\alpha$ ו- $R$ את שטח המשולש ACD.

ג. מצא את $\alpha$ אם ידוע כי שטח המשולש ABD קטן פי 4 משטח המשולש ACD.

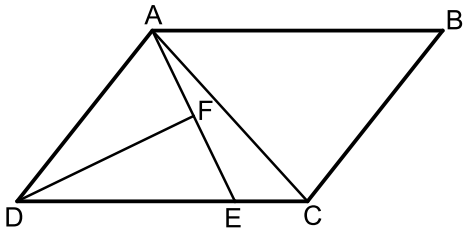


**52)** המרובע ABCD הוא מקבילית.
הקטע AE מקצה על הצלע DC קטעים
המקיימים: $3CE = DE$.
מעבירים תיכון DF לצלע AE במשולש ADE.
ידוע כי: $\sphericalangle ADF = \sphericalangle CDF = \alpha$.
מסמנים: $CE = k$.

א. הבע באמצעות $k$ ו- $\alpha$ את אורך הקטע AE.

ב. מעבירים את האלכסון AC.
הבע באמצעות $k$ ו- $\alpha$ את היקף המשולש ACE.

ג. היקף המשולש ACE הוא $4.5k$. מצא את $\alpha$.

## תשובות סופיות:

**25)** א. $S=$ 75.801 סמ"ר  ב. $S=$ 8.641 סמ"ר

**26)** $S=$ 16 סמ"ר

**27)** $S_{\Delta ABCD}=\dfrac{m^2\tan^2\alpha\sin 45^\circ\cos\alpha}{2\sin(\alpha+45^\circ)}$

**28)** א. $\sqrt{\dfrac{2S}{\sqrt{27}}}\approx 0.62S$  ב. $\dfrac{2}{3}S$

**29)** א. $\dfrac{k}{2\sin\frac{\alpha}{2}}$  ב. $44.4^\circ\ ,\ 67.78^\circ\ ,\ 67.78^\circ$  ג. $S=37.18$

**30)** א. $DE=\sqrt{1.6}=1.26$  ב. $R=2$  ג. $S=21.48$

**31)** א. $DC=\dfrac{m\sin(\alpha+\beta)}{\sin\beta}$  ב. $AB=\dfrac{m\sin(\alpha+\beta)}{3\sin\beta}$  ג. $S_{ABCD}=31.2$

**32)** א. 12.75 ס"מ  ב. 14.19 ס"מ  ג. 63.05 ס"מ

**33)** א. $\dfrac{k\tan\alpha}{\tan 2\alpha}$  ב. $\dfrac{k^2\tan\alpha\sin 2\alpha}{2\tan^2 2\alpha}$  ג. $S=$ 7.754 ס"מ

**34)** ב.i. $\dfrac{k^2\sin\alpha\sin\beta}{2\sin(\alpha+\beta)}$  ב.ii. $\dfrac{2k^2\sin\alpha\sin\beta}{\sin(\alpha+\beta)}$

**35)** א. $109.1^\circ$  ב. $S=86.6$

**36)** א. 7 ס"מ  ב. 34.48 סמ"ר

**37)** א. $R=\dfrac{k}{2\sin^2 40}=1.21k$  ב. $S=\dfrac{k^2\sin 10}{2\sin 50\sin^3 40}$  ג. $k=6$

**38)** א. $40.72^\circ$  ב. $S=12.52$

**39)** א. $128.32^\circ\ ;\ 51.68^\circ$  ב. $1.27m\sin\alpha$  ג. $\dfrac{0.35m^2\sin^2\alpha\sin(128.32-\alpha)}{\sin(25.84+\alpha)}$

**40)** א. $BD=\dfrac{k\sin 20}{\sin 100}$  ב. $k=7$

**41)** א. 5 ס"מ  ב. $S=172.77$

**42)** א. BC = 3 ס"מ ו-AB = 7 ס"מ  ב. $S=$ 18.18 סמ"ר  ג. $R=\sqrt{\dfrac{37}{3}}$

**43)** ב.i. $R = a\sqrt{1+\frac{\sqrt{2}}{2}} \approx 1.3a$ ב.ii. $45^\circ$ , $135^\circ$

**44)** א. $\cos\sphericalangle BCD = \frac{a^2-5b^2}{a^2+3b^2}$ ג. 14.4 סמ"ר $S=$ .

**45)** א. $S = R^2 \tan 2\alpha$ ב. $36\sqrt{3}$ סמ"ר $S=$ .

**48)** א. $58^\circ$ , $58^\circ$ , $64^\circ$ ב. $BE = 7.75$.

**49)** א. $S = 2R^2 \sin\alpha \cos\beta \sin(90^\circ - \alpha + \beta)$ ב. $\alpha = 22.5^\circ$ .

**50)** א. $\frac{b\sin(\gamma - 45^\circ)}{\sin 45^\circ}$ , $\frac{b\sin(135^\circ - \gamma)}{\sin 45^\circ}$ ב. $\gamma = 75^\circ$ .

**51)** א. $S = R^2 \sin 2\alpha$ ב. $S = \frac{2R^2\cos^3\alpha}{\sin\alpha}$ ג. $\alpha = 26.56^\circ$ .

**52)** א. $AE = 6k\sin\alpha$ ב. $P_{ACE} = k + 6k\sin\alpha + k\sqrt{25 - 24\cos 2\alpha}$

ג. $\alpha = 14.47^\circ$ .

# קורס קדם במתמטיקה למהנדסים

## פרק 16 - סדרות

### תוכן העניינים

1. הקדמה כללית ..... (ללא ספר)
2. סדרה חשבונית ..... 251
3. סדרה הנדסית ..... 258
4. סדרה הנדסית אינסופית מתכנסת ..... 263

# סדרה חשבונית:

## סיכום כללי:

- **נוסחת האיבר הכללי:**

נוסחת האיבר הכללי של סדרה חשבונית המתחילה באיבר $a_1$ והפרשה הוא $d$

נתונה ע"י: $a_n = a_1 + d(n-1)$, כאשר: $n$ הוא מיקום האיבר שערכו $a_n$ בסדרה.

- **כלל נסיגה של סדרה חשבונית:**

כלל נסיגה של סדרה חשבונית $a_n$ שהפרשה הוא $d$ ואיברה הראשון הוא $a_1$

נתון ע"י: $a_{n+1} - a_n = d$.

- **נוסחת הסכום של סדרה חשבונית:**

סכום $n$ האיברים הראשונים של סדרה חשבונית $a_n$ שהפרשה הוא $d$ ואיברה הראשון הוא $a_1$ נתון ע"י: $S_n = \frac{n(a_1 + a_n)}{2}$.

בהצבת נוסחת האיבר הכללי מקבלים: $S_n = \frac{n(2a_1 + d(n-1))}{2}$.

## שאלות:

**1)** נתונה הסדרה החשבונית: $17, 11, 5, -1, -7...$.
מצא את האיבר האחרון בסדרה אם ידוע שיש בה 43 איברים.

**2)** בסדרה חשבונית האיבר השישי הוא 15 והאיבר העשירי הוא 31.
מצא מהו האיבר הראשון בסדרה ומהו הפרש הסדרה.

**3)** מצא כמה איברים יש בסדרה החשבונית: $2, 4.5, 7, 9.5, 12, 14.5, ..., 49.5$.

**4)** בסדרה חשבונית סכום האיברים השני, החמישי והשמיני הוא 87 וההפרש בין האיבר השנים-עשר לאיבר השישי הוא 24.
מצא כמה איברים בסדרה אם ידוע שהאיבר האחרון בה הוא 201.

**5)** תחביב אחה"צ של שימי הפרעוש הוא לקפוץ על טומי הכלב. מנהגו של שימי הוא לקפוץ בדקה הראשונה 4 קפיצות ובכל דקה שאחריה לקפוץ 3 קפיצות יותר מדקה הקודמת. כמה דקות אורך תחביב אחה"צ של שימי אם ידוע שבדקה האחרונה הוא קופץ 46 קפיצות?

**6)** כמה מספרים תלת ספרתיים שמתחלקים ב-6 יש בין 201 ל-550?

**7)** כמה איברים חיוביים ישנם בסדרה החשבונית: $91, 88, 85, 82, \ldots$.

**8)** מצא את ערכו של $x$ אם ידוע שהאיברים הבאים הם איברים עוקבים בסדרה חשבונית: $x-3, 3x-4, x^2-1$.

**9)** נתונה סדרה המוגדרת באמצעות כלל הנסיגה הבא: $\begin{cases} a_{n+1} = a_n + 3 \\ a_1 = 5 \end{cases}$.
הוכח שהסדרה חשבונית ומצא מהו האיבר התשעה-עשר שלה.

**10)** בסדרה חשבונית $a_1, a_2, a_3, \ldots, a_n$ ידוע כי סכום ארבעת האיברים הראשונים וסכום האיברים ה-6 עד ה-9 הם מספרים נגדיים.

א. הוכח: $a_5 = 0$.

ב. נתון: $a_3 - a_{11} = 24$. מצא את $a_1$ ואת $d$.

ג. מגדירים סדרה חשבונית חדשה $b_n$ המקיימת: $b_n = 2a_n - 3$.
מצא את ערך האיבר השלילי הראשון בסדרה ואת מיקומו הסידורי.

**11)** מצא את סכום ארבעה-עשר האיברים הראשונים בסדרה החשבונית: $-3, 2, 7, 12, \ldots$.

**12)** נתונה הסדרה החשבונית: $-13, -7, -1, 5, \ldots$.
כמה איברים יש לחבר בסדרה (החל מהראשון) כדי להגיע לסכום של 987?

**13)** תחביב אחה"צ של מימי הפרעושה הוא לקפוץ על טומי הכלב. מנהגה של מימי הוא לקפוץ בדקה הראשונה 11 קפיצות ובכל דקה שאחריה לקפוץ 2 קפיצות יותר מדקה הקודמת. כמה דקות אורך תחביב אחה"צ של מימי אם ידוע שבכל אחה"צ היא קפצה 416 קפיצות?

**14)** נתונה הסדרה החשבונית: $-71, -67, -63, \ldots$.
כמה איברים לכל הפחות יש לחבר בסדרה כדי שהסכום המתקבל יהיה חיובי?

**15)** נתונה הסדרה החשבונית: $4, 13, 22, 31, \ldots$.
בסדרה יש 36 איברים. חשב את סכום ארבעה-עשר האיברים האחרונים בסדרה.

**16)** נתונה הסדרה החשבונית: $4, 9, 14, 19, \ldots, 599$.
מחקו כל איבר שלישי בסדרה. מצא את סכום האיברים שנותרו.

**17)** סכום $n$ האיברים האחרונים בסדרה חשבונית בת $3n$ איברים גדול ב- 1024 מסכום $n$ האיברים הראשונים שבה.

א. בטא את $n$ באמצעות הפרש הסדרה, $d$.

ב. נתון כי הפרש הסדרה הוא 8. כמה איברים בסדרה?

**18)** נתונה סדרה שבה $S_n = 2n^2 + 4n$.

א. מצא את ערכם של שלושת האיברים הראשונים בסדרה.

ב. הוכח כי הסדרה חשבונית ומצא את הפרשה.

**19)** בסדרה חשבונית ידוע כי סכום האיברים העומדים במקומות ה-5 , ה-7 וה- 16 הוא אפס. כמו כן ידוע כי סכום שלושת האיברים הראשונים הוא 132.

א. מצא את האיבר הראשון בסדרה ואת הפרש הסדרה.

ב. מצא את האיבר השלילי הראשון בסדרה.

ג. מצא כמה איברים יש לחבר (החל מהאיבר הראשון) כדי לקבל סכום 210.

**20)** נתונים שני טורים חשבוניים: $\begin{cases} 150, 144, 138, \ldots \\ 90, 93, 96, \ldots \end{cases}$.

לשני הטורים אותו מספר איברים. ידוע כי סכום האיברים האחרונים של שני הטורים (האיבר האחרון מהטור הראשון והאיבר אחרון מהטור השני) הוא אפס.

א. מצא את מספר האיברים שבכל טור.

ב. מחברים את $n$ האיברים הראשונים מהטור הראשון יחד עם $n$ האיברים הראשונים מהטור השני. ידוע כי חיבור הסכומים הוא 3480.
מצא את $n$ אם ידוע שהוא קטן מ-20.

**21)** נתונות שתי סדרות החשבוניות הבאות: $a_n$ שהפרשה הוא $d_1$ ו- $b_n$ שהפרשה הוא $d_2$. ידוע כי: $d_1 = -2d_2$.
סכום 50 האיברים הראשונים של שתי הסדרות שווה והאיבר העומד במקום ה-20 בסדרה $a_n$ גדול ב-1 מהאיבר העומד במקום ה-37 בסדרה $b_n$.

א. מצא את הפרש הסדרה $a_n$ - $d_1$.

ב. ידוע כי האיבר $a_{10}$ קטן ב-1 מ-5 פעמים האיבר $b_{50}$.
מצא את $a_1$ ואת $b_1$.

**22)** נתונה הסדרה החשבונית: $-21, -17, -13, \ldots$.
בסדרה יש 18 איברים. חשב את סכום האיברים הנמצאים במקומות האי-זוגיים ואת סכום האיברים הנמצאים במקומות הזוגיים.

**23)** בסדרה חשבונית שהפרשה $d$ ובה $2n$ איברים סכום האיברים במקומות האי-זוגיים הוא 552 וסכום האיברים במקומות הזוגיים הוא 612.
הוכח כי $nd = 60$.

**24)** בסדרה חשבונית עולה, שכל איבריה חיוביים ובה מספר אי-זוגי של איברים, גדול סכום כל איברי הסדרה פי $1\frac{14}{15}$ מסכום איברי הסדרה הנמצאים במקומות האי-זוגיים. כמה איברים יש בסדרה?

**25)** לפניך שלושה איברים סמוכים בסדרה חשבונית: $x-5$ , $x-16$ , $2x+23$.

א. ענה על הסעיפים הבאים:

i. מצא את $x$.

ii. מצא את הפרש הסדרה.

ב. ידוע כי: $a_{12}=0$. מצא את $a_1$.

ג. האיבר האחרון בסדרה הוא: $a_n=308$.

מצא את סכום כל האיברים החיוביים העומדים במקומות האי-זוגיים.

**26)** בסדרה חשבונית שבה מספר זוגי של איברים נתון כי סכום ריבועי האיברים העומדים במקומות ה-4 וה-5 שווה לריבוע האיבר העומד במקום ה-6.
האיבר הראשון אינו אפס.

א. הוכח את הטענות הבאות:

i. $a_1=-4d$.

ii. $S_9=0$.

ב. האיבר העומד במקום ה-6 גדול ב-2 מהאיבר העומד במקום ה-5.
מצא את $a_1$ ואת $d$.

ג. מצא את מספר איברי הסדרה אם ידוע כי סכום האיברים העומדים במקומות הזוגיים הוא 504.

**27)** בסדרה חשבונית שבה $2n$ איברים ידוע כי סכום כל האיברים גדול ב-66 מפעמיים סכום האיברים העומדים במקומות האי-זוגיים.

א. הוכח כי $nd=66$.

ב. ידוע כי הפרש הסדרה הוא 3. הבע באמצעות $a_1$ את סכום $n$ האיברים הראשונים.

ג. סכום $n$ האיברים הראשונים הוא 187. מצא את האיבר החיובי הקטן ביותר בסדרה ואת מיקומו הסידורי בסדרה.

**28)** אדם המעוניין לקנות רכב קיבל שתי הצעות מחיר.
ההצעה הראשונה:
לשלם בתשלום הראשון 1000 ₪ ובכל תשלום שאחריו סכום הגדול ב-500 ₪ מהתשלום הקודם.
ההצעה השנייה:
לשלם בתשלום הראשון 7200 ₪ ובכל תשלום שאחריו סכום הקטן ב-450 ₪ מהתשלום הקודם.
ידוע כי מספר התשלומים בהצעה השנייה קטן ב-4 ממספר התשלומים שבהצעה הראשונה.

א. כמה תשלומים יצטרך לשלם לפי כל הצעה.

ב. מה מחיר הרכב?

## תשובות סופיות:

1) $a_{43}=-235$.
2) $a_1=-5$, $d=4$.
3) 20 איברים.
4) 48 איברים.
5) 15 קפיצות.
6) 58 מספרים.
7) 31 איברים חיוביים.
8) $x=1$, $x=4$.
9) $a_{19}=59$.
10) א. הוכחה. ב. $a_1=12$, $d=-3$. ג. $b_5=-3$.
11) $S_{14}=413$.
12) 21 איברים.
13) 16 דקות.
14) 37 איברים.
15) 3647.
16) 23920.
17) א. $n=\sqrt{\frac{512}{d}}$ ב. 24 איברים.
18) א. $a_1=6$, $a_2=10$, $a_3=14$ ב. $d=4$.
19) א. $a_1=50$, $d=-6$ ב. $a_{10}=-4$ ג. $n=6$.
20) א. $n=81$ ב. $n=16$.
21) א. $d_1=4$ ב. $a_1=-52$, $b_1=95$.
22) אי-זוגיים: $S=99$ זוגיים: $S=135$.
23) שאלת הוכחה.
24) 29 איברים.
25) א. i. $x=-50$ ii. $d=11$ ב. $a_1=-121$ ג. $S=2156$.
26) א. הוכחה. ב. $a_1=-8$, $d=2$ ג. $n=36$.
27) א. הוכחה. ב. $S=22a_1+693$ ג. $a_9=1$.
28) א. 12 לפי ההצעה הראשונה ו-8 לפי ההצעה השנייה. ב. 45000 ₪.

# סדרה הנדסית:

## סיכום כללי:

- **נוסחת האיבר הכללי:**

נוסחת האיבר הכללי של סדרה הנדסית המתחילה באיבר $a_1$ ומנתה היא $q$
נתונה ע"י הנוסחה: $a_n = a_1 q^{n-1}$, כאשר: $n$ הוא מיקום האיבר שערכו $a_n$ בסדרה.

- **כלל נסיגה של סדרה הנדסית:**

כלל נסיגה של סדרה הנדסית $a_n$ שמנתה היא $q$ ואיברה הראשון הוא $a_1$
נתון ע"י הקשר הבא: $a_{n+1} = a_n \cdot q$.

- **נוסחת הסכום של סדרה הנדסית:**

סכום $n$ האיברים הראשונים של סדרה הנדסית $a_n$ שמנתה היא $q$ ואיברה הראשון הוא $a_1$ נתון ע"י: $S_n = \frac{a_1\left(q^n - 1\right)}{q-1}$.

## שאלות:

**1)** נתונה הסדרה ההנדסית: $\frac{1}{9}, \frac{1}{3}, 1, 3, \ldots$.
מצא את האיבר האחרון בסדרה אם ידוע שיש בה 9 איברים.

**2)** מצא כמה איברים יש בסדרה ההנדסית: $\frac{9}{64}, \frac{3}{16}, \frac{1}{4}, \ldots, \frac{64}{81}$.

**3)** בסדרה הנדסית האיבר השישי הוא 8 והאיבר העשירי הוא 128.
מצא מהו האיבר הראשון בסדרה ומהי מנת הסדרה.

**4)** בסדרה הנדסית ההפרש בין האיבר השביעי לאיבר החמישי הוא 432 וההפרש בין האיבר החמישי לשלישי הוא 48. מצא מהו האיבר הראשון בסדרה ומהי מנת הסדרה.

**5)** בסדרה הנדסית עולה ההפרש בין האיבר השמיני לאיבר הרביעי הוא 3120 וסכום האיברים השני והרביעי הוא 5.2.
מצא מהו האיבר הראשון בסדרה ומהי מנת הסדרה.

**6)** תחביב אחה"צ של שימי הפרעוש הוא לקפוץ על טומי הכלב. מנהגו של שימי הוא לקפוץ בדקה הראשונה 4 קפיצות ובכל דקה שאחריה לקפוץ פי 3 קפיצות מדקה הקודמת. כמה דקות אורך תחביב אחה"צ של שימי אם ידוע שבדקה האחרונה הוא קופץ 324 קפיצות?

**7)** מצא את ערכו של $x$ אם ידוע שהאיברים הבאים הם איברים עוקבים בסדרה הנדסית: $x-6,\ x+4,\ 4x+1$. מצא גם את מנת הסדרה.

**8)** נתונה סדרה המוגדרת באמצעות כלל הנסיגה הבא: $\begin{cases} a_{n+1}=2a_n \\ a_1=3 \end{cases}$.
הוכח שהסדרה הנדסית ומצא מהו האיבר השמיני בה.

**9)** מצא את סכום תשעת האיברים הראשונים בסדרה ההנדסית: $5, 10, 20, 40, \ldots$.

**10)** תחביב אחה"צ של מימי הפרעושה הוא לקפוץ על טומי הכלב. מנהגה של מימי הוא לקפוץ בדקה הראשונה 2 קפיצות ובכל דקה שאחריה לקפוץ פי 5 קפיצות מדקה הקודמת. כמה דקות אורך תחביב אחה"צ של מימי אם ידוע שבכל אחה"צ היא קפצה 1562 קפיצות?

**11)** סכום $n$ האיברים האחרונים בסדרה הנדסית בת $3n$ איברים שמנתה 2, גדול פי 256 מסכום $n$ האיברים הראשונים בה. כמה איברים בסדרה?

**12)** בסדרה הנדסית עולה שבה $n$ איברים, סכום $n-3$ האיברים האחרונים גדול פי 8 מסכום $n-3$ האיברים הראשונים בה. מצא את מנת הסדרה.

**13)** סכום כל האיברים בסדרה הנדסית הוא 252. האיבר האחרון בסדרה גדול ב- 120 מהאיבר השני בה. מצא כמה איברים יש בסדרה אם ידוע שמנתה 2.

**14)** המספרים: $x-13\ ,\ x-9\ ,\ 2x-3$ הם שלושת האיברים הראשונים בסדרה הנדסית עולה שכל איבריה חיוביים.

א. מצא את $x$.

ב. ענה על הסעיפים הבאים:

i. כתוב את נוסחת האיבר הכללי בסדרה זו.

ii. מצא שני איברים סמוכים בסדרה שסכומם הוא 18750.

ג. ידוע כי האיבר האחרון בסדרה הוא: $a_n = 5^{11}$.
מצא את סכום 7 האיברים האחרונים בסדרה.

**15)** נתונה הסדרה ההנדסית הבאה: $4\ ,\ 12\ ,\ 36\ ,\ldots,\ a_{n+1}$. מוסיפים לכל איבר בסדרה זו שישית מהאיבר הבא אחריו ויוצרים סדרה חדשה $b_n$ באופן הבא:

$$b_1 = a_1 + \frac{a_2}{6}\ ,\ b_2 = a_2 + \frac{a_3}{6}\ ,\ b_3 = a_3 + \frac{a_4}{6}\ ,\ \ldots\ldots\ ,\ b_n = a_n + \frac{a_{n+1}}{6}.$$

א. הוכח כי הסדרה $b_n$ היא סדרה הנדסית ומצא את מנתה.

ב. הראה כי היחס בין סכום $n$ האיברים הראשונים של הסדרה $a_n$ ובין סכום $n$ האיברים הראשונים של הסדרה $b_n$ הוא $\frac{2}{3}$.

ג. מצא שני איברים סמוכים בסדרה $b_n$ שסכומם מהווה $\frac{2}{9}$ מ- $a_8$.

**16)** נתונה הסדרה ההנדסית: $7, 14, 28, \ldots$.
בסדרה יש 8 איברים. חשב את סכום האיברים הנמצאים במקומות האי-זוגיים ואת סכום האיברים הנמצאים במקומות הזוגיים.

**17)** בסדרה הנדסית ובה $2n$ איברים סכום האיברים במקומות הזוגיים גדול פי 4 מסכום האיברים במקומות האי-זוגיים. חשב את מנת הסדרה.

**18)** נתונה סדרה הנדסית שמנתה $q$ ובה מספר זוגי של איברים.
בטא באמצעות $q$ את היחס בין סכום איברי הסדרה כולה לסכום האיברים הנמצאים במקומות הזוגיים שבה.

**19)** בסדרה הנדסית שבה $2n+1$ איברים, סכום $n$ האיברים הראשונים קטן פי 9 מסכום $n$ האיברים הבאים אחריהם. האיבר האחרון בסדרה גדול ב-30 מהאיבר הראשון שבה. מצא את האיבר הראשון בסדרה.

**20)** ענה על הסעיפים הבאים:

א. הראה כי בסדרה הנדסית שבה $2n$ איברים היחס בין סכום האיברים העומדים במקומות האי-זוגיים לבין סכום כל איברי הסדרה תלוי במנת בסדרה.

בסדרה הנדסית שבה מספר זוגי של איברים ידוע כי סכום כל האיברים העומדים במקומות האי-זוגיים קטן פי 4 מסכום כל איברי הסדרה. האיבר הראשון בסדרה זו קטן ב-2 ממנת הסדרה.

ב. כתוב נוסחה לאיבר כללי של סדרה זו.

ג. מצא שני איברים סמוכים בסדרה שסכומם הוא 324.

**21)** בסדרה הנדסית שבה 12 איברים סכום כל איברי הסדרה גדול פי 3 מסכום האיברים כאשר מחליפים את סימני כל האיברים העומדים במקומות האי-זוגיים.

א. מצא את מנת הסדרה.

ב. ידוע כי ההפרש בין האיבר החמישי לאיבר הרביעי בסדרה הוא 8. מצא את האיבר הראשון בסדרה.

ג. חשב את סכום כל האיברים העומדים במקומות הזוגיים בסדרה.

**22)** באחת ממדינות המזרח היה מלך שאהב משחקי חשיבה. לכבוד יום הולדתו הכין לו השר הבכיר שבממלכתו משחק מיוחד המכיל 25 משבצות ו-2 חיילי משחק. המלך, מרוב התלהבות ושמחה לא ידע כיצד לגמול לשר החכם ושאל אותו מה ירצה בתמורה. השר סרב לקבל דבר על מתנתו עד שלבסוף החליט המלך לתת לשר מחצית מכל אוצרות הממלכה המונים כ-40 מיליון אבנים יקרות. לאחר ששמע על כך השר, הוא החליט לאתגר את המלך והעלה את ההצעה הבאה:

תן לי אבן יקרה אחת והכפל אותה בכל משבצת שבמשבצות המשחק באופן הבא: כנגד המשבצת הראשונה - אבן אחת,
כנגד השנייה - שתי אבנים,
כנגד השלישית - ארבע אבנים וכן הלאה...
המלך הסכים להצעה.

א. כמה אבנים המלך ייתן לשר כנגד המשבצת האחרונה במשחק?

ב. העזר בכמות האבנים שברשותו של השר וקבע האם הצעתו שוות-ערך יותר מהחלטת המלך לתת לו מחצית מאוצרות הממלכה.

ג. סמוך לפני שנתן המלך את האבנים לשר, הציעה בתו של המלך הצעה נוספת והיא: תן עבור כל משבצת זוגית $2^n$ אבנים, כאשר $n$ הוא מספר המשבצת. האם כדאי למלך לקבל את הצעת בתו או להישאר עם ההצעה המקורית של השר?

## תשובות סופיות:

1) $a_9 = 729$.

2) $n = 7$.

3) $a_1 = \pm\frac{1}{4}, q = \pm 2$.

4) $a_1 = \frac{2}{3}, q = \pm 3$.

5) $a_1 = \frac{1}{25}, q = 5$.

6) 5 דקות.

7) $x = 11 \to q = 3$ , $x = -\frac{2}{3} \to q = -\frac{1}{2}$.

8) $a_8 = 384$.

9) $S_9 = 2555$.

10) 5 דקות.

11) $n = 4$, יש 12 איברים בסדרה.

12) $q = 2$.

13) $n = 6$.

14) א. $x = 14$ ב.i. $a_n = 5^{n-1}$ ב.ii. $a_6$ , $a_7$ ג. $S_7^* = 61,034,375$.

15) א. $q = 3$. ג. $b_5$ , $b_6$

16) אי-זוגיים: $S = 595$ , זוגיים: $S = 1190$.

17) $q = 4$.

18) $\frac{q+1}{q}$.

19) $a_1 = \frac{3}{8}$.

20) א. $\frac{S_{n(o)}}{S_{2n}} = \frac{1}{q+1}$ ב. $a_n = 3^{n-1}$ ג. $a_5$ , $a_6$.

21) א. $q = 2$ ב. $a_1 = 1$ ג. $S_{6(p)} = 2730$.

22) א. $a_{25} = 16,777,216$

ב. לפי הצעת השר יהיו לו 33,554,431 אבנים ולפי הצעת המלך יהיו לו 20,000,000 אבנים. ג. $4,16,64,...,2^{24}$ , $S_n = 22,369,620$.

# סדרה הנדסית אינסופית מתכנסת:

## סיכום כללי:

- **הגדרה:**

סדרה הנדסית $a_n$ המקיימת: $|q|<1$ , $(q\neq 0)$ נקראת סדרה הנדסית אינסופית מתכנסת.

- **נוסחת הסכום של סדרה הנדסית אינסופית מתכנסת:**

הסכום של סדרה הנדסית אינסופית מתכנסת $a_n$ ניתן לחישוב ע"י שימוש בכלל: $\lim\limits_{n\to\infty} q^n = 0$ והצבתו בנוסחת הסכום של סדרה הנדסית.

מתקבל הכלל הבא: $S=\frac{a_1}{1-q}$.

- **סכום סופי של איברים בסדרה הנדסית אינסופית מתכנסת:**

  - כאשר מתבקשים לחשב סכום של $n$ איברים ראשונים בסדרה הנדסית אינסופית מתכנסת יש להשתמש בנוסחת הסכום הרגילה: $S_n=\frac{a_1\left(q^n-1\right)}{q-1}$.

  - כאשר מתבקשים לחשב סכום של $n$ איברים בסדרה הנדסית אינסופית מתכנסת המתחילים באיבר $a_k$ יש להשתמש בנוסחת הסכום הרגילה באופן הבא: $S_n=\frac{a_k\left(q^n-1\right)}{q-1}$.

## שאלות:

**1)** מצא את סכום כל איברי הסדרה ההנדסית הבאה: $12\ ,\ 4\ ,\ 1\frac{1}{3}\ ,\ \ldots$.

**2)** סכום כל איברי סדרה הנדסית אינסופית שמנתה $\frac{1}{4}$ הוא 32.
מצא את האיבר הראשון בסדרה.

**3)** נתונה סדרה הנדסית אינסופית יורדת שסכומה 62.5. ידוע כי האיבר השני בסדרה הוא 10. מצא את האיבר הראשון ואת מנת הסדרה (שתי אפשרויות).

**4)** האיבר הראשון בסדרה הנדסית אינסופית יורדת הוא 14. סכום האיברים במקומות הזוגיים הוא $9\frac{1}{3}$. מצא את סכום האיברים במקומות האי-זוגיים.

***הערה: שתי השאלות הבאות מסכמות את סוגי הסכומים וייצוג סדרות שונות באמצעות סדרה נתונה כפי שמקובל בנושא זה ואינן מייצגות אורך של שאלת בגרות.**

**5)** נתונה סדרה הנדסית אינסופית מתכנסת $a_n$ שמנתה $q$ , $\left(q\neq 0\ ,\ |q|<1\right)$
מגדירים שלוש סדרות חדשות: $b_n$ , $c_n$ ו- $d_n$ באופן הבא:

| הסדרה: | $b_n$ | $c_n$ | $d_n$ |
|---|---|---|---|
| הכלל: | $b_1=a_1$<br>$b_2=a_1+a_2$<br>$b_3=a_1+a_2+a_3$<br>$\vdots$<br>$b_n=a_1+a_2+a_3+..+a_n=S_{a(n)}$ | $c_1=a_2^2-a_1^2$<br>$c_2=a_3^2-a_2^2$<br>$c_3=a_4^2-a_3^2$<br>$\vdots$<br>$c_n=a_{n+1}^2-a_n^2$ | $d_1=S_a+a_1$<br>$d_2=S_a+a_2$<br>$d_3=S_a+a_3$<br>$\vdots$<br>$d_n=S_a+a_n$ |

הסכום $S_a$ הוא סכום הסדרה $a_n$ , והסכום: $S_{a(n)}$ הוא סכום $n$ האיברים הראשונים של הסדרה $a_n$.

א. קבע אלו מבין הסדרות $b_n$ , $c_n$ ו- $d_n$ הן הנדסיות והבע את מנתן ע"י $q$ .

ב. הבע באמצעות $a_1$ בלבד את סכום הסדרה ההנדסית שמצאת בסעיף הקודם.

ג. מסמנים את סכום ריבועי האיברים של הסדרה ההנדסית שמצאת בסעיף א' ב- $S_{(S)}$ . הוכח כי לא קיים ערך של $q$ עבורו סכום ריבועי האיברים $S_{(S)}$, שווה לסכום הסדרה הנ"ל בריבוע.

**6)** נתונה סדרה הנדסית אינסופית יורדת: $a_n$ שמנתה $q$ .
מגדירים סדרה חדשה $b_n$ באופן הבא:

$$b_1 = S_1^* = \frac{a_1}{1-q} \quad , b_2 = S_2^* = \frac{a_2}{1-q} \quad , b_3 = S_3^* = \frac{a_3}{1-q} \quad ,..., b_n = S_n^* = \frac{a_n}{1-q} \quad ,..$$

כאשר: $S_n^*$ מייצג את סכום הסדרה $a_n$ החל מהאיבר $a_n$ (ועד אינסוף).

א. הוכח כי הסדרה $b_n$ היא גם הנדסית אינסופית יורדת וכתוב את נוסחת האיבר הכללי שלה באמצעות $a_1$ ו- $q$ .

ב. ידוע כי סכום הסדרה $b_n$ הוא 126 וכי סכום 8 האיברים הראשונים בסדרה $a_n$ גדול פי 6560 מהאיבר התשיעי בסדרה $b_n$ . מצא את $a_1$ ו- $q$ .

ג. היעזר בסעיף הקודם והוכח כי מתקיים: $b_2 + b_3 + ... + b_n + ... = 42$ .

ד. חשב את סכום האיברים העומדים במקומות הזוגיים בסדרה $b_n$ .

ה. חשב את סכום האיברים העומדים במקומות האי-זוגיים בסדרה $b_n$ .

ו. מחליפים את סימני האיברים העומדים במקומות האי-זוגיים בסדרה $b_n$ כך שנוצרת הסדרה: $b_n^*$ . חשב את סכום הסדרה $b_n^*$ .

ז. מחליפים את סימני האיברים העומדים במקומות הזוגיים בסדרה $b_n$ כך שנוצרת הסדרה: $b_n^{**}$ . חשב את סכום הסדרה $b_n^{**}$ .

ח. מעלים בריבוע את כל איברי הסדרה $b_n$ . מסמנים את הסכום המתקבל ב- $S_{(S)}$ (מלשון: square). כמו כן, מסמנים את סכום הסדרה המקורית $b_n$ ב- $S_b$ .
הראה כי: $S_b^2 \neq S_{(S)}$ .

ט. הוכח כי היחס בין סכום איברי הסדרה $a_n$ וסכום איברי הסדרה $b_n$ הוא $\frac{2}{3}$ .

**7)** נתונה סדרה הנדסית אינסופית יורדת שסכומה 24. מאיברי הסדרה הנתונה יצרו את סדרה חדשה באופן הבא: $a_1+a_2, a_2+a_3, a_3+a_4, a_4+a_5, \ldots$.

א. הוכח שהסדרה החדשה היא הנדסית אינסופית יורדת.

ב. ידוע שסכום כל איברי הסדרה החדשה הוא 32.
מצא את האיבר הראשון והמנה של הסדרה המקורית.

**8)** בסדרה הנדסית אינסופית יורדת $a_n$ ידוע כי סכום האיברים העומדים במקומות האי-זוגיים גדול פי $1\frac{2}{3}$ מסכום האיברים העומדים במקומות הזוגיים.

א. מצא את מנת הסדרה.

מחברים כל שני איברים סמוכים בסדרה הנתונה ויוצרים סדרה חדשה $b_n$.

ב. הוכח כי הסדרה $b_n$ גם היא הנדסית יורדת ומצא את מנתה.

ג. הראה כי סכום הסדרה $b_n$ שווה לסכום הסדרה $a_n$.

ד. סכום שתי הסדרות יחד הוא 1000. מצא את האיבר הראשון בסדרה $a_n$.

**9)** נתונה סדרה הנדסית אינסופית $a_1, a_2, a_3, \ldots$ שמנתה היא $q$, $(0<q<1)$.
נגדיר את הסכומים הבאים: $V=a_3+a_7+a_{11}+\ldots$, $T=a_1+a_2+a_5+a_6+a_9+a_{10}, \ldots$.
נתון כי: $T=6V$.

א. מצא את מנת הסדרה $q$.

ב. פי כמה קטן $V$ מסכום כל האיברים העומדים במקומות האי-זוגיים בסדרה?

ג. מצא את האיבר הראשון אם ידוע כי סכום האיברים העומדים במקומות האי-זוגיים הוא $1365\frac{1}{3}$.

**10)** נתונה הסדרה ההנדסית הבאה: $a_1, a_2, a_3, \ldots, a_{2n}$ שמנתה היא $q$.
בונים סדרה חדשה מריבועי כל האיברים הסדרה באופן הבא: $a_1^2, a_2^2, a_3^2, \ldots, a_{2n}^2$.

א. הוכח כי היחס בין סכום $n$ האיברים הראשונים בסדרת הריבועים ובין סכום כל האיברים העומדים במקומות האי-זוגיים בסדרה הנתונה תלוי רק באיבר הראשון של הסדרה.
בסדרה הנדסית אינסופית יורדת שסכומה 640 ידוע כי סכום 10 האיברים הראשונים כאשר מעלים אותם בריבוע גדול פי 320 מסכום 10 האיברים הראשונים העומדים במקומות האי-זוגיים בסדרה.

ב. מצא את מנת הסדרה.

ג. מחברים את כל איברי הסדרה החל מאיבר $a_n$ כלשהו.
ידוע כי סכום זה קטן פי 16 מסכום הסדרה המקורי. מצא את האיבר $a_n$.

**11)** נתונה סדרה הנדסית אינסופית $a_1 , a_2 , a_3 , .....$ שמנתה היא $q$ , $(q \neq 0 , |q| < 1)$.

נגדיר את הסכומים הבאים: $V = a_2 + a_7 + a_{12} + ... , .. , T = a_1 + a_3 + a_6 + a_8 + a_{11} + a_{13}$ .

נתון כי: $V = 0.3T$.

א. מצא את מנת הסדרה $q$.

מחליפים את הסימנים של כל האיברים העומדים במקומות האי-זוגיים ומתקבלת סדרה חדשה שסכומה הוא 12.

ב. מצא את האיבר הראשון בסדרה המקורית.

ג. מעלים את כל איברי הסדרה בריבוע. חשב את סכום הסדרה כעת.

## תשובות סופיות:

1) $S=18$.

2) $a_1=24$.

3) $a_1=50$ , $q=\frac{1}{5}$ או $a_1=12\frac{1}{2}$ , $q=\frac{4}{5}$.

4) $S=18\frac{2}{3}$.

5) א. הסדרה $b_n$ : $\frac{b_{n+1}}{b_n}=\frac{S_{n+1}}{S_n}=\frac{S_{n+1}}{S_n}=\frac{\frac{a_{n+1}\left(q^{n+1}-1\right)}{q-1}}{\frac{a_n\left(q^n-1\right)}{q-1}}=\frac{a_{n+1}\left(q^{n+1}-1\right)}{a_n\left(q^n-1\right)}=q\cdot\frac{q^{n+1}-1}{q^n-1}$

היות והיא תלויה ב- $n$ היא אינה הנדסית.

הסדרה $c_n$ הנדסית : $\frac{c_{n+1}}{c_n}=\frac{a_{n+2}^2-a_{n+1}^2}{a_{n+1}^2-a_n^2}=\frac{a_n^2q^4-a_n^2q^2}{a_n^2q^2-a_n^2}=\frac{a_n^2q^2\left(q^2-1\right)}{a_n^2\left(q^2-1\right)}=q^2$.

הסדרה $d_n$ : $\frac{b_{n+1}}{b_n}=\frac{S+a_{n+1}}{S+a_n}=\frac{\frac{a_1}{1-q}+a_{n+1}}{\frac{a_1}{1-q}+a_n}=\frac{a_1+(1-q)a_{n+1}}{a_1+(1-q)a_n}=\frac{a_1\left(1+(1-q)q^n\right)}{a_1\left(1+(1-q)q^{n-1}\right)}=\frac{q^n-q^{n+1}+1}{q^{n-1}-q^n+1}$

היות והיא תלויה ב- $n$ היא אינה הנדסית. ב. $S_{(c_n)}=\frac{c_1}{1-q_c}=\frac{a_2^2-a_1^2}{1-q^2}=\frac{a_1^2\left(q^2-1\right)}{1-q^2}=-a_1^2$.

ג. מההשוואה : $S_{(s)}=S^2$ מקבלים כי פתרון המשוואה הוא : $q=0,\pm1$.

כולם נפסלים מכיוון שמנת הסדרה הנתונה $a_n$ היא שבר.

עבור $|q|>1$ הסדרות אינן מתכנסות ולכן לא קיים ערך של $q$ עבורו השוויון יתקיים. מש"ל.

6) א. $b_n=\frac{a_1}{1-q}q^{n-1}$ ב. $a_1=56$ , $q=\frac{1}{3}$ ג. הוכחה. ד. 31.5

ה. 94.5 ו. -63 ז. 63 ח. 7938

ט. הסכום : $S^2$ משמעו : $\left(b_1+b_2+...+b_n+..\right)^2$.

הסכום : $S_{(s)}$ משמעו : $b_1^2+b_2^2+...+b_n^2+..$. ברור כי הביטויים אינם שווים.

7) א. הוכחה. ב. $a_1=16$ , $q=\frac{1}{3}$.

8) א. $q=0.6$ ב. $\frac{b_{n+1}}{b_n}=\frac{a_{2n+1}+a_{2n+2}}{a_{2n-1}+a_{2n}}=q^2$ ד. $a_1=200$

9) א. $q=\frac{1}{2}$ ב. פי 5 ג. $a_1=1024$

10) א. הוכחה. ב. $q=0.5$ ג. $a_5=20$.

11) א. $q=\frac{1}{3}$ ב. $a_1=-16$ ג. $S=288$.

# קורס קדם במתמטיקה למהנדסים

## פרק 17 - אינדוקציה מתמטית

### תוכן העניינים


1. שאלות העוסקות בתכונות התחלקות ..... 269
2. סדרות ..... 272
3. עצרת ..... 274
4. שאלות שבהן האיבר הכללי מורכב ממספר מחוברים ..... 275
5. שאלות העוסקות באינדוקציות עם איברים משתנים ..... 276
6. שאלות העוסקות בהוכחת באי-שוויונים באינדוקציה ..... 277
7. שאלות כוללות ומסכמות ..... 279
8. מושג הסכימה וכתיבה מקוצרת של אינדוקציות ..... 281

# שאלות העוסקות בתכונות התחלקות:

## סיכום כללי:

**מבנה כללי של רישום הוכחה באינדוקציה:**

**בדיקה:**

בדיקה נכונות האינדוקציה עבור $n=1$ (ולעיתים כדאי לבדוק גם עבור $n=2,3$).

**הנחת האינדוקציה:**

נניח כי עבור $n=k$ ($k$ טבעי כלשהו) כי טענת האינדוקציה נכונה.

**הוכחת האינדוקציה:**

נוכיח כי עבור $n=k+1$ טענת האינדוקציה מתקיימת.

**סיכום:**

לסיכום, הראנו כי הטענה נכונה עבור $n=1$ והראנו כי נכונות הטענה עבור $n=k$ גוררת את נכונותה עבור $n=k+1$, לפיכך, על פי אקסיומת האינדוקציה, הטענה נכונה לכל $n$ טבעי.

## שאלות:

1) הוכח באינדוקציה, או בכל דרך אחרת, כי הביטוי $8^n-3^n$ מתחלק ב-5 ללא שארית לכל $n$ טבעי.

2) הוכח באינדוקציה, או בכל דרך אחרת, כי הביטוי $11^n-4^n$ מתחלק ב-7 ללא שארית לכל $n$ טבעי.

3) הוכח באינדוקציה, או בכל דרך אחרת, כי הביטוי $8\cdot 7^n+4^{n+2}$ מתחלק ב-24 ללא שארית לכל $n$ טבעי.

4) הוכח באינדוקציה, או בכל דרך אחרת, כי הביטוי $5\cdot 3^{2n}-5^{n+1}$ מתחלק ב-20 ללא שארית לכל $n$ טבעי.

5) $a_n$ הוא האיבר במקום ה-$n$ בסדרה החשבונית: $1,3,5,7,...$ הוכח באינדוקציה, או בכל דרך אחרת, כי הביטוי $2^{a_n}+4$ מתחלק ב-12 ללא שארית לכל $n$ טבעי הגדול מ-1.

6) הוכח באינדוקציה, או בכל דרך אחרת, כי הביטוי $n^2+n$ מתחלק ב-2 ללא שארית לכל $n$ טבעי.

7) הוכח באינדוקציה, או בכל דרך אחרת, כי הביטוי $n^3+5n$ מתחלק ב-6 ללא שארית לכל $n$ טבעי.

8) הוכח באינדוקציה, או בכל דרך אחרת, כי הביטוי $3^n-2n-1$ מתחלק ב-4 ללא שארית לכל $n$ טבעי.

9) הוכח באינדוקציה, או בכל דרך אחרת, כי הביטוי $9\left(9^n-1\right)-40n$ מתחלק ב-32 ללא שארית לכל $n$ טבעי.

10) הוכח באינדוקציה, או בכל דרך אחרת, כי הביטוי $7^n+5^n-2^n\left(2^n+1\right)$ מתחלק ב-6 ללא שארית לכל $n$ טבעי.

**11)** הוכח באינדוקציה, או בכל דרך אחרת, כי הביטוי $7^n+2^{2n}$ מתחלק ב-11 ללא שארית לכל $n$ טבעי אי זוגי.

**12)** הוכח באינדוקציה, או בכל דרך אחרת, כי הביטוי $a^n-b^n$ מתחלק ב-$(a+b)$ ללא שארית לכל $n$ טבעי זוגי.

**13)** הוכח באינדוקציה, או בכל דרך אחרת, כי הביטוי $7^{n+2}+1$ מותיר שארית 2 בחלוקתו ב- 3 לכל $n$ טבעי.

## תשובות סופיות:

שאלות הוכחה.

# סדרות:

## סיכום כללי:

**תזכורת:**

- סדרה היא אוסף מספרים: $a_1, a_2, ...., a_n$, כאשר $n$ הוא מיקום האיבר בסדרה ו- $a_n$ הוא ערך האיבר העומד במקום ה- $n$-י בסדרה.
  - סדרה כללית – סדרה שבה כל איבר מוגדר לפי מקומו בסדרה.
  - סכום $n$ האיברים הראשונים בסדרה יסומן ב- $S_n$ והוא מקיים: $S_n = a_1 + ... + a_n$.

- סדרה חשבונית – סדרת מספרים שבה ההפרש בין כל שני איברים סמוכים הוא גודל קבוע. נוסחת האיבר הכללי היא: $a_n = a_1 + d(n-1)$ כאשר $d$ הפרש הסדרה.
  - סכום $n$ האיברים הראשונים הוא: $S_n = \frac{n(a_1 + a_n)}{2} = \frac{n}{2}\left[2a_1 + d(n-1)\right]$.

- סדרה הנדסית – סדרת מספרים שבה המנה בין כל שני איברים סמוכים היא גודל קבוע. נוסחת האיבר הכללי היא: $a_n = a_1 q^{n-1}$ כאשר $q$ היא מנת הסדרה.
  - סכום $n$ האיברים הראשונים הוא: $S_n = \frac{a_1(q^n - 1)}{q-1}$.

## שאלות:

**14)** הוכח באינדוקציה, או בכל דרך אחרת, כי לכל $n$ טבעי מתקיים: $1+2+3+4+...+n=\frac{n}{2}(n+1)$.

**15)** הוכח באינדוקציה, או בכל דרך אחרת, כי לכל $n$ טבעי מתקיים: $4+7+10+13+...+(3n+1)=\frac{n}{2}(3n+5)$.

**16)** נתונה סדרה שבה: $a_n=n(n+2)$.

הוכח באינדוקציה, או בכל דרך אחרת, כי לכל $n$ טבעי מתקיים: $S_n=\frac{n}{6}(n+1)(2n+7)$.

**17)** הוכח באינדוקציה, או בכל דרך אחרת, כי לכל $n$ טבעי מתקיים:
$$\frac{1}{1\cdot 5}+\frac{1}{5\cdot 9}+\frac{1}{9\cdot 13}+\cdots+\frac{1}{(4n-3)(4n+1)}=\frac{n}{4n+1}.$$

**18)** הוכח באינדוקציה, או בכל דרך אחרת, כי לכל $n$ טבעי מתקיים:
$$\frac{6}{1\cdot 3\cdot 5}+\frac{6}{3\cdot 5\cdot 7}+\cdots+\frac{6}{(2n-1)(2n+1)(2n+3)}=\frac{2n(n+2)}{(2n+1)(2n+3)}.$$

**19)** הוכח באינדוקציה, או בכל דרך אחרת, כי לכל $n$ טבעי מתקיים:
$$1\cdot 1+2\cdot 3+3\cdot 9+...+n\cdot 3^{n-1}=\frac{1}{4}\left[3^n(2n-1)+1\right].$$

## תשובות סופיות:

שאלות הוכחה.

# עצרת:

## סיכום כללי:

**תזכורת – מושג העצרת:**

עצרת מוגדרת להיות מכפלת האיברים עד לערך הנקוב: $n!=1\cdot 2\cdot 3\cdot ...\cdot n$.

מגדירים: $0!=1$ ותמיד מתקיימים השוויונות: $n!=n\cdot(n-1)!$ , $(n+1)!=n!\cdot(n+1)$.

## שאלות:

**20)** הוכח באינדוקציה, או בכל דרך אחרת, כי לכל $n$ טבעי מתקיים:

$$\frac{1}{2!}+\frac{2}{3!}+\frac{3}{4!}+...+\frac{n}{(n+1)!}=1-\frac{1}{(n+1)!}$$

**21)** הוכח באינדוקציה, או בכל דרך אחרת, כי לכל $n$ טבעי מתקיים:

$$\frac{1\cdot 2!}{2}+\frac{2\cdot 3!}{4}+\frac{3\cdot 4!}{8}+...+\frac{n(n+1)!}{2^n}=\frac{(n+2)!}{2^n}-2$$

**22)** הוכח באינדוקציה, או בכל דרך אחרת, כי לכל $n$ טבעי מתקיים:

$$p!+\frac{(p+1)!}{1!}+\frac{(p+2)!}{2!}+...+\frac{(p+n-1)!}{(n-1)!}=\frac{(p+n)!}{(n-1)!(p+1)}$$

**23)** הוכח באינדוקציה, או בכל דרך אחרת, כי לכל $n$ טבעי מתקיים:

$$\left(\frac{1}{1}+\frac{1}{1}\right)\left(\frac{1}{2}+\frac{1}{4}\right)\left(\frac{1}{3}+\frac{1}{9}\right)...\left(\frac{1}{n}+\frac{1}{n^2}\right)=\frac{n+1}{n!}$$

**24)** הוכח באינדוקציה, או בכל דרך אחרת, כי לכל $n$ טבעי מתקיים:

$$\frac{5}{1\cdot 4}-\frac{11}{4\cdot 7}+\frac{17}{7\cdot 10}-...+\frac{(-1)^{n-1}(6n-1)}{(3n-2)(3n+1)}=1+\frac{(-1)^{n+1}}{3n+1}$$

## תשובות סופיות:

שאלות הוכחה.

# שאלות שבהן האיבר הכללי מורכב ממספר מחוברים:

## שאלות:

**25)** הוכח באינדוקציה, או בכל דרך אחרת, כי לכל $n$ טבעי מתקיים:

$$1+2+3+4+...+2n=n(2n+1)$$

**26)** הוכח באינדוקציה, או בכל דרך אחרת, כי לכל $n$ טבעי מתקיים:

$$1^2+2^2+3^2+4^2+\cdots+(2n)^2=\frac{n}{3}(2n+1)(4n+1)$$

**27)** הוכח באינדוקציה, או בכל דרך אחרת, כי לכל $n$ טבעי מתקיים:

$$1\cdot 2^0+2\cdot 2^1+3\cdot 2^2+4\cdot 2^3+...+3n\cdot 2^{3n-1}=(3n-1)2^{3n}+1$$

## תשובות סופיות:

שאלות הוכחה.

## שאלות העוסקות באינדוקציות עם איברים משתנים:

### שאלות:

**28)** הוכח באינדוקציה, או בכל דרך אחרת, כי לכל $n$ טבעי מתקיים:

$$n+(n+1)+(n+2)+(n+3)+...+(3n)=2n(2n+1)$$

**29)** הוכח באינדוקציה, או בכל דרך אחרת, כי לכל $n$ טבעי מתקיים:

$$(n+1)^2+(n+2)^2+(n+3)^2+...+(2n)^2=\frac{n}{6}(2n+1)(7n+1)$$

**30)** הוכח באינדוקציה, או בכל דרך אחרת, כי לכל $n$ טבעי מתקיים:

$$\left(1-\frac{1}{n+1}\right)\left(1-\frac{1}{n+2}\right)\left(1-\frac{1}{n+3}\right)...\left(1-\frac{1}{2n}\right)=\frac{1}{2}$$

**31)** הוכח באינדוקציה, או בכל דרך אחרת, כי לכל $n$ טבעי מתקיים:

$$(n+1)(n+2)\cdot\ldots\cdot(2n)=2^n\cdot1\cdot3\cdot5\cdot\ldots\cdot(2n-1)$$

**32)** הוכח באינדוקציה, או בכל דרך אחרת, כי לכל $n$ טבעי מתקיים:

$$1-\frac{1}{2}+\frac{1}{3}-\frac{1}{4}+\cdots-\frac{1}{2n}=\frac{1}{n+1}+\frac{1}{n+2}+\cdots+\frac{1}{2n}$$

### תשובות סופיות:

שאלות הוכחה.

## שאלות העוסקות בהוכחת באי-שוויונים באינדוקציה:

### שאלות:

**33)** הוכח באינדוקציה, או בכל דרך אחרת, כי לכל $n$ טבעי הגדול מ-1 מתקיים:

$$\frac{1}{3^2}+\frac{1}{4^2}+\cdots+\frac{1}{(n+1)^2}<\frac{n}{n+1}$$

**34)** הוכח באינדוקציה, או בכל דרך אחרת, כי לכל $n$ טבעי מתקיים:

$$\frac{1}{1!}+\frac{1}{2!}+\frac{1}{3!}+\cdots+\frac{1}{n!}\le 2-\frac{1}{n}$$

**35)** הוכח באינדוקציה, או בכל דרך אחרת, כי לכל $n$ טבעי הגדול מ-2 מתקיים:

$$\frac{1}{n+1}+\frac{1}{n+2}+\frac{1}{n+3}+\cdots+\frac{1}{2n}>\frac{3}{5}$$

**36)** נתונה סדרה שבה: $a_n=n^n$. נגדיר: $T_n=a_1\cdot a_2\cdot a_3\cdot\ldots\cdot a_n$.

הוכח באינדוקציה, או בכל דרך אחרת, כי לכל $n$ טבעי מתקיים: $T_n\le n^{\frac{n}{2}(n+1)}$.

**37)** נתון אי-השוויון: $2^n>n^2$. מצא את ה-$n$ המינימלי שממנו מתקיים אי-השוויון לכל המספרים הטבעיים הגדולים ממנו והוכח באינדוקציה כי אי-השוויון מתקיים לכל $n$ טבעי החל מה-$n$ שמצאת.

**38)** נתון אי-השוויון: $4^n>5n^2+1$. מצא את ה-$n$ המינימלי שממנו מתקיים אי-השוויון לכל המספרים הטבעיים הגדולים ממנו והוכח באינדוקציה כי אי-השוויון מתקיים לכל $n$ טבעי החל מה-$n$ שמצאת.

**39)** נתון אי-השוויון: $n^3-n<5^{n-1}$. מצא את ה-$n$ המינימלי שממנו מתקיים אי-השוויון לכל המספרים הטבעיים הגדולים ממנו והוכח באינדוקציה כי אי-השוויון מתקיים לכל $n$ טבעי החל מה-$n$ שמצאת.

**40)** נתון אי-השוויון: $3^n+4^n+5^n<6^n$. מצא את ה-$n$ המינימלי שממנו מתקיים אי-השוויון לכל המספרים הטבעיים הגדולים ממנו והוכח באינדוקציה כי אי-השוויון מתקיים לכל $n$ טבעי החל מה-$n$ שמצאת.

**41)** נתון אי-השוויון: $n^n \geq n!$. הוכח באינדוקציה, או בכל דרך אחרת, כי אי-השוויון מתקיים לכל $n$ טבעי.

**42)** נתון אי-השוויון: $a^n + b^n < (a+b)^n$ , $(a,b>0)$.

הוכח באינדוקציה, או בכל דרך אחרת, כי אי-השוויון מתקיים לכל $n$ טבעי הגדול מ-1.

## תשובות סופיות:

שאלות הוכחה.

# שאלות כוללות ומסכמות:

## שאלות:

**43)** נתון השוויון: $4+7+10+13+...=\frac{n}{2}(3n+5)$.

א. מצא את האיבר במקום ה-$n$.

ב. הוכח באינדוקציה, או בכל דרך אחרת, כי השוויון מתקיים לכל $n$ טבעי.

ג. חשב את הסכום: $37+40+43+...+85$.

**44)** נתון השוויון: $\frac{2}{3}+\frac{6}{9}+\frac{10}{27}+...=2-\frac{2n+2}{3^n}$. מצא את האיבר במקום ה-$n$.

**45)** נתון השוויון: $\frac{1}{1\cdot 5}+\frac{1}{5\cdot 9}+\frac{1}{9\cdot 13}+\cdots=\frac{n}{4n+1}$.

א. מצא את האיבר במקום ה-$n$.

ב. הוכח באינדוקציה, או בכל דרך אחרת, כי השוויון מתקיים לכל $n$ טבעי.

ג. חשב את הסכום: $\frac{1}{25\cdot 29}+\frac{1}{29\cdot 33}+\frac{1}{33\cdot 37}+\cdots+\frac{1}{89\cdot 93}$.

**46)** נתון השוויון: $(n+1)^2+(n+2)^2+(n+3)^2+...+(2n)^2=\frac{n}{6}(2n+1)(7n+1)$.

א. הוכח באינדוקציה, או בכל דרך אחרת, כי השוויון מתקיים לכל $n$ טבעי.

ב. חשב באמצעות סעיף א' את הסכום: $26^2+27^2+28^2+...+48^2$.

**47)** נתון השוויון: $1^2+2^2+3^2+4^2+\cdots+(2n)^2=\frac{n}{3}(2n+1)(4n+1)$.

א. הוכח באינדוקציה, או בכל דרך אחרת, כי השוויון מתקיים לכל $n$ טבעי.

ב. הבע באמצעות $n$ את הסכום: $4^2+6^2+8^2+\cdots+(4n)^2$.

**48)** נתונים השוויונים הבאים:

א. $3n+(3n+1)+(3n+2)+\cdots+4n=\frac{7}{3}(n^2+3n-1)$.

ב. $3n+(3n+1)+(3n+2)+\cdots+4n=n^2+11n-5$.

ג. $3n+(3n+1)+(3n+2)+\cdots+4n=\frac{7n}{2}(n+1)$.

קבע איזה מהשוויונים נכון לכל $n$ טבעי, והוכח אותו באינדוקציה.

**49)** נתון השוויון: $n+(n+1)+(n+2)+(n+3)+...+(3n)=an(2n+b)$.

א. נתון כי השוויון נכון עבור $n=1$ ו- $n=2$. מצא את ערכי $a$ ו- $b$.

ב. הוכח באינדוקציה, או בכל דרך אחרת, כי השוויון מתקיים לכל $n$ טבעי.

**50)** נתון אי-השוויון: $\frac{1}{n+1}+\frac{1}{n+2}+\cdots+\frac{1}{2n}>\frac{3}{5}$.

א. הוכח באינדוקציה, או בכל דרך אחרת, כי אי-השוויון מתקיים לכל $n$ טבעי הגדול מ-2.

ב. הוכח באמצעות סעיף א' כי מתקיים: $\frac{1}{11}+\frac{1}{12}+\frac{1}{13}+\cdots+\frac{1}{18}>\frac{1}{2}$.

**51)** נתון אי-השוויון: $n^2<2^n$.

א. הוכח באינדוקציה, או בכל דרך אחרת, כי אי-השוויון מתקיים לכל $n$ טבעי הגדול מ-4.

ב. הוכח באמצעות סעיף א' כי מתקיים: $5^2\cdot 6^2\cdot 7^2\cdot 8^2\cdot ...\cdot 20^2<2^{200}$.

**52)** הוכח באינדוקציה, או בכל דרך אחרת, כי הסכום: $9+27+81+\cdots+3^{3n+1}$ מתחלק ב-117 ללא שארית לכל $n$ טבעי.

**53)** ענה על הסעיפים הבאים:

א. הוכח באינדוקציה, או בכל דרך אחרת, כי הביטוי $n^3+5n$ מתחלק ב-6 ללא שארית לכל $n$ טבעי.

ב. נתון כי $a+b$ מתחלק ב-6 ללא שארית.
הוכח כי $a^3+b^3$ מתחלק ב-6 ללא שארית.

**54)** ענה על הסעיפים הבאים:

א. הוכח את הטענה: אם ל- $n$ טבעי מסוים $3^n+5^n$ מתחלק ב-16 ללא שארית אז גם $3^{n+2}+5^{n+2}$ מתחלק ב-16 ללא שארית.

ב. האם מהטענה בסעיף א' נובע כי $3^n+5^n$ מתחלק ב-16 ללא שארית עבור כל $n$ טבעי אי-זוגי?

ג. הוכח באינדוקציה, או בכל דרך אחרת, כי הביטוי $3^n+5^n$ מתחלק ב-8 ללא שארית לכל $n$ טבעי אי-זוגי.

## תשובות סופיות:

שאלות הוכחה.

# מושג הסכימה וכתיבה מקוצרת של אינדוקציות:

## סיכום כללי:

סימון הסכימה (קרי: סיגמה) מוגדר באופן הבא: $\sum_{k=1}^{n} a_k = a_1 + a_2 + ... + a_n$.

מקור הסימון נובע מהמילה Sum ומשמעו הוא סכימה של איברים המתחילים בערך המצוין בתחתית הסימון $\left(\sum_{\boxed{k=1}}^{n}\right)$ עד לערך המצוין בחלקו העליון $\left(\sum_{k=1}^{\boxed{n}}\right)$.

**דוגמאות:**

- $\sum_{k=1}^{n} k = 1+2+3+...+n$.
- $\sum_{k=3}^{12} k^2 = 3^2+4^2+...+12^2$.
- $\sum_{k=1}^{2n} \frac{1}{2k+1} = \frac{1}{5}+\frac{1}{9}+....+\frac{1}{4n+1}$.

## שאלות:

1) הוכח באינדוקציה כי לכל $n$ טבעי מתקיים: $\sum_{k=1}^{n} k^2 = \frac{n}{6}(n+1)(2n+1)$.

2) הוכח באינדוקציה כי לכל $n$ טבעי מתקיים: $\sum_{k=1}^{n} \frac{1}{k(k+1)} = \frac{n}{n+1}$.

3) הוכח באינדוקציה כי לכל $n$ טבעי מתקיים: $\sum_{k=1}^{n} \frac{1}{(4k-3)(4k+1)} = \frac{n}{4n+1}$.

4) הוכח באינדוקציה כי לכל $n$ טבעי מתקיים: $\sum_{k=1}^{n} 2^k = 2(2^n-1)$.

5) הוכח באינדוקציה כי לכל $n$ טבעי מתקיים: $\sum_{k=1}^{n}\frac{3}{4^{k-1}}=4-\frac{1}{4^{n-1}}$.

6) הוכח באינדוקציה כי לכל $n$ טבעי מתקיים: $\sum_{k=1}^{3n}k=1\frac{1}{2}n(3n+1)$.

7) הוכח באינדוקציה כי לכל $n$ טבעי מתקיים: $\sum_{k=1}^{3n}(4k-1)=3n(6n+1)$.

8) הוכח באינדוקציה כי לכל $n$ טבעי מתקיים: $\sum_{k=1}^{n}(n+k)=\frac{n}{2}(3n+1)$.

9) הוכח באינדוקציה כי לכל $n$ טבעי מתקיים: $\sum_{k=1}^{n}3^{n+k}=\frac{3^{n+1}(3^n-1)}{2}$.

## תשובות סופיות:

שאלות הוכחה.

# קורס קדם במתמטיקה למהנדסים

## פרק 18 - סימן הסכימה (סיגמה)

תוכן העניינים

1. כללי ..... 283

# סימן הסכימה (סיגמה):

## שאלות:

**1)** כתוב בפירוט את הסכומים הבאים:

א. $\sum_{n=0}^{10} 4^n$ ב. $\sum_{k=1}^{4} 2k$ ג. $\sum_{n=4}^{10} na_n$

ד. $\sum_{i=7}^{11} 4i^2 a_i$ ה. $\sum_{t=1}^{8} tx^t$ ו. $\sum_{k=4}^{10} na_k$

ז. $\sum_{k=1}^{10} 4n$ ח. $\sum_{k=-1}^{3} \left(k^2+1\right)$ ט. $\sum_{l=1}^{3} \left(l^2 - x_l - 4\right)$

**2)** כתוב את הסכומים הבאים בעזרת סימן הסכימה:

א. $1+2+4+8+16+32+64+128$

ב. $2+4+6+8+10+12+14+16+18+20$

ג. $1+3+5+7+9+11+13+15+17+19$

ד. $1\cdot 2+2\cdot 3+3\cdot 4+4\cdot 5+5\cdot 6+6\cdot 7+7\cdot 8$

ה. $1\cdot 2+3\cdot 4+5\cdot 6+...+44\cdot 45$

ו. $3\cdot 2+6\cdot 3+9\cdot 4+12\cdot 5+15\cdot 6+18\cdot 7+21\cdot 8$

ז. $5^2+7^2+...+27^2$

ח. $\frac{1}{1\cdot 2}+\frac{1}{2\cdot 3}+\frac{1}{3\cdot 4}+....+\frac{1}{10\cdot 11}$

ט. $\frac{2}{3}+\frac{6}{9}+\frac{10}{27}+\frac{14}{81}+\frac{18}{243}$

י. $4+\frac{8}{5}+\frac{12}{25}+\frac{16}{125}+\frac{20}{625}$

**3)** חשב את הסכומים הבאים:

א. $\sum_{k=1}^{10} 4k$ ב. $\sum_{k=1}^{10} \left(2k+4k^2\right)$ ג. $\sum_{k=10}^{24} k(k-1)$

ד. $\sum_{k=10}^{24} \frac{k^3-k}{k+1}$ ה. $\sum_{k=4}^{10} (k-2)(k+2)$ ו. $\sum_{k=1}^{10} \left(2k^2+1\right)(k-2)$

* תוכל להיעזר בנוסחאות הבאות: $\sum_{k=1}^{n} k^3 = \left[\frac{n(n+1)}{2}\right]^2$ , $\sum_{k=1}^{n} k^2 = \frac{n(n+1)(2n+1)}{6}$ , $\sum_{k=1}^{n} k = \frac{n(n+1)}{2}$

**4)** חשב את הסכומים הבאים:

א. $\sum_{k=1}^{20}\frac{5\cdot 4^k+8^k}{2^k}$ ב. $\sum_{k=1}^{11}\frac{2\cdot 4^{k+2}+10^k}{0.4^k}$ ג. $\sum_{k=10}^{20}2^{2k+10}$

* תוכל להיעזר בנוסחה הבאה: $(a\neq 1)$ $\sum_{k=1}^{n}a^k=\frac{a\left(a^n-1\right)}{a-1}$.

**5)** חשב את הסכומים הבאים:

א. $1^2+2^2+3^2+...+20^2$ ב. $4^2+5^2+6^2+...+24^2$

ג. $2^2+4^2+6^2+...+22^2$ ד. $1^2+3^2+5^2+...+17^2$

**6)** הוכח כי:

א. $\sum_{k=1}^{n}\frac{2^{2k+4}}{k+2}=\sum_{k=0}^{n-1}\frac{2^{2k+6}}{k+3}$

ב. $\sum_{k=4}^{n-3}\frac{4k+17+2^{2k}}{k+1}=\sum_{k=8}^{n+1}\frac{4k+1+2^{2k-8}}{k-3}$

**7)** חשב את הסכומים הבאים ללא פיצול הסכום:

א. $\sum_{4}^{11}k^2$ ב. $\sum_{10}^{20}4^{2k}$

## תשובות סופיות:

1) א. $4^0+4^1+4^2+4^3+4^4+4^5+4^6+4^7+4^8+4^9+4^{10}$

ב. $2\cdot1+2\cdot2+2\cdot3+2\cdot4$

ג. $4a_4+4a_5+4a_6+4a_7+4a_8+4a_9+4a_{10}$

ד. $4\cdot7^2a_7+4\cdot8^2a_8+4\cdot9^2a_9+4\cdot10^2a_{10}+4\cdot11^2a_{11}+4\cdot7^2a_7$

ה. $1x^1+2x^2+3x^3+4x^4+5x^5+6x^6+7x^7+8x^8$

ו. $na_5+na_6+na_7+na_8+na_9+na_{10}+na_{11}$

ז. $4n+4n+4n+4n+4n+4n+4n+4n+4n+4n$

ח. $\left((-1)^2+1\right)+\left(0^2+1\right)+\left(1^2+1\right)+\left(2^2+1\right)+\left(3^2+1\right)$

ט. $\left(1^2-x_2-4\right)+\left(2^2-x_4-4\right)+\left(3^2-x_6-4\right)$

2) א. $\sum_{k=0}^{7}2^k$ ב. $\sum_{k=1}^{10}2k$ ג. $\sum_{k=0}^{9}(2k+1)$ ד. $\sum_{k=1}^{7}k(k+1)$

ה. $\sum_{k=1}^{22}(2k-1)2k$ ו. $\sum_{k=1}^{7}3k(k+1)$ ז. $\sum_{n=3}^{14}(2n-1)^2$

ח. $\sum_{n=1}^{10}\frac{1}{n(n+1)}$ ט. $\sum_{k=1}^{5}\frac{4k-2}{3^k}$ י. $\sum_{k=1}^{4}\frac{4k}{5^{k-1}}$

3) א. 220 ב. 1650 ג. 255 ד. 9160 ה. 28 ו. 4545

4) א. $5\cdot\left(2^{21}-2\right)+\frac{4}{3}\left(4^{20}-1\right)$ ב. $32\cdot\frac{10\left(10^{11}-1\right)}{10-1}+\frac{25\left(25^{11}-1\right)}{25-1}$

ג. $2^{10}\left[\frac{4\left(4^{20}-1\right)}{4-1}-\frac{4\left(4^{9}-1\right)}{4-1}\right]$

5) א. 2870 ב. 2856 ג. 2024 ד. 969

6) הוכחה.

7) א. $\frac{8(8+1)(2\cdot8+1)}{6}+6\cdot\frac{8(8+1)}{2}+9\cdot8$ ב. $4^{18}\cdot\frac{16\left(16^{11}-1\right)}{16-1}$

# קורס קדם במתמטיקה למהנדסים

## פרק 19 - מבוא לתורת הקבוצות

תוכן העניינים

1. כללי ..... 286

# כללי:

## סיכום כללי:

**הגדרות יסודיות:**

- גרירה חד כיוונית $\Rightarrow$ : $A \Rightarrow B$ פירושו: אם $A$ מתקיים אז גם $B$ מתקיים.
- גרירה דו-כיוונית $\Leftrightarrow$ (אם ורק אם): $A \Leftrightarrow B$ פירושו: $A \Rightarrow B$ וגם $B \Rightarrow A$.
- הסימן 'או': $\vee$.
- הסימן 'וגם': $\wedge$.

**קבוצה, איבר של קבוצה ושייכות לקבוצה:**

- קבוצה היא אוסף של עצמים.
- כל עצם בקבוצה נקרא איבר של הקבוצה.
- שייכות לקבוצה:
  - על מנת לציין שהאיבר $a$ שייך לקבוצה $A$ נרשום $a \in A$.
  - על מנת לציין שהאיבר $a$ אינו שייך לקבוצה $A$ נרשום $a \notin A$.

**שוויון בין קבוצות:**

שתי קבוצות הן שוות אם יש להן בדיוק את אותם איברים.

פורמלית שוויון בין קבוצות מוגדר באופן הבא: $A = B \Leftrightarrow (x \in A \Leftrightarrow x \in B)$.

**הקבוצה ריקה:**

קבוצה שאין בה כלל איברים נקראת הקבוצה הריקה ומסומנת ב- $\phi$, כלומר $\phi = \{\ \}$.

**קבוצה סופית ואינסופית:**

- קבוצה תקרא סופית אם מספר האיברים בה סופי.
- קבוצה תקרא אינסופית אם מספר האיברים בה אינסופי.

**עוצמה של קבוצה:**

מספר האיברים של קבוצה $A$ נקרא גם העוצמה של הקבוצה ומסומן $|A|$.

**תת-קבוצה:**

אם קבוצה $A$ מוכלת בקבוצה $B$, נסמן זאת: $A \subseteq B$.

תמיד מתקיים:

- $A \subseteq A$.
- $\phi \subseteq A$.

עבור שוויון קבוצות נדרוש: $A = B \Leftrightarrow (x \in A \Leftrightarrow x \in B)$ או $A = B \Leftrightarrow (A \subseteq B \wedge B \subseteq A)$.

**קבוצות מספרים מיוחדות:**

- קבוצת המספרים הטבעיים: $\mathbb{N} = \{1, 2, 3, 4, ....\}$.
- קבוצת המספרים השלמים: $\mathbb{Z} = \{0, \pm1, \pm2, \pm3, \pm4, ....\}$.
- קבוצת המספרים הרציונאליים: $\mathbb{Q} = \left\{ \frac{p}{q} \;\middle|\; p, q \in \mathbb{Z}, q \neq 0 \right\}$.
- קבוצת המספרים האי-רציונאליים (אין סימון ספציפי לקבוצה זו, למעט P).
- קבוצת המספרים הממשיים: $\mathbb{R}$ (כוללת את $\mathbb{Q}$ ואת P).

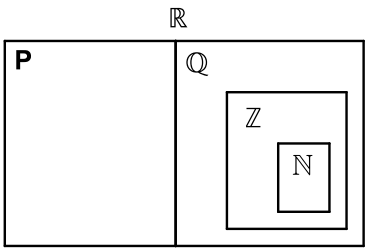


**ציר המספרים:**

את קבוצת כל המספרים הממשיים ניתן לתאר על ידי הישר הממשי שהוא הישר שנקודותיו הן המספרים הממשיים:

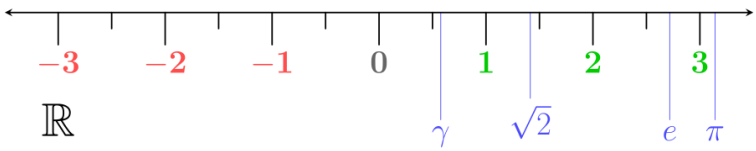

**קטעים על ציר המספרים:**

| תיאור מילולי | סימון קבוצות | סימון קטעים |
|---|---|---|
| הקטע הפתוח מ-a ל-b לא כולל נקודות הקצה | $\{x \mid a < x < b\}$ | $(a,b)$ |
| הקטע הסגור מ-a ל-b וכולל נקודות קצה | $\{x \mid a \le x \le b\}$ | $[a,b]$ |
| קטע חצי סגור וחצי פתוח, מכיל את a ולא את b | $\{x \mid a \le x < b\}$ | $[a,b)$ |
| קטע חצי סגור וחצי פתוח, מכיל את b ולא את a | $\{x \mid a < x \le b\}$ | $(a,b]$ |
| הקרן הפתוחה מ-a עד $\infty$ ללא a | $\{x \mid a < x < \infty\}$ | $(a,\infty)$ |
| הקרן הסגורה מ-a עד $\infty$ כולל a | $\{x \mid a \le x < \infty\}$ | $[a,\infty)$ |
| הקרן הפתוחה מ-$-\infty$ עד b ללא b | $\{x \mid -\infty < x < b\}$ | $(-\infty,b)$ |
| הקרו הסגורה מ-$-\infty$ עד b כולל b | $\{x \mid -\infty < x \le b\}$ | $(-\infty,b]$ |

**קבוצת החזקה של קבוצה נתונה:**

קבוצת כל התת-קבוצות של קבוצה נתונה נקראת קבוצת החזקה של $A$ ומסומנת $P(A)$.

**איחוד וחיתוך קבוצות:**

- איחוד קבוצות $A$ ו-$B$ פירושו הגדרת קבוצה חדשה שמכילה את כל האיברים של הקבוצות עצמן ומסומנת: $A \cup B$.
- חיתוך קבוצות $A$ ו-$B$ פירושו הגדרת קבוצה חדשה שמכילה את האיברים המשותפים של הקבוצות עצמן ומסומנת: $A \cap B$.

| תכונות האיחוד | תכונות החיתוך | |
|---|---|---|
| $A \cup B = B \cup A$ | $A \cap B = B \cap A$ | |
| $(A \cup B) \cup C = A \cup (B \cup C)$ | $(A \cap B) \cap C = A \cap (B \cap C)$ | |
| $A \cup A = A$ | $A \cap A = A$ | $A \cup B$ |
| $A \cup \phi = A$ | $A \cap \phi = \phi$ | |
| $A \subseteq A \cup B$ | | |

הדיסטריביוטיביות של החיתוך מעל האיחוד ושל האיחוד מעל החיתוך:

$$A\cap(B\cup C)=(A\cap B)\cup(A\cap C)$$
$$A\cup(B\cap C)=(A\cup B)\cap(A\cup C)$$

**הפרש קבוצות:**

ההפרש של שתי קבוצות $A$ ו-$B$ המסומן $A-B$ הוא קבוצה שאיבריה הם כל איברי $A$ שאינם איברי $B$, כלומר: $A-B=\{x\,|\,x\in A\wedge x\notin B\}$.

**משלים של קבוצה:**

ההפרש $U-A$ מסומן ב-$A^c$ או ב-$A'$ ונקרא **המשלים** של $A$ כאשר $U$ היא הקבוצה האוניברסלית.

**כללי דה-מורגן:**

- $(A\cup B)^c=A^c\cap B^c$.
- $(A\cap B)^c=A^c\cup B^c$.

**דיאגרמת ון:**

תיאור גרפי של קבוצות ויחסים ביניהם.

## שאלות:

**1)** רשום את הטענות הבאות במילים ובדוק האם הן נכונות:

א. $\forall x \forall y: (x+y)^2 > 0$

ב. $\forall x \exists y: (x+y)^2 > 0$

ג. $\forall x \forall y \exists z: xz = \frac{y}{4}$

ד. $\forall x > 0, \forall y > 0, \sqrt{xy} \le \frac{x+y}{2}$

ה. $\forall n \exists k, n^3 - n = 6k$ ( $k$ ו- $n$ טבעיים).

הערה: בסעיף זה הטבעיים כוללים את $0$.

**2)** רשום כל אחת מהטענות הבאות בסימנים לוגיים:

א. פתרון אי־השוויון $x^2 > 4$, הוא $x > 2$ או $x < -2$.

ב. אי השוויון $x^2 + 4 > 0$, מתקיים לכל $x$.

ג. לכל מספר טבעי $n$, המספר $n^3 - n$ מתחלק ב-6.

ד. עבור כל מספר $x$, $|x| < 1$ אם ורק אם $-1 < x < 1$.

**3)** רשמו במפורש את הקבוצות הבאות על ידי צומדיים או באמצעות קטעים, ואת מספר איברי הקבוצה:

א. $A = \{x \in \mathbb{R} \mid x^2 < 16\}$

ב. $B = \{x \in \mathbb{Z} \mid x^2 < 16\}$

ג. $C = \{x \in \mathbb{N} \mid x^2 < 16\}$

ד. $D = \{x \in \mathbb{Z} \mid (x+4)(x-1) < 0\}$

ה. $E = \{x \in \mathbb{N} \mid x^3 + x^2 - 2x = 0\}$

ו. $F = \{x \in \mathbb{Z} \mid |x| < 4\}$

**4)** הגדר את הקבוצות הבאות על ידי פירוט כל איבריהן או על ידי רישומן בצורה: $A = \{x \mid$ מקיים תכונה מסוימת $x\}$.

א. קבוצת המספרים השלמים החיוביים האי־זוגיים.

ב. קבוצת המספרים הראשוניים בין 10 ל-20.

ג. קבוצת הנקודות במישור הנמצאות על מעגל שמרכזו בראשית ורדיוסו 4.

ד. קבוצת ריבועי המספרים 4, 3, 2, 1.

**5)** ציין אילו מן הקבוצות הבאות שוות זו לזו:

א. $A=\{11,13,17,19\}$

ב. $B=\{x \mid 10<x<20,\ x$ מספר ראשוני$\}$

ג. $C=\{11,11,17,13,19\}$

ד. $D=\{x \mid x=4k,\ k\in\mathbb{Z}\}$

ה. $E=\{x \mid x=2m,\ m$ שלם זוגי$\}$

**6)** נתונה הקבוצה הבאה: $A=\{1,2,\{2\},\{2,5\},4,\{2,4\}\}$.

מי מבין הטענות הבאות נכונה:

| | | |
|---|---|---|
| א. $5\in A$ | ב. $2\in A$ | ג. $\{2\}\in A$ |
| ד. $\{2\}\subseteq A$ | ה. $\{\{2\}\}\subseteq A$ | ו. $\phi\in A$ |
| ז. $\phi\subseteq A$ | ח. $\{2,\{2\}\}\subseteq A$ | ט. $\{2,4\}\subseteq A$ |
| י. $\{2,4\}\in A$ | יא. $\{\{2,4\}\}\in A$ | יב. $\{2,5\}\subseteq A$ |
| יג. $\{2,5\}\in A$ | יד. $\{1,4\}\in A$ | |

**7)** מצא שתי קבוצות, $A$ ו-$B$, המקיימות:

א. $A\in B$

ב. $A\subseteq B$

**8)** נתונות הקבוצות הבאות:

$A=\{3,4,5,6,7,8,9\}$ , $B=\{4,6,8,10\}$ , $C=\{3,5,7,9\}$ , $D=\{6,7,8\}$ , $E=\{7,8\}$.

קבע איזה מבין הקבוצות לעיל יכולה להיות הקבוצה $X$:

א. $X\subseteq A$ וגם $X\not\subseteq D$.

ב. $X\subseteq D$ וגם $X\not\subseteq C$.

ג. $X\subseteq E$ וגם $X\not\subseteq A$.

**9)** הוכח: $A\subseteq B \wedge B\subseteq C \Rightarrow A\subseteq C$.

**10)** נתונות הקבוצות הבאות:

$A=\{3,4,5,6,7,8,9\}$ , $B=\{4,6,8,10\}$ , $C=\{3,5,7,9\}$ , $D=\{6,7,8\}$ .

רשום את:

א. $A\cup B$ ב. $A\cap B$ ג. $(A\cup B)\cap C$

ד. $(B\cup C)\cap(B\cup D)$ ה. $(B\cap C)\cup(B\cap D)$

**11)** נתונות הקבוצות הבאות:

$A=[1,4)$ , $B=(-2,1)$ , $C=\{x\in R\,|\,0\le x\le 4\}$ , $D=\{x\,|\,2^x=0\}$ .

רשום את:

א. $A\cup B$ ב. $A\cap B$ ג. $(A\cup B)\cap C$

ד. $(B\cup C)\cap(B\cup D)$ ה. $(B\cap C)\cup(B\cap D)$

**12)** נתונות 3 קבוצות: $A=\{4,5,6,7,8\}$ , $B=\{5,6,7,8,9\}$ , $C=\{4,5,6,10\}$ .

א. חשב את $(A-B)-C$.

ב. חשב את $A-(B-C)$ .

**13)** נתון: $A=\{12,15,18\}$ , $B=\{13,15,17\}$ , $U=\{11,12,13,14,15,16,17,18\}$.

הדגם את כלל דה מורגן $(A\cup B)^c=A^c\cap B^c$.

**14)** הוכח את כלל דה מורגן הראשון $(A\cup B)^c=A^c\cap B^c$.

**15)** מצא את הקבוצה המשלימה, ביחס ל- $\mathbb{R}$, של הקבוצות הבאות:

א. $A=[1,\infty)$

ב. $B=(-\infty,1)\cup(4,\infty)$

ג. $C=\{x\in\mathbb{R}\,|\,x^2-5x+4>0\}$

ד. $D=\{x\in\mathbb{R}\,|\,|x-1|<2\ \vee\ x>4\}$

**16)** הצג באמצעות דיאגרמת ון את הקבוצות הבאות:

א. $A\cap B$

ב. $A\cup B$

ג. $A^c$

ד. $A\cap B^c$

ה. $A^c\cap B$

ו. $A\cup B^c$

ז. $A^c\cup B$

ח. $A^c\cup B^c=(A\cap B)^c$

ט. $A^c\cap B^c=(A\cup B)^c$

**17)** נתונה הקבוצה: $A=\{\phi,4,\{4\}\}$.

רשמו את $P(A)$.

**18)** הוכיחו או הפריכו על ידי דוגמה נגדית:

א. לכל קבוצה $A$ מתקיים $A\subseteq P(A)$.

ב. לכל קבוצה $A$ מתקיים $A\not\subseteq P(A)$.

**19)** הוכיחו כי: $A\subseteq B \Rightarrow P(A)\subseteq P(B)$.

## תשובות סופיות:

**1)** א. לכל $x$ ולכל $y$ מתקיים $(x+y)^2>0$. הטענה אינה נכונה.

ב. לכל $x$ קיים $y$, כך ש- $(x+y)^2>0$. הטענה אינה נכונה.

ג. לכל $x$ ולכל $y$ קיים $z$ כך ש- $xz=\frac{y}{4}$. הטענה אינה נכונה.

ד. לכל $x$ חיובי ולכל $y$ חיובי מתקיים $\sqrt{xy}\le\frac{x+y}{2}$. הטענה נכונה.

ה. לכל $n$ טבעי המספר $n^3-n$ מתחלק ב-6. הטענה נכונה.

**2)** א. $x^2>4\Rightarrow x>2\vee x<-2$ ב. $\forall x: x^2+4>0$

ג. $\forall n\exists k: n^3-n=6k$ ד. $\forall x: |x|<1\Leftrightarrow -1<x<1$

**3)** א. $A=(-4,4)$, בקבוצה אינסוף איברים.

ב. $B=\{-3,-2,-1,0,1,2,3\}$, בקבוצה 7 איברים.

ג. $C=\{1,2,3\}$, בקבוצה 3 איברים.

ד. $D=\{-3,-2,-1,0\}$, בקבוצה 4 איברים.

ה. $E=\{0,1\}$, בקבוצה 2 איברים.

ו. $F=\{-4,-3,-2,-1,0,1,2,3,4\}$, בקבוצה 9 איברים.

**4)** א. $A=\{x\,|\,x=2n-1,\ n\in\mathbb{N}\}$ ב. $B=\{11,13,17,19\}$

ג. $C=\{(x,y)\,|\,x^2+y^2=4^2,\ x\in\mathbb{R},\ y\in\mathbb{R}\}$ ד. $D=\{1,4,9,16\}$

**5)** הקבוצות $A$, $B$ ו- $C$ שוות זו לזו, והקבוצות $D$ ו- $E$ שוות זו לזו.

**6)** א. לא נכון. ב. נכון. ג. נכון. ד. נכון. ה. נכון.

ו. לא נכון. ז. נכון. ח. נכון. ט. נכון. י. נכון.

יא. לא נכון. יב. לא נכון. יג. נכון. יד. לא נכון.

**7)** $B=\{\{1,2\},1,2\}$, $A=\{1,2\}$.

**8)** א. $A, C$ ב. $E, D$ ג. לא קיימת קבוצה כזאת.

**9)** הוכחה.

**10)** א. $A\cup B=\{3,4,5,6,7,8,910\}$ ב. $A\cap B=\{4,6,8\}$

ג. $(A\cup B)\cap C=\{3,5,7,9\}$ ד. $(B\cup C)\cap(B\cup D)=\{4,6,7,8,10\}$

ה. $(B\cap C)\cup(B\cap D)=\{6,8\}$.

**11)** א. $A\cup B=(-2,4)$ ב. $A\cap B=\phi$

ג. $(A\cup B)\cap C=(0,4)$ ד. $(B\cup C)\cap(B\cup D)=(-2,1)$

ה. $(B\cap C)\cup(B\cap D)=[0,1)$.

**12)** א. $\phi$ ב. $\{4,5,6\}$.

**13)** ללא פתרון.

**14)** הוכחה.

**15)** א. $A^c=(-\infty,1)$ ב. $B^c=[1,4]$ ג. $C^c=[1,4]$ ד. $D^c=(-\infty,1]\cup[3,4]$.

**16)** ראו סרטון.

**17)** $P(A)=\{\phi,\{\phi\},\{4\},\{\{4\}\},\{\phi,4\},\{4,\{4\}\},\{\phi,\{4\}\},\{\phi,4,\{4\}\}\}$.

**18)** הוכחה.

**19)** הוכחה.

# קורס קדם במתמטיקה למהנדסים

## פרק 20 - הפונקציה הממשית - תכונות בסיסיות ופונקציות נפוצות

תוכן העניינים


1. פונקציה - הגדרה ותכונות בסיסיות ..... (ללא ספר)
2. הפונקציה הלינארית ..... (ללא ספר)
3. הפונקציה הריבועית ..... (ללא ספר)
4. הפונקציה המעריכית ..... (ללא ספר)
5. הפונקציה הלוגריתמית ..... (ללא ספר)
6. פונקציות מפורסמות נוספות ..... (ללא ספר)
7. הזזות שיקופים מתיחות וכיווצים של פונקציה ..... (ללא ספר)
8. הפונקציות הטריגונומטריות ..... (ללא ספר)
9. הפונקציות הטריגונומטריות ההפוכות ..... (ללא ספר)

# קורס קדם במתמטיקה למהנדסים

## פרק 21 - הפונקציה הממשית - תכונות מתקדמות

### תוכן העניינים


1. תחום הגדרה של פונקציה ..... 296
2. הרכבת פונקציות ..... 298
3. הפונקציה ההפוכה ..... 301
4. פונקציה זוגית ופונקציה אי זוגית ..... 305
5. פונקציה מחזורית ..... 310
6. פונקציה מפוצלת ופונקציה אלמנטרית ..... 313

# תחום הגדרה של פונקציה

## שאלות

מצאו את תחום ההגדרה של הפונקציות הבאות:

1) $y=x^3-x^2-4x+1$

2) $y=\frac{1}{x^2-4}$

3) $y=\frac{4x+1}{x^2+1}$

4) $y=\frac{1}{x^3-x}$

5) $y=\frac{x^2}{x^2-x-2}$

6) $y=\sqrt{x-4}$

7) $y=\sqrt{x^2+x-2}$

8) $y=\sqrt[3]{x^2+x-1}$

9) $y=\frac{1}{\sqrt{1-|x|}}$

10) $y=\ln\left(x^2+x-2\right)$

11) $y=\log x+\frac{1}{\log x}$

12) $y=e^{x^2+x+1}$

13) $y=\log_x\left(x+4\right)$

14) $y=\tan\left(10x\right)$

15) $y=\cot\left(4x\right)$

16) $y=\arctan\left(x+4\right)$

17) $y=\arcsin\left(x-4\right)$

18) $y=\arccos\left(x+1\right)$


לפתרון מלא בסרטוני וידאו היכנסו לאתר www.GooL.co.il
כתב ופתר – גיא סלומון ©

## תשובות סופיות

1) כל $x$.

2) $x \neq \pm 2$

3) כל $x$.

4) $x \neq 0,1,-1$

5) $x \neq 2,-1$

6) $x \geq 4$

7) $x \leq -2$ , $x \geq 1$

8) כל $x$.

9) $-1 < x < 1$

10) $x < -2$ , $x > 1$

11) $x > 0$ , $x \neq 1$

12) כל $x$.

13) $x > 0$ , $x \neq 1$

14) $x \neq \frac{\pi}{20} + \frac{\pi k}{10}$

15) $x \neq \frac{\pi k}{4}$

16) כל $x$.

17) $3 < x < 5$

18) $-2 < x < 0$


כתב ופתר – גיא סלומון ©

# הרכבת פונקציות

## שאלות

**1)** נתונות הפונקציות הבאות: $f(x)=x-4$ , $g(x)=x^2$ , $h(x)=\frac{4}{x}$.

חשבו את הפונקציות המורכבות הבאות:

א. $f(g(1))$ ב. $h(g(f(5)))$ ג. $f(g(x))$

ד. $h(f(x))$ ה. $f(f(x))$ ו. $h(h(x))$

**2)** נתון: $f(x)=\frac{x-2}{x-1}$.

חשבו $f(f(x))$ עבור $x=3$.

**3)** נתון: $g(x)=\frac{5-x}{x-7}$ $f(x)=\frac{x-3}{x+2}$.

חשבו $f(g(x))+g(f(x))$ עבור $x=8$.

**4)** נתון: $f(x)=x^2-7x,\ g(x)=\ln x$.

חשבו $f(g(x))$ עבור $x=e^2$.

**5)** נתון: $g(x)=\ln x$ $f(x)=e^{2x}$.

חשבו $f(g(x))$ עבור $x=2$.

**6)** נתון: $g(x)=\begin{cases} x+3 & x>4 \\ 3x & x\le 4 \end{cases}$ , $f(x)=\begin{cases} \frac{1}{x} & x>0 \\ x^2 & x\le 0 \end{cases}$.

חשבו $f(g(x)),\ g(f(x))$.

**7)** נתונות הפונקציות:

$g(x)=\begin{cases} x^2-4 & x<1 \\ -x^2-2x-1 & x\ge 1 \end{cases}$ ו- $f(x)=\begin{cases} 2x+4 & x\le -1 \\ \sqrt{x+1} & x>-1 \end{cases}$.

מצאו נוסחה עבור ההרכבה $z(x)=g(f(x))$.


לפתרון מלא בסרטוני וידאו היכנסו לאתר www.GooL.co.il
כתב ופתר – גיא סלומון ©

**8)** נתונות הפונקציות:

$g(x)=\begin{cases} x^2-4 & x<1 \\ -x^2-2x-1 & x\ge 1 \end{cases}$ ו- $f(x)=\begin{cases} 2x+4 & x\le -1 \\ \sqrt{x+1} & x>-1 \end{cases}$.

א. מצאו נוסחה עבור ההרכבה $h(x)=f(g(x))$.

ב. נתון ש- $n\in\mathbb{Z}$ ו- $h(n)\notin\mathbb{Z}$.

מה ניתן להסיק בוודאות?

1. $n\le -3$
2. $n\ge 1$
3. $n$ אי-זוגי שלילי.
4. אף תשובה אינה נכונה.

**9)** נתון $f(x)=\frac{x}{\sqrt{1+x^2}}$.

מצאו את $f^n(x)=\underbrace{f(f(f(...(f(x))))}_{n\text{ times}}$.


כתב ופתר – גיא סלומון ©

## תשובות סופיות

1) א. $-3$ ב. $4$ ג. $x^2-4$ ד. $\frac{4}{x-4}$ ה. $x-8$ ו. $x$

2) $3$

3) $\frac{69}{13}$

4) $-10$

5) $4$

6) $f\left(g\left(x\right)\right)=\begin{cases}\frac{1}{x+3} & x>4\\ \frac{1}{3x} & 0<x\le 4\\ \left(3x\right)^2 & x\le 0\end{cases}$ , $g\left(f\left(x\right)\right)=\begin{cases}x^2+3 & x<2\\ 3x^2 & -2\le x\le 0\\ \frac{1}{x}+3 & 0<x<\frac{1}{4}\\ 3\frac{1}{x} & x\ge\frac{1}{4}\end{cases}$

7) $z(x)=\begin{cases}4x^2+16x+12 & x<-1.5\\ -4x^2-20x-25 & -1.5\le x\le -1\\ x-3 & -1<x<0\\ -x-2-2\sqrt{x+1} & x\ge 0\end{cases}$

8) א. $h(x)=\begin{cases}\sqrt{x^2-3} & x<-\sqrt{3}\\ 2x^2-4 & -\sqrt{3}\le x<1\\ -2x^2-4x+2 & x\ge 1\end{cases}$ ב. $n\le -3$

9) $f^n(x)=\frac{x}{\sqrt{1+nx^2}}$


לפתרון מלא בסרטוני וידאו היכנסו לאתר www.GooL.co.il
כתב ופתר – גיא סלומון ©

# הפונקציה ההפוכה

## שאלות

בתרגילים **1-4** הוכיחו שהפונקציה הנתונה היא חח"ע בתחום הגדרתה ומצאו את הפונקציה ההפוכה לה. בנוסף, מצאו את התמונה של הפונקציה.

**1)** $f(x)=\frac{x-1}{3}$

**2)** $f(x)=\frac{x+1}{x}$

**3)** $f(x)=\frac{3x-2}{x-2}$

**4)** $f(x)=x^2-4 \quad (x\ge 0)$

בתרגילים **5-7**, בדקו האם הפונקציה היא חח"ע.
בנוסף, מצאו את התמונה של הפונקציה:

**5)** $f(x)=x+\frac{1}{x}$

**6)** $f(x)=x^2-x$

**7)** $f(x)=\sqrt{1-x^2}$

בתרגילים **8-10**, בדקו האם הפונקציה היא חח"ע,
אם כן, מצאו את הפונקציה ההפוכה ואת התמונה של הפונקציה.

**8)** $f(x)=\frac{1}{\sqrt{1-x}}$

**9)** $y=\frac{x^2+3}{2x-1}$

**10)** $f(x)=\left(\frac{2x-1}{2x+1}\right)^3$

**11)** נתונה $f(x)=\frac{x+2}{\sqrt{x-1}}$.
האם הפונקציה היא חח"ע?
מצאו את התמונה של הפונקציה.

**12)** עבור כל אחת מהפונקציות הבאות, מצאו את תחום ההגדרה, הטווח והתמונה וקבעו האם היא פונקציה על:

א. $f:\mathbb{R}\to\mathbb{R}$ $\quad f(x)=\frac{x-1}{3}$

ב. $f:\mathbb{R}\setminus\{0\}\to\mathbb{R}$ $\quad f(x)=\frac{x+1}{x}$

ג. $f:\mathbb{R}\setminus\{2\}\to\mathbb{R}\setminus\{3\}$ $\quad f(x)=\frac{3x-2}{x-2}$

ד. $f:[0,\infty)\to\mathbb{R}$ $\quad f(x)=x^2-4$


לפתרון מלא בסרטוני וידאו היכנסו לאתר www.GooL.co.il
כתב ופתר – גיא סלומון ©

**13)** עבור כל אחת מהפונקציות הבאות מצאו תחום הגדרה, טווח ותמונה.
בנוסף, קבעו האם הפונקציה הנתונה היא על.

א. $f:\mathbb{R}\to\mathbb{R}$ $\quad f(x)=\dfrac{1}{x^2+1}$

ב. $f:\mathbb{R}\to(0,1]$ $\quad g(x)=\dfrac{1}{x^2+1}$

ג. $f:(1,\infty)\to(0,1]$ $\quad h(x)=\dfrac{1}{x^2+1}$

**14)** תהיינה שתי פונקציות $f:A\to B,\ g:B\to C$,
ותהי $h:A\to C$ ההרכבה המוגדרת על ידי $h(x)=g(f(x))$.
הוכיחו או הפריכו:

א. אם $f$ ו- $g$ חח"ע, אז $h$ חח"ע.
ב. אם $f$ ו- $g$ חח"ע, אז $h$ על.
ג. אם $f$ ו- $g$ על, אז $h$ על.
ד. אם $f$ ו- $g$ על, אז $h$ חח"ע.
ה. אם $f$ חח"ע ו- $g$ על, אז $h$ חח"ע.
ו. אם $f$ חח"ע ו- $g$ על, אז $h$ על.
ז. אם $f$ על ו- $g$ חח"ע, אז $h$ חח"ע.
ח. אם $f$ על ו- $g$ חח"ע, אז $h$ על.

**15)** תהיינה שתי פונקציות $f:A\to B,\ g:B\to C$,
ותהי $h:A\to C$ ההרכבה המוגדרת על ידי $h(x)=g(f(x))$.
נתון כי $h$ על.
הוכיחו או הפריכו:

א. $f$ חח"ע.
ב. $f$ על.
ג. $g$ חח"ע.
ד. $g$ על.


לפתרון מלא בסרטוני וידאו היכנסו לאתר www.GooL.co.il
כתב ופתר – גיא סלומון ©

**16)** תהיינה שתי פונקציות $f:A\to B,\ \ g:B\to C$ ,
ותהי $h:A\to C$ ההרכבה המוגדרת על ידי $h(x)=g\left(f(x)\right)$.
נתון כי $h$ חח"ע.
הוכיחו או הפריכו:

א. $g$ על.

ב. $f$ על.

ג. $g$ חח"ע.

ד. $f$ חח"ע.


כתב ופתר – גיא סלומון ©

## תשובות סופיות

**1)** $f^{-1}(x)=3x+1$ , כל $y$ .

**2)** $f^{-1}(x)=\frac{1}{x-1}$ , $y\neq 1$

**3)** $f^{-1}(x)=\frac{2x-2}{x-3}$ , $y\neq 3$

**4)** $f^{-1}(x)=\sqrt{x+4}$ , $y\geq -4$

**5)** לא חח"ע. תמונה: $y\leq -2$ או $y\geq 2$ .

**6)** לא חח"ע. תמונה: $y\geq -\frac{1}{4}$ .

**7)** לא חח"ע. תמונה $0\leq y\leq 1$ .

**8)** כן חח"ע. תמונה: $y>0$ . פונקציה הפוכה: $x>0$ $f^{-1}(x)=1-\frac{1}{x^2}$ .

**9)** לא חח"ע. תמונה: $y\geq 2.3$ או $y\leq -1.3$

**10)** כן חח"ע. תמונה: $y\neq 1$ . פונקציה הפוכה: $f^{-1}(x)=\frac{1}{1-\sqrt[3]{x}}-\frac{1}{2}$ .

**11)** לא חח"ע. תמונה: $y\geq \frac{6}{\sqrt{3}}$ .

**12)** א. תחום הגדרה, טווח ותמונה: $\mathbb{R}$ ; על.

ב. תחום הגדרה $\mathbb{R}\setminus\{0\}$ , טווח $\mathbb{R}$ , תמונה: $\mathbb{R}\setminus\{0\}$ ; לא על.

ג. תחום הגדרה $\mathbb{R}\setminus\{2\}$ , טווח ותמונה: $\mathbb{R}\setminus\{3\}$ ; על.

ד. תחום הגדרה $[0,\infty)$ , טווח $\mathbb{R}$ , תמונה: $[-4,\infty)$ ; לא על.

**13)** א. תחום הגדרה וטווח: $\mathbb{R}$ , תמונה: $(0,1]$ ; לא על.

ב. תחום הגדרה $\mathbb{R}$ , טווח ותמונה: $(0,1]$ ; על.

ג. תחום הגדרה $(1,\infty]$ , טווח $(0,1]$ , תמונה: $(0,0.5)$ ; לא על.

**14)** שאלת הוכחה.

**15)** שאלת הוכחה.

**16)** שאלת הוכחה.


כתב ופתר – גיא סלומון ©

# פונקציה זוגית ואי זוגית

## שאלות

מצאו אילו מבין הפונקציות בשאלות **1-8** הן אי-זוגיות ואיזה זוגיות:

**1)** $y=4x^3$ **2)** $y=x^4+x^{10}$ **3)** $y=1$

**4)** $y=\frac{1}{x}$ **5)** $y=x^2+\sin^2 x$ **6)** $y=2^x$

**7)** $y=\ln x+x^2$ **8)** $y=\sin x\cdot\cos x$

**9)** נתונה פונקציה אי-זוגית $f:\mathbb{R}\to\mathbb{R}$.

נסמן: $z(x)=f\left(x^2\right),\ k(x)=-f(x)$.

בדקו, עבור כל אחת מהפונקציות $k,z$, האם היא זוגית או אי-זוגית.

**10)** נתונה פונקציה אי-זוגית $f:\mathbb{R}\to\mathbb{R}$, ופונקציה זוגית $g:\mathbb{R}\to\mathbb{R}$.

נסמן: $z(x)=-g\left(x^3\right)$ ו- $k(x)=-f\left(x^3\right)$.

טענה א': $z(x)$ אי-זוגית.

טענה ב': $k(x)$ אי-זוגית.

איזו טענה נכונה?

**11)** נתונה פונקציה אי-זוגית $f:\mathbb{R}\to\mathbb{R}$ ונתונה פונקציה זוגית $g:\mathbb{R}\to\mathbb{R}$

נסמן: $k(x)=f(-x)+x^{11}g(|x|)$ , $z(x)=-g(-4x)\cdot f\left(x^4\right)$

בדקו, עבור כל אחת מהפונקציות $z,k$, האם היא זוגית או אי-זוגית.

**12)** נתון כי $f(x)$ פונקציה אי-זוגית ב- $\mathbb{R}$ ומקיימת $|f(x)|<1$.

נתון כי $g(x)$ פונקציה זוגית ב- $\mathbb{R}$.

הוכיחו שהפונקציה $z(x)=g(x)\ln\left(\frac{1-f(x)}{1+f(x)}\right)$ היא אי-זוגית ב- $\mathbb{R}$.


לפתרון מלא בסרטוני וידאו היכנסו לאתר www.GooL.co.il
כתב ופתר – גיא סלומון ©

**13)** הוכיחו כי:

א. סכום פונקציות זוגיות היא פונקציה זוגית

ב. מכפלת פונקציות זוגיות היא פונקציה זוגית.

ג. מנת פונקציות זוגיות היא פונקציה זוגית.

ד. הרכבה של פונקציות זוגיות היא פונקציה זוגית.

ה. הרכבה של פונקציות אי-זוגיות היא פונקציה אי-זוגית.

**14)** הוכיחו כי:

א. סכום פונקציות אי-זוגיות הוא פונקציה אי-זוגית.

ב. מכפלת פונקציות אי-זוגיות היא פונקציה זוגית.

ג. מנת פונקציות אי-זוגיות היא פונקציה זוגית.

ד. מכפלה של פונקציה זוגית בפונקציה אי-זוגית היא פונקציה אי-זוגית.

ה. הרכבה של פונקציה זוגית על פונקציה אי-זוגית היא פונקציה זוגית.

ו. הרכבה של פונקציה אי-זוגית על פונקציה זוגית היא פונקציה זוגית.

ז. הפונקציה היחידה שהיא גם זוגית וגם אי-זוגית לכל $x$ היא פונקציית האפס.

**15)** הפונקציה $f(x)$ היא אי-זוגית.

נגדיר $z(x)=\left(f(x)\right)^n$ כאשר $n>1$ טבעי.

קבעו האם הפונקציה $z$ היא זוגית, אי-זוגית או כללית.

**16)** נתונה הפונקציה $f(x)$ המוגדרת לכל $x$.

נגדיר: $f_{odd}(x)=\dfrac{f(x)-f(-x)}{2},\quad f_{even}(x)=\dfrac{f(x)+f(-x)}{2}$

א. הוכיחו כי $f_{odd}(x)$ היא פונקציה אי-זוגית ו- $f_{even}(x)$ היא פונקציה זוגית.

ב. הוכיחו כי $f(x)=f_{odd}(x)+f_{even}(x)$ והסבירו במילים את התוצאה שקיבלת.

ג. הציגו את הפונקציה $f(x)=x^2+x+1$ כסכום של פונקציה זוגית ופונקציה אי-זוגית.

**17)** הוכיחו או הפריכו כל אחת מהטענות הבאות:

א. אם $f$ פונקציה אי-זוגית אז $f(0)=0$.

ב. אם $f$ פונקציה אי-זוגית המוגדרת ב- $x=0$ אז $f(0)=0$.


לפתרון מלא בסרטוני וידאו היכנסו לאתר www.GooL.co.il
כתב ופתר – גיא סלומון ©

**18)** הוכיחו את הטענות הבאות:

א. הפונקציה $f(x)=\cos x$ היא זוגית.

ב. הפונקציה $f(x)=\sin x$ היא אי-זוגית.

ג. הפונקציה $f(x)=\tan x$ היא אי-זוגית.

ד. הפונקציה $f(x)=\cot x$ היא אי-זוגית.

**19)** נתון כי $f(x)$ פונקציה אי-זוגית וחד-חד ערכית המוגדרת בקטע $(-a,a)$ $(a>0)$.

הוכיחו כי גם $f^{-1}$ פונקציה אי-זוגית.

**20)** הוכיחו שהפונקציות הבאות הן אי זוגיות:

א. $y=\arctan x$

ב. $y=\arcsin x$

**21)** הפונקציות המסורטטות להלן מוגדרות לכל $x$.
השלם את ציור הגרף של הפונקציה כך שתתקבל פונקציה זוגית:

א.

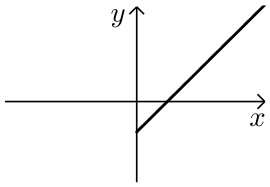


ב.

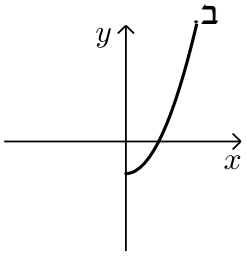


ג.

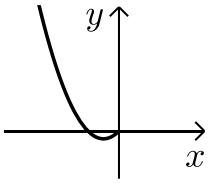


ד.

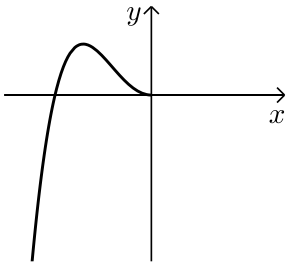

**22)** הפונקציות המסורטטות להלן מוגדרות לכל $x$.
השלם את ציור הגרף של הפונקציה כך שתתקבל פונקציה אי-זוגית:

א.

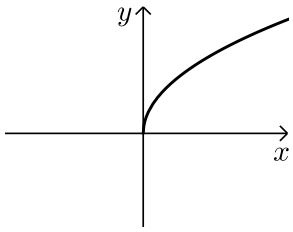


ב

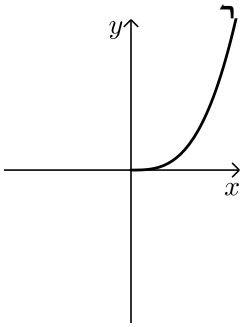


ג.

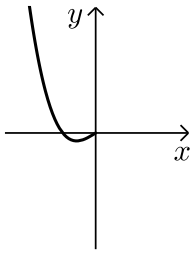


ד

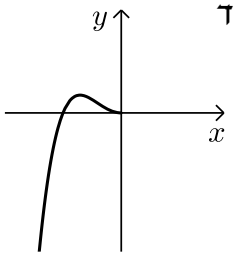


**23)** השלימו (אם ניתן) את גרף הפונקציות הבאות לפונקציה זוגית ולפונקציה אי-זוגית.

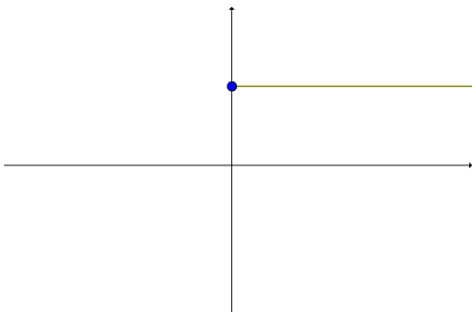

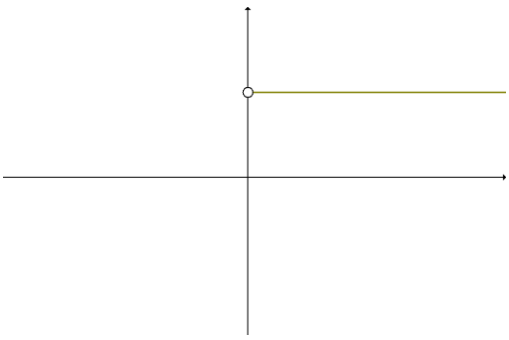

## תשובות סופיות

שאלות **1-8** : זוגית : **2,3,5,8** ; אי- זוגית : **1,4** ; כללית : **6,7**.

**9)** $k$ אי-זוגית, $z$ זוגית.

**10)** טענה ב'.

**11)** $k$ אי-זוגית, $z$ זוגית.

**12)** שאלת הוכחה.

**13)** שאלת הוכחה.

**14)** שאלת הוכחה.

**15)** כאשר $n$ זוגי – זוגית, וכאשר $n$ אי-זוגי – אי-זוגית.

**16)** א.+ב. שאלת הוכחה. ג. $f(x)=\underbrace{x}_{odd}+\underbrace{x^2+1}_{even}$

**17)** שאלת הוכחה.

**18)** שאלת הוכחה.

**19)** שאלת הוכחה.

**20)** שאלת הוכחה.

**21)** להלן הגרפים :

א.
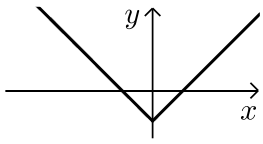


ב.
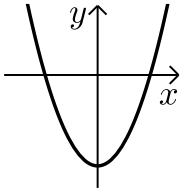


ג.
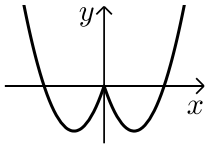


ד.
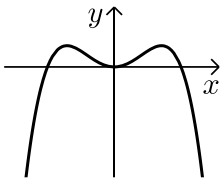


**22)** להלן הגרפים :

א.
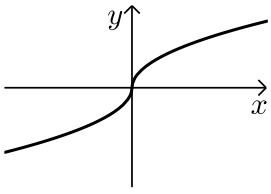


ב.
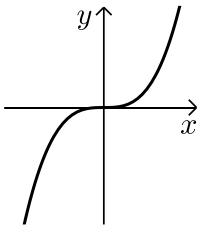


ג.
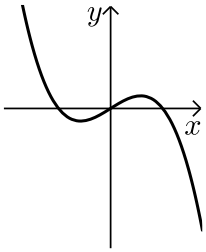


ד.
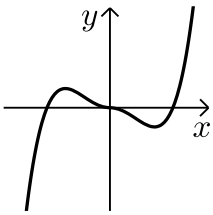


**23)** ראו בסרטון.

# פונקציה מחזורית

## שאלות

מצאו את המחזור של כל אחת מהפונקציות בשאלות **1-20**:

**1)** $y=1+10\sin(0.5x+4)$

**2)** $y=1+14\cos 20x$

**3)** $y=-4+20\tan 4x$

**4)** $y=-1+14\sec 2x$

**5)** $y=\sin^2 4x$

**6)** $y=\cos^2 2x$

**7)** $y=\cos^4 x-\sin^4 x$

**8)** $y=(\sin x+\cos x)^2$

**9)** $y=\cos^4 x+\sin^4 x$

**10)** $y=\cot^2 x$

**11)** $y=\sin\frac{x}{4}+\cos\frac{x}{10}$

**12)** $y=\sin 4x+\sin 14x$

**13)** $y=\sin 4x+\sin 14x+\sin x$

**14)** $y=\cos 2x\cos x$

**15)** $y=\sin^3 x$

**16)** $y=\sin^4 x$

**17)** $y=\frac{\sin 5x}{\cos 2x\cos 3x}$

**18)** $y=|\sin x|$

**19)** $y=\sin^2 x+\cos^2 x$

**20)** $y=\cot x-\tan x$

הוכיחו שהפונקציות בשאלות **21-26** אינן מחזוריות:

**21)** $y=x+\sin x$

**22)** $y=x+\cos x$

**23)** $y=x\sin x$

**24)** $y=x^2\cos x$

**25)** $y=\frac{\sin x}{x}$

**26)** $y=\cos 5x+\cos\sqrt{5x}$

הערה: בשאלות **21** ו-**22** נדרש ידע בחקירת פונקציה.

**27)** הוכיחו:

אם $f(x)$ מחזורית בעלת מחזור $p$,

אז $y=a+b\cdot f(cx+d)$ מחזורית בעלת מחזור $\frac{p}{c}$.

**28)** הוכיחו: אם $T$ הוא מחזור של $f(x)$, אז לכל $n$ שלם $f(x+nT)=f(x)$.


לפתרון מלא בסרטוני וידאו היכנסו לאתר www.GooL.co.il
כתב ופתר – גיא סלומון ©

**29)** נתון כי $f,g$ מוגדרות לכל $x$ ובעלת מחזור $p_1, p_2$ , בהתאמה.

נתון כי היחס $\frac{p_1}{p_2}$ הוא מספר רציונלי.

הוכיחו כי גם הפונקציות $f \pm g,\quad f \cdot g,\quad \frac{f}{g}\ (g \neq 0)$ הן מחזוריות.

**30)** נתונה הפונקציה $f(x) = x - [x]$ .

א. שרטטו את גרף הפונקציה.

ב. על סמך הגרף, מהו מחזור הפונקציה?

ג. הוכיחו את התשובה בסעיף ב.

**31)** נתונה הפונקציה $f(x) = x$ בקטע $[0,1]$.

ציירו את גרף הפונקציה המחזורית והאי-זוגית $g(x)$ , המוגדרת לכל $x$ ,

שהיא בעלת מחזור 2 ומתלכדת עם $f(x)$ בקטע $[0,1]$, ורשמו נוסחה עבור $f$ .

**32)** נתונה הפונקציה $f(x) = x^2$ בקטע $[0,1]$.

ציירו את גרף הפונקציה המחזורית והזוגית $g(x)$ , המוגדרת לכל $x$ ,

שהיא בעלת מחזור 2 ומתלכדת עם $f(x)$ ב-$[0,1]$, ורשמו נוסחה עבור $g$ .


לפתרון מלא בסרטוני וידאו היכנסו לאתר www.GooL.co.il
כתב ופתר – גיא סלומון ©

## תשובות סופיות

| | | | | |
|---|---|---|---|---|
| 1) $4\pi$ | 2) $\frac{\pi}{10}$ | 3) $\frac{\pi}{4}$ | 4) $\pi$ | 5) $\frac{\pi}{4}$ |
| 6) $\frac{\pi}{2}$ | 7) $\pi$ | 8) $\pi$ | 9) $\frac{\pi}{2}$ | 10) $\pi$ |
| 11) $40\pi$ | 12) $\pi$ | 13) $2\pi$ | 14) $2\pi$ | 15) $2\pi$ |
| 16) $\pi$ | 17) $\pi$ | 18) $\pi$ | | |

**19)** הפונקציה היא למעשה $y=1$ , כלומר פונקציה קבועה ולכן מחזורית.
כל מספר חיובי הוא מחזור שלה ואין לה מחזור קטן ביותר.

**20)** $\frac{\pi}{2}$

**21)** שאלת הוכחה.

**22)** שאלת הוכחה.

**23)** שאלת הוכחה.

**24)** שאלת הוכחה.

**25)** שאלת הוכחה.

**26)** שאלת הוכחה.

**27)** שאלת הוכחה.

**28)** שאלת הוכחה.

**29)** שאלת הוכחה.

**30)** א.

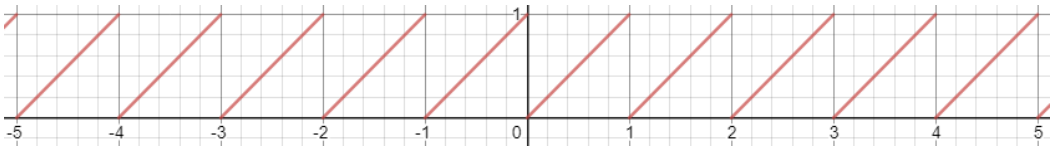


ב. 1 ג. שאלת הוכחה.

**31)** $g(x)=x-k,\ k-1\le x\le k+1$ עבור $k$ שלם, זוגי.

**32)** $g(x)=(x-k)^2,\ k-1\le x\le k+1$ עבור $k$ שלם, זוגי.

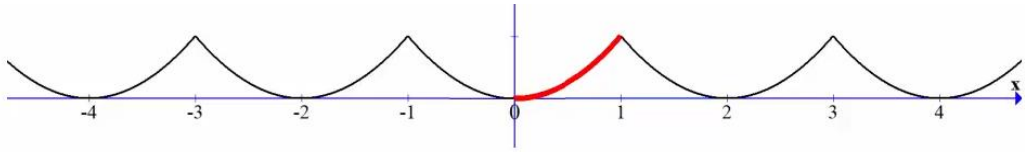

# פונקציה מפוצלת ופונקציה אלמנטרית

## שאלות

רשמו כל אחת מהפונקציות **1-4** כפונקציה מפוצלת ושרטטו את גרף הפונקציה:

**1)** $y=|x-2|$

**2)** $y=3|x+1|$

**3)** $y=x^2+2|x-1|$

**4)** $y=\frac{|x|}{x}$

**5)** נתונה הפונקציה $f(x)=\begin{cases} x^2 & 0\le x\le 4 \\ -x & x<0 \end{cases}$.

א. חשבו $f(1),\ f(4),\ f(-4),\ f(0),\ f(7)$.

ב. שרטטו את גרף הפונקציה.

ג. בדקו האם הפונקציה זוגית, אי-זוגית או כללית.

## תשובות סופיות

**1)** $y=\begin{cases} x-2 & x\ge 2 \\ 2-x & x<2 \end{cases}$

**2)** $y=\begin{cases} 3x+3 & x\ge -1 \\ -3x-3 & x<-1 \end{cases}$

**3)** $y=\begin{cases} x^2+2x-2 & x\ge 1 \\ x^2-2x+2 & x<1 \end{cases}$

**4)** $y=\begin{cases} 1 & x>0 \\ -1 & x<0 \end{cases}$

**5)** א. $f(1)=1,\ f(4)=16,\ f(-4)=4,\ f(0)=0,\ f(7)=\text{undefind}$

ב.

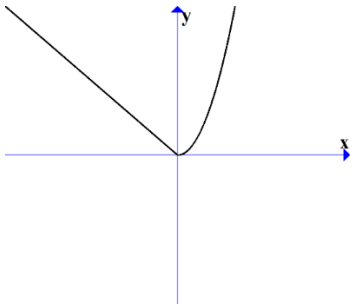


ג. כללית.


כתב ופתר – גיא סלומון ©

# קורס קדם במתמטיקה למהנדסים

## פרק 22 - חשבון דיפרנציאלי - נגזרות ומשיקים

תוכן העניינים


1. הקדמה כללית ..... 314
2. גזירת פונקציות ..... 315
3. מציאת שיפוע המשיק לגרף הפונקציה ..... 321
4. מציאת משוואת המשיק לגרף הפונקציה ..... 322
5. שאלות עם פרמטרים ..... 325
6. שאלות העוסקות במציאת משוואת משיק מנקודה חיצונית ..... 327

# הקדמה כללית:

## סיכום כללי:

**פונקציות נפוצות:**

הפונקציה $f(x)=x^2$ : הפונקציה $f(x)=x^3$ : הפונקציה $f(x)=\sqrt{x}$ : הפונקציה $f(x)=|x|$ :

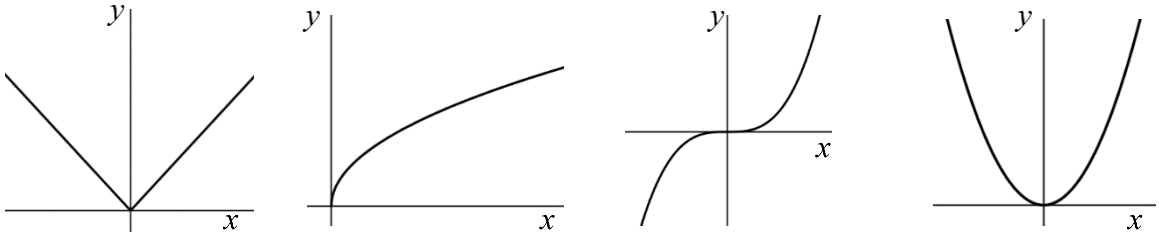


פונקציה עם מכנה, למשל: $f(x)=\dfrac{5x^3+4x}{x^2-1}$ :

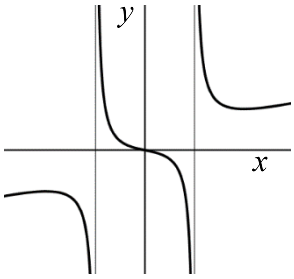


**שיפוע של פונקציה:**

- השיפוע $m$ של פונקציה $f(x)$ בנקודה $A(x_1,y_1)$ שעל הפונקציה הוא ערך הנגזרת בנקודה $A(x_1,y_1)$, כלומר: $m=f'(x_1)$.
- השיפוע של המשיק לפונקציה $f(x)$ בנקודה $A(x_1,y_1)$ שעל הפונקציה שווה לשיפוע הפונקציה בנקודה $A(x_1,y_1)$.
- משוואת המשיק לפונקציה $f(x)$ בנקודה $A(x_1,y_1)$ שעליה מתקבלת על ידי הנוסחה למציאת ישר: $y-y_1=m(x-x_1)$.

**הנגזרת:**

לכל פונקציה $f(x)$ קיימת פונקציה, הנקראת פונקציית הנגזרת (או רק "הנגזרת") ומסומנת $f'(x)$, המתקבלת ממנה על פי כללי הגזירה.

# גזירת פונקציות:

## סיכום כללי:

### כללי הגזירה:

- כלל גזירה מס' 1: $f(x)=x^n \Rightarrow f'(x)=n\cdot x^{n-1}$.
- כלל גזירה מס' 2 (כפל בקבוע): $f(x)=ax^n \Rightarrow f'(x)=n\cdot ax^{n-1}$.
- כלל גזירה מס' 3 (נגזרת של קבוע): $f(x)=a \Rightarrow f'(x)=0$.
- כלל גזירה מס' 4 (סכום והפרש): $f(x)=u\pm v \Rightarrow f'(x)=u'\pm v'$.
- כלל גזירה מס' 5 (פונקציה מורכבת): $f(x)=u^n \Rightarrow f'(x)=n\cdot u^{n-1}\cdot u'$.
- כלל גזירה מס' 6 (נגזרת של $\frac{1}{x}$): $f(x)=\frac{1}{x} \Rightarrow f'(x)=-\frac{1}{x^2}$.
- כלל גזירה מס' 7 (מכפלה): $f(x)=u\cdot v \Rightarrow f'(x)=u'v+v'u$.
- כלל גזירה מס' 8 (מנה): $f(x)=\frac{u}{v} \Rightarrow f'(x)=\frac{u'v-uv'}{v^2}$.
- כלל גזירה מס' 9 (שורש): $f(x)=\sqrt{x} \Rightarrow f'(x)=\frac{1}{2\sqrt{x}}$.

## שאלות:

**1)** גזור את הפונקציות הבאות:

| | | |
|---|---|---|
| א. $f(x)=x^3$ | ב. $f(x)=x^7$ | ג. $f(x)=x^2$ |
| ד. $f(x)=x$ | ה. $f(x)=x^{-3}$ | ו. $f(x)=x^{-1}$ |
| ז. $f(x)=x^{\frac{1}{2}}$ | ח. $f(x)=x^{\frac{1}{3}}$ | ט. $f(x)=x^{\frac{3}{4}}$ |

**2)** גזור את הפונקציות הבאות:

| | | |
|---|---|---|
| א. $f(x)=2x^3$ | ב. $f(x)=3x^7$ | ג. $f(x)=\frac{1}{2}x^4$ |
| ד. $f(x)=\frac{x^6}{7}$ | ה. $f(x)=8x$ | ו. $f(x)=3x^{-2}$ |
| ז. $f(x)=\frac{4}{x}$ | ח. $f(x)=6x^{\frac{1}{2}}$ | ט. $f(x)=\frac{x^{\frac{2}{3}}}{3}$ |

3) גזור את הפונקציות הבאות:

א. $f(x)=12$

ב. $f(x)=\frac{7}{8}$

4) גזור את הפונקציות הבאות:

א. $f(x)=x^3+2x^2-3x+5$

ב. $f(x)=\frac{1}{4}x^4-\frac{x^3}{6}+\frac{3x}{4}-\frac{2}{5}$

ג. $f(x)=7x^2+23x-6$

ד. $f(x)=6x^2+8x+4$

ה. $f(x)=\frac{1}{2}x^2-x^3$

ו. $f(x)=\frac{x^4}{8}+67$

5) גזור את הפונקציות הבאות:

א. $f(x)=(5x-2)^3$

ב. $f(x)=(x^3+6)^5$

ג. $f(x)=3(x-x^2)^2$

ד. $f(x)=\frac{(5-x)^3}{4}$

ה. $f(x)=\frac{2(x+1)^4}{3}$

6) גזור את הפונקציות הבאות:

א. $f(x)=\frac{3}{x}$

ב. $f(x)=-\frac{2}{x}$

ג. $f(x)=\frac{1}{x^2}$

ד. $f(x)=\frac{3}{x^3}$

ה. $f(x)=\frac{1}{x^2-3x}$

ו. $f(x)=\frac{2}{3-x}$

ז. $f(x)=\frac{6}{x+5}$

7) גזור את הפונקציות הבאות:

א. $f(x)=(5x+1)(x-3)$

ב. $f(x)=(5x+1)^3(x-3)$

ג. $f(x)=x^3(6-x)^4$

ד. $f(x)=3x^2\cdot x$

ה. $f(x)=x^2\cdot x^3$

ו. $f(x)=x(3x+7)$

ז. $f(x)=3x^3(3x-1)$

ח. $f(x)=(x-2)(2x^2+3)$

ט. $f(x)=(3x-2)(x^2+10x)$

י. $f(x)=(3x^4-4x)(2x^2+5x+2)$

יא. $f(x)=x(x-2)(3x-4)$

**8)** גזור את הפונקציות הבאות:

א. $f(x)=(x^2-4)^2$

ב. $f(x)=2x^3(3x+5)^2$

ג. $f(x)=(x^3+2)^2(x-1)^3$

ד. $f(x)=(x^2+1)^3(2x-1)^2$

**9)** גזור את הפונקציות הבאות:

א. $f(x)=\frac{3x-1}{1+2x}$

ב. $f(x)=\frac{x^2+1}{5x-12}$

ג. $f(x)=\frac{x^2-1}{x^2+3}$

ד. $f(x)=\frac{x^2+8}{x-1}$

ה. $f(x)=\frac{1}{x}$

ו. $f(x)=\frac{3}{x^3}$

ז. $f(x)=\frac{(x-1)^2}{x+1}$

ח. $f(x)=\frac{(x^2+3)^2}{x^2-2}$

ט. $f(x)=\frac{x^3-x^2}{2(1-x)}$

י. $f(x)=\frac{x-2}{x^2-4}$

**10)** גזור את הפונקציות הבאות:

א. $f(x)=\sqrt{x}$

ב. $f(x)=4\sqrt{x+1}$

ג. $f(x)=\sqrt{x^3-1}$

ד. $f(x)=(3x+1)\sqrt{x}$

ה. $f(x)=x^2\sqrt{x+3}$

ו. $f(x)=\frac{x+3}{\sqrt{x}}$

**11)** גזור את הפונקציות הבאות:

א. $f(x)=\sqrt{x+1}$

ב. $f(x)=\sqrt{2x}$

ג. $f(x)=\sqrt{3x^2+1}$

ד. $f(x)=\sqrt{10-3x}$

ה. $f(x)=\sqrt{2x^2+7x}$

ו. $f(x)=3x^2-8\sqrt{x}$

ז. $f(x)=x^2\sqrt{1-2x}$

ח. $f(x)=\frac{\sqrt{x}}{x}$

ט. $f(x)=\frac{x\sqrt{x^2+4}}{2}$

י. $f(x)=\frac{x+3}{\sqrt{1-x^2}}$

יא. $f(x)=\frac{2x^3-x^2+x-5\sqrt{x}}{x\sqrt{x}}$

יב. $f(x)=\sqrt{\frac{3-x}{x}}$

יג. $f(x)=\sqrt{\frac{1+x^2}{1-x}}$

יד. $f(x)=\frac{x^2+7}{\sqrt{x^2-5}}$

טו. $f(x)=\frac{\sqrt{x}}{x-1}$

טז. $f(x)=\frac{\sqrt{x+1}}{x-1}$

**12)** גזור את הפונקציות הבאות:

א. $f(x)=ax^4-bx$

ב. $f(x)=\frac{ax^2}{3}-\frac{x}{b}+c$

ג. $f(x)=\frac{x-2a}{x-4a}$

ד. $f(x)=a\sqrt{bx^2+c}$

**13)** גזור פעמיים את הפונקציות הבאות:

א. $f(x)=\frac{x^2+2x+4}{2x}$

ב. $f(x)=\frac{x^2-5x+6}{2x+10}$

ג. $f(x)=\frac{2x^2}{(x+1)^2}$

ד. $f(x)=\frac{x^3}{x^2-4}$

ה. $f(x)=\frac{x^3}{(x+1)^2}$

ו. $f(x)=\left(\frac{x+1}{x-1}\right)^3$

## תשובות סופיות:

**1)** א. $3x^2$ ב. $7x^6$ ג. $2x$ ד. $1$ ה. $-\frac{3}{x^4}$ ו. $-\frac{1}{x^2}$

ז. $\frac{1}{2\sqrt{x}}$ ח. $\frac{1}{3\sqrt[3]{x^2}}$ ט. $\frac{3}{4\sqrt[4]{x}}$.

**2)** א. $6x^2$ ב. $21x^6$ ג. $2x^3$ ד. $\frac{6x^5}{7}$ ה. $8$.

ו. $-\frac{6}{x^3}$ ז. $-\frac{4}{x^2}$ ח. $\frac{3}{\sqrt{x}}$ ט. $\frac{2}{9\sqrt[3]{x}}$.

**3)** א. $0$ ב. $0$.

**4)** א. $3x^2+4x-3$ ב. $x^3-\frac{x^2}{2}+\frac{3}{4}$ ג. $14x+23$ ד. $12x+8$ ה. $x-3x^2$ ו. $0.5x^3$.

**5)** א. $15(5x-2)^2$ ב. $15x^2(x^3+6)^4$ ג. $6(x-x^2)(1-2x)$

ד. $-\frac{3}{4}(5-x)^2$ ה. $\frac{8(x+1)^3}{3}$.

**6)** א. $-\frac{3}{x^2}$ ב. $\frac{2}{x^2}$ ג. $-\frac{2}{x^3}$ ד. $-\frac{9}{x^4}$ ה. $-\frac{2x-3}{(x^2-3x)^2}$

ו. $\frac{2}{(3-x)^2}$ ז. $-\frac{6}{(x+5)^2}$.

**7)** א. $10x-14$ ב. $(5x+1)^2(20x-44)$ ג. $x^2(6-x)^3(18-7x)$.

ד. $9x^2$ ה. $5x^4$ ו. $6x+7$ ז. $36x^3-9x^2$ ח. $6x^2-8x+3$

ט. $9x^2+56x-20$ י. $36x^5+75x^4+24x^3-24x^2-40x-8$

יא. $9x^2-20x+8$.

**8)** א. $4x(x^2-4)$ ב. $30x^2(x+1)(3x+5)$ ג. $3(x-1)^2(x^3+2)(3x^3-2x^2+2)$

ד. $2(2x-1)(x^2+1)^2(8x^2-3x+2)$.

**9)** א. $\frac{5}{(1+2x)^2}$ ב. $\frac{5x^2-24x-5}{(5x-12)^2}$ ג. $\frac{8x}{(x^2+3)^2}$ ד. $\frac{(x-4)(x+2)}{(x-1)^2}$

ה. $-\frac{1}{x^2}$ ו. $-\frac{9}{x^4}$ ז. $\frac{x^2+2x-3}{(x+1)^2}$

ח. $\frac{2x(x^2+3)(x^2-7)}{(x^2-2)^2}$ ט. $-x$ י. $-\frac{1}{(x+2)^2}$.

**10)** א. $\frac{1}{2\sqrt{x}}$ ב. $\frac{2}{\sqrt{x+1}}$ ג. $\frac{3x^2}{2\sqrt{x^3-1}}$ ד. $\frac{9x+1}{2\sqrt{x}}$ ה. $\frac{x(5x+12)}{2\sqrt{x+3}}$

ו. $\frac{x-3}{2x\sqrt{x}}$

**11)** א. $\frac{1}{2\sqrt{x+1}}$ ב. $\frac{1}{\sqrt{2x}}$ ג. $\frac{3x}{\sqrt{3x^2+1}}$ ד. $-\frac{3}{2\sqrt{10-3x}}$ ה. $\frac{4x+7}{2\sqrt{2x^2+7x}}$

ו. $6x-\frac{4}{\sqrt{x}}$ ז. $\frac{2x-5x^2}{\sqrt{1-2x}}$ ח. $-\frac{1}{2x\sqrt{x}}$ ט. $\frac{x^2+2}{\sqrt{x^2+4}}$ י. $\frac{1-3x}{(1-x^2)^{1.5}}$

יא. $3\sqrt{x}-\frac{1}{2\sqrt{x}}-\frac{1}{2x\sqrt{x}}+\frac{5}{x^2}$ יב. $-\frac{3}{2x\sqrt{3x-x^2}}$ יג. $\frac{-x^2+2x+1}{2(1-x)^{1.5}\sqrt{1+x^2}}$

יד. $\frac{x^3-17x}{(x^2-5)^{1.5}}$ טו $-\frac{x+1}{2\sqrt{x}(x-1)^2}$ טז. $-\frac{x+3}{2(x-1)^2\sqrt{x+1}}$.

**12)** א. $4ax^3-b$ ב. $\frac{2ax}{3}-\frac{1}{b}$ ג. $\frac{-2a}{(x-4a)^2}$ ד. $\frac{abx}{\sqrt{bx^2+c}}$.

**13)** א. $f''(x)=\frac{4}{x^3}$, $f'(x)=\frac{2x^2-8}{4x^2}$.

ב. $f''(x)=\frac{448}{(2x+10)^3}$, $f'(x)=\frac{2x^2+20x-62}{(2x+10)^2}$.

ג. $f''(x)=\frac{4(1-2x)}{(x+1)^4}$, $f'(x)=\frac{4x}{(x+1)^3}$.

ד. $f''(x)=\frac{8x(x^2+12)}{(x^2-4)^3}$, $f'(x)=\frac{x^2(x^2-12)}{(x^2-4)^2}$.

ה. $f''(x)=\frac{6x}{(x+1)^4}$, $f'(x)=\frac{x^2(x+3)}{(x+1)^3}$.

ו. $f''(x)=\frac{12(x+1)(x+3)}{(x-1)^5}$, $f'(x)=-\frac{6(x+1)^2}{(x-1)^4}$

# מציאת שיפוע המשיק לגרף הפונקציה:

## שאלות:

**14)** מצא את שיפוע הפונקציה $f(x)=2x^3-7x$ בנקודה $(2\ ,\ 2)$.

**15)** מצא את שיפוע הפונקציה $f(x)=\frac{1}{x^2-3}$ בנקודה בה $x=-2$.

**16)** מצא את שיפוע המשיק לפונקציה $f(x)=4\sqrt{x}$ בנקודה בה $x=1$.

## תשובות סופיות:

**14)** $m=17$
**15)** $m=4$
**16)** $m=2$

## מציאת משוואת המשיק לגרף הפונקציה:

**שאלות:**

**17)** מצא את משוואת המשיק לפונקציה $f(x)=2(4x+3)^3$ בנקודה בה $x=-1$.

**18)** מצא את משוואת המשיק לפונקציה $f(x)=\frac{8}{x+1}$ בנקודה בה $y=2$.

**19)** מצא את משוואות המשיקים לפונקציה $f(x)=x^2-2x-8$ בנקודות החיתוך שלה עם ציר ה-$x$.

**20)** מצא את משוואת המשיק לפונקציה $f(x)=x^4-2x$ ששיפועו 2.

**21)** מצא את משוואת המשיק לפונקציה $f(x)=\frac{x^3+3x-1}{x^2-2}$ בנקודה שבה $x=1$.

**22)** נתון כי הישר $2y-3x=3$ משיק לגרף הפונקציה $f(x)=3\sqrt{x}$.
מצא את נקודת ההשקה.

**23)** מצא את משוואת המשיק לפונקציה $f(x)=\frac{1}{x}+\sqrt{x}$ בנקודה בה $x=1$.

**24)** מצא את משוואת המשיק לפונקציה $f(x)=3x^2-8\sqrt{x}$ בנקודה בה $x=4$.

**25)** נתונה הפונקציה הבאה $f(x)=4x-2\sqrt{x}$.

א. מצא את משוואת המשיק לגרף הפונקציה המקביל לישר $f(x)=3x-\frac{1}{2}$.

ב. מצא את נקודת החיתוך של המשיק עם ציר ה-$x$.

**26)** מצא את משוואת המשיק לפונקציה $f(x)=\frac{4}{\sqrt{x-1}}$ ששיפועו 2-.

**27)** מצא את משוואות המשיק לפונקציה $f(x)=\frac{x-3}{\sqrt{x^2-x+2}}$ בנקודה שבה $x=2$.

**28)** מצא את משוואות המשיקים לפונקציה $f(x)=\frac{1}{3x^3}$ היוצרים עם הכיוון החיובי של ציר ה-$x$ זווית של $135°$.

**29)** מצא את משוואת המשיקים המשותפים לפונקציות הבאות: $y=-\frac{1}{4}x^2-5$ , $y=x^2$.

**30)** נתונה הפונקציה: $f(x)=\frac{\sqrt{x^2+3}}{x}$ ונתון הישר: $y=2x$.

א. מצא את נקודת החיתוך של הפונקציה והישר הנמצאת ברביע הראשון.

ב. מצא את משוואות המשיק לגרף הפונקציה בנקודה שמצאת בסעיף הקודם.

ג. חשב את השטח שנוצר בין המשיק והצירים.

**31)** באיור שלפניך מתוארים הגרפים של הפונקציות: $f(x)=\sqrt{x}$ , $g(x)=x^2$.

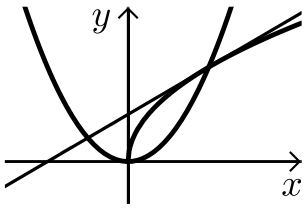


א. מצא את נקודות החיתוך של הגרפים.

ב. מצא את משוואת המשיק לגרף הפונקציה $f(x)$ העובר דרך נקודת החיתוך שמצאת הנמצאת ברביע הראשון.

ג. מצא את נקודת החיתוך הנוספת של המשיק שמצאת עם גרף הפונקציה $g(x)$.

## תשובות סופיות:

**17)** $y=24x+22$

**18)** $y=-\frac{1}{2}x+3\frac{1}{2}$

**19)** $y=6x-24\ ,\ y=-6x-12$

**20)** $y=2x-3$

**21)** $y=-12x+9$

**22)** $(1\ ,\ 3)$

**23)** $y=-\frac{1}{2}x+2\frac{1}{2}$

**24)** $y=22x-56$

**25)** א. $y=3x-1$ ב. $\left(\frac{1}{3}\ ,\ 0\right)$

**26)** $y=-2x+8$

**27)** $y=\frac{11}{16}x-\frac{15}{8}$

**28)** $y=-x+1\frac{1}{3}\ ,\ y=-x-1\frac{1}{3}$

**29)** $y=2x-1\ ,\ y=-2x-1$

**30)** א. $(1\ ,\ 2)$ ב. $y=-1.5x+3.5$ ג. $S=4\frac{1}{12}$.

**31)** א. $(1\ ,\ 1)\ ,\ (0\ ,\ 0)$ ב. $y=0.5x+0.5$ ג. $(-0.5\ ,\ 0.25)$.

# שאלות עם פרמטרים:

## שאלות:

**32)** שיפוע המשיק לפונקציה $f(x)=ax^2-4x$ בנקודה שבה $x=3$ הוא 8.
מצא את ערכו של הפרמטר $a$ ואת משוואת המשיק.

**33)** נתונה הפונקציה $f(x)=\sqrt{ax}$ , $(a>0)$.
המשיק לפונקציה בנקודה שבה $x=\frac{1}{2}$ הוא בעל שיפוע 1.
מצא את ערך הפרמטר $a$.

**34)** נתונה הפונקציה: $y=x^3+a\sqrt{x}$ ($a$ פרמטר).
שיפוע המשיק לגרף הפונקציה בנקודה שבה $x=1$ הוא 5.
מצא את ערך הפרמטר $a$.

**35)** נתונה הפונקציה: $y=2\sqrt{x}-\frac{A}{x}$ (A פרמטר).
שיפוע המשיק לגרף הפונקציה בנקודה שבה $x=1$ הוא 2.
מצא את ערך הפרמטר A.

**36)** הישר $y=4x+b$ משיק לגרף הפונקציה $f(x)=\frac{2}{x^2}+3$.
מצא את $b$ ואת נקודת ההשקה.

**37)** שיפוע המשיק לפונקציה $f(x)=\frac{2}{ax+3}$ בנקודה שבה $y=2$ הוא -4.
מצא את ערכו של הפרמטר $a$ ואת משוואת המשיק.

**38)** הישר $y=ax+\frac{1}{2}$ משיק לגרף הפונקציה $g(x)=\frac{2}{x+c}$ בנקודה $x=0$.
מצא את ערכי הפרמטרים $a$ ו-$c$.

**39)** הישר $y=3x$ משיק לגרף הפונקציה $f(x)=x\sqrt{x}+b$.
מצא את $b$ ואת נקודת ההשקה.

**40)** שיפוע המשיק לפונקציה $f(x)=\frac{a}{\sqrt{bx-1}}$ בנקודה $(1\ ,\ 6)$ הוא -6.
מצא את ערכי הפרמטרים $a$ ו- $b$ ואת משוואת המשיק.

**41)** לאילו ערכי $k$ ישיק הישר $y=-5x+6$ לגרף הפונקציה $f(x)=x^3-2x^2-4x+k$ ?
לכל ערך כזה של $k$ מצא את נקודת ההשקה.

**42)** הפונקציות $y=\frac{1}{x}$ ו- $y=-\frac{1}{2}x^2+k$ משיקות זו לזו.
מצא את $k$ ואת נקודת ההשקה.

## תשובות סופיות:

**32)** $a=2\ ,\ y=8x-18$

**33)** $a=2$

**34)** $a=4$

**35)** $\mathrm{A}=1$

**36)** $(-1\ ,\ 5)\ ,\ y=4x+9$

**37)** $a=2\ ,\ y=-4x-2$

**38)** $a=-\frac{1}{8}\ ,\ c=4$

**39)** $b=4\ ,\ (4\ ,\ 12)$

**40)** $b=2\ ,\ a=6\ ,\ y=-6x+12$

**41)** $k=6:(1\ ,\ 1)$ או: $\left(\frac{1}{3}\ ,\ \frac{13}{3}\right):k=\frac{158}{27}$.

**42)** $(1\ ,\ 1)\ ,\ k=1.5$

# שאלות העוסקות במציאת משוואת משיק מנקודה חיצונית:

## שאלות:

**43)** ענה על הסעיפים הבאים:

א. בטא באמצעות $t$ את משוואת המשיק לפונקציה $f(x)=x^2+1$ בנקודה שבה $x=t$.

ב. מצא את ערכיו של $t$ אם נתון שהמשיק עובר בנקודה $(-1\ ,\ 1)$.

**44)** מצא את משוואות המשיקים לגרף הפונקציה: $f(x)=5x-x^2$ העוברים דרך הנקודה $(3\ ,\ 7)$.

**45)** מצא את משוואות המשיקים לגרף הפונקציה: $f(x)=x^2+5x-6$ העוברים דרך הנקודה $(0\ ,-10)$.

**46)** מצא את משוואות המשיקים לגרף הפונקציה: $f(x)=12x-x^3$ העוברים דרך הנקודה $(2\ ,\ 24)$.

**47)** מצא את משוואת המשיק לפונקציה $f(x)=\frac{1}{\sqrt{x}}$ העובר בנקודה $(3\ ,\ 0)$.

**48)** מצא משוואת המשיק לפונקציה: $f(x)=\frac{1}{\sqrt{x}}$ אם ידוע ששטח המשולש שהוא יוצר עם הצירים הוא 4.5 יחידות שטח.

**49)** מצא את משוואות המשיקים לגרף הפונקציה: $f(x)=\frac{2}{\sqrt{x-2}}$ העוברים דרך הנקודה $(2\ ,\ 3)$.

## תשובות סופיות:

43) א. $y=2tx-t^2+1$ ב. $t=0,-2$.

44) $y=-3x+16$ , $y=x+4$

45) $y=x-10$ , $y=9x-10$

46) $y=-15x+54$ , $y=12x$

47) $y=-\frac{1}{2}x+1\frac{1}{2}$

48) $y=-\frac{1}{16}x+\frac{3}{4}$

49) $y=-x+5$

# קורס קדם במתמטיקה למהנדסים

## פרק 23 - חשבון דיפרנציאלי - חקירת פונקצית פולינום

תוכן העניינים

1. נקודות קיצון של פונקציות ..... 329
2. חקירת פונקציה פולינומית ..... 332
3. פונקציה זוגית ואי-זוגית ..... 336

# נקודות קיצון של פונקציות:

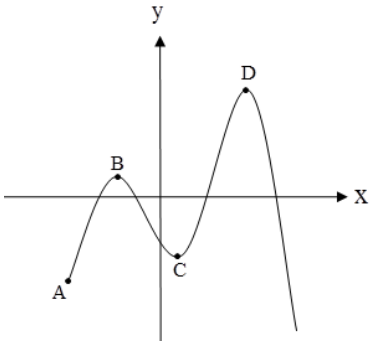


## סיכום כללי:

**נקודות קיצון (נקודות מינימום/מקסימום):**

- מינימום או מקסימום מקומי (פנימי) – B , C , D.
- מינימום או מקסימום קצה – A.
- מינימום או מקסימום מוחלט – D.

**נקודות קיצון מקומיות:**

- שיפוע המשיק לפונקציה בנקודות קיצון מקומיות הוא אפס.
- בנקודה שבה שיפוע המשיק לפונקציה הוא אפס תיתכן נקודת קיצון מקומית. נקודה כזו נקראת נקודה חשודה כקיצון. ניתן לבדוק אם היא אכן נקודת קיצון.

**שלבים למציאת נקודות קיצון מקומיות:**

- נגזור את הפונקציה.
- נשווה את הנגזרת לאפס ונחלץ את ערכי ה- $x$ של הנקודות החשודות כקיצון.
- נציב את ערכי ה- $x$ מסעיף ב' בפונקציה המקורית לקבלת ערכי ה- $y$ .
- נקבע אם הנקודה היא נקודת קיצון ונסווג את סוג הקיצון על ידי טבלה.

## שאלות:

**1)** מצא את נקודות הקיצון של הפונקציה $f(x)=10x-x^2$ .

**2)** נתונה הפונקציה $f(x)=x^3-12x$ .

א. מהן נקודות הקיצון של הפונקציה?

ב. מהם תחומי העלייה והירידה של הפונקציה?

**3)** נתונה הפונקציה $f(x)=x^4-10x^2+9$ .

א. מהן נקודות הקיצון של הפונקציה?

ב. מהם תחומי העלייה והירידה של הפונקציה?

**4)** נתונה הפונקציה $f(x)=x^4-4x^3+32$ .

א. מהן נקודות הקיצון של הפונקציה?

ב. מהם תחומי העלייה והירידה של הפונקציה?

**5)** לפונקציה $f(x)=ax-x^3-5$ יש נקודת קיצון בנקודה שבה $x=-1$ .
מצא את ערכו של הפרמטר $a$ .

**6)** נתונה הפונקציה $f(x)=ax^3+x^2$ . ידוע שהנקודה $x=1$ נקודת קיצון.
מצא את הקבוע $a$

**7)** לפונקציה $f(x)=\mathrm{A}x^3+\mathrm{B}x^2-1$ יש נקודת קיצון ששיעוריה : $(2,3)$ .
מצא את ערכי הפרמטרים A , B.

**8)** לפונקציה $f(x)=\mathrm{A}x^3+\mathrm{B}x^2-4x$ יש נקודת קיצון ב-$x=-1$ ו-$x=4$ .
מצא את הפרמטרים ואת שיעור ה- $y$ של שתי נקודות הקיצון.

**9)** נתונה הפונקציה $f(x)=ax^3+bx^2$ . ידוע שהנקודה $(1,2)$ נקודת קיצון.
מצא את הפרמטרים $a$ , $b$ .

**10)** לפונקציה $f(x)=ax^4+bx^2+35$ יש נקודת קיצון ששיעוריה $(2,3)$ .
מצא את ערכי הפרמטרים $a$ , $b$ .

## תשובות סופיות:

1) $\max(5,25)$.

2) א. $\max(-2,16)$ , $\min(2,-16)$ ב. עולה: $x>2$ , $x<-2$ יורדת: $-2<x<2$.

3) א. $\min(-\sqrt{5},-16)$ , $\min(\sqrt{5},-16)$ , $\max(0,9)$

ב. עולה: $-\sqrt{5}<x<0$ , $x>\sqrt{5}$ יורדת: $0<x<\sqrt{5}$ , $x<-\sqrt{5}$.

4) א. $\min(3,5)$ ב. עולה: $x>3$ יורדת: $x<3$.

5) $a=3$.

6) $a=-\frac{2}{3}$.

7) $A=-1$ , $B=3$.

8) $\left(4,-18\frac{2}{3}\right)$ , $\left(-1,2\frac{1}{6}\right)$ , $B=-\frac{3}{2}$ , $A=\frac{1}{3}$.

9) $a=-4$ , $b=6$.

10) $b=-16$ , $a=2$.

# חקירת פונקציה פולינומית:

## שאלות:

**11)** נתונה הפונקציה $f(x)=10x-x^2$ .

חקור את הפונקציה על פי הסעיפים הבאים:

א. מהו תחום ההגדרה של הפונקציה?

ב. מצא את נקודות הקיצון של הפונקציה.

ג. מצא את תחומי העלייה והירידה של הפונקציה.

ד. מצא את נקודות החיתוך של הפונקציה עם הצירים.

ה. שרטט סקיצה של גרף הפונקציה.

**12)** נתונה הפונקציה $f(x)=x^3-12x$ .

חקור את הפונקציה על פי הסעיפים הבאים:

א. מציאת תחום ההגדרה.

ב. מציאת נקודות קיצון של הפונקציה.

ג. כתיבת תחומי העלייה והירידה של הפונקציה.

ד. מציאת נקודות החיתוך של גרף הפונקציה עם הצירים.

ה. שרטוט סקיצה של גרף הפונקציה.

**13)** נתונה הפונקציה $f(x)=x^4-10x^2+9$ .

חקור את הפונקציה על פי הסעיפים הבאים:

א. מציאת תחום ההגדרה.

ב. מציאת נקודות קיצון של הפונקציה.

ג. כתיבת תחומי העלייה והירידה של הפונקציה.

ד. מציאת נקודות החיתוך של גרף הפונקציה עם הצירים.

ה. שרטוט סקיצה של גרף הפונקציה.

**14)** נתונה הפונקציה $f(x)=x^4-4x^3+32$ חקור את הפונקציה על פי הסעיפים הבאים:

א. מציאת תחום ההגדרה.

ב. מציאת נקודות קיצון של הפונקציה.

ג. כתיבת תחומי העלייה והירידה של הפונקציה.

ד. מציאת נקודות החיתוך של גרף הפונקציה עם הצירים.

ה. שרטוט סקיצה של גרף הפונקציה.

**15)** נתונה הפונקציה $f(x)=x^3$ חקור את הפונקציה על פי הסעיפים הבאים:

א. מציאת תחום ההגדרה.

ב. מציאת נקודות קיצון של הפונקציה.

ג. כתיבת תחומי העלייה והירידה של הפונקציה.

ד. מציאת נקודות החיתוך של גרף הפונקציה עם הצירים.

ה. שרטוט סקיצה של גרף הפונקציה.

**16)** נתונה הפונקציה: $f(x)=2x^3-3ax^2+54x-50$.

א. לאלו ערכים של הפרמטר $a$ עולה הפונקציה בכל תחום הגדרתה?

ב. הצב בפונקציה $a=6$ וחקור את הפונקציה על פי הסעיפים הבאים:
תחום הגדרה, נקודות קיצון, תחומי עלייה וירידה, נקודת חיתוך עם ציר ה- $y$, סרטוט.

**17)** נתונה הפונקציה: $y=-3x^3+6x^2-4x+d$ ($d$ פרמטר).
ידוע כי הפונקציה חותכת את ציר ה- $x$ בנקודה שבה: $x=2$.

א. מצא את $d$.

ב. האם יש לפונקציה נקודות קיצון?

ג. כתוב את תחומי העלייה וירידה של הפונקציה.

ד. מצא את נקודת החיתוך של הפונקציה עם ציר ה- $y$.

ה. סרטט סקיצה של גרף הפונקציה.

**18)** לפניך גרף הפונקציה $f(x)=x^3-3x$:

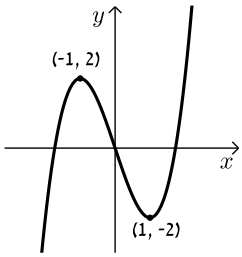


א. מהו מספר הפתרונות של המשוואה $f(x)=5$?

ב. מהו מספר הפתרונות של המשוואה $f(x)=2$?

ג. מהו מספר הפתרונות של המשוואה $f(x)=0.5$?

ד. עבור איזה ערך של $k$ למשוואה $f(x)=k$ יש בדיוק פתרון אחד?

ה. עבור איזה ערך של $k$ למשוואה $f(x)=k$ יש בדיוק שני פתרונות?

ו. עבור איזה ערך של $k$ למשוואה $f(x)=k$ יש בדיוק שלושה פתרונות?

ז. האם קיים ערך של $k$ עבורו למשוואה $f(x)=k$ אין פתרון?

## תשובות סופיות:

**11)** א. כל $x$ ב. $\max(5,25)$ ג. עלייה: $x<5$ , ירידה: $x>5$

ד. $(10,0)$ , $(0,0)$. ה. להלן גרף:

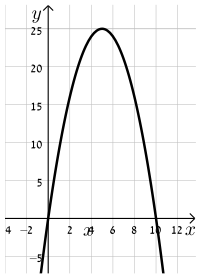

**12)** א. כל $x$ ב. $\max(-2,16)$ , $\min(2,-16)$

ג. עלייה: $x>2$ , $x<-2$ , ירידה: $-2<x<2$

ד. $(-\sqrt{12},0)$ , $(\sqrt{12},0)$ , $(0,0)$. ה. להלן גרף:

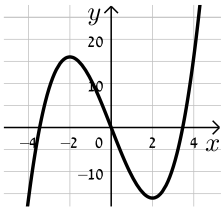

**13)** א. כל $x$ ב. $\min(-\sqrt{5},-16)$ , $\min(\sqrt{5},-16)$ , $\max(0,9)$

ג. עלייה: $-\sqrt{5}<x<0$ , $x>\sqrt{5}$ , ירידה: $x<-\sqrt{5}$ , $0<x<\sqrt{5}$.

ד. $(\pm3,0)$ , $(\pm1,0)$ , $(0,9)$. ה. להלן גרף:

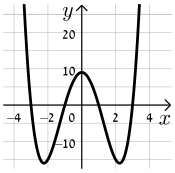

**14)** א. כל $x$ ב. $\min(3,5)$ ג. תחומי עלייה: $x>3$ , תחומי ירידה: $x<3$

ד. $(0,32)$. ה. להלן גרף:

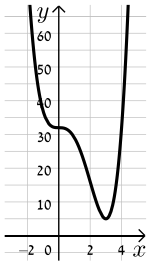

**15)** א. כל $x$ ב. אין. ג. עולה לכל $x$

ד. $(0,0)$. ה. להלן גרף:

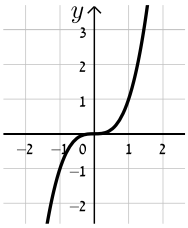

**16)** א. $-6<a<6$ ב. תחום הגדרה: כל $x$, נקודות קיצון: אין, תחומי עלייה: כל $x$, תחומי ירידה: אין, נקודת חיתוך עם הצירים: $(0,-50)$, להלן גרף:

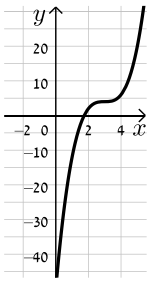


**17)** א. $d=8$ ב. לא. ג. יורדת בתחום $x\neq\frac{2}{3}$

ד. $(0,8)$. ה. להלן גרף:

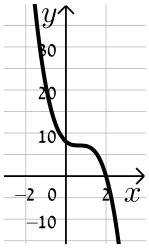


**18)** א. 1. ב. 2. ג. 3. ד. $k>2\ ,\ k<-2$

ה. $k=\pm 2$ ו. $-2<k<2$ ז. לא.

# פונקציה זוגית ואי-זוגית:

## סיכום כללי:

**הגדרות:**

- פונקציה $f(x)$ תיקרא זוגית אם לכל $x$ בתחום הגדרתה מתקיים: $f(x)=f(-x)$.
- פונקציה $f(x)$ תיקרא אי-זוגית אם לכל $x$ בתחום הגדרתה מתקיים: $f(-x)=-f(x)$.

## שאלות:

**1)** קבע אלו מהפונקציות הבאות הן זוגיות/אי-זוגיות לא זו ולא זו:

א. $f(x)=3x-5$

ב. $f(x)=3x^2$

ג. $f(x)=2x^3$

ד. $f(x)=x^3-2x^2$

ה. $f(x)=4x^4-3x^2+1$

ו. $f(x)=4x^5-3x^3-1$

**2)** הפונקציות המסורטטות להלן מוגדרות לכל $x$.
השלם את ציור הגרף של הפונקציה כך שתתקבל פונקציה זוגית:

א.

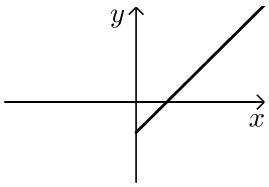


ב.

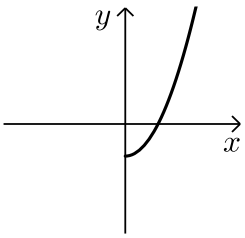


ג.

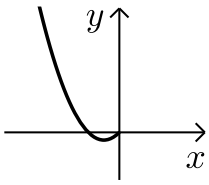


ד.

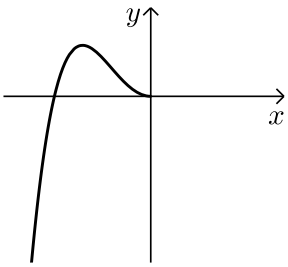

**3)** הפונקציות המסורטטות להלן מוגדרות לכל $x$.
השלם את ציור הגרף של הפונקציה כך שתתקבל פונקציה אי-זוגית:

א.

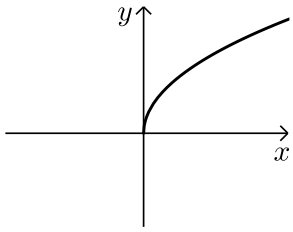


ב.

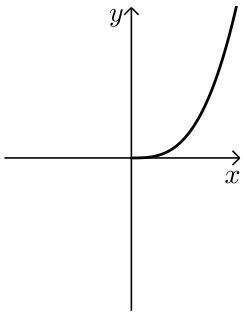


ג.

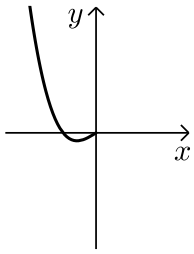


ד.

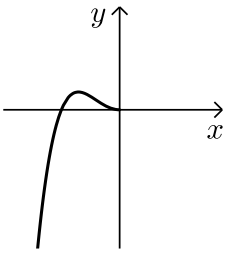


**4)** נתונה הפונקציה הבאה: $f(x)=x^4-4x^2$ בתחום: $[0:3]$.

א. חקור את הפונקציה בתחום הנ"ל לפי הסעיפים הבאים:

i. תחום הגדרה.

ii. מציאת נקודות חיתוך עם הצירים.

iii. מציאת נקודות קיצון וסיווגן.

iv. כתיבת תחומי עלייה וירידה.

v. סרטוט סקיצה של גרף הפונקציה.

ב. הוכח כי הפונקציה $f(x)$ היא פונקציה זוגית.

ג. התבסס על ממצאיך מהסעיפים הקודמים וסרטט את הפונקציה בתחום: $[-3:3]$ (הוסף את סרטוט גרף הפונקציה בתחום $[-3:0]$ לגרף שסרטטת בסעיף הקודם).

**5)** נתונה הפונקציה הבאה: $f(x)=x^6-3x^2+3$.

א. חקור את הפונקציה בתחום: $[0:4]$ לפי הסעיפים הבאים:
תחום הגדרה, מציאת חיתוך עם ציר ה- $y$, מציאת נקודות קיצון וסיווגן, כתיבת תחומי עלייה וירידה, סרטוט סקיצה בתחום הנ"ל.

ב. האם הפונקציה היא זוגית? אי-זוגית? לא זו ולא זו?
נמק באמצעות חישוב מתאים.

ג. הסתמך על ממציאך מהסעיפים הקודמים והוסף לסקיצה שסרטטת בסעיף א', את עקום הפונקציה בתחום $[-4:0]$.

ד. הוכח כי הפונקציה חיובית לכל $x$ בתחום הגדרתה.

**6)** לפניך הפונקציה: $f(x)=-2x^6+3x^4+a$, $a$ פרמטר.
ידוע כי לפונקציה ערך מירבי של 1.

א. מצא את $a$ וכתוב את הפונקציה $f(x)$.

ב. חקור את הפונקציה בתחום: $[-2:0]$ לפי הסעיפים הבאים:
כתיבת תחום הגדרה, מציאת נקודות חיתוך עם הצירים,
מציאת נקודות קיצון וסיווגן, כתיבת תחומי עלייה וירידה, סרטוט סקיצה.

ג. האם הפונקציה היא זוגית? אי-זוגית? לא זה ולא זה?
נמק באמצעות חישוב מתאים.

ד. הסתמך על ממציאך מהסעיפים הקודמים וסרטט את גרף הפונקציה בתחום: $[-2:2]$.

**7)** נתונה הפונקציה הבאה: $f(x)=3x^3-9x$.

א. חקור את הפונקציה בתחום: $[0:5]$ לפי הסעיפים הבאים:
כתיבת תחום הגדרה, מציאת נקודות חיתוך עם הצירים,
מציאת נקודות קיצון וסיווגן, כתיבת תחומי עלייה וירידה, סרטוט סקיצה.

ב. הוכח כי הפונקציה היא אי-זוגית.

ג. התבסס על ממציאך מהסעיפים הקודמים וסרטט את הפונקציה בתחום: $[-5:5]$ (הוסף את סרטוט גרף הפונקציה בתחום $[-5:0]$ לגרף שסרטטת בסעיף הקודם).

**8)** לפניך הפונקציה הבאה: $f(x)=5x^3-3x^5+b$ , $b$ פרמטר.
ידוע כי הישר $y=2x$ עובר דרך כל הנקודות על גרף הפונקציה שמקיימות: $f'(x)=0$.

א. מצא את $b$ וכתוב את הפונקציה $f(x)$.

ב. חקור את הפונקציה בתחום: $[0:2]$ לפי הסעיפים הבאים:

i. תחום הגדרה.

ii. מציאת נקודות חיתוך עם הצירים.

iii. מציאת נקודות קיצון וסיווגן.

iv. כתיבת תחומי עלייה וירידה.

v. סרטוט סקיצה של גרף הפונקציה.

ג. בדוק האם הפונקציה היא זוגית/אי-זוגית או לא זו ולא זו.
נמק את קביעתך באמצעות חישוב מתאים.

ד. הסתמך על ממציאך מהסעיפים הקודמים והוסף לסקיצה של גרף הפונקציה את הגרף בתחום $[-2:0]$.

**9)** נתונה הפונקציה: $f(x)=\frac{x^7-x}{3}$.

א. חקור את הפונקציה בתחום: $[-4:0]$ לפי הסעיפים הבאים:

i. תחום הגדרה.

ii. מציאת נקודות חיתוך עם הצירים.

iii. מציאת נקודות קיצון וסיווגן
(בתשובתך השאר עד 2 ספרות לאחר הנקודה העשרונית).

iv. כתיבת תחומי עלייה וירידה.

v. סרטוט סקיצה של גרף הפונקציה.

ב. האם הפונקציה היא זוגית? אי-זוגית? או לא זו ולא זו?
נמק ע"י חישוב מתאים.

ג. הסתמך על ממציאך מהסעיפים הקודמים והוסף לסקיצה שעשית את גרף הפונקציה בתחום $[0:4]$.

## תשובות סופיות:

**1)** זוגית: ב', ה'. אי-זוגית: ג', לא זו ולא זו: א', ד', ו'.

**2)** להלן הגרפים:

א.
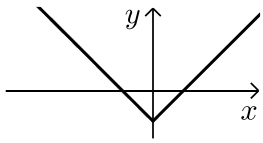


ב.
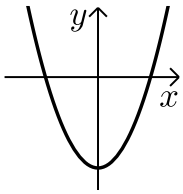


ג.
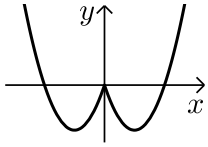


ד.
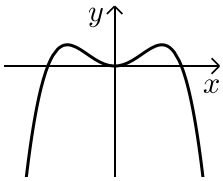


**3)** להלן הגרפים:

א.
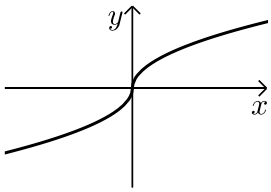


ב.
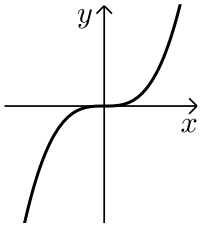


ג.
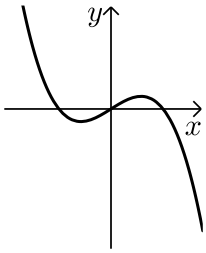


ד.
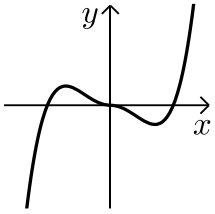


**4)** א. i. $0 \le x \le 3$ ii. $(0,0),(2,0)$ iii. $\max(3,45)$ קצה, $\min\left(\sqrt{2},-4\right)$,

$\max(0,0)$ קצה. iv. עולה: $\sqrt{2} < x < 3$, יורדת: $0 < x < \sqrt{2}$ ב. סעיף הוכחה.

**סרטוט עבור חלק v:**

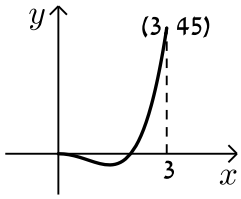


**סרטוט עבור סעיף ג:**

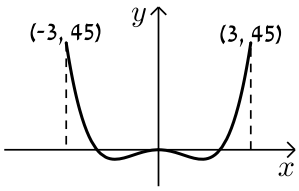


**5)** א. תחום הגדרה: $0 \le x \le 4$, חיתוך עם ציר ה- $y$: $(0,3)$,

נקודות קיצון: $\max(4,4051)$ קצה, $\min(1,1)$, $\max(0,3)$ קצה,

עולה: $1 < x < 4$, יורדת: $0 < x < 1$ ב. זוגית.

ד. הוכחה עפ"י הסרטוט.

**סרטוט עבור סעיף א:**

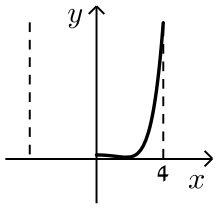


**סרטוט עבור סעיף ג:**

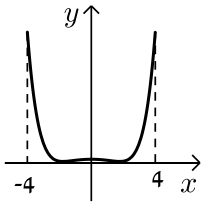

**6)** א. $a=0$ ב. תחום הגדרה: $-2\le x\le 0$, חיתוך עם הצירים: $(0,0)$, $(-1.225,0)$, נקודות קיצון: $\min(-2,-80)$ קצה, $\max(-1,1)$, $\min(0,0)$ קצה,
עולה: $-2<x<-1$, יורדת: $-1<x<0$. ג. זוגית.

**סרטוט עבור סעיף א:**

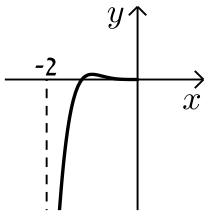


**סרטוט עבור סעיף ד:**

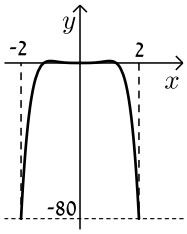


**7)** א. תחום הגדרה: $0\le x\le 5$, חיתוך עם הצירים: $(\sqrt{3},0)$, $(0,0)$,
נקודות קיצון: $\max(5,330)$ קצה, $\min(1,-6)$, $\max(0,0)$ קצה,
עולה: $1<x<5$, יורדת: $0<x<1$, ב. אי-זוגית.

**סרטוט עבור סעיף א:**

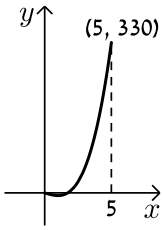


**סרטוט עבור סעיף ג:**

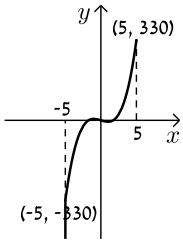


**8)** א. $b=0$ ב. i. $0\le x\le 2$ ii. $(0,0)$, $(1.29,0)$ iii. $\min(2,-56)$ קצה,
$\max(1,2)$, $\min(0,0)$ קצה. iv. עולה: $0<x<1$, יורדת: $1<x<2$
ג. אי-זוגית.

**סרטוט עבור חלק v:**

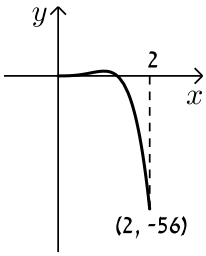


**סרטוט עבור סעיף ד:**

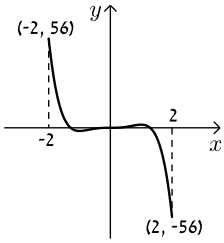


**9)** א. i. $-4\le x\le 0$ ii. $(0,0)$, $(-1,0)$ iii. $\min(0,0)$ קצה, $\max(-0.723,0.207)$,
$\min(-4,-5460)$ קצה. iv. עולה: $-4<x<-0.723$,
יורדת: $-0.723<x<0$ ג. אי-זוגית.

**סרטוט עבור חלק v:**

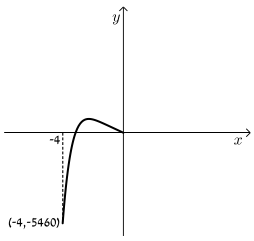


**סרטוט עבור סעיף ד:**

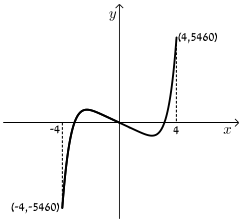

# קורס קדם במתמטיקה למהנדסים

## פרק 24 - חשבון דיפרנציאלי - חקירת פונקצית מנה ושורש

תוכן העניינים


1. מציאת תחום הגדרה ..... 342
2. מציאת נקודות קיצון ותחומי עלייה וירידה ..... 344
3. מציאת אסימפטוטות המקבילות לצירים ..... 345
4. חקירת פונקצית מנה ..... 350
5. חקירת פונקצית שורש ..... 359
6. תחומי קעירות ונקודות פיתול ..... 367
7. חקירת פונקציה עם פרמטר ..... 373
8. פונקציות ללא תבנית מפורשת ..... 376

# מציאת תחום הגדרה:

## סיכום כללי:

- כל פולינום מוגדר לכל $x$.
- בפונקציה עם מכנה, אסור שיתקבל אפס במכנה.
- בפונקציה עם שורש זוגי, אסור שיתקבל מספר שלילי בתוך השורש.

## שאלות:

**1)** מצא את תחום ההגדרה של הפונקציות הבאות:

א. $f(x)=x^2+\frac{1}{2}x$

ב. $f(x)=4x^3-x^2+\frac{x}{2}+1$

ג. $f(x)=x^3-x^2-4x+1$

ד. $f(x)=\frac{2x}{x-3}$

ה. $f(x)=\frac{1}{x^2-4}$

ו. $f(x)=\frac{5x^3+4x}{x^2-1}$

ז. $f(x)=\frac{x^2}{x^2-x-2}$

ח. $f(x)=\frac{x^2+1}{x^2-2x-8}$

ט. $f(x)=\frac{6}{x^2+1}$

י. $f(x)=\frac{4x+1}{x^2+1}$

יא. $f(x)=\frac{1}{x^3-x}$

יב. $f(x)=\frac{x^2}{x^3-4x}$

**2)** מצא את תחום ההגדרה של הפונקציות הבאות:

א. $f(x)=\sqrt{x}$

ב. $f(x)=2\sqrt{x-3}$

ג. $f(x)=\sqrt{x-4}$

ד. $f(x)=3x\sqrt{1-2x}$

ה. $f(x)=\sqrt{x^2+3x-10}$

ו. $f(x)=\sqrt{x^2+x-2}$

ז. $f(x)=\frac{5x}{\sqrt{x+4}}$

ח. $f(x)=\frac{\sqrt{x^2+5x+6}}{x-1}$

ט. $f(x)=\sqrt{\frac{2x^2+x-3}{x^2+5x+9}}$

י. $f(x)=\frac{x-2}{\sqrt{x^3-9x}}$

יא. $f(x)=\frac{1}{x+\sqrt{x+6}}$

יב. $f(x)=\frac{x+1}{x-\sqrt{2-x}}$

יג. $f(x)=\frac{1}{\sqrt{1-|x|}}$

יד. $f(x)=\sqrt{\sqrt{x+2}-3}$

## תשובות סופיות:

**1)** א. כל $x$ ב. כל $x$ ג. כל $x$ ד. $x \neq 3$ ה. $x \neq \pm 2$ ו. $x \neq \pm 1$
ז. $x \neq -1, 2$ ח. $x \neq 4, -2$ ט. כל $x$ י. כל $x$ יא. $x \neq \pm 1, 0$ יב. $x \neq \pm 2, 0$.

**2)** א. $x \geq 0$ ב. $x \geq 3$ ג. $x \geq 4$ ד. $x \leq \frac{1}{2}$ ה. $x \leq -5 , x \geq 2$
ו. $x \leq -2 , x \geq 1$ ז. $x > -4$ ח. $x \leq -3 , \ -2 \leq x < 1 , x > 1$ ט. $x \leq -1.5 , x \geq 1$
י. $-3 < x < 0 , x > 3$ יא. $-6 \leq x < -2 , x > -2$ יב. $x < 1 , 1 < x \leq 2$
יג. $-1 < x < 1$ יד. $x \geq 7$.

# מציאת נקודות קיצון ותחומי עלייה וירידה:

## שאלות:

**3)** נתונה הפונקציה: $f(x)=\frac{6x}{x^2-10x+9}$.

א. מהן נקודות הקיצון של הפונקציה?

ב. מהם תחומי העלייה והירידה של הפונקציה?

## תשובות סופיות:

**3)** א. $\max\left(3,-1\frac{1}{2}\right)$ , $\min\left(-3,-\frac{3}{8}\right)$.

ב. עולה: $-3<x<3$ , $x\neq 1$, יורדת: $3<x\neq 9$ , $x<-3$.

# מציאת אסימפטוטות המקבילות לצירים:

## סיכום כללי:

### אסימפטוטה אנכית:

הגדרה: הישר: $x=k$ הוא אסימפטוטה אנכית של פונקציה מהצורה: $y=\frac{f(x)}{g(x)}$

אם הוא מקיים: $g(k)=0$ וגם: $f(k)\neq 0$. בצורה מתמטית: אם: $\lim\limits_{x\to k^+}\frac{f(x)}{g(x)}=\pm\infty$

או: $\lim\limits_{x\to k^-}\frac{f(x)}{g(x)}=\pm\infty$ או שניהם אז הישר: $x=k$ הוא אסימפטוטה אנכית לפונקציה $y=\frac{f(x)}{g(x)}$.

### הסבר כללי:

בעבור ערכי $x$ שמאפסים את המכנה, אבל לא את המונה יש אסימפטוטה אנכית.
כאשר ערך $x$ מאפס את המכנה וגם את המונה יש לפרק את המונה והמכנה
(על ידי נוסחאות כפל מקוצר או טרינום למשל) ולצמצם.
אם אחרי הצמצום אותו ערך של $x$ עדיין מאפס את המכנה תתקבל אסימפטוטה אנכית,
אך אם ערך $x$ זה לא מאפס את המכנה אחרי שצומצם אין אסימפטוטה אנכית אלא
נקודת אי הגדרה.

### אסימפטוטה אופקית:

הגדרה: ישר מהצורה: $y=n$ הוא אסימפטוטה אופקית לפונקציה מהצורה: $y=\frac{f(x)}{g(x)}$

אם מתקיים: $\lim\limits_{x\to\infty^+}\frac{f(x)}{g(x)}=n$ או: $\lim\limits_{x\to\infty^-}\frac{f(x)}{g(x)}=n$ או שניהם.

אופן החישוב הכללי:

נתונה הפונקציה $f(x)=\frac{ax^m+\ldots}{bx^n+\ldots}$ (יש בפונקציה קו שבר אחד!)

- אם $m>n$, לפונקציה אין אסימפטוטה אופקית.
- אם $m=n$, לפונקציה יש אסימפטוטה אופקית שמשוואתה $y=\frac{a}{b}$.
- אם $m<n$, לפונקציה יש אסימפטוטה אופקית שמשוואתה $y=0$.

**חוקי גבולות לאינסוף:**

במקרים רבים נרצה לדעת האם פונקציה מסוימת מתכנסת לערך כלשהו כאשר $x$ שואף לערכים ההולכים וגדלים (לאינסוף, או למינוס אינסוף).
עבור ערכי $x$ שהולכים וגדלים (או קטנים) נרשום: $x=\infty$ או $x=-\infty$ בהתאמה.

ישנם 4 מצבים בהם ערך הפונקציה בשאיפת $x$ לאחד הקצוות ניתן לחישוב ישיר:

- הגבול: $\lim\limits_{x\to\infty}\frac{1}{x}="\frac{1}{\infty}"=0$.
- הגבול: $\lim\limits_{x\to 0}\frac{1}{x}$ ניתן לפיצול לשני מקרים:
  - אם: $x\to 0^+$ (מתקרב ל- 0 מהכיוון החיובי) אז: $\lim\limits_{x\to 0^+}\frac{1}{x}="\frac{1}{0^+}"=+\infty$.
  - אם: $x\to 0^-$ (מתקרב ל- 0 מהכיוון השלילי) אז: $\lim\limits_{x\to 0^-}\frac{1}{x}="\frac{1}{0^-}"=-\infty$.
- הגבול מהצורה $\infty\cdot\infty$ (מכפלת שני ביטויים של $x$ אשר כל אחד מהם שואף לאינסוף בפני עצמו) מקיים: $\infty\cdot\infty=\infty$.
- הגבול מהצורה $\infty+\infty$ (סכום שני ביטויים של $x$ אשר כל אחד מהם שואף לאינסוף בפני עצמו) מקיים: $\infty+\infty=\infty$.

ישנם 3 מקרים בהם לא ניתן לדעת מהו ערך הפונקציה בלקיחת הגבול בצורה ישירה והם:

- הגבול מהצורה: $\frac{\infty}{\infty}$ (מנת שני ביטויים שהולכים וגדלים עם שאיפת $x$).
- הגבול מהצורה: $\frac{0}{0}$ (מנת שני ביטויים שהולכים וקטנים עם שאיפת $x$).
- הגבול מהצורה: $\infty-\infty$ (הפרש של שני ביטויים שהולכים וגדלים עם שאיפת $x$).
במקרים אלו נעזר בפישוטים שהוצגו לעיל על מנת למצוא את ערך הגבול עצמו.

## שאלות:

4) מצא את האסימפטוטות המקבילות לצירים של הפונקציה: $f(x)=\frac{1}{x-2}+3$.

5) מצא את האסימפטוטות המקבילות לצירים של הפונקציה: $f(x)=\frac{5x^2+1}{x^2-9}$.

6) מצא את האסימפטוטות המקבילות לצירים של הפונקציה: $f(x)=\frac{2x^2-5x+2}{1+3x^2}$.

7) מצא את האסימפטוטות המקבילות לצירים של הפונקציה: $f(x)=\frac{3x}{x^2-2x-15}$.

8) מצא את האסימפטוטות המקבילות לצירים של הפונקציה: $f(x)=\frac{6x^3-5x+1}{1+2x^2}$.

9) מצא את האסימפטוטות המקבילות לצירים של הפונקציה: $f(x)=\frac{ax+b}{x-b}$.

10) מצא את האסימפטוטות המקבילות לצירים של הפונקציה: $f(x)=\frac{x^2-4}{x^2-3x+2}$
ואת נקודת אי הרציפות שלה.

11) מצא את האסימפטוטות המקבילות לצירים של הפונקציה: $f(x)=\frac{x^2}{2x^2-4x}$
ואת נקודת אי הרציפות שלה.

12) מצא את האסימפטוטות המקבילות לצירים של הפונקציה: $f(x)=\frac{\sqrt{x-1}}{x^2-4}$.

13) מצא את האסימפטוטות המקבילות לצירים של הפונקציה: $f(x)=\frac{x}{\sqrt{4-x}}$.

**14)** מצא את האסימפטוטות המקבילות לצירים של הפונקציה: $f(x)=\frac{\sqrt{x}}{1-\sqrt{x}}$.

**15)** מצא את האסימפטוטות המקבילות לצירים של הפונקציה: $f(x)=\frac{2x}{x-\sqrt{x}}$.

**16)** מצא את האסימפטוטות המקבילות לצירים של הפונקציה: $f(x)=\frac{3x}{\sqrt{x^2+5}}$.

**17)** מצא את האסימפטוטות המקבילות לצירים של הפונקציה: $f(x)=\frac{5x}{\sqrt{x^2-16}}$.

**18)** נתונה הפונקציה: $f(x)=\frac{4x^2+1}{ax^2-x+b}$.
האסימפטוטה האופקית של הפונקציה ואחת האסימפטוטות האנכיות של הפונקציה נפגשות בנקודה $(-1,2)$.
מצא את ערכי הפרמטרים $a$ ו- $b$.

**19)** נתונה הפונקציה: $f(x)=\frac{ax+8}{x+b\sqrt{x}}$.
הפונקציה חותכת את האסימפטוטה האופקית שלה בנקודה $(16,2)$.
מצא את ערכי הפרמטרים $a$ ו- $b$.

## תשובות סופיות:

4) $x=2\ ,\ y=3$ .

5) $x=\pm 3\ ,\ y=5$ .

6) $y=\frac{2}{3}$ .

7) $x=-3\ ,\ x=5\ ,\ y=0$ .

8) אין.

9) $x=b\ ,\ y=a$ .

10) $x=1\ ,\ y=1$ , נקודת אי-הגדרה: $(2,4)$.

11) $x=2\ ,\ y=\frac{1}{2}$ , נקודת אי-הגדרה: $(0,0)$.

12) $x=2\ ,\ y=0$ .

13) $x=4$ .

14) $x=1\ ,\ y=-1$ .

15) $x=1\ ,\ y=2$ .

16) $y=\lim\limits_{x\to\infty}\left(f(x)\right)=3\ ,\ y=\lim\limits_{x\to-\infty}\left(f(x)\right)=-3$ .

17) $x=4\ ,\ x=-4\ ,\ y=5\ ,\ y=-5$ .

18) $b=-3\ ,\ a=2$ .

19) $b=1\ ,\ a=2$ .

# חקירת פונקצית מנה:

## שאלות:

**20)** נתונה הפונקציה: $f(x)=\frac{6x^2-10x+6}{3x^2-10x+3}$. חקור את הפונקציה לפי הסעיפים הבאים:

א. מציאת תחום ההגדרה.
ב. מציאת נקודות הקיצון של הפונקציה.
ג. כתיבת תחומי העלייה והירידה של הפונקציה.
ד. מציאת נקודות החיתוך של גרף הפונקציה עם הצירים.
ה. מציאת אסימפטוטות המקבילות לצירים.
ו. שרטוט סקיצה של גרף הפונקציה.

**21)** נתונה הפונקציה: $f(x)=x+\frac{1}{x}$. חקור את הפונקציה לפי הסעיפים הבאים:

א. מציאת תחום ההגדרה.
ב. מציאת נקודות הקיצון של הפונקציה.
ג. כתיבת תחומי העלייה והירידה של הפונקציה.
ד. מציאת נקודות החיתוך של גרף הפונקציה עם הצירים.
ה. שרטוט סקיצה של גרף הפונקציה.

**22)** נתונה הפונקציה: $f(x)=\frac{2x+1}{x-3}$. חקור את הפונקציה לפי הסעיפים הבאים:

א. מציאת תחום ההגדרה.
ב. מציאת נקודות הקיצון של הפונקציה.
ג. כתיבת תחומי העלייה והירידה של הפונקציה.
ד. מציאת נקודות החיתוך של גרף הפונקציה עם הצירים.
ה. מציאת אסימפטוטות המקבילות לצירים.
ו. שרטוט סקיצה של גרף הפונקציה.

**23)** נתונה הפונקציה: $f(x)=\frac{6x}{x^2-5x+4}$. חקור את הפונקציה לפי הסעיפים הבאים:

א. מציאת תחום ההגדרה.
ב. מציאת נקודות הקיצון של הפונקציה.
ג. כתיבת תחומי העלייה והירידה של הפונקציה.
ד. מציאת נקודות החיתוך של גרף הפונקציה עם הצירים.
ה. שרטוט סקיצה של גרף הפונקציה.

**24)** נתונה הפונקציה: $f(x)=\frac{x^2-3x}{x^2+3}$. חקור את הפונקציה לפי הסעיפים הבאים:

א. מציאת תחום ההגדרה.
ב. מציאת נקודות הקיצון של הפונקציה.
ג. כתיבת תחומי העלייה והירידה של הפונקציה.
ד. מציאת נקודות החיתוך של גרף הפונקציה עם הצירים.
ה. שרטוט סקיצה של גרף הפונקציה.

**25)** נתונה הפונקציה הבאה: $y=\frac{2x^2-5x+2}{4x}$. חקור לפי הסעיפים הבאים:

א. תחום הגדרה.
ב. נקודות קיצון.
ג. קביעת סוג הקיצון ותחומי עלייה וירידה.
ד. חיתוך עם הצירים.
ה. מציאת אסימפטוטה אנכית.
ו. סרטוט סקיצה.

**26)** נתונה הפונקציה: $f(x)=\frac{x^2-5x+6}{x-3}$. חקור את הפונקציה לפי הסעיפים הבאים:

א. מציאת תחום הגדרה.
ב. מציאת נקודות קיצון של הפונקציה.
ג. כתיבת תחומי העלייה והירידה של הפונקציה.
ד. מציאת נקודות החיתוך של גרף הפונקציה עם הצירים.
ה. מציאת אסימפטוטות המקבילות לצירים.
ו. סרטוט סקיצה של גרף הפונקציה.

**27)** נתונה הפונקציה: $f(x)=\frac{x^2-3x+2}{x^2-1}$. חקור את הפונקציה לפי הסעיפים הבאים:

א. מציאת תחום הגדרה.

ב. מציאת נקודות קיצון של הפונקציה.

ג. כתיבת תחומי העלייה והירידה של הפונקציה.

ד. מציאת נקודות החיתוך של גרף הפונקציה עם הצירים.

ה. מציאת אסימפטוטות המקבילות לצירים.

ו. סרטוט סקיצה של גרף הפונקציה.

**28)** לגרף הפונקציה: $f(x)=\frac{ax+4}{x^2}$ יש נקודת קיצון שבה $x=-8$.

א. מצא את $a$ וכתוב את הפונקציה.

ב. כתוב את תחומי העלייה והירידה של הפונקציה.

ג. מצא את נקודות החיתוך של הפונקציה עם הצירים.

ד. מצא את האסימפטוטות המקבילות לצירים.

ה. סרטט סקיצה של גרף הפונקציה.

**29)** נתונה הפונקציה: $f(x)=\frac{3x^2}{2x^2-8}$.

א. מהו תחום הגדרה של הפונקציה?

ב. מצא את נקודות הקיצון של הפונקציה.

ג. קבע את סוג הקיצון ותחומי העלייה והירידה של הפונקציה.

ד. מצא את נקודות החיתוך עם הצירים של הפונקציה.

ה. מצא את האסימפטוטות המקבילות לצירים של הפונקציה.

ו. סרטט סקיצה של גרף הפונקציה.

**30)** נתונה הפונקציה: $y=\frac{a^2x-4}{2x^2-1}$, ($a$ קבוע).

ידוע כי שיפוע המשיק לגרף הפונקציה בנקודה שבה: $x=1$ הוא: $m=4$.

א. מצא את כל הערכים האפשריים עבור $a$.

ב. מצא את נקודות החיתוך של גרף הפונקציה עם הצירים.

ג. מצא את נקודת החיתוך בין המשיק הנתון ומשיק העובר דרך נקודת החיתוך של גרף הפונקציה עם ציר ה- $y$.

**31)** נתונה הפונקציה הבאה: $f(x)=1.5x-\frac{5x+1}{x+5}$. חקור לפי הסעיפים הבאים:

א. תחום הגדרה.

ב. נקודות קיצון וסוגן.

ג. תחומי עלייה וירידה.

ד. חיתוך עם הצירים.

ה. מציאת אסימפטוטות המקבילות לצירים.

ו. סרטוט סקיצה.

**32)** נתונה הפונקציה: $f(x)=\frac{x-a}{x-1}$, $(a\neq 1)$.

א. מצא את תחום ההגדרה של הפונקציה.

ב. מצא את האסימפטוטות של הפונקציה המקבילות לצירים.

ג. הבע באמצעות $a$ את השיעורים של נקודת החיתוך של גרף הפונקציה עם ציר ה- $x$ ועם ציר ה- $y$.

ד. ענה על הסעיפים הבאים:

i. מצא עבור אילו ערכים של $a$ הפונקציה $f(x)$ עולה לכל $x$ בתחום ההגדרה.

ii. ישר המשיק לגרף הפונקציה $f(x)$ בנקודה שבה $x=a$ מקביל לישר המשיק לגרף הפונקציה בנקודה שבה: $x=2$.
מצא את הערך של $a$ אם נתון כי הפונקציה עולה לכל $x$.

**33)** נתונה הפונקציה: $f(x)=\frac{x^2+ax+6}{x-2}$, ($a$ פרמטר).
ידוע שאחת מנקודות הקיצון של הפונקציה נמצאת על ציר ה- $y$.

א. מצא את הערך של $a$.

ב. הצב את הערך של $a$ שמצאת בסעיף א' ומצא:

i. את תחום ההגדרה של הפונקציה.

ii. את נקודות החיתוך של גרף הפונקציה עם הצירים (אם יש כאלה).

iii. את השיעורים של נקודות הקיצון של הפונקציה, וקבע את סוגן.

iv. את האסימפטוטות של הפונקציה המקבילות לצירים (אם יש כאלה).

ג. עבור אלו ערכי $x$ הפונקציה שלילית?

ד. נתון הישר: $y=k$. עבור אלו ערכי $k$ אין נקודות משותפות לישר ולגרף הפונקציה? נמק.

**34)** נתונה הפונקציה: $y=\frac{x+3}{x-2}+A$ , (A פרמטר). גרף הפונקציה עובר בנקודה $(3A\ ,\ A)$.

א. מצא את ערך הפרמטר A.

ב. כתוב את תחום ההגדרה של הפונקציה.

ג. הוכח כי גרף הפונקציה יורד לכל $x$.

ד. מצא את נקודת החיתוך של גרף הפונקציה עם ציר ה- $y$.

ה. סרטט סקיצה של גרף הפונקציה.

ו. נתון הישר: $y=k$.
האם קיים ערך של $k$ עבורו הישר חותך את גרף הפונקציה בשתי נקודות שונות? נמק.

**35)** נתונה הפונקציה: $f(x)=\frac{ax^2-20x+28}{x^2+2a}$.

ידוע כי גרף הפונקציה חותך את האסימפטוטה האופקית שלו בנקודה $(0.5\ ,\ 3)$.

א. מצא את ערך הפרמטר $a$ וכתוב את הפונקציה ואת תחום הגדרתה.

ב. מצא את נקודות הקיצון של הפונקציה וקבע את סוגן.

ג. כתוב את תחומי העלייה והירידה של הפונקציה.

ד. מצא את נקודות החיתוך של גרף הפונקציה עם הצירים.

ה. סרטט סקיצה של גרף הפונקציה.

ו. העזר בגרף הפונקציה וקבע עבור אלו ערכים של $k$ הישר: $y=k$ יחתוך את גרף הפונקציה בנקודה אחת בלבד.

**36)** ענה על הסעיפים הבאים:

א. הוכח כי לגרף הפונקציה: $f(x)=\frac{9-x^2}{x^2-k}$ יש נקודת קיצון שנמצאת על ציר ה- $y$.

ב. הוכח כי הפונקציה $f(x)$ מוגדרת לכל $x$ אם ידוע כי שיעור ה- $y$ של נקודת הקיצון הוא 3.

ג. מצא את נקודות החיתוך של גרף הפונקציה עם ציר ה- $x$.

ד. מצא את האסימפטוטה האופקית של הפונקציה.

ה. סרטט סקיצה של גרף הפונקציה וקבע בכמה נקודות יחתוך אותו הישר $y=-1$.
נמק את תשובתך.

## תשובות סופיות:

**20)** א. $x \neq 3 , x \neq \frac{1}{3}$ ב. $\max\left(1,-\frac{1}{2}\right) , \min\left(-1,1\frac{3}{8}\right)$.

ג. תחומי עלייה: $-1<x<1$ וגם $x \neq \frac{1}{3}$, תחומי ירידה: $1<x\neq 3$ או $x<-1$.

ד. $(0,2)$ ה. $y=2 , x=\frac{1}{3} , x=3$. ו. להלן סקיצה:

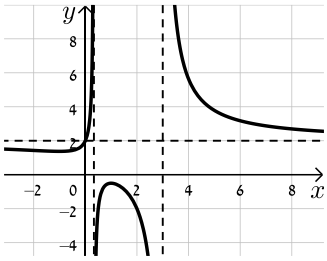

**21)** א. $x \neq 0$ ב. $\max(-1,-2) , \min(1,2)$

ג. עולה: $x>1$ או $x<-1$, יורדת: $-1<x<1 , x\neq 0$ ד. אין

ה. להלן סקיצה:

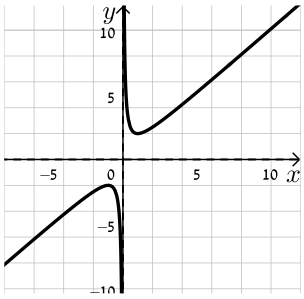

**22)** א. $x \neq 3$ ב. אין. ג. הפונקציה יורדת בכל ת.ה

ד. $\left(0,-\frac{1}{3}\right) , \left(-\frac{1}{2},0\right)$ ה. $x=3 , y=2$.

ו. להלן סקיצה:

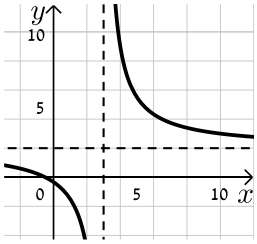

**23)** א. $x \neq 1 , x \neq 4$ ב. $\max(2,-6) , \min\left(-2,-\frac{2}{3}\right)$

ג. תחומי עלייה: $-2<x<2 , x\neq 1$, תחומי ירידה: $x>2 , x\neq 4$ או $x<-2$

ד. $(0,0)$ (אסימפטוטות: $x=4 , x=1 , y=0$).

ה. להלן סקיצה:

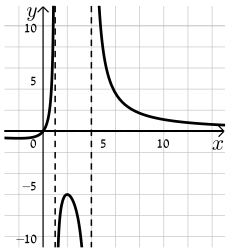

**24)** א. כל $x$ ב. $\max\left(-3,1\frac{1}{2}\right)$ , $\min\left(1,-\frac{1}{2}\right)$

ג. עולה: $x>1$ או $x<-3$ , יורדת: $-3<x<1$ ד. $(0,0),(3,0)$ (אסימפטוטה: $y=1$).

ה. להלן סקיצה:

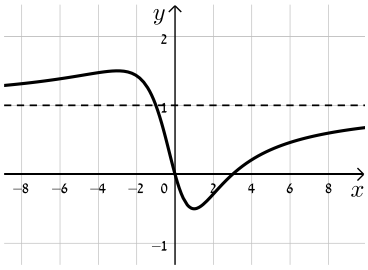


**25)** א. $x\neq 0$ ב. $\max(-1,-2.25)$ , $\min(1,-0.25)$

ג. עולה: $x>1$ , $x<-1$ , יורדת: $-1<x<1$ , $x\neq 0$ ד. $(2,0),(0.5,0)$ ה. $x=0$.

ו. להלן סקיצה:

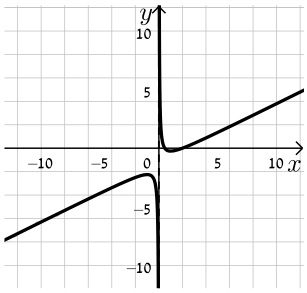


**26)** א. $x\neq 3$ ב. אין ג. הפונקציה עולה בכל תחום הגדרתה

ד. $(0,-2),(2,0)$ ה. אין, יש נקודת אי הגדרה ששיעוריה $(3,1)$.

ו. להלן סקיצה:

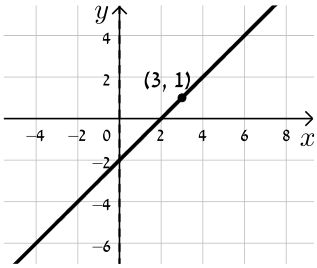


**27)** א. $x\neq \pm 1$ ב. אין ג. הפונקציה עולה בכל תחום הגדרתה

ד. $(0,-2),(2,0)$ ה. $x=-1$ , $y=1$ , יש נקודת אי הגדרה: $\left(1,-\frac{1}{2}\right)$.

ו. להלן סקיצה:

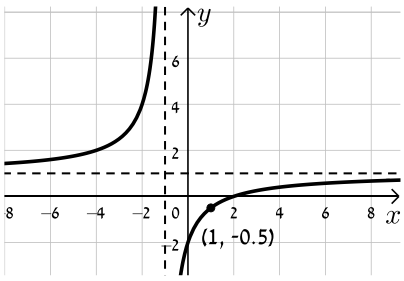

**28)** א. $a=1$ , $f(x)=\frac{x+4}{x^2}$ ב. עולה: $-8<x<0$ יורדת: $x<-8$ , $x>0$

ג. $(-4,0)$ ד. $x=0$ , $y=0$.

ה. להלן סקיצה:

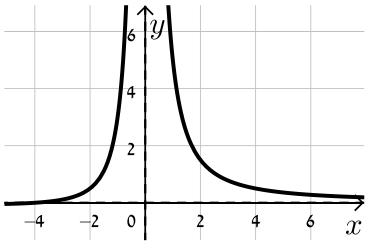

**29)** א. $x\neq\pm2$ ב. $\max(0,0)$ ג. יורדת: $x>0$ , $x\neq2$ , עולה: $x<0$ , $x\neq-2$

ד. $(0,0)$ ה. $x=\pm2$ , $y=1.5$. ו. להלן סקיצה:

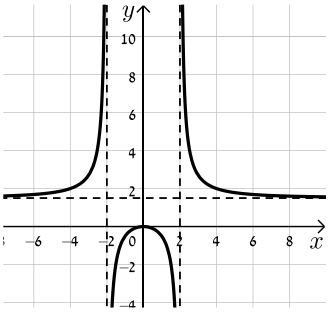

**30)** א. $a=\pm2$ ב. $(0,4)$ , $(1,0)$

ג. המשיק: $y=-4x+4$ אשר עובר בנקודה $(1,0)$. נקודת החיתוך: $(1,0)$.

**31)** א. $x\neq-5$ ב. $\max(-9,-24.5)$ , $\min(-1,-0.5)$

ג. עולה: $x>-1$ , $x<-9$ , יורדת: $-9<x<-1$ , $x\neq-5$

ד. $(0,-0.2),\left(\frac{1}{3},0\right),(-2,0)$ ה. $x=-5$. ו. להלן סקיצה:

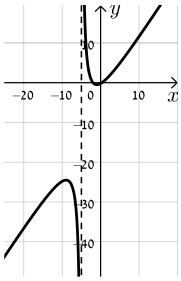

**32)** א. $x\neq1$ ב. $x=1$ , $y=1$ ג. $(a,0),(0,a)$ ד. i. $a>1$ ii. $a=2$.

**33)** א. $a=-3$ ב. i. $x\neq2$ ii. $(0,-3)$ iii. $\max(0,-3)$ , $\min(4,5)$

iv. $x=2$ ג. $x<2$ ד. $-3<k<5$.

**34)** א. $A=-1$ ב. $x\neq2$ ד. $(0,-2.5)$

ה. להלן סקיצה:

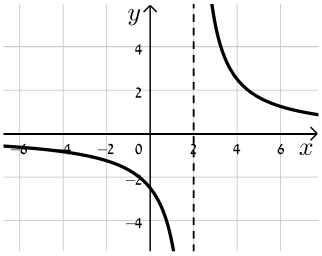

ו. לא

**35)** א. $a=3$ , $f(x)=\frac{3x^2-20x+28}{x^2+6}$ , כל $x$.

ב. $\max(-2,8)$ , $\min\left(3,-\frac{1}{3}\right)$

ג. עולה: $x>3$ , $x<-2$ , יורדת: $-2<x<3$

ד. $(2,0),\left(0,4\frac{2}{3}\right),\left(4\frac{2}{3},0\right)$

ה. להלן סקיצה:

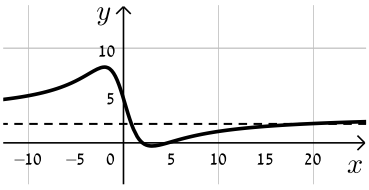


ו. $3$ , $-\frac{1}{3}$ , $k=8$.

**36)** ב. $k=-3$

ג. $(3,0),(-3,0)$

ד. $y=-1$

ה. באף נקודה.

ו. להלן סקיצה:

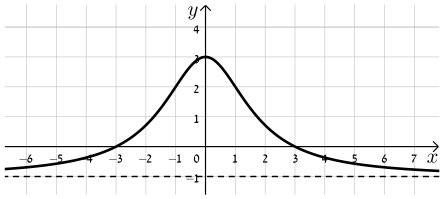

# חקירת פונקצית שורש:

## שאלות:

**37)** נתונה הפונקציה: $f(x)=\sqrt{x-3}$ . חקור את הפונקציה לפי הסעיפים הבאים:

א. מציאת תחום ההגדרה.
ב. מציאת נקודות הקיצון של הפונקציה.
ג. כתיבת תחומי העלייה והירידה של הפונקציה.
ד. מציאת נקודות החיתוך של גרף הפונקציה עם הצירים.
ה. מציאת אסימפטוטות המקבילות לצירים.
ו. שרטוט סקיצה של גרף הפונקציה.

**38)** נתונה הפונקציה: $f(x)=(x-4)\sqrt{x-1}$ . חקור את הפונקציה לפי הסעיפים הבאים:

א. מציאת תחום ההגדרה.
ב. מציאת נקודות הקיצון של הפונקציה.
ג. כתיבת תחומי העלייה והירידה של הפונקציה.
ד. מציאת נקודות החיתוך של גרף הפונקציה עם הצירים.
ה. מציאת אסימפטוטות המקבילות לצירים.
ו. שרטוט סקיצה של גרף הפונקציה.

**39)** נתונה הפונקציה: $f(x)=x\sqrt{6-x}$ . חקור את הפונקציה לפי הסעיפים הבאים:

א. מציאת תחום ההגדרה.
ב. מציאת נקודות הקיצון של הפונקציה.
ג. כתיבת תחומי העלייה והירידה של הפונקציה.
ד. מציאת נקודות החיתוך של גרף הפונקציה עם הצירים.
ה. שרטוט סקיצה של גרף הפונקציה.

**40)** נתונה הפונקציה: $f(x)=\frac{4\sqrt{x}}{x^2+3}$. חקור את הפונקציה לפי הסעיפים הבאים:

א. מציאת תחום ההגדרה.

ב. מציאת נקודות הקיצון של הפונקציה.

ג. כתיבת תחומי העלייה והירידה של הפונקציה.

ד. מציאת נקודות החיתוך של גרף הפונקציה עם הצירים.

ה. מציאת אסימפטוטות המקבילות לצירים.

ו. שרטוט סקיצה של גרף הפונקציה.

**41)** נתונה הפונקציה: $f(x)=\frac{\sqrt{9-x^2}}{x}$. חקור את הפונקציה לפי הסעיפים הבאים:

א. מציאת תחום ההגדרה.

ב. מציאת נקודות הקיצון של הפונקציה.

ג. כתיבת תחומי העלייה והירידה של הפונקציה.

ד. מציאת נקודות החיתוך של גרף הפונקציה עם הצירים.

ה. מציאת אסימפטוטות המקבילות לצירים.

ו. שרטוט סקיצה של גרף הפונקציה.

**42)** נתונה הפונקציה הבאה: $f(x)=\frac{\sqrt{x^2-2x}}{x^2}$.

א. מה הוא תחום ההגדרה של הפונקציה?

ב. מצא את נקודות קיצון של הפונקציה וקבע את סוגן.

ג. מצא את נקודת החיתוך של גרף הפונקציה עם ציר ה-$x$.

ד. סרטט סקיצה של גרף הפונקציה.

**43)** נתונה הפונקציה הבאה: $f(x)=\frac{x^2-4}{\sqrt{x}}$.

א. מצא את נקודת החיתוך של הפונקציה עם ציר ה-$x$.

ב. האם ניתן להעביר משיק לגרף הפונקציה המקביל לציר ה-$x$? נמק והראה חישוב מתאים.

ג. כתוב את משוואת המשיק לגרף הפונקציה העובר דרך נקודת החיתוך שלה עם ציר ה-$x$.

ד. חשב את שטח המשולש הכלוא בין המשיק והצירים.

**44)** נתונה הפונקציה הבאה: $f(x)=\frac{x+3}{\sqrt{x}-1}$.

א. מהו תחום הגדרה של הפונקציה?

ב. כמה נקודות יש לגרף הפונקציה שהמשיק העובר דרכן מקביל לציר ה-$x$? מצא אותן.

ג. כתוב את משוואות המשיקים בנקודות שמצאת בסעיף הקודם.

**45)** נתונה הפונקציה: $f(x)=\frac{\sqrt{9-x^2}}{x}$. חקור לפי הסעיפים הבאים:

א. מציאת תחום הגדרה.

ב. מציאת נקודות קיצון של הפונקציה.

ג. כתיבת תחומי העלייה והירידה של הפונקציה.

ד. מציאת נקודות החיתוך של גרף הפונקציה עם הצירים.

ה. מציאת אסימפטוטות המקבילות לצירים.

ו. סרטוט סקיצה של גרף הפונקציה.

**46)** נתונה הפונקציה הבאה: $f(x)=\frac{ax+6}{\sqrt{9-x^2}}$, $a$ פרמטר.

מעבירים משיק לגרף הפונקציה בנקודת החיתוך שלה עם ציר ה-$y$.

ידוע כי הוא מקביל לישר: $3y-x=0$.

א. מצא את ערך הפרמטר $a$.

ב. כתוב את תחום ההגדרה של הפונקציה.

ג. מצא את נקודת הקיצון של הפונקציה.

ד. כתוב את התחומי העלייה והירידה של הפונקציה.

**47)** נתונות שתי הפונקציות הבאות: $g(x)=\frac{\sqrt{x-k}}{x}$, $f(x)=\frac{x}{\sqrt{x+k}}$, ($k$ פרמטר חיובי).

ידוע כי הפונקציות חותכות זו את זו בנקודה שבה: $x=0.8$.

א. מצא את $k$.

ב. האם הפונקציות נחתכות בנקודה נוספת מלבד לנקודה הנתונה? אם כן מצא אותה.

ג. מצא את משוואת המשיק לגרף הפונקציה $f(x)$ בנקודה שבה: $x=0.52$.

**48)** נתונה הפונקציה הבאה: $f(x)=\frac{kx}{\sqrt{k-x^2}}$ , $k$ פרמטר חיובי.

א. ענה על הסעיפים הבאים:

i. מהו תחום ההגדרה של הפונקציה? (בטא באמצעות $k$).

ii. מהן האסימפטוטות האנכיות של הפונקציה?

ב. הראה כי הפונקציה עולה עבור כל ערך של $k$ בתחום הגדרתה.

ג. כתוב את משוואת המשיק לגרף הפונקציה בנקודת החיתוך שלה עם ציר ה-$x$. (בטא באמצעות $k$).

ד. המשיק אשר מצאת בסעיף הקודם חותך את אחת האסימפטוטות של הפונקציה בנקודה A. ידוע כי שטח המשולש הכלוא בין המשיק, ציר ה-$x$ והאסימפטוטה הנ"ל הוא: 4 יח"ש $S=$. מצא את ערך הפרמטר $k$.

**49)** נתונה הפונקציה: $f(x)=\frac{x+2}{x+4}$. מגדירים פונקציה נוספת: $g(x)=\sqrt{f(x)}$.

א. כתוב בצורה מפורשת את הפונקציה $g(x)$.

ב. לפניך מספר טענות המתייחסות לפונקציות $f(x)$ ו-$g(x)$.
קבע אילו מהטענות הבאות נכונות ואלו אינן נכונות.
הצדק את קביעותיך באמצעות חישוב מתאים:

i. לפונקציות תחום הגדרה זהה.

ii. שתי הפונקציות עולות בכל תחום הגדרתן.

iii. שתי הפונקציות חותכות את ציר ה-$x$ באותה נקודה.

iv. לשתי הפונקציות יש אסימפטוטה משותפת.

ג. מצא את נקודות החיתוך של כל פונקציה עם ציר ה-$y$.

אסף פתר את סעיפים א' ו-ב' והחליט לטעון את הטענה הבאה:

היות והפונקציה $g(x)$ מוגדרת להיות: $g(x)=\sqrt{f(x)}$ אזי ניתן למצוא את שיעור ה-$y$ של כל נקודה שעל גרף הפונקציה $f(x)$ ע"י כך שנמצא תחילה את שיעור ה-$y$ של הנקודה בעלת אותו שיעור $x$ על הגרף של $g(x)$ ונעלה אותה בריבוע.

ד. האם אסף צודק? נמק בצורה איכותית (חישובים אינם נדרשים) את שיקולך.

**50)** לפניך הפונקציות הבאות: $g(x)=\frac{x}{\sqrt{x-1}}$ , $f(x)=\frac{x}{\sqrt{x}-1}$ .

א. קבע אילו מהטענות הבאות נכונות ואלו אינן נכונות.
הצדק את קביעותיך באמצעות חישוב מתאים:

i. לשתי הפונקציות יש את אותו תחום ההגדרה.

ii. לשתי הפונקציות יש נקודות קיצון הנמצאות על הישר: $y=x$ .

iii. הפונקציות לא חותכות זו את זו.

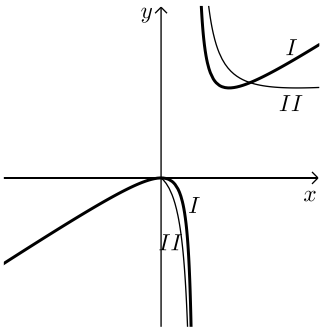


מגדירים פונקציה נוספת והיא: $h(x)=(g(x))^2$ .

ב. כתוב באופן מפורש את הפונקציה החדשה: $h(x)$ .

ג. האם תחום ההגדרה של הפונקציה $h(x)$ זהה לשל $g(x)$ ?

ד. באיור הסמוך ישנם שני גרפים.
קבע על סמך הסעיפים הקודמים איזו פונקציה כל גרף
מתאר מבין הפונקציות: $h(x)$ , $g(x)$ , $f(x)$ . נמק את בחירותיך.

**51)** לפניך שלוש פונקציות: $h(x)=\frac{\sqrt{k-x^2}}{x^2}$ , $g(x)=\frac{x^2}{\sqrt{k-x^2}}$ , $f(x)=x^2\sqrt{k-x^2}$ , $(k>0)$ .

א. קבע אילו מהטענות הבאות נכונות ואלו אינן נכונות. הצדק את קביעותיך
באמצעות חישוב מתאים:

i. לפונקציות $f(x)$ ו-$g(x)$ תחום הגדרה זהה, השונה מתחום ההגדרה של $h(x)$ .

ii. קיימת פונקציה אשר אינה חותכת את ציר ה-$x$ כלל.

iii. הפונקציות: $h(x)$ ו-$g(x)$ הפוכות זו מזו בתחומי העלייה והירידה שלהן
(כאשר אחת עולה השנייה יורדת).

iv. לפונקציה: $f(x)$ יש נקודת קיצון אחת בלבד.

מסמנים נקודה $A(0,\sqrt{12})$ על ציר ה-$y$ . ידוע כי מרחקה מאחת מנקודות החיתוך
של גרף הפונקציה $f(x)$ עם ציר ה-$x$ שאינה בראשית הוא: $d=6$ .

ב. מצא את $k$ .

ג. מצא את נקודות הקיצון של גרף
הפונקציה $f(x)$ וקבע את סוגן.

ד. לפניך איור ובו מסורטטות הסקיצות של
שלושת הפונקציות.
קבע עפ"י הסעיפים הקודמים איזה גרף
שייך לכל פונקציה.

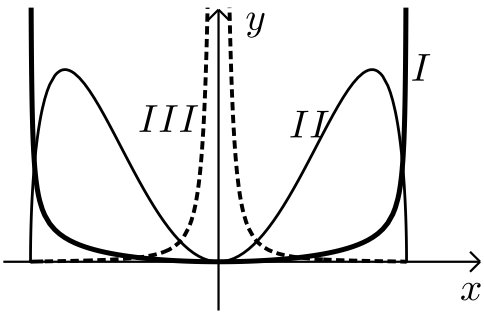

## תשובות סופיות:

**37)** א. $x \geq 3$ ב. $\min(3,0)$ קצה ג. הפונקציה עולה בכל ת.ה.

ד. $(3,0)$ ה. אין. ו. להלן סקיצה:

**38)** א. $x \geq 1$ ב. $\min(2,-2)$ , $\max(1,0)$ קצה

ג. עולה: $x > 2$ , יורדת: $1 < x < 2$. ד. $(1,0),(4,0)$ ה. אין.

ו. להלן סקיצה:

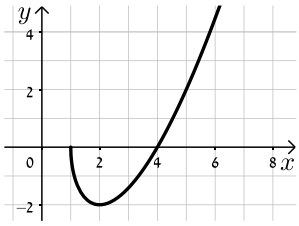

**39)** א. $x \leq 6$ ב. $\max(4,4\sqrt{2})$ , $\min(6,0)$ קצה

ג. עלייה: $x < 4$ , ירידה: $4 < x < 6$ ד. $(6,0),(0,0)$.

ה. להלן סקיצה:

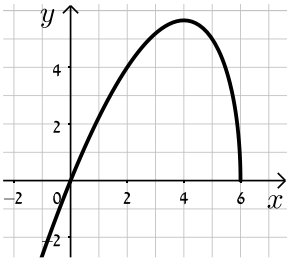

**40)** א. $x \geq 0$ ב. $\max(1,1)$ , $\min(0,0)$ קצה

ג. עולה: $0 < x < 1$ , יורדת: $x > 1$ ד. $(0,0)$ ה. $y = 0$.

ו. להלן סקיצה:

**41)** א. $-3\le x\le 3$ וגם $x\ne 0$ ב. $\max(-3,0)$ קצה, $\min(3,0)$ קצה

ג. עולה: אף $x$, יורדת: $-3\le x\le 3$ , $x\ne 0$ ד. $(-3,0),(3,0)$

ה. $x=0$. ו. להלן סקיצה:

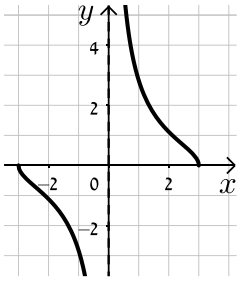


**42)** א. $x<0$ , $x\ge 2$ ב. $\max\left(3,\frac{1}{\sqrt{27}}\right)$ , $\min(2,0)$ ג. $(2,0)$.

ד. להלן סקיצה:

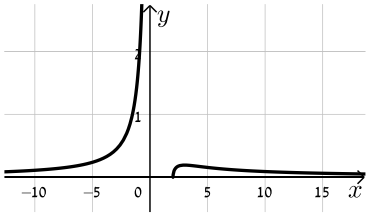


**43)** א. $(2,0)$ ב. לא ג. $y=2\sqrt{2}x-4\sqrt{2}$ ד. $S=4\sqrt{2}$.

**44)** א. $x\ne 1$ , $x\ge 0$ ב. $(9,6)$ ג. $y=6$.

**45)** א. $-3\le x\le 3$ וגם $x\ne 0$ ב. $\max(-3,0)$ קצה, $\min(3,0)$ קצה

ג. עולה: אף $x$, יורדת: $-3\le x\le 3$ וגם $x\ne 0$ ד. $(-3,0),(3,0)$

ה. $x=0$ ו. להלן סקיצה:

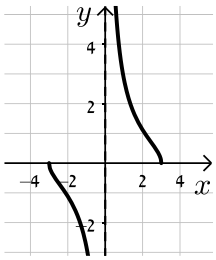


**46)** א. $a=1$ ב. $-3<x<3$ ג. $\left(-1.5,\sqrt{3}\right)$

ד. יורדת: $-3<x<-1.5$ , עולה: $-1.5<x<3$.

**47)** א. $k=0.48$ ב. כן, $(0.6,0.57)$ ג. $y=0.74x+0.1352$.

**48)** א. i. $-\sqrt{k}<x<\sqrt{k}$ ii. $x=\pm\sqrt{k}$ ב. $f'(x)=\frac{k^2}{\left(k-x^2\right)^{1.5}}>0$

ג. $y=\sqrt{k}x$ ד. $k=4$.

**49)** א. $g(x)=\sqrt{\frac{x+2}{x+4}}$ ב. i. לא נכון ii. נכון

iii. נכון iv. נכון ג. $f(x):\left(0,\frac{1}{2}\right)$ , $g(x):\left(0,\frac{1}{\sqrt{2}}\right)$

ד. אסף צודק.

**50)** א. i. לא נכון ii. נכון iii. נכון ב. $h(x)=\frac{x^2}{x-1}$

ג. לא, $h(x):x\neq 1$ ד. $\mathrm{I}=h(x)$ , $\mathrm{II}=f(x)$.

**51)** א. i. לא נכון ii. לא נכון iii. נכון iv. נכון

ב. $k=24$ ג. $\min(0,0)$ , $\max\left(\pm 4,32\sqrt{2}\right)$

ד. $\mathrm{I}=g(x)$ , $\mathrm{II}=f(x)$ , $\mathrm{III}=h(x)$.

# תחומי קעירות ונקודות פיתול:

## סיכום כללי:

**תחומי קעירות – הגדרה:**

- פונקציה $f(x)$ קעורה כלפי מטה (קמורה) בתחום $[x_0, x_1]$ אם לכל $x$ בתחום הנ"ל המשיק לפונקציה נמצא מעל לגרף הפונקציה.
  כדי למצוא תחומי קעירות כלפי מטה יש למצוא תחום שבו: $f''(x) < 0$.
- פונקציה $f(x)$ קעורה כלפי מעלה (קעורה) בתחום $[x_0, x_1]$ אם לכל $x$ בתחום הנ"ל המשיק לפונקציה נמצא מתחת לגרף הפונקציה.
  כדי למצוא תחומי קעירות כלפי מעלה יש למצוא תחום שבו: $f''(x) > 0$.

**נקודת פיתול – הגדרות:**

- נקודת פיתול היא נקודה שבה הפונקציה עוברת מתחום קעירות כלפי מטה לקעירות כלפי מעלה ולהיפך.
- נקודת פיתול מקיימת: $f''(x) = 0$ כאשר ערך הנגזרת השנייה משנה את סימנו בתחום שלפני ואחרי הנקודה המאפסת אותו.
- בנקודת פיתול המשיק לגרף הפונקציה חותך אותה ולא רק משיק לה מכיוון אחד.

## שאלות:

**52)** מצא את נקודות הפיתול ואת תחומי הקעירות של הפונקציה: $f(x) = x^4 - 6x^3 + 12x^2$.

**53)** מצא את נקודות הפיתול ואת תחומי הקעירות של הפונקציה: $f(x) = \frac{3x-2}{x^2}$.

**54)** מצא את נקודות הקיצון והפיתול של הפונקציה: $f(x) = \frac{2x}{\sqrt{x-1}}$.

**55)** מצא את נקודות הקיצון והפיתול של הפונקציה: $f(x) = x(x-2)^3$.

**56)** נתונה הפונקציה: $f(x)=\frac{a}{x^2+b}$ , $a,b$ פרמטרים.

הנקודה $(-1\,,\,1)$ היא נקודת פיתול של הפונקציה.

מצא את ערכי הפרמטרים $a,b$.

**57)** נתונה הפונקציה: $f(x)=\frac{1}{x}-\frac{1}{x^2}+2$ . חקור את הפונקציה לפי הסעיפים הבאים:

א. מציאת תחום הגדרה.
ב. מציאת נקודות קיצון של הפונקציה.
ג. כתיבת תחומי העלייה והירידה של הפונקציה.
ד. מציאת נקודות החיתוך של גרף הפונקציה עם הצירים.
ה. מציאת אסימפטוטות המקבילות לצירים.
ו. מציאת נקודות פיתול.
ז. מציאת תחומי הקעירות כלפי מעלה ומטה.
ח. סרטוט סקיצה של גרף הפונקציה.

**58)** נתונה הפונקציה: $f(x)=\frac{2x}{x-\sqrt{x}}$ . חקור את הפונקציה לפי הסעיפים הבאים:

א. מציאת תחום הגדרה.
ב. מציאת נקודות קיצון של הפונקציה.
ג. כתיבת תחומי העלייה והירידה של הפונקציה.
ד. מציאת נקודות החיתוך של גרף הפונקציה עם הצירים.
ה. מציאת אסימפטוטות המקבילות לצירים.
ו. מציאת נקודות פיתול.
ז. מציאת תחומי הקעירות כלפי מעלה ומטה.
ח. סרטוט סקיצה של גרף הפונקציה.

**59)** חקור את הפונקציות הבאות לפי הסעיפים הבאים:

i. מציאת תחום הגדרה.
ii. מציאת נקודות חיתוך עם הצירים.
iii. מציאת נקודות קיצון וקביעת סוגן.
iv. מציאת תחומי העלייה והירידה של הפונקציה.
v. מציאת אסימפטוטות המקבילות לצירים.
vi. מציאת נקודות הפיתול של הפונקציה.
vii. מציאת תחומי הקעירות של הפונקציה.
viii. סרטוט סקיצה של גרף הפונקציה.

א. $f(x)=\frac{x-1}{x^2}$

ב. $f(x)=\frac{2x^2}{(x+1)^2}$

ג. $f(x)=\frac{x^3}{x^2-4}$

ד. $f(x)=\frac{x^3}{(x+1)^2}$

ה. $f(x)=\left(\frac{x+1}{x-1}\right)^3$

ו. $f(x)=\frac{x^2-1}{(x-2)(x-5)}$

ז. $f(x)=\frac{x^2-4x+3}{x^2-4}$

ח. $f(x)=\frac{x^3-x^2}{x^2-1}$

**הערה: בסעיפים ו ו-ז יש לבצע חקירה ללא סעיפים vi ו-vii.**

## תשובות סופיות:

**52)** $(2,16),(1,7)$ , קעירות כלפי מעלה: $x>2$ או $x<1$ , קעירות כלפי מטה: $1<x<2$.

**53)** $(2,1)$ , קעירות כלפי מעלה: $x>2$ , קעירות כלפי מטה: $0\neq x<2$.

**54)** קיצון: $\min(2,4)$ , פיתול: $\left(4,\frac{8}{\sqrt{3}}\right)$.

**55)** קיצון: $\min\left(\frac{1}{2},-\frac{27}{16}\right)$ , פיתול: $(1,-1),(2,0)$.

**56)** $a=4$ , $b=3$.

**57)** א. $x\neq 0$ ב. $\max\left(2,2\frac{1}{4}\right)$ ג. עולה: $0<x<2$ יורדת: $x>2$ , $x<0$

ד. $\left(\frac{1}{2},0\right),(-1,0)$ ה. $x=0$ , $y=2$ ו. $\left(3,2\frac{2}{9}\right)$.

ז. קעירות כלפי מעלה: $x>3$ , קעירות כלפי מטה: $0\neq x<3$.

ח. להלן סקיצה:

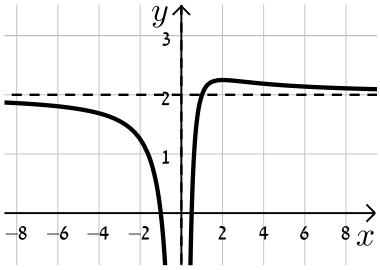


**58)** א. $1\neq x>0$ ב. אין. ג. יורדת בכל תחום הגדרתה.

ד. אין. ה. $x=1$ , $y=2$ נקודת אי הגדרה: $(0,0)$. ו. $\left(\frac{1}{9},-1\right)$

ז. קעירות כלפי מעלה: $x>1$ או $0<x<\frac{1}{9}$ , קעירות כלפי מטה: $\frac{1}{9}<x<1$.

ח. להלן סקיצה:

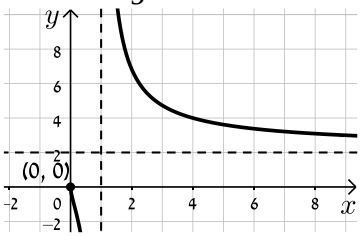


**59)** א. i. $x\neq 0$ ii. $(1,0)$ iii. $x=0$ , $y=0$ iv. $\max(2,0.25)$

v. עולה: $0<x<2$ , יורדת: $x<0$ , $x>2$ vi. $\left(3,\frac{2}{9}\right)$

vii. קעורה כלפי מעלה: $x>3$ , קעורה כלפי מטה: $0<x<3$ , $x<0$.

ב. i. $x\neq -1$ ii. $(0,0)$ iii. $x=-1$ , $y=2$ iv. $\min(0,0)$

v. עולה: $x<-1$ , $x>0$ , יורדת: $-1<x<0$ vi. $\left(\frac{1}{2},\frac{2}{9}\right)$

vii. קעורה כלפי מעלה: $-1<x<\frac{1}{2}$ , $x<-1$ , קעורה כלפי מטה: $x<\frac{1}{2}$ .

ג. i. $x\neq\pm2$ ii. $(0,0)$ iii. $x=\pm2$

iv. $\max\left(-\sqrt{12},-5.2\right)$ , $\min\left(\sqrt{12},5.2\right)$ .

v. עולה: $x>\sqrt{12}$ , $x<-\sqrt{12}$ , יורדת: $2<x<\sqrt{12}$ , $-2<x<2$ , $-\sqrt{12}<x<-2$

vi. $(0,0)$ .

vii. קעורה כלפי מעלה: $x>2$ , $-2<x<0$ , קעורה כלפי מטה: $0<x<2$ , $x<-2$ .

ד. i. $x\neq-1$ ii. $(0,0)$ iii. $x=-1$ iv. $\max(-3,-6.75)$

v. עולה: $x>-1$ , $x<-3$ , יורדת: $-3<x<-1$ vi. $(0,0)$

vii. קעורה כלפי מעלה: $x>0$ , קעורה כלפי מטה: $-1<x<0$ , $x<-1$ .

ה. i. $x\neq1$ ii. $(-1,0),(0,-1)$ iii. $x=1$ , $y=1$ iv. אין.

v. יורדת בכל ת.ה. vi. $\left(-3,\frac{1}{8}\right),(-1,0)$

vii. קעורה כלפי מעלה: $-3<x<-1$ , $x>1$ , קעורה כלפי מטה: $-1<x<1$ , $x<-3$ .

ו. i. $x\neq2,5$ ii. $(0,-0.1),(-1,0),(1,0)$ iii. $x=2$ , $x=5$ , $y=1$

iv. $\max(2.78,-3.89)$ , $\min(0.359,-0.11)$

v. עולה: $2<x<2.78$ , $0.359<x<2$ , יורדת: $x>5$ , $2.78<x<5$ , $x<0.359$ .

ז. i. $x\neq\pm2$ ii. $(3,0),(1,0),(0,-0.75)$ iii. $x=\pm2$ , $y=1$

iv. אין. v. יורדת בכל ת.ה.

ח. i. $x\neq\pm1$ ii. $(0,0)$ iii. $x=-1$ iv. $\max(-2,-4)$ , $\min(0,0)$ .

v. עולה: $x>0$ , $x<-2$ , $x\neq1$ , יורדת: $-1<x<0$ , $-2<x<-1$

vi. אין. vii. קעורה כלפי מעלה: $x>-1$ , $x\neq1$ , קעורה כלפי מטה: $x<-1$ .

**סקיצות:**

א.

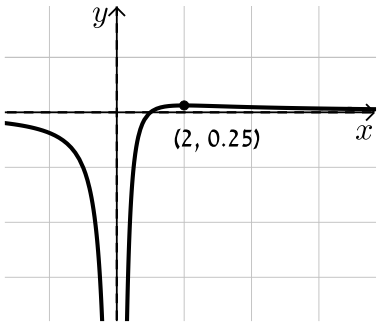


ב.

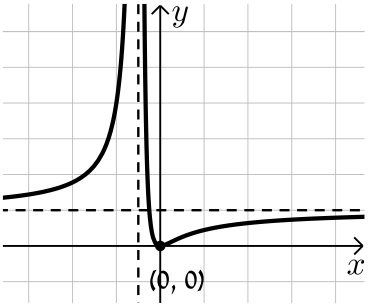


ג.

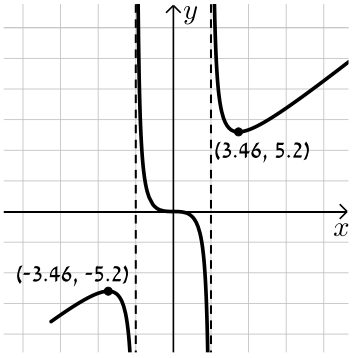


ד.

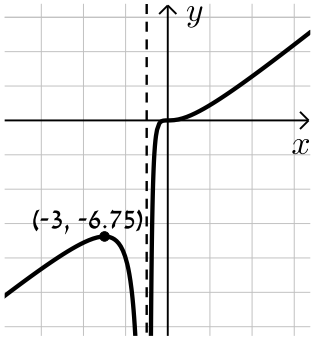


ה.

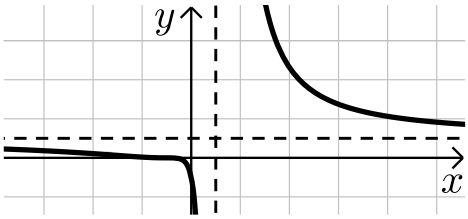


ו.

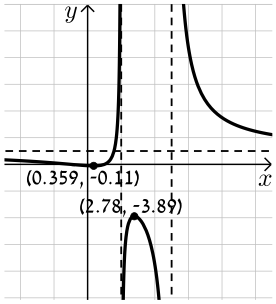


ז.

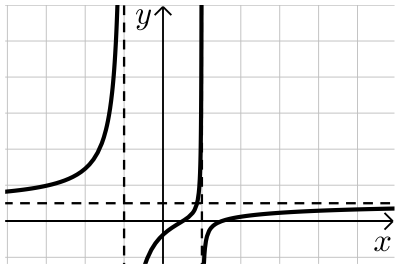


ח.

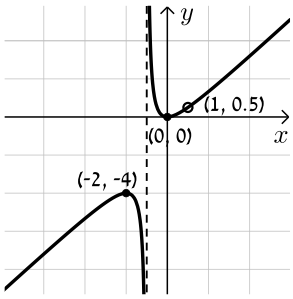

# חקירת פונקציה עם פרמטר:

## סיכום כללי:

סיווג נקודות קיצון באמצעות "$y$ :

אם הנקודה $A(x_1, y_1)$ היא נקודת קיצון אז:

- אם $f''(x_1) > 0$ הנקודה $A(x_1, y_1)$ היא נקודת מינימום.
- אם $f''(x_1) < 0$ הנקודה $A(x_1, y_1)$ היא נקודת מקסימום.

## שאלות:

**1)** מצא וסווג את נקודות הקיצון של הפונקציה: $f(x) = x^3 - 12x$ .

**2)** מצא וסווג את נקודות הקיצון של הפונקציה: $f(x) = x^2 - 6x - 16$ .

**3)** מצא וסווג את נקודות הקיצון של הפונקציה: $f(x) = x^3 - 3b^2x$ , $b > 0$ פרמטר.
שרטט סקיצה של גרף הפונקציה.

**4)** נתונה הפונקציה: $f(x) = \frac{2x}{a^2 + x^2}$ $(a > 0)$. חקור לפי הסעיפים הבאים:

א. מציאת תחום ההגדרה.
ב. מציאת נקודות קיצון של הפונקציה.
ג. כתיבת תחומי העלייה והירידה של הפונקציה.
ד. מציאת נקודות החיתוך של גרף הפונקציה עם הצירים.
ה. מציאת אסימפטוטות המקבילות לצירים.
ו. שרטוט סקיצה של גרף הפונקציה.

**5)** נתונה הפונקציה: $f(x)=\frac{1-x^2}{(x-b)^2}$ , $(b>1)$. חקור לפי הסעיפים הבאים:

א. מציאת תחום ההגדרה.

ב. מציאת נקודות קיצון של הפונקציה.

ג. כתיבת תחומי העלייה והירידה של הפונקציה.

ד. מציאת נקודות החיתוך של גרף הפונקציה עם הצירים.

ה. מציאת אסימפטוטות המקבילות לצירים.

ו. שרטוט סקיצה של גרף הפונקציה.

**6)** נתונה הפונקציה: $f(x)=4x\sqrt{b^2-x^2}$ , $(b>0)$.

חקור לפי הסעיפים הבאים:

א. מציאת תחום ההגדרה.

ב. מציאת נקודות קיצון של הפונקציה.

ג. כתיבת תחומי העלייה והירידה של הפונקציה.

ד. מציאת נקודות החיתוך של גרף הפונקציה עם הצירים.

ה. שרטוט סקיצה של גרף הפונקציה.

**7)** נתונה הפונקציה: $f(x)=\frac{x^2-m}{ax-4}$ , $a,m$ פרמטרים קבועים כאשר: $a>0$.

ידוע כי אחת מנקודות הקיצון של הפונקציה נמצאת על ציר ה- $y$.

א. מצא את הערך של הפרמטר $m$.

ב. הצב את הערך של $m$ שמצאת בסעיף א' והבא באמצעות $a$ את:

i. תחום ההגדרה של הפונקציה.

ii. נקודות הקיצון של הפונקציה וקבע את סוגן.

iii. האסימפטוטות לגרף הפונקציה המקבילות לצירים.

ג. סרטט סקיצה וסמן בה את נקודות הקיצון ואת משוואות האסימפטוטות שהבעת באמצעות $a$ בסעיף הקודם.

ד. ידוע כי נקודת הקיצון שאינה על ציר ה- $y$ נמצאת במרחקים שווים מהצירים. מצא את הערך של הפרמטר $a$.

ה. נתון הישר: $y=k$. מצא עבור אילו ערכים של $k$ אין לישר ולגרף הפונקציה נקודות משותפות כלל.

## תשובות סופיות:

1) $\max(-2,16)$ , $\min(2,-16)$

2) $\min(3,-25)$

3) $\max(-b,2b^3)$ , $\min(b,-2b^3)$

4) א. כל $x$ ב. $\min\left(-a,-\frac{1}{a}\right)$ , $\max\left(a,\frac{1}{a}\right)$.

ג. עולה: $-a<x<a$ יורדת: $x>a$ , $x<-a$.

ד. $(0,0)$ ה. אסימפטוטה אופקית: $y=0$

5) א. $x\neq b$ ב. $\max\left(\frac{1}{b},\frac{1}{b^2-1}\right)$ ג. עולה: $x>b$ , $x<\frac{1}{b}$ יורדת: $\frac{1}{b}<x<b$.

ד. $\left(0,\frac{1}{b^2}\right)$ , $(-1,0)$ , $(1,0)$ ה. $x=b$ , $y=-1$.

6) א. $-b\le x\le b$ ב. $\min\left(-\frac{b}{\sqrt{2}},-2b^2\right)$ , $\max\left(\frac{b}{\sqrt{2}},2b^2\right)$ , $\min(-b,0)$ קצה,

$\min(b,0)$ קצה. ג. עולה: $-\frac{b}{\sqrt{2}}<x<\frac{b}{\sqrt{2}}$ , יורדת: $\frac{b}{\sqrt{2}}<x<b$ , $-b<x<-\frac{b}{\sqrt{2}}$.

ד. $(0,0)$ , $(-b,0)$ , $(b,0)$.

7) א. $m=0$ ב. i. $x\neq\frac{4}{a}$ ב. ii. $\min\left(\frac{8}{a},\frac{16}{a^2}\right)$ , $\max(0,0)$

ב. iii. $x=\frac{4}{a}$ ד. $a=2$ ה. $0<k<4$.

## סקיצות לשאלות:

3)
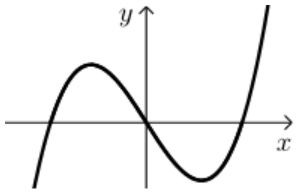


4)
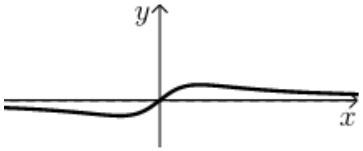


5)
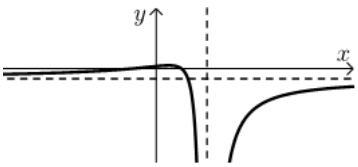


6)
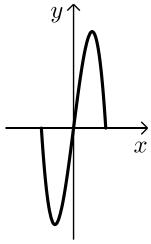


7)
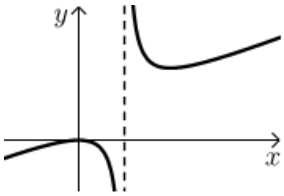

# פונקציות ללא תבנית מפורשת:

## סיכום כללי:

**הגדרת פונקציה:**

פונקציה $f$ היא התאמה בין ערך $x$ לערך $y$ ומסומנת באופן הבא: $f: x \to y$.
כך שלכל $x$ מתאים ערך אחד בלבד של $y$. סימון אחר: $y = f(x)$.
הנגזרת של פונקציה $f(x)$ מסומנת $f'(x)$.

**כללי הגזירה לפי כלל השרשרת:**

- סימון הנגזרת: $(f(x))' = f'(x)$.
- גזירה של פונקציה בחזקה: $(f^2(x))' = 2f(x)f'(x)$.
- גזירה של הרכבת פונקציות: $(f(g(x)))' = f'(g(x)) \cdot g'(x)$.

## שאלות:

**1)** הפונקציה $f(x)$ מקיימת: $f(1) = 3$ ו- $f'(1) = -2$.
חשב את ערכי הביטויים הבאים:

א. $f(1) + 4$.

ב. $f'(1) + 4$.

ג. $\dfrac{f(1)+1}{f'(1)-1}$.

ד. $\sqrt{f(1) + f'(1)}$.

**2)** נתונה פונקציה $f$ המקיימת: $f(4) = 0$ ו- $f'(4) = 1$.
מגדירים: $g(x) = 2x + f(2x)$.
חשב את $g(2)$ ואת $g'(2)$.

3) נתונה פונקציה המקיימת: $f(8)=-1$ ו- $f'(8)=1$.

א. נתון: $g(x)=x^2\sqrt{f(4x)+f'(x+6)}$. חשב את $g(2)$.

ב. נתון: $h(x)=\dfrac{f(x+2)+x+2}{f'(14-x)-14+x}$. חשב את $h(6)$.

4) נתונה פונקציה המקיימת: $f(9)=-4$, $f'(9)=3$.

מגדירים: $g(x)=f^2(3x)+f'(x^2)$. חשב את $g(3)$.

5) פונקציה $f$ מקיימת: $f(4)=2$, $f'(4)=1$.

מגדירים: $g(x)=f^2(x)+f(x)+x$.

חשב את $g(4)$ ואת $g'(4)$.

6) פונקציה $f$ מקיימת: $f(1)=-3$, $f'(1)=3$. מגדירים: $g(x)=\dfrac{x\cdot f(x)}{x+f(x)}$.

חשב את $g(1)$ ואת $g'(1)$.

7) פונקציה $f$ מקיימת: $f(-2)=6$, $f'(-2)=2$. מגדירים: $g(x)=\sqrt{f^2(x)+1}$.

חשב את $g(-2)$ ואת $g'(-2)$.

8) פונקציה $f$ מקיימת: $f\left(\frac{1}{2}\right)=3$, $f'\left(\frac{1}{2}\right)=\frac{4}{3}$. מגדירים: $g(x)=3x\cdot f(2x)$.

חשב את $g\left(\frac{1}{4}\right)$ ואת $g'\left(\frac{1}{4}\right)$.

9) פונקציה $f$ מקיימת: $f(6)=\frac{2}{3}$, $f'(6)=-\frac{3}{2}$. מגדירים: $g(x)=\dfrac{x+3+f(x+3)}{f(2x)+3}$.

חשב את $g(3)$ ואת $g'(3)$.

**10)** נתונה פונקציה המקיימת: $f(8)=-3$. מגדירים: $g(x)=\frac{f(4x)+1}{f(x+6)+2}$.

א. חשב את $g(2)$.

ב. חשב את $f'(8)$ אם ידוע כי: $g'(2)=1$.

ג. חשב את $f'(8)$ אם ידוע כי: $g'(2)=\left(f'(8)\right)^2$ וכי $f'(8)<0$.

**11)** נתונה פונקציה המקיימת: $f(3)=-2$.

מגדירים: $g(x)=\frac{x^2\cdot f(x-2)}{f(2x-7)}$ וידוע כי $g'(5)=-15$.

חשב את $g(5)$ ואת $f'(3)$.

**12)** נתונה פונקציה שמקיימת: $f(4)=\frac{1}{2}$.

מגדירים: $g(x)=x^2\cdot f(x^2)+f'^2(x^2)$.

א. הבע את $g'(x)$ באמצעות $f$.

ב. חשב את $g(-2)$ ואת $g(2)$ אם ידוע כי $f'(4)=1$.

ג. חשב את $f'(4)$ אם ידוע כי $g'(2)=11$ ו- $f''(4)=\frac{1}{4}$.

## תשובות סופיות:

1) א. 7 ב. 2 ג. $-\frac{4}{3}$ ד. 1.

2) $g(2)=4\,,\,g'(2)=4$.

3) א. $g(2)=0$ ב. $h(6)=-1$.

4) $g(3)=19$.

5) $g(4)=10\,,\,g'(4)=6$.

6) $g(1)=1.5\,,\,g'(1)=3$.

7) $g(-2)=\sqrt{37}\,,\,g'(2)=\frac{12}{\sqrt{37}}$.

8) $g\left(\frac{1}{4}\right)=\frac{9}{4}\,,\,g'\left(\frac{1}{4}\right)=11$.

9) $g(3)=1\frac{9}{11}\,,\,g'(3)=\frac{327}{242}=1.351$.

10) א. $g(2)=2$ ב. $f'(8)=-\frac{1}{2}$ ג. $f'(8)=-2$.

11) $g(5)=25\,,\,f'(3)=-2$.

12) א. $g'(x)=2x\,f\left(x^2\right)+2x^3 f'\left(x^2\right)+4x\,f'\left(x^2\right)f''\left(x^2\right)$

ב. $g(2)=3\,,\,g'(-2)=3$ ג. $f'(4)=\frac{1}{2}$.

# קורס קדם במתמטיקה למהנדסים

## פרק 25 - חשבון דיפרנציאלי - חקירת פונקציות טריגונומטריות

תוכן העניינים


1. הגדרות כלליות ..... 380
2. גזירה של פונקציות טריגונומטריות ..... 382
3. שאלות עם משיקים ..... 384
4. מציאת תחום ההגדרה של פונקציות טריגונומטריות ..... 386
5. מציאת נקודות קיצון ..... 387
6. מציאת אסימפטוטות המקבילות לצירים ..... 388
7. מציאת נקודות פיתול ותחומי קעירות ..... 389
8. חקירת פונקציה טריגונומטרית ..... 390

# הגדרות כלליות:

## סיכום כללי:

| |
|---|
| תיאור גרפי של פונקציית הסינוס $y=\sin x$ : |
| 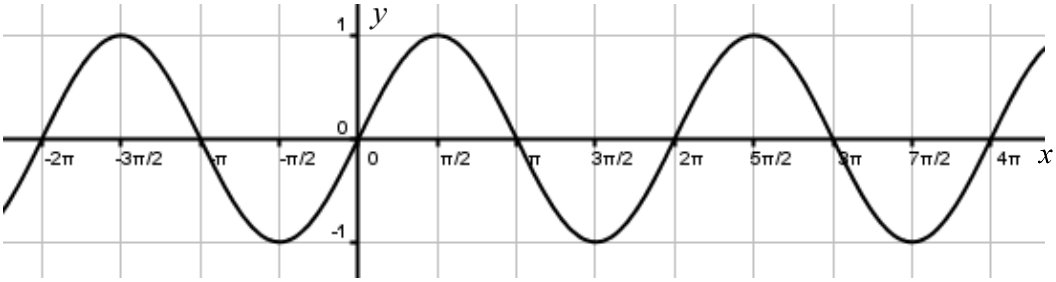  |
| תיאור גרפי של פונקציית הקוסינוס $y=\cos x$ : |
| 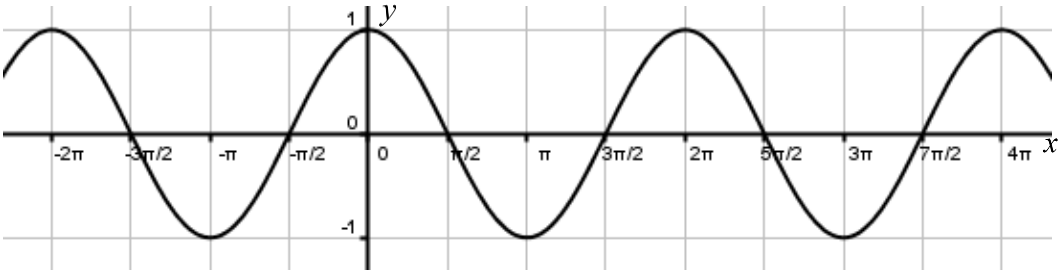  |
| תיאור גרפי של פונקציית הטנגנס $y=\tan x$ : |
| 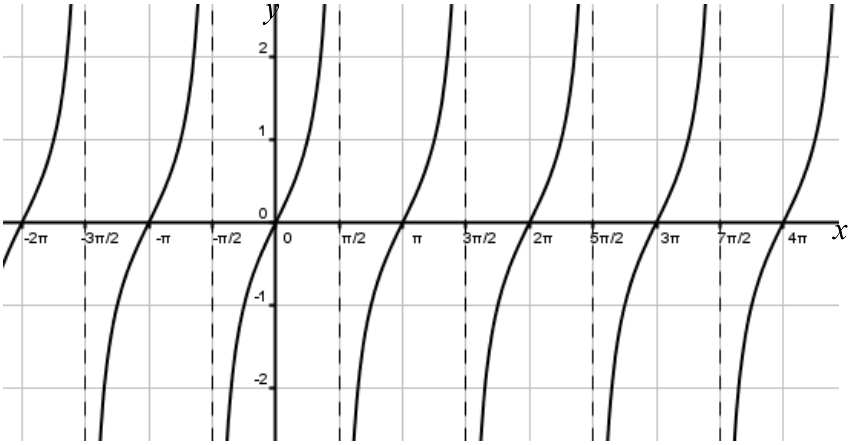  |

**הנגזרות הטריגונומטריות היסודיות:**

| הפונקציה | הנגזרת |
|---|---|
| $y=\sin x$ | $y'=\cos x$ |
| $y=\cos x$ | $y'=-\sin x$ |
| $y=\tan x$ | $y'=\frac{1}{\cos^2 x}$ |
| $y=\cot x$ | $y'=-\frac{1}{\sin^2 x}$ |

**זוגיות של פונקציות:**

- פונקציה $f(x)$ תקרא זוגית אם היא מקיימת את התכונה הבאה: $f(x)=f(-x)$.
- פונקציה $f(x)$ תקרא אי-זוגית אם היא מקיימת את התכונה הבאה: $f(x)=-f(-x)$.
- פונקציה אשר אינה מקיימת אף אחת מהתכונות הנ"ל אינה זוגית ואינה אי-זוגית.

**מחזוריות של פונקציות:**

**1)** פונקציה $f(x)$ תיקרא מחזורית במחזור $T$ אם היא מקיימת: $f(x+T)=f(x)$ לכל $x$ בתחום הגדרתה.

**2)** מחזור של פונקציות טריגונומטריות:

- הפונקציה $f(x)=\sin x$ מחזורית במחזור $T=2\pi$ שכן: $\sin(x+2\pi)=\sin x$.
- הפונקציה $f(x)=\cos x$ מחזורית במחזור $T=2\pi$ שכן: $\cos(x+2\pi)=\cos x$.
- הפונקציה $f(x)=\tan x$ מחזורית במחזור $T=\pi$ שכן: $\tan(x+\pi)=\tan x$.
- הפונקציה $f(x)=\cot x$ מחזורית במחזור $T=\pi$ שכן: $\cot(x+\pi)=\cot x$.

# גזירה של פונקציות טריגונומטריות:

## שאלות:

1) גזור את הפונקציות הבאות:

א. $f(x)=\sin x+3\cos x+x$

ב. $f(x)=2x\sin x+4\tan x$

ג. $f(x)=\dfrac{\sin x}{1+\sin x}$

2) גזור את הפונקציות הבאות:

א. $f(x)=\sin 3x+2\cos 5x$

ב. $f(x)=\dfrac{\cos 2x}{1+\sin 2x}$

3) גזור את הפונקציות הבאות:

א. $f(x)=\sin^3 x$

ב. $f(x)=2\cos^4 x$

ג. $f(x)=\sin^2 x$

ד. $f(x)=\sin^3 2x$

ה. $f(x)=\cos^2 2x$

ו. $f(x)=\tan^2 4x$

4) גזור את הפונקציות הבאות:

א. $f(x)=\sqrt{\sin 3x}$

ב. $f(x)=\dfrac{\sin 2x}{\sqrt{\cos 2x}}$

5) גזור את הפונקציות הבאות:

א. $f(x)=\sin^2 x-\cos^2 x$

ב. $f(x)=\sin^4 2x-\cos^4 2x$

ג. $f(x)=\sin^4 x+\cos^4 x$

## תשובות סופיות:

1) א. $\cos x-3\sin x+1$ ב. $2\sin x+2x\cos x+\frac{4}{\cos^2 x}$ ג. $\frac{\cos x}{(1+\sin x)^2}$

2) א. $3\cos 3x-10\sin 5x$ ב. $-\frac{2}{1+\sin 2x}$.

3) א. $3\sin^2 x\cdot\cos x$ ב. $-8\cos^3 x\sin x$ ג. $\sin 2x$

ד. $6\sin^2 2x\cos 2x$ ה. $-2\sin 4x$ ו. $\frac{8\tan 4x}{\cos^2 4x}$.

4) א. $\frac{3\cos 3x}{2\sqrt{\sin 3x}}$ ב. $\frac{\cos^2 2x+1}{\cos 2x\sqrt{\cos 2x}}$.

5) א. $2\sin 2x$ ב. $4\sin 4x$ ג. $-\sin 4x$.

# שאלות עם משיקים:

## שאלות:

**6)** מצא את משוואת המשיק לפונקציה: $f(x)=\cos x$ בנקודה $A\left(\frac{\pi}{6},\frac{\sqrt{3}}{2}\right)$.

**7)** מצא את משוואת המשיק לפונקציה: $f(x)=\sin 2x$ בנקודה שבה $x=\frac{\pi}{2}$.

**8)** מצא את משוואת המשיק לפונקציה: $f(x)=\tan 3x$ בנקודה שבה $x=\frac{\pi}{9}$.

**9)** מצא את משוואות המשיקים לפונקציה: $f(x)=4\sin^2 x$ בנקודות החיתוך של הפונקציה עם הישר $y=1$ בתחום $[0,\pi]$.

**10)** שיפוע המשיק לפונקציה: $f(x)=\sqrt{\sin x+a}$ , ($a$ פרמטר) בנקודה שבה $y=1$ בתחום $\left[0,\frac{\pi}{2}\right]$ הוא $\frac{\sqrt{3}}{4}$.
מצא את ערך הפרמטר $a$.

**11)** נתונה הפונקציה: $f(x)=a\sin^2 x-5\sin x+ax$ , ($a$ פרמטר) בתחום: $0\le x\le\pi$.
ידוע כי הישר: $y=ax-2$ חותך את גרף הפונקציה בנקודה שבה $x=\frac{\pi}{6}$.

א. מצא את $a$ וכתוב את הפונקציה $f(x)$.

ב. מצא נקודה על גרף הפונקציה בתחום הנתון שבה שיפוע המשיק הוא: $m=2$.

ג. האם קיימות נקודות נוספות בתחום הנתון ששיפוע המשיק דרכן הוא 2?
נמק את תשובתך.

ד. כתוב את משוואת המשיק העובר דרך הנקודה שמצאת.

**12)** נתונות הפונקציות הבאות: $f(x)=x^2+\cos^2 x$ , $g(x)=x^2+\sin^2 x$ .

א. הוכח כי ההפרש: $f(x)-g(x)$ שווה ל- $\cos 2x$ .

ב. מצא את נקודות החיתוך של הפונקציות בתחום: $-\pi<x<\pi$ .

ג. ישר $x=t$ , $(0<t<1)$ חותך את הגרפים בנקודות A ו-B ומהן מעבירים משיקים לפונקציות. ידוע כי ההפרש בין שיפוע המשיק של גרף הפונקציה $g(x)$ לשיפוע המשיק של גרף הפונקציה $f(x)$ הוא 1.
מצא את כל הערכים האפשריים עבור $t$ .

## תשובות סופיות:

**6)** $y=-\frac{1}{2}x+\frac{\pi}{12}+\frac{\sqrt{3}}{2}$ .

**7)** $y=-2x+\pi$ .

**8)** $y=12x-\frac{4\pi}{3}+\sqrt{3}$ .

**9)** $y=-2\sqrt{3}x+\frac{5\pi\sqrt{3}}{3}+1$ , $y=2\sqrt{3}x-\frac{\pi\sqrt{3}}{3}+1$ .

**10)** $a=\frac{1}{2}$ .

**11)** א. $a=2$ , $f(x)=2\sin^2 x-5\sin x+2x$ ב. $\left(\frac{\pi}{2},\pi-3\right)$ ג. לא. ד. $y=2x-3$ .

**12)** ב. $\left(\frac{\pi}{4},1.11\right)$ , $\left(\frac{3\pi}{4},6.05\right)$ , $\left(-\frac{\pi}{4},1.11\right)$ , $\left(-\frac{3\pi}{4},6.05\right)$ ג. $t=\frac{\pi}{12}$ .

# מציאת תחום ההגדרה של פונקציות טריגונומטריות:

## שאלות:

**13)** מצא את תחום ההגדרה של הפונקציות הבאות בתחום הנתון:

א. $f(x)=\frac{\sin x}{1+\cos 2x}$ , $[0,2\pi]$

ב. $f(x)=\frac{1}{\sin x-\cos x}$ , $[-\pi,\pi]$

ג. $f(x)=\tan x$ , $[0,2\pi]$

## תשובות סופיות:

**13)** א. $0\le x\le 2\pi$ וגם $x\ne \frac{\pi}{2},\frac{3\pi}{2}$

ב. $-\pi\le x\le \pi$ וגם $x\ne \frac{\pi}{4},-\frac{3\pi}{4}$.

ג. $0\le x\le 2\pi$ וגם $x\ne \frac{\pi}{2},\frac{3\pi}{2}$.

# מציאת נקודות קיצון:

## שאלות:

**14)** מצא את נקודות הקיצון של הפונקציה: $f(x)=\sin x+\cos x$ בתחום: $[0,2\pi]$.

**15)** מצא את נקודות הקיצון של הפונקציה: $f(x)=\sin x-\frac{x}{2}$ בתחום: $[0,2\pi]$.

**16)** מצא את נקודות הקיצון המוחלטות של הפונקציה: $f(x)=\frac{\sin x+1}{\sin x-1}$ בתחום: $[0,2\pi]$.

**17)** מצא את נקודות הקיצון המוחלטות של הפונקציה: $f(x)=\frac{1}{5}\sin^5 x-\frac{1}{3}\sin^3 x-2\sin x$
בתחום: $[0,1.5\pi]$.

**18)** לפונקציה: $f(x)=a\sin x+b\sin^3 x$, ($a,b$ פרמטרים) יש נקודת קיצון
ששיעוריה $\left(\frac{7\pi}{6},-1\right)$.
מצא את ערכי הפרמטרים $a$ ו- $b$.

## תשובות סופיות:

**14)** $\min(0,1)$ קצה, $\max\left(\frac{\pi}{4},\sqrt{2}\right)$ , $\min\left(\frac{5}{4}\pi,-\sqrt{2}\right)$ , $\max(2\pi,1)$ קצה.

**15)** $\min(0,0)$ קצה, $\max\left(\frac{\pi}{3},\frac{\sqrt{3}}{2}-\frac{\pi}{6}\right)$ , $\min\left(\frac{5}{3}\pi,-\frac{\sqrt{3}}{2}-\frac{5}{6}\pi\right)$ , $\max(2\pi,-\pi)$ קצה.

**16)** $\min(2\pi,-1)$ קצה, $(0,-1)$ קצה, $\max\left(\frac{3}{2}\pi,0\right)$ מוחלט.

**17)** $\max\left(\frac{3}{2}\pi,2\frac{2}{15}\right)$ , $\min\left(\frac{\pi}{2},-2\frac{2}{15}\right)$

**18)** $a=3$ , $b=-4$.

# מציאת אסימפטוטות המקבילות לצירים:

## שאלות:

**19)** מצא את האסימפטוטות האנכיות לפונקציה: $f(x)=\frac{1}{\sin 3x}$ בתחום: $[0,\pi]$.

**20)** מצא את האסימפטוטות האנכיות לפונקציה: $f(x)=\frac{1}{\sin x}-\frac{1}{\cos x}$ בתחום: $[0,\pi]$.

**21)** מצא את האסימפטוטות האנכיות לפונקציה: $f(x)=\tan x$ בתחום: $[-\pi,\pi]$.

## תשובות סופיות:

**19)** $x=\pi$ , $x=\frac{2\pi}{3}$ , $x=\frac{\pi}{3}$ , $x=0$.

**20)** $x=\pi$ , $x=\frac{\pi}{2}$ , $x=0$.

**21)** $x=-\frac{\pi}{2}$ , $x=\frac{\pi}{2}$.

# מציאת נקודות פיתול ותחומי קעירות:

## שאלות:

**22)** מצא את נקודות הפיתול ואת תחומי הקעירות כלפי מעלה ומטה של הפונקציה: $f(x)=\sin^2 x-2\sin x$ בתחום: $[0,2\pi]$.

## תשובות סופיות:

**22)** נקודות פיתול: $\left(\frac{11}{6}\pi,1\frac{1}{4}\right)$ , $\left(\frac{7}{6}\pi,1\frac{1}{4}\right)$, קעור מעלה: $0<x<\frac{7}{6}\pi$ , $\frac{11}{6}\pi<x<2\pi$

קעור מטה: $\frac{7}{6}\pi<x<\frac{11}{6}\pi$.

# חקירת פונקציה טריגונומטרית:

## שאלות:

**23)** נתונה הפונקציה: $f(x)=x+2\cos x$ בתחום $[0,2\pi]$.

חקור לפי הסעיפים הבאים:

א. מציאת תחום ההגדרה של הפונקציה.

ב. מציאת נקודות הקיצון של גרף הפונקציה.

ג. תחומי עלייה וירידה של גרף הפונקציה.

ד. מציאת נקודת החיתוך של גרף הפונקציה עם ציר ה- $y$.

ה. מציאת אסימפטוטות המקבילות לצירים.

ו. מציאת נקודות פיתול.

ז. מציאת תחומי הקעירות כלפי מעלה וכלפי מטה של הפונקציה.

ח. סרטוט סקיצה של גרף הפונקציה.

**24)** נתונה הפונקציה: $f(x)=\frac{1}{\sin x}+\frac{1}{\cos x}$ בתחום $[0,\pi]$.

חקור לפי הסעיפים הבאים:

א. מציאת תחום ההגדרה של הפונקציה.

ב. מציאת נקודות הקיצון של גרף הפונקציה.

ג. תחומי עלייה וירידה של גרף הפונקציה.

ד. מציאת נקודת החיתוך של גרף הפונקציה עם ציר ה- $x$ בתחום הנתון.

ה. מציאת אסימפטוטות המקבילות לצירים.

ו. סרטוט סקיצה של גרף הפונקציה.

**25)** נתונה הפונקציה: $f(x)=4\sin 2x-2$ בתחום $0\le x\le \pi$.

א. מצא את נקודות החיתוך של הפונקציה עם הצירים בתחום הנתון.

ב. מצא את נקודות הקיצון של הפונקציה בתחום הנתון וקבע את סוגן.

ג. סרטט סקיצה של גרף הפונקציה.

ד. מעבירים את הישר $y=k$ היעזר בסקיצה ומצא לאילו ערכי $k$ הישר יחתוך את גרף הפונקציה בשתי נקודות בדיוק.

ה. העבירו ישר המשיק לפונקציה בנקודת המקסימום המוחלט שלה.
כמו כן העבירו מנקודה זו אנך לציר $x$.
מצא את שטח המלבן הנוצר על ידי הצירים, המשיק והאנך.

**26)** נתונה הפונקציה: $f(x)=\cos^2 x-\cos x-2$ בתחום: $0\le x\le 2\pi$ .

א. מצא את נקודות החיתוך של גרף הפונקציה עם הצירים.

ב. מצא את נקודות הקיצון של גרף הפונקציה וקבע את סוגן.

ג. כתוב את תחומי העלייה והירידה של הפונקציה.

ד. סרטט סקיצה של גרף הפונקציה.

**27)** נתונה הפונקציה: $f(x)=\cos x+\frac{1}{m}\sin mx$ , $1<m<3$ , ($m$ פרמטר).

הנגזרת של הפונקציה מתאפסת כאשר: $x=-\frac{\pi}{2}$ .

א. מצא את ערך הפרמטר $m$ .

ב. האם הנקודה שבה: $x=-\frac{\pi}{2}$ היא נקודת קיצון? אם כן קבע את סוגה.
אם לא נמק מדוע.

ג. מצא כמה נקודות קיצון מקומיות יש לגרף הפונקציה בתחום: $0<x<2\pi$ .

ד. מצא את נקודות החיתוך של גרף הפונקציה עם ציר ה-$x$ בתחום הנתון.

**28)** נתונה הפונקציה הבאה: $y=\cos x\cdot(\sin x+1)$ בתחום: $0\le x\le 1.5\pi$ .

א. מצא את נקודות החיתוך של גרף הפונקציה עם הצירים.

ב. מצא את נקודות הקיצון של גרף הפונקציה.

ג. סרטט סקיצה של גרף הפונקציה.

ד. כמה פתרונות יש למשוואה: $\cos x\cdot(\sin x+1)=1$ בתחום הנתון?

**29)** נתונה הפונקציה: $f(x)=\sin^2 x+\cos x-1$ .

א. מצא בתחום $[0,\pi]$ את נקודות החיתוך עם הצירים של הפונקציה
ואת נקודות הקיצון שלה.

ב. הוכח שהפונקציה זוגית.

ג. שרטט את הפונקציה בתחום $[-\pi,\pi]$.

**30)** נתונה הפונקציה: $f(x)=4x-3\tan x$ בתחום $\left[-\frac{\pi}{6},\frac{2\pi}{3}\right]$.

חקור את הפונקציה על פי הסעיפים הבאים:

א. מציאת תחום ההגדרה של הפונקציה.

ב. מציאת נקודות הקיצון של גרף הפונקציה.

ג. תחומי עלייה וירידה של גרף הפונקציה.

ד. מציאת נקודת החיתוך של גרף הפונקציה עם ציר ה- $y$.

ה. מציאת אסימפטוטות אנכיות.

ו. מציאת נקודות פיתול.

ז. מציאת תחומי קעירות כלפי מעלה ומטה.

ח. סרטוט סקיצה של גרף הפונקציה.

**31)** נתונה הפונקציה: $f(x)=\tan 2x-8\sin 2x$ בתחום: $-0.25\pi<x<0.25\pi$.

א. מצא את נקודות החיתוך של גרף הפונקציה עם הצירים בתחום הנתון.

ב. כתוב את האסימפטוטות האנכיות של גרף הפונקציה.

ג. מצא את נקודות הקיצון של גרף הפונקציה בתחום הנתון.

ד. סרטט סקיצה של גרף הפונקציה בתחום הנתון.

**32)** נתונה הפונקציה: $f(x)=\tan\left(x^2-4x\right)$ בתחום $[0,4]$.

חקור את הפונקציה על פי הסעיפים הבאים:

א. מציאת תחום ההגדרה של הפונקציה.

ב. מציאת נקודות הקיצון של גרף הפונקציה.

ג. סרטוט סקיצה של גרף הפונקציה.

**33)** נתונה הפונקציה: $f(x)=x\cos x-x$ בתחום: $-3\pi\le x\le 3\pi$.

א. מצא את נקודות החיתוך של גרף הפונקציה עם ציר ה- $x$.

ב. ענה על הסעיפים הבאים:

i. הראה כי נקודות החיתוך של גרף הפונקציה עם ציר ה- $x$ הנגזרת של הפונקציה מתאפסת.

ii. ידוע גם כי: $f'(-3.67)=0$, $f'(3.67)=0$ וכי אין נקודות נוספות בתחום הנתון שבהן הנגזרת מתאפסת. קבע אלו נקודות, מבין נקודות החיתוך שמצאת, הן נקודות קיצון ואלו אינן נקודות קיצון.
מצא את סוג הקיצון בכל מקרה.

**34)** נתונה הפונקציה: $y=(\cos x+k)^2$ , $k$ פרמטר, בתחום: $0\le x\le 2\pi$.

הפונקציה חותכת את ציר ה-$x$ בנקודה שבה $x=\frac{2\pi}{3}$.

א. מצא את $k$ וכתוב את הפונקציה.

ב. מצא את נקודת המקסימום שאיננה מוחלטת בתחום הנתון.

ג. האם יש לגרף הפונקציה נקודות מינימום שאינן מוחלטות? אם כן מהן?

**35)** נתונה הפונקציה: $f(x)=m\sin x+k\cos^2 x$ , ($m$ פרמטר).

מעבירים משיק לגרף הפונקציה בנקודה שבה $x=\pi$ שמשוואתו: $y=-6x+6\pi+\sqrt{7}$.

א. מצא את ערכי הפרמטרים $k$ ו-$m$.

ב. מצא את נקודות הקיצון בתחום: $-0.5\pi\le x\le 1.5\pi$.

ג. סרטט סקיצה של גרף הפונקציה וקבע עפ"י הסקיצה בכמה נקודות גרף הפונקציה חותך את ציר ה-$x$ בתחום הנ"ל.

**36)** נתונה הפונקציה: $f(x)=\tan x+kx$ , ($k$ פרמטר) בתחום: $0\le x\le \pi$.

א. מצא את האסימפטוטה האנכית של הפונקציה בתחום הנתון.

הפונקציה: $g(x)=\tan^2 x+kx$ חותכת את הפונקציה $f(x)$ בשתי נקודות החיתוך שלה עם ציר ה-$x$ בתחום הנתון.

ב. מצא את ערך הפרמטר $k$ , $(k\ne 0)$.

ג. מצא את נקודות הקיצון של הפונקציה $f(x)$ בתחום הנתון וקבע את סוגן.

ד. סרטט סקיצה של גרף הפונקציה $f(x)$.

**37)** לפניך הפונקציות הבאות: $f(x)=\sqrt{-\cos x}$ , $g(x)=\sqrt{\cos x+1}$ .

הפונקציה $f(x)$ מוגדרת בתחום $0.5\pi \le x \le 1.5\pi$ והפונקציה $g(x)$ מוגדרת בתחום $0 \le x \le 2\pi$ .

א. האם הגרפים חותכים את ציר ה-$x$ בתחום הנתון? הראה חישוב מתאים.

ב. האם הגרפים חותכים זה את זה בתחום הנתון? אם כן מצא את נקודות החיתוך.

ג. מצא את נקודת הקיצון של הפונקציה $f(x)$ בתחום הנתון וקבע את סוגה.

ד. לפניך ארבעה איורים: i , ii , iii , iv.

קבע על סמך הסעיפים הקודמים איזה איור מתאר את הגרף של $f(x)$ ואיזה מתאר את הגרף של $g(x)$ . נמק.

i.

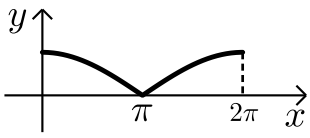


ii.

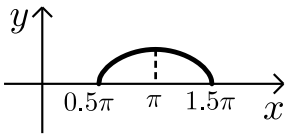


iii.

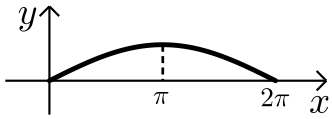


iv.

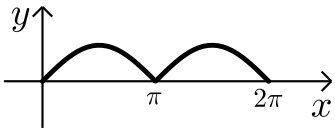

## תשובות סופיות:

**23)** א. $0 \le x \le 2\pi$.

ב. $\max(2\pi, 2\pi+2)$ קצה, $\min\left(\frac{5}{6}\pi, \frac{5}{6}\pi-\sqrt{3}\right)$ , $\max\left(\frac{\pi}{6}, \frac{\pi}{6}+\sqrt{3}\right)$ , $\min(0,2)$ קצה.

ג. תחומי עלייה: $\frac{5\pi}{6} < x < 2\pi$ או $0 < x < \frac{\pi}{6}$ , תחומי ירידה: $\frac{\pi}{6} < x < \frac{5}{6}\pi$ .

ד. $(0,2)$.  ה. אין.  ו. $\left(\frac{3\pi}{2}, \frac{3\pi}{2}\right)$ , $\left(\frac{\pi}{2}, \frac{\pi}{2}\right)$.

ז. קעירות כלפי מעלה: $\frac{\pi}{2} < x < \frac{3}{2}\pi$ , קעירות כלפי מטה: $\frac{3\pi}{2} < x < 2\pi$ או $0 < x < \frac{\pi}{2}$.

**24)** א. $\frac{\pi}{2} < x < \pi$ ; $0 < x < \frac{\pi}{2}$  ב. $\min\left(\frac{\pi}{4}, 2\sqrt{2}\right)$.

ג. תחומי עלייה: $\frac{\pi}{2} < x < \pi$ , $\frac{\pi}{4} < x < \frac{\pi}{2}$ תחומי ירידה: $0 < x < \frac{\pi}{4}$

ד. $\left(\frac{3}{4}\pi, 0\right)$  ה. אנכית: $x = \pi$ , $x = \frac{\pi}{2}$ , $x = 0$.

**25)** א. $\left(\frac{5}{12}\pi, 0\right)$ , $\left(\frac{\pi}{12}, 0\right)$ , $(0,-2)$.

ב. $\max(\pi,-2), \min\left(\frac{3\pi}{4}, -6\right) \min\left(\frac{\pi}{4}, 2\right), \max(0,-2)$.

ד. $-6 < k < 2$ וגם $k \ne -2$  ה. $\frac{\pi}{2}$.

**26)** א. $(\pi,0),(0,-2)$.

ב. $\max(2\pi,-2), \min\left(1\frac{2}{3}\pi, -2.25\right), \max(\pi,0), \min\left(\frac{\pi}{3}, -2.25\right), \max(0,-2)$ .

ג. עולה: $1\frac{2}{3}\pi < x < 2\pi$ , $\frac{\pi}{3} < x < \pi$ , יורדת: $\pi < x < 1\frac{2}{3}\pi$ , $0 < x < \frac{\pi}{3}$.

**27)** א. $m = 2$  ב. נקודת פיתול  ג. 2 נקודות

ד. $(0.5\pi,0),(1.5\pi,0)$.

**28)** א. $(0,1)$ , $\left(\frac{3\pi}{2}, 0\right)$ , $\left(\frac{\pi}{2}, 0\right)$  ב. $(0,1), \left(\frac{\pi}{6}, 1.29\right), \left(\frac{5}{6}\pi, -1.29\right), (1.5\pi, 0)$

ד. 2 פתרונות.

**29)** א. חיתוך: $(0,0), \left(\frac{\pi}{2}, 0\right)$ , קיצון: $\min(\pi,-2)$ קצה, $\min(0,0), \max\left(\frac{\pi}{3}, \frac{1}{4}\right)$ קצה.

**30)** א. $-\frac{\pi}{6}\le x\le\frac{2}{3}\pi$ וגם $x\ne\frac{\pi}{2}$

ב. $\min\left(\frac{2}{3}\pi,13.57\right)$ קצה, $\max\left(\frac{\pi}{6},0.36\right),\min\left(-\frac{\pi}{6},-0.36\right)$ קצה

ג. תחומי עלייה: $-\frac{\pi}{6}\le x\le\frac{\pi}{6}$, תחומי ירידה: $\frac{\pi}{6}\le x\le\frac{2}{3}\pi$ וגם $x\ne\frac{\pi}{2}$.

ד. $(0,0)$ ה. אנכית: $x=\frac{\pi}{2}$ ו. $(0,0)$

ז. קעירות כלפי מעלה: $\frac{\pi}{2}\le x\le\frac{2}{3}\pi$ או $-\frac{\pi}{6}\le x\le 0$, קעירות כלפי מטה: $0<x<\frac{\pi}{2}$.

**31)** א. $(0,0),(\pm0.23\pi,0)$ ב. $x=\pm0.25\pi$. ג. $\max\left(-\frac{\pi}{6},\sqrt{27}\right)$, $\min\left(\frac{\pi}{6},-\sqrt{27}\right)$.

**32)** א. $0\le x\le 4$ וגם $x\ne 3.56$, $x\ne 0.44$

ב. $\max(0,0)$ קצה, $\min(2,-1.16)$, $\max(4,0)$ קצה.

**33)** א. $(0,0),(2\pi,0),(-2\pi,0)$

ב. ii. $\min(-2\pi,0)$, $\max(2\pi,0)$, $(0,0)$ פיתול.

**34)** א. $k=0.5$, $y=(\cos x+0.5)^2$ ב. $(\pi,0.25)$

ג. לא.

**35)** א. $k=\sqrt{7}$, $m=6$ ב. $(-0.5\pi,-6),(0.5\pi,6),(1.5\pi,-6)$. ג. בשתי נקודות.

**36)** א. $x=0.5\pi$ ב. $k=-\frac{4}{\pi}\approx-1.27$

ג. $\max(0,0),\min(0.15\pi,-0.07),\max(0.84\pi,-3.9),\min(\pi,-4)$.

**37)** א. כן. $f(x):(0.5\pi,0),(1.5\pi,0)$, $g(x):(\pi,0)$. ב. כן, $\left(\frac{4}{3}\pi,\frac{1}{\sqrt{2}}\right),\left(\frac{2}{3}\pi,\frac{1}{\sqrt{2}}\right)$.

ג. $\max(0.5\pi,0),\min(1.5\pi,0),\max(\pi,1)$ ד. איור I - $g(x)$, איור II - $f(x)$.

## סקיצות לשאלות החקירה:

23)

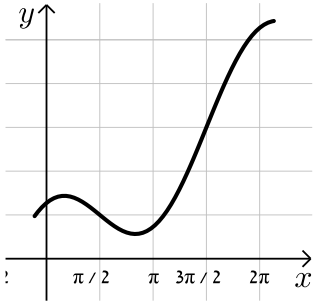


24)

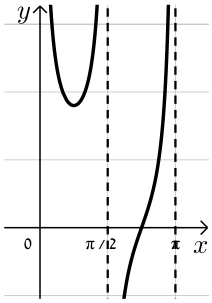


25)

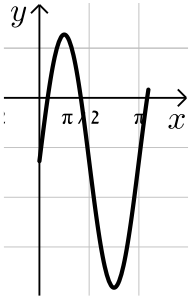


26)

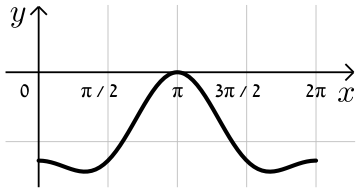


28)

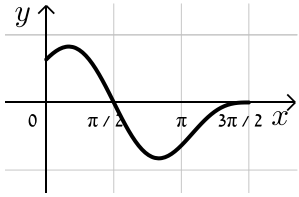


29)

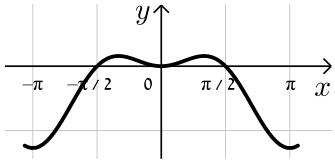


30)

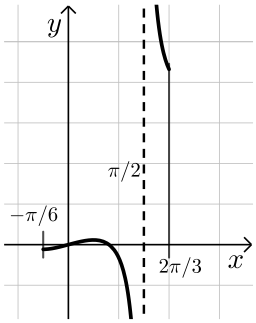


31)

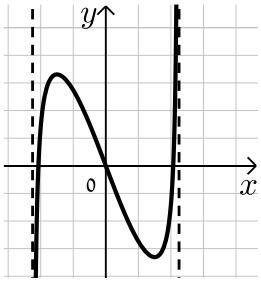


32)

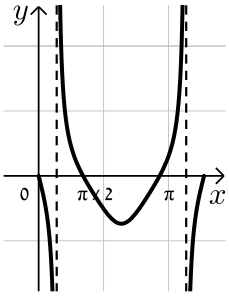


35)

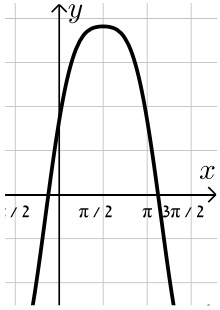


36)

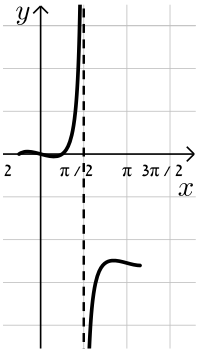

# קורס קדם במתמטיקה למהנדסים

## פרק 26 - חשבון דיפרנציאלי - הקשר שבין גרף הפונקציה וגרף הנגזרת

תוכן העניינים

1. כללי ..... (ללא ספר)

# קורס קדם במתמטיקה למהנדסים

## פרק 27 - חשבון דיפרנציאלי - פונקצית הערך המוחלט

תוכן העניינים


1. כתיבה וסרטוט של פונקציות ערך מוחלט ..... 398
2. תחום הגדרה של פונקציות עם ערך מוחלט ..... 403
3. גזירה של פונקציות עם ערך מוחלט ..... 404
4. חקירה של פונקציות עם ערכים מוחלטים ..... 407
5. פתרון וחקירה של משוואות עם ערך מוחלט ..... 411

# כתיבה וסרטוט של פונקצית ערך מוחלט:

## סיכום כללי:

פונקציה הערך המוחלט מוגדרת: $f(x)=|x|=\begin{cases} x & x\ge 0 \\ -x & x<0 \end{cases}$.

כדי לסרטט פונקציות עם ערך מוחלט, או שמכילות ביטויים עם ערכים מוחלטים, יש לעקוב אחר השלבים הבאים:

1. יש למצוא את הנקודות שמאפסות את כל אחד מהערכים המוחלטים.
2. יש לחלק את הפונקציה לתחומים עבור כל האפשרויות הקיימות.
3. עבור כל תחום יש לכתוב את הפונקציה המתקבלת ללא סימן הערך המוחלט ולסרטט אותה במערכת צירים.

**הערה:**

ניתן להיעזר בטכניקה אלגברית בסיסית על מנת לפשט פונקציות בטרם הניתוח והסרטוט שלהן כגון: $f(x)=x^2|x|-3|x|=|x|(x^2-3)$.

## שאלות:

**1)** לפניך הפונקציה הבאה: $f(x)=|x+4|-|4x|+1$.
כתוב את הפונקציה ללא סימן הערך המוחלט, כפונקציה מוגדרת למקוטעין.

**2)** לפניך הפונקציה הבאה: $f(x)=3x-|x+|3-x||$.
כתוב את הפונקציה ללא סימן הערך המוחלט, כפונקציה מוגדרת למקוטעין.

סרטט את הפונקציות הבאות במערכת צירים:

**3)** $f(x)=|x|-1$

**4)** $f(x)=|x+2|$

**5)** $f(x)=|2x+1|+|x-3|$

**6)** $f(x)=|x-1|+|2-x|-3\cdot|x+1|+x$

**7)** $f(x)=2|x|+x$

**8)** $f(x)=x|x|$

**9)** $f(x)=x^2+2|x|-3$

**10)** $f(x)=|x^2+6x-8|$

**11)** $f(x)=-2x|x|+|7x|-5$

**12)** $f(x)=(x-3)|x+1|$

**13)** $f(x)=|9x-x^3|$

**14)** $f(x)=x^3-|x|$

**15)** $f(x)=|x|^3-4x^2$

**16)** $f(x)=2x^2|x|-7x|x|+3|x|$

**17)** לפניך הפונקציה: $f(x)=6x-2x^2$.

א. סרטט את $f(x)$ במערכת צירים.

ב. סרטט באותה מערכת הצירים את $g(x)=6|x|-2x^2$.

ג. הוסף למערכת הצירים את גרף הפונקציה: $h(x)=|6|x|-2x^2|$.

**18)** לפניך הפונקציה: $f(x)=9x^2-8x-1$.

מגדירים: $g(x)=9x|x|-8x-1$ ו- $h(x)=9x^2-8|x|-1$.

א. סרטט במערכת צירים אחת את הפונקציות $g(x)$ ו- $h(x)$.

ב. סרטט במערכת צירים חדשה את הפונקציה $|h(x)|$.

**19)** נתונות הפונקציות הבאות: $f(x)=\frac{|x|}{x}$ ו- $g(x)=\frac{x}{|x|}$.

האם המשוואות הנ"ל מייצגות את אותה הפונקציה?
אם כן – הסבר וסרטט את גרף הפונקציה, אם לא – נמק.

**20)** מצא את נקודות החיתוך של הפונקציות: $f(x)=|x^2-4|$ , $g(x)=|x+1|+|x-2|$.

**21)** לפניך הפונקציות הבאות: $f(x)=|(x-2)(x+4)|$ , $g(x)=|(x-5)(x+4)|$.

א. מצא את נקודות החיתוך של הפונקציות.

ב. כיצד תשתנה התוצאה אם במקום $g(x)$ ניקח: $h(x)=|(x-5)(x-4)|$?

**22)** נתונות הפונקציות: $f(x)=|x|x+3$ ו- $g(x)=ax^2$ , $(a\neq 0)$.

מצא עבור אלו ערכים של $a$ הגרפים נחתכים בשתי נקודות, נקודה אחת ולא נחתכים כלל.

## תשובות סופיות:

1) $f(x)=|x+4|-|4x|+1=\begin{cases}-3x+5 & x\ge 0\\ 5x+5 & -4\le x<0\\ 3x-3 & x<-4\end{cases}$ .

2) $f(x)=3x-|x+|3-x||=\begin{cases}x+3 & x\ge 3\\ 3x-3 & x<3\end{cases}$ .

## להלן סקיצות של הפונקציות:

3) סקיצה:

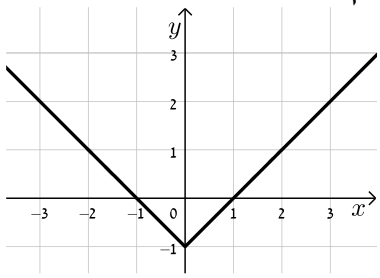

4) סקיצה:

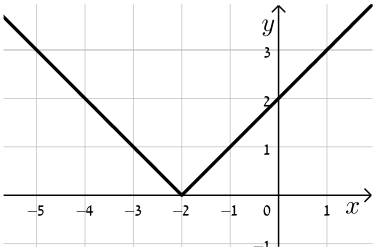

5) סקיצה:

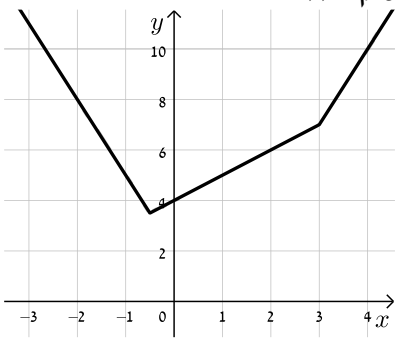

6) סקיצה:

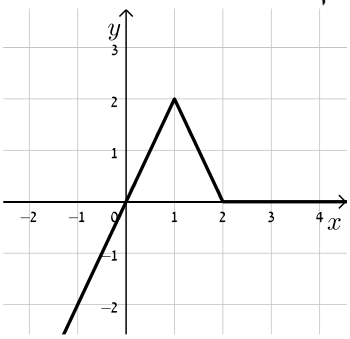

7) סקיצה:

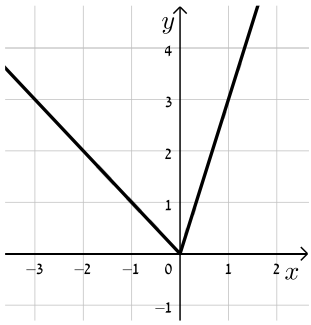

8) סקיצה:

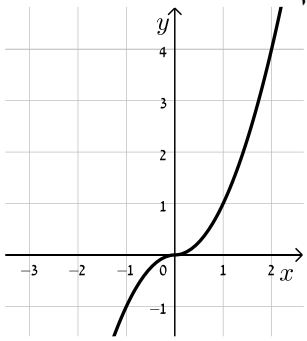

**9)** סקיצה:

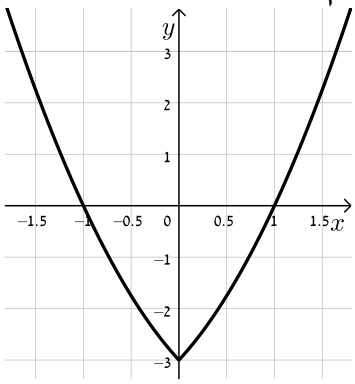


**10)** סקיצה:

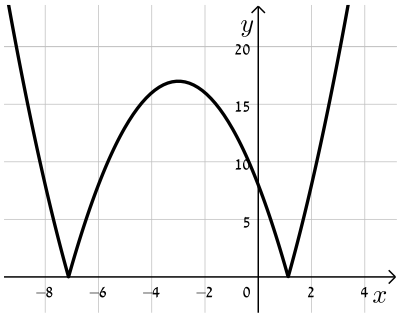


**11)** סקיצה:

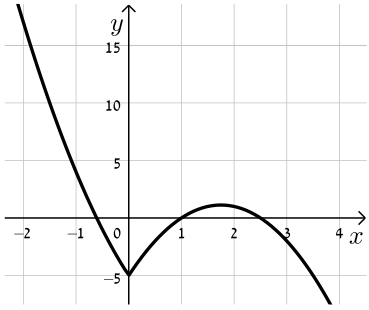


**12)** סקיצה:

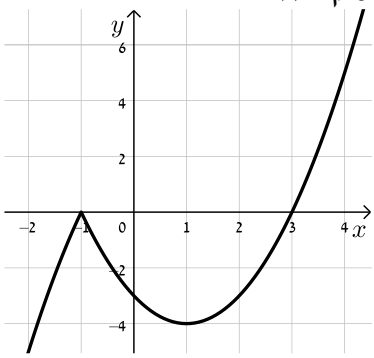


**13)** סקיצה:

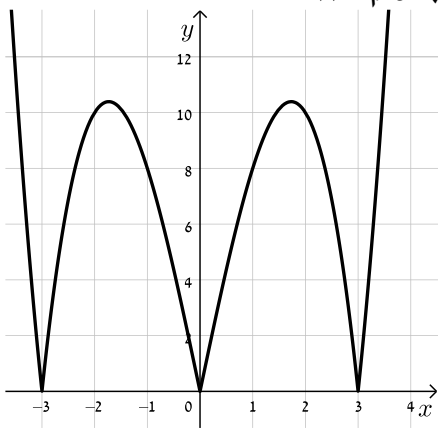


**14)** סקיצה:

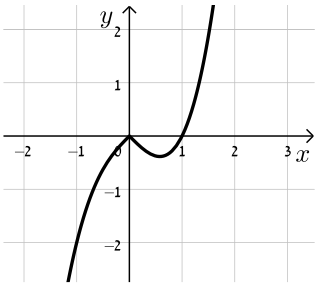


**15)** סקיצה:

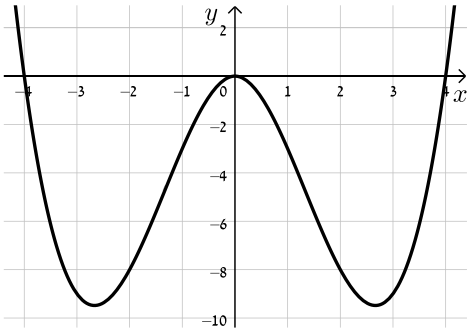


**16)** סקיצה:

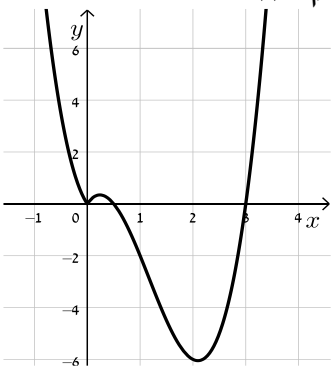

**17)** פתרון מלא בסרטון הוידאו.

**18)** פתרון מלא בסרטון הוידאו.

**19)** כן, מדובר באותה הפונקציה.

**20)** $(-3.45,7.9)$ , $(3,5)$ , $(-1,3)$ , $(1,3)$.

**21)** א. $(-4,0)$ , $(3.5,11.25)$. ב. יהיה רק פתרון אחד והוא: $(2.55,3.57)$.

**22)** שני פתרונות: $a>1$, פתרון יחיד: $-1<a<1$ וגם $a\neq 0$ מת.ה., אף פתרון: $a\leq -1$.

# תחום הגדרה של פונקציות עם ערך מוחלט:

## סיכום כללי:

כדי למצוא תחום הגדרה של פונקציה עם ערך מוחלט יש לוודא כי הערכים של המשתנה לא יוצרים ביטויים חסרי משמעות (כגון חלוקה באפס, או ערך שלילי בתוך שורש ממעלה זוגית).

## שאלות:

מצא את תחום ההגדרה של הפונקציות הבאות:

1) $f(x)=|x^2-1|+x+3$

2) $f(x)=\frac{|3-x|}{x-1}$

3) $f(x)=\frac{3}{x}+\frac{4}{|x|-4}$

4) $f(x)=\sqrt{|x|-2}$

5) $f(x)=\frac{|2x+1|-3}{\sqrt{4-|x|}}$

6) $f(x)=\frac{3}{2|\sin x|-1}$

## תשובות סופיות:

1) כל $x$.

2) $x\neq 1$.

3) $x\neq 0\ ,\ \pm 4$.

4) $x\geq 2\ ,\ x\leq -2$.

5) $-4<x<4$.

6) $x\neq \frac{\pi}{6}+\pi k\ ,\ x\neq \frac{5\pi}{6}+\pi k$.

# גזירה של פונקציות עם ערך מוחלט:

## סיכום כללי:

נגזרת של פונקצית הערך המוחלט: $f(x)=|x|$ היא: $f'(x)=\begin{cases}1 & x>0\\ -1 & x<0\end{cases}$.

עבור פונקציה פנימית $f(x)=|g(x)|$ נעזר בכלל השרשרת: $f'(x)=\begin{cases}g(x) & g(x)>0\\ -g(x) & g(x)<0\end{cases}$.

**הערה:**

נסמן נקודת אפס של ביטוי עם ערך מוחלט ב- $x_0$ ונאמר כי אם ערך הנגזרת מימין ומשלא לנקודה זהה אז הפונקציה **גזירה** בנקודה $x_0$, אחרת היא אינה גזירה בנקודה זו.

**דוגמא:**

לפונקציה: $f(x)=|x|$ יש נקודת אפס $x_0=0$ והנגזרת: $f'(x)=\begin{cases}1 & x>0\\ -1 & x<0\end{cases}$.

ערך הנגזרת הימני הוא $f'(x=0^+)=1$ והשמאלי הוא $f'(x=0^-)=-1$.

היות ו- $f'(x=0^+)\neq f'(x=0^-)$ נאמר כי הפונקציה אינה גזירה ב- $(0,0)$.

## שאלות:

גזור את הפונקציות הבאות:

1) $f(x)=|x^2-3x+2|$

2) $f(x)=x^3+\frac{2}{3}|x|+1$

3) $f(x)=\frac{|x|}{x-1}$

4) $f(x)=\frac{x^2+1}{|x|+2}$

5) $f(x)=\sqrt{3x-|3-x|}$

6) $f(x)=\frac{5-x}{\sqrt{|x|+6}}$

7) $f(x)=\sin|x|$

8) $f(x)=\sqrt{3|x|-\cos x+1}$

**9)** מצא את משוואות המשיקים לגרף הפונקציה: $f(x)=x\cdot|x+2|+3$ בנקודות:

א. $x=-3$.

ב. $y=3$.

**10)** לפניך הפונקציה הבאה: $f(x)=\frac{x+|x|}{x+1}$.

א. הוכח כי הפונקציה מקיימת: $0\le f(x)<2$ לכל $x$ בתחום הגדרתה.

ב. מצא את משוואת המשיק לגרף הפונקציה בנקודה שבה: $x=3$.

**11)** לפניך הפונקציה: $f(x)=\frac{3}{\sqrt{|2x+1|+x^2}}$.

א. הראה כי הפונקציה מוגדרת לכל $x$.

ב. מצא את הערך המירבי של הפונקציה.

ג. מצא את משוואת המשיק לגרף הפונקציה העובר בנקודת החיתוך של הישר $y=\frac{3}{\sqrt{2}}$ וגרף הפונקציה ברביע השני.

## תשובות סופיות:

**1)** $f'(x)=\begin{cases}2x-3 & x<1\,,\,x>2\\ -2x+3 & 1<x<2\end{cases}$ , בנקודות $(1,0)$ , $(2,0)$ הנגזרת לא קיימת.

**2)** $f'(x)=\begin{cases}3x^2+\frac{2}{3} & x>0\\ 3x^2-\frac{2}{3} & x<0\end{cases}$ , בנקודה $(0,1)$ הנגזרת לא קיימת.

**3)** $f'(x)=\begin{cases}-\frac{1}{(x-1)^2} & x>0\,,\,x\ne 1\\ \frac{1}{(x-1)^2} & x<0\end{cases}$ , בנקודה $(0,0)$ הנגזרת לא קיימת.

**4)** $f'(x)=\begin{cases}\frac{x^2+4x-1}{(x+2)^2} & x>0\\ \frac{-x^2+4x+1}{(-x+2)^2} & x<0\end{cases}$ , בנקודה $\left(0,\frac{1}{2}\right)$ הנגזרת לא קיימת.

5) $f'(x)=\begin{cases}\dfrac{2}{\sqrt{4x-3}} & \dfrac{3}{4}<x<3\\ \dfrac{1}{\sqrt{2x+3}} & x>3\end{cases}$ , בנקודה $(3,3)$ הנגזרת לא קיימת.

6) $f'(x)=\begin{cases}\dfrac{-x-17}{2\left(\sqrt{x+6}\right)^3} & x>0\\ \dfrac{-x-7}{2\left(\sqrt{-x+6}\right)^3} & x<0\end{cases}$ , בנקודה $\left(0,\dfrac{5}{\sqrt{6}}\right)$ הנגזרת לא קיימת.

7) $f'(x)=\begin{cases}\cos x & x>0\\ -\cos x & x<0\end{cases}$ , בנקודה $(0,0)$ הנגזרת לא קיימת.

8) $f'(x)=\begin{cases}\dfrac{3+\sin x}{2\sqrt{3x-\cos x+1}} & x>0\\ \dfrac{-3+\sin x}{2\sqrt{-3x-\cos x+1}} & x<0\end{cases}$ , בנקודה $(0,0)$ הנגזרת לא קיימת.

9) א. $y=4x+12$ ב. הפונקציה גזירה רק בנקודה $(0,3)$ ולכן נמצא את משוואת המשיק רק שם ונקבל: $y=2x+3$ .

10) א. הוכחה. ב. $y=\frac{1}{8}x+1\frac{1}{8}$ .

11) א. הוכחה. ב. 6. ג. $y=\frac{3}{\sqrt{2}}x+3\sqrt{2}$ .

# חקירה של פונקציות עם ערכים מוחלטים:

## סיכום כללי:

כדי לחקור פונקציה שמכילה ביטויים עם ערכים מוחלטים נבצע את פעולות החקירה הרגילות תוך תשומת לב לחלוקת הפונקציה למקטעים לפי ערכי המשתנה המאפסים את הערכים המוחלטים.

- מציאת תחום הגדרה של פונקציה.
- גזירה של פונקציה, מציאת נקודות אי-גזירות, וקביעת סוג הקיצון.
- כתיבת תחומי העלייה והירידה של הפונקציה.
- מציאת אסימפטוטות של גרף הפונקציה (במידה וישנן).
- מציאת נקודות פיתול ותחומי קמירות כלפי מעלה ומטה (במידה ונשאלים).
- סרטוט סקיצה של גרף הפונקציה תוך הקפדה על נקודות אי רציפות, נקודות אי-גזירות וסימון מקטעים שונים על הגרף לפי המתבקש.

## שאלות:

**1)** לפניך הפונקציה: $f(x)=x^3-\frac{3}{4}|x|+2$.

א. מה הן נקודות הקיצון של הפונקציה?

ב. כתוב את תחומי העלייה והירידה של הפונקציה.

ג. סרטט סקיצה של גרף הפונקציה.

**2)** נתונה הפונקציה: $f(x)=|x^2-4|+|x^2+x|$.

א. מצא את נקודות הקיצון של הפונקציה וקבע את סוגן.

ב. סרטט סקיצה של גרף הפונקציה.

ג. נתון הישר $y=x+k$, $k$ פרמטר. מצא לאלו ערכים של $k$:

i. הישר יחתוך את גרף הפונקציה ב-4 נקודות שונות.

ii. הישר יחתוך את גרף הפונקציה ב-3 נקודות שונות.

iii. הישר יחתוך את גרף הפונקציה ב-2 נקודות שונות.

iv. הישר יחתוך את גרף הפונקציה באינסוף נקודות.

v. הישר לא יחתוך את גרף הפונקציה כלל.

**3)** נתונה הפונקציה: $f(x)=\frac{x}{|x-2|}$.

א. כתוב את הנגזרת של הפונקציה והוכח כי אין לפונקציה נקודות קיצון.

ב. כתוב את תחומי העלייה והירידה של הפונקציה.

ג. סרטט סקיצה של גרף הפונקציה.

**4)** נתונה הפונקציה: $f(x)=\sqrt{|x|+a}$ , $a$ פרמטר.

ידוע כי הפונקציה אינה מוגדרת בתחום: $-1<x<1$.

א. מצא את $a$.

ב. הוכח כי הפונקציה היא זוגית.

ג. הראה כי הפונקציה עולה בתחום: $x>1$.

ד. סרטט סקיצה של גרף הפונקציה בתחום $0<x<9$.

ה. היעזר בממציאך מהסעיפים הקודמים והוסף לסקיצה שציירת את גרף הפונקציה בתחום: $-9<x<0$.

**5)** נתונה הפונקציה: $f(x)=|\cos x|+\cos 2x$.

א. הוכח כי הפונקציה היא זוגית.

ב. מצא את נקודות הקיצון של הפונקציה בתחום $[0:\pi]$ וקבע את סוגן.

ג. סרטט סקיצה של גרף הפונקציה בתחום: $[0:\pi]$.

ד. סרטט סקיצה של גרף הפונקציה בתחום: $[-\pi:0]$.

**6)** נתונות שתי פונקציות: $f(x)=\sqrt{\cos x}$ , $g(x)=\frac{x}{|x|}$.

א. הוכח כי $f(x)$ הינה פונקציה זוגית וכי $g(x)$ הינה פונקציה אי-זוגית.

ב. סרטט סקיצה של גרף הפונקציה $f(x)$ בתחום $0\le x\le \pi$.

ג. הסתמך על ממציאך מהסעיפים הקודמים וסרטט סקיצה של גרף הפונקציה: $f(x)\cdot g(x)$ בתחום: $-\pi\le x\le \pi$.

## תשובות סופיות:

**1)** א. $\min\left(\frac{1}{2},1\frac{3}{4}\right)$ , $\max(0,2)$ ב. עולה: $x>\frac{1}{2}$ , $x<0$ , יורדת: $0<x<\frac{1}{2}$.
ג. עיין סקיצה.

**2)** א. $\min(0,4)$ , $\max\left(-\frac{1}{4},4\frac{1}{8}\right)$ , $\min(-2,2)$ ב. עיין סקיצה.
ג. i. $4<k<4.5$ ii. $k=4.5$ iii. $k>4.5$ iv. $k=4$ v. $k<4$.

**3)** א. הוכחה. ב. עולה: $x<2$ , יורדת: $x>2$ ג. עיין סקיצה.

**4)** א. $a=-1$ ב. הוכחה. ג. הוכחה. ד. עיין סקיצה. ה. עיין סקיצה.

**5)** א. הוכחה. ב. $\max(\pi,2)$ , $\min\left(\frac{\pi}{2},-1\right)$ , $\max(0,2)$ ג. עיין סקיצה.
ד. עיין סקיצה.

**6)** א. הוכחה. ב. עיין סקיצה. ג. עיין סקיצה.

## סקיצות לשאלות החקירה:

**שאלה 1**

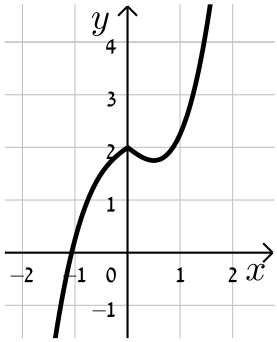


**שאלה 2**

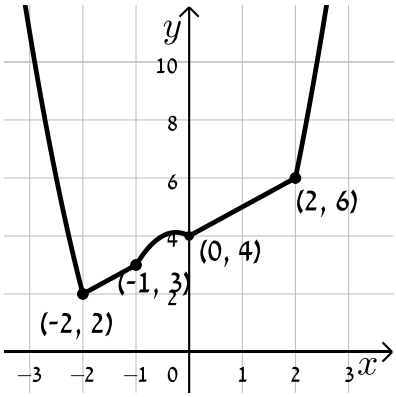


**שאלה 3**

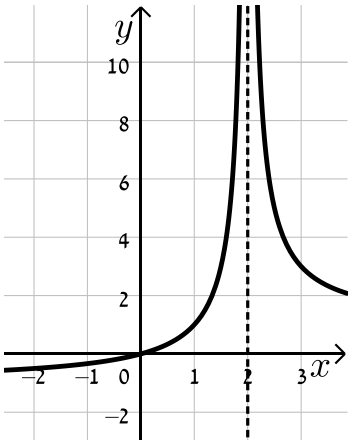


**שאלה 4 סעיף ד**

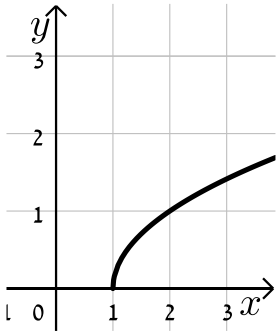


**שאלה 4 סעיף ה**

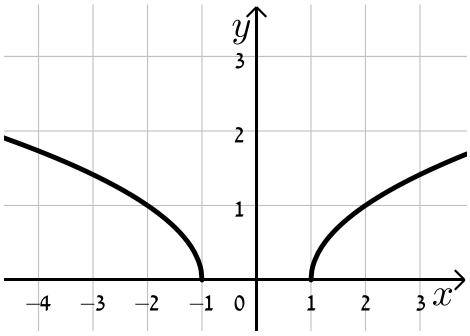

**שאלה 5 סעיף ג**

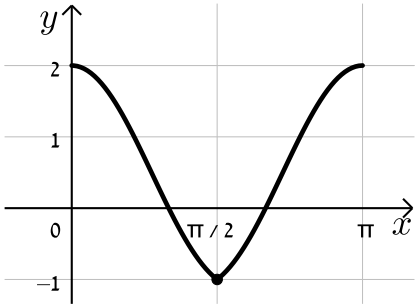


**שאלה 5 סעיף ד**

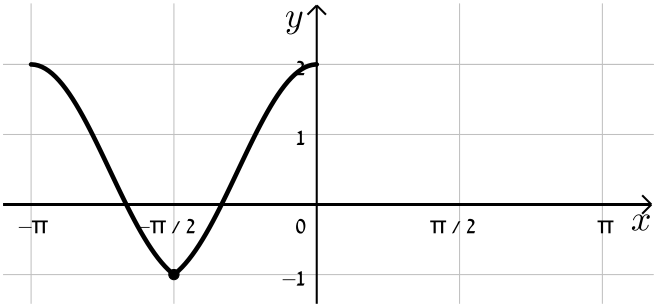


**שאלה 6 סעיף ב**

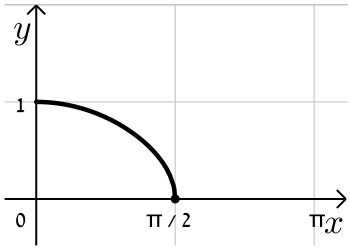


**שאלה 6 סעיף ג**

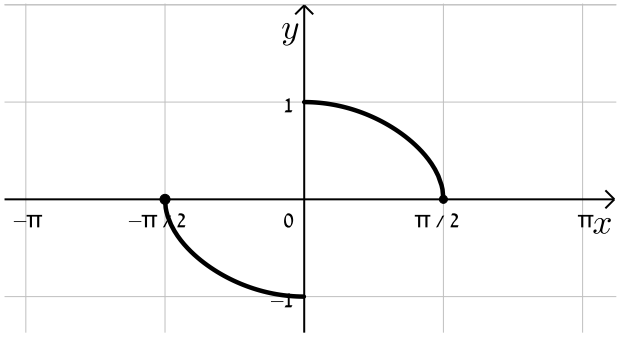

# פתרון וחקירה של משוואות עם ערך מוחלט:

## סיכום כללי:

כדי לחקור משוואות המכילות פרמטר וביטוי/ים עם ערך מוחלט, יש להפריד את המשוואה לתתי-משוואות, לפי כל תחום של המשתנה עבורו סימן הערך המוחלט הוא חיובי או שלילי. לאחר מכן יש לפתור כל משוואה בנפרד ולאחד את הפתרונות.

## שאלות:

**1)** עבור אילו ערכים של $m$ יש למשוואה $\left|x^2-2x-3\right|=m-1$ שלושה פתרונות?

**2)** לפניך הפונקציה הבאה: $f\left(x\right)=\left|x^2-x-2\right|+x\left|x\right|$

א. צייר את גרף הפונקציה במערכת צירים.

ב. מצא עבור אלו ערכי $k$ יש למשוואה: $\left|x^2-2x-3\right|+k=x-x\left|x\right|-1$ פתרון אחד בלבד.

**3)** לפניך הפונקציה הבאה: $f\left(x\right)=\frac{\left|x-3\right|}{x^2-9}+\frac{x-3}{\left|x-3\right|}$

א. סרטט את הפונקציה במערכת צירים (זכור לפשט תחילה).

ב. מצא לאלו ערכים של $a$ יהיה למשוואה: $f\left(x\right)=a$ פתרון אחד בלבד.

**4)** לפניך הפונקציה: $f\left(x\right)=\left|x^2-6x+8\right|+\left|x^2-6x+5\right|$ והישר: $y=m$.

א. סרטט גרף של $f\left(x\right)$ במערכת צירים.

ב. מצא את התחומים של $m$ עבורם לישר $y=m$ יהיו יותר משתי נקודות חיתוך שונות עם גרף הפונקציה $f\left(x\right)$.

## תשובות סופיות:

**1)** $m=5$.

**2)** א. ראה סרטוט בסרטון הוידאו. ב. $k=-1$.

**3)** א. ראה סרטוט בסרטון הוידאו. ב. $a\ge\frac{7}{6}$, $-1<a\le1$, $a<-\frac{7}{6}$.

**4)** $3\le m\le5$.

# קורס קדם במתמטיקה למהנדסים

## פרק 28 - חשבון דיפרנציאלי - הזזות ומתיחות של פונקציות

תוכן העניינים


1. הקדמה כללית ..... 412
2. הוספת קבוע לפונקציה ..... 414
3. הכפלת פונקציה בקבוע ..... 422
4. הזזת פונקציה ימינה ושמאלה ..... 429
5. מתיחה וכיווץ של פונקציה ..... 433
6. היפוך גרף פונקציה ביחס לציר y ..... 438
7. ערך מוחלט של פונקציה ..... 443

# הקדמה כללית:

## סיכום כללי:

- הוספת קבוע לפונקציה:
בהינתן פונקציה $y=f(x)$, כל הנקודות שעל גרף הפונקציה: $g(x)=f(x)+k$ מתקבלת ע"י הוספת קבוע $k$ לערך ה- $y$. במילים אחרות, אם נקודה $(x_0,y_0)$ נמצאת על גרף הפונקציה $f(x)$ אז הנקודה $(x_0,y_0+k)$ תִּמָּצֵא על גרף הפונקציה $g(x)$.
הוספת קבוע מעלה ומורידה את גרף הפונקציה $f(x)$ ב- $k$ יחידות.

- הכפלת פונקציה בקבוע:
בהינתן פונקציה $y=f(x)$ ועליה נקודה כללית $(x_0,y_0)$, הפונקציה $g(x)=k\cdot f(x)$ מתקבלת ע"י הכפלת $f(x)$ בקבוע $k$ $(k\neq 0)$. נקודה על $g(x)$ תהיה מהצורה: $(x_0,k\cdot y_0)$. הכפלת פונקציה בקבוע חיובי מותחת ומכווצת את גרף הפונקציה בצורה אנכית. הכפלת פונקציה בקבוע שלילי מותחת ומכווצת את גרף הפונקציה בצורה אנכית והופכת אותו ביחס לציר ה- $x$.

- הזזת פונקציה ימינה ושמאלה:
כדי להזיז פונקציה $y=f(x)$, $k$ יחידות ימינה נציב: $g(x)=f(x-k)$
וכדי להזיז אותה שמאלה ב- $k$ יחידות נציב: $g(x)=f(x+k)$.

- מתיחה וכיווץ אופקיים של פונקציה:
כדי לכווץ פונקציה כלשהי $y=f(x)$ פי $k$ (מניחים $k>1$) נציב: $g(x)=f(k\cdot x)$.
כדי להרחיב פונקציה כלשהי $y=f(x)$ פי $k$ (מניחים $k>1$) נציב: $g(x)=f(x/k)$.

- שיקוף גרף פונקציה ביחס לציר $y$:
כדי לשקף את גרף הפונקציה $y=f(x)$ סביב ציר ה- $y$ נכפיל את ערך ה- $x$ פי 1-.
הגרפים של הפונקציות $y_1=f(x)$ ו- $y_2=f(-x)$ מהווים שיקוף זה לזה ביחס לציר ה- $y$.

- ערך מוחלט של פונקציה:

הערך המוחלט של: $y=f(x)$, מתקבל ע"י לקיחת ערכי ה- $y$ בגודלם בלבד.

במילים אחרות, הערך המוחלט של $f(x)$ הוא: $y=|f(x)|$. הגרפים של הפונקציות $f(x)$ ו-$|f(x)|$ זהים לחלוטין בערכם החיובי (ז"א בחלקם שמעל לציר ה- $x$) וסימטריים לחלוטין בערכם השלילי ביחס לציר ה- $x$ כאשר הגרף של $f(x)$ נמצא מתחת לציר ה- $x$ והגרף של $|f(x)|$ נמצא מעל לציר ה- $x$.

# הוספת קבוע לפונקציה:

## שאלות:

**1)** סרטט במערכת צירים אחת את גרף הפונקציה $f(x)=x^2$ ואת הגרף $y=f(x)+k$ עבור $k=1$ ו-$k=-4$.

**2)** נתונה הפונקציה: $f(x)=-2x^2$. מגדירים את הפונקציה: $g(x)=f(x)+b$

א. מהו ערך הפרמטר $b$ עבורו גרף הפונקציה $g(x)$ יעבור בנקודה $(2,10)$?

ב. מצא את ערך הפרמטר $b$ עבורו $g(x)$ תקבל ערך מקסימלי של 4.

ג. מצא את ערך הפרמטר $b$ עבורו $g(x)$ תקבל ערך מקסימלי של -3.

**3)** לפניך שלוש גרפים של פונקציות:

$h(x)=x^2-6x+2$ , $g(x)=x^2-6x-2$ , $f(x)=x^2-6x$.

התאם כל גרף מבין הגרפים $a$, $b$ ו-$c$ לכל פונקציה:

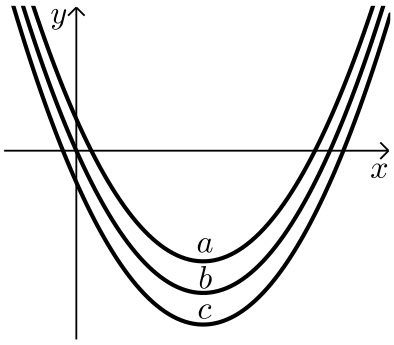


**4)** נתונה הפונקציה: $f(x)=x^3-4x$. מגדירים את הפונקציה: $g(x)=f(x)+A$ כאשר $A$ הוא פרמטר השונה מאפס.

א. הבע באמצעות $A$ את הפונקציה $g(x)$.

ב. מהו $A$ עבורו גרף הפונקציה $g(x)$ יהיה נמוך משל $f(x)$ ב-5 יחידות?

ג. מהו $A$ עבורו גרף הפונקציה $g(x)$ יחתוך את ציר ה-$y$ בנקודה שבה $y=3$?

**5)** נתונות שתי פונקציות: $f(x)=\frac{3-2x}{x}$ ו- $g(x)=\frac{3}{x}$.

א. הראה כי גרף הפונקציה $f(x)$ נמצא מתחת לגרף הפונקציה $g(x)$ לכל ערך של $x$ וחשב בכמה יחידות $f(x)$ מתחת ל- $g(x)$.

ב. כתוב פונקציה שערכיה יהיו גדולים משל $g(x)$ ב-4 יחידות לכל $x$.

**6)** נתונה הפונקציה: $f(x)=\frac{2}{x^2}$. מגדירים את הפונקציה: $g(x)=f(x)+B$ , $B\neq 0$.

א. מהן האסימפטוטות האופקיות של $f(x)$ ושל $g(x)$?

ב. סרטט במערכת צירים אחת באופן איכותי את הגרפים של הפונקציות $f(x)$ ו- $g(x)$ עבור $B>0$.

ג. האם גרף הפונקציה $g(x)$ חותך את ציר ה- $x$ עבור $B>0$? נמק אלגברית וגרפית (היעזר בסעיף הקודם).

ד. מצא את $B$ עבורו גרף הפונקציה $g(x)$ יחתוך את ציר ה- $x$ בנקודה שבה $x=2$ וקבע איזה גרף מבין השנים יהיה מעל השני ובכמה יחידות.

**7)** מצא בכמה יחידות יש להוריד את גרף הפונקציה $f(x)=\frac{x}{x^2+1}$ על מנת שהיא תהיה אי-חיובית בכל תחום הגדרתה.

**8)** הפונקציה: $f(x)=\sqrt{x}+b$ , ( $b$ פרמטר) חותכת את ציר ה- $x$ בנקודה שבה $x=9$.
מצא בכמה יחידות היא נמוכה מהפונקציה: $g(x)=\sqrt{x}$.

**9)** נתונה הפונקציה: $f(x)=\sqrt{9-x^2}$.

א. מצא את תחום ההגדרה של הפונקציה, נקודת הקיצון המקומית שלה ונקודות החיתוך שלה עם הצירים.

ב. מגדירים את הפונקציה $g(x)=f(x)+3$.
סרטט במערכת צירים את הגרפים של הפונקציות $f(x)$ ו- $g(x)$.

**10)** נתונה הפונקציה: $f(x)=\frac{x+b}{(x+a)^2}$ , $a,b\neq 0$ . ידוע כי לפונקציה נקודת קיצון $\left(-1,\frac{1}{4}\right)$.

א. מצא את ערכי הפרמטרים $a$ ו- $b$.

ב. חקור את הפונקציה לפי: תחום ההגדרה, נקודות קיצון וסוגן, תחומי עלייה וירידה, נקודות חיתוך עם הצירים, אסימפטוטות המקבילות לצירים, סרטוט סקיצה.

ג. מגדירים: $g(x)=f(x)+k$ . מצא לאלו ערכי $k$ יהיה גרף הפונקציה $g(x)$ כולו מתחת לציר ה- $x$.

**11)** נתונה הפונקציה: $f(x)=\sin x+b$ .

קבע את הערך של $b$ בכל אחד מהמקרים הבאים:

א.

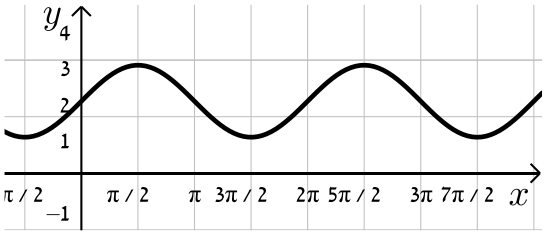


ב.

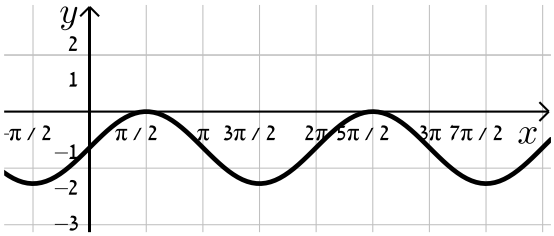


**12)** נתונה הפונקציה: $f(x)=\cos 2x+b$ .

קבע את הערך של $b$ בכל אחד מהמקרים הבאים:

א.

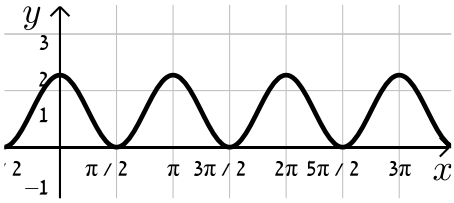


ב.

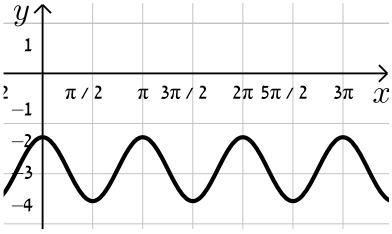


**13)** נתונה הפונקציה $f(x)=\frac{a}{x+1}+\frac{x+1}{x+b}$ , ($a,b$ פרמטרים).

ידוע כי הפונקציה $g(x)=\frac{1}{x^2+3x+2}$ מקיימת: $f(x)=g(x)+k$

כאשר $k$ הוא ערך קבוע כלשהו.

א. מצא את ערכי הפרמטרים $a$ , $b$ ו- $k$.

ב. מצא את נק' הקיצון ואת תחומי העלייה והירידה של שתי הפונקציות.

ג. הראה כי לפונקציות אין נקודות פיתול.

ד. סרטט במערכת צירים אחת את הגרפים של שתי הפונקציות $f(x)$ ו- $g(x)$.
ציין על הגרפים את נקודות הקיצון והחיתוך עם הצירים.

**14)** נתונה הפונקציה הבאה: $f(x)=\frac{\sqrt{x^2+a}}{x+1}$ , $a$ פרמטר.

ידוע כי הפונקציה מקבלת ערך מינימלי של $-\sqrt{2}$.

א. מצא את $a$ וכתוב את הפונקציה $f(x)$.

ב. חקור את הפונקציה לפי: תחום הגדרה, נקודות קיצון וסוגן, תחומי עלייה וירידה, נקודות חיתוך עם הצירים, מציאת אסימפטוטות המקבילות לצירים, סרטוט סקיצה של גרף הפונקציה.

ג. מגדירים פונקציה: $g(x)=f(x)+k$. מצא את הערכים של $k$ עבורם לפונקציה $g(x)$ ולציר ה-$x$ לא יהיו נקודות משותפות כלל.

**15)** נתונה הפונקציה הבאה: $f(x)=\frac{a}{\sqrt{ax^2+2x+2}}$ , $a\neq 0$ פרמטר.

א. עבור אלו ערכים של $a$ הפונקציה מוגדרת לכל $x$?

ב. הבע באמצעות $a$ את נקודת הקיצון של הפונקציה וקבע את סוגה אם נתון שהפונקציה מוגדרת לכל $x$.

ג. ידוע כי לפונקציה: $g(x)=f(x)-a$ יש נקודת קיצון על ציר ה-$x$.
מצא את ערכו של $a$.

**16)** נתונה הפונקציה הבאה: $f(x)=\frac{\sin x+a}{\cos x+1}$ בתחום $-\frac{\pi}{2}<x<\frac{\pi}{2}$, ($a$ פרמטר).

א. עבור אילו ערכים של $a$ אין לפונקציה נקודות קיצון בתחום הנתון.

ב. מגדירים פונקציה נוספת ע"י הוספת הקבוע $k$ באופן הבא: $g(x)=f(x)+k$.
ידוע כי ל-$g(x)$ נקודת קיצון $\left(-\frac{\pi}{4},3\right)$.
מצא את ערכו של הפרמטר $k$.

**17)** נתונה הפונקציה: $f(x)=\frac{x+2}{(2x-1)^2}$.

א. חקור את הפונקציה לפי הסעיפים הבאים:

i. מצא את תחום ההגדרה של הפונקציה.

ii. מצא את נקודות הקיצון של הפונקציה.

iii. מצא את נקודות החיתוך של גרף הפונקציה עם הצירים.

iv. מצא את האסימפטוטות המקבילות לצירים של הפונקציה.

ב. מגדירים פונקציה נוספת: $g(x)=\frac{9x-8x^2}{(2x-1)^2}$.

i. מה הוא תחום ההגדרה של הפונקציה $g(x)$?

ii. מה הן נקודות החיתוך של גרף הפונקציה $g(x)$ עם הצירים?

iii. הראה כי לכל נקודה $A(x_0,y_0)$ שבתחום ההגדרה של $f(x)$, מתקיים: $f(x_0)-g(x_0)=k$ ומצא את $k$.
מה ניתן לומר על הקשר שבין שתי הפונקציות?

ג. סרטט במערכת צירים אחת את הגרפים של שתי הפונקציות.

**18)** נתונה הפונקציה: $f(x)=\frac{\sqrt{x}+a}{\sqrt{x+a}}$, כאשר $a$ הוא פרמטר השונה מאפס.

א. הבע את תחום ההגדרה של $f(x)$ באמצעות $a$ (הבחן בין שני מקרים).

ב. הראה כי לפונקציה $f(x)$ יש נקודת קיצון והבע את סוגה כתלות ב-$a$.

עבור הסעיפים הבאים הנח כי $a=3$.

ג. ענה על הסעיפים הבאים:

i. כתוב את האסימפטוטה האופקית של $f(x)$.

ii. מצא את נקודות החיתוך של $f(x)$ עם הצירים.

iii. סרטט סקיצה של גרף הפונקציה $f(x)$.

ד. מגדירים פונקציה נוספת: $g(x)=\frac{bx+3b+\left(\sqrt{x}+3\right)\sqrt{x+3}+2x+6}{x+3}$.

$b$ פרמטר.

i. הבע באמצעות $b$ את האסימפטוטה האופקית של $g(x)$.

ii. היעזר בסעיפים הקודמים וקבע האם ניתן לכתוב את $g(x)$ באופן הבא: $g(x)=f(x)+k$. אם כן, הבע את $k$ באמצעות $b$.

## תשובות סופיות:

1) סרטוט בסוף.

2) א. $b=18$ ב. $b=4$ ג. $b=-3$.

3) ההתאמה: $h(x)\to a$ , $g(x)\to c$ , $f(x)\to b$.

4) א. $g(x)=x^3-4x+A$ ב. $A=-5$ ג. $A=3$.

5) א. הוכחה. ב. $h(x)=\frac{3+4x}{x}$.

6) א. $g(x)\to y=B$ , $f(x)\to y=0$ ב. סרטוט בסוף ג. לא.

ד. $B=-\frac{1}{2}$. $f(x)$ נמצאת מעל $g(x)$ ב- $\frac{1}{2}$ יחידה.

7) $\frac{1}{2}$ יחידה (לפחות).

8) 3 יחידות.

9) א. תחום הגדרה: $-3\le x\le 3$ , נקודת קיצון: $\max(0,3)$,

נקודות חיתוך עם הצירים: $(0,3)$ , $(3,0)$ , $(-3,0)$ ב. סרטוט בסוף.

10) א. $a=3, b=2$ ב. תחום הגדרה: $x\ne -3$ , נקודת קיצון: $\max\left(-1,\frac{1}{4}\right)$,

עולה: $-3<x<-1$ , יורדת: $-1<x$ , $x<-3$ , חיתוך עם הצירים: $\left(0,\frac{2}{9}\right)$ , $(-2,0)$,

אסימפטוטות: $x=-3$ , $y=0$ ג. $k<-\frac{1}{4}$.

11) א. $b=2$ ב. $b=-1$.

12) א. $b=1$ ב. $b=-3$.

13) א. $a=1, b=2, k=1$ ב. נקודת קיצון של $f(x)$ $\max\left(-1\frac{1}{2},-3\right)$,

נקודת קיצון של $g(x)$ $\max\left(-1\frac{1}{2},-4\right)$. תחום עלייה: $x<-2$ או $-2<x<-1\frac{1}{2}$ ,

תחום ירידה: $-1\frac{1}{2}<x<-1$ או $-1<x$.

ג. סעיף הוכחה, אין נקודות פיתול. ד. סרטוט בסוף.

14) א. $a=-2$. $f(x)=\frac{\sqrt{x^2-2}}{x+1}$.

ב. תחום הגדרה: $x\le-\sqrt{2}$ או $\sqrt{2}\le x$,

נקודת קיצון $\min\left(-2,-\sqrt{2}\right)$ , $\min\left(\sqrt{2},0\right)$ , $\max\left(-\sqrt{2},0\right)$.

תחום עלייה: $\sqrt{2}<x$ או $-2<x<-\sqrt{2}$ , תחום ירידה $x<-2$.

נקודות חיתוך עם הצירים: $\left(\sqrt{2},0\right),\left(-\sqrt{2},0\right)$.

אסימפטוטות: יש אסימפטוטה אופקית $y=1$ כאשר $x\to\infty$ , $y=-1$ כאשר $x\to-\infty$.

סרטוט בסוף.

ג. $k>\sqrt{2}$ או $k\le-1$.

**15)** א. $a>\frac{1}{2}$ ב. $\max\left(-\frac{1}{a},\sqrt{\frac{a^3}{2a-1}}\right)$ ג. $a=1$.

**16)** א. $a=0$ ב. $k=3$.

**17)** א. i. $x\neq0.5$ ii. אין. iii. $(0,2)$ iv. $x=0.5\,,\,y=0$

ב. i. $x\neq0.5$ ii. $\left(\frac{9}{8},0\right)\,,\,(0,0)$ iii. $g(x)=f(x)-2\,,\,k=2$.

**18)** א. $a>0:\ x\ge0\ ,\ a<0:\ x>-a$ ב. אם $a>0$, אז: $\max\left(1,\sqrt{a+1}\right)$

אם: $-1<a<0$ אז: $\min\left(1,\sqrt{a+1}\right)$ אם: $a\le-1$ אז: אין קיצון.

ג. i. $y=1$ ii. $\left(0,\sqrt{3}\right)$ ד. i. $y=b+3$ ii. כן, $k=b+2$.

## סרטוטים מרוכזים לפי מספרי שאלות:

**1)**

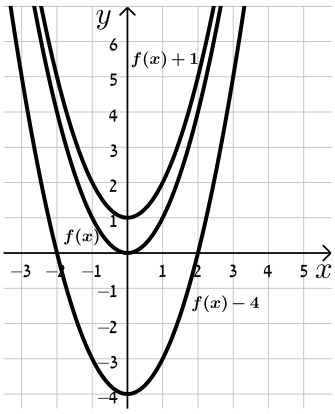


**6)**

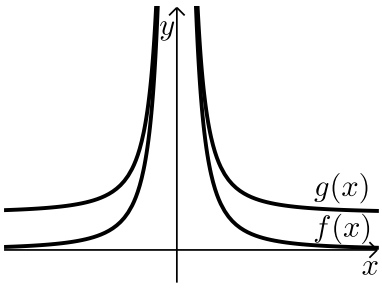


**9)**

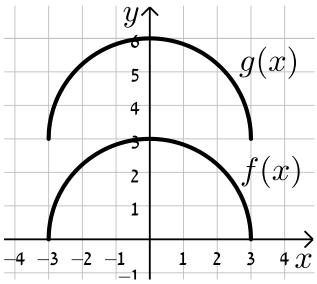


**10)**

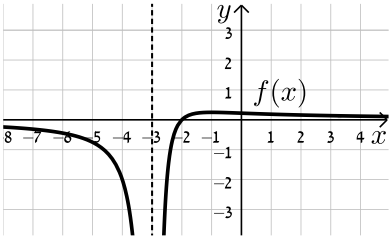

13)

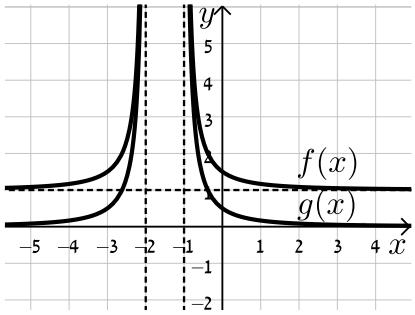


14)

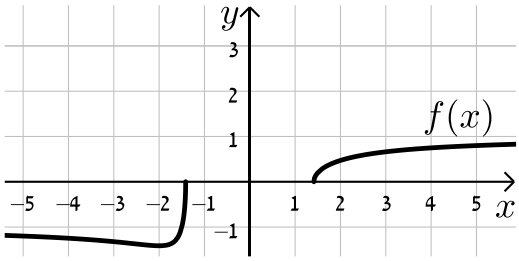


17)

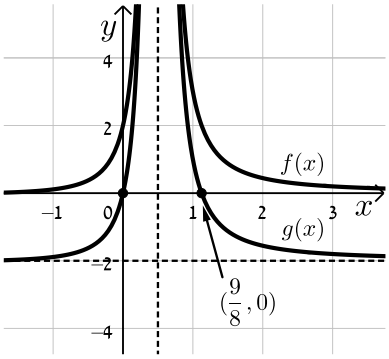


18)

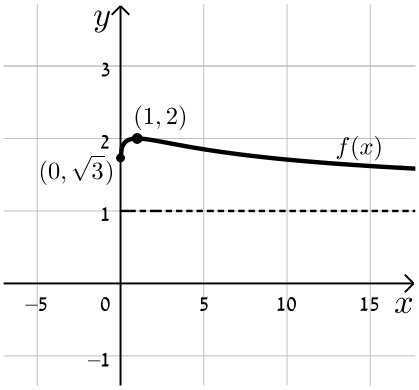

# הכפלת פונקציה בקבוע:

## שאלות:

**19)** סרטט במערכת צירים אחת את הגרפים של הפונקציות:
$f(x)=x^2$ , $g(x)=2x^2$ , $h(x)=4x^2$ .

**20)** סרטט במערכת צירים אחת את הגרפים של הפונקציות:
$f(x)=x^2$ , $g(x)=\frac{1}{2}x^2$ , $h(x)=\frac{1}{4}x^2$ .

**21)** סרטט במערכת צירים אחת את הגרפים של הפונקציות:
$f(x)=x^2$ , $g(x)=-2x^2$ , $h(x)=-\frac{1}{2}x^2$ .

**22)** נתונה הפונקציה הבאה: $f(x)=8-x^3$ .

א. מגדירים פונקציה חדשה: $g_1(x)=m\cdot f(x)$ , $m>1$ .
סרטט במערכת צירים אחת את הגרפים של הפונקציות $f(x)$ ו- $g_1(x)$ .

ב. מגדירים פונקציה חדשה: $g_2(x)=m\cdot f(x)$ , $0<m<1$ .
סרטט במערכת צירים אחת את הגרפים של הפונקציות $f(x)$ ו- $g_2(x)$ .

ג. נסמן ב-A את נקודת החיתוך של גרף הפונקציה $f(x)$ עם ציר ה- $y$ ,
ב- $B_1$ את נקודת החיתוך של גרף הפונקציה $g_1(x)$ עם ציר ה- $y$
וב- $B_2$ את נקודת החיתוך של גרף הפונקציה $g_2(x)$ עם ציר ה- $y$ .

i. מצא את ערך הפרמטר $m$ עבור סעיף א' שמקיים: $y_{B_1}-y_A=24$ .

ii. מצא את ערך הפרמטר $m$ עבור סעיף ב' שמקיים: $y_A-y_{B_2}=4$ .

**23)** נתונה הפונקציה הבאה: $f(x)=\frac{1}{x^2+4x+8}$ .

א. מהו תחום ההגדרה של הפונקציה?

ב. מצא את נקודת הקיצון של הפונקציה וקבע את סוגה.

ג. כתוב את תחומי העלייה והירידה של הפונקציה.

ד. מצא את נקודות החיתוך של $f(x)$ עם הצירים.

ה. מצא את האסימפטוטות של הפונקציה המקבילות לצירים.

ו. סרטט סקיצה של גרף הפונקציה.

ז. מגדירים את הפונקציה: $g(x)=3\cdot f(x)$. ענה על השאלות הבאות:

i. מהו תחום ההגדרה של $g(x)$?

ii. מהן נקודות הקיצון של $g(x)$?

iii. מהם תחומי העלייה והירידה של $g(x)$?

iv. מהם שיעורי נקודות החיתוך של $g(x)$ עם הצירים?

v. מהם האסימפטוטות המקבילות לצירים של $g(x)$?

ח. סרטט על אותה מערכת הצירים את גרף הפונקציה $g(x)$ לצד $f(x)$.

**24)** נתונה הפונקציה הבאה: $f(x)=\frac{1}{x^2+4x+8}$.

א. מהו תחום ההגדרה של הפונקציה?

ב. מצא את נקודת הקיצון של הפונקציה וקבע את סוגה.

ג. כתוב את תחומי העלייה והירידה של הפונקציה.

ד. מצא את נקודות החיתוך של $f(x)$ עם הצירים.

ה. מצא את האסימפטוטות של הפונקציה המקבילות לצירים.

ו. סרטט סקיצה של גרף הפונקציה.

ז. מגדירים את הפונקציה: $g(x)=-2\cdot f(x)$. ענה על השאלות הבאות:

i. מהו תחום ההגדרה של $g(x)$?

ii. מהן נקודות הקיצון של $g(x)$?

iii. מהם תחומי העלייה והירידה של $g(x)$?

iv. מהם שיעורי נקודות החיתוך של $g(x)$ עם הצירים?

v. מהם האסימפטוטות המקבילות לצירים של $g(x)$?

ח. סרטט על אותה מערכת הצירים את גרף הפונקציה $g(x)$ לצד $f(x)$.

**25)** נתונה הפונקציה: $f(x)=\frac{x}{x^2+a}$, $a\neq 0$.

ידוע כי לגרף הפונקציה יש נקודת קיצון עבור $x=1$.

א. מצא את $a$ וכתוב את הפונקציה $f(x)$ ואת תחום הגדרתה.

ב. האם יש ל-$f(x)$ נקודות קיצון נוספות? אם כן מצא אותן וקבע את סוגן.

ג. כתוב את תחומי העלייה והירידה של גרף הפונקציה $f(x)$.

ד. מהן האסימפטוטות המקבילות לצירים של $f(x)$?

ה. סרטט סקיצה של גרף הפונקציה של $f(x)$.

ו. מגדירים את הפונקציה $g(x)=k\cdot f(x)$.
ידוע כי ל-$g(x)$ יש נקודת קיצון $(1,1)$.
מצא את $k$ ואת נקודת הקיצון השנייה של הפונקציה $g(x)$.

ז. מוסיפים קבוע $B$ לפונקציה $g(x)$ כך שמתקבלת הפונקציה $h(x)=g(x)+B$
ובה אחת מנקודות הקיצון נמצאת על ציר ה-$x$.
מצא את כל הערכים האפשריים עבור הקבוע $B$.

**26)** נתונה הפונקציה: $f(x)=4x^3-x$ ומגדירים גם את הפונקציה: $g(x)=-f(x)$.

א. מצא את נקודות הקיצון ונקודות החיתוך עם הצירים של הפונקציה $f(x)$.

ב. סרטט סקיצה של גרף הפונקציה $f(x)$.

ג. התייחס לפונקציות $f(x)$ ו-$g(x)$ וענה על השאלות הבאות:

i. הוכח כי לשתי הפונקציות אותן נקודות חיתוך עם ציר ה-$x$.

ii. מה הקשר בין נקודת החיתוך עם ציר ה-$y$ של כל פונקציה?

iii. מה הקשר בין נקודות הקיצון של כל פונקציה?

iv. האם, ואם כן – כיצד, משתנים תחומי העלייה והירידה של $g(x)$ ביחס ל-$f(x)$? נמק.

**27)** נתונה הפונקציה הבאה: $f(x)=k\cdot\frac{x-1}{x^2+3}$, $k>0$.
ידוע כי הנקודה הגבוהה ביותר על גרף הפונקציה מקיימת: $y=1$.

א. מצא את $k$ וכתוב את הפונקציה $f(x)$.

ב. חקור את הפונקציה לפי: תחום הגדרה, נקודות קיצון וסוגן, תחומי עלייה וירידה, נקודות חיתוך עם הצירים, אסימפטוטות המקבילות לצירים.

ג. סרטט סקיצה של גרף הפונקציה.

ד. הוסף באותו הסרטוט סקיצה של הפונקציה: $g(x)=-f(x)$.

**28)** נתונה הפונקציה: $f(x)=k\sin x$.
באיור שלפניך 3 גרפים שונים.
קבע מה צריך להיות ערכו של הפרמטר $k$
עבורו כל גרף יתאים לפונקציה $f(x)$:

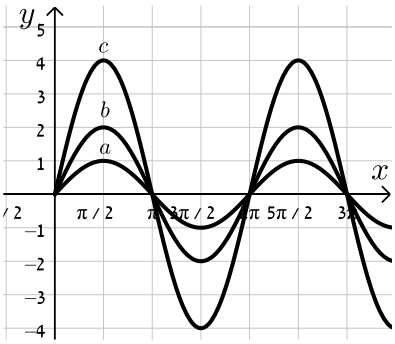

**29)** מהפונקציה $f(x)=\cos x$ בונים פונקציה חדשה $g(x)$ המתקבלת ע"י הכפלת הפונקציה המקורית פי 3 והזזתה כלפי מעלה ב-2 יחידות.

א. סרטט סקיצה של הפונקציה $g(x)$.

ב. בהנחה וסדר הפעולות של יצירת הפונקציה $g(x)$ היה הפוך, כלומר תחילה היינו מזיזים את הפונקציה המקורית כלפי מעלה ב-2 יחידות ורק לאחר מכן הפונקציה הייתה מוכפלת פי 3, האם הפונקציה המתקבלת הייתה זהה לזו שקיבלת בסעיף הקודם? נמק.

## תשובות סופיות:

**19)** סרטוט בסוף.

**20)** סרטוט בסוף.

**21)** סרטוט בסוף.

**22)** א. סרטוט בסוף. ב. סרטוט בסוף. ג. i. $m=4$ ii. $k=\frac{1}{2}$.

**23)** א. תחום הגדרה: כל $x$ ב. נקודת קיצון: $\max\left(-2,\frac{1}{4}\right)$ ג. עולה: $x<-2$

יורדת: $x>-2$ ד. נקודות חיתוך עם הצירים: $\left(0,\frac{1}{8}\right)$

ה. אסימפטוטות: $y=0$ ו. סרטוט בסוף. ז. i. תחום הגדרה: כל $x$.

ii. נקודת קיצון: $\min\left(-2,\frac{3}{4}\right)$ iii. עולה: $x<-2$ , יורדת: $x>-2$

iv. נקודות חיתוך עם הצירים: $\left(0,\frac{3}{8}\right)$ v. אסימפטוטות: $y=0$

ח. סרטוט בסוף.

**24)** א. תחום הגדרה: כל $x$ ב. נקודת קיצון: $\max\left(-2,\frac{1}{4}\right)$ ג. עולה: $x<-2$

יורדת: $x>-2$ ד. נקודות חיתוך עם הצירים: $\left(0,\frac{1}{8}\right)$

ה. אסימפטוטות: $y=0$ ו. סרטוט בסוף. ז. i. תחום הגדרה: כל $x$

ii. נקודת קיצון: $\min\left(-2,-\frac{1}{2}\right)$ iii. עולה: $x>-2$ , יורדת: $x<-2$

iv. נקודות חיתוך עם הצירים: $\left(0,-\frac{1}{4}\right)$ v. אסימפטוטות: $y=0$

ח. סרטוט בסוף.

**25)** א. $a=1$ , $f(x)=\frac{x}{x^2+1}$ , תחום הגדרה: כל $x$

ב. נקודות קיצון: $\min\left(-1,-\frac{1}{2}\right),\max\left(1,\frac{1}{2}\right)$

ג. עולה: $-1<x<1$ , יורדת: $x>1$ , $x<-1$ ד. אסימפטוטות: $y=0$

ה. סרטוט בסוף. ו. $k=2$ , $\min(-1,-1)$ ז. $B=\pm1$.

**26)** א. נקודות קיצון: $\max\left(-\frac{1}{\sqrt{12}},0.192\right),\min\left(\frac{1}{\sqrt{12}},-0.192\right)$ , נקודות חיתוך עם

הצירים: $(0,0)$ , $\left(\frac{1}{2},0\right)$ , $\left(-\frac{1}{2},0\right)$ ב. סרטוט בסוף.

ג. i. הוכחה. ii. זו אותה נקודה.

iii. שיעורי ה-$x$ של נקודות הקיצון זהים, אך שיעורי ה-$y$ הפוכים בסימנם וסוג הקיצון הפוך. iv. כל תחומי העלייה והירידה מתהפכים.

**27)** א. $k=6$ , $f(x)=\frac{6(x-1)}{x^2+3}$

ב. תחום הגדרה: כל $x$ , נקודות קיצון: $\max(3,1)$ , $\min(-1,-3)$ , עולה: $-1<x<3$ ,

יורדת: $x>3$ , $x<-1$ , נקודות חיתוך עם הצירים: $(0,-2)$ , $(1,0)$ , אסימפטוטות: $y=0$ .

ג. סרטוט בסוף. ד. סרטוט בסוף.

**28)** $a:k=1$ , $b:k=2$ , $c:k=4$ .

**29)** א. סרטוט בסוף. ב. לא הייתה מתקבלת אותה הפונקציה.

**סרטוטים מרוכזים לפי מספרי שאלות:**

**19)**

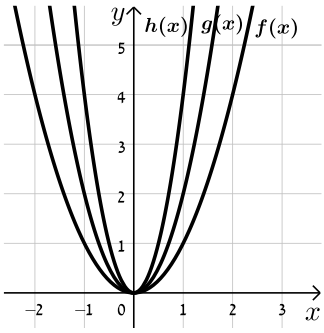


**20)**

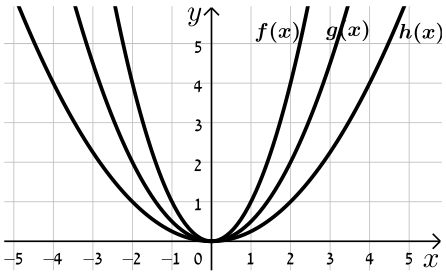


**21)**

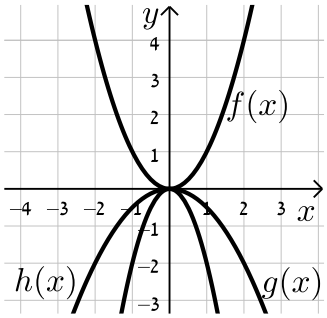


**22)** **סעיף א**

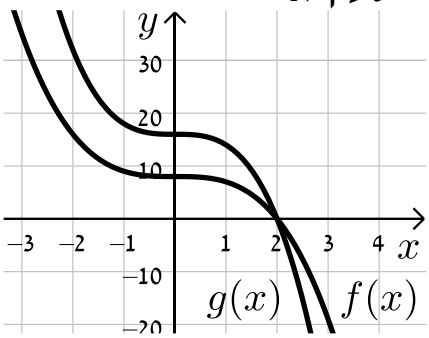


**22)** **סעיף ב**

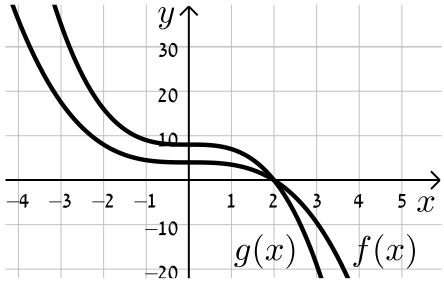


**23)** **סעיף ו**

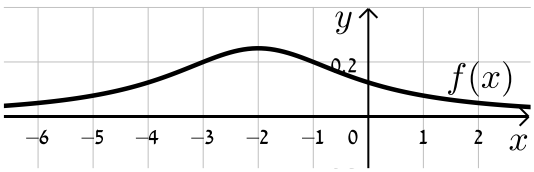

23) סעיף ח

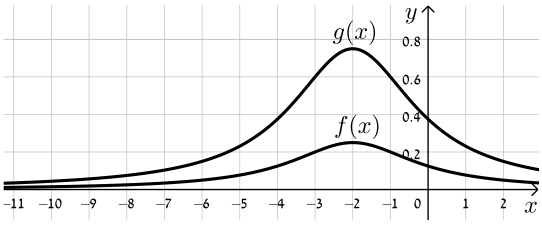


24) סעיף ח

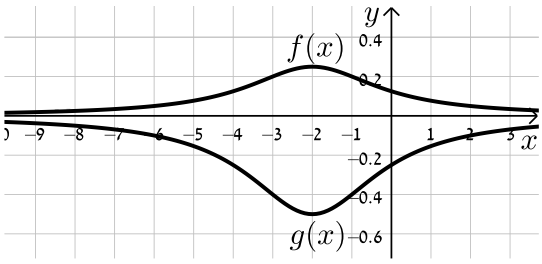


25)

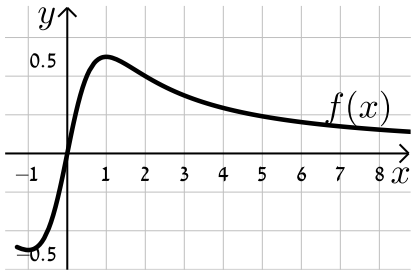


26)

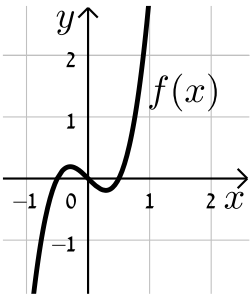


27) סעיף ג

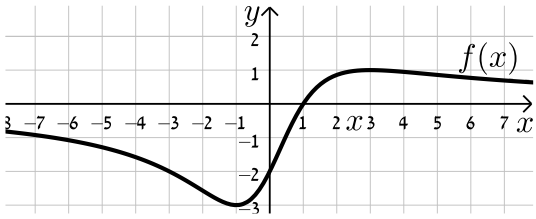


27) סעיף ד

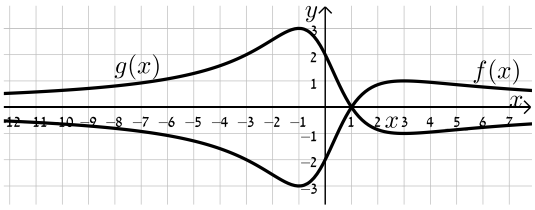


29)

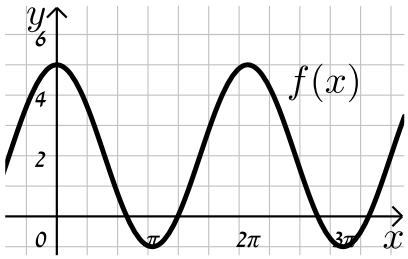

## הזזת פונקציה ימינה ושמאלה:

### שאלות:

**30)** לפניך הפונקציה: $f(x)=x^2$.
סרטט במערכת צירים אחת את גרף הפונקציה $f(x)$ ואת הגרפים של הפונקציות: $g(x)=f(x-2)$ ו- $h(x)=f(x+3)$.

**31)** נתונה הפונקציה: $f(x)=x^2$.
א. כתוב ביטוי מפושט לפונקציה המתקבלת מהזזת $f(x)$ 3 יחידות ימינה ו-4 יחידות למעלה.
ב. כתוב ביטוי מפושט לפונקציה המתקבלת מהזזת $f(x)$ 4 יחידות שמאלה ו-2 יחידות למטה.
ג. כתוב ביטוי מפושט לפונקציה המתקבלת מהזזת $f(x)$ $\frac{1}{2}$ יחידה שמאלה ולמעלה.

**32)** נתונה פונקציה $f(x)=x^2$. מזיזים את הפונקציה ומקבלים: $g(x)=f(x+a)+b$
כאשר $a$ ו- $b$ הם פרמטרים השונים מאפס.
א. מצא את ערכי הפרמטרים $a$ ו- $b$ אם ידוע כי: $g(x)=x^2+2x$.
ב. מצא את ערכי הפרמטרים $a$ ו- $b$ אם ידוע כי: $g(x)=x^2-4x+7$.

**33)** מזיזים את גרף הפונקציה $f(x)=\sqrt{x}$ 5 יחידות ימינה כך שמתקבלת הפונקציה $g(x)$.
א. כתוב באופן מפורש את הפונקציה $g(x)$.
ב. מצא בכמה יחידות יש להזיז את גרף הפונקציה $f(x)$ שמאלה על מנת שיחתוך את ציר ה- $y$ בנקודה שבה $y=1$.

**34)** נתונה הפונקציה: $f(x)=\frac{x^2-3x}{x+1}$.
א. כתוב את תחום ההגדרה של $f(x)$ ואת האסימפטוטות המקבילות לצירים.
ב. מצא את שיעורי נקודות הקיצון של הפונקציה וקבע את סוגן.
ג. כתוב את תחומי העלייה והירידה של הפונקציה.
ד. מצא את נקודות החיתוך של גרף הפונקציה עם הצירים.

ה. סרטט סקיצה של גרף הפונקציה.

ו. מגדירים את הפונקציה: $g(x)=f(x-1)$.

i. כתוב באופן מפורש את הפונקציה $g(x)$.

ii. על סמך ממצאיך מהסעיפים הקודמים, סרטט את גרף הפונקציה $g(x)$.

**35)** לפניך הפונקציה: $f(x)=\frac{x^3}{x-4}$.

א. חקור את הפונקציה לפי הסעיפים הבאים:

i. מציאת תחום ההגדרה של הפונקציה.

ii. נקודות קיצון של הפונקציה וקביעת סוגן.

iii. תחומי עלייה וירידה של גרף הפונקציה.

iv. מציאת נקודות חיתוך עם הצירים.

v. מציאת אסימפטוטות המקבילות לצירים.

vi. סרטוט סקיצה של גרף הפונקציה.

ב. סרטט את גרף הפונקציה $g(x)=\frac{(x+2)^3}{x-2}$ על סמך הסעיפים הקודמים.

**36)** מזיזים את הפונקציה: $f(x)=\sin x+\cos x$ במספר יחידות $a$ כך שיש לה נקודת מקסימום על ציר ה- $y$.

א. מצא בכמה יחידות יש להזיז את הפונקציה $f(x)$ על מנת שתקיים את הדרישה וקבע האם התזוזה היא ימינה או שמאלה. נמק.
האם קיים רק ערך אחד של הפרמטר $a$ אשר מקיים את דרישה זו?

ב. היעזר בזהות: $\cos\alpha+\cos\beta=2\cos\frac{\alpha+\beta}{2}\cos\frac{\alpha-\beta}{2}$ והראה כי הפונקציה המוזזת יכולה להיות מיוצגת ע"י $g(x)=k\cos x$ ומצא את ערך הפרמטר $k$.

## תשובות סופיות:

**30)** סרטוט בסוף.

**31)** א. $g(x)=x^2-6x+13$ ב. $g(x)=x^2+8x+14$ ג. $g(x)=x^2+x+\frac{3}{4}$.

**32)** א. $a=1\,,\,b=-1$ ב. $a=-2\,,\,b=3$.

**33)** א. $g(x)=\sqrt{x-5}$ ב. 1.

**34)** א. תחום הגדרה: $x\neq-1$, אסימפטוטות: $x=-1$

ב. נקודות קיצון: $\min(1,-1)\,,\,\max(-3,-9)$

ג. עולה: $x>1\,,\,x<-3$ , יורדת: $-1<x<1\,,\,-3<x<-1$

ד. נקודות חיתוך עם הצירים: $(0,0)\,,\,(3,0)$

ה. סרטוט בסוף ו. i. $g(x)=\frac{x^2-5x+4}{x}$ ii. סרטוט בסוף.

**35)** א. i. תחום הגדרה: $x\neq4$ ii. נקודת קיצון: $\min(6,108)$

iii. עולה: $x>6$ , יורדת: $4<x<6\,,\,x<4$

iv. נקודות חיתוך עם הצירים: $(0,0)$

v. אסימפטוטות: $x=4$ vi. סרטוט בסוף ב. סרטוט בסוף.

**36)** א. $\frac{\pi}{4}$ יחידות. ב. $k=\sqrt{2}$

### סרטוטים מרוכזים לפי מספרי שאלות:

**30)**

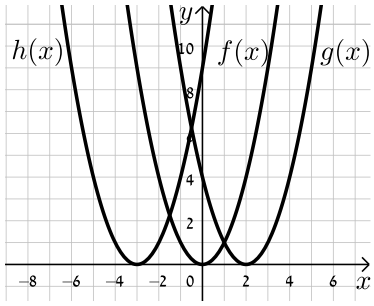


**34) סעיף ה**

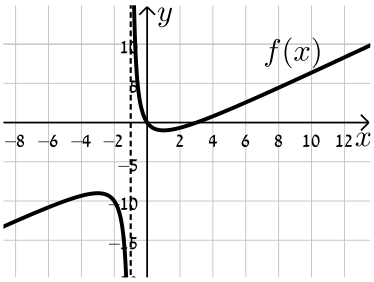


**34) סעיף ו.ii**

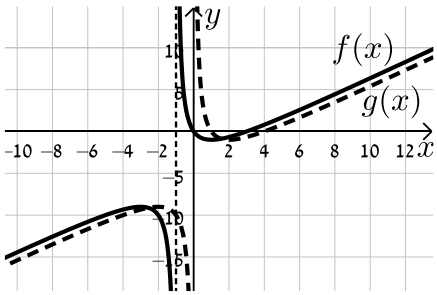


**35) סעיף א.iv**

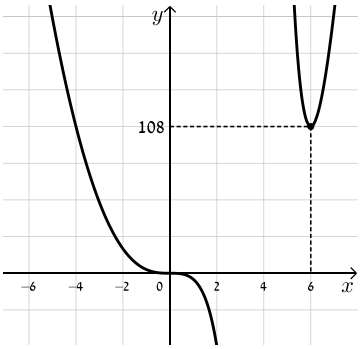

**35) סעיף ב**

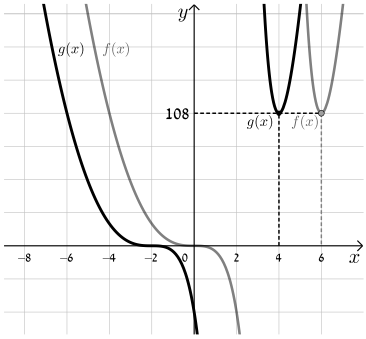

# מתיחה וכיווץ של פונקציה:

## שאלות:

**37)** נתונה הפונקציה: $f(x)=x^2$. כתוב באופן מפורש וסרטט במערכת צירים אחת את הפונקציות הבאות: $g(x)=f(2x)$, $h(x)=f\left(\frac{x}{2}\right)$.

**38)** נתונה הפונקציה: $f(x)=6x-2x^2$. כתוב באופן מפורש וסרטט במערכת צירים אחת את הפונקציות הבאות: $g(x)=f(2x)$, $h(x)=f\left(\frac{x}{4}\right)$.

**39)** נתונה הפונקציה: $f(x)=12x-3x^3$. רוצים לכווץ את הפונקציה כך שנקודת החיתוך החיובית שלה עם ציר ה- $x$ תקטן פי 4. כתוב פונקציה מפושטת המתארת את הכיווץ הנ"ל.

**40)** הפונקציה: $f(x)=\frac{x^4-8x}{16}$ חותכת את ציר ה- $x$ בחלקו החיובי בנקודה A.
מצא כיווץ של הפונקציה כך ששיעורי הנקודה A יהיו $(1,0)$.

**41)** נתונה הפונקציה: $f(x)=6x-x^2$. רוצים לכווץ אותה פי $k$ כך שנקודת החיתוך שלה עם ציר ה- $x$ שאינה ראשית הצירים תקטן פי 3. נסמן את הפונקציה המכווצת ב- $g$.

א. מצא את ערכו של הפרמטר $k$.

ב. כתוב את הפונקציה המכווצת $g(x)$ בצורה מפורשת.

ג. סרטט את הפונקציות $f(x)$ ו- $g(x)$ באותה מערכת צירים.

ד. הראה כיצד משתנה נקודת הקיצון במקרה זה.

**42)** גרף הפונקציה $f(x)=\sqrt{ax-x^2}$ , $a\neq 0$ חותך את ציר ה-$x$ בנקודה A שאינה בראשית הצירים, וגרף הפונקציה $g(x)=f(4x)$ חותך את ציר ה-$x$ בנקודה B שאינה בראשית הצירים. ידוע כי $x_B=3$ .

א. מצא את ערך הפרמטר $a$ וחקור את הפונקציה $f(x)$ לפי הסעיפים הבאים:

i. תחום הגדרה.

ii. נקודות קיצון (מקומיות ומוחלטות אם ישנן) וקביעת סוגן.

iii. תחומי עלייה וירידה.

iv. סרטוט סקיצה של גרף הפונקציה.

ב. היעזר בתוצאות הסעיף הקודם וסרטט סקיצה של גרף הפונקציה $g(x)$ .
נמק כל שלב בקביעותיך.

**43)** מותחים את הפונקציה $f(x)=\sqrt{4-3x-x^2}$ פי $k$ , $(k>1)$ כך שמתקבלת הפונקציה $g(x)$ . ידוע כי תחום ההגדרה של $g(x)$ הוא: $-16\le x\le 4$ .

א. מצא את $k$ .

ב. האם לגרפים של הפונקציות $f(x)$ ו-$g(x)$ אותה נקודת קיצון מקומית?
אם כן – מהי? אם לא – נמק קביעותיך.

**44)** נתונה הפונקציה: $f(x)=\dfrac{3}{x^2+8x+12}$ ומגדירים את: $g(x)=f(x/4)$ ו- $h(x)=f(3x)$ .

א. חקור את $f(x)$ לפי: תחום הגדרה, אסימפטוטות המקבילות לצירים, נקודות חיתוך עם הצירים, נקודות קיצון וסוגן, תחומי עלייה וירידה.

ב. היעזר בסעיפים הקודמים וענה על השאלות הבאות:

i. מהו הקשר בין האסימפטוטות של הפונקציות $g(x)$ ו-$h(x)$ לבין האסימפטוטות של הפונקציה $f(x)$ ?

ii. מהו הקשר בין נקודות הקיצון של הפונקציות $g(x)$ ו-$h(x)$ לבין נקודות הקיצון של הפונקציה $f(x)$ ?

ג. סרטט במערכת צירים אחת את הגרפים של $f(x)$ ושל $g(x)$ ו-$h(x)$ .

**45)** נתונה הפונקציה: $f(x)=\frac{1}{a\sin^2 x+1}$ , $a>0$.

א. מצא את ערך הפרמטר $a$ אם ידוע כי לפונקציה ערך מינימלי של $\frac{1}{5}$.

ב. הראה כי לפונקציה נקודות מקסימום המקיימות: $x_{\max}=\pi k$ , $k$ שלם.
וכי הערך המירבי של הפונקציה הוא 1.

ג. מגדירים פונקציה: $g(x)=B\cdot f(x/m)$ אשר מקיימת:

i. נקודות המקסימום של הפונקציה מקיימות: $x_{\max}=\frac{\pi}{2}k$ , $k$ שלם

ii. הערך המירבי של הפונקציה הוא 2.
מצא את ערכי הפרמטרים $m$ ו- $B$.

## תשובות סופיות:

37) $g(x)=4x^2$ , $h(x)=\frac{x^2}{4}$ .

38) $g(x)=12x-8x^2$ , $h(x)=1\frac{1}{2}x-\frac{x^2}{8}$ .

39) $f(4x)=48-192x^3$ .

40) $f(2x)=x^4-x$ .

41) א. $k=3$ ב. $g(x)=18x-9x^2$ ג. סרטוט בסוף

ד. ערך ה-$x$ של נקודת הקיצון מתכווץ פי 3 (במקום $\max(3,9)$ הופך ל-$\max(1,9)$).

42) א. $a=12$ i. תחום הגדרה: $0\le x\le 12$ ii. נקודת קיצון: $\min(12,0)$

קצה, $\max(6,6)$ , $\min(0,0)$ קצה, iii. עולה: $0<x<6$ , יורדת:

$6<x<12$ iv. סרטוט בסוף ב. סרטוט בסוף.

43) א. $k=4$ ב. לגרפים אין את אותה נקודת קיצון. ערך ה-$x$ של נקודת

הקיצון של $g(x)$ גדל פי 4 ביחס ל-$f(x)$ (מ-$x_{\max}=-1.5$ ל-$x_{\max}=-6$) עקב חלוקת

ה-$x$ ב-4, כמו כל הנקודות בפונקציה (וערך ה-$y$ נותר ללא שינוי).

44) א. תחום הגדרה: $x\ne -2,-6$ , אסימפטוטות: $y=0$ , $x=-2,-6$ , נקודות חיתוך עם

הצירים: $\left(0,\frac{1}{4}\right)$ , נקודת קיצון: $\max\left(-4,-\frac{3}{4}\right)$ , עולה: $-6<x<-4$ , $x<-6$

יורדת: $x>-2$ , $-4<x<-2$ ב. i. האסימפטוטה האופקית

נותרת ללא שינוי. האסימפטוטות האנכיות משתנות ב-$g(x)$ הן מוכפלות ב-4

וב-$h(x)$ הן מחולקות ב-3. ii. ערך ה-$x$ של נקודת הקיצון

משתנה: ב-$g(x)$ הוא מוכפל ב-4 וב-$h(x)$ הוא מחולק ב-3. ערך ה-$y$ של נקודת

הקיצון נותר ללא שינוי וכך גם סוג הקיצון. ג. סרטוט בסוף.

45) א. $a=4$ ב. הוכחה. ג. i. $(0,2)$ ii. $B=2$ , $m=\frac{1}{2}$ .

### סרטוטים מרוכזים לפי מספרי שאלות:

37)

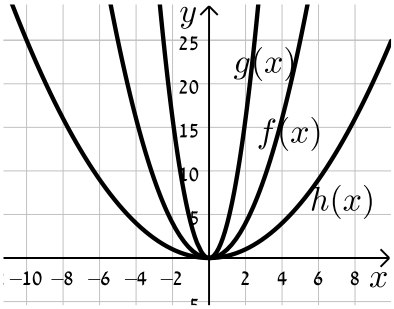


38)

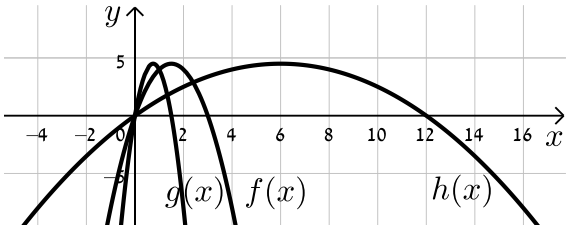

41)

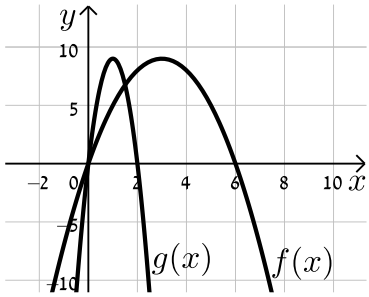


42) סעיף א.iv

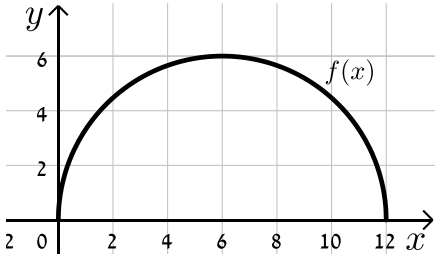


42) סעיף ב

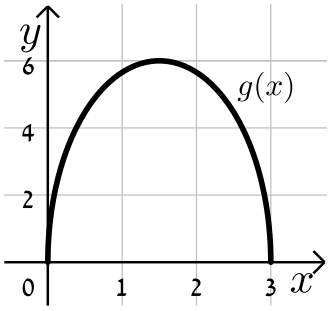


44)

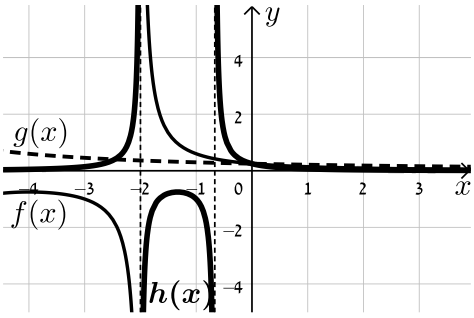

# היפוך גרף פונקציה ביחס לציר y:

## שאלות:

**46)** סרטט במערכת צירים אחת את הפונקציות: $f(x)=(x-2)^2$ ו- $g(x)=f(-x)$
והראה כי ציר ה- $y$ מהווה את ציר הסימטריה בין הגרפים.

**47)** שקף כל אחת מהפונקציות הבאות וכתוב ביטוי מפושט לכל אחת מהן:

א. $f(x)=x^3+2x-1$ .

ב. $f(x)=\frac{x}{x+3}$ .

ג. $f(x)=\sqrt{4x-x^2}$ .

**48)** לפניך סרטוטים של פונקציות שונות.
הוסף לכל מערכת צירים גרף משוקף ביחס לציר ה- $y$ .

א.

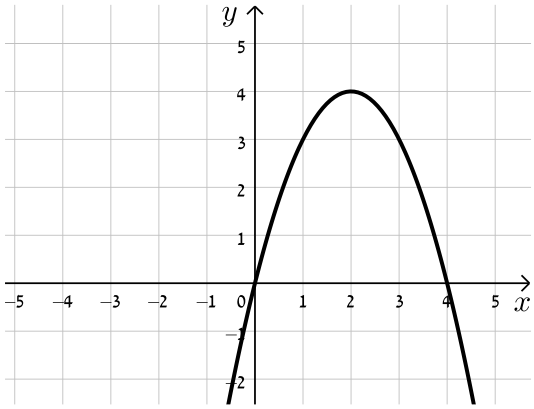

ב.

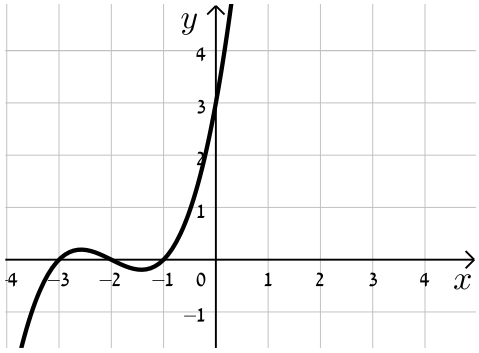

ג.

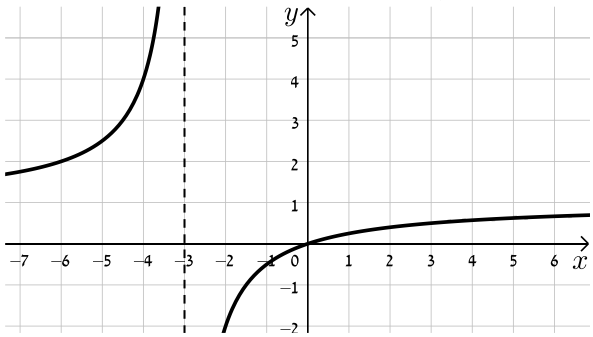

ד.

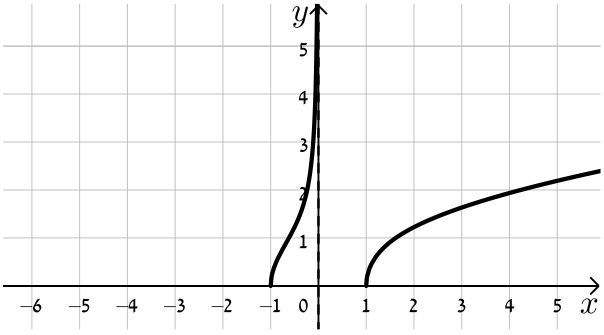

**49)** נתונה הפונקציה: $f(x)=x^4-3x^3+2x^2$.

א. מצא את נקודות החיתוך של גרף הפונקציה $f(x)$ עם ציר ה-$x$.

ב. שקף את הפונקציה וכתוב ביטוי מפושט של הפונקציה המתקבלת.

ג. הראה כי נקודות החיתוך עם ציר ה-$x$ של הגרפים של הפונקציות $f(x)$ ושל הפונקציה המשוקפת שלה הם מספרים נגדיים.

**50)** נתונה הפונקציה: $f(x)=\sqrt{10x-x^2}$.

סרטט במערכת צירים אחת את הגרפים של הפונקציות $f(x)$ , $g(x)=f(-x)$ ו-$h(x)=-f(x)$ והסבר איזה ציר מהווה סימטריה בכל מקרה ביחס ל-$f(x)$.

**51)** הראה כי הפונקציה $f(x)=x^4+\sqrt{x^2+1}$ זהה לפונקציה $g(x)=f(-x)$ והסבר מה ניתן לומר על הגרפים של הפונקציות הללו ועל הסימטריה שלהן זו לזו ביחס לציר ה-$y$.

**52)** נתונה הפונקציה: $f(x)=\dfrac{18\sqrt{x}}{x^2+7x+10}$.

א. מצא את תחום ההגדרה של הפונקציה.

ב. מצא את נקודות הקיצון של הפונקציה ואת תחומי העלייה והירידה שלה.

ג. הראה כי הפונקציה חותכת את הצירים רק בראשית הצירים וכי ציר ה-$x$ הוא האסימפטוטה האופקית שלה.

ד. סרטט סקיצה של גרף הפונקציה.

ה. לפניך מספר פונקציות:

- $g_1(x)=f(-x)$.
- $g_2(x)=k\cdot f(x)+B$ כאשר: $k>1\,,\,B\neq 0$.
- $g_3(x)=-f(ax)$ כאשר: $a>1$.

באיור שלפניך מופיעים הגרפים של שלוש הפונקציות. התאם כל גרף לכל פונקציה ומצא את ערכי הפרמטרים $a\,,\,k$ ו-$b$ על בסיס הנתונים המספריים.

נמק.

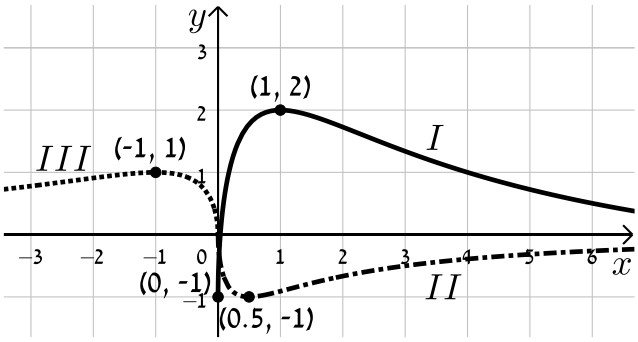

**53)** נתונה הפונקציה: $f(x)=\frac{(x-a)^2}{(x-b)^3}$ , $a\cdot b<0$.

מגדירים פונקציה נוספת $g(x)$ המקיימת: $g(x)=f(ax)$.

א. בטא באמצעות $a$ ו-$b$ את תחום ההגדרה של הפונקציה $g(x)$.

ב. מהן האסימפטוטות המאונכות לצירים של הפונקציה $g(x)$?

ג. הוכח כי לפונקציה $g(x)$ נקודת קיצון $(x_0,y_0)$ המקיימת: $x_0>3$.

ד. נתון כי $x_0=7$. מצא את משוואת האסימפטוטה האנכית של הפונקציה (ללא פרמטרים).

ה. נתון כי $y_0=-\frac{4}{81}$.

i. מצא את ערכי הפרמטרים $a$ ו-$b$.

ii. סרטט במערכת צירים אחת את הגרפים של הפונקציות $f(x)$ ו-$g(x)$.

היעזר בהגדרת הפונקציה $g(x)$.

**54)** נתונה הפונקציה: $f(x)=\frac{2x}{2\sqrt{x-2}-2x+1}$.

א. מה הוא תחום ההגדרה של $f(x)$?

ב. מצא את האסימפטוטות המקבילות לצירים של $f(x)$.

ג. מצא את נקודת הקיצון של $f(x)$ ורשום את תחומי העלייה והירידה שלה.

ד. סרטט סקיצה של גרף הפונקציה $f(x)$.

ה. מגדירים את הפונקציות: $g(x)=f(ax)$ ו-$h(x)=f(x+a)$, $a$ פרמטר.

הנח $a=1.5$ וענה על הסעיפים הבאים:

i. האם לכל הגרפים אותו תחום הגדרה? נמק.

ii. האם לכל הגרפים אותו סוג קיצון? נמק.

iii. לאיזה מבין הגרפים של הפונקציות הנ"ל תהיה נקודת קיצון בעלת שיעור $x$ הקטן ביותר ולאיזה תהיה נקודת קיצון בעלת שיעור $x$ הגדול ביותר? נמק איכותית.

## תשובות סופיות:

**46)** סרטוט בסוף.

**47)** א. $f(-x)=-x^3-2x-1$ ב. $f(-x)=\frac{x}{x-3}$ ג. $f(-x)=\sqrt{-4x-x^2}$ .

**48)** סרטוט בסוף.

**49)** א. $(0,0)$ , $(1,0)$ , $(2,0)$ ב. $f(-x)=x^4+3x^3+2x^2$ ג. הוכחה.

**50)** סרטוט בסוף. ציר ה- $y$ מהווה את ציר הסימטריה בין $f(x)$ ל-$g(x)$ וציר ה-$x$ מהווה את ציר הסימטריה בין $f(x)$ ל-$h(x)$.

**51)** הפונקציות זהות. עבור שתיהן ציר ה- $y$ מהווה ציר סימטריה.

**52)** א. תחום הגדרה: $0\le x$ ב. נקודות קיצון: $\max(1,1)$ , $\min(0,0)$ קצה,
עולה: $0<x<1$ , יורדת: $x>1$ ג. הוכחה. ד. סרטוט בסוף.
ה. $g_1(x)\leftrightarrow III$ , $g_2(x)\leftrightarrow I$ , $g_3(x)\leftrightarrow II$ , $k=3, B=-1, a=2$.

**53)** א. תחום ההגדרה: $x\ne\frac{b}{a}$ ב. אסימפטוטות מאונכות: $y=0$ , $x=\frac{b}{a}$
ג. הוכחה ד. $x=-2$ ה. i. $a=-1$ , $b=2$
ii. סרטוט בסוף.

**54)** א. $2\le x$ ב. אסימפטוטות מקבילות: $y=-1$
ג. נקודות קיצון: $\min(3,-2)$, $\max\left(2,-1\frac{1}{3}\right)$, תחום עלייה: $3<x$,
תחום ירידה: $2<x<3$ ד. סרטוט בסוף.
ה. i. לא: $h(x)x\ge\frac{1}{2}$ , $g(x):x\ge1\frac{1}{3}$ , $f(x):x\ge2$ ii. כן.
iii. ל-$f(x)$ השיעור הגבוה ביותר, ל-$h(x)$ השיעור הקטן ביותר.

## סרטוטים מרוכזים לפי מספרי שאלות:

**46)**

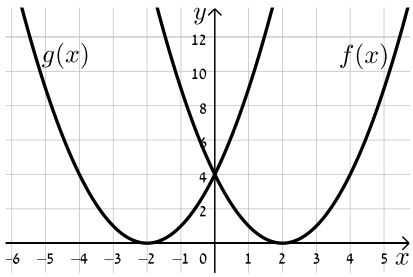


**48) סעיף א**

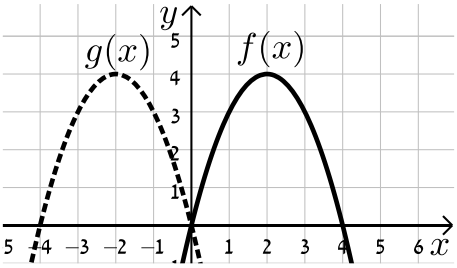

48) סעיף ב

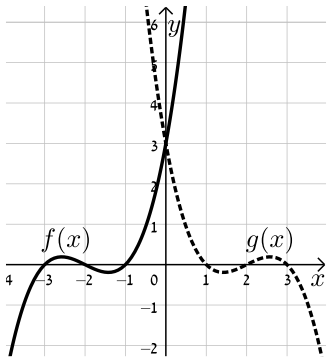


48) סעיף ג

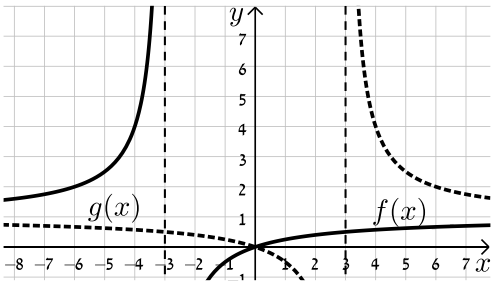


49) סעיף ד

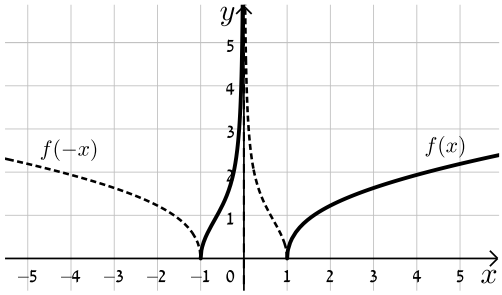


50)

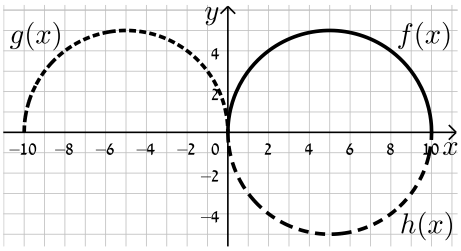


52)

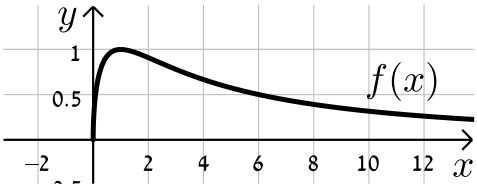


53)

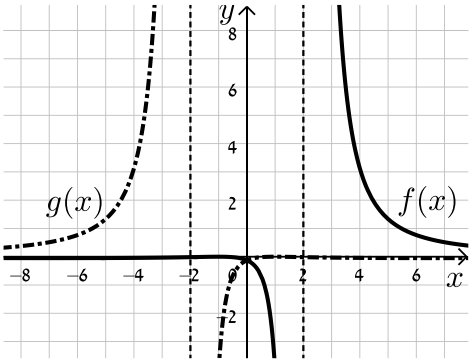


54)

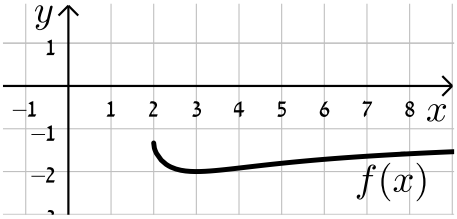

# ערך מוחלט של פונקציה:

## שאלות:

**55)** נתונות הפונקציות: $f(x)=x$ ו- $g(x)=|x|$.

א. מצא את נקודת החיתוך של הגרפים עם ציר ה- $x$.

ב. סרטט את שני הגרפים במערכת צירים אחת והסבר מה ההבדל ביניהם.

ג. כיצד ישתנו הגרפים עבור: $f(x)=x-2$?

ד. כיצד ישתנו הגרפים עבור: $f(x)=3(x-2)$?

ה. כיצד ישתנו הגרפים עבור: $f(x)=3x-2$?

**56)** סרטט במערכת צירים אחת את זוגות הפונקציות הבאות:

א. $f(x)=x^2-2x$ ו- $g(x)=|x^2-2x|$.

ב. $f(x)=x^3$ ו- $g(x)=|x^3|$.

ג. $f(x)=\frac{1}{x}$ ו- $g(x)=\left|\frac{1}{x}\right|$.

**57)** סרטט את הגרפים של הפונקציות: $f(x)=\tan x$ ו- $g(x)=|\tan x|$.

**58)** נתונה הפונקציה: $f(x)=\frac{1}{x}$ ועליה מבצעים את הפעולות הבאות:

- מזיזים את הפונקציה $f(x)$ ב-3 יחידות ימינה.
- מורידים 4 יחידות מערך הפונקציה.
- לוקחים את הערך המוחלט של הפונקציה.

א. סרטט סקיצה של גרף הפונקציה המתקבלת.

ב. האם תשתנה התוצאה אם נחליף בין שתי הפעולות הראשונות?

**59)** נתונה הפונקציה: $f(x)=\frac{ax+2}{x^2+ax+6}$ , $a\neq 0$.

באיור שלפניך מתואר גרף הפונקציה $g(x)=|f(x)|$.

מצא את ערכו של הפרמטר $a$.

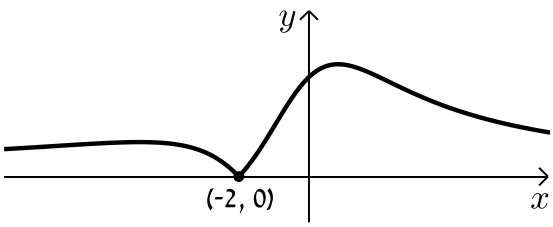

**60)** לפניך הפונקציה הבאה: $f(x)=\frac{x-1}{\sqrt{x}}$.

א. חקור את הפונקציה לפי הסעיפים הבאים:

i. תחום הגדרה.

ii. נקודות קיצון מקומיות וקצה (אם ישנן).

iii. תחומי עלייה וירידה.

iv. נקודות חיתוך עם הצירים (אם ישנן).

v. סרטט סקיצה של גרף הפונקציה.

ב. הוסף לאותה מערכת הצירים את הסקיצה של גרף הפונקציה: $g(x)=|f(-x)|$.
נמק את שיקוליך.

**61)** נתונה הפונקציה: $f(x)=\frac{\cos x}{\sin x+1}$ בתחום $[-2\pi:2\pi]$.

א. הראה כי הפונקציה יורדת בכל תחום הגדרתה.

ב. מצא את נקודות החיתוך של גרף הפונקציה עם הצירים.

ג. נתון כי לפונקציה יש שתי אסימפטוטות אנכיות בתחום הנתון.
מצא את משוואותיהן.

ד. סרטט סקיצה של גרף הפונקציה.

ה. קבע בכמה נקודות חותך הישר $y=1$ את גרף הפונקציה $|f(x)|$ בתחום הנתון.
מצא את נקודות החיתוך.

## תשובות סופיות:

**55)** א. $(0,0)$ ב. סרטוט בסוף.

**56)** א. סרטוט בסוף. ב. סרטוט בסוף. ג. סרטוט בסוף

**57)** סרטוט בסוף.

**58)** א. סרטוט בסוף ב. התוצאה לא תשתנה.

**59)** $a=1$.

**60)** א. i. תחום הגדרה: $0<x$ ii. נקודת קיצון: אין.

iii. עולה: $x>0$ iv. נקודות חיתוך עם הצירים: $(1,0)$

v. סרטוט בסוף ב. סרטוט בסוף.

**61)** א. הוכחה. ב. $\left(-\frac{3\pi}{2},0\right)$ , $\left(\frac{\pi}{2},0\right)$ , $(0,1)$ ג. $-\frac{\pi}{2}$ , $x=\frac{3\pi}{2}$

ד. סרטוט בסוף. ה. 2 נקודות: $(\pi,-1)$ , $(-\pi,-1)$.

## סרטוטים מרוכזים לפי מספרי שאלות:

**55)**

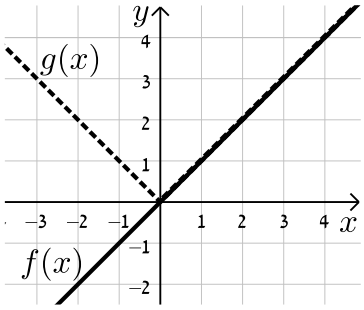


**56) סעיף א**

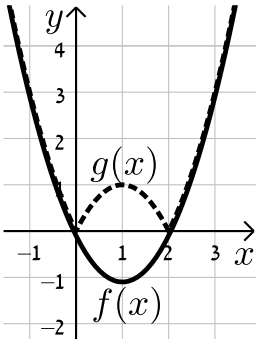


**56) סעיף ב**

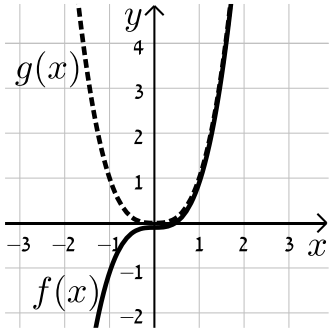


**56) סעיף ג**

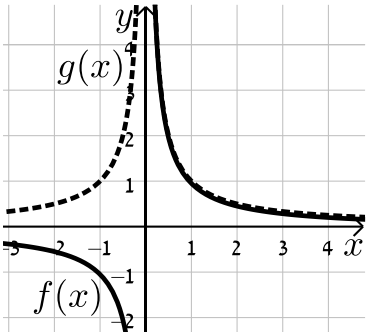

57)

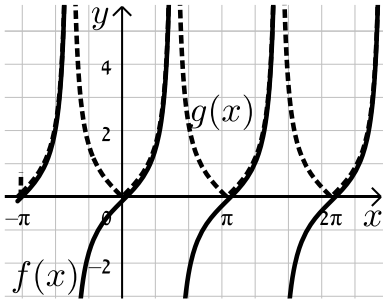


58)

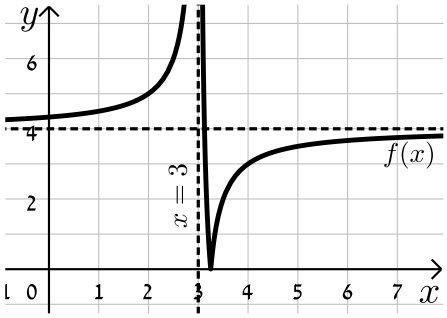


60) סעיף א. v

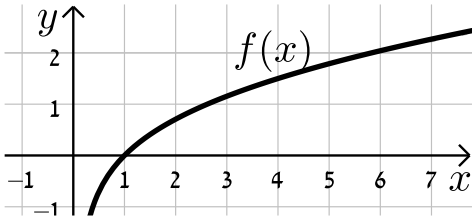


60) סעיף ב

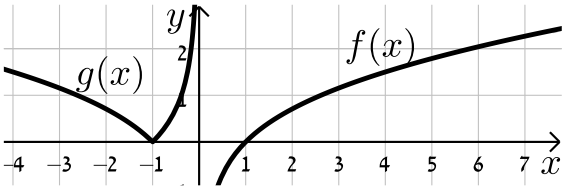


61)

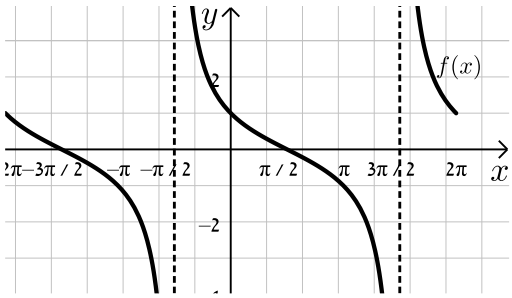

# קורס קדם במתמטיקה למהנדסים

## פרק 29 - חשבון דיפרנציאלי - פונקציות מעריכיות

תוכן העניינים

1. הנגזרת של פונקציה מעריכית ..... 447
2. שימושי הנגזרת ..... 451
3. חקירה של פונקציה מעריכית ..... 452

# הנגזרת של פונקציה מעריכית:

## סיכום כללי:

### הגדרות כלליות:

להלן תיאורים גרפיים של פונקציה מעריכית כללית מהצורה: $f(x)=a^x$

עבור: $a>1$ ו-$0<a<1$:

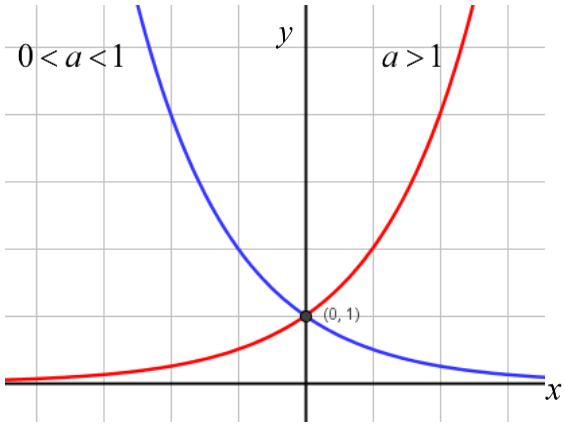


### תכונות כלליות:

1. הפונקציות מוגדרות לכל $x$.
2. הפונקציות תמיד חיוביות.
3. הפונקציות תמיד חותכות את ציר ה- $y$ בנקודה: $(0,1)$.
4. עבור: $a>1$ הפונקציה עולה בכל ת.ה. ועבור: $0<a<1$ הפונקציה יורדת בכל ת.ה.

עבור הפונקציות $f(x)=e^x$ ו- $f(x)=e^{-x}$ נקבל:

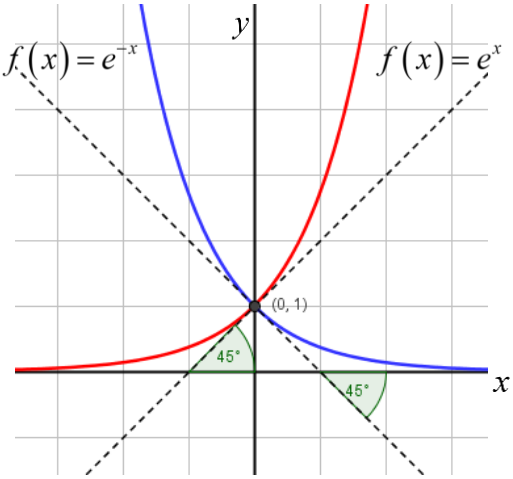

**תכונות נוספות:**

1. שיפוע המשיק לגרף הפונקציה $f(x)=e^x$ בנקודת החיתוך עם ציר ה- $y$ הוא 1.
2. שיפוע המשיק לגרף הפונקציה $f(x)=e^{-x}$ בנקודת החיתוך עם ציר ה- $y$ הוא 1-.

**נגזרות של פונקציות מעריכיות:**

| הפונקציה | הנגזרת |
|---|---|
| $y=a^x$ | $y'=a^x\cdot\ln a$ |
| $y=a^{f(x)}$ | $y'=a^{f(x)}\cdot f'(x)\cdot\ln a$ |
| $y=e^x$ | $y'=e^x$ |
| $y=e^{f(x)}$ | $y'=e^{f(x)}\cdot f'(x)$ |

**תזכורת - כללי הגזירה:**

| מספר כלל | הפונקציה | תיאור | הנגזרת |
|---|---|---|---|
| .1 | $y=a\cdot f(x)$ | מכפלה בקבוע | $y'=a\cdot f'(x)$ |
| .2 | $y=f(x)+g(x)$ | סכום פונקציות | $y'=f'(x)+g'(x)$ |
| .3 | $y=f(x)\cdot g(x)$ | מכפלת פונקציות | $y'=f'(x)\cdot g(x)+f(x)\cdot g'(x)$ |
| .4 | $y=\frac{f(x)}{g(x)}$ | מנת פונקציות | $y'=\frac{f'(x)\cdot g(x)-f(x)\cdot g'(x)}{(g(x))^2}$ |
| .5 | $y=f(g(x))$ | פונקציה מורכבת | $y'=f'(g(x))\cdot g'(x)$ |

## שאלות:

**1)** גזור את הפונקציות הבאות (סכום פונקציות):

א. $f(x)=3e^{x}+e^{2x}+e^{-x}+2x+1$

ב. $f(x)=e^{x^2-3x}+ex$

ג. $f(x)=2^{3x}$

ד. $f(x)=3^{x^2}+4^{-x}$

**2)** גזור את הפונקציות הבאות (מכפלת פונקציות):

א. $f(x)=x\cdot e^{x}$

ב. $f(x)=x^2\cdot e^{4x}$

ג. $f(x)=(x+1)\cdot 2^{x}$

**3)** גזור את הפונקציות הבאות (מנת פונקציות):

א. $f(x)=\frac{x^2}{e^{x}}$

ב. $f(x)=\frac{e^{x}}{e^{x}+1}$

**4)** גזור את הפונקציות הבאות (פונקציה מורכבת):

א. $f(x)=5\left(e^{2x}-1\right)^3$

ב. $f(x)=\sqrt{e^{2x}+e^{-2x}}$

ג. $f(x)=\frac{e^{3x}}{\sqrt{e^{x}+1}}$

**5)** גזור את הפונקציות הבאות (שאלות שונות):

א. $f(x)=e^{2x}$

ב. $f(x)=e^{x}+1$

ג. $f(x)=e^{\frac{1}{x}}$

ד. $f(x)=\left(x^2+1\right)e^{x}$

ה. $f(x)=e^{-x}\left(x^2+4x+1\right)$

ו. $f(x)=e^{3x-2}$

ז. $f(x)=e^{x}\cdot\frac{1}{x}$

ח. $f(x)=x^3e^{2x}$

ט. $f(x)=e^{-2x}(x+4)$

י. $f(x)=e^{2x+1}(1-x)$

יא. $f(x)=\frac{1}{e^{\frac{1}{x}}}$

יב. $f(x)=\frac{x^3}{e^{3x}}$

יג. $f(x)=\frac{2+x^2}{e^{x^2}}$

יד. $f(x)=\frac{e^{x}-e^{-x}}{e^{-x}+e^{x}}$

טו. $f(x)=\frac{x^2+1}{e^{-x}}$

טז. $f(x)=\frac{e^{x}}{1-e^{x+1}}$

## תשובות סופיות:

1) א. $3e^{x}+2e^{2x}-e^{-x}+2$ ב. $(2x-3)e^{x^2-3x}+e$ ג. $3\ln 2\cdot 2^{3x}$ ד. $2x\ln 3\cdot 3^{x^2}-\ln 4\cdot 4^{-x}$

2) א. $(1+x)e^{x}$ ב. $2xe^{4x}(1+2x)$ ג. $2^{x}(1+x\ln 2+\ln 2)$

3) א. $\frac{x(2-x)}{e^{x}}$ ב. $\frac{e^{x}}{(e^{x}+1)^{2}}$

4) א. $30e^{2x}(e^{2x}-1)^{2}$ ב. $\frac{e^{2x}-e^{-2x}}{\sqrt{e^{2x}+e^{-2x}}}$ ג. $\frac{5e^{4x}+6e^{3x}}{2\sqrt{(e^{x}+1)^{3}}}$

5) א. $2e^{2x}$ ב. $e^{x}$ ג. $-\frac{e^{1/x}}{x^{2}}$ ד. $(x+1)^{2}e^{x}$

ה. $e^{-x}(-x^{2}-2x+3)$ ו. $3e^{3x-2}$

ז. $\frac{e^{x}(x-1)}{x^{2}}$ ח. $x^{2}e^{2x}(3+2x)$ ט. $-e^{-2x}(2x+7)$

י. $e^{2x+1}(1-2x)$

יא. $\frac{e^{-1/x}}{x^{2}}$ יב. $\frac{3x^{2}(1-x)}{e^{3x}}$ יג. $\frac{-2x(x^{2}+1)}{e^{x^2}}$

יד. $\frac{4}{(e^{x}+e^{-x})^{2}}$ טו. $\frac{(x+1)^{2}}{e^{-x}}$ טז. $\frac{e^{x}}{(1-e^{x+1})^{2}}$

# שימושי הנגזרת:

## שאלות:

**6)** מצא את משוואת המשיק לפונקציה $f(x)=e^x$ בנקודה $A(1,e)$.

**7)** מצא את משוואת המשיק לפונקציה $f(x)=e^{2x}+xe^{-x}$ בנקודה שבה $x=0$.

**8)** מצא את משוואות המשיקים לפונקציה $f(x)=(e+1)e^x-e^{2x}$ בנקודות החיתוך של הפונקציה עם הישר $y=e$.

**9)** נתונה הפונקציה: $y=e^{2x}+3ex$.
לפונקציה העבירו משיק דרך הנקודה שבה: $x=2$.
מצא את משוואת המשיק.

**10)** שיפוע המשיק לפונקציה $f(x)=a\cdot 3^{2x-1}+3^{x-b}$ בנקודה $(1,15)$ הוא $21\ln 3$.
מצא את ערכי הפרמטרים $a$ ו- $b$.

## תשובות סופיות:

**6)** $y=ex$

**7)** $y=3x+1$

**8)** $y=(e-1)x+e$ , $y=(-e^2+e)x+e^2$

**9)** $y=2e^4x+3ex-3e^4$

**10)** $a=2$ , $b=-1$

## חקירה של פונקציה מעריכית:

### שאלות:

**11)** מצא את תחום ההגדרה של הפונקציות הבאות:

א. $f(x)=\frac{2x-1}{e^x}$ ב. $f(x)=\frac{3}{e^x-1}$ ג. $f(x)=\frac{x+1}{e^x-5}$

ד. $f(x)=\frac{1}{e^{2x}-3e^x+2}$ ה. $f(x)=\frac{e^x-e^{-x}}{e^x+e^x}$ ו. $f(x)=\frac{\sqrt{e^x-1}}{5x-2}$

ז. $f(x)=\sqrt{e^{2x}-4e^x+3}$

**12)** מצא את נקודות הקיצון של הפונקציה הבאה: $f(x)=x^2e^x$ .

**13)** מצא את נקודת הקיצון של הפונקציה הבאה: $f(x)=\frac{e^x}{x-2}$ .

**14)** נתונה הפונקציה: $f(x)=\frac{ax^2+bx+9}{e^x}$ .

הפונקציה משיקה לציר ה-$x$ בנקודה שבה $x=1.5$ .

מצא את ערכי הפרמטרים $a$ ו-$b$ ואת נקודות הקיצון של הפונקציה.

**15)** נתונה הפונקציה: $f(x)=8^x+p\cdot 2^x+q$ . לפונקציה יש נקודת קיצון בנקודה $(\log_2 3,-19)$ . מצא את ערכי הפרמטרים $p$ ו-$q$ .

**16)** מצא את האסימפטוטות של הפונקציה הבאה: $f(x)=e^{2x}+e^x$ .

**17)** מצא את האסימפטוטות של הפונקציה הבאה: $f(x)=\frac{e^x+e^{-x}}{e^{2x}}$ .

**18)** מצא את האסימפטוטות של הפונקציה הבאה: $f(x)=\frac{e^x+5}{e^x-1}$ .

**19)** מצא את האסימפטוטות של הפונקציה הבאה: $f(x)=\frac{e^{2x}+1}{e^{x}-5}$ .

**20)** מצא את האסימפטוטות של הפונקציה הבאה: $f(x)=\frac{e^{x}-e^{-x}}{e^{x}+e^{-x}}$ .

**21)** מצא את האסימפטוטות של הפונקציה הבאה: $f(x)=\frac{e^{x}-2}{e^{2x}-5e^{x}+6}$ .

**22)** מצא את האסימפטוטות של הפונקציה הבאה: $f(x)=\frac{e^{x}}{x^{2}}$ .

**23)** מצא את האסימפטוטות של הפונקציה הבאה: $f(x)=\frac{x^{3}-1}{e^{x}}$ .

**24)** מצא את האסימפטוטות של הפונקציה הבאה: $f(x)=\frac{x-1}{e^{3x}-e}$ .

**25)** מצא את האסימפטוטות של הפונקציה הבאה: $f(x)=(x-3)e^{x}$ .

**26)** מצא את האסימפטוטות של הפונקציה הבאה: $f(x)=xe^{\frac{1}{x}}$ .

**27)** נתונה הפונקציה: $f(x)=\frac{x^{2}+a}{be^{x}}$ . לפונקציה יש נקודת פיתול בנקודה $\left(1,\frac{2}{e}\right)$.
מצא את ערכי הפרמטרים $a$ ו- $b$ ואת נקודת הפיתול השנייה של הפונקציה.

**28)** חקור את הפונקציות הבאות עפ"י הסעיפים הבאים:

1. מציאת תחום ההגדרה של הפונקציה.
2. מציאת נקודות החיתוך של גרף הפונקציה עם הצירים.
3. מציאת נקודות הקיצון של הפונקציה וקביעת סוגן.
4. כתיבת תחומי העלייה והירידה של הפונקציה.

א. $f(x)=(x-1)e^x$

ב. $f(x)=(x^2+1)e^x$

ג. $f(x)=x^2e^{-\frac{1}{4}x^2}$

ד. $f(x)=e^{x^2-x}$

ה. $f(x)=\frac{2}{e^{x^2}+1}$

ו. $f(x)=\frac{e^{2x}+1}{e^{x+1}}$

**29)** נתונה הפונקציה $f(x)=(x-3)e^x$. חקור על פי הסעיפים הבאים:

א. מציאת תחום ההגדרה של הפונקציה.
ב. מציאת נקודות הקיצון של הפונקציה.
ג. תחומי עלייה וירידה של הפונקציה.
ד. נקודות חיתוך של גרף הפונקציה עם הצירים.
ה. סרטוט סקיצה של גרף הפונקציה.

**30)** נתונה הפונקציה $f(x)=e^{2x}-8e^x+6x+10$. חקור על פי הסעיפים הבאים:

א. מציאת תחום ההגדרה של הפונקציה.
ב. מציאת נקודות הקיצון של הפונקציה.
ג. תחומי עלייה וירידה של הפונקציה.
ד. מציאת נקודת החיתוך של גרף הפונקציה עם ציר ה- $y$.
ה. סרטוט סקיצה של גרף הפונקציה.

**31)** נתונה הפונקציה $f(x)=\frac{4x}{e^{0.5x^2}}$. חקור על פי הסעיפים הבאים:

א. מציאת תחום ההגדרה של הפונקציה.
ב. מציאת נקודות הקיצון של הפונקציה.
ג. תחומי עלייה וירידה של הפונקציה.
ד. נקודות חיתוך של גרף הפונקציה עם הצירים.
ה. סרטוט סקיצה של גרף הפונקציה.

**32)** נתונה הפונקציה $f(x)=\frac{x^3}{e^x}$ . חקור על פי הסעיפים הבאים:

א. מציאת תחום ההגדרה של הפונקציה.
ב. מציאת נקודות הקיצון של הפונקציה.
ג. תחומי עלייה וירידה של הפונקציה.
ד. נקודות חיתוך של גרף הפונקציה עם הצירים.
ה. סרטוט סקיצה של גרף הפונקציה.

**33)** נתונה הפונקציה $f(x)=2x\cdot 3^x$ . חקור את הפונקציה על פי הסעיפים הבאים:

א. מציאת תחום ההגדרה של הפונקציה.
ב. מציאת נקודות הקיצון של הפונקציה.
ג. תחומי עלייה וירידה של הפונקציה.
ד. נקודות חיתוך של גרף הפונקציה עם הצירים.
ה. סרטוט סקיצה של גרף הפונקציה.

**34)** נתונה הפונקציה $f(x)=2e^{\frac{x}{x^2+1}}$ . חקור את הפונקציה על פי הסעיפים הבאים:

א. מציאת תחום ההגדרה של הפונקציה.
ב. מציאת נקודות הקיצון של הפונקציה.
ג. תחומי עלייה וירידה של הפונקציה.
ד. נקודות חיתוך של גרף הפונקציה עם הצירים.
ה. מציאת אסימפטוטות המקבילות לצירים.
ו. סרטוט סקיצה של גרף הפונקציה.
ז. לאלו ערכי $m$ יש למשוואה $f(x)=m$ בדיוק פתרון אחד?

**35)** נתונה הפונקציה $f(x)=x^2e^{\frac{1}{x}}$ . חקור את הפונקציה על פי הסעיפים הבאים:

א. מציאת תחום ההגדרה של הפונקציה.
ב. מציאת נקודות הקיצון של הפונקציה.
ג. תחומי עלייה וירידה של הפונקציה.
ד. נקודות חיתוך של גרף הפונקציה עם הצירים.
ה. מציאת אסימפטוטות המקבילות לצירים.
ו. מציאת נקודות פיתול של הפונקציה.
ז. כתיבת תחומי הקעירות כלפי מעלה ומטה.

ח. סרטוט סקיצה של גרף הפונקציה.

**36)** נתונה הפונקציה: $f(x)=\frac{e^{3x}}{12x^2+1}$.

א. מצא את תחום ההגדרה של הפונקציה.

ב. מצא את נקודות הקיצון של הפונקציה וקבע את סוגן.

ג. כתוב את תחומי עלייה וירידה של הפונקציה.

ד. מצא את נקודות חיתוך של גרף הפונקציה עם הצירים.

ה. סרטט סקיצה של גרף הפונקציה.

**37)** שיפוע המשיק לגרף הפונקציה: $f(x)=\frac{1}{e^{3x^2+6x+k}}$ בנקודה שבה $x=1$ הוא $-\frac{12}{e^{10}}$.

א. מצא את ערך הפרמטר $k$ וכתוב את הפונקציה.

ב. מצא את נקודת הקיצון של הפונקציה.

ג. סרטט סקיצה של גרף הפונקציה.

ד. הוכח על סמך הסקיצה את אי-השוויון הבא: $0<\frac{1}{e^{3x^2+6x+1}}\le e^2$.

**38)** נתונה הפונקציה הבאה: $f(x)=e^{2x}+ae^x+b$. גוזרים את הפונקציה פעמיים

וידוע כי כאשר $x=\ln\frac{2}{3}$ הנגזרות מקיימות: $f'(x)+f''(x)=8$.

א. מצא את $a$.

משוואת המשיק לגרף הפונקציה בנקודה מסוימת היא: $y=16x+7-16\ln 2$.

ב. מצא את שיעור ה-$x$ של נקודת ההשקה.

ג. מצא את $b$.

ד. מצא את נקודת החיתוך של הפונקציה עם ציר ה-$x$.

**39)** נתונות הפונקציות הבאות: $f(x)=6x-e^x$ ו- $g(x)=ae^x-e^{2x}+b$.

ידוע כי לשתי הפונקציות נקודת קיצון שבה אותו שיעור $x$ וכי שתיהן נפגשות על ציר ה-$y$.

א. מצא את ערכי הפרמטרים $a$ ו-$b$.

ב. הראה כי לשתי הפונקציות תחומי עלייה וירידה משותפים.

**40)** לגרף הפונקציה: $f(x)=ax^2\cdot e^{-bx^2}$ יש נקודת קיצון: $\left(2,\frac{4}{e}\right)$ , $a,b\neq 0$ .

א. מצא את ערכי הפרמטרים $a$ ו- $b$ וכתוב את הפונקציה.

ב. מצא את נקודות הקיצון הנוספות של הפונקציה וקבע את סוגן.

ג. מצא את נקודות החיתוך של הפונקציה עם הצירים.

ד. סרטט סקיצה של גרף הפונקציה.

ה. מעבירים ישר: $y=k$ . באיזה תחום ערכים צריך להימצא $k$ כדי שהישר יחתוך את גרף הפונקציה ב-4 נקודות שונות?

**41)** לפונקציה: $f(x)=\frac{x^2-6x-7}{e^{ax-1}}$ יש קיצון בנקודה שבה: $x=1$ .

א. מצא את ערך הפרמטר $a$ .

ב. האם יש לגרף הפונקציה נקודות קיצון נוספות? אם כן מצא אותן.

ג. כתוב את תחומי העלייה והירידה של הפונקציה.

ד. מצא את נקודות החיתוך של גרף הפונקציה עם הצירים.

ה. סרטט סקיצה של גרף הפונקציה.

**42)** הישר $x=\sqrt{6}$ הוא אסימפטוטה אנכית של הפונקציה: $f(x)=\frac{e^{2x}}{x^2+m}$ .

א. מצא את ערך הפרמטר $m$ וכתוב את הפונקציה.

ב. מצא את נקודות הקיצון של הפונקציה וקבע את סוגן.

ג. מצא את נקודות החיתוך של גרף הפונקציה עם הצירים.

ד. סרטט סקיצה של גרף הפונקציה.

**43)** נתונה הפונקציה: $f(x)=x^3\cdot e^{2x}$ .

א. מצא את הנקודות המקיימות: $f'(x)=0$ וקבע כמה מהן הן נקודות קיצון.

ב. מצא את האסימפטוטות המקבילות לצירים של הפונקציה.

ג. סרטט סקיצה של גרף הפונקציה.

ד. בכמה נקודות חותך הישר $y=-0.01$ את גרף הפונקציה?

**44)** נתונה הפונקציה הבאה: $f(x)=e^{2x}+ae^{x}+b$ . גוזרים את הפונקציה פעמיים

וידוע כי כאשר $x=\ln\frac{2}{3}$ הנגזרות מקיימות: $f'(x)+f''(x)=12$ .

א. מצא את $a$.

משוואת המשיק לגרף הפונקציה בנקודה מסוימת היא: $y=22x+28-22\ln 2$ .

ב. מצא את שיעור ה-$x$ של נקודת ההשקה.

ג. מצא את $b$.

ד. האם הפונקציה חותכת את ציר ה-$x$? אם כן מצא את הנקודות.

**45)** נתונה הפונקציה: $f(x)=x\cdot a^{x}$ , $(a>0)$.

לפונקציה יש נקודת קיצון שבה: $x=-\frac{1}{\ln 2}$ .

א. מצא את $a$.

ב. כתוב את תחומי העלייה והירידה של הפונקציה.

הנקודה שבה $x=2$ היא נקודת החיתוך של גרף הפונקציה $f(x)$

עם גרף הפונקציה: $g(x)=x^{2}\cdot 2^{x}-kx\cdot 2^{x}$ .

ג. מצא את $k$.

ד. מצא נקודה נוספת שבה הגרפים נחתכים.

**46)** נתונה הפונקציה: $f(x)=3^{2x}+2\cdot 3^{1-x}$ .

א. מצא את משוואת המשיק לגרף הפונקציה בנקודת החיתוך שלה עם ציר ה-$y$ .

ב. הוכח כי גרף הפונקציה אינו חותך את ציר ה-$x$ .

ג. מצא את נקודת הקיצון של הפונקציה וקבע את סוגה.

## תשובות סופיות:

**11)** א. כל $x$ ב. $x\neq 0$ ג. $x\neq \ln 5$ ד. $x\neq 0$ , $x\neq \ln 2$ ה. כל $x$

ו. $0\le x\neq \frac{2}{5}$ ז. $x\le 0$ , $x\ge \ln 3$

**12)** $\min(0,0)$ , $\max\left(-2,\frac{4}{e^2}\right)$

**13)** $\min\left(3,e^3\right)$

**14)** $a=4$ , $b=-12$ , $\max(3.5,0.483)$ , $\min(1.5,0)$

**15)** $q=35$ , $p=-27$

**16)** $y=0$

**17)** $y=0$

**18)** $y=1$ , $y=-5$ , $x=0$

**19)** $y=-\frac{1}{5}$ , $x=\ln 5$

**20)** $y=1$ , $y=-1$

**21)** $y=0$ , $y=-\frac{1}{3}$ , $x=\ln 3$ , נקודת אי הגדרה: $(\ln 2,-1)$

**22)** $y=0$ , $x=0$

**23)** $y=0$

**24)** $y=0$ , $x=\frac{1}{3}$

**25)** $y=0$

**26)** $x=0$ , נקודת אי הגדרה: $(0,0)$

**27)** $b=1$ , $a=1$ , $\left(3,\frac{10}{e^3}\right)$

**28)** א.1. כל $x$ .2 $(0,-1)$ , $(1,0)$ .3 $\min(0,-1)$ .4 עולה: $x>0$ יורדת: $x<0$

ב.1. כל $x$ .2 $(0,1)$ .3 $\left(-1,\frac{2}{e}\right)$ פיתול .4 עולה: $x>-1$ , $x<-1$

ג.1. כל $x$ .2 $(0,0)$ .3 $\max\left(-2,\frac{4}{e}\right)$ , $\min(0,0)$ , $\max\left(2,\frac{4}{e}\right)$

.4 עולה: $0<x<2$ , $x<-2$ יורדת: $-2<x<0$ , $x>2$

ד.1. כל $x$ .2 $(0,1)$ .3 $\min\left(0.5,e^{-0.25}\right)$ .4 עולה: $x>0.5$ יורדת: $x<0.5$

ה.1. כל $x$ 2. $(0,1)$ 3. $\max(0,1)$ 4. עולה: $x<0$ יורדת: $x>0$

ו.1. כל $x$ 2. $(0,2e^{-1})$ 3. $\min(0,2e^{-1})$ 4. עולה: $x>0$ יורדת: $x<0$

**29)** א. כל $x$ ב. $\min(2,-e^2)$ ג. תחומי עלייה: $x>2$ תחומי ירידה: $x<2$

ד. $(0,-3)$ , $(3,0)$

**30)** א. כל $x$ ב. $\min(\ln 3,1.59)$ , $\max(0,3)$

ג. תחומי עלייה: $x>\ln 3$ או $x<0$ תחומי ירידה: $0<x<\ln 3$ ד. $(0,3)$

**31)** א. כל $x$ ב. $\max\left(1,\frac{4}{e^{0.5}}\right)$ , $\min\left(-1,-\frac{4}{e^{0.5}}\right)$

ג. תחומי עלייה: $-1<x<1$ תחומי ירידה: $x>1$ או $x<-1$ ד. $(0,0)$

**32)** א. כל $x$ ב. $\max\left(3,\frac{27}{e^3}\right)$ ג. עולה: $x<3$ , יורדת: $x>3$

ד. $(0,0)$

**33)** א. כל $x$ ב. $\min(-0.91,-0.67)$ ג. עולה: $x>-0.91$ יורדת: $x<-0.91$

ד. $(0,0)$

**34)** א. כל $x$ ב. $\min\left(-1,\frac{2}{\sqrt{e}}\right)$ , $\max(1,2\sqrt{e})$ ג. עולה: $-1<x<1$ יורדת:

$x<-1$ , $x>1$ ד. $(0,2)$ ה. $y=2$ ז. $m=\frac{2}{\sqrt{e}}$ , $m=2\sqrt{e}$ , $m=2$

**35)** א. $x\neq 0$ ב. $\min\left(\frac{1}{2},\frac{e^2}{4}\right)$ ג. עולה: $x>\frac{1}{2}$ , יורדת: $0\neq x<\frac{1}{2}$

ד. אין

**36)** א. כל $x$ ב. $\min\left(\frac{1}{2},\frac{e^{1.5}}{4}\right)$ , $\max\left(\frac{1}{6},\frac{3\sqrt{e}}{4}\right)$ ג. עולה: $x>\frac{1}{2}$ , יורדת: $x<\frac{1}{6}$

$\frac{1}{6}<x<\frac{1}{2}$ ד. $(0,1)$

**37)** א. $k=1$ , $f(x)=\frac{1}{e^{3x^2+6x+1}}$ ב. $(-1,e^2)$

ד. ניתן לראות עפ"י הגרף כי ערך הפונקציה $f(x)$ נמצא בתחום $0<f(x)\le e^2$

**38)** א. $a=4$ ב. $x=\ln 2$ ג. $b=-5$ ד. $(0,0)$

**39)** א. $a=12$ , $b=-12$ ב. עולות: $x<\ln 6$ יורדות: $x>\ln 6$

**40)** א. $a=1$ , $b=0.25$ , $f(x)=x^2e^{-\frac{1}{4}x^2}$ ב. $\min(0,0)$ , $\max\left(-2,\frac{4}{e}\right)$

ג. $(0,0)$ ה. $0<k<\frac{4}{e}$

**41)** א. $a=\frac{1}{3}$ ב. כן: $\left(11,\frac{48}{e^{2\frac{2}{3}}}\right)$ ג. עולה: $1<x<11$ יורדת: $x<1$ , $x>11$

ד. $(-1,0)$ , $(7,0)$ , $(0,-7e)$

**42)** א. $m=-6$ , $f(x)=\frac{e^{2x}}{x^2-6}$ ב. $\min\left(3,\frac{e^6}{3}\right)$ , $\max\left(-2,-\frac{1}{2e^4}\right)$ ג. $\left(0,-\frac{1}{6}\right)$

**43)** א. $x=0,-1.5$ . נקודת הקיצון היא: $\min\left(-1.5,-3\frac{3}{8}e^{-3}\right)$ ב. $y=0$

ד. 2 נקודות.

**44)** א. $a=7$ ב. $x=\ln 2$ ג. $b=10$ ד. לא.

**45)** א. $a=2$ ב. עולה: $x>-\frac{1}{\ln 2}$ יורדת: $x<-\frac{1}{\ln 2}$ ג. $k=1$

ד. $(0,0)$

**46)** א. $y=-x\ln 81+7$ ג. $\min\left(\frac{1}{3},\sqrt[3]{243}\right)$

**סקיצות לשאלות החקירה:**

**29)**

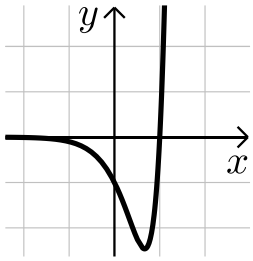


**30)**

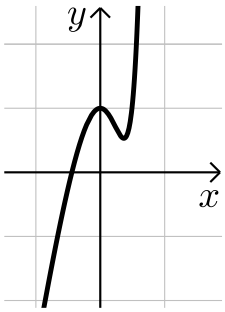


**31)**

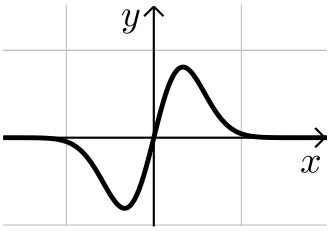


**32)**

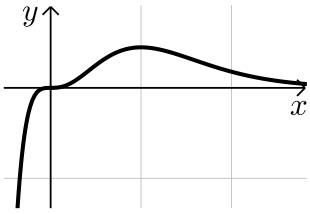


**33)**

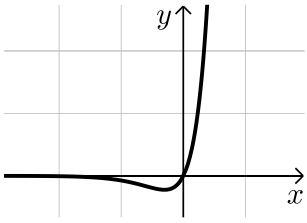


**34)**

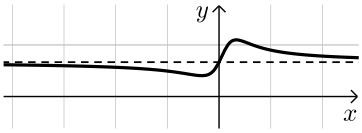

(35

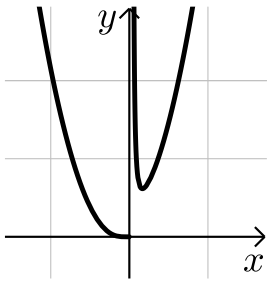


(36

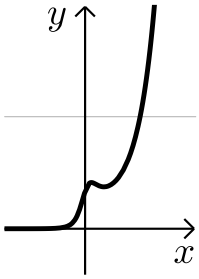


(37

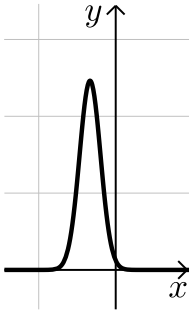


(40

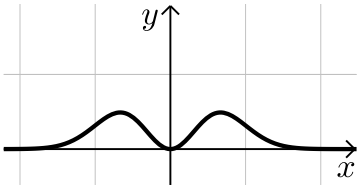


(41

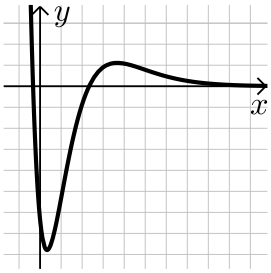


(42

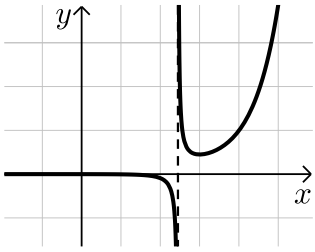


(43

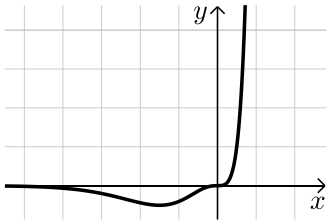

# קורס קדם במתמטיקה למהנדסים

## פרק 30 - חשבון דיפרנציאלי - פונקציות לוגריתמיות

תוכן העניינים

1. הנגזרת של פונקציה לוגריתמית ..... 463
2. שימושי הנגזרת ..... 468
3. חקירה של פונקציה לוגריתמית ..... 469

# הנגזרת של פונקציה לוגריתמית:

## סיכום כללי:

**הגדרות כלליות:**

להלן תיאורים גרפיים של פונקציה לוגריתמית

כללית מהצורה: $f(x)=\log_a x$ עבור $a>1$ ו- $0<a<1$:

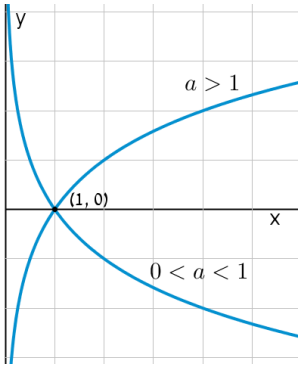


**תכונות כלליות:**

- לפונקציות תחום הגדרה $x>0$.
- הפונקציות תמיד חותכות את ציר ה- $x$ בנקודה $(1,0)$.
- עבור $a>1$ הפונקציה עולה בכל ת.ה. ועבור $0<a<1$ הפונקציה יורדת בכל ת.ה.

עבור הפונקציות $f(x)=\ln x=\log_e x$ נקבל

כי שיפוע המשיק לגרף הפונקציה בנקודת

החיתוך שלה עם ציר ה- $x$ הוא 1:

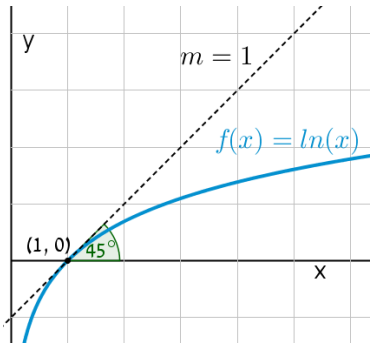


**תחום הגדרה של פונקציה לוגריתמית:**

תחום ההגדרה של פונקציה לוגריתמית מהצורה: $y=\log(f(x))$ הוא: $f(x)>0$.

**נגזרות של פונקציות לוגריתמיות:**

| הפונקציה | הנגזרת |
|---|---|
| $y=\log_a x$ | $y'=\frac{1}{x\ln a}$ |
| $y=\log_a f(x)$ | $y'=\frac{f'(x)}{f(x)\ln a}$ |
| $y=\ln x$ | $y'=\frac{1}{x}$ |
| $y=\ln f(x)$ | $y'=\frac{f'(x)}{f(x)}$ |

## שאלות:

**1)** גזור את הפונקציות הבאות (גזירה לוגריתמית יסודית עם ביטויים פנימיים שונים):

א. $f(x)=3\ln x+4\ln(x+2)-\ln(5x-1)$ ב. $f(x)=\ln(x^2-3x)$

ג. $f(x)=\ln\frac{x+1}{x-1}$ ד. $f(x)=\ln(e^x+1)$

ה. $f(x)=\ln(\cos x)$ ו. $f(x)=\log_2 x+5\log_3(2x-1)$

**2)** גזור את הפונקציות הבאות (מכפלה ומנה של פונקציות):

א. $f(x)=x\ln x$ ב. $f(x)=(3x+1)^2\ln x$ ג. $f(x)=\frac{\ln x}{x}$

ד. $f(x)=\frac{\ln x-2}{\ln x+2}$ ה. $f(x)=\sqrt{\ln x+x}$

**3)** גזור את הפונקציות הבאות (פונקציות מורכבות):

א. $f(x)=\ln^3 x$ ב. $f(x)=3\ln^2 x$

ג. $f(x)=x^2\ln^2 x$ ד. $f(x)=\frac{\ln^2 x+1}{(\ln x+1)^2}$

4) גזור את הפונקציות הבאות (שאלות שונות):

א. $f(x)=\ln(x+2)$

ב. $f(x)=\ln^2 x+2\ln x-3$

ג. $f(x)=x^2\ln x$

ד. $f(x)=x^3\ln x$

ה. $f(x)=\ln e^{2x}$

ו. $f(x)=e^x\ln x$

ז. $f(x)=e^{-x^2}\ln x$

ח. $f(x)=x^2(2\ln x-1)$

ט. $f(x)=\ln(x^2)$

י. $f(x)=\ln(x^4)$

יא. $f(x)=(\ln x)^4$

יב. $f(x)=x\ln x-\ln x^2$

יג. $f(x)=\frac{(\ln x)^2}{x}$

יד. $f(x)=\ln\sqrt{x}$

טו. $f(x)=\sqrt{\ln x}$

טז. $f(x)=\frac{\ln x}{\sqrt{x}}$

5) גזור את הפונקציות הבאות (שאלות אתגר):

א. $f(x)=\ln\frac{x+2}{x}$

ב. $f(x)=\ln\frac{x-1}{x+1}$

ג. $f(x)=\ln\frac{x-3}{x+3}$

ד. $f(x)=\ln\frac{(x-5)^3}{(x+1)^2}$

ה. $f(x)=\ln\sqrt{x^2-1}$

ו. $f(x)=\ln\left(x+\sqrt{x^2+a^2}\right)$

ז. $f(x)=e^{\sqrt{\ln x}}$

ח. $f(x)=\ln\sqrt{\frac{1}{2-x}}$

ט. $f(x)=\ln\sqrt{\frac{1-x}{1+x}}$

י. $f(x)=\ln\sqrt{\frac{1+5x}{1-5x}}$

יא. $f(x)=\frac{\ln\sqrt[3]{x}}{x}$

יב. $f(x)=\frac{(\ln x)^3}{x}$

יג. $f(x)=\frac{x}{\ln(x^2)}$

יד. $f(x)=\ln^2 x+\frac{1}{\ln^2 x}$

טו. $f(x)=\frac{x}{\ln^4 x}$

## תשובות סופיות:

**1)** א. $f'(x)=\frac{3}{x}+\frac{4}{x+2}-\frac{5}{5x-1}$ ב. $f'(x)=\frac{2x-3}{x^2-3x}$ ג. $f'(x)=\frac{-2}{(x-1)(x+1)}$

ד. $f'(x)=\frac{e^x}{e^x+1}$ ה. $f'(x)=-\tan x$ ו. $f'(x)=\frac{1}{x\ln 2}+\frac{10}{(2x-1)\ln 3}$

**2)** א. $f'(x)=\ln x+1$ ב. $f'(x)=(3x+1)\left(6\ln x+\frac{3x+1}{x}\right)$ ג. $f'(x)=\frac{1-\ln x}{x^2}$

ד. $f'(x)=\frac{4}{x(\ln x+2)^2}$ ה. $f'(x)=\frac{1+x}{2x\sqrt{\ln x+x}}$.

**3)** א. $f'(x)=\frac{3\ln^2 x}{x}$ ב. $f'(x)=\frac{6\ln x}{x}$ ג. $f'(x)=2x\ln x(\ln x+1)$

ד. $f'(x)=\frac{2(\ln x-1)}{x(\ln x+1)^3}$.

**4)** א. $\frac{1}{x+2}$ ב. $\frac{2\ln x+2}{x}$ ג. $x(2\ln x+1)$

ד. $x^2(3\ln x+1)$ ה. 2 ו. $e^x\left(\ln x+\frac{1}{x}\right)$

ז. $e^{-x^2}\left(\frac{1}{x}-2x\ln x\right)$ ח. $4x\ln x$ ט. $\frac{2}{x}$ י. $\frac{4}{x}$

יא. $\frac{4(\ln x)^3}{x}$ יב. $\ln x+1-\frac{2}{x}$ יג. $\frac{2\ln x-\ln^2 x}{x^2}$

יד. $\frac{1}{2x}$ טו. $\frac{1}{2x\sqrt{\ln x}}$ טז. $\frac{2-\ln x}{2x\sqrt{x}}$

**5)** א. $-\frac{2}{x(x+2)}$ ב. $\frac{2}{x^2-1}$ ג. $\frac{6}{x^2-9}$

ד. $\frac{3}{x-5}-\frac{2}{x+1}$ ה. $\frac{x}{x^2-1}$ ו. $\frac{\sqrt{x^2+a^2}+x}{x\sqrt{x^2+a^2}+x^2+a^2}$

ז. $\frac{e^{\sqrt{\ln x}}}{2x\sqrt{\ln x}}$ ח. $\frac{1}{4-2x}$ ט. $\frac{1}{x^2-1}$

י. $\frac{5}{1-25x^2}$

יא. $\frac{1-3\ln\sqrt[3]{x}}{3x^2}$

יב. $\frac{3\ln^2 x-\ln^3 x}{x^2}$

יג. $\frac{\ln\left(x^2\right)-2}{\ln^2\left(x^2\right)}$

יד. $\frac{2\left(\ln^4 x-1\right)}{x\ln^3 x}$

טו. $\frac{\ln x-4}{\ln^5 x}$.

## שימושי הנגזרת:

### שאלות:

6) מצא את משוואת המשיק לפונקציה $f(x)=\ln x$ בנקודה $A(e,1)$.

7) שיפוע המשיק לפונקציה $f(x)=\frac{\ln^2 x+a}{\ln x+b}$ בנקודה $\left(\frac{1}{e},-1\right)$ הוא $\frac{e}{3}$.
מצא את ערכי הפרמטרים $a$ ו- $b$.

8) הגרפים של הפונקציות $f(x)=\ln x$ ו-$g(x)=1$ נחתכים בנקודה A ברביע הראשון.
בנקודה A העבירו משיק ל-$f(x)$.
מצא את משוואת המשיק והוכח שמשיק זה עובר דרך הראשית.

9) לפונקציה $g(x)=\frac{\ln x^2}{x}$ העבירו משיק בנקודה שבה $x=e^2$.
מצא את משוואת המשיק.

10) מצא את משוואת המשיק לגרף הפונקציה $y=x\ln\left(x^2+1\right)$ בנקודה שבה $x=1$.

### תשובות סופיות:

6) $y=\frac{1}{e}x$.

7) $a=2\ ,\ b=-2$.

8) $y=\frac{1}{e}x$.

9) $y=-\frac{2}{e^4}x+\frac{6}{e^2}$.

10) $y=\ln 2\cdot x+x-1$.

# חקירה של פונקציה לוגריתמית:

## שאלות:

**11)** מצא את תחום ההגדרה של הפונקציות הבאות:

א. $f(x)=\ln x$

ב. $f(x)=\ln(x^2)$

ג. $f(x)=\log_3(x^2-8x-20)$

ד. $f(x)=\ln(e^x-4)$

ה. $f(x)=\dfrac{x-1}{\ln x-1}$

ו. $f(x)=\dfrac{1}{\ln^2 x-2\ln x-3}$

ז. $f(x)=\sqrt{\ln x-1}$

**12)** מצא את נקודות הקיצון של הפונקציה הבאה: $f(x)=2\ln x-x^2$.

**13)** מצא את נקודות הקיצון של הפונקציה הבאה: $f(x)=x^2\ln x$.

**14)** מצא את נקודות הקיצון של הפונקציה הבאה: $f(x)=\dfrac{\sqrt{2\ln x-1}}{x}$.

**15)** מצא את נקודות הקיצון של הפונקציה הבאה: $f(x)=\log_4^2 x-\log_2 x$.

**16)** נתונה הפונקציה: $f(x)=\dfrac{a\ln x+b}{x}$. הנקודה $\left(e^2,\dfrac{1}{e^2}\right)$ היא נקודת קיצון של הפונקציה. מצא את ערכי הפרמטרים $a$ ו- $b$.

**17)** נתונה הפונקציה: $f(x)=\dfrac{a\ln^2 x+b\ln x}{(\ln x+1)^2}$. הנקודה $\left(\sqrt[3]{e},-\dfrac{1}{8}\right)$ היא נקודת קיצון של הפונקציה. מצא את ערכי הפרמטרים $a$ ו- $b$.

**18)** מצא את האסימפטוטות של הפונקציה הבאה: $f(x)=\ln(x-3)$.

**19)** מצא את האסימפטוטות של הפונקציה הבאה: $f(x)=\dfrac{1}{\ln x-1}$.

**20)** מצא את האסימפטוטות של הפונקציה הבאה: $f(x)=\frac{2\ln x-1}{\ln x+1}$.

**21)** מצא את האסימפטוטות של הפונקציה הבאה: $f(x)=\frac{\ln x-2}{\ln^2 x-4}$.

**22)** מצא את האסימפטוטות של הפונקציה הבאה: $f(x)=\frac{\ln x}{x}$.

**23)** מצא את האסימפטוטות של הפונקציה הבאה: $f(x)=\frac{x^2-1}{\ln^2 x+1}$.

**24)** מצא את האסימפטוטות של הפונקציה הבאה: $f(x)=x\ln x+2$.

**25)** נתונה הפונקציה: $f(x)=\frac{\ln x}{x}$. מצא את נקודת הפיתול של הפונקציה.

**26)** חקור את הפונקציות הבאות עפ"י הסעיפים הבאים:

i. מציאת תחום ההגדרה של הפונקציה.

ii. מציאת נקודות החיתוך של גרף הפונקציה עם הצירים.

iii. מציאת נקודות הקיצון של הפונקציה וקביעת סוגן.

iv. כתיבת תחומי העלייה והירידה של הפונקציה.

א. $y=\frac{1}{2}x^2-4x+3\ln x$

ב. $y=x\ln x$

ג. $y=x\ln x-x$

ד. $y=\sqrt{x}\ln x$

ה. $y=x^2\ln x$

ו. $y=\ln\left(x^2+1\right)$

**27)** נתונה הפונקציה $f(x)=2x\ln^2 x$ . חקור לפי הסעיפים הבאים:

א. מציאת תחום ההגדרה של הפונקציה.

ב. מציאת נקודות הקיצון של הפונקציה וקביעת סוגן.

ג. כתיבת תחומי העלייה והירידה של הפונקציה.

ד. נקודות החיתוך של גרף הפונקציה עם הצירים.

ה. סרטוט סקיצה של גרף הפונקציה.

**28)** נתונה הפונקציה $f(x)=\frac{x}{\ln x-1}$ . חקור לפי הסעיפים הבאים:

א. תחום הגדרה של הפונקציה.

ב. מציאת נקודות הקיצון של הפונקציה וקביעת סוגן.

ג. כתיבת תחומי העלייה והירידה של הפונקציה.

ד. מציאת נקודות החיתוך של גרף הפונקציה עם הצירים.

ה. סרטוט סקיצה של גרף הפונקציה.

ו. מצא לאלו ערכי $k$ הישר $y=k$ חותך את הפונקציה בשתי נקודות.

**29)** נתונה הפונקציה $f(x)=\log_4^2 x-\log_2 x$ . חקור לפי הסעיפים הבאים:

א. תחום הגדרה של הפונקציה.

ב. מציאת נקודות הקיצון של הפונקציה וקביעת סוגן.

ג. כתיבת תחומי העלייה והירידה של הפונקציה.

ד. מציאת נקודות החיתוך של גרף הפונקציה עם הצירים.

ה. סרטוט סקיצה של גרף הפונקציה.

**30)** נתונה הפונקציה: $f(x)=\sqrt{\ln x}$ .

א. מהו תחום ההגדרה של הפונקציה?

ב. הוכח כי גרף הפונקציה עולה בכל תחום הגדרתו.

מגדירים פונקציה נוספת: $g(x)=\ln x$ .

ג. מצא את נקודות החיתוך של שני הגרפים.

ד. הנקודה A נמצאת על גרף הפונקציה $f(x)$ והנקודה B נמצאת על גרף הפונקציה $g(x)$ . ידוע כי לנקודות A ו-B אותו שיעור $x$ , $(x_A=x_B)$ .
מצא את שיעור ה- $x$ של שתי הנקודות אם ידוע כי המשיקים לגרפים של הפונקציות בנקודות אלו מקבילים.

**31)** נתונה שתי הפונקציות הבאות: $g(x)=\frac{\ln x}{x}$ , $f(x)=\frac{x}{\ln x}$ .

א. קבע אילו מהמשפטים הבאים נכונים ואלו שגויים.
נמק זאת ע"י חישוב מתאים ותקן במשפטים השגויים את הטעות.

i. לשתי הפונקציות אותו תחום הגדרה.

ii. לשתי הפונקציות יש נקודת קיצון מאותו סוג ובעלות שיעור $x$ זהה.

iii. לשתי הפונקציות תחומי עלייה וירידה זהים.

iv. לשתי הפונקציות יש אסימפטוטות אנכיות.

ב. בוחרים באקראי שתי נקודות, אחת על כל גרף, כך ששיעור ה- $x$ שלהן זהה.
הוכח כי מכפלת שיעורי ה- $y$ של כל זוג נקודות כאלו שווה ל-1.

**32)** נתונה הפונקציה הבאה: $y=\ln\left(x^2-6x-7\right)$ .

א. מצא את תחום ההגדרה של הפונקציה.

ב. מהן האסימפטוטות של הפונקציה המקבילות לציר ה- $y$ ?

ג. מצא את תחומי העלייה והירידה של הפונקציה.

ד. לפניך 4 גרפים: I , II , III , ו-IV.
איזה מהגרפים מתאים לפונקציה הנתונה. נמק.

I.
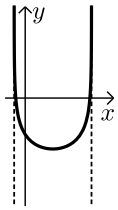


II.
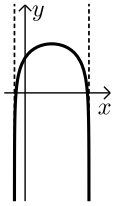


III.
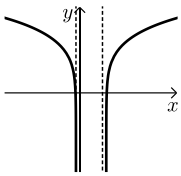


IV.
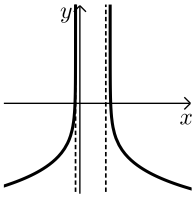


**33)** נתונה הפונקציה: $y=\ln\left(x^2+2x+1\right)$ .

א. מצא את תחום ההגדרה של הפונקציה.

ב. מהי האסימפטוטה של הפונקציה המקבילה לציר ה- $y$ ?

ג. מצא את תחומי העלייה והירידה של הפונקציה.

ד. לפניך 4 גרפים: I , II , III , ו-IV.
איזה מהגרפים מתאים לפונקציה הנתונה. נמק.

I.
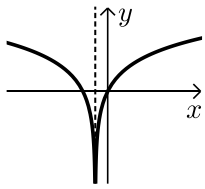


II.
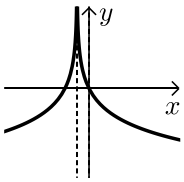


III.
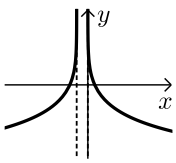


IV.
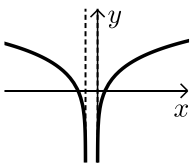


ה. העזר בגרף שבחרת וכתוב את תחומי השליליות של הפונקציה.

**34)** לפניך הפונקציה הבאה: $f(x)=\ln(1-\ln x)$.

א. מה הוא תחום ההגדרה של הפונקציה?

ב. הוכח כי הפונקציה יורדת בכל תחום הגדרתה.

ג. מצא את נקודות החיתוך של גרף הפונקציה עם ציר ה-$x$.

ד. סרטט סקיצה של גרף הפונקציה.

**35)** נתונה הפונקציה הבאה: $y=\ln\frac{2x+1}{x-1}$.

א. מצא את תחום ההגדרה של הפונקציה.

ב. כתוב את האסימפטוטות האנכיות של גרף הפונקציה.

ג. מצא את נקודות החיתוך של גרף הפונקציה עם ציר ה-$x$.

ד. הראה כי גרף הפונקציה יורד בכל תחום הגדרתו.

ה. סרטט סקיצה של גרף הפונקציה.

**36)** נתונה הפונקציה הבאה: $f(x)=x\left(\ln^3 x+2\ln^2 x\right)$.

א. הראה כי נגזרת הפונקציה היא: $f'(x)=\ln^3 x+5\ln^2 x+4\ln x$.

ב. מצא את התחום בו הפונקציה עולה.

ג. ענה על השאלות הבאות:

i. מצא את נקודות החיתוך של הפונקציה עם ציר ה-$x$.

ii. מצא את התחום בו הפונקציה חיובית.

ד. לפניך 4 גרפים. קבע איזה מהם מתאר את הפונקציה $f(x)$ ונמק את בחירתך.

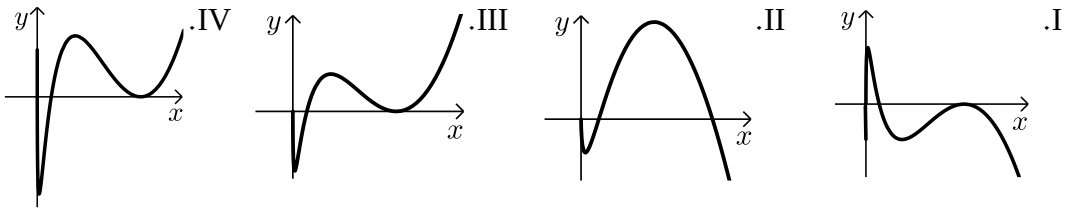


**37)** נתונה הפונקציה: $f(x)=\ln^3 x-3\ln x$.

א. מה הוא תחום ההגדרה של הפונקציה.

ב. מצא את נקודות החיתוך של הפונקציה עם ציר ה-$x$.

ג. מצא את נקודות הקיצון של הפונקציה וקבע את סוגן.

ד. סרטט סקיצה של גרף הפונקציה.

ה. מצא את נקודות החיתוך של גרף הפונקציה $f(x)$ עם הפונקציה: $g(x)=\ln x$.

**38)** ענה על הסעיפים הבאים:

א. פתור את המשוואה הבאה: $\ln(x+e)-\ln(x\sqrt{e})=\ln 2-0.5$.

נתונה הפונקציה: $f(x)=\ln(x+e)-\ln(x\sqrt{e})$.

ב. הראה כי הפונקציה יורדת בכל תחום הגדרתה.

ג. מצא את משוואת המשיק לגרף הפונקציה בנקודה שבה: $x=e$.

**39)** נתונה הפונקציה הבאה: $y=\dfrac{x+a}{\ln(x+a)}$ , $a$ פרמטר חיובי, $a\neq 1$.

א. הבע באמצעות $a$ את:

i. תחום ההגדרה של הפונקציה.

ii. הנקודה המקיימת $y'=0$.

iii. נקודת החיתוך של גרף הפונקציה עם הצירים.

iv. האסימפטוטה האנכית של הפונקציה.

ב. ידוע כי גרף הפונקציה עולה רק בתחום: $x>e-2$. מצא את $a$.

ג. סרטט סקיצה של גרף הפונקציה בתחום $x>-1$.

ד. נתון הישר: $y=k$. מצא בסקיצה את תחום הערכים של $k$ עבורו לישר ולגרף הפונקציה לא תהיה אף נקודה משותפת.

**40)** נתונה הפונקציה הבאה: $y=\ln x+\dfrac{1}{x}$.

א. ענה על הסעיפים הבאים:

i. מהו תחום ההגדרה של הפונקציה?

ii. יש לגרף הפונקציה אסימפטוטה מקבילה לציר $y$?
אם כן מצא אותה.

ב. מצא את נקודת הקיצון של גרף הפונקציה וקבע את סוגה.

ג. כתוב את תחומי העלייה והירידה של גרף הפונקציה.

## תשובות סופיות:

**11)** א. $x>0$ ב. $x\neq 0$ ג. $x>10$ או $x<-2$ ד. $x>\ln 4$
ה. $0<x\neq e$ ו. $x>0$ וגם $x\neq e^{3},e^{-1}$ ז. $x\geq e$.

**12)** $\max(1,-1)$.

**13)** $\min\left(\frac{1}{\sqrt{e}},-\frac{1}{2e}\right)$.

**14)** $\min(\sqrt{e},0)$ קצה, $\max\left(e,\frac{1}{e}\right)$.

**15)** $\min(4,-1)$.

**16)** $a=1$ , $b=-1$.

**17)** $a=1$ , $b=-1$.

**18)** $x=3$.

**19)** נקודת אי הגדרה $(0,0)$ , $x=e$ , $y=0$.

**20)** נקודת אי הגדרה $(0,2)$ , $x=\frac{1}{e}$ , $y=2$.

**21)** נקודת אי הגדרה $\left(e^{2},\frac{1}{4}\right)$ ; $(0,0)$ , $x=\frac{1}{e^{2}}$ , $y=0$.

**22)** $x=0$ , $y=0$.

**23)** נקודת אי הגדרה $(0,0)$.

**24)** נקודת אי הגדרה $(0,2)$.

**25)** $\left(\sqrt{e^{3}},\frac{3}{2\sqrt{e^{3}}}\right)$.

**26)** א. i. $x>0$ iii. $\max(1,-3.5)$ , $\min(3,\ln 27-7.5)$
iv. עולה: $0<x<1$ , $x>3$ יורדת: $1<x<3$.
ב. i. $x>0$ ii. $(1,0)$
iii. $\min(e^{-1},-e^{-1})$ iv. עולה: $x>e^{-1}$ יורדת: $0<x<e^{-1}$.
ג. i. $x>0$ ii. $(e,0)$ iii. $\min(1,-1)$ iv. עולה: $x>1$ יורדת: $0<x<1$
ד. i. $x>0$ ii. $(1,0)$ iii. $\min\left(e^{-2},-\frac{2}{e}\right)$ iv. עולה: $x>e^{-2}$ יורדת: $0<x<e^{-2}$

ה. i. $x>0$ ii. $(1,0)$ iii. $\min\left(\frac{1}{\sqrt{e}},-\frac{1}{2e}\right)$ iv. עולה: $x>\frac{1}{\sqrt{e}}$ יורדת: $0<x<\frac{1}{\sqrt{e}}$

ו. i. כל $x$ ii. $(0,0)$ iii. $\min(0,0)$ iv. עולה: $x>0$ יורדת: $x<0$.

**27)** א. $x>0$ ב. $\min(1,0)$ , $\max\left(\frac{1}{e^2},\frac{8}{e^2}\right)$

ג. עלייה: $x>1$ או $0<x<\frac{1}{e^2}$ , ירידה: $\frac{1}{e^2}<x<1$. ד. $(1,0)$.

**28)** א. $0<x\neq e$ ב. $\min(e^2,e^2)$ ג. עלייה: $x>e^2$ , ירידה:

$0<x<e^2$ וגם $x\neq e$ ד. אין. ו. $k>e^2$.

**29)** א. $x>0$ ב. $\min(4,-1)$ ג. עלייה: $x>4$ , ירידה: $0<x<4$

ד. $(16,0)$ , $(1,0)$.

**30)** א. $x\geq 1$ ב. מתקבל: $f'(x)=\frac{1}{2x\sqrt{\ln x}}>0$ ג. $(e,1)$ , $(1,0)$.

ד. $x=\sqrt[4]{e}$.

**31)** א. i. לא נכון. תחום ההגדרה של $f(x)$ הוא: $x>0$ , $x\neq 1$ ותחום ההגדרה של $g(x)$ הוא: $x>0$.

ii. לא נכון. לשתי הפונקציות נקודת קיצון שבה $x=e$ אך עבור $f(x)$ מדובר במינימום ועבור $g(x)$ מדובר במקסימום.

iii. לא נכון. עבור $f(x)$ : עולה: $x>e$ יורדת: $0<x<e$ , $x\neq 1$.

ועבור $g(x)$ : עולה: $0<x<e$ יורדת: $x>e$. iv. נכון.

ב. לגבי כל נקודה נאמר כי שיעור ה- $y$ שלה הוא: $y=\frac{x}{\ln x}$ ו- $y=\frac{\ln x}{x}$.

נכפול: $y=\frac{x}{\ln x}\cdot\frac{\ln x}{x}=1$.

**32)** א. $x<-1$ , $x>7$ ב. $x=-1,7$ ג. עולה: $x>7$ יורדת: $x<-1$.

ד. III. <u>הסבר</u>: באיורים I ו-II גרף הפונקציה לא בתחום.
באיור IV תחומי העלייה והירידה הפוכים.

**33)** א. $x\neq -1$ ב. $x=-1$ ג. עולה: $x>-1$ יורדת: $x<-1$

ד. I. <u>הסבר</u>: באיור II תחומי העלייה והירידה הפוכים.
באיורים III ו-IV יש אסימפטוטה מיותרת. ה. $x\neq -1$ , $-2<x<0$.

**34)** א. $0<x<e$. (שימו לב כי תנאי ת.ה. הם: $1-\ln x>0$ וגם $x>0$).

ב. $f'(x)=\frac{-\frac{1}{x}}{1-\ln x}=-\frac{1}{x(1-\ln x)}<0$ - ולכן הפונקציה יורדת בת.ה.

ג. $(1,0)$.

**35)** א. $x>1$ , $x<-\frac{1}{2}$ ב. $x=-\frac{1}{2},1$ ג. $(-2,0)$

ד. מתקבל: $y'=\frac{-3}{(2x+1)(x-1)}<0$.

**36)** ב. $e^{-4}<x<e^{-1}$ , $x>1$.

ג. i. 2 נקודות והן: $(e^{-2},0)$ , $(1,0)$. הנקודה שבה: $x=0$ לא קיימת עקב ת.ה.

ii. $x>e^{-2}$ , $x\neq 1$. ד. III – בראשית הצירים יש חור ולא אסימפטוטה.

שאר הנתונים כפי שהתקבלו בסעיפים הקודמים.

**37)** א. $x>0$ ב. $(e^{-\sqrt{3}},0)$ , $(e^{\sqrt{3}},0)$ , $(1,0)$ ג. $\max(e^{-1},2)$ , $\min(e,-2)$

ה. $(e^{-2},-2)$ , $(e^{2},2)$ , $(1,0)$.

**38)** א. $x=e$ ב. מתקבל: $y'=\frac{-e}{x(x+e)}<0$ ג. $y=-\frac{1}{2e}x+\ln 2$.

**39)** א. i. $x>-a$ , $x\neq 1-a$ ii. $(e-a,e)$ iii. $\left(0,\frac{a}{\ln a}\right)$

iv. $x=1-a$ ב. $a=2$ ד. $k<e$.

**40)** א. i. $x>0$ ii. $x=0$ ב. $\min(1,1)$ ג. עולה: $x>1$ , יורדת: $0<x<1$.

**סקיצות לשאלות:**

27)

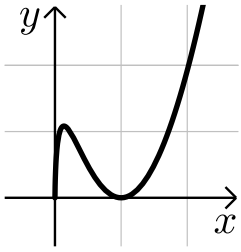


28)

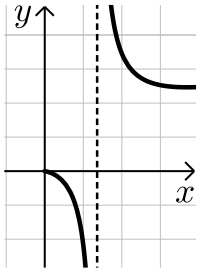


29)

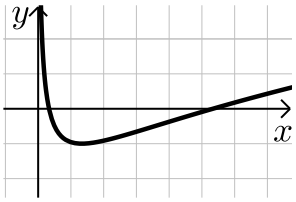


34)

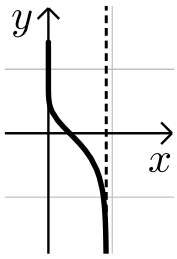


35)

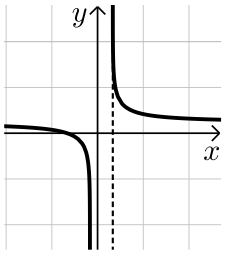


37)

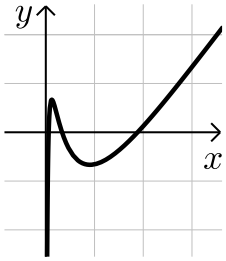


39)

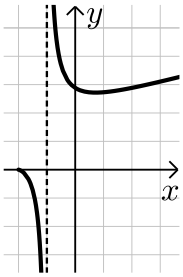

# קורס קדם במתמטיקה למהנדסים

## פרק 31 - חשבון דיפרנציאלי - חילוק פולינומים ופתרון משוואות פולינומיאליות

תוכן העניינים


1. חילוק פולינומים ..... 479
2. פתרון משוואות ..... 480
3. שאלות מסכמות ..... 481

# חילוק פולינומים:

## סיכום כללי:

בחילוק פולינום $p(x)$ בפולינום $q(x)$ (נכתב: $\overline{p(x)}|q(x)$ ) יש לבצע 4 שלבים:

1) חלוקת האיבר במעלה הגבוהה ביותר של $p(x)$ באיבר במעלה הגבוהה ביותר של $q(x)$.
2) רישום תוצאת החילוק בצד והכפלתה בכל הפולינום המחלק $q(x)$.
3) חיסור של תוצאת ההכפלה בפולינום המחולק $p(x)$.
4) חזרה לשלב הראשון כאשר מבצעים את חילוק האיבר במעלה הגבוהה ביותר של $q(x)$ בתוצאת החיסור.

התהליך מסתיים כאשר לא ניתן לחלק עוד.
במידה ותוצאת החיסור האחרונה מניבה ביטוי שמעלתו קטנה משל האיבר המחלק ב-$q(x)$ אז נתייחס לביטוי זה כאל שארית החלוקה.

## שאלות:

בצע את חילוק הפולינומים הבאים:

1) $\frac{x^2-5x-14}{x+2}$
2) $\frac{x^3+x^2+3x-5}{x-1}$
3) $\frac{x^4+x^3-x^2+14x-3}{x+3}$
4) $\frac{x^3-4x^2+9}{x-3}$
5) $\frac{x^3+5x^2-4x-20}{x+5}$
6) $\frac{x^3-x^2+x-1}{x-1}$
7) $\frac{4x^4+6x^3+31x^2+99x+10}{x^2-x+10}$
8) $\frac{4x^2+x-1}{x-2}$

## תשובות סופיות:

1) $x-7$
2) $x^2+2x+5$
3) $x^3-2x^2+5x-1$
4) $x^2-x-3$
5) $x^2-4$
6) $x^2+1$
7) $4x^2+10x+1$
8) $4x+9+\frac{17}{x-2}$

# פתרון משוואות:

## סיכום כללי:

### משפטים כלליים:

- לכל משוואה פולינומיאלית ממעלה $n$ יש בדיוק $n$ שורשים.
- אם לפולינום שורש מרוכב $a+bi$ אז גם המספר הצמוד $a-bi$ הוא שורש שלו.
- יהי $p(x)=x^n+a_{n-1}x^{n-1}+...+a_1x+a_0$ פולינום שכל מקדמיו מספרים שלמים.
  אם לפולינום שורש שהוא מספר שלם, אז הוא מחלק את האיבר החופשי $a_0$.
- אם $x=a$ שורש של פולינום $p(x)$, אז הפולינום $p(x)$ מתחלק ב-$x-a$ ללא שארית.
- אם $p(x)$ פולינום ואם $p(a)=0$ וגם $p'(a)=0$ אז $x=a$ הוא שורש כפול.

## שאלות:

פתור את המשוואות הבאות:

1) $k^4+3k^3-15k^2-19k+30=0$
2) $k^3+2k^2-3k+20=0$
3) $k^5+3k^4+2k^3-2k^2-3k-1=0$
4) $k^3-6k^2+12k-8=0$
5) $k^6-3k^4+3k^2-1=0$
6) $k^3-k^2+k-1=0$
7) $k^4-3k^3+6k^2-12k+8=0$

## תשובות סופיות:

1) $k_1=1\ ,\ k_2=-2\ ,\ k_3=3\ ,\ k_4=-5$
2) $k_1=-4\ ,\ k_{2,3}=1\pm 2i$
3) $k_1=1\ ,\ k_2=-1\ ,\ k_3=-1\ ,\ k_4=-1\ ,\ k_5=-1$
4) $k_1=2\ ,\ k_2=2\ ,\ k_3=2$
5) $k_1=1\ ,\ k_2=-1\ ,\ k_3=1\ ,\ k_4=-1,\ k_5=1,\ k_6=-1$
6) $k_1=1\ ,\ k_{2,3}=\pm i$
7) $k_1=1\ ,\ k_2=2\ ,\ k_{3,4}=\pm 2i$

# שאלות מסכמות:

## שאלות:

**1)** לפניך הפולינום הבא: $P(x)=ax^3+bx^2+cx+d$.

א. מצא את המקדמים של הפולינום אם נתון כי:

i. הפולינום מתחלק ב-$2x+3$ ללא שארית.

ii. הפולינום מקיים: $P(4.5)=27$.

iii. לפונקציה $y=P(x)$ יש מקסימום מקומי עבור $x=0$ ומינימום מקומי עבור $x=\frac{1}{2}$.

ב. הצב את המקדמים שקיבלת וסרטט את גרף הפונקציה $y=P(x)$.

**2)** מצא את ערכי הפרמטרים $a$ ו- $b$ של הפולינום: $P(x)=ax^3+bx^2-9ax-3b-24a$

אם נתון ש- $P(x)$ מתחלק ב- $x^2-9$ ללא שארית וגם: $P(1)=-10$.

**3)** הוכח כי: $P(x)=x^{2n}-nx^{n+1}+nx^{n+1}-1$ מתחלק ב- $(x-1)^3$ ללא שארית לכל $n$ טבעי.

**4)** עבור אלו ערכים של $a$ ו- $b$ מתחלק הפולינום: $P(x)=ax^6+4x^5+bx^4+2$ ב- $(x-1)^2$ ללא שארית?

**5)** אם מחלקים את הפולינום $P(x)$ ב- $(3x-4)$ מקבלים שארית 2, ואם מחלקים אותו ב- $(x-1)$ מקבלים שארית 2-.

מצא את שארית החילוק של הפולינום $P(x)$ ב- $(x-1)(3x-4)$.

**6)** נתון הפולינום $P(x)$. אם נחלק אותו ב- $4-x^2$ נקבל שארית 1, ואם נחלק אותו ב- $x-3$ נקבל שארית 4. מצא את שארית החילוק של הפולינום $P(x)$ ב- $(4-x^2)(x-3)$.

**7)** הפולינום: $P(x)=x^5+bx^4+cx^2+2x-1$ , ( $b$ ו- $c$ פרמטרים) מתחלק ב- $x-1$ עם שארית $R_1=2\frac{3}{4}$ ומתחלק ב- $x-2$ עם שארית $R_2=41$ .

א. מצא את $b$ ו- $c$ .

ב. מהן המנה והשארית בחלוקת $P(x)$ ב- $x^2-3x$ ?

**8)** נתון הפולינום: $P(x)=x^4-5x^3+ax^2-10x-28$ .

ידוע כי $P(x)$ מתחלק ללא שארית בפולינום $x^2-5x+b$ .

א. מצא את ערכי הפרמטרים $a$ ו- $b$ .

ב. חשב את שורשי המשוואה $P(x)=0$ מעל המספרים המרוכבים.

**9)** עבור אילו ערכים של הקבוע $k$ למשוואה $-x^3+(1-k^2)x^2+(1-3k)x-1=0$ יש פתרון $x=1$ ? מצא את כל הפתרונות של המשוואה עבור $k$ שמצאת.

**הערה:**

השאלה הבאה מיועדת רק לתלמידים שלמדו נוסחאות וייטה למשוואה ממעלה שלישית:

**10)** מצא את כל שורשי המשוואה $t^3-2t^2(2+\sqrt{3})+t(\sqrt{192}+1)-\sqrt{12}=0$

אם ידוע כי מכפלה של שניים משורשיה שווה ל-1.

**11)** מצא פולינום ממשי ממעלה רביעית ששורשיו הם: $-1\ ,\ 2\ ,\ 1+\sqrt{2}i$ .

**12)** פתור את המשוואה $z^4-2z^3+z^2+2z-2=0$ אם ידוע שאחד מפתרונותיה הוא $z=1+i$ .

## תשובות סופיות:

1) א. $P(x)=\frac{1}{3}x^3+-\frac{1}{4}x^2+\frac{27}{16}$ ב. להלן גרף:

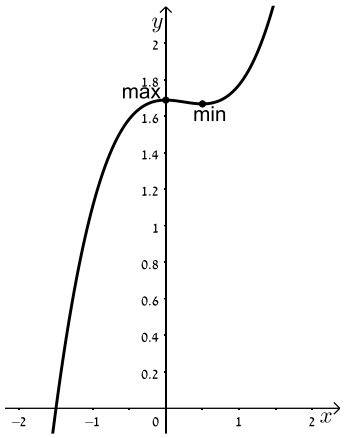


2) $a=\frac{1}{4}$ , $b=1$ .

3) שאלת הוכחה.

4) $a=2$ , $b=-8$ .

5) $R(x)=12x-14$ .

6) $R(x)=\frac{3}{5}x^2-\frac{7}{5}$ .

7) א. $b=\frac{1}{4}$ , $c=\frac{1}{2}$

ב. שארית: $91.25x-1$ , מנה: $x^3+3.25x^2+9.75x+29.75$

8) א. $a=-12$ , $b=-14$ . ב. $x_{1,2}=-2,7$ , $x_{3,4}=\pm\sqrt{2}i$ .

9) עבור $k=0$ מקבלים: $x_1=x_2=1$ , $x_3=-1$ .

עבור $k=-3$ מקבלים: $x_1=1$ , $x_{2,3}=\frac{1}{2}\left(-9\pm\sqrt{85}\right)$ .

10) $t_{1,2}=2\pm\sqrt{3}$ , $t_3=\sqrt{12}$ .

11) $P(x)=x^4-3x^3+3x^2+x-6$ .

12) $z_{1,2}=1\pm i$ , $z_{3,4}=\pm 1$ .

# קורס קדם במתמטיקה למהנדסים

## פרק 32 - מספרים מרוכבים

### תוכן העניינים


1. הגדרת המספר המרוכב ..... 484
2. המספר הצמוד ..... 487
3. חקירת משוואה ריבועית מרוכבת ..... 490
4. מישור גאוס והצגה קוטבית של מספר מרוכב ..... 491
5. נוסחת דה-מואבר למציאת שורשים של מספר מרוכב ..... 495
6. שאלות בסדרות עם מספרים מרוכבים ..... 497
7. שאלות שונות עם מספרים מרוכבים ..... 498

# הגדרת המספר המרוכב:

## סיכום כללי:

**הגדרות כלליות:**

ע"י הסימון: $i=\sqrt{-1}$ מגדירים את המספר מהצורה: $z=a+bi$ כמספר מרוכב בעל חלק ממשי $a$ וחלק מדומה $b$. המספרים $a$ ו- $b$ הם ממשיים.

$a$ נקרא הרכיב הממשי של $z$ ומסומן גם $\mathrm{Re}(z)$ (מלשון: Real).

$b$ נקרא הרכיב המדומה של $z$ ומסומן גם $\mathrm{Im}(z)$ (מלשון: Imaginary).

## שאלות:

**1)** רשום עם $i$:

א. $\sqrt{-1}=$ ב. $\sqrt{-4}=$ ג. $\sqrt{-25}=$

ד. $\sqrt{-3}=$ ה. $\sqrt{-5}=$

**2)** חשב:

א. $i=$ ב. $i^2=$ ג. $i^3=$

ד. $i^4=$ ה. $i^5=$ ו. $i^{17}=$

**3)** רשום את ערכם של $a$ ו- $b$ בעבור המספרים המרוכבים הבאים:

א. $2+5i$ ב. $3-i$ ג. $\frac{\sqrt{3}}{2}-\frac{1}{2}i$

ד. $7i$ ה. $-4$ ו. $0$

**4)** כתוב מספר מרוכב $z$ לפי הדרישות הבאות:

א. $\mathrm{Re}(z)=-3\,,\ \mathrm{Im}(z)=2$.

ב. $\mathrm{Re}(z)=\mathrm{Im}(z)=\frac{\sqrt{2}}{2}$.

**5)** מספר מרוכב מסוים $z$ מקיים: $\mathrm{Re}(z)+\mathrm{Im}(z)=4$ ו- $\mathrm{Re}(z)-\mathrm{Im}(z)=-1$.
מצא את $z$.

**6)** פתור את המשוואות הבאות:

א. $x^2=-1$ ב. $x^2+36=0$ ג. $x^2-2x+5=0$

**7)** פתור את המשוואה הבאה: $x^2+x+1=0$.

**8)** פתור את המשוואה הבאה: $z^2+iz+6=0$.

**9)** נתון: $z_1=2+3i$ , $z_2=5-2i$. חשב את ערכי הביטויים המרוכבים הבאים:

א. $z_1+z_2=$ ב. $z_1-z_2=$ ג. $z_1\cdot z_2=$

**10)** חשב את ערכי הביטויים הבאים:

א. $(-2+6i)+(1-i)$ ב. $(4+4i)-\left(3+\frac{1}{2}i\right)$

ג. $\left(\frac{1}{2}-\frac{\sqrt{3}}{2}i\right)-\left(\frac{1}{2}+\frac{\sqrt{3}}{2}i\right)$ ד. $5-(3-2i)$

ה. $(i-3)+6i$ ו. $(i+2)-(3i-2)+(7-5i)$

**11)** חשב את ערכי הביטויים הבאים:

א. $(1+4i)\cdot(8-2i)$ ב. $\left(\frac{\sqrt{2}}{2}-\frac{\sqrt{2}}{2}i\right)\cdot\left(\frac{1}{2}+\frac{\sqrt{3}}{2}i\right)$

ג. $(4i-3)\cdot(4i+3)$ ד. $i\cdot(i-1)$

ה. $(2i+3)\cdot i$ ו. $(5i-1)^2$

**12)** נתונים שני מספרים מרוכבים $z_1 = a_1 + b_1 i$ ו- $z_2 = a_2 + b_2 i$ .
ידוע כי $z_1 + z_2$ הוא ממשי וכי $z_1 - z_2$ הוא מדומה.

א. מצא קשר בין $a_1$ ל- $a_2$ וקשר בין $b_1$ ו- $b_2$ .

ב. הראה כי המכפלה $z_1 \cdot z_2$ היא ממשית.

## תשובות סופיות:

**1)** א. $i$ ב. $2i$ ג. $5i$ ד. $\sqrt{3}i$ ה. $\sqrt{5}i$ .

**2)** א. $i$ ב. $-1$ ג. $-i$ ד. $1$ ה. $i$ ו. $i$ .

**3)** א. $a=2\ ,\ b=5$ ב. $a=3\ ,\ b=-1$ ג. $a=\frac{\sqrt{3}}{2}\ ,\ b=-\frac{1}{2}$
ד. $a=0\ ,\ b=7$ ה. $a=-4\ ,\ b=0$ ו. $a=0\ ,\ b=0$ .

**4)** א. $z=-3+2i$ ב. $z=\frac{\sqrt{2}}{2}+\frac{\sqrt{2}}{2}i$ .

**5)** $z=1.5+2.5i$ .

**6)** א. $x=\pm i$ ב. $x=\pm 6i$ ג. $x=1+2i\ ,\ 1-2i$ .

**7)** $z=-\frac{1}{2}+\frac{\sqrt{3}}{2}i\ ,\ -\frac{1}{2}-\frac{\sqrt{3}}{2}i$ .

**8)** $z=2i\ ,\ -3i$ .

**9)** א. $7+i$ ב. $-3+5i$ ג. $16+11i$ .

**10)** א. $-1+5i$ ב. $1+3\frac{1}{2}i$ ג. $-\sqrt{3}i$ ד. $2+2i$ ה. $-3+7i$ ו. $11-7i$

**11)** א. $16+30i$ ב. $\frac{\sqrt{6}+\sqrt{2}}{4}+i\left(\frac{\sqrt{6}-\sqrt{2}}{4}\right)$ ג. $-25$ ד. $-1-i$
ה. $-2+3i$ ו. $-24-10i$ .

**12)** א. $a_1=a_2\ ,\ b_1=-b_2$ ב. הוכחה.

# המספר הצמוד:

## סיכום כללי:

**צמוד קומפלקסי (מרוכב):**

לכל מספר מרוכב $z=a+bi$ קיים מספר צמוד המסומן ב- $\bar{z}$ וערכו: $\bar{z}=a-bi$.

## שאלות:

**13)** רשום את המספר הצמוד של המספרים המרוכבים הבאים:

א. $2+5i$ ב. $3-i$ ג. $\frac{\sqrt{3}}{2}-\frac{1}{2}i$

ד. $7i$ ה. $-4$ ו. $0$

**14)** חשב:

א. $\frac{11+2i}{2-i}$ ב. $\frac{3+7i}{2-5i}$ ג. $\frac{19-9i}{2-3i}$

**15)** נתון מספר $z=5-2i$. חשב את ערכי הביטויים הבאים:

א. $\frac{1}{z}$ ב. $\frac{z}{z+3}$ ג. $\frac{z+i}{z-i}$

**16)** המספר $\frac{3+4i}{a-i}$ הוא ממשי טהור. מצא את $a$.

**17)** נתונים שני מספרים מרוכבים $z_1=a_1+b_1i$ ו- $z_2=a_2+b_2i$.

הראה כי כדי שתוצאת החילוק $\frac{z_1}{z_2}$ תהיה ממשית טהורה, צריך להתקיים: $\frac{a_1}{a_2}=\frac{b_1}{b_2}$.

**18)** פתור את המשוואה הבאה: $3z-11=iz-7i$.

**19)** פתור את המשוואה הבאה: $iz+5=4i$.

**20)** פתור את מערכת המשוואות הבאה ($z$ ו-$w$ משתנים מרוכבים): $\begin{cases}3z+iw=5-4i\\5iz-2w=5+8i\end{cases}$.

**21)** פתור את המשוואות הבאות שבהן $a$ ו-$b$ ממשיים:

א. $2a-3i=10+bi$

ב. $3a-8+5bi=2b-ai-3i$

**22)** פתור את המשוואה הבאה: $2z+7i=iz+\bar{z}-3$.

**23)** חשב את ערכי המספרים המרוכבים הבאים:

א. $\sqrt{5-12i}$

ב. $\sqrt{8+6i}$

**24)** פתור את המשוואות הריבועיות הבאות:

א. $(1-i)z^2-2z+i+1=0$.

ב. $(-2+i)z^2-(6+12i)z+10-25i=0$.

**25)** פתור את המשוואה הבאה: $iz^2-2(1-i)z+6+15i=0$.

**26)** פתור את המשוואה הבאה: $z^2-i\bar{z}+6=0$.

## תשובות סופיות:

**13)** א. $2-5i$ ב. $3+i$ ג. $\frac{\sqrt{3}}{2}+\frac{1}{2}i$ ד. $-7i$ ה. $-4$ ו. $0$.

**14)** א. $4+3i$ ב. $-1+i$ ג. $5+3i$.

**15)** א. $\frac{5}{29}+\frac{2}{29}i$ ב. $\frac{11}{17}-\frac{3}{34}i$ ג. $\frac{14}{17}+\frac{5}{17}i$.

**16)** $a=-\frac{3}{4}$.

**17)** שאלת הוכחה.

**18)** $z=4-i$.

**19)** $z=4+5i$.

**20)** $z=2-3i\ ,\ w=5+i$.

**21)** א. $a=5\ ,\ b=-3$ ב. $a=2\ ,\ b=-1$.

**22)** $z=-\frac{1}{2}-2\frac{1}{2}i$.

**23)** א. $z=\pm(3-2i)$ ב. $z=\pm(3+i)$.

**24)** א. $z_{1,2}=i\ ,\ 1$ ב. $z_{1,2}=-2-i\ ,\ 2-5i$.

**25)** $z_1=-2-5i\ ,\ z_2=3i$.

**26)** $z_1=-3i\ ,\ z_2=2i$.

# חקירת משוואה ריבועית מרוכבת:

## שאלות:

**27)** נתונה המשוואה הבאה: $(mi-2)z^2-2(m+2i)z+1=0$

מצא לאלו ערכים של הפרמטר המרוכב $m$ למשוואה:

א. יש פתרון יחיד.

ב. אין פתרון.

## תשובות סופיות:

**27)** א. $m=-i$ ב. $m=-2i$.

# מישור גאוס והצגה קוטבית של מספר מרוכב:

## סיכום כללי:

ניתן לאפיין מספר מרוכב $z$ ע"י הצגתו במישור שבו ציר ה-$x$ מייצג את $a$ , גודל הערך הממשי של $z$ , וציר ה-$y$ מייצג את $b$, גודל הערך המדומה של $z$.

מישור זה נקרא מישור גאוס ומופיע באיור הסמוך.

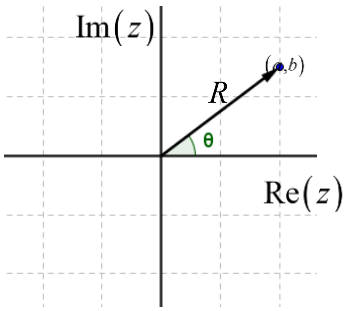


במישור גאוס ניתן לאפיין כל נקודה ע"י הזוג: $(a,b)$

או ע"י הערך המוחלט של המספר (מרחקו מ-$(0,0)$)

והזווית שלו בין הקרן החיובית של הציר הממשי לרדיוס.

הצמד הנ"ל מוגדר כהצגה קוטבית של מספר מרוכב

ויסומן: $(R,\theta)$. מספר מרוכב בהצגה קוטבית:

$z = R\cos\theta + i\cdot R\sin\theta = R(\cos\theta + i\sin\theta) = R\text{cis}\theta$.

### נוסחאות ומעברים:

- מעבר מהצגה קוטבית לקרטזית (אלגברית): $\tan\theta = \frac{b}{a}$ , $R = \sqrt{a^2+b^2}$.
- מעבר מהצגה קרטזית לקוטבית: $a = R\cos\theta$ , $b = R\sin\theta$.
- גודל של מספר מרוכב $z$ יסומן: $|z|$ ויחושב: $|z| = R = \sqrt{a^2+b^2}$.

### פעולות חשבון בהצגה קוטבית:

- כפל מספרים מרוכבים: $z_1\cdot z_2 = (R_1\text{cis}\theta_1)\cdot(R_2\text{cis}\theta_2) = R_1R_2\text{cis}(\theta_1+\theta_2)$.
- חילוק מספרים מרוכבים: $\frac{z_1}{z_2} = \frac{R_1\text{cis}\theta_1}{R_2\text{cis}\theta_2} = \frac{R_1}{R_2}\text{cis}(\theta_1-\theta_2)$.

## שאלות:

**28)** כתוב את המספרים המרוכבים הבאים בהצגה אלגברית:

א. $2\text{cis}60°$ ב. $6\text{cis}135°$ ג. $4\text{cis}330°$

ד. $4\text{cis}(-30°)$ ה. $4\text{cis}690°$ ו. $8\text{cis}90°$

ז. $3\text{cis}270°$ ח. $\text{cis}180°$ ט. $\text{cis}0°$

**29)** הפוך להצגה קוטבית:

א. $1+i$ ב. $\sqrt{3}-i$ ג. $-\frac{1}{2}-\frac{\sqrt{3}}{2}i$

ד. $3+4i$ ה. $6i$ ו. $-i$

ז. $4$ ח. $-1$ ט. $1$

י. $0$

**30)** חשב את ערכי הביטויים הבאים:

א. $2\text{cis}120°\cdot 3\text{cis}60°$ ב. $\text{cis}210°\cdot 5\text{cis}(-40°)$

ג. $\frac{12\text{cis}315°}{3\text{cis}90°}$ ד. $\frac{1}{2\text{cis}40°}$

ה. $6\text{cis}30°+2\text{cis}210°$

**31)** נתון המספר המרוכב $z=R\text{cis}\theta$. הבע באמצעות $R$ ו-$\theta$ את המספרים:

א. $\bar{z}$ ב. $1/z$ ג. $-z$

ד. $-\frac{1}{z}$ ה. $iz$ ו. $z\cdot\bar{z}$

**32)** הראה כי המספרים הבאים הם ממשיים טהורים:

א. $z+\bar{z}$ ב. $z\cdot\bar{z}$ ג. $\frac{z}{\bar{z}}+\frac{\bar{z}}{z}$

**33)** הראה כי המספרים הבאים הם מדומים טהורים:

א. $z^2-\bar{z}^2$ ב. $\frac{1}{\bar{z}}-\frac{1}{z}$

**34)** הוכח את הטענות הבאות:

א. $z - i\overline{z} = \overline{\overline{z} + iz}$ ב. $z \cdot \overline{z} = |z|^2$

**35)** מצא את קדקודיו של ריבוע החסום במעגל קנוני שרדיוסו $\sqrt{2}$ במישור גאוס אם ידוע שצלעותיו מקבילות לצירים.

**36)** ריבוע חסום במעגל קנוני במישור גאוס. אחד מקודקודי הריבוע הוא $1+\sqrt{3}i$.
מצא את קדקודיו האחרים.

**37)** משולש שווה צלעות חסום במעגל קנוני במישור גאוס.
אחד מקודקודי המשולש הוא $1+\sqrt{3}i$. מצא את קדקודיו האחרים.

**38)** משולש שווה שוקיים, שזווית הבסיס שלו היא $30°$ חסום במעגל קנוני במישור גאוס. קדקוד הראש של המשולש הוא $1+\sqrt{3}i$. מצא את קדקודיו האחרים.

**39)** $z$ הוא מספר מרוכב במישור גאוס הנמצא מחוץ למעגל היחידה.
קבע אם המספרים הבאים נמצאים בתוך מעגל היחידה, עליו או מחוץ לו:

א. $\overline{z}$ ב. $\frac{1}{z}$ ג. $\frac{z}{\overline{z}}$ ד. $z \cdot \overline{z}$

## תשובות סופיות:

**28)** א. $1+\sqrt{3}i$ ב. $-3\sqrt{2}+3\sqrt{2}i$ ג. $2\sqrt{3}-2i$ ד. $2\sqrt{3}-2i$
ה. $2\sqrt{3}-2i$ ו. $8i$ ז. $-3i$ ח. -1 ט. 1.

**29)** א. $\sqrt{2}\text{cis}45°$ ב. $2\text{cis}330°$ ג. $\text{cis}240°$ ד. $5\text{cis}53.13°$
ה. $6\text{cis}90°$ ו. $\text{cis}270°$ ז. $4\text{cis}0°$ ח. $\text{cis}180°$
ט. $\text{cis}0°$ י. 0.

**30)** א. $-6$ ב. $5\text{cis}170°$ ג. $4\text{cis}225°$ ד. $\frac{1}{2}\text{cis}(-40°)$
ה. $4\text{cis}30°$.

**31)** א. $R\text{cis}(-\theta)$ ב. $\frac{1}{R}\text{cis}(-\theta)$ ג. $R\text{cis}(180°+\theta)$
ד. $\frac{1}{R}\text{cis}(180°+\theta)$ ה. $R\text{cis}(90°+\theta)$ ו. $R^2$.

**32)** שאלת הוכחה.

**33)** שאלת הוכחה.

**34)** שאלת הוכחה.

**35)** $1-i$, $-1-i$, $-1+i$, $1+i$.

**36)** $\sqrt{3}-i$, $-1-\sqrt{3}i$, $-\sqrt{3}+i$.

**37)** $-2$, $1-\sqrt{3}i$, $1+\sqrt{3}i$.

**38)** $2$, $-1+\sqrt{3}i$, $1+\sqrt{3}i$.

**39)** א. מחוץ למעגל. ב. בתוך המעגל ג. על המעגל
ד. מחוץ למעגל.

# נוסחת דה-מואבר למציאת שורשים של מספר מרוכב:

## סיכום כללי:

**משפט דה-מואבר:**

כדי להעלות מספר מרוכב $z$ בחזקת $n$ נעזר בקשר: $\left(R\text{cis}\theta\right)^n = R^n\text{cis}\left(n\theta\right)$.

**שורשים של מספר מרוכב:**

כדי להוציא שורש $n$-י של מספר מרוכב $z$ השווה למספר מרוכב אחר $z_0 = R_0\text{cis}\theta_0$

נבצע: $1 \le k \le n$ : $z^n = z_0 = R_0\text{cis}\theta_0 \;/\; \sqrt[n]{\phantom{x}} \quad \Rightarrow \quad z_k = \sqrt[n]{R_0}\cdot\text{cis}\left(\frac{\theta_0}{n}+\frac{2\pi k}{n}\right)$.

## שאלות:

**40)** חשב את ערכי הביטויים הבאים תוך שימוש בנוסחת דה-מואבר:

א. $\left(2\text{cis}30°\right)^3$ ב. $\left(2\text{cis}14°\right)^5$ ג. $\left(1+i\right)^4$

ד. $\left(\sqrt{3}-i\right)^3$ ה. $\left(-\frac{1}{2}+\frac{\sqrt{3}}{2}i\right)^{12}$

**41)** פתור את המשוואות הבאות:

א. $z^2 = 36\text{cis}120°$ ב. $z^4 = \left(9\text{cis}80°\right)^2$ ג. $z^5 = \frac{1}{2}+\frac{\sqrt{3}}{2}i$

**42)** מצא את סכום ומכפלת שורשי היחידה מסדר 4.

**43)** נתון המספר המרוכב $z = x+iy$.

מצא את המקום הגאומטרי במישור גאוס המתקבל בעבור המשוואה: $|z| = 2$.

**44)** נתון המספר המרוכב $z = x + iy$ .

מצא את המקום הגאומטרי במישור גאוס המתקבל בעבור המשוואה : $|z - 3i| = 5$ .

**45)** נתון המספר המרוכב $z = x + iy$ . מצא את המקום הגאומטרי במישור גאוס המתקבל בעבור המשוואה : $|z + i| + |\bar{z} + i| = |1 + 3i|$ .

## תשובות סופיות:

**40)** א. $8i$ ב. $32\text{cis}70°$ ג. -4 ד. $-8i$ ה. 1.

**41)** א. $z_0 = 6\text{cis}60°$ , $z_1 = 6\text{cis}240°$ .

ב. $z_0 = 3\text{cis}40°$ , $z_1 = 3\text{cis}130°$ , $z_2 = 3\text{cis}220°$ , $z_3 = 3\text{cis}310°$ .

ג. $z_0 = \text{cis}12°$ , $z_1 = \text{cis}84°$ , $z_2 = \text{cis}156°$ , $z_3 = \text{cis}228°$ , $z_4 = \text{cis}300°$ .

**42)** סכום : 0 , מכפלה : -1 .

**43)** $x^2 + y^2 = 4$ .

**44)** $x^2 + (y - 3)^2 = 25$ .

**45)** $\frac{2x^2}{3} + \frac{2y^2}{5} = 1$ .

# שאלות בסדרות עם מספרים מרוכבים:

## שאלות:

**46)** בסדרה חשבונית האיבר השביעי הוא $a_7 = 13+3i$ והאיבר השלישי הוא $a_3 = 5-9i$. מצא את סכום עשרת האיברים הראשונים בסדרה.

**47)** בסדרה הנדסית האיבר החמישי הוא $a_5 = 32+16i$ והאיבר השני הוא $a_2 = 2-4i$.

א. מצא את האיבר הראשון בסדרה ואת מנת הסדרה, אם נתון שמנת הסדרה היא מספר מרוכב הנמצא על הציר המדומה במישור גאוס.

ב. מצא את סכום חמשת האיברים הראשונים בסדרה.

**48)** נתונים שלושה איברים סמוכים בסדרה הנדסית. האיבר הראשון ביניהם הוא 2. נתון כי אם מוסיפים לאיבר השלישי $4i$ מתקבלים שלושה איברים סמוכים בסדרה חשבונית. מצא את שלושת איברי הסדרה ההנדסית (שתי אפשרויות).

## תשובות סופיות:

**46)** $S_{10} = 100-15i$.

**47)** א. $a_1 = 2+i$ , $q = -2i$ ב. $S_5 = 20+25i$.

**48)** $-2$ , $2i$ , $2$ או $6-8i$ , $4-2i$ , $2$.

# שאלות שונות עם מספרים מרוכבים:

## שאלות:

**49)** פתור את המשוואה: $z-\bar{z}+|z|=|2-i|^2-4i+\mathrm{Im}(z)$.

**50)** פתור את המשוואה: $\left|2-3^{x^2-x-1}i\right|=\sqrt{13}$.

**51)** פתור את המשוואה: $z^3=\bar{z}$.

**52)** הוכח: אם מקדמי משוואה ריבועית הם מספרים ממשיים ואין למשוואה פתרונות ממשיים אז פתרונות המשוואה הם שני מספרים צמודים.

**53)** נתונים שני מספרים מרוכבים שאינם ממשיים טהורים.
הוכח: אם סכום המספרים ממשי ומכפלתם ממשית אז המספרים צמודים.

**54)** נתון מספר מרוכב $z$, שאינו ממשי טהור ואינו מדומה טהור.
הוכח כי אם $z-\frac{1}{\bar{z}}$ ממשי אז $z$ על מעגל היחידה.

**55)** הוכח את הנוסחה הבאה: $R_1\mathrm{cis}\theta_1\cdot R_2\mathrm{cis}\theta_2=R_1R_2\mathrm{cis}(\theta_1+\theta_2)$.

**56)** $z$ הוא מספר מרוכב על מעגל היחידה ברביע הראשון.
נתון: $\left|z^4-z^3\right|=\sqrt{2-\sqrt{3}}$. מצא את $\arg(z)$.

**57)** $z$ הוא מספר מרוכב על מעגל היחידה.
מצא את ערך הביטוי $z+iz$, אם ידוע שהוא ממשי.

58) $z_1$ ו- $z_2$ הם פתרונות המשוואה הבאה: $z^2-2\cos\theta\cdot z+1=0$.
הבע באמצעות $\theta$ את גודל הזווית $\sphericalangle z_1Oz_2$ (O ראשית הצירים).

## תשובות סופיות:

49) $z_1=3-4i$ , $z_2=-3-4i$.

50) $x=2$ , $-1$.

51) $z_1=0$ , $z_2=i$ , $z_3=-i$ , $z_4=1$ , $z_5=-1$.

52) שאלת הוכחה.

53) שאלת הוכחה.

54) שאלת הוכחה.

55) שאלת הוכחה.

56) $\arg(z)=30°$.

57) $z+iz=\sqrt{2}$ , $-\sqrt{2}$.

58) $2\theta$.