קורס השלמה במתמטיקה

תוכן העניינים

1. מבוא לאלגברה 1
2. משוואות אלגבריות 47
3. הפונקציה הריבועית ..... (ללא ספר)
4. אי שוויונים אלגבריים 69
5. סדרות 85
6. חוקי החזקות והשורשים 105
7. משוואות ואי-שוויונים מעריכיים 115
8. חוקי הלוגריתמים, משוואות ואי-שוויונים לוגריתמים 125
9. בעיות גדילה ודעיכה 141
10. מבוא לגאומטריה של המישור 154
11. גיאומטריה אוקלידית - משולשים 162
12. גיאומטריה אוקלידית - מרובעים 183
13. גיאומטריה אוקלידית - שטחים והיקפים 207
14. טריגונומטריה במשולש ישר זווית 221
15. זהויות טריגונומטריות 226
16. משוואות טריגונומטריות 247
17. טריגונומטריה במישור 252
18. גיאומטריה אנליטית - נקודה וישר 285
19. גיאומטריה אנליטית - המעגל 310
20. גיאומטריה אנליטית - האליפסה 329
21. חשבון דיפרנציאלי - נגזרות ומשיקים ..... (ללא ספר)
22. חשבון דיפרנציאלי - חקירת פונקציות ..... (ללא ספר)
23. חשבון דיפרנציאלי של פונקציות מעריכיות ..... (ללא ספר)

תוכן העניינים

24. חשבון דיפרנציאלי של פונקציות לוגריתמיות ..... (ללא ספר)

25. חשבון אינטגרלי ..... (ללא ספר)

26. חשבון אינטגרלי של פונקציות טריגונומטריות, מעריכיות, לוגריתמיות וחזקה ..... (ללא ספר)

קורס השלמה במתמטיקה

פרק 1 - מבוא לאלגברה

תוכן העניינים

1. מספרים מכוונים 1
2. חזקות ושורשים עם מספרים מכוונים 5
3. סדר פעולות חשבון עם מספרים מכוונים 7
4. שברים פשוטים, עשרוניים ואחוזים 8
5. כפל וחילוק שברים 14
6. חיבור וחיסור שברים 16
7. בעיות יסודיות באחוזים 20
8. חזרה על תבניות מספר 22
9. כינוס איברים 24
10. פישוט ביטויים על ידי פתיחת סוגריים 26
11. פישוט ביטויים באמצעות נוסחאות הכפל המקוצר 28
12. פירוק לגורמים של ביטויים אלגברים 30
13. פירוק הטרינום 33
14. שברים אלגברים 35
15. כפל וחילוק של שברים אלגברים 39
16. חיבור וחיסור של שברים אלגברים 41
17. שברים כפולים 45

מספרים מכוונים:

סיכום כללי:

מספרים מכוונים הם מספרים שיכולים לקבל סימן חיובי או שלילי, כגון:

- בקניון גדול ישנן קומות 1, 2, 3, 4, וכן חניונים הממוקמים בקומות 1-, 2- ו-3-.
- גובה פני הים מוגדר להיות 0 מטרים. העיר חיפה נמצאת כ-103 מטרים מעל פני הים בעוד שים המלח נמצא בגובה 426- מטרים.

כללים:

- כאשר מחברים שני מספרים בעלי סימנים זהים, מחברים את המספרים עצמם והסימן נשאר.
- כאשר מחברים שני מספרים בעלי סימנים מנוגדים, מחסירים את המספרים זה מזה (הקטן מהגדול) וסימן התוצאה כסימן המספר הגדול מביניהם.
- כפל וחילוק יתבצע בשני חלקים:
  - ביצוע הפעולה על המספרים עצמם.
  - קביעת הסימן של התוצאה באופן הבא:
    - כפל או חילוק של שני מספרים בעלי אותו סימן - התוצאה תהיה חיובית.
    - כפל או חילוק של שני מספרים שוני סימן - התוצאה תהיה שלילית.

הערה:

אם יש רצף של מכפלות (או חילוקים), סימן התוצאה תלוי במספר הפעמים שבהם מופיע סימן שלילי (-). אם הסימן מופיע מספר זוגי של פעמים התוצאה חיובית, ואם הוא מופיע מספר אי-זוגי של פעמים אזי התוצאה שלילית.

שאלות:

1) סמנו את המספרים הבאים על ציר המספרים בהתאמה:

$-3\frac{1}{2}$, 4 , $1\frac{1}{3}$, -5 , $-\frac{1}{2}$, 2 , 0 , $\frac{1}{2}$, -2

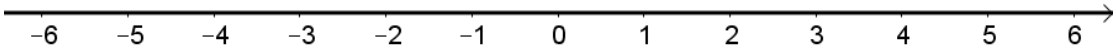

2) חשבו את ערכי הביטויים הבאים:

א. $3+2$	ב. $-3-2$
ג. $3-2$	ד. $-3+2$
ה. $-1-4$	ו. $7+10$
ז. $-6+5$	ח. $-7+3$

3) חשבו את ערכי הביטויים הבאים:

א. $5+7-23+1$	ב. $5-8-12+17$
ג. $3-14+2+6$	ד. $-4-11+2+9$
ה. $6-21+3-7$	ו. $-7-13+5-3$

4) חשב את ערכי הביטויים הבאים:

א. $4\cdot 9$	ב. $4\cdot(-7)$
ג. $(-6)\cdot(-5)$	ד. $(-5)\cdot(-3)$
ה. $(-2)\cdot 8$	ו. $(-8)\cdot 5$
ז. $(-2)\cdot(-3)\cdot(-3)$	ח. $2\cdot 3\cdot 3$
ט. $(-2)\cdot 3\cdot(-3)$	י. $(-2)\cdot(-3)\cdot 3$
יא. $2\cdot 3\cdot(-3)$	יב. $(-2)\cdot(-3)\cdot(-3)\cdot(-2)$
יג. $(-1)\cdot(-2)\cdot(-4)\cdot 2$	יד. $1\cdot(-2)\cdot(-4)\cdot 2$

5) מהו הסימן של תוצאת המכפלה בכל מקרה:

א. $(-2)\cdot(-4)\cdot(-3)\cdot(-10)\cdot(-6)\cdot(-5)$

ב. $(-1)\cdot 2\cdot 4\cdot(-3)\cdot(-10)\cdot 6\cdot(-5)$

ג. $(-1)\cdot 2\cdot 4\cdot(-3)\cdot(-10)\cdot(-6)\cdot(-5)$

ד. $(-1)\cdot 2\cdot 4\cdot(-3)\cdot(-10)\cdot 6\cdot 5$

6) חשבו את ערכי הביטויים הבאים:

א. $(-25):(-5)$

ב. $(-30):3$

ג. $40:(-10)$

ד. $(-32):(-4)$

ה. $(-6):18$

ו. $4:(-16)$

7) חשבו את ערכי הביטויים הבאים:

א. $\frac{-60}{12}$

ב. $\frac{42}{-6}$

ג. $\frac{32}{-4}$

ד. $\frac{-12}{-3}$

8) מה התוצאה של כל אחת מהפעולות הבאות:

א. $0:5$

ב. $(-2)\cdot 0$

ג. $0\cdot(-3)\cdot 4$

ד. $6:0$

ה. $0+4$

ו. $0-4$

תשובות סופיות:

1) להלן מערכת הצירים:

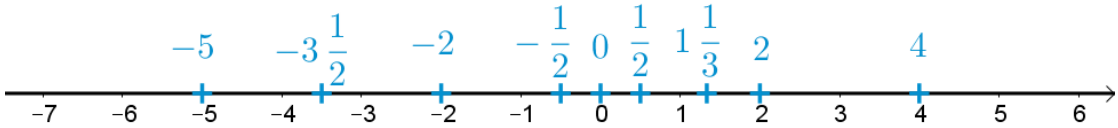

2) א. 5 ב. -5 ג. 1 ד. -1 ה. -5
ו. 17 ז. -1 ח. -4.

3) א. -10 ב. 2 ג. -3 ד. -4 ה. -19 ו. -18.

4) א. 36 ב. -28 ג. 30 ד. 15 ה. -16
ו. -40 ז. -18 ח. 18 ט. 18 י. 18
יא. -18 יב. 36 יג. -16 יד. 16.

5) א. + ב. + ג. - ד. -.

6) א. 5 ב. -10 ג. -4 ד. 8 ה. $-\frac{1}{3}$ ו. $-\frac{1}{4}$.

7) א. -5 ב. -7 ג. -8 ד. 4.

8) א. 0 ב. 0 ג. 0 ד. לא מוגדר ה. 4 ו. -4.

חזקות ושורשים עם מספרים מכוונים:

סיכום כללי:

הגדרה:

פעולת החזקה היא צורה מקוצרת שמייצגת פעולת כפל של אותו מספר בעצמו מספר פעמים. סימון החזקה הוא באופן הבא:

$$a^n = \underbrace{a \cdot a \cdot a \cdot \ldots \cdot a}_{n}$$

כאשר a נקרא הבסיס ו- n נקראת החזקה.

הערות:

- כאשר הבסיס חיובי, התוצאה תמיד תהיה חיובית ללא קשר האם החזקה היא זוגית או אי-זוגית.
- כאשר הבסיס שלילי, התוצאה תהיה חיובית אם החזקה היא זוגית ושלילית אם החזקה היא אי-זוגית.

הגדרה:

פעולת השורש היא הפוכה לפעולת החזקה והיא מאפשרת למצוא את בסיס החזקה. סימון השורש הוא באופן הבא:

$$\sqrt[n]{a}$$

כאשר a נקרא הבסיס ו- n נקרא סדר השורש.

הערות:

- שורש למספר חיובי יכול להיות מסדר זוגי או אי-זוגי.
- שורש למספר שלילי יכול להיות מסדר אי-זוגי בלבד.

שאלות:

1) חשב את ערכי הביטויים הבאים:

א. 3^2
ב. 3^3
ג. $(-3)^3$
ד. $(-2)^3$
ה. 4^3
ו. 3^4
ז. $(-5)^3$
ח. 10^4
ט. $-(-3)^4$
י. -5^4
יא. -4^3
יב. $-(-2)^6$

2) חשב את ערכי הביטויים הבאים:

א. $\sqrt[3]{-27}$
ב. $\sqrt[4]{625}$
ג. $\sqrt[4]{-16}$
ד. $\sqrt[5]{-32}$
ה. $-\sqrt[4]{81}$
ו. $-\sqrt[3]{1000}$

תשובות סופיות:

1) א. 9 ב. 27 ג. -27 ד. -8 ה. 64 ו. 81
ז. -125 ח. 10000 ט. -81 י. -625 יא. -64 יב. -64

2) א.-3 ב. 5 ג. לא מוגדר ד. -2 ה. -3 ו. -10

סדר פעולות חשבון עם מספרים מכוונים:

סיכום כללי:

סדר פעולות חשבון:

- פעולות כפל וחילוק קודמות לפעולות חיבור וחיסור.
- פעולות חזקה ושורש קודמות לפעולות כפל וחילוק.
- סוגריים קודמים לכל.

שאלות:

חשב את ערכי הביטויים הבאים:

1) $\sqrt{81}+3\cdot 2^3-40:8$

2) $(-3)^2:9-2\cdot(-4^2)$

3) $\sqrt{144}-20:4+3\cdot(-2)^2$

4) $3+4\cdot[-3+4\cdot(-2)]+\sqrt{10+6}$

5) $(-3)^4:(-9)-5\cdot(-2)^3$

6) $-\sqrt{9}+5^2:(-4-1)-24:12\cdot 3$

7) $-2^5:(-8)+4^2-3\cdot 5$

8) $\sqrt[3]{-27}+4\cdot 3^2-2\cdot 3^3$

9) $\left[6\cdot(-1)^4-10\cdot(-1)^3\right]\cdot(-1)^5$

10) $\left(8-\sqrt[3]{64}\right)\cdot\left(2\cdot(-4)-\sqrt[5]{243}\right)$

11) $\dfrac{3^2\cdot(8-2\cdot 3)^3}{(5^2\cdot 3-72)\cdot(-4)}+2\cdot\{15-20:(4+3\cdot 2)\}$

תשובות סופיות:

1) 28	**2)** 33	**3)** 19	**4)** -37
5) 31	**6)** -14	**7)** 5	**8)** -21
9) -16	**10)** -44	**11)** 20	

שברים פשוטים, עשרוניים ואחוזים:

סיכום כללי:

הגדרה כללית:

השבר הוא חלק מתוך השלם. מקובל לסמן שבר באמצעות קו שבר המפריד בין המונה (החלק העליון) למכנה (החלק התחתון) באופן הבא:

$$\frac{\text{מונה}}{\text{מכנה}}$$

ישנם שלושה סוגים אפשריים של שברים:

- שבר פשוט – בו המונה קטן מהמכנה (ולכן תמיד יהיה קטן מ-1).
- שבר מדומה – בו המונה גדול מהמכנה (יהיה גדול בערכו מ-1).
- שבר מעורב – המכיל שילוב של מספר שלם ושבר כלשהו.

שבר עשרוני:

שבר שהמכנה שלו הוא מספר המהווה כפולות של 10 כגון: 10, 100, 1000 ...
שבר עשרוני מיוצג ע"י נקודה עשרונית אשר מבדילה בין החלק שלם לחלק השברי באופן הבא:

$$\underbrace{XX}_{\text{שלמים}}.\underbrace{YYY}_{\text{שברים}}$$

כדי להמיר שבר פשוט לשבר עשרוני המכנה צריך להיות בכפולות של 10.

אחוזים - הגדרה:

השבר $\frac{1}{100}$ מוגדר להיות אחוז אחד ומסומן באופן הבא: 1%.

באופן זה השבר $\frac{45}{100}$ יכתב: 45% , והשבר $\frac{145}{100}$ יכתב: 145%.

שאלות:

1) צבע את החלקים המתאימים בכל עיגול:

א. צבע $\frac{1}{2}$ מהעיגול

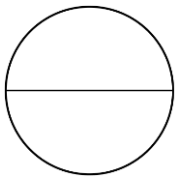

ב. צבע $\frac{1}{6}$ מהעיגול

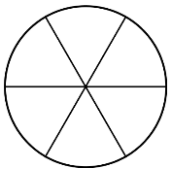

ג. צבע $\frac{3}{8}$ מהעיגול

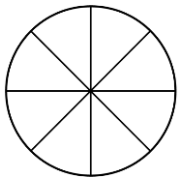

ד. צבע $\frac{2}{5}$ מהעיגול

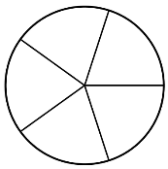

2) כתוב את השבר המתאים לחלקים הצבועים בכל אחד מהמקרים הבאים:

א. שבר:

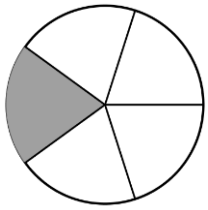

ב. שבר:

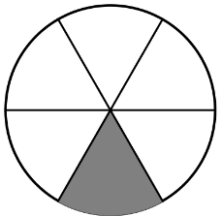

ג. שבר:

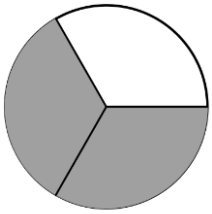

ד. שבר:

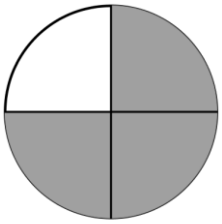

3) הרחב את השברים הבאים:

א. השבר $\frac{1}{2}$ לפי בסיס 4, לפי בסיס 18, לפי בסיס 40.

ב. השבר $\frac{3}{5}$ לפי בסיס 10, לפי בסיס 25, לפי בסיס 60.

ג. השבר $\frac{5}{8}$ לפי בסיס 16, לפי בסיס 32, לפי בסיס 88.

4) צמצם את השברים הבאים ככל הניתן:

א. $\frac{25}{30}$ ב. $\frac{10}{30}$ ג. $\frac{6}{24}$ ד. $\frac{4}{20}$

ה. $\frac{35}{56}$ ו. $\frac{24}{42}$ ז. $\frac{36}{48}$ ח. $\frac{33}{121}$

5) המר את השברים המדומים הבאים לשברים מעורבים:

א. $-\frac{20}{3}$ ב. $\frac{19}{4}$ ג. $\frac{12}{5}$ ד. $\frac{22}{5}$

ה. $-\frac{34}{6}$ ו. $-\frac{50}{7}$ ז. $\frac{47}{8}$ ח. $\frac{60}{9}$

6) המר את השברים המעורבים הבאים לשברים מדומים:

א. $1\frac{2}{3}$ ב. $3\frac{5}{6}$ ג. $4\frac{1}{2}$ ד. $6\frac{1}{4}$

ה. $11\frac{3}{4}$ ו. $-2\frac{5}{8}$ ז. $-6\frac{2}{7}$ ח. $12\frac{7}{9}$

7) קבע איזה שבר גדול יותר בכל אחד מהמקרים הבאים:

א. $\frac{3}{10}$ או $\frac{4}{10}$ ב. $\frac{7}{8}$ או $\frac{7}{6}$

ג. $\frac{2}{3}$ או $\frac{5}{6}$ ד. $\frac{5}{18}$ או $\frac{7}{12}$

8) המר את השברים העשרוניים הבאים לשברים פשוטים מצומצמים או מעורבים:

א. 0.7 ב. 0.07 ג. 0.007 ד. 0.34

ה. 0.304 ו. 0.65 ז. 1.2 ח. 1.02

ט. 1.42 י. 3.5 יא. 6.03 יב. 5.125

9) המר את השברים הבאים לשברים עשרוניים:

א. $\frac{3}{10}$	ב. $\frac{3}{100}$	ג. $\frac{3}{1000}$	ד. $\frac{23}{1000}$
ה. $\frac{1}{2}$	ו. $\frac{3}{4}$	ז. $\frac{2}{5}$	ח. $\frac{4}{25}$
ט. $\frac{7}{50}$	י. $\frac{3}{20}$	יא. $\frac{7}{8}$	יב. $\frac{9}{16}$
יג. $9\frac{1}{10}$	יד. $3\frac{1}{5}$	טו. $4\frac{7}{8}$	טז. $-4\frac{1}{16}$

10) כתוב את השברים הבאים בצורתם העשרונית
(היעזר במחשבון וכתוב עד 3 ספרות אחרי הנקודה העשרונית):

א. $\frac{2}{3}$	ב. $\frac{5}{6}$	ג. $\frac{3}{7}$	ד. $\frac{2}{11}$

11) המר מאחוזים לשברים פשוטים:

א. 25%	ב. 32%	ג. 64%	ד. 80%
ה. 120%	ו. 5%	ז. 300%	ח. 150%

12) המר משברים פשוטים לאחוזים:

א. $\frac{3}{4}$	ב. $\frac{1}{8}$	ג. $\frac{4}{5}$	ד. $\frac{7}{20}$
ה. $\frac{11}{40}$	ו. $\frac{70}{125}$	ז. $\frac{5}{6}$	ח. $\frac{4}{9}$

תשובות סופיות:

1) תשובה מודגמת בסרטון.

2) א. $\frac{1}{5}$ ב. $\frac{1}{6}$ ג. $\frac{2}{3}$ ד. $\frac{3}{4}$

3) א. $\frac{40}{80},\frac{18}{36},\frac{4}{8}$ ב. $\frac{180}{300},\frac{75}{125},\frac{30}{50}$ ג. $\frac{440}{700},\frac{160}{256},\frac{80}{128}$

4) א. $\frac{5}{6}$ ב. $\frac{1}{3}$ ג. $\frac{1}{4}$ ד. $\frac{1}{5}$ ה. $\frac{5}{8}$ ו. $\frac{4}{7}$

ז. $\frac{3}{4}$ ח. $\frac{3}{11}$

5) א. $-6\frac{2}{3}$ ב. $4\frac{3}{4}$ ג. $2\frac{2}{5}$ ד. $4\frac{2}{5}$ ה. $-5\frac{4}{6}$ ו. $-7\frac{1}{7}$

ז. $5\frac{7}{8}$ ח. $6\frac{2}{3}$

6) א. $\frac{5}{3}$ ב. $\frac{23}{6}$ ג. $\frac{9}{2}$ ד. $\frac{25}{4}$ ה. $\frac{47}{4}$ ו. $-\frac{21}{8}$

ז. $-\frac{44}{7}$ ח. $\frac{115}{9}$

7) א. $\frac{4}{10}$ ב. $\frac{7}{6}$ ג. $\frac{5}{6}$ ד. $\frac{7}{12}$

8) א. $\frac{7}{10}$ ב. $\frac{7}{100}$ ג. $\frac{7}{1000}$ ד. $\frac{17}{50}$ ה. $\frac{38}{125}$ ו. $\frac{13}{20}$

ז. $1\frac{1}{5}$ ח. $1\frac{1}{50}$ ט. $1\frac{21}{50}$ י. $3\frac{1}{2}$ יא. $6\frac{3}{100}$ יב. $5\frac{1}{8}$

9) א. 0.3 ב. 0.03 ג. 0.003 ד. 0.023 ה. 0.5 ו. 0.75

ז. 0.4 ח. 0.16 ט. 0.14 י. 0.15 יא. 0.875

יב. 0.5625 יג. 9.1 יד. 3.2 טו. 4.875 טז. -4.0625

10) א. $0.\overline{6}$ ב. $0.8\overline{3}$ ג. 0.428 ד. $0.1\overline{8}$

11) א. $\frac{1}{4}$ ב. $\frac{8}{25}$ ג. $\frac{16}{25}$ ד. $\frac{4}{5}$ ה. $1\frac{1}{5}$ ו. $\frac{1}{20}$

ז. 3 ח. $1\frac{1}{2}$

12) א. 75% ב. 12.5% ג. 80% ד. 35% ה. 27.5% ו. 56%

ז. 83.333% ח. 44.444%

כפל וחילוק שברים:

סיכום כללי:

- כשכופלים שני שברים יש לכפול מונה במונה ומכנה במכנה.
  - במידה ומדובר במספר שלם הכופל שבר, יש לכפול אותו במונה.
  - במידה ומדובר בשברים מעורבים, יש להפוך אותם תחילה לשברים מדומים ורק אז לבצע את פעולת הכפל.
- כדי לחלק שברים, יש לכפול את השבר הראשון בהופכי של השבר השני.
  - הופכי של שבר מסוים מתקבל ע"י החלפת המונה במכנה.

שאלות:

1) חשב את ערכי הביטויים הבאים:

א. $\frac{3}{5}\cdot\frac{3}{4}$ ב. $\frac{2}{7}\cdot\frac{5}{6}$ ג. $\frac{2}{9}\cdot\frac{8}{10}$

ד. $3\cdot\frac{4}{5}$ ה. $6\cdot\frac{2}{3}$ ו. $\frac{12}{25}\cdot 5$

ז. $1\frac{3}{5}\cdot 2\frac{1}{4}$ ח. $3\frac{1}{2}\cdot 4\frac{2}{5}$ ט. $3\frac{3}{7}\cdot 2\frac{2}{5}$

י. $\left(\frac{4}{5}\right)^3$ יא. $\frac{4}{5^3}$ יב. $\frac{4^3}{5}$

2) חשב את ערכי הביטויים הבאים:

א. $\frac{2}{5}:\frac{4}{9}$ ב. $\frac{3}{4}:\frac{1}{2}$ ג. $\frac{3}{25}:\frac{7}{10}$

ד. $8:\frac{2}{9}$ ה. $10:\frac{2}{3}$ ו. $\frac{5}{6}:3$

ז. $\frac{2}{5}:5$ ח. $3\frac{3}{4}:5\frac{5}{8}$ ט. $2\frac{2}{5}:1\frac{3}{15}$

תשובות סופיות:

1) א. $\frac{9}{20}$ ב. $\frac{5}{21}$ ג. $\frac{8}{45}$ ד. $2\frac{2}{5}$ ה. 4 ו. $2\frac{2}{5}$

ז. $3\frac{3}{5}$ ח. $15\frac{2}{5}$ ט. $8\frac{8}{35}$ י. $\frac{64}{125}$ יא. $\frac{4}{125}$ יב. $12\frac{4}{5}$

2) א. $\frac{9}{10}$ ב. $1\frac{1}{2}$ ג. $\frac{6}{35}$ ד. 36 ה. 15 ו. $\frac{5}{18}$

ז. $\frac{2}{25}$ ח. $\frac{2}{3}$ ט. 2

חיבור וחיסור שברים:

סיכום כללי:

כפולה משותפת מינימלית:

בהינתן זוג מספרים a ו- b, המספר הקטן ביותר אשר תוצאת חלוקתו במספרים הנ"ל מניבה מספר שלם נקרא הכפולה המינימלית שלהם.

הערות:

- כפולה מינימלית יכולה להיות גם עבור יותר משני מספרים.
- הכפולה המינימלית תהיה המכנה המשותף בעת פעולות חיבור וחיסור של שברים.

כללי החיבור והחיסור של שברים:

- חיבור וחיסור של שברים בעלי אותו המכנה מתבצע על המספרים שבמונה בלבד כאשר המכנה נשאר כפי שהוא.

  דוגמא: $\frac{2}{7}+\frac{3}{7}=\frac{2+3}{7}=\frac{5}{7}$, $\frac{2}{7}-\frac{3}{7}=\frac{2-3}{7}=\frac{-1}{7}$.

- חיבור וחיסור של שברים בעלי מכנים שונים מתבצע ע"י פעולת מכנה משותף.

  דוגמא: $\frac{2}{5}+\frac{1}{3}=\frac{6}{15}+\frac{5}{15}=\frac{6+5}{15}=\frac{11}{15}$, $\frac{1}{4}-\frac{5}{6}=\frac{3}{12}-\frac{10}{12}=\frac{3-10}{12}=-\frac{7}{12}$.

- חיבור של שבר עם מספר שלם יתבצע באופן ישיר.

  דוגמא: $3+\frac{1}{4}=3\frac{1}{4}$.

  חיסור של שבר ממספר שלם יתבצע ע"י הוצאת שלמים מהשבר.

  דוגמא: $3-\frac{1}{4}=2\frac{4}{4}-\frac{1}{4}=2\frac{3}{4}$.

  דרך נוספת היא ע"י העברת המספר השלם לשבר מדומה: $3-\frac{1}{4}=\frac{12}{4}-\frac{1}{4}=\frac{11}{4}=2\frac{3}{4}$.

- חיבור וחיסור של שברים מעורבים יתבצע ע"י העברתם לשברים מדומים תחילה.

דוגמא: $3\frac{2}{5}+2\frac{1}{6}=\frac{17}{5}+\frac{13}{6}=\frac{17\cdot 6}{30}+\frac{13\cdot 5}{30}=\frac{102+65}{30}=\frac{167}{30}=5\frac{17}{30}$.

ניתן גם לפצל ולבצע את פעולת החיבור (או החיסור) של המספרים השלמים תחילה, ולאחר מכן לבצע את הפעולה עבור השברים.

דוגמא: $2\frac{3}{4}-5\frac{1}{3}=(2-5)+\left(\frac{3}{4}-\frac{1}{3}\right)=-3+\left(\frac{9}{12}-\frac{4}{12}\right)=-3+\frac{5}{12}=-2\frac{7}{12}$.

שאלות:

1) מצא את הכפולה המשותפת המינימלית של המספרים הבאים:

א. 2 ו-3	ב. 2 ו-4	ג. 3 ו-5	ד. 6 ו-10
ה. 4 ו-10	ו. 4 ו-6	ז. 3, 5 ו-10	ח. 2, 3 ו-8

2) חשב את ערכי הביטויים הבאים:

א. $\frac{1}{5}+\frac{3}{5}$	ב. $\frac{5}{9}+\frac{2}{9}$
ג. $\frac{4}{13}+\frac{9}{13}$	ד. $\frac{7}{8}+\frac{7}{8}$
ה. $\frac{7}{8}-\frac{3}{8}$	ו. $\frac{8}{9}-\frac{7}{9}$
ז. $\frac{2}{12}-\frac{5}{12}$	ח. $\frac{2}{5}-\frac{6}{5}$
ט. $\frac{2}{8}+\frac{5}{8}+\frac{6}{8}$	י. $\frac{7}{15}+\frac{8}{15}-\frac{6}{15}$

3) חשב את ערכי הביטויים הבאים:

א. $\frac{1}{2}+\frac{4}{3}$

ב. $\frac{3}{5}+\frac{1}{10}$

ג. $\frac{4}{6}-\frac{1}{12}$

ד. $\frac{3}{6}-\frac{5}{8}$

ה. $\frac{5}{4}+\frac{7}{2}+\frac{2}{8}$

ו. $\frac{7}{3}+\frac{6}{5}+\frac{3}{10}$

ז. $\frac{4}{7}-\frac{1}{6}+\frac{1}{2}$

ח. $\frac{1}{4}+\frac{2}{8}-\frac{3}{5}$

4) חשב את ערכי הביטויים הבאים:

א. $2+\frac{5}{6}$

ב. $2-\frac{5}{6}$

ג. $2\frac{1}{4}+\frac{5}{6}$

ד. $2\frac{1}{4}-\frac{5}{6}$

ה. $3\frac{2}{3}+4\frac{1}{4}$

ו. $5\frac{7}{8}-6\frac{1}{2}$

ז. $2+\frac{5}{6}-\frac{1}{9}$

ח. $\frac{3}{4}-1\frac{1}{5}+\frac{8}{20}$

5) חשב את ערכי הביטויים הבאים:

א. $\frac{1}{2}\cdot\left(1-\frac{3}{4}\right)+2\frac{1}{3}$

ב. $\frac{3}{14}:\frac{2}{7}+\frac{1}{3}\cdot 2\frac{1}{4}-\frac{2}{5}$

ג. $\frac{5}{11}\cdot 2\frac{3}{4}-6:\frac{2}{5}$

ד. $2\frac{4}{5}:\frac{9}{10}\cdot\frac{6}{7}+\frac{1}{6}$

ה. $\frac{5}{6}:\frac{3}{4}+\frac{2}{3}\cdot 3\frac{1}{4}$

תשובות סופיות:

1)	א. 6	ב. 4	ג. 15	ד. 30	ה. 20	ו. 12
	ז. 30	ח. 24				
2)	א. $\frac{4}{5}$	ב. $\frac{7}{9}$	ג. 1	ד. $1\frac{3}{4}$	ה. $\frac{1}{2}$	ו. $\frac{1}{9}$
	ז. $-\frac{1}{4}$	ח. $-\frac{4}{5}$	ט. $1\frac{5}{8}$	י. $\frac{3}{5}$		
3)	א. $1\frac{5}{6}$	ב. $\frac{7}{10}$	ג. $\frac{7}{12}$	ד. $-\frac{1}{8}$	ה. 5	ו. $3\frac{5}{6}$
	ז. $\frac{19}{21}$	ח. $-\frac{1}{10}$				
4)	א. $2\frac{5}{6}$	ב. $1\frac{1}{6}$	ג. $3\frac{1}{12}$	ד. $1\frac{5}{12}$	ה. $7\frac{11}{12}$	ו. $-\frac{5}{8}$
	ז. $2\frac{13}{18}$	ח. $-\frac{1}{20}$				
5)	א. $2\frac{11}{24}$	ב. $1\frac{1}{10}$	ג. $-13\frac{3}{4}$	ד. $2\frac{5}{6}$	ה. $3\frac{5}{18}$	

בעיות יסודיות באחוזים:

סיכום כללי:

נוסחה לביצוע חישובים עם אחוזים:

$$\text{תמורת האחוז} = \text{שלם} \cdot \frac{\text{אחוז}}{100}$$

למשל, בהינתן גודל שלם 120, אשר יש לחשב כמה הם 40 אחוזים ממנו, נקבל לפי הנוסחה: $\frac{40}{100}\cdot 120 = 48$, כלומר: **תמורת האחוז 40 מהגודל 120 היא 48**.

שאלות:

1) בכיתה 30 תלמידים. 60% מתוכם בנות.
א. כמה בנות בכיתה?
ב. כמה בנים בכיתה?

2) בכיתה 28 בנות המהוות 70% מכלל התלמידים בכיתה.
א. כמה תלמידים בכיתה?
ב. כמה בנים בכיתה?

3) מחיר בגד-ים הוא 300 ₪. בסוף העונה הוא נמכר ב-20% הנחה.
א. מהו מחירו בסוף העונה?
ב. מה גודל ההנחה?

4) מחיר ההשקה של בושם מסוים הוא 500 ₪. לאחר מכן מועלה מחירו ב-8%.
א. מה מחירו הסופי?
ב. מה גודל ההתייקרות?

5) מחיר ליטר דלק הוא 5 ₪ לליטר. בחנוכה מוזל מחירו ב-7%.
בפסח מועלה מחירו ב-7%. מה מחירו בסוף השנה?

6) מוצר מסויים מתייקר בסוכות ב-12%. בפורים מוזל המוצר ב-12%.
מחירו בסוף השנה הוא 394.24 ₪. מה מחירו בתחילת השנה?

7) ענה על השאלות הבאות:

א. באולם קולנוע 200 צופים, מתוכם 176 בנים.
מה אחוז הבנים בקהל?

ב. בכיתה 30 תלמידים, מתוכם 18 בנות.
מה אחוז הבנות בכיתה?

ג. מחיר מוצר התייקר מ-80 ₪ ל-120 ₪.
בכמה אחוזים התייקר המוצר?

ד. מחיר מוצר הוזל מ-120 ₪ ל-80 ₪.
בכמה אחוזים הוזל המוצר?

ה. מחיר מוצר התייקר מ-150 ₪ ל-200 ₪.
בכמה אחוזים התייקר המוצר?

ו. מחיר מוצר מוזל הוזל מ-200 ₪ ל-150 ₪.
בכמה אחוזים הוזל המוצר?

תשובות סופיות:

1) א. 18 בנות. ב. 12 בנים.

2) א. 40 תלמידים. ב. 12 בנים.

3) א. 240 ₪ ב. 60 ₪

4) א. 540 ₪ ב. 40 ₪

5) 4.9755 ₪

6) 400 ₪

7) א. 88% ב. 60% ג. 50% ד. 33.33% ה. 33.33% ו. 25%

חזרה על תבניות מספר:

סיכום כללי:

משתנה הוא סמל המתאר כמות או גודל כלשהם אשר אינם ידועים ועשויים להשתנות.

תבנית מספר היא ביטוי אלגברי אשר מכיל משתנה (או משתנים).
ניתן להציב במשתנים ערכים מספריים שונים ולקבל תוצאות שונות עבור תבנית המספר עצמה.

במתמטיקה, תפקידה של תבנית המספר הוא להביע גודל מסוים אשר לערכו יש משמעויות שונות. דוגמא לכך היא: קנייה של x פריטים, אשר כל אחד עולה 3 שקלים, יניבו תבנית מספר של $3\cdot x$ אשר מייצגת את הסכום הכולל של הפריטים.

שאלות:

1) חשב את ערכי הביטויים האלגבריים הבאים עבור ה- x הנתון:

א. $2x+5$ כאשר $x=3$

ב. x^2+3x כאשר $x=2$

ג. $-x^2+2x+3$ כאשר $x=5$

ד. $-x^2-9x+5$ כאשר $x=5$

ה. x^3+1 כאשר $x=-2$

ו. $4-x^3$ כאשר $x=-1$

ז. $(x+1)(2-x)$ כאשר $x=4$

ח. $x^2(3x-4)$ כאשר $x=3$

2) חשב את ערכי הביטויים האלגבריים הבאים עבור ה- x הנתון:

א. $27x^5-2x^3+x$ כאשר $x=\frac{1}{3}$.

ב. $\frac{1}{3}x^2+\frac{1}{2}x+6$ כאשר $x=-\frac{2}{3}$.

3) הצב את הערכים המספריים במקום הפרמטרים וחשב את ערך תבנית המספר:

א. $a^2+2ab+b^2$ עבור: $a=3\,,\,b=-5$.

ב. $(x-3)^2+3x^2b$ עבור: $x=5\,,\,b=-1$.

ג. $-x^3-2xy+y^4$ עבור: $x=-2\,,\,y=-1$.

ד. $\frac{(a-2c)^4}{a}-a^2$ עבור: $a=2\,,\,c=-2$.

ה. $\frac{4a^2-3b}{c}$ עבור: $a=-1\,,\,b=2\,,\,c=-4$.

ו. $\sqrt{c-3a}$ עבור: $a=-1\,,\,c=13$ ועבור: $a=\frac{1}{3}\,,\,c=82$.

ז. $\frac{p^3+2\sqrt{q+1}}{m}$ עבור: $m=3\,,\,q=48\,,\,p=-5$.

תשובות סופיות:

1) א. 11 ב. 10 ג. -12 ד. -65 ה. -7 ו. 5

ז. -10 ח. 45

2) א. $\frac{10}{27}$ ב. $5\frac{22}{27}$

3) א. 4 ב. -71 ג. 5 ד. 644 ה. $\frac{1}{2}$

ו. הצבה ראשונה: 4, הצבה שניה: 9 ז. -37

כינוס איברים:

סיכום כללי:

תבניות אלגבריות יכולות להכיל איברים רבים ולכן נרצה לכנס אותם על מנת לפשט את התבנית. כדי לכנס איברים ניקח את כל קבוצת האיברים מאותו הסוג ונחבר את המקדמים שלהם. דוגמא: $3x+6x-5x=(3+6-5)x=4x$.

איברים שונים נבדלים זה מזה בערך התבנית האלגברית שלהם.

כך: $3x$ שונה מ- $4y$ ושונה מ- $2xy$. באותו האופן, האיברים x ו- x^2 הם שונים.

שאלות:

כנס איברים דומים:

1) $5x+7x-4x$

2) $9x^2-2x^2-3x^2-2x^2$

3) $-10xy+15xy+xy-2yx$

4) $x^2y-3yx^2+x^2y$

5) $8a^2+10a-5a^2-11a+a^2$

6) $2x^2-3m^2-x^2+3m^2$

7) $3xy+y-30y+6yx-7y$

8) $mn^2+4m^2n+6n^2m-10nm^2+mn^2$

9) $-6+x^3+4-3x^3+17x^3-17$

10) $y^2+x^2-5x^2+5y^2+4x^2-6y^2$

11) $7x^2-3x-4x+2$

12) $5xy+2x-3yx-x+1$

13) $3-x-x^2+4x+5x^2-12$

14) $x+xy+y-6yx-6y-6x$

15) $mn+n-5m+5nm-14n+3m$

16) $ab^2+6ba^2-6b+16a^2b+3b-6b^2a$

17) $z^3-4z^2+7-z^3-8+8z^2$

18) $4x^2z+6xz^2-6-xz^2+12+10zx^2$

19) $2-x^3-3-4x^2+2x+x^3+x^2-2$

20) $x^3-3x-4x^2+2x+x^3+x^2-2x^3$

21) $2a^2b+3x^2y+5a^2b+10x^2y$

22) $12x^2y^3+13a^2-20x^2y^3+2a^2$

23) $2y^2-4x^3y^2-10y^2-x^3y^2$

24) $-2x^3y+5x^2-4yx^3-6x^2$

25) $2a^2b+2b+3a^2+5b$

26) $5a^2b-8ab^2+20a^2b-14ab^2$

27) $-12x^2+2y^2+3x^2y+14xy^2-5xy^2-6y^2+2xy+11x^2+x^2y-9xy$

28) $21x^3y^3+x^2y^2-3xy^3+x^3y-15x^2y^2-7x^3y+12x^3y^3-4xy^3+4xy^3-6x^3y$

תשובות סופיות:

1) $8x$
2) $2x^2$
3) $4xy$
4) $-x^2y$
5) $4a^2-a$
6) x^2
7) $9xy-36y$
8) $8mn^2-6nm^2$
9) $15x^3-19$
10) 0
11) $7x^2-7x+2$
12) $2xy+x+1$
13) $4x^2+3x-9$
14) $-5x-5y-5xy$
15) $-13n-2m+6mn$
16) $-5ab^2+22a^2b-3b$
17) $4z^2-1$
18) $14x^2z+5xz^2+6$
19) $-3x^2+2x-3$
20) $-3x^2-x$
21) $7a^2b+13x^2y$
22) $-8x^2y^3+15a^2$
23) $-8y^2-5x^3y^2$
24) $-6x^3y-x^2$
25) $2a^2b+3a^2+7b$
26) $25a^2b-22ab^2$
27) $-x^2-4y^2+4x^2y+9xy^2-7xy$
28) $33x^3y^3-14x^2y^2-3xy^3-12x^3y$

פישוט ביטויים ע"י פתיחת סוגריים:

סיכום כללי:

בעת ביצוע כפל בין שני איברים יש לכפול את המקדמים בנפרד ואת האותיות (משתנים) בנפרד.

כלל הפילוג:

- $a(b+c)=ab+ac$.
- $(a+b)(c+d)=ac+ad+bc+bd$.

שאלות:

1) פשט את הביטויים הבאים:

א. $2x\cdot 3x$ ב. $-4x\cdot(-7x)$ ג. $-2x\cdot(-4x)\cdot(-3)$

ד. $8m^2\cdot 4m^3$ ה. $3a^3\cdot(-2a^2)$ ו. $-b\cdot 4b^2\cdot\frac{b^2}{2}$

ז. $a\cdot 3b$ ח. $4a^2\cdot 7b^2$ ט. $ab\cdot(-2a^2b)$

2) פשט את הביטויים הבאים ע"י פתיחת סוגריים:

א. $2(3x-4)$ ב. $2(-3x^2+5x-1)$

ג. $(7x-2)4$ ד. $(1-2x)(-2)$

ה. $a(3a-1)$ ו. $b(b^2-3b+4)$

ז. $2x(5x+3)$ ח. $5x(x^2+2x-3)$

ט. $3t^2(4t-t^2+6)$ י. $\frac{5}{2}(4d^4-3d)d$

3) פשט את הביטויים הבאים:

א. $5x+(3x-2)+(-4-2x)$ ב. $7x+(-4x-5)+3x+(-1+7x)$

ג. $8-(2x-5)-(4x+2)$ ד. $-6x-(-3x-1)-(-7-4x)+1$

ה. $(3-2x^2+4)2+3(x-x^2)-6(7-5x)+4x^2$

ו. $3y^2-(y+1-2y^2)+6(5y-6)-(-y-4)3+5(y^2+1)-7$

4) פשט את הביטויים הבאים:

א. $(x-1)(x+2)$ ב. $(x+3)(x-7)$

ג. $(3-x)(x+4)$ ד. $(3x+4)(5x+1)$

ה. $3(4x+1)(2x-3)$ ו. $-2(3x-1)(5-2x)$

5) פשט את ערכי הביטויים הבאים:

א. $(x-1)(x+3)+2(3-x)$

ב. $(a+4)(a-2)-(a+5)(a-3)$

ג. $(2m-3)(4m+3)+5(2m^2-6)$

ד. $-x^2y^2(x^3y+x^2)+2xy(2x^3y-x^4y^2)$

תשובות סופיות:

1) א. $6x^2$ ב. $28x^2$ ג. $-24x^2$ ד. $32m^5$ ה. $-6a^5$ ו. $-2b^5$

ז. $3ab$ ח. $28a^2b^2$ ט. $-2a^3b^2$

2) א. $6x-8$ ב. $-6x^2+10x-2$ ג. $28x-8$ ד. $-2+4x$

ה. $3a^2-a$ ו. b^3-3b^2+4b ז. $10x^2+6x$ ח. $5x^3+10x^2-15x$

ט. $12t^3-3t^4+18t^2$ י. $10d^5-7.5d^2$

3) א. $6x-6$ ב. $13x-6$ ג. $-6x+11$ ד. $x+9$ ה. $-3x^2+33x-28$

ו. $10y^2+32y-27$

4) א. x^2+x-2 ב. $x^2-4x-21$ ג. $-x^2-x+12$

ד. $15x^2+23x+4$ ה. $24x^2-30x-9$ ו. $12x^2-34x+10$

5) א. x^2+3 ב. 7 ג. $18m^2-6m-39$ ד. $-3x^5y^3+3x^4y^2$

פישוט ביטויים באמצעות נוסחאות הכפל המקוצר:

סיכום כללי:

- נוסחת ריבוע של סכום/הפרש: $(a\pm b)^2=a^2\pm 2ab+b^2$.
- נוסחה להפרש ריבועים: $(a+b)(a-b)=a^2-b^2$.

שאלות:

1) פשט את הביטויים הבאים:

א. $(x+5)^2$ ב. $(x+2)^2$ ג. $(4x+5)^2$

ד. $(6x+2)^2$ ה. $(7x+y)^2$ ו. $(5x+2y)^2$

ז. $(x^2+7)^2$ ח. $(x^2+y^2)^2$ ט. $(x^3+2y^2x)^2$

2) פשט את הביטויים הבאים:

א. $(x-6)^2$ ב. $(x-2)^2$ ג. $(5-x)^2$

ד. $(6x-1)^2$ ה. $\left(3x-\frac{1}{2}\right)^2$ ו. $\left(\frac{1}{3}x-5\right)^2$

ז. $(3m-2n)^2$ ח. $\left(x^2-\frac{3}{5}y\right)^2$ ט. $(x^2y^2-7)^2$

3) פשט את הביטויים הבאים:

א. $(x-5)(x+5)$ ב. $(3+x)(x-3)$

ג. $(3x-1)(3x+1)$ ד. $(5-7x)(7x+5)$

ה. $\left(\frac{1}{2}x+6\right)\left(\frac{1}{2}x-6\right)$ ו. $\left(5y-\frac{1}{4}x\right)\left(\frac{1}{4}x+5y\right)$

ז. $(x^2+y)(x^2-y)$ ח. $(3a^2b^3-4)(3a^2b^3+4)$

4) פשט את הביטויים הבאים:

א. $(x+1)(x+2)-3x$

ב. $(x-5)(5x-1)+2(4+x)$

ג. $x(2x-1)(2x+1)-4x^2(x+1)$

ד. $-(y+3x)(y-3x)+(y-3x)^2$

ה. $x(x+3)-(6+x)(6x+2)-(x+2)^2$

ו. $-5(x+7)(x-7)+3(2x+5)(5-x)+(x+1)^2$

תשובות סופיות:

1) א. $x^2+10x+25$ ב. x^2+4x+4 ג. $16x^2+40x+25$

ד. $36x^2+24x+4$ ה. $49x^2+14xy+y^2$ ו. $25x^2+20xy+4y^2$

ז. $x^4+14x+49$ ח. $x^4+2x^2y^2+y^4$ ט. $x^6+4x^4y^2+4y^4x^2$

2) א. $x^2-12x+36$ ב. x^2-4x+4 ג. $25-10x+x^2$

ד. $36x^2-12x+1$ ה. $9x^2-3x+\frac{1}{4}$ ו. $\frac{1}{9}x^2-3\frac{1}{3}x+25$

ז. $9m^2-12mn+4n^2$ ח. $x^4-\frac{6}{5}x^2y+\frac{9}{25}y^2$ ט. $x^4y^4-14x^2y^2+49$

3) א. x^2-25 ב. x^2-9 ג. $9x^2-1$ ד. $25-49x^2$

ה. $\frac{1}{4}x^2-36$ ו. $25y^2-\frac{1}{16}x^2$ ז. x^4-y^2 ח. $9a^4b^6-16$

4) א. x^2+2 ב. $5x^2-24x+13$ ג. $-4x^2-x$

ד. $18x^2-6xy$ ה. $-6x^2-39x-16$ ו. $-10x^2+17x+321$

פירוק לגורמים של ביטויים אלגברים:

סיכום כללי:

פירוק לגורמים הוא פעולה הפוכה לפתיחת סוגריים – נרצה להוציא את הגורמים המשותפים לאיברים מחוץ לסוגריים.

- פירוק לגורמים ע"י הוצאת איבר אחד משותף:
  - הוצאת מספר משותף: $2x-8=2(x-4)$.
  - הוצאת אות משותפת: $x^2-12x=x(x-12)$.
  - הוצאת מספר ואות יחד: $3x^2-21x=3x(x-7)$.
- פירוק לגורמים ע"י נוסחאות הכפל המקוצר:
  - נוסחת הבינום של ניוטון: $a^2\pm 2ab+b^2=(a\pm b)^2$.
  - נוסחה להפרש ריבועים: $a^2-b^2=(a+b)(a-b)$.

שאלות:

1) פשט את הביטויים הבאים ע"י הוצאת גורם משותף:

א. $3x-12$ ב. $6y-4$

ג. $20-8a$ ד. $4a^3+8b$

ה. $75m^2+25m+15$ ו. $40a^2-8b^2+64c^2$

2) פשט את הביטויים הבאים ע"י הוצאת גורם משותף:

א. y^2+5y ב. $3x-11x^3$

ג. $6y^2+5y^3+4y$ ד. $\frac{1}{2}a^7-\frac{1}{4}a^5+a^3$

3) פשט את הביטויים הבאים ע"י הוצאת גורם משותף:

א. $2x^2-8x$
ב. $3t^2+12t$
ג. $5n^3-20n^2+50n$
ד. $8y^2+6y^3-2y^4$
ה. $4x^2y^2+16x^2y-20xy^2$
ו. $27mn-3n^2m+9n^3m$

4) פשט את הביטויים הבאים ע"י שימוש בנוסחאות הכפל המקוצר:

א. $x^2+10x+25$
ב. $x^2+12x+36$
ג. $y^2-18y+81$
ד. $y^2-22y+121$
ה. $4x^2+4x+1$
ו. $16y^2-8y+1$
ז. $9x^2-24x+16$
ח. $25x^2+70x+49$

5) פשט את הביטויים הבאים ע"י שימוש בנוסחאות הכפל המקוצר:

א. r^2-25
ב. x^2-81
ג. $25y^2-49$
ד. $121x^2-1$
ה. x^2y^2-4
ו. $9y^4-169x^4$

6) פשט את הביטויים הבאים ע"י הוצאת גורם משותף ונוסחאות הכפל המקוצר:

א. $y-y^3$
ב. x^3-10x^2+25x
ג. m^4-1
ד. $196x^4-140x^3+25x^2$

תשובות סופיות:

1) א. $3(x-4)$ ב. $2(3y-2)$ ג. $4(5-2a)$

ד. $4(a^3+2b)$ ה. $5(15m^2+5m+3)$ ו. $8(5a^2-b^2+8c^2)$

2) א. $y(y+5)$ ב. $x(3-11x^2)$ ג. $y(6y+5y^2+4)$

ד. $a^3\left(\frac{1}{2}a^4-\frac{1}{4}a^2+1\right)$

3) א. $2x(x-4)$ ב. $3t(t+4)$ ג. $5n(n^2-4n+10)$

ד. $2y^2(4+3y-y^2)$ ה. $4xy(xy+4x-5y)$ ו. $3mn(9-n-3n^2)$

4) א. $(x+5)^2$ ב. $(x+6)^2$ ג. $(y-9)^2$ ד. $(y-11)^2$

ה. $(2x+1)^2$ ו. $(4y-1)^2$ ז. $(3x-4)^2$ ח. $(5x+7)^2$

5) א. $(r+5)(r-5)$ ב. $(x+9)(x-9)$ ג. $(5y+7)(5y-7)$

ד. $(11x+1)(11x-1)$ ה. $(xy+2)(xy-2)$ ו. $(3y^2+13x^2)(3y^2-13x^2)$

6) א. $y(1+y)(1-y)$ ב. $x(x-5)^2$ ג. $(m^2+1)(m+1)(m-1)$

ד. $x^2(14x-5)^2$.

פירוק הטרינום:

סיכום כללי:

טרינום משמעו תלת איבר מהצורה: ax^2+bx+c כאשר a, b ו-c הם מספרים כלשהם.

שיטת הטרינום מאפשרת לפרק את תלת האיבר ל-4 איברים ע"י פיצול האיבר bx לשני איברים באופן כזה שמאפשר להוציא גורם משותף.

הכלל הוא למצוא שני מספרים, m_1 ו-m_2, שמקיימים: $m_1\cdot m_2=ac$ ו-$m_1+m_2=b$.

לאחר מכן ניתן לפרק את הטרינום: $ax^2+bx+c=ax^2+m_1x+m_2x+c$.

השלב האחרון הוא הוצאת גורם משותף מכל זוג: $\underbrace{ax^2+m_1x}+\underbrace{m_2x+c}$.

הערה:

במקרה שנוסחת השורשים ידועה, ניתן להיעזר בה כדי למצוא את המספרים m_1 ו-m_2 באופן הבא: $m_2=\frac{-b-\sqrt{b^2-4ac}}{2a}$, $m_1=\frac{-b+\sqrt{b^2-4ac}}{2a}$ ולאחר מכן ניתן לכתוב את הטרינום כמכפלה: $ax^2+bx+c=a(x-m_1)(x-m_2)$. אם קיים פתרון (שורש) אחד $m_1=m_2=\frac{-b}{2a}$ אז נכתוב: $ax^2+bx+c=a(x-m_1)^2$ ואם לא קיימים פתרונות אז לא קיים פירוק כלל.

שאלות:

1) פרק את הביטויים הבאים לפי פירוק טרינום:

א. x^2+5x+4	ב. $x^2-8x+15$	ג. $x^2-33x+62$
ד. $2x^2+7x-15$	ה. $3x^2-11x+6$	ו. $6x^2+5x+1$
ז. $2x^2+x-6$	ח. $x^2-18x+81$	ט. x^2+2x+8

2) פרק את הביטויים הבאים ע"י שימוש בנוסחת השורשים.
הערה: במידה ולא למדת על נוסחת השורשים התעלם משאלה זו.

א. $6x^2+5x+1$	ב. x^2+5x+4
ג. $4x^2+20x+25$	ד. $3x^2-x+20$

תשובות סופיות:

1) א. $(x+1)(x+4)$ ב. $(x-3)(x-5)$ ג. $(x-2)(x-31)$

ד. $(2x-3)(x+5)$ ה. $(3x-2)(x-3)$ ו. $(3x+1)(2x+1)$

ז. $(x+2)(2x-3)$ ח. $(x-9)^2$ ט. אין פירוק.

2) א. $6\left(x+\frac{1}{3}\right)\left(x+\frac{1}{2}\right)$ ב. $(x+1)(x+4)$ ג. $(2x+5)^2$ ד. אין פירוק.

שברים אלגבריים:

סיכום כללי:

הגדרה:

שבר אלגברי מורכב משתי תבניות, אשר אחת מחלקת את השנייה.

דוגמא לשברים אלגבריים: $\frac{4}{x-x^3}$, $\frac{3x}{x^2+1}$, $\frac{x+1}{x+2}$.

במקרה בו המכנה הוא מספר, לא מדובר בשבר אלגברי מכיוון שניתן לכתוב את הביטוי ללא צורך בחילוק בין ביטויים שונים כגון: $\frac{3x+5}{4}=\frac{3}{4}x+\frac{5}{4}$.

תחום הגדרה של שבר:

היות ושבר אלגברי הוא תבנית אשר יכולה לקבל ערכים שונים בעת הצבות שונות, חשוב להגביל את המספרים שניתן להציב באופן כזה שלא תתקבל חלוקה באפס.

דוגמא: השבר $\frac{1}{x+4}$ לא מוגדר כאשר $x=-4$ מכיוון שמתקבל: $\frac{1}{0}$.

במקרים אלו נדרוש **תנאי** על המשתנה אשר יכתב באופן הבא: $x\neq -4$ ומשמעו היא ש-x יכול לקבל על ערך מספרי אפשרי למעט 4-, מכיוון שבמקרה זה השבר לא מוגדר.

כלל צמצום שברים אלגבריים:

ניתן לצמצם שברים אלגבריים ע"י הבאת המונה והמכנה למכפלה של ביטויים.
במידה וקיימות פעולות החיבור והחיסור בין איברים שונים לא ניתן לבצע צמצום של איברים דומים בין המונה והמכנה. להלן מספר דוגמאות הנוגעות לצמצומים:

- צמצום ע"י הוצאת גורם משותף: $\frac{2x+8}{x+4}=\frac{2\cancel{(x+4)}}{\cancel{x+4}}=\frac{2\cdot 1}{1}=2$.
- צמצום ע"י נוסחת כפל מקוצר: $\frac{3x-15}{x^2-10x+25}=\frac{3\cancel{(x-5)}}{(x-5)^{\cancel{2}}}=\frac{3\cdot 1}{x-5}=\frac{3}{x-5}$.
- צמצום ע"י פירוק טרינום: $\frac{x^2-2x-3}{x^2-3x-4}=\frac{\cancel{(x+1)}(x-3)}{\cancel{(x+1)}(x-4)}=\frac{x-3}{x-4}$.

שאלות:

1) מצא את תחום ההגדרה של השברים האלגבריים הבאים:

א. $\frac{x+4}{x+3}$

ב. $\frac{5}{x-6}$

ג. $\frac{x+7}{2x-8}$

ד. $\frac{x^2+1}{x^2-4x}$

ה. $\frac{3}{x^2+2x+1}$

ו. $\frac{x^2}{x^2-4}$

ז. $\frac{6}{y^4-y^2}$

ח. $\frac{8x-2}{3x^3-15x^2+12x}$

2) צמצם את השברים הבאים (במידה ולא ניתן צמצם הסבר מדוע):

א. $\frac{ax}{a}$

ב. $\frac{a-x}{a}$

ג. $\frac{a-ax}{a}$

ד. $\frac{x+1}{y+1}$

ה. $\frac{x}{x+y}$

ו. $\frac{6x}{6y}$

ז. $\frac{x^2y}{xy^2}$

ח. $\frac{x^2+y^2}{x^2y^2}$

ט. $\frac{4x^2y}{xy}$

י. $\frac{3x^2}{x^2+3}$

3) צמצם את השברים הבאים ע"י הוצאת גורם משותף וכתוב את תחום הגדרתם:

א. $\frac{3x+12}{x+4}$

ב. $\frac{m^2+4m}{4m+16}$

ג. $\frac{2a-12}{a^2-6a}$

ד. $\frac{x^2-5x}{15-3x}$

ה. $\frac{3-18y^2}{6y^2-1}$

ו. $\frac{4x^3-2x^2}{6x-3}$

ז. $\frac{3y}{y^3-3y^2}$

ח. $\frac{3z^3-12z^2+4z}{z^2+5z}$

4) צמצם את השברים הבאים ע"י פירוק לגורמים וכתוב את תחום הגדרתם:

א. $\frac{x^2+10x+25}{2x+10}$

ב. $\frac{8n-n^2}{n^2-16n+64}$

ג. $\frac{z^3-4z^2}{2z^2-16z+32}$

ד. $\frac{4m^2+20m+25}{4m^2+10m}$

ה. $\frac{18y^2-24y+8}{2y-3y^2}$

ו. $\frac{a^3+4a^2b+4ab^2}{3ab+6b^2}$

5) צמצם את השברים הבאים ע"י טרינום ריבועי וכתוב את תחום הגדרתם:

א. $\frac{x+2}{x^2-3x-10}$

ב. $\frac{m^2-12m+32}{m-4}$

ג. $\frac{4y-10}{2y^2+y-15}$

ד. $\frac{3z^2+26z+16}{3z+2}$

ה. $\frac{x^2+5x-36}{x^3+9x^2}$

ו. $\frac{9n^2-12n}{4+5n-6n^2}$

ז. $\frac{x^2+4x+4}{x^2+5x+6}$

ח. $\frac{x^2-14x+49}{x^2+x-56}$

ט. $\frac{3a^2b-10ab^2+3b^3}{-3a^3b+11a^2b^2-6ab^3}$

י. $\frac{m^3n-m^2n^2-m^2+mn}{2m^2n^3+mn^2-3n}$

תשובות סופיות:

1) א. $x \neq -3$ ב. $x \neq 6$ ג. $x \neq 4$ ד. $x \neq 0 , x \neq 4$

ה. $x \neq -1$ ו. $x \neq -2 , x \neq 2$ ז. $y \neq 0 , y \neq -1 , y \neq 1$

ח. $x \neq 0 , x \neq 1 , x \neq 4$

2) א. x ב. לא ניתן לצמצם ג. $1-x$

ד. לא ניתן לצמצם ה. לא ניתן לצמצם ו. $\frac{x}{y}$ ז. $\frac{x}{y}$

ח. לא ניתן לצמצם ט. $4x$ י. לא ניתן לצמצם

3) א. $3 , x \neq -4$ ב. $\frac{m}{4} , m \neq -4$ ג. $\frac{2}{a} , a \neq 0,6$

ד. $-\frac{x}{3} , x \neq 5$ ה. $-3 , y \neq \pm\frac{1}{\sqrt{6}}$ ו. $\frac{2x^2}{3} , x \neq \frac{1}{2}$

ז. $\frac{3}{y(y-3)} , y \neq 0,3$ ח. $\frac{3z^2-12z+4}{z+5} , z \neq 0,-5$

4) א. $\frac{x+5}{2} , x \neq -5$ ב. $\frac{n}{8-n} , n \neq 8$ ג. $\frac{z^2}{2(z-4)} , z \neq 4$

ד. $\frac{2m+5}{2m} , m \neq 0,-\frac{5}{2}$ ה. $\frac{2(2-3y)}{y} , y \neq 0,\frac{2}{3}$ ו. $\frac{a(a+2b)}{3b} , b \neq 0, a \neq -2b$

5) א. $\frac{1}{x-5} , x \neq 5,-2$ ב. $m-8 , m \neq 4$ ג. $\frac{2}{y+3} , x \neq -3,\frac{5}{2}$

ד. $z+8 , z \neq -\frac{2}{3}$ ה. $\frac{x-4}{x^2} , x \neq 0,-9$ ו. $\frac{-3n}{2n+1} , n \neq -\frac{1}{2},\frac{4}{3}$

ז. $\frac{x+2}{x+3} , x \neq -2,-3$ ח. $\frac{x-7}{x+8} , x \neq 7,-8$

ט. $\frac{3a-b}{a(2b-3a)} , a \neq 0 , b \neq 0, a \neq 3b , 2b \neq 3a$ י. $\frac{m(m-n)}{n(2mn+3)} , mn \neq 1,-\frac{3}{2},n \neq 0$

כפל וחילוק של שברים אלגברים:

סיכום כללי:

כפל שברים יתבצע ע"י הכפלת כל מונה בנפרד והכפלת כל מכנה בנפרד.

חילוק שברים יתבצע ע"י לקיחת ההופכי של שבר המחלק וביצוע פעולת כפל.

- דוגמא לכפל שברים: $\frac{x+1}{x^2}\cdot\frac{x}{3x+3}=\frac{x+1}{x^2}\cdot\frac{x}{3(x+1)}=\frac{\cancel{x}\cancel{(x+1)}}{3x^{\cancel{2}}\cancel{(x+1)}}=\frac{1}{3x}$.

- דוגמא לחילוק שברים: $\frac{4x}{y}:\frac{12}{y^2+y}=\frac{4x}{y}\cdot\frac{y^2+y}{12}=\frac{\cancel{4}^{1}x}{\cancel{y}}\cdot\frac{\cancel{y}(y+1)}{\cancel{12}_{3}}=\frac{x(y+1)}{3}$.

שאלות:

1) פשט את הביטויים הבאים:

א. $\frac{x}{3}\cdot\frac{x}{8}$

ב. $\frac{x}{3}\cdot\frac{9}{x^2}$

ג. $7y\cdot\frac{5}{y^2}$

ד. $6x^2\cdot\frac{3}{40x}$

ה. $(x^2+3x)\cdot\frac{2}{3x+9}$

ו. $(a^2-25)\cdot\frac{20}{5a+25}$

ז. $\frac{w^2-9}{w}\cdot\frac{w^2}{2w+6}$

ח. $\frac{y+4}{y^2+16}\cdot\frac{y^2-16}{2y+8}$

ט. $\frac{z^2+30z+225}{6z+90}\cdot\frac{12}{2z-10}$

י. $\frac{5n^2}{n^2-121}\cdot\frac{2n^2+44n+242}{n+2}\cdot\frac{n^2+4n+4}{n}$

2) פשט את הביטויים הבאים:

א. $\frac{x}{8}:\frac{x}{6}$

ב. $\frac{y}{25}:\frac{5}{y}$

ג. $a^2:\frac{1}{6a}$

ד. $\frac{5}{6a}:a^2$

ה. $\left(d^2-3d\right):\frac{5d-15}{5d}$

ו. $\frac{t}{t+4}:\frac{3t}{t+4}$

ז. $\frac{y^2+8y+16}{8y^2}:\frac{y^2-16}{7y^2}$

ח. $\frac{a^2-64}{a^2-36}:\frac{a+8}{a+6}$

תשובות סופיות:

1) א. $\frac{x^2}{24}$ ב. $\frac{3}{x}$ ג. $\frac{35}{y}$ ד. $\frac{9x}{20}$ ה. $\frac{2x}{3}$

ו. $4(a-5)$ ז. $\frac{w(w-3)}{2}$ ח. $\frac{y^2-16}{2y^2+32}$ ט. $\frac{z+15}{z-5}$ י. $\frac{10n(n+11)(n+2)}{n-11}$

2) א. $\frac{3}{4}$ ב. $\frac{y^2}{125}$ ג. $6a^3$ ד. $\frac{5}{6a^3}$ ה. d^2 ו. $\frac{1}{3}$

ז. $\frac{7(y+4)}{8(y-4)}$ ח. $\frac{a-8}{a-6}$

חיבור וחיסור של שברים אלגברים:

סיכום כללי:

ביצוע פעולת החיבור והחיסור תתבצע באופן זהה לשברים מספריים.

נרצה להרחיב את השברים כך שהמכנה של שניהם יהיה זהה, ולאחר מכן נחבר את המונים.

כדי להרחיב את השברים נעזר בפעולת מציאת מכנה משותף.
לשם כך נעזר בפירוקים השונים כדי להביא את הביטויים שבכל מכנה לצורתם המופשטת.

דוגמא לחיבור שברים בעלי אותו מכנה:

$$\frac{1}{x}+\frac{x+1}{x}=\frac{1+(x+1)}{x}=\frac{x+2}{x}$$

דוגמא לחיבור מספר לשבר אלגברי:

$$2+\frac{3}{x+2}=\frac{2(x+2)}{x+2}+\frac{3}{x+2}=\frac{2(x+2)+3}{x+2}=\frac{2x+7}{x+2}$$

דוגמא לחיבור שברים עם מכנים שונים (ע"י פעולת מכנה משותף):

$$\frac{1}{x+1}+\frac{1}{x}=\frac{x}{x(x+1)}+\frac{x+1}{x(x+1)}=\frac{x+x+1}{x(x+1)}=\frac{2x+1}{x(x+1)}$$

דוגמא לחיבור שברים ע"י שימוש בפירוק לגורמים (כדי למצוא מכנה משותף מינימלי):

$$\frac{1}{x^2-3x}+\frac{3}{x-3}=\frac{1}{x^2-3x}+\frac{3x}{x^2-3x}=\frac{1+3x}{x^2-3x}$$

דוגמא לחיבור שברים ע"י נוסחאות הכפל המקוצר (כדי למצוא מכנה משותף מינימלי):

$$\frac{3}{x^2-6x+9}-\frac{2}{x^2-9}=\frac{3}{(x-3)^2}-\frac{2}{(x-3)(x+3)}=\frac{3(x+3)-2(x-3)}{(x-3)^2(x+3)}=\frac{x+15}{(x-3)^2(x+3)}$$

שאלות:

1) פשט את הביטויים הבאים:

א. $\frac{a}{6}+\frac{a-5}{6}$

ב. $\frac{5}{x}+\frac{4x+3}{x}$

ג. $\frac{x-2}{x+1}+\frac{3+4x}{x+1}$

ד. $\frac{7z}{2z-3}-\frac{4z}{2z-3}-\frac{z+3}{2z-3}$

2) פשט את הביטויים הבאים:

א. $\frac{1}{ab}-\frac{5}{bc}$

ב. $\frac{1}{xy}+\frac{5}{yz}+\frac{4}{xz}$

ג. $\frac{c}{ab}-\frac{ad}{bc}+\frac{2b}{cd}$

ד. $-\frac{5}{x}+\frac{x+1}{xy^2}$

ה. $\frac{1}{(y+1)^2}+\frac{3}{y+1}$

ו. $\frac{3}{z(z-3)}-\frac{2}{z(z-2)}$

3) פשט את הביטויים הבאים:

א. $1-\frac{2}{x}$

ב. $1+\frac{3}{y^2}$

ג. $2+\frac{2}{x+1}$

ד. $3-\frac{1}{x}+\frac{1}{3x}$

ה. $\frac{a+1}{a^2}-\frac{3-a}{4a}-3$

ו. $\frac{x}{9yz}+\frac{z}{3y^2x}+\frac{3-y}{12xz}-3\frac{1}{2}$

4) פשט את הביטויים הבאים:

א. $\frac{3}{x+1}+\frac{1}{x}$

ב. $\frac{4}{y+2}-\frac{3}{y}$

ג. $\frac{a+1}{a+2}+\frac{3}{a}$

ד. $\frac{1}{z+3}+\frac{2}{3z}-\frac{3}{z}$

5) פשט את הביטויים הבאים:

א. $\frac{24}{a^2-9}+\frac{4}{a+3}$

ב. $\frac{3}{x^2-16}+\frac{2}{(x+4)^2}$

ג. $\frac{y}{(y-2)^2}+\frac{3y}{4-y^2}$

ד. $\frac{3z}{z^2+4z+3}-\frac{z+0.5}{z^2+2z+1}$

ה. $\frac{x-1}{x^2+3x-40}+\frac{2}{-x^2+8x-15}$

ו. $\frac{2a+3}{2a^2+15a+7}+\frac{a+3}{a^2+14a+49}$

ז. $\frac{x}{x-3}+\frac{9-x}{x^2-8x+15}$

ח. $\frac{1}{a-b}+\frac{2}{a+2b}-\frac{3b}{a^2+ab-2b^2}$

6) פשט את הביטויים הבאים:

א. $\frac{4}{x}\cdot\frac{x^2}{8}+\frac{9}{x+1}\cdot\frac{x+1}{18}$

ב. $\left(\frac{2}{x}+1\right)\cdot\frac{x^2}{7x+14}$

ג. $\frac{7}{y^2}:\frac{6}{y^3}-\frac{y-4}{63}\cdot\frac{3y-4}{y^2-8y+16}$

ד. $\left(3x-\frac{2}{x^2}+\frac{1}{x}\right):\frac{6x^3+2x-4}{x^2}$

ה. $\left(\frac{2x+1}{20x^2-28x-3}-\frac{3x+1}{30x^2-17x-2}\right):\frac{18x+3}{6x^2-13x+6}$

תשובות סופיות:

1) א. $\frac{2a-5}{6}$ ב. $\frac{4x+8}{x}$ ג. $\frac{5x+1}{x+1}$ ד. 1

2) א. $\frac{c-5a}{abc}$ ב. $\frac{z+5x+4y}{xyz}$ ג. $\frac{c^2d-a^2d^2+2ab^2}{abcd}$

ד. $\frac{-5y^2+x+1}{xy^2}$ ה. $\frac{3y+4}{(y+1)^2}$ ו. $\frac{1}{(z-2)(z-3)}$

3) א. $\frac{x-2}{x}$ ב. $\frac{y^2+3}{y^2}$ ג. $\frac{2x+4}{x+1}$

ד. $\frac{9x-2}{3x}$ ה. $\frac{-11a^2+a+4}{4a^2}$ ו. $\frac{4x^2y+12z^2+9y^2-3y^3-126xy^2z}{36xy^2z}$

4) א. $\frac{4x+1}{x(x+1)}$ ב. $\frac{y-6}{y(y+2)}$ ג. $\frac{a^2+4a+6}{a(a+2)}$

ד. $-\frac{4z+21}{3z(z+3)}$

5) א. $\frac{4}{a-3}$ ב. $\frac{5x+4}{(x-4)(x+4)^2}$ ג. $\frac{2y(4-y)}{(y-2)^2(y+2)}$

ד. $\frac{(4z+3)(z-1)}{2(z+1)^2(z+3)}$ ה. $\frac{x^2-6x-13}{(x+8)(x-5)(x-3)}$ ו. $\frac{4(a^2+6a+6)}{(a+7)^2(2a+1)}$

ז. $\frac{x-3}{x-5}$ ח. $\frac{3}{a+2b}$

6) א. $\frac{x+1}{2}$ ב. $\frac{x}{7}$ ג. $\frac{147y^2-594y+8}{126(y-4)}$ ד. $\frac{1}{2}$ ה. $\frac{1}{3(10x+1)}$

שברים כפולים:

סיכום כללי:

שבר כפול מורכב באופן הבא: $\frac{\frac{a}{b}}{\frac{c}{d}}$ כאשר מתקיים: $\frac{\frac{a}{b}}{\frac{c}{d}}=\frac{a}{b}:\frac{c}{d}=\frac{a}{b}\cdot\frac{d}{c}=\frac{ad}{bc}$.

נובע מכאן כי ניתן לצמצם ביטויים בין שני המכנים או שני המונים בלבד.

שאלות:

פשט את הביטויים הבאים:

1) $\frac{\frac{4x}{12}}{x}$

2) $\frac{\frac{y+1}{2y+2}}{5}$

3) $\frac{\frac{5}{t}}{30t^2}$

4) $\frac{\frac{t^2-81}{9t^2}}{6t+54}$

5) $\frac{\frac{3y^3-y^2}{25}}{\frac{y^2}{3-y}}$

6) $\frac{\frac{4x}{x+1}}{\frac{8}{x^2+2x+1}}$

7) $\frac{\frac{8c^2}{3c^3-9c^2-12c}}{\frac{40}{15c+15}}$

8) $\frac{\frac{t^2-t-20}{16t+8}}{\frac{25-t^2}{2t+1}}$

9) $\frac{\frac{1}{x}-4+\frac{x}{x+1}}{\frac{1-3x(x+1)}{5x+5}}$

תשובות סופיות:

1) $\frac{x^2}{3}$

2) 2.5

3) $\frac{1}{6t^3}$

4) $\frac{t-9}{54t^2}$

5) $\frac{(3y-1)(3-y)}{25}$

6) $\frac{x(x+1)}{2}$

7) $\frac{c}{c-4}$

8) $\frac{t+4}{-8(t+5)}$

9) $\frac{5}{x}$

קורס השלמה במתמטיקה

פרק 2 - משוואות אלגבריות

תוכן העניינים

1. משוואות ממעלה ראשונה 47
2. מערכת שתי משוואות בשני נעלמים ממעלה ראשונה 49
3. משוואות עם אינסוף פתרונות וללא פתרון 52
4. משוואה ממעלה שנייה 53
5. משוואות דו-ריבועיות 55
6. משוואות עם פרמטרים 57
7. משוואות עם שורשים 59
8. משוואות עם ערך מוחלט 61
9. מערכת משוואות ממעלה שנייה 62
10. משוואות מתקדמות מסכמות 64
11. פישוט ביטויים ומשוואות ממעלה שלישית 67

משוואה ממעלה ראשונה:

סיכום כללי:

משוואה ממעלה ראשונה היא מהצורה: $ax=b$ (כלומר, החזקה של הנעלם היא 1).

פתרון של משוואה ממעלה ראשונה הוא $x=\frac{b}{a}$ כאשר $a\neq 0$.

שלבי הפתרון הם:

1. ביצוע מכנה משותף (במידה וצריך).
2. פתיחת סוגריים אם ישנם.
3. העברת אגפים וכינוס אברים דומים (בידוד הנעלם באגף אחד והמספרים באגף שני).
4. בידוד הנעלם ומציאתו ע"י חילוק במקדם שלו.

שאלות:

1) פתור את המשוואות הבאות (משוואות יסודיות ממעלה ראשונה):

א. $6x+2=8$

ב. $7-2x=7$

ג. $2x+x=24$

ד. $2x+6=8+x$

ה. $-7x+5+2x=4x-13$

ו. $6x-3+5-7x=x-5x-7$

ז. $2-5x+7=-3x+8$

ח. $x-2+5x=4-3x-5+7x+7$

2) פתור את המשוואות הבאות (משוואות עם פתיחת סוגריים):

א. $3(x-1)-4=2$

ב. $7x-4(3-4x)=-x$

ג. $6(4-x)-(6-x)=3x$

ד. $5x-(3x-7)4=21$

ה. $x(x-5)=x^2-7x+8$

ו. $(7-x)(1-x)-(x-3)^2=0$

3) פתור את המשוואות הבאות (משוואות עם מכנה מספרי):

א. $\frac{x}{3}-\frac{x}{9}=-4$

ב. $\frac{4x}{15}-\frac{3x}{10}=1$

ג. $\frac{2}{3}x+\frac{4}{5}x=x-\frac{7}{15}$

ד. $\frac{5x+1}{6}-\frac{6x-1}{5}=\frac{3x+1}{4}-1$

ה. $\frac{2}{5}(x-3)-\frac{3}{15}(4-x)=x+2$

ו. $5\left(\frac{x}{3}-\frac{x}{7}\right)-x=1$

4) פתור את המשוואות הבאות (משוואות עם נעלם במכנה):

א. $\frac{1}{4}-\frac{2}{x}=0$

ב. $\frac{1}{2}-\frac{x}{x-1}=0$

ג. $\frac{3}{x}=\frac{1}{x+2}$

ד. $\frac{5}{2x-1}=\frac{4}{3x+2}$

ה. $\frac{x+5}{3x^2}-\frac{1}{6x}=\frac{1}{x}$

ו. $\frac{1}{4x}+\frac{3}{x}=\frac{13}{2}$

5) פתור את המשוואות הבאות (משוואות עם מכנה משותף ע"י פירוק לגורמים):

א. $\frac{x^2+2}{3x^2+5x}=\frac{3x-1}{9x+15}$

ב. $\frac{7}{x^2-1}+\frac{2}{x+1}+\frac{3}{2-2x}=0$

ג. $\frac{3}{(2-x)^2}+\frac{5}{12-3x^2}=0$

ד. $\frac{4x^2-24x+36}{x-3}=12$

תשובות סופיות:

1) א. $x=1$ ב. $x=0$ ג. $x=8$ ד. $x=2$ ה. $x=2$ ו. $x=-3$

ז. $x=\frac{1}{2}$ ח. $x=4$.

2) א. $x=3$ ב. $x=\frac{1}{2}$ ג. $x=2\frac{1}{4}$ ד. $x=1$ ה. $x=4$ ו. $x=-1$.

3) א. $x=-18$ ב. $x=-30$ ג. $x=-1$ ד. $x=1$ ה. $x=-10$ ו. $x=-21$.

4) א. $x=8$ ב. $x=-1$ ג. $x=-3$ ד. $x=-2$ ה. $x=2$ ו. $x=\frac{1}{2}$.

5) א. $x=-6$ ב. $x=-7$ ג. $x=-7$ ד. $x=6\ ,\ x\neq 3$.

מערכת שתי משוואות בשני נעלמים ממעלה ראשונה:

סיכום כללי:

הגדרה:

מערכת שתי משוואות בשני נעלמים ממעלה ראשונה (ליניאריות) היא מהצורה הבאה:

$$\begin{cases} a_1x+b_1y=c_1 \\ a_2x+b_2y=c_2 \end{cases}$$

כאשר a_1 , b_1 , c_1 ו- a_2 , b_2 , c_2 הם מקדמים מספריים.

דוגמאות למערכות של משוואות: $\begin{cases} x+y=3 \\ 2x-y=1 \end{cases}$, $\begin{cases} y=3x-1 \\ \frac{x+3}{2}=y+6 \end{cases}$.

פתרון של מערכת משוואות:

פתרון של מערכת המשוואות הוא זוג סדור המקיים את כל המשוואות שבמערכת.

הצגה גרפית של מערכת משוואות:

פתרון גרפי של מערכת משוואות הוא נקודת החיתוך של הישרים המייצגים כל משוואה.

יתכנו שלושה מצבים הדדיים בין שני ישרים:

- הישרים נחתכים:
במקרה זה נקודת החיתוך תהיה פתרון המערכת.

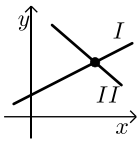

- הישרים מקבילים:
במקרה זה לא יהיה פתרון למערכת.

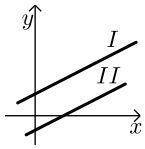

- הישרים מתלכדים:
במקרה זה יהיו אינסוף פתרונות למערכת המשוואות.

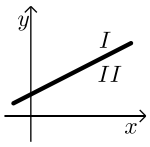

פתרון אלגברי של מערכת משוואות:

- פתרון ע"י שיטת ההצבה:
נבודד את אחד הנעלמים ממשוואה אחת ונציב אותו במשוואה השנייה.
נבחר בשיטה זו במקרים בהם קל לבודד נעלם באחת המשוואות.

- פתרון ע"י השוואת מקדמים:

1. כופלים (או מחלקים) משוואה אחת (או שתיהן) במספר השונה מאפס כך שתתקבלנה משוואות שקולות בעלות מקדמים נגדיים או זהים עבור אחד המשתנים.
2. מחברים (או מחסרים) את המשוואות ומקבלים משוואה חדשה עם נעלם אחד.
3. מוצאים את ערך הנעלם מהמשוואה החדשה ומציבים אותו באחת המשוואות המקוריות למציאת ערך הנעלם השני.

הערה:

נוח להשתמש בשיטת השוואת המקדמים ע"י כך שמעבירים את המערכת הנתונה למערכת שקולה שבה המשתנים באגף אחד והמספר החופשי באגף השני.

שאלות:

1) פתור את המשוואות הבאות:

א. $\begin{cases} 3x+y=11 \\ y=5 \end{cases}$

ב. $\begin{cases} y=x-3 \\ y=2x+4 \end{cases}$

ג. $\begin{cases} -3x+2y=-16 \\ x=5y+14 \end{cases}$

ד. $\begin{cases} 5x-2y=-2 \\ x+4y=4 \end{cases}$

ה. $\begin{cases} -5x+7y=-26 \\ x+3y=-8 \end{cases}$

ו. $\begin{cases} 2x+3y=5 \\ 5x+7y=11 \end{cases}$

2) פתור את המשוואות הבאות:

א. $\begin{cases} x+3y=5 \\ x-3y=3 \end{cases}$

ב. $\begin{cases} 5x+2y=14 \\ 5x+3y=23 \end{cases}$

ג. $\begin{cases} 5y=2x \\ 4x=5y+8 \end{cases}$

ד. $\begin{cases} 4x=3y-29 \\ 5y=9-13x \end{cases}$

3) פתור את המשוואות הבאות:

א. $\begin{cases} x+2y=1 \\ 4x+8y=5 \end{cases}$

ב. $\begin{cases} 2(x-y)+4y=1+x \\ 2-7y+x=3(x-y) \end{cases}$.

4) פתור את המשוואות הבאות:

א. $\begin{cases} 3y-x+2=4x+2-3y \\ 2x-3-y=5y-4x+3 \end{cases}$

ב. $\begin{cases} \frac{x-3}{8}-\frac{x+y}{16}=\frac{y-1}{4} \\ 3(2x-y)-4x-11=0 \end{cases}$

ג. $\begin{cases} \frac{3x-1}{4}-\frac{2}{5}(x-y)=\frac{3}{10}(x+3) \\ \frac{x+1}{4}-\frac{y}{2}=1 \end{cases}$.

5) פתור את המשוואות הבאות:

א. $\begin{cases} \frac{3}{x}+\frac{1}{y}=4 \\ \frac{5}{x}-\frac{1}{y}=4 \end{cases}$

ב. $\begin{cases} \frac{3}{x}+\frac{3}{y}=2 \\ \frac{9}{x}-\frac{4}{y}=-7 \end{cases}$

ג. $\begin{cases} 4x-\frac{7}{y}=-3 \\ 5x+\frac{2}{y}=7 \end{cases}$

6) פתור את המשוואות הבאות:

א. $\begin{cases} x(y+2)+y=xy-5 \\ x-y=2 \end{cases}$

ב. $\begin{cases} xy=20 \\ y(3x-4)=20 \end{cases}$

ג. $\begin{cases} 5x-4xy=22 \\ 6x+xy=-20 \end{cases}$

תשובות סופיות:

1) א. $(2,5)$ ב. $(-7,-10)$ ג. $(4,-2)$ ד. $(0,1)$ ה. $(1,-3)$ ו. $(-2,3)$.

2) א. $\left(4,\frac{1}{3}\right)$ ב. $\left(-\frac{4}{5},9\right)$ ג. $(4,1.6)$ ד. $(-2,7)$.

3) א. אין פתרון. ב. אינסוף פתרונות.

4) א. $(6,5)$ ב. $(7,1)$ ג. $(7,2)$.

5) א. $(1,1)$ ב. $(-3,1)$ ג. $(1,1)$.

6) א. $(-1,-3)$ ב. $(2,10)$ ג. $(-2,4)$.

משוואות עם אינסוף פתרונות וללא פתרון:

סיכום כללי:

משוואה ממעלה ראשונה:

למשוואה ממעלה ראשונה מהצורה: $ax=b$ יתכן פתרון יחיד אם ורק אם $a\neq 0$ מכיוון שניתן לחלק ולכתוב: $x=\frac{b}{a}$.

כאשר $a=0$ מתקבלת המשוואה $0\cdot x=b$ ויתכנו שני מצבים:

1. אם $b=0$ את המשוואה היא $0x=0$ ויש אינסוף פתרונות המקיימים אותה.
2. אם $b\neq 0$ את המשוואה היא $0x=b\neq 0$ ואין אף ערך של x המקיים אותה.

שאלות:

פתור את המשוואות הבאות:

1) $x+4=6+x$

2) $3x+6-x=4+2x+2$

3) $6(x-2)=2x+5+4x$

4) $5x-3+x=4x+2x-3$

5) נתונה המשוואה: $3-2(x+2)=5x+\square$.

א. איזה מספר יש להציב ב-$\square$ על מנת שפתרון המשוואה יהיה 1?

ב. איזה מספר יש להציב ב-$\square$ על מנת שפתרון המשוואה יהיה 0?

ג. מצא ביטוי אלגברי שיש להציב ב-$\square$ על מנת שלמשוואה יהיו אינסוף פתרונות.

ד. מצא ביטוי אלגברי שיש להציב ב-$\square$ על מנת שלמשוואה לא יהיה פתרון.

תשובות סופיות:

1) אף פתרון.

2) אינסוף פתרונות.

3) אין פתרון.

4) אינסוף פתרונות.

5) א. 8- ב. 1- ג. $-7x-1$

ד. $-7x+k$ כאשר k הוא מספר כלשהו השונה מ- 1-.

משוואה ממעלה שנייה:

סיכום כללי:

משוואה מהצורה: $ax^2+bx+c=0$, $(a\neq 0)$ נקראת משוואה ריבועית.

פתרונות המשוואה יסומנו ב- x_1 ו- x_2 ויחושבו לפי נוסחת השורשים:

$$x_{1,2}=\frac{-b\pm\sqrt{b^2-4ac}}{2a}.$$

למשוואה ריבועית יתכנו שלושה סוגים של פתרונות:

1. **משוואה עם שני פתרונות ממשיים שונים.**
אם מתקבל מספר חיובי בתוך השורש שבנוסחת השורשים אזי למשוואה יהיו שני פתרונות ממשיים שונים.
דוגמא: $x^2+5x-4=0$.

2. **משוואה עם פתרון ממשי אחד בלבד.**
אם מתקבל אפס בתוך השורש שבנוסחת השורשים אזי למשוואה יהיה פתרון ממשי אחד בלבד.
דוגמא: $x^2+4x+4=0$.

3. **משוואה ללא פתרונות ממשיים כלל.**
אם מתקבל מספר שלילי בתוך השורש שבנוסחת השורשים אזי למשוואה לא יהיו פתרונות ממשיים כלל.
דוגמא: $x^2+x+4=0$.

שאלות:

1) פתור את המשוואות הבאות:

א. $x^2+3x-10=0$

ב. $-x^2+10x-16=0$

ג. $25x^2-20x+4=0$

ד. $2x^2-6x+5=0$

2) פתור את המשוואות הבאות:

א. $4x^2-5x+7=4-x^2+13$

ב. $-x(x-5)=(1-3x)(1-x)+4$

ג. $2(x-5)^2-(2x-3)^2=10x+21$

ד. $(2x-1)^2+x(2x+3)=(x-1)(x-7)$

3) פתור את המשוואות הבאות (משוואה חסרת b):

א. $x^2-36=0$

ב. $32x^2-18=0$

ג. $4x-x(x+2)=3(x-1)-x-6$

ד. $(2x-1)^2+(2x+1)^2=10$

4) פתור את המשוואות הבאות (משוואה חסרת c):

א. $-7x^2-14x=0$

ב. $5x^2-x=0$

ג. $6x(x-2)-1=4x-3(x+1)+2$

ד. $(5x-2)^2=(x-2)(x+3)+10$

5) פתור את המשוואות הבאות:

א. $\frac{4x+1}{3}-\frac{x+2}{2}=\frac{2}{x}$

ב. $\frac{x^2-9}{x+3}+x=x^2-18$

ג. $\frac{3}{2x+2}-\frac{2x-5}{2(x-1)^2}-\frac{4}{1-x^2}=0$

ד. $\frac{x}{2x^2-72}+\frac{2}{x^2+12x+36}=\frac{8x-15}{24-4x}+2$

תשובות סופיות:

1) א. $x_1=2\ ,\ x_2=-5$ ב. $x_1=2\ ,\ x_2=8$ ג. $x=\frac{2}{5}$ ד. אין פתרון.

2) א. $x_1=2\ ,\ x_2=-1$ ב. $x_1=1\ ,\ x_2=1\frac{1}{4}$ ג. $x_1=1\ ,\ x_2=-10$

ד. $x_1=0.6\ ,\ x_2=-2$.

3) א. $x=\pm 6$ ב. $x=\pm\frac{3}{4}$ ג. $x=\pm 3$ ד. $x=\pm 1$

4) א. $x_1=0\ ,\ x_2=-2$ ב. $x_1=0\ ,\ x_2=\frac{1}{5}$ ג. $x_1=0\ ,\ x_2=2\frac{1}{6}$

ד. $x_1=0\ ,\ x_2=\frac{7}{8}$.

5) א. $x_1=2\ ,\ x_2=-1.2$ ב. $x=5\ ,\ x\neq -3$ ג. $x_1=0\ ,\ x_2=-5$

ד. $x_1=-7.6\ ,\ x_2=-4\frac{2}{7}$.

משוואות דו-ריבועיות:

סיכום כללי:

משוואה דו-ריבועית היא משוואה מהצורה: $ax^4+bx^2+c=0$ כאשר הנעלם הוא x.
פתרון המשוואה יבוצע ע"י מעבר לפרמטר: $x^2=t \to at^2+bt+c=0$ ומציאתו.
לאחר מכן יש להחזיר את ההצבה ולמצוא את ערכי x.

ניתן להביא משוואות לצורה זו ולהגדיר ביטוי המופיע בחזקות 2 ו-4
כגון: $\left(x^2-1\right)^2+3\left(x^2-1\right)-2=0$ באמצעות פרמטר: $t=x^2-1$
ובכך לפתור משוואה: $t^2+3t-2=0$ ולהחזיר את ההצבה עבור מציאת x.
דרך הפתרון תקפה לכל משוואה בה הנעלם מופיע בחזקות כפולות כגון 3 ו-6, או 4 ו-8.

שאלות:

פתור את המשוואות הבאות:

1) $5x^4+3x^2-8=0$

2) $x^4-3x^2+2=0$

3) $13x^2\left(3x^2-1\right)-2=3\left(x^2-1\right)\left(x^2+1\right)$

4) $x^2\left(x^2+1\right)=10\left(3x^2-10\right)$

5) $x^6+x^3=56$

6) $x^3+4=\frac{32}{x^3}$

7) $x-9\sqrt{x}+14=0$

8) $x^8-4x^4-50=31x^4-84$

9) $125x^6-1=124\left(x^6+x^3+1\right)$

10) $\left(2x^2-x\right)^2-4\left(2x^2-x\right)+3=0$

11) $\left(x^2+2x\right)^2+7x^2+14x=-6$

12) $\frac{21}{x^2-4x+10}=6+x^2-4x$

13) $\frac{12}{x^2+2x-8}=1+\frac{7.5}{x^2+2x-3}$

14) $\frac{x^2+2x+2}{x^2+2x+3}=\frac{7}{6}-\frac{x^2+2x+1}{x^2+2x+2}$

15) $\frac{3}{3x^2-15}+\frac{1}{x^2+5}=\frac{10}{x^4-25}$

16) $\frac{x^2-1}{4x^2-28}+2=\frac{9}{x^4-8x^2+7}+\frac{x^2}{2x^2-2}$

17) $\left(2x+\frac{3}{x}\right)^2+35=12\left(2x+\frac{3}{x}\right)$

18) $\frac{3x^4}{(x+2)^2}+\frac{3x^2}{x+2}=6$

19) $\left(2x-x^2+3\right)\left(2x-x^2-2\right)=0$

20) $\left(x^2-5x+6\right)\left(x^2-5x-8\right)=-24$

תשובות סופיות:

1) $x=\pm 1$

2) $x=\pm 1,\pm\sqrt{2}$

3) $x=\pm\frac{1}{2},\pm\frac{1}{3}$

4) $x=\pm 2,\pm 5$

5) $x_1=\sqrt[3]{7}\ ,\ x_2=-2$

6) $x=-2,\sqrt[3]{4}$

7) $x_1=4\ ,\ x_2=49$

8) $x_{1,2}=\pm\sqrt[4]{34}\ ,\ x_{3,4}=\pm 1$

9) $x=5,-1$

10) $x_1=1.5\ ,\ x_2=-1\ ,\ x_3=1\ ,\ x_4=-\frac{1}{2}$

11) $x=-1$

12) $x_{1,2}=1,3$

13) $x_1=0\ ,\ x_2=-2\ ,\ x_3=3.06\ ,\ x_4=-5.06$

14) $x_1=0\ ,\ x_2=-2$

15) אין פתרונות.

16) $x=\pm\sqrt{\frac{3}{7}}$

17) $x=\frac{1}{2},1,\frac{3}{2},3$

18) $x=-1,2$

19) $x=3,-1$

20) $x=\pm 1,4,6$

משוואות עם פרמטרים:

סיכום כללי:

משוואה עם פרמטר הינה משוואה שמכילה שני סוגים של גדלים – משתנים ופרמטרים.
את המשתנים מקובל לסמן באותיות x , y , z ואת הפרמטרים מסמנים בשאר האותיות.
פתרון המשוואה יתקבל ע"י בידוד המשתנה כך שיבוטא באמצעות הפרמטר/ים שבמשוואה.

למשל פתרון המשוואה: $mx=4$ (כאשר x הוא הנעלם ו- m הוא פרמטר) הוא $x=\frac{4}{m}$

אשר מבוטא באמצאות הפרמטר m.

בכתיבת פתרון של משוואה עם פרמטרים יש לציין את תחום ההגדרה של הפרמטר עבורו הפתרון הוא בעל משמעות. בדוגמא הנ"ל תחום ההגדרה הוא $m\neq 0$.

שאלות:

1) פתור את המשוואות הבאות:

א. $3x-b=(b+1)x-6$

ב. $\frac{1}{3}(a-3x)=\frac{1}{a}(ax-3)$

ג. $(x-2a)(x-2b)=x^2-2(a^2+b^2)$

ד. $\frac{m+1}{x-1}=\frac{m-1}{x+1}$

ה. $\frac{x}{a^2-a}-\frac{1}{2a}=\frac{ax+x}{2a^3-4a^2+2a}-\frac{2}{a^3-2a^2+a}$

2) פתור את מערכות המשוואות הבאות:

א. $\begin{cases} x+my=1 \\ x+y=m \end{cases}$

ב. $\begin{cases} ax+y=2 \\ x+ay=4 \end{cases}$

ג. $\begin{cases} \frac{x}{m}+y=m \\ x-m^2y=1 \end{cases}$

ד. $\begin{cases} (m-1)x-(2m+3)y=5 \\ (m+2)x-(2m-1)y=10m \end{cases}$

ה. $\begin{cases} (2a+b)x-(2a-b)y=8ab \\ (2a-b)x+(2a+b)y=8a^2-2b^2 \end{cases}$

3) פתור את המשוואות הריבועיות הבאות:

א. $x^2-2mx+m^2-1=0$

ב. $x^2-2x+4a=a^2+3$

ג. $x^2+m(x+10)=2m^2-5x$

ד. $\frac{1}{a-x}+\frac{1}{a}+\frac{1}{a+x}=0$

ה. $(m^2+1)x^2-m^2x-1=0$

ו. $\frac{a}{x}+\frac{1}{b}=\frac{x}{a}+b$

ז. $x+\frac{1}{x}=\frac{a-b}{a+b}+\frac{a+b}{a-b}$

תשובות סופיות:

1) א. $x=\frac{b-6}{2-b}\ ,\ b\neq 2$ ב. $x=\frac{a^2+9}{6a}\ ,\ a\neq 0$ ג. $x=a+b$ ד. $x=-m$ ה. $x=a+1$

2) א. $m\neq 1\ ,\ (m+1,-1)$ ב. $a\neq \pm 1\ ,\ \left(\frac{2a-4}{a^2-1},\frac{4a-2}{a^2-1}\right)$

ג. $m\neq 0-1\ ,\ \left(m^2-m+1,\frac{m-1}{m}\right)$ ד. $m\neq 1,-2\ ,\ (2m+1,m-2)$

ה. $b\neq \pm 2a\ ,\ (2a+b,2a-b)$

3) א. $x=m+1,\mathrm{m}-1$ ב. $x=a-1,3-a$ ג. $x=m-5,-2m$

ד. $a\neq 0\ ,\ x\neq \pm a\ ,\ x=\pm a\sqrt{3}$ ה. $x=1,-\frac{1}{m^2+1}$

ו. $a,b\neq 0\ ,\ x=\frac{a}{b},-ab$ ז. $a\neq \pm b\ ,\ x=\frac{a+b}{a-b},\frac{a-b}{a+b}$.

משוואות עם שורשים:

סיכום כללי:

פתרון משוואה מהצורה: $\sqrt{x}=a$ יתקבל ע"י העלאה בריבוע של שני אגפי המשוואה באופן הבא: $\left(\sqrt{x}\right)^2=\left(a\right)^2 \quad \rightarrow \quad x=a^2$.

הערות:

1) יש לזכור בעת העלאה בריבוע של שני אגפי המשוואה יש לבדוק את כל הפתרונות המתקבלים ע"י הצבתם במשוואה המקורית.
2) למשוואה מהצורה $\sqrt{x}=a$ שבה $a<0$ אין פתרון.
3) יש לסדר תחילה משוואות שבהן הביטוי עם שורש אינו מבודד.
4) במשוואות שבהן יותר מביטוי אחד עם שורש יש לבודד תחילה את אחד הביטויים, להעלות בריבוע ולאחר מכן לחזור על התהליך ולבצע העלאה בריבוע פעם נוספת.

שאלות:

פתור את המשוואות הבאות:

1) $\sqrt{2x+5}=7$
2) $\sqrt{x+2}=x$
3) $\sqrt{3x+1}+x=13$
4) $\sqrt{2x+7}+4=x$
5) $\sqrt{x-1}+3=x$
6) $\sqrt{10x+6}+9=x$
7) $\sqrt{x+6}-2=2x$
8) $\sqrt{24-x}+3=2x$
9) $\sqrt{x+16}+4=2x$
10) $2x=16-3\sqrt{x-1}$
11) $\sqrt{3x+5}=\sqrt{x+17}$
12) $\sqrt{x^2-5x+12}=2\sqrt{6-x}$
13) $\sqrt{x-1}\cdot\sqrt{2x-5}=\sqrt{11-x^2}$
14) $\sqrt{2x-1}+3=\sqrt{7x+1}$
15) $\sqrt{9x-8}-3\sqrt{x+4}=-2$
16) $\sqrt{2x-3}+\sqrt{3-x}=2$
17) $\sqrt{x+3}+\sqrt{x-2}=\sqrt{4x+1}$
18) $\sqrt{2x-2}+\sqrt{5x-4}=\sqrt{3x-2}$
19) $3\sqrt{x-1}+\sqrt{2x-3}=2\sqrt{x+2}$

תשובות סופיות:

1) $x=22$

2) $x=2$

3) $x=8$

4) $x=9$

5) $x=5$

6) $x=25$

7) $x=0.25$

8) $x=3.75$

9) $x=4.25$

10) $x=5$

11) $x=6$

12) $x=4,-3$

13) $x=3$

14) $x=5$

15) $x=12$

16) $x=2,2\frac{8}{9}$

17) $x=6$

18) $x=1$

19) $x=2$

משוואות עם ערך מוחלט:

סיכום כללי:

הגדרה:

ערך מוחלט הינו המרחק של מספר מ-0 ומוגדר באופן הבא: $|x|=\begin{cases} x & x\ge 0 \\ -x & x<0 \end{cases}$.

משוואה עם ערך מוחלט:

משוואה עם ערך מוחלט היא מהצורה: $|x|=a$.

כדי לפתור משוואה עם ערכים מוחלטים יש למצוא את נקודות האפס של כל ערך מוחלט (קרי: הנקודות בהן הביטוי שבתוך הערך המוחלט מתאפס) ולפצל את המשואה הנתונה לתחומים עבור כל תחום.

שאלות:

פתור את המשוואות הבאות:

1) $|3x+14|=7$

2) $|3x-24|=x$

3) $|12-x|=3x$

4) $2x-|8-x|=10$

5) $|4x-5|=|2x+13|$

6) $|14-3x|=2|x+5|$

7) $|x|+7=|2x|$

8) $|x+2|+6=|2x-4|$

9) $|x+2|+|2x-6|=|4x+8|$

10) $|10-3x|-|x+4|=|2x-6|$

תשובות סופיות:

1) $x=-\frac{7}{3},\ -7$

2) $x=6,12$

3) $x=3$

4) $x=6$

5) $x=9,-1\frac{1}{3}$

6) $x=24,\frac{4}{5}$

7) $x=\pm 7$

8) $x=12,-1\frac{1}{3}$

9) $x=0,-12$

10) $x=0$

מערכת משוואות ממעלה שנייה:

סיכום כללי:

מערכת משוואות ריבועיות מיוחסת למערכת של שתי משוואות (לפחות) שאחת מהן מכילה את אחד מהנעלמים בריבוע. למערכת משוואות ריבועיות יכולים להתקבל עד 4 פתרונות שונים. יש לפתור את המערכת לפי הטכניקות הרגילות של בידוד והצבה או השוואת מקדמים.

שאלות:

פתור את מערכות המשוואות הבאות:

1) $\begin{cases} x^2+y^2=20 \\ x+y=6 \end{cases}$

2) $\begin{cases} 2x^2+y^2=36 \\ x^2+3y=10 \end{cases}$

3) $\begin{cases} 3x^2+4y^2=16 \\ 5x^2-3y^2=17 \end{cases}$

4) $\begin{cases} x^2-2y^2=17 \\ xy=-10 \end{cases}$

5) $\begin{cases} x^2-xy-20y^2=0 \\ x+6y=1 \end{cases}$

6) $\begin{cases} x^2-2xy+8y^2=8 \\ 3xy-2y^2=4 \end{cases}$

7) $\begin{cases} x^2-y^2=33 \\ x+y=11 \end{cases}$

8) $\begin{cases} 16x^2-y^2=391 \\ 4x-y=23 \end{cases}$

9) $\begin{cases} 4xy+x=-15 \\ \frac{3}{y}-2x=16 \end{cases}$

10) $\begin{cases} \frac{3}{x}+\frac{1}{y}=5 \\ \frac{4}{y}-\frac{1}{x}=-19 \end{cases}$

11) $\begin{cases} \frac{3}{x}+\frac{5}{y}=21 \\ \frac{8}{x}-\frac{1}{y}=13 \end{cases}$

12) $\begin{cases} xy=24 \\ (y-x)^2-7(y-x)+10=0 \end{cases}$

13) $\begin{cases} x^2y-xy^2=84 \\ x^2-2xy+y^2+5x-5y=24 \end{cases}$

14) $\begin{cases} \sqrt{\frac{x}{y}}+\sqrt{\frac{y}{x}}=\frac{10}{3} \\ x^2+y^2=9xy+25 \end{cases}$

תשובות סופיות:

1) $(2,4),(4,2)$

2) $(\pm 4,-2)$

3) $(\pm 2,\pm 1)$

4) $(5,-2),(-5,2)$

5) $\left(-2,\frac{1}{2}\right),\left(\frac{5}{11},\frac{1}{11}\right)$

6) $\left(3,\frac{1}{2}\right),\left(-3,-\frac{1}{2}\right),(2,1),(-2,-1)$

7) $(7,4)$

8) $(5,-3)$

9) $\left(-5,\frac{1}{2}\right)$, $\left(-24,-\frac{3}{32}\right)$

10) $\left(\frac{1}{3},-\frac{1}{4}\right)$

11) $\left(\frac{1}{2},\frac{1}{3}\right)$

12) $(4,6)$, $(-6,-4)$, $(3,8)$, $(-8,-3)$

13) $(-1.65,6.35)$, $(-6.35,1.65)$, $(7,4)$, $(-4,-7)$

14) $(5,45)$, $(-5,-45)$, $(45,5)$, $(-45,-5)$

משוואות מסכמות מתקדמות:

סיכום כללי:

תזכורת מהירה:

- משוואה דו-ריבועית יכולה להופיע בכל תצורה (עם שורשים, עם ערכים מוחלטים וכו').
העיקרון הוא זיהוי תבנית של הנעלם אשר חוזרת על עצמה לאורך המשוואה.
סימון התבנית במשתנה זמני ופתרון עבור משתנה זה תוביל למשוואה מוגדרת ופתירה.
לאחר מכן יש להחזיר את ההצבה לתבנית של המשתנה המקורי ולמצוא את ערכיו.

- דרך הפתרון של משוואה עם שורשים היא ע"י בידוד השורש והעלאה בריבוע.
במידה ויש יותר משורש אחד המופיעים בחיבור/חיסור יש לבצע את הפעולה פעמיים.
חשוב לוודא נכונות של כל הפתרונות המתקבלים ע"י הצבה במשוואה המקורית לפני ההעלאות בריבוע.

- דרך הפתרון של משוואה עם ערכים מוחלטים היא ע"י פיצול המשוואה לתחומים לפי סימני הערך המוחלט. זאת יש לבצע ע"י איפוס הביטוי שבכל ערך מוחלט ומציאת ערכי הנעלם המקיימים זאת, חלוקת המשוואה לתחומים מתאימים ופתרונה בכל תחום.
יש לזכור לבדוק האם הפתרון המתקבל נמצא בתחום הפתרון – במידה וכן הוא פתרון של המשוואה, אחרת הוא נפסל.

- משוואה עם פרמטר/ים נפתרת בצורה רגילה (התייחסות לפרמטר/ים כאל קבועים מספריים) כאשר יש לציין את תחומי ההגדרה שלהם. יש לבדוק פתרונות שמתקבלים המבוטאים באמצעות הפרמטר/ים במידה וקיימת הגבלת תחום הגדרה במשוואה.

שאלות:

פתור את המשוואות הבאות:

1) $x+\sqrt{x+6}-6=0$

2) $x^2+5x-\sqrt{x^2+5x}-30=0$

3) $4x^2+16x-4\sqrt{x^2+4x}-3=0$

4) $2x^2+6x-\sqrt{x^2+3x+5}=5$

5) $x^2-\sqrt{16x^2+48}+7=0$

6) $x^2-\sqrt{6x^2-15}=1$

7) $\frac{x^2}{\sqrt{3x-2}}-\sqrt{3x-2}=1-x$

8) $\frac{\sqrt{x^2+4x-12}}{\sqrt{x-1}}+\sqrt{x+5}=\frac{7}{\sqrt{x-1}}$

9) $\sqrt{x^2-3x+2}+\sqrt{x+3}=\sqrt{x-2}+\sqrt{x^2+2x-3}$

10) $\sqrt{x+\sqrt{14x-49}}+\sqrt{x-\sqrt{14x-49}}=\sqrt{14}$

11) $\sqrt{x+6+6\sqrt{x-3}}-\sqrt{x+6-6\sqrt{x-3}}=2$

12) $\frac{4}{x+\sqrt{x^2+x}}-\frac{1}{x-\sqrt{x^2+x}}=\frac{3}{x}$

פתור את המשוואות הבאות עבור $a>0$:

13) $x^2+ax-2a\sqrt{x^2+ax-a^2}=0$

14) $x^2+ax-2a\sqrt{3x^2+3ax-9a^2}=0$

פתור את המשוואות הבאות:

15) $\left|3-\left|2-x\right|+\left|x\right|\right|=1$

16) $\left|4-\left|5-x\right|\right|=\left|x+3\right|$

17) $\left|\frac{x+\left|3-x\right|}{x+2}\right|=18$

18) $\sqrt{25+\left|16x^2-25\right|}=4+4\left|x+1\right|$

19) $\frac{x^3-5x}{\sqrt{2x^2-4x-1}-\left|x\right|+2}=0$

20) הראה כי אין פתרון למשוואה הבאה: $\frac{\left|x+2\right|}{\left|x\right|+2}=\left|2-x\right|+2$.

תשובות סופיות:

1) $x=3$

2) $x_1=4\ ,\ x_2=-9$

3) $x_1=0.5\ ,\ x_2=-4.5$

4) $x_1=1\ ,\ x_2=-4$

5) $x_{1,2}=\pm 1$

6) $x_{1,2}=\pm 2$

7) $x=1$.

8) $x=3$.

9) $x=2$.

10) $3.5\le x\le 7$.

11) $x=4$.

12) $x=1\ ,\ x=\frac{9}{16}$.

13) $x_1=-2a\ ,\ x_2=a$

14) $x_1=-2a\ ,\ x_2=3a$

15) $x\le 0$.

16) $x=-1$.

17) $x=-\frac{39}{18},-\frac{33}{18}$.

18) $x\le\frac{5}{4}\ ,\ x=-\frac{1}{4}$.

19) $x=-\sqrt{5}$.

20) שאלת הוכחה.

ביטויים ומשוואות ממעלה שלישית:

סיכום כללי:

נוסחאות הכפל המקוצר ממעלה שלישית:

$$(a\pm b)^3=a^3\pm 3a^2b+3ab^2\pm b^3$$

$$a^3\pm b^3=(a\pm b)(a^2\mp ab+b^2)$$

שאלות:

פישוט ביטויים:

פשט את הביטויים הבאים:

1) $(x-3)^3$

2) $(2y+5)^3$

3) $8x^3-1$

4) $8y^3+343$

5) a^6-27

6) $x^3y^6z^9-1$

7) $11+88x^{12}$

8) $64mn^4-8m^4n^7$

9) $\dfrac{x^2+4x+4}{x^3+6x^2+12x+8}$

10) $\dfrac{x^3+64}{x^2+4x}$

משוואות בנעלם אחד עם נוסחאות הכפל המקוצר:

פתור את המשוואות הבאות:

11) $x^3-12x^2+48x-64=0$

12) $125x^3=1-15x+75x^2$

13) $x^3+x-30=0$

14) $x^3-7x-6=0$

משוואות בנעלם אחד עם פירוקים שונים:

פתור את המשוואות הבאות:

15) $2x^3-7x^2+7x-2=0$

16) $2x^3+5x^2-2x-5=0$

מערכת משוואות:

17) פתור את מערכת המשוואות הבאה: $\begin{cases} x^3+y^3=243 \\ x+y=9 \end{cases}$.

18) פתור את מערכת המשוואות הבאה: $\begin{cases} x^3-y^3=91 \\ x^2y-xy^2=30 \end{cases}$.

תשובות סופיות:

1) $x^3-9x+27x-27$

2) $(2x-1)(4x^2+2x+1)$

3) $(a^2-3)(a^4+3a^2+9)$

4) $8(1+2x^4)(1-2x^4+4x^8)$

5) $\frac{1}{x+2}$

6) $x=4$

7) $x=3$

8) $x_{1,2,3}=\frac{1}{2}, 1, 2$

9) $(3,6), (6,3)$

10) $8y^3+60y^2+150y+125$

11) $(2y+7)(4y^2-17y+49)$

12) $(xy^2z^3-1)(x^2y^4z^6+xy^2z^3+1)$

13) $8mn^4(2-mn)(4+2mn+m^2n^2)$

14) $\frac{x^2-4x+16}{x}$

15) $x=\frac{1}{}$

16) $x_{1,2,3}=-2, -1, 3$

17) $x_{1,2,3}=-2.5, -1, 1$

18) $(-5,-6), (6,5)$

קורס השלמה במתמטיקה

פרק 3 - הפונקציה הריבועית

תוכן העניינים

1. הפונקציה הריבועית היסודית y=x^2 ..... (ללא ספר)
2. משפחת הפרבולות מהצורה y=x^2+c ..... (ללא ספר)
3. משפחת הפרבולות מהצורה y=(x-p)^2 ..... (ללא ספר)
4. משפחת הפרבולות מהצורה y=(x-p)^2+k ..... (ללא ספר)
5. משפחת הפרבולות עם מקדם a כללי ..... (ללא ספר)
6. משפחת הפרבולות מהצורה y=a(x-p)^2+k ..... (ללא ספר)
7. הצגה סטנדרטית של הפונקציה הריבועית ..... (ללא ספר)
8. סרטוט של גרף הפונקציה הריבועית הכללית ..... (ללא ספר)
9. מציאת נקודות האפס של פונקציה ריבועית עם a כללי ..... (ללא ספר)
10. ייצוגים שונים של פונקציה ריבועית ..... (ללא ספר)
11. חיתוך בין ישר ופרבולה ..... (ללא ספר)
12. חיתוך בין שתי פרבולות ..... (ללא ספר)
13. שאלות מסכמות ..... (ללא ספר)

קורס השלמה במתמטיקה

פרק 4 - אי שוויונים אלגבריים

תוכן העניינים

1. אי שוויונים ממעלה ראשונה 69
2. אי שוויונים ממעלה שנייה 71
3. אי שוויונים ממעלה שלישית 72
4. אי שוויונים עם מנה 73
5. אי שוויונים כפולים מערכות וגם ואו 75
6. שאלות מסכמות 76
7. מציאת תחום הגדרה 78
8. אי שוויונים עם ערך מוחלט 80
9. אי שוויונים עם שורשים 83

אי-שוויונים ממעלה ראשונה:

סיכום כללי:

פעולות המותרות לביצוע בפתרון אי-שוויון:

- לחבר או לחסר כל מספר או ביטוי.
- לכפול או לחלק בכל מספר או ביטוי חיובי.
- לכפול או לחלק בכל מספר או ביטוי שלילי תוך הפיכת סימן אי-השוויון.
- להעלות בחזקה אי זוגית.
- להעלות בחזקה זוגית אם שני אגפי אי-השוויון אינם שליליים.

פעולות אסורות לביצוע בפתרון אי-שוויון:

- לכפול או לחלק בביטוי שלא יודעים את סימנו.
- להעלות בחזקה זוגית כשיש אגף שלילי.

שאלות:

פתור את אי-השוויונים הבאים:

1) $45x-26>109$

2) $6x>2(3x-1)$

3) $2(x-5)\geq\frac{1}{2}(4x+6)$

4) $(x-2)^2+4<(x+2)^2+20$

5) $\frac{8x-4}{2}<\frac{9(x+1)}{3}$

6) $4(6x-8)<8(3x-4)$

7) $\frac{x-6}{3}-\frac{x-4}{4}\geq 12-x$

8) $\frac{7-x}{10}-\frac{3x-1}{5}+\frac{x+4}{3}<7$

תשובות סופיות:

1) $x>3$

2) כל x

3) אף x

4) $x>-2$

5) $x<5$

6) אף x

7) $x\geq 12$

8) $x>-13$

אי-שוויונים ממעלה שנייה:

סיכום כללי:

אי שוויון ריבועי הוא מהצורה: $ax^2+bx+c \gtrless 0$ כאשר $a \neq 0$.

כדי לפתור אי שוויון ריבועי יש למצוא את נקודות האפס של הביטוי הריבועי ולאחר מכן למצוא את תחום ההצבה עבורו הביטוי מקיים את אי השוויון עצמו.

שאלות:

פתור את אי-השוויונים הבאים:

1) $x^2<144$

2) $x^2-12x>-32$

3) $(x+2)(x+5)<0$

4) $(x+2)(x+4)<35$

5) $-x^2+13x+30<0$

6) $(x-3)(x-7)\geq 8x-56$

7) $(x-5)^2+x(x+2)<89$

8) $(5x+6)^2\leq 4(x-3)^2$

9) $-3x^2+12x>0$

10) $x^2-10x+25>0$

11) $(x-3)^2>(x-1)(x+6)-x^2-3x$

12) $2x^2+2x+24\geq 0$

תשובות סופיות:

1) $-12<x<12$

2) $x<4\ ,\ x>8$

3) $-5<x<-2$

4) $-9<x<3$

5) $x<-2\ ,\ x>15$

6) $x\leq 7\ ,\ x\geq 11$

7) $-4<x<8$

8) $-4\leq x\leq 0$

9) $0<x<4$

10) $x>5\ ,\ x<5$

11) $x<3\ ,\ x>5$

12) כל x

אי-שוויונים ממעלה שלישית:

סיכום כללי:

אי שוויונים ממעלה גבוהה מיוחסים לכאלה שניתן לכתוב אותם בצורה של פולינומים, כגון: $x^3-4x^2+4x+1>0$, $x^4+2x^2+1<0$ וכו'.

בפועל נפתור אותם ע"י פירוק לגורמים ומציאת נקודות האפס של כל גורם.

לאחר מכן נבדוק את כל אחד מתחומי המספרים המתקבלים עבור הנעלם ונראה באלו מהם מתקבל פסוק אמת.

שאלות:

פתור את אי-השוויונים הבאים:

1) $(x-1)(x-2)(x-3)>0$

2) $x(x^2+x+1)>0$

3) $(-2x^2-3x+2)(x+1)\le 0$

4) $x^3-25x\ge 0$

5) $(x^2+3x+5)(x-2)>0$

6) $(x^2+8x+20)(3x-5)\le 0$

7) $(x^2-x-6)(x-1)<0$

8) $x^3-6x^2+9x\le 0$

9) $(x^2+6)(x+3)>0$

10) $(x-2)(x-4)(x-1)<0$

תשובות סופיות:

1) $1<x<2\ ,\ x>3$

2) $x>0$

3) $-2\le x\le -1\ ,\ x\ge \frac{1}{2}$

4) $-5\le x\le 0\ ,\ x\ge 5$

5) $x>2$

6) $x\le 1\frac{2}{3}$

7) $x<-2\ ,\ 1<x<3$

8) $x\le 0\ ,\ x=3$

9) $x>-3$

10) $x<1\ ,\ 2<x<4$

אי-שוויונים עם מנה:

סיכום כללי:

אי שוויון מהצורה: $\frac{f(x)}{g(x)}>0$ (או $\frac{f(x)}{g(x)}<0$) נקרא אי-שוויון עם מנה, בו $f(x)$ ו-$g(x)$ הם פולינומים כלשהם.

למשל: $\frac{2x+4}{x^2-3x+4}<0$ בו: $f(x)=2x+4$ ו-$g(x)=x^2-3x+4$.

כדי לפתור אי שוויון עם מנה נמצא את נקודות האפס של $f(x)$ ושל $g(x)$ ונציב מספרים בתחומים המתקבלים. אלו שיתנו פסוק אמת יהוו את פתרון אי השוויון.

הערות:

- ניתן לבצע כפל של המכנה בריבוע בכדי להעביר את אי השוויון לצורה של מכפלות.
- ניתן להעביר אי שוויון המכיל מספר מנות ומספרים שלמים לצורה הנ"ל ע"י פעולות אלגבריות מתאימות תחילה.

שאלות:

פתור את אי-השוויונים הבאים:

1) $\frac{x-1}{x^2-9}>0$

2) $\frac{x-1}{3x+2}\geq -3$

3) $\frac{1}{x^2-16}>0$

4) $\frac{x-3}{2x^2-10x+12}>0$

5) $\frac{2x-1}{x-5}\leq 0$

6) $\frac{1}{-3(x-1)}<0$

7) $\frac{x-1}{x+2}\leq 1$

8) $\frac{1}{x^2-5x+6}<0$

9) $\frac{x^2-7x+6}{-x^2+3x-7}\geq 0$

10) $\frac{1}{x^2-8x+12}\geq 0$

תשובות סופיות:

1) $-3<x<1\,,\,x>3$

2) $x<-\frac{2}{3}\,,\,x\geq-\frac{1}{2}$

3) $x<-4\,,\,x>4$

4) $2<x<3\,,\,x>3$

5) $\frac{1}{2}\leq x<5$

6) $x>1$

7) $x>-2$

8) $2<x<3$

9) $1\leq x\leq 6$

10) $x<2\,,\,x>6$

אי-שוויונים כפולים - מערכת וגם:

סיכום כללי:

אי-שוויון כפול הוא צורה מקוצרת להציג שני אי-שיווינים אשר יש לפתור יחד (קרי: כמערכת 'וגם'). למשל במקום לכתוב: $a<b$ וגם $b<c$, ניתן לכתוב: $a<b<c$.

מכאן כי כדי לפתור אי שוויון כפול יש לפצל אותו תחילה לשני אי-שיווינים ולפתור כל אחד בנפרד. לאחר מכן יש לקחת את חיתוך הפתרונות.

שאלות:

פתור את אי-השוויונים הבאים:

1) $3<x+1<5$

2) $0<\frac{1}{x+4}<2$

3) $-1<\frac{x-1}{x+1}<1$

4) $0<\frac{8-3x}{5-2x}<4$

5) $6x-38\le x-3\le 5x+7$

6) $6<\frac{2x+10}{3}\le\frac{7x-20}{5}$

7) $-1\le\frac{2x-6}{4}<\frac{x+2}{3}$

8) $\frac{4x+5}{15}>\frac{3x-8}{5}+\frac{9-x}{3}>11$

תשובות סופיות:

1) $2<x<4$

2) $x>-3\frac{1}{2}$

3) $x>0$

4) $x<2\frac{2}{5}\ ,\ x>2\frac{2}{3}$

5) $-2.5\le x\le 7$

6) $x\ge 10$

7) $1\le x<13$

8) ϕ

שאלות מסכמות – אי-שוויונים:

שאלות:

פתור את אי-השוויונים הבאים:

1) $x \le -\frac{3}{4} \cap \{-2 < x \le 5 \cup 0 < x < 8\}$

2) $x(x+5)-3x+15 \le 2x-1-x(4-x)$

3) $\frac{(x-3)(x+4)}{2-x} \le 0$

4) $\frac{(x-5)(3x+1)}{(2-x)(x+7)} < 0$

5) $\frac{(2x-3)(x-12)}{(x+1)(4-x)} \ge 0$

6) $x(x+3)(2x-5) < 0$

7) $\frac{(x-6)^2(x+1)}{x-2} > 0$

8) $\frac{5-2x}{(x-8)^2} \le 0$

9) $\frac{x-3}{x^2+2} > 0$

10) $\frac{x^2-4x}{x^2+2x-3} > 0$

11) $\frac{x^2-6x+9}{x^3-x} > 0$

12) $\frac{x-7}{x^2+x+3} > 0$

13) $\frac{x}{x^2-4} + \frac{1}{x+2} < \frac{1}{x-2}$

14) $\frac{2x^2}{x^2-6x+8} \ge \frac{x}{x-4} - \frac{x}{x-2}$

15) $6 < 5x - x^2 \cap x^2 > 3x+10$

16) $\frac{3}{x-1} - \frac{2}{x} > 0 \cup \frac{1}{x-3} < \frac{1}{1-x}$

17) $1 < \frac{x-1}{x-4} \le 2$

18) לאלו ערכי x נמצאת הפונקציה $f(x) = \frac{x}{x-3}$ מעל הפונקציה: $g(x) = \frac{x+1}{x+3}$?

תשובות סופיות:

1) $-2 < x \le -\frac{3}{4}$

2) $x \le -4$

3) $-4 \le x < 2 \, , \, 3 \le x$

4) $x < -7 \, , \, -\frac{1}{3} < x < 2 \, , \, x > 5$

5) $-1 < x \le 1.5 \, , \, 4 < x \le 12$

6) $x < -3 \, , \, 0 < x < 2.5$

7) $x < -1 \, , \, 2 < x < 6 \, , \, x > 6$

8) $2.5 \le x < 8 \, , \, x > 8$

9) $x > 3$

10) $x < -3 \, , \, 0 < x < 1 \, , \, x > 4$

11) $-1 < x < 0 \, , \, 1 < x < 3 \, , \, x > 3$

12) $x > 7$

13) $x < -2 \, , \, 2 < x < 4$

14) $x \le 0 \, , \, 1 \le x < 2 \, , \, x > 4$

15) אף x

16) $x \ne 1$

17) $x \ge 7$

18) $-3 < x < -\frac{3}{5} \, , \, x > 3$

תחום הגדרה:

שאלות:

1) מצא את תחום ההגדרה של הפונקציות הבאות:

א. $f(x)=\sqrt{3x-4}$

ב. $f(x)=\sqrt{x^2-5x-6}$

ג. $f(x)=\sqrt{12x-x^2-x^3}$

ד. $f(x)=\sqrt{\frac{x+5}{x^2-4}}$

ה. $f(x)=\frac{1}{\sqrt{x+2}-x}$

ו. $f(x)=\frac{\sqrt{3x^2-2x-1}}{2x-3}$

2) מצא את תחום ההגדרה של הפונקציות הבאות:

א. $f(x)=\sqrt{\sqrt{x+2}-3}$

ב. $f(x)=\frac{1}{x+\sqrt{x+6}}$

ג. $f(x)=\sqrt{\frac{2x^2+x-3}{x^2+5x+9}}$

ד. $f(x)=\frac{\sqrt{x^2+5x+6}}{x-1}$

3) תחום ההגדרה של הפונקציה: $f(x)=\sqrt{ax-x^2-4}$ הוא $1\le x\le 4$.
מצא את ערכו של הפרמטר a.

4) תחום ההגדרה של הפונקציה: $f(x)=\sqrt{\frac{x+a}{x-a}}$ הוא $x\le -2\ ,\ x>2$.
מצא את ערכו של הפרמטר a.

5) נתונה הפונקציה: $f(x)=\sqrt{\sqrt{x+6}-a}$, (a פרמטר חיובי).

א. הבע באמצעות a את תחום הגדרתה.

ב. מגדירים פונקציה נוספת: $g(x)=\sqrt{\frac{2x}{x+5}}$.
ידוע כי תחום ההגדרה של שתי הפונקציות מכסה את כל ציר המספרים.
מצא את תחום הערכים האפשרי של הפרמטר a.

תשובות סופיות:

1) א. $x \geq 1\frac{1}{3}$ ב. $x \leq -1 , x \geq 6$ ג. $x \leq -4 , 0 \leq x \leq 3$

ד. $-5 \leq x < -2 , x > 2$ ה. $-2 \leq x < 2 , x > 2$ ו. $x \leq -\frac{1}{3} , 1 \leq x < \frac{3}{2} , x > \frac{3}{2}$

2) א. $x \geq 7$ ב. $-6 \leq x \neq -2$ ג. $x \leq -1\frac{1}{2} , x \geq 1$

ד. $x \leq -3 , -2 \leq x \neq 1$.

3) $a = 5$.

4) $a = 2$.

5) א. $x \geq a^2 - 6$ ב. $0 < a \leq 1$.

אי שוויונים עם ערך מוחלט:

סיכום כללי:

כללים לפתרון אי שוויון עם ערך מוחלט יחיד:

מקרה	$\lvert x\rvert < a$	$\lvert x\rvert > a$
פתרון	$-a < x < a$	$x < -a \cap x > a$

כללים לפתרון אי שוויון עם מספר ערכים מוחלטים:

- נמצא את הנקודות המאפסות כל ביטוי עם ערך מוחלט.
- מחלקים את אי השוויון לתחומים לפי נקודות האפס.
- פותרים את אי השוויון לכל תחום בנפרד.
- כותבים פתרון כללי (מערכת או) לכל התחומים יחדיו.

שאלות:

1) פתור את אי-השוויונים הבאים:

א. $\lvert x+2\rvert < 3$

ב. $\lvert 2x+1\rvert > 7$

ג. $\lvert 6-2x\rvert < x$

ד. $\lvert 2x+1\rvert - 3x > 4$

2) פתור את אי-השוויונים הבאים:

א. $1 < \lvert 4-3x\rvert < 7$

ב. $\lvert 2x+3\rvert < 8 < \lvert 5-x\rvert$

3) פתור את אי-השוויונים הבאים:

א. $\lvert x^2+6x-4\rvert < 12$

ב. $\lvert x^2+x-10\rvert > 3x-2$

ג. $\lvert x^2-3x\rvert < 4$

ד. $\lvert 6x^2-7x-4\rvert > 1$

ה. $x^2-6\lvert x\rvert+5 \le 0$

ו. $x^2-6\lvert x+1\rvert-1 > 0$

4) פתור את אי-השוויונים הבאים:

א. $|x-3|+|2x+2|>7$

ב. $|x+8|<11-|1-3x|$

ג. $|3-2x|-11>4-|6+x|$

ד. $|2x-6|+|x+5|>14-|1-x|$

ה. $|5+4x|-|3-x|+\left|4-\frac{1}{2}x\right|\le 22$

ו. $|x+3|+|x^2-5x+4|<19$

5) פתור את אי-השוויונים הבאים:

א. $\left|\frac{3x-1}{x-2}\right|\ge 3$

ב. $1\le\left|\frac{x+2}{x-2}\right|\le 2$

ג. $\frac{|x-6|+8x}{x-12}\le 12$

ד. $\left|\frac{x^2+3x+2}{x^2-3x+2}\right|>5$

6) פתור את אי-השוויונים הבאים (ערך מוחלט ושורשים):

א. $\sqrt{x^2-|x-12|}<x$

ב. $2-\sqrt{1-x}\le|x+2|-3$

ג. $\sqrt{|2x+1|-x-1}\le 4-|3x|$

ד. $\frac{|x+2|-|x|}{\sqrt{4-x^3}}>0$

תשובות סופיות:

1) א. $-5<x<1$ ב. $3<x$ או $x<-4$

ג. $2<x<6$ ד. $x<-1$.

2) א. $1\frac{2}{3}<x<3\frac{2}{3}$ או $-1<x<1$ ב. $-5\frac{1}{2}<x<-3$

3) א. $-2<x<2$ או $-8<x<-4$ ב. $4<x$ או $x<2$

ג. $-1<x<4$ ד. $x<-\frac{1}{2}\ ,\ -\frac{1}{3}<x<\frac{3}{2}\ ,\ x>\frac{5}{3}$

ה. $1\le x\le 5$ או $-5\le x\le -1$ ו. $x<-5\ ,\ x>7$

4) א. $2<x$ או $x<-2$ ב. $-1<x<1$

ג. $4<x$ או $x<-6$ ד. $4<x$ או $x<-1$

ה. $-7\frac{3}{7}\le x\le 4$ ו. $-2<x<6$.

5) א. $\frac{7}{6}\le x<2\ ,\ x>2$ ב. $0\le x\le\frac{2}{3}\ ,\ x\ge 6$

ג. $x<12\ ,\ x\ge 46$ ד. $\frac{1}{2}<x<1\ ,\ 1<x<2\ ,\ 2<x\le 4$

6) א. $x=-1\ ,\ x\ge 3\ ,\ x\ne 12$ ב. $x\le\frac{-15+\sqrt{33}}{2}$

ג. $0\le x\le 1\ ,\ -1\le x\le -\frac{2}{3}$ ד. $-1<x<\sqrt[3]{4}$

אי שוויונים עם שורשים:

סיכום כללי:

מקרים בפתרון אי-שוויונות עם שורשים:

מקרה	אי השוויון	פתרון
$a \geq 0$	$\sqrt{f(x)} < a$	$0 \leq f(x) < a^2$
$a < 0$	$\sqrt{f(x)} < a$	אין פתרון
	$\sqrt{f(x)} > a$	כל x בת.ה. של $f(x)$

שאלות:

פתור את אי השוויונים הבאים:

1) $\sqrt{x+3} < 7$

2) $\sqrt{2x-5} \geq 1$

3) $\sqrt{2x^2+5x-6} > 2-x$

4) $\sqrt{x^2+x-6} < x-3$

5) $\sqrt{x^2+3x+2} - 1 < \sqrt{x^2-x+1}$

6) $\sqrt{x^2+5x+6} - \sqrt{x^2-x+1} < 1$

7) $\frac{1-\sqrt{1-4x^2}}{x} > \frac{3}{2}$

8) $\frac{4}{\sqrt{2-x}} - \sqrt{2-x} < 2$

9) $\sqrt{\frac{1}{x^2} - \frac{3}{4}} < \frac{1}{x} - \frac{1}{2}$

10) $\sqrt{2-\sqrt{3+x}} < \sqrt{4+x}$

11) $\sqrt{x+6} > \sqrt{x+1} + \sqrt{2x-5}$

12) $\sqrt{1+\frac{9}{x}} + 5\sqrt{\frac{x}{x+9}} \geq 4$

תשובות סופיות:

1) $-3 \le x < 46$.

2) $x \ge 3$.

3) $x < -10$, $x > 1$.

4) $\varnothing$.

5) $-1 \le x < \frac{-1+\sqrt{13}}{6}$, $x \le -2$.

6) $-2 \le x < \frac{-13+\sqrt{73}}{16}$, $x \le -3$.

7) $\frac{12}{25} < x \le \frac{1}{2}$.

8) $x < 2\sqrt{5} - 4$.

9) $1 < x \le \frac{2}{\sqrt{3}}$.

10) $-\frac{3+\sqrt{5}}{2} < x \le 1$ שזה: $-2.618 < x \le 1$.

11) $2.5 \le x < 3$.

12) $x < -9$, $x > 0$.

קורס השלמה במתמטיקה

פרק 5 - סדרות

תוכן העניינים

1. הקדמה כללית ..... (ללא ספר)
2. סדרה חשבונית 85
3. סדרה הנדסית 92
4. סדרות מעורבות 97
5. סדרה הנדסית אינסופית מתכנסת 99

סדרה חשבונית:

סיכום כללי:

- **נוסחת האיבר הכללי:**

נוסחת האיבר הכללי של סדרה חשבונית המתחילה באיבר a_1 והפרשה הוא d

נתונה ע"י: $a_n = a_1 + d(n-1)$, כאשר: n הוא מיקום האיבר שערכו a_n בסדרה.

- **כלל נסיגה של סדרה חשבונית:**

כלל נסיגה של סדרה חשבונית a_n שהפרשה הוא d ואיברה הראשון הוא a_1

נתון ע"י: $a_{n+1} - a_n = d$.

- **נוסחת הסכום של סדרה חשבונית:**

סכום n האיברים הראשונים של סדרה חשבונית a_n שהפרשה הוא d ואיברה הראשון הוא a_1 נתון ע"י: $S_n = \frac{n(a_1 + a_n)}{2}$.

בהצבת נוסחת האיבר הכללי מקבלים: $S_n = \frac{n(2a_1 + d(n-1))}{2}$.

שאלות:

1) נתונה הסדרה החשבונית: $17, 11, 5, -1, -7...$.
מצא את האיבר האחרון בסדרה אם ידוע שיש בה 43 איברים.

2) בסדרה חשבונית האיבר השישי הוא 15 והאיבר העשירי הוא 31.
מצא מהו האיבר הראשון בסדרה ומהו הפרש הסדרה.

3) מצא כמה איברים יש בסדרה החשבונית: $2, 4.5, 7, 9.5, 12, 14.5, ..., 49.5$.

4) בסדרה חשבונית סכום האיברים השני, החמישי והשמיני הוא 87 וההפרש בין האיבר השנים-עשר לאיבר השישי הוא 24.
מצא כמה איברים בסדרה אם ידוע שהאיבר האחרון בה הוא 201.

5) תחביב אחה"צ של שימי הפרעוש הוא לקפוץ על טומי הכלב. מנהגו של שימי הוא לקפוץ בדקה הראשונה 4 קפיצות ובכל דקה שאחריה לקפוץ 3 קפיצות יותר מדקה הקודמת. כמה דקות אורך תחביב אחה"צ של שימי אם ידוע שבדקה האחרונה הוא קופץ 46 קפיצות?

6) כמה מספרים תלת ספרתיים שמתחלקים ב-6 יש בין 201 ל-550?

7) כמה איברים חיוביים ישנם בסדרה החשבונית: $91, 88, 85, 82, \ldots$.

8) מצא את ערכו של x אם ידוע שהאיברים הבאים הם איברים עוקבים בסדרה חשבונית: $x-3, 3x-4, x^2-1$.

9) נתונה סדרה המוגדרת באמצעות כלל הנסיגה הבא: $\begin{cases} a_{n+1} = a_n + 3 \\ a_1 = 5 \end{cases}$.
הוכח שהסדרה חשבונית ומצא מהו האיבר התשעה-עשר שלה.

10) בסדרה חשבונית $a_1, a_2, a_3, \ldots, a_n$ ידוע כי סכום ארבעת האיברים הראשונים וסכום האיברים ה-6 עד ה-9 הם מספרים נגדיים.

א. הוכח: $a_5 = 0$.

ב. נתון: $a_3 - a_{11} = 24$. מצא את a_1 ואת d.

ג. מגדירים סדרה חשבונית חדשה b_n המקיימת: $b_n = 2a_n - 3$.
מצא את ערך האיבר השלילי הראשון בסדרה ואת מיקומו הסידורי.

11) מצא את סכום ארבעה-עשר האיברים הראשונים בסדרה החשבונית: $-3, 2, 7, 12, \ldots$.

12) נתונה הסדרה החשבונית: $-13, -7, -1, 5, \ldots$.
כמה איברים יש לחבר בסדרה (החל מהראשון) כדי להגיע לסכום של 987?

13) תחביב אחה"צ של מימי הפרעושה הוא לקפוץ על טומי הכלב. מנהגה של מימי הוא לקפוץ בדקה הראשונה 11 קפיצות ובכל דקה שאחריה לקפוץ 2 קפיצות יותר מדקה הקודמת. כמה דקות אורך תחביב אחה"צ של מימי אם ידוע שבכל אחה"צ היא קפצה 416 קפיצות?

14) נתונה הסדרה החשבונית: $-71, -67, -63, \ldots$.
כמה איברים לכל הפחות יש לחבר בסדרה כדי שהסכום המתקבל יהיה חיובי?

15) נתונה הסדרה החשבונית: $4, 13, 22, 31, \ldots$.
בסדרה יש 36 איברים. חשב את סכום ארבעה-עשר האיברים האחרונים בסדרה.

16) נתונה הסדרה החשבונית: $4, 9, 14, 19, \ldots, 599$.
מחקו כל איבר שלישי בסדרה. מצא את סכום האיברים שנותרו.

17) סכום n האיברים האחרונים בסדרה חשבונית בת $3n$ איברים גדול ב- 1024 מסכום n האיברים הראשונים שבה.

א. בטא את n באמצעות הפרש הסדרה, d.

ב. נתון כי הפרש הסדרה הוא 8. כמה איברים בסדרה?

18) נתונה סדרה שבה $S_n = 2n^2 + 4n$.

א. מצא את ערכם של שלושת האיברים הראשונים בסדרה.

ב. הוכח כי הסדרה חשבונית ומצא את הפרשה.

19) בסדרה חשבונית ידוע כי סכום האיברים העומדים במקומות ה-5 , ה-7 וה- 16 הוא אפס. כמו כן ידוע כי סכום שלושת האיברים הראשונים הוא 132.

א. מצא את האיבר הראשון בסדרה ואת הפרש הסדרה.

ב. מצא את האיבר השלילי הראשון בסדרה.

ג. מצא כמה איברים יש לחבר (החל מהאיבר הראשון) כדי לקבל סכום 210.

20) נתונים שני טורים חשבוניים: $\begin{cases} 150, 144, 138, \ldots \\ 90, 93, 96, \ldots \end{cases}$.

לשני הטורים אותו מספר איברים. ידוע כי סכום האיברים האחרונים של שני הטורים (האיבר האחרון מהטור הראשון והאיבר אחרון מהטור השני) הוא אפס.

א. מצא את מספר האיברים שבכל טור.

ב. מחברים את n האיברים הראשונים מהטור הראשון יחד עם n האיברים הראשונים מהטור השני. ידוע כי חיבור הסכומים הוא 3480.
מצא את n אם ידוע שהוא קטן מ-20.

21) נתונות שתי סדרות החשבוניות הבאות: a_n שהפרשה הוא d_1 ו- b_n שהפרשה הוא d_2. ידוע כי: $d_1 = -2d_2$.
סכום 50 האיברים הראשונים של שתי הסדרות שווה והאיבר העומד במקום ה-20 בסדרה a_n גדול ב-1 מהאיבר העומד במקום ה-37 בסדרה b_n.

א. מצא את הפרש הסדרה a_n - d_1.

ב. ידוע כי האיבר a_{10} קטן ב-1 מ-5 פעמים האיבר b_{50}.
מצא את a_1 ואת b_1.

22) נתונה הסדרה החשבונית: $-21, -17, -13, \ldots$.
בסדרה יש 18 איברים. חשב את סכום האיברים הנמצאים במקומות האי-זוגיים ואת סכום האיברים הנמצאים במקומות הזוגיים.

23) בסדרה חשבונית שהפרשה d ובה $2n$ איברים סכום האיברים במקומות האי-זוגיים הוא 552 וסכום האיברים במקומות הזוגיים הוא 612.
הוכח כי $nd = 60$.

24) בסדרה חשבונית עולה, שכל איבריה חיוביים ובה מספר אי-זוגי של איברים, גדול סכום כל איברי הסדרה פי $1\frac{14}{15}$ מסכום איברי הסדרה הנמצאים במקומות האי-זוגיים. כמה איברים יש בסדרה?

25) לפניך שלושה איברים סמוכים בסדרה חשבונית: $x-5$, $x-16$, $2x+23$.

א. ענה על הסעיפים הבאים:

i. מצא את x.

ii. מצא את הפרש הסדרה.

ב. ידוע כי: $a_{12}=0$. מצא את a_1.

ג. האיבר האחרון בסדרה הוא: $a_n=308$.

מצא את סכום כל האיברים החיוביים העומדים במקומות האי-זוגיים.

26) בסדרה חשבונית שבה מספר זוגי של איברים נתון כי סכום ריבועי האיברים העומדים במקומות ה-4 וה-5 שווה לריבוע האיבר העומד במקום ה-6.
האיבר הראשון אינו אפס.

א. הוכח את הטענות הבאות:

i. $a_1=-4d$.

ii. $S_9=0$.

ב. האיבר העומד במקום ה-6 גדול ב-2 מהאיבר העומד במקום ה-5.
מצא את a_1 ואת d.

ג. מצא את מספר איברי הסדרה אם ידוע כי סכום האיברים העומדים במקומות הזוגיים הוא 504.

27) בסדרה חשבונית שבה $2n$ איברים ידוע כי סכום כל האיברים גדול ב-66 מפעמיים סכום האיברים העומדים במקומות האי-זוגיים.

א. הוכח כי $nd=66$.

ב. ידוע כי הפרש הסדרה הוא 3. הבע באמצעות a_1 את סכום n האיברים הראשונים.

ג. סכום n האיברים הראשונים הוא 187. מצא את האיבר החיובי הקטן ביותר בסדרה ואת מיקומו הסידורי בסדרה.

28) אדם המעוניין לקנות רכב קיבל שתי הצעות מחיר.
ההצעה הראשונה:
לשלם בתשלום הראשון 1000 ₪ ובכל תשלום שאחריו סכום הגדול ב-500 ₪ מהתשלום הקודם.
ההצעה השנייה:
לשלם בתשלום הראשון 7200 ₪ ובכל תשלום שאחריו סכום הקטן ב-450 ₪ מהתשלום הקודם.
ידוע כי מספר התשלומים בהצעה השנייה קטן ב-4 ממספר התשלומים שבהצעה הראשונה.

א. כמה תשלומים יצטרך לשלם לפי כל הצעה.

ב. מה מחיר הרכב?

תשובות סופיות:

1) $a_{43}=-235$.
2) $d=4\,,\,a_1=-5$.
3) 20 איברים.
4) 48 איברים.
5) 15 קפיצות.
6) 58 מספרים.
7) 31 איברים חיוביים.
8) $x=4\,,\,x=1$.
9) $a_{19}=59$.
10) א. הוכחה. ב. $a_1=12\,,\,d=-3$ ג. $b_5=-3$.
11) $S_{14}=413$.
12) 21 איברים.
13) 16 דקות.
14) 37 איברים.
15) 3647.
16) 23920.
17) א. $n=\sqrt{\frac{512}{d}}$ ב. 24 איברים.
18) א. $a_1=6\,,\,a_2=10\,,\,a_3=14$ ב. $d=4$.
19) א. $a_1=50\,,\,d=-6$ ב. $a_{10}=-4$ ג. $n=6$.
20) א. $n=81$ ב. $n=16$.
21) א. $d_1=4$ ב. $a_1=-52\,,\,b_1=95$.
22) אי-זוגיים: $S=99$ זוגיים: $S=135$.
23) שאלת הוכחה.
24) 29 איברים.
25) א. i. $x=-50$ ii. $d=11$ ב. $a_1=-121$ ג. $S=2156$.
26) א. הוכחה. ב. $a_1=-8\,,\,d=2$ ג. $n=36$.
27) א. הוכחה. ב. $S=22a_1+693$ ג. $a_9=1$.
28) א. 12 לפי ההצעה הראשונה ו-8 לפי ההצעה השנייה. ב. 45000 ₪.

סדרה הנדסית:

סיכום כללי:

- **נוסחת האיבר הכללי:**

נוסחת האיבר הכללי של סדרה הנדסית המתחילה באיבר a_1 ומנתה היא q
נתונה ע"י הנוסחה: $a_n = a_1 q^{n-1}$, כאשר: n הוא מיקום האיבר שערכו a_n בסדרה.

- **כלל נסיגה של סדרה הנדסית:**

כלל נסיגה של סדרה הנדסית a_n שמנתה היא q ואיברה הראשון הוא a_1
נתון ע"י הקשר הבא: $a_{n+1} = a_n \cdot q$.

- **נוסחת הסכום של סדרה הנדסית:**

סכום n האיברים הראשונים של סדרה הנדסית a_n שמנתה היא q ואיברה הראשון הוא a_1 נתון ע"י: $S_n = \frac{a_1\left(q^n - 1\right)}{q-1}$.

שאלות:

1) נתונה הסדרה ההנדסית: $\frac{1}{9}, \frac{1}{3}, 1, 3, \ldots$.
מצא את האיבר האחרון בסדרה אם ידוע שיש בה 9 איברים.

2) מצא כמה איברים יש בסדרה ההנדסית: $\frac{9}{64}, \frac{3}{16}, \frac{1}{4}, \ldots, \frac{64}{81}$.

3) בסדרה הנדסית האיבר השישי הוא 8 והאיבר העשירי הוא 128.
מצא מהו האיבר הראשון בסדרה ומהי מנת הסדרה.

4) בסדרה הנדסית ההפרש בין האיבר השביעי לאיבר החמישי הוא 432 וההפרש בין האיבר החמישי לשלישי הוא 48. מצא מהו האיבר הראשון בסדרה ומהי מנת הסדרה.

5) בסדרה הנדסית עולה ההפרש בין האיבר השמיני לאיבר הרביעי הוא 3120 וסכום האיברים השני והרביעי הוא 5.2.
מצא מהו האיבר הראשון בסדרה ומהי מנת הסדרה.

6) תחביב אחה"צ של שימי הפרעוש הוא לקפוץ על טומי הכלב. מנהגו של שימי הוא לקפוץ בדקה הראשונה 4 קפיצות ובכל דקה שאחריה לקפוץ פי 3 קפיצות מדקה הקודמת. כמה דקות אורך תחביב אחה"צ של שימי אם ידוע שבדקה האחרונה הוא קופץ 324 קפיצות?

7) מצא את ערכו של x אם ידוע שהאיברים הבאים הם איברים עוקבים בסדרה הנדסית: $x-6,\ x+4,\ 4x+1$. מצא גם את מנת הסדרה.

8) נתונה סדרה המוגדרת באמצעות כלל הנסיגה הבא: $\begin{cases} a_{n+1}=2a_n \\ a_1=3 \end{cases}$.
הוכח שהסדרה הנדסית ומצא מהו האיבר השמיני בה.

9) מצא את סכום תשעת האיברים הראשונים בסדרה ההנדסית: $5, 10, 20, 40, \ldots$.

10) תחביב אחה"צ של מימי הפרעושה הוא לקפוץ על טומי הכלב. מנהגה של מימי הוא לקפוץ בדקה הראשונה 2 קפיצות ובכל דקה שאחריה לקפוץ פי 5 קפיצות מדקה הקודמת. כמה דקות אורך תחביב אחה"צ של מימי אם ידוע שבכל אחה"צ היא קפצה 1562 קפיצות?

11) סכום n האיברים האחרונים בסדרה הנדסית בת $3n$ איברים שמנתה 2, גדול פי 256 מסכום n האיברים הראשונים בה. כמה איברים בסדרה?

12) בסדרה הנדסית עולה שבה n איברים, סכום $n-3$ האיברים האחרונים גדול פי 8 מסכום $n-3$ האיברים הראשונים בה. מצא את מנת הסדרה.

13) סכום כל האיברים בסדרה הנדסית הוא 252. האיבר האחרון בסדרה גדול ב- 120 מהאיבר השני בה. מצא כמה איברים יש בסדרה אם ידוע שמנתה 2.

14) המספרים: $x-13\ ,\ x-9\ ,\ 2x-3$ הם שלושת האיברים הראשונים בסדרה הנדסית עולה שכל איבריה חיוביים.

א. מצא את x.

ב. ענה על הסעיפים הבאים:

i. כתוב את נוסחת האיבר הכללי בסדרה זו.

ii. מצא שני איברים סמוכים בסדרה שסכומם הוא 18750.

ג. ידוע כי האיבר האחרון בסדרה הוא: $a_n = 5^{11}$.
מצא את סכום 7 האיברים האחרונים בסדרה.

15) נתונה הסדרה ההנדסית הבאה: $4\ ,\ 12\ ,\ 36\ ,\ldots,\ a_{n+1}$. מוסיפים לכל איבר בסדרה זו שישית מהאיבר הבא אחריו ויוצרים סדרה חדשה b_n באופן הבא:

$$b_1 = a_1 + \frac{a_2}{6}\ ,\ b_2 = a_2 + \frac{a_3}{6}\ ,\ b_3 = a_3 + \frac{a_4}{6}\ ,\ \ldots\ldots\ ,\ b_n = a_n + \frac{a_{n+1}}{6}.$$

א. הוכח כי הסדרה b_n היא סדרה הנדסית ומצא את מנתה.

ב. הראה כי היחס בין סכום n האיברים הראשונים של הסדרה a_n ובין סכום n האיברים הראשונים של הסדרה b_n הוא $\frac{2}{3}$.

ג. מצא שני איברים סמוכים בסדרה b_n שסכומם מהווה $\frac{2}{9}$ מ- a_8.

16) נתונה הסדרה ההנדסית: $7, 14, 28, \ldots$.
בסדרה יש 8 איברים. חשב את סכום האיברים הנמצאים במקומות האי-זוגיים ואת סכום האיברים הנמצאים במקומות הזוגיים.

17) בסדרה הנדסית ובה $2n$ איברים סכום האיברים במקומות הזוגיים גדול פי 4 מסכום האיברים במקומות האי-זוגיים. חשב את מנת הסדרה.

18) נתונה סדרה הנדסית שמנתה q ובה מספר זוגי של איברים.
בטא באמצעות q את היחס בין סכום איברי הסדרה כולה לסכום האיברים הנמצאים במקומות הזוגיים שבה.

19) בסדרה הנדסית שבה $2n+1$ איברים, סכום n האיברים הראשונים קטן פי 9 מסכום n האיברים הבאים אחריהם. האיבר האחרון בסדרה גדול ב-30 מהאיבר הראשון שבה. מצא את האיבר הראשון בסדרה.

20) ענה על הסעיפים הבאים:

א. הראה כי בסדרה הנדסית שבה $2n$ איברים היחס בין סכום האיברים העומדים במקומות האי-זוגיים לבין סכום כל איברי הסדרה תלוי במנת בסדרה.

בסדרה הנדסית שבה מספר זוגי של איברים ידוע כי סכום כל האיברים העומדים במקומות האי-זוגיים קטן פי 4 מסכום כל איברי הסדרה. האיבר הראשון בסדרה זו קטן ב-2 ממנת הסדרה.

ב. כתוב נוסחה לאיבר כללי של סדרה זו.

ג. מצא שני איברים סמוכים בסדרה שסכומם הוא 324.

21) בסדרה הנדסית שבה 12 איברים סכום כל איברי הסדרה גדול פי 3 מסכום האיברים כאשר מחליפים את סימני כל האיברים העומדים במקומות האי-זוגיים.

א. מצא את מנת הסדרה.

ב. ידוע כי ההפרש בין האיבר החמישי לאיבר הרביעי בסדרה הוא 8. מצא את האיבר הראשון בסדרה.

ג. חשב את סכום כל האיברים העומדים במקומות הזוגיים בסדרה.

22) באחת ממדינות המזרח היה מלך שאהב משחקי חשיבה. לכבוד יום הולדתו הכין לו השר הבכיר שבממלכתו משחק מיוחד המכיל 25 משבצות ו-2 חיילי משחק. המלך, מרוב התלהבות ושמחה לא ידע כיצד לגמול לשר החכם ושאל אותו מה ירצה בתמורה. השר סרב לקבל דבר על מתנתו עד שלבסוף החליט המלך לתת לשר מחצית מכל אוצרות הממלכה המונים כ-40 מיליון אבנים יקרות. לאחר ששמע על כך השר, הוא החליט לאתגר את המלך והעלה את ההצעה הבאה:

תן לי אבן יקרה אחת והכפל אותה בכל משבצת שבמשבצות המשחק באופן הבא: כנגד המשבצת הראשונה - אבן אחת,
כנגד השנייה - שתי אבנים,
כנגד השלישית - ארבע אבנים וכן הלאה...
המלך הסכים להצעה.

א. כמה אבנים המלך ייתן לשר כנגד המשבצת האחרונה במשחק?

ב. העזר בכמות האבנים שברשותו של השר וקבע האם הצעתו שוות-ערך יותר מהחלטת המלך לתת לו מחצית מאוצרות הממלכה.

ג. סמוך לפני שנתן המלך את האבנים לשר, הציעה בתו של המלך הצעה נוספת והיא: תן עבור כל משבצת זוגית 2^n אבנים, כאשר n הוא מספר המשבצת. האם כדאי למלך לקבל את הצעת בתו או להישאר עם ההצעה המקורית של השר?

תשובות סופיות:

1) $a_9 = 729$.

2) $n = 7$.

3) $a_1 = \pm\frac{1}{4}, q = \pm 2$.

4) $a_1 = \frac{2}{3}, q = \pm 3$.

5) $a_1 = \frac{1}{25}, q = 5$.

6) 5 דקות.

7) $x = 11 \to q = 3$, $x = -\frac{2}{3} \to q = -\frac{1}{2}$.

8) $a_8 = 384$.

9) $S_9 = 2555$.

10) 5 דקות.

11) $n = 4$, יש 12 איברים בסדרה.

12) $q = 2$.

13) $n = 6$.

14) א. $x = 14$ ב.i. $a_n = 5^{n-1}$ ב.ii. a_6 , a_7 ג. $S_7^* = 61,034,375$.

15) א. $q = 3$. ג. b_5 , b_6

16) אי-זוגיים: $S = 595$, זוגיים: $S = 1190$.

17) $q = 4$.

18) $\frac{q+1}{q}$.

19) $a_1 = \frac{3}{8}$.

20) א. $\frac{S_{n(o)}}{S_{2n}} = \frac{1}{q+1}$ ב. $a_n = 3^{n-1}$ ג. a_5 , a_6.

21) א. $q = 2$ ב. $a_1 = 1$ ג. $S_{6(p)} = 2730$.

22) א. $a_{25} = 16,777,216$

ב. לפי הצעת השר יהיו לו 33,554,431 אבנים ולפי הצעת המלך יהיו לו 20,000,000 אבנים. ג. $4,16,64,...,2^{24}$, $S_n = 22,369,620$.

סדרות מעורבות:

שאלות:

1) נתונים שלושה איברים עוקבים בסדרה הנדסית שמנתה 3.
אם נכפול את המספר הראשון ב-3, נוסיף למספר השני 4 ונחסיר מהמספר השלישי 4 תתקבל סדרה חשבונית. מצא את המספרים.

2) נתונות שתי סדרות שמתחילות במספר 2 ובשתיהן 3 איברים.
סדרה אחת היא חשבונית והשנייה הנדסית. האיבר השלישי בשתי הסדרות זהה והאיבר השני בסדרה ההנדסית קטן ב-4 מהאיבר השני בסדרה החשבונית.
מצא את מנת הסדרה ההנדסית.

3) נתונים ארבעה מספרים בעלי התכונות הבאות:
הראשון, השני והרביעי מהווים שלושה איברים עוקבים בסדרה הנדסית שמנתה 2.
הראשון, השלישי והרביעי מהווים שלושה איברים עוקבים בסדרה חשבונית
וסכומם $22\frac{1}{2}$. מצא את ארבעת המספרים.

4) ההפרש של סדרה חשבונית שווה למנה של סדרה הנדסית עולה.
האיבר הראשון בסדרה ההנדסית הוא 6 וידוע כי סכום 2 האיברים הראשונים בסדרה החשבונית שווה לסכום שני האיברים הראשונים בסדרה ההנדסית.
האיבר השלישי בסדרה ההנדסית גדול פי 2 מהאיבר השלישי בסדרה החשבונית.

א. מצא את שלושת האיברים של הסדרה החשבונית.

ב. מצא כמה איברים יש לחבר בסדרה החשבונית החל מהאיבר הראשון כדי לקבל את הסכום 60.

ג. מצא את מיקומו הסידורי של איבר בסדרה ההנדסית הגדול פי 12 מהאיבר האחרון שחובר בסכום הסדרה החשבונית שחישבת בסעיף הקודם.

5) נתונות שתי הסדרות הבאות: סדרה חשבונית: $a_1 , a_2 , a_3 , ...$
וסדרה הנדסית: $b_1 , b_2 , b_3 , ...$. ידוע כי האיבר הראשון בשתי הסדרות שווה.
האיבר השלישי בסדרה ההנדסית גדול פי 4 מהאיבר הראשון בסדרה החשבונית.

א. מצא את מנת הסדרה ההנדסית אם ידוע כי היא אינה עולה.

ב. נתון גם כי האיבר החמישי בסדרה ההנדסית שווה לאיבר הרביעי בסדרה החשבונית. הוכח כי הפרש הסדרה החשבונית גדול פי 5 מהאיבר הראשון.

ג. בכל סדרה יש 10 איברים. הסכום של כל האיברים של שתי הסדרות יחד הוא 212-. מצא את האיבר הראשון של שתי הסדרות.

תשובות סופיות:

1) המספרים הם: 18, 6, 2.

2) $q=-1$ או $q=3$.

3) המספרים הם: 12 , 7.5 , 6 , 3.

4) א. 12, 10, 8 ב. 5 ג. 6.

5) א. $q=-2$ ג. $a_1=2$.

סדרה הנדסית אינסופית מתכנסת:

סיכום כללי:

- **הגדרה:**

סדרה הנדסית a_n המקיימת: $|q|<1$, $(q\neq 0)$ נקראת סדרה הנדסית אינסופית מתכנסת.

- **נוסחת הסכום של סדרה הנדסית אינסופית מתכנסת:**

הסכום של סדרה הנדסית אינסופית מתכנסת a_n ניתן לחישוב ע"י שימוש בכלל: $\lim\limits_{n\to\infty} q^n = 0$ והצבתו בנוסחת הסכום של סדרה הנדסית.

מתקבל הכלל הבא: $S=\frac{a_1}{1-q}$.

- **סכום סופי של איברים בסדרה הנדסית אינסופית מתכנסת:**

  - כאשר מתבקשים לחשב סכום של n איברים ראשונים בסדרה הנדסית אינסופית מתכנסת יש להשתמש בנוסחת הסכום הרגילה: $S_n=\frac{a_1\left(q^n-1\right)}{q-1}$.

  - כאשר מתבקשים לחשב סכום של n איברים בסדרה הנדסית אינסופית מתכנסת המתחילים באיבר a_k יש להשתמש בנוסחת הסכום הרגילה באופן הבא: $S_n=\frac{a_k\left(q^n-1\right)}{q-1}$.

שאלות:

1) מצא את סכום כל איברי הסדרה ההנדסית הבאה: $12\ ,\ 4\ ,\ 1\frac{1}{3}\ ,\ \ldots$.

2) סכום כל איברי סדרה הנדסית אינסופית שמנתה $\frac{1}{4}$ הוא 32.
מצא את האיבר הראשון בסדרה.

3) נתונה סדרה הנדסית אינסופית יורדת שסכומה 62.5. ידוע כי האיבר השני בסדרה הוא 10. מצא את האיבר הראשון ואת מנת הסדרה (שתי אפשרויות).

4) האיבר הראשון בסדרה הנדסית אינסופית יורדת הוא 14. סכום האיברים במקומות הזוגיים הוא $9\frac{1}{3}$. מצא את סכום האיברים במקומות האי-זוגיים.

***הערה: שתי השאלות הבאות מסכמות את סוגי הסכומים וייצוג סדרות שונות באמצעות סדרה נתונה כפי שמקובל בנושא זה ואינן מייצגות אורך של שאלת בגרות.**

5) נתונה סדרה הנדסית אינסופית מתכנסת a_n שמנתה q , $\left(q\neq 0\ ,\ |q|<1\right)$
מגדירים שלוש סדרות חדשות: b_n , c_n ו- d_n באופן הבא:

הסדרה:	b_n	c_n	d_n
הכלל:	$b_1=a_1$ $b_2=a_1+a_2$ $b_3=a_1+a_2+a_3$ $\vdots$ $b_n=a_1+a_2+a_3+..+a_n=S_{a(n)}$	$c_1=a_2^2-a_1^2$ $c_2=a_3^2-a_2^2$ $c_3=a_4^2-a_3^2$ $\vdots$ $c_n=a_{n+1}^2-a_n^2$	$d_1=S_a+a_1$ $d_2=S_a+a_2$ $d_3=S_a+a_3$ $\vdots$ $d_n=S_a+a_n$

הסכום S_a הוא סכום הסדרה a_n , והסכום: $S_{a(n)}$ הוא סכום n האיברים הראשונים של הסדרה a_n.

א. קבע אלו מבין הסדרות b_n , c_n ו- d_n הן הנדסיות והבע את מנתן ע"י q .

ב. הבע באמצעות a_1 בלבד את סכום הסדרה ההנדסית שמצאת בסעיף הקודם.

ג. מסמנים את סכום ריבועי האיברים של הסדרה ההנדסית שמצאת בסעיף א' ב- $S_{(S)}$. הוכח כי לא קיים ערך של q עבורו סכום ריבועי האיברים $S_{(S)}$, שווה לסכום הסדרה הנ"ל בריבוע.

6) נתונה סדרה הנדסית אינסופית יורדת: a_n שמנתה q .
מגדירים סדרה חדשה b_n באופן הבא:

$$b_1 = S_1^* = \frac{a_1}{1-q} \quad , b_2 = S_2^* = \frac{a_2}{1-q} \quad , b_3 = S_3^* = \frac{a_3}{1-q} \quad ,..., b_n = S_n^* = \frac{a_n}{1-q} \quad ,..$$

כאשר: S_n^* מייצג את סכום הסדרה a_n החל מהאיבר a_n (ועד אינסוף).

א. הוכח כי הסדרה b_n היא גם הנדסית אינסופית יורדת וכתוב את נוסחת האיבר הכללי שלה באמצעות a_1 ו- q .

ב. ידוע כי סכום הסדרה b_n הוא 126 וכי סכום 8 האיברים הראשונים בסדרה a_n גדול פי 6560 מהאיבר התשיעי בסדרה b_n . מצא את a_1 ו- q .

ג. היעזר בסעיף הקודם והוכח כי מתקיים: $b_2 + b_3 + ... + b_n + ... = 42$.

ד. חשב את סכום האיברים העומדים במקומות הזוגיים בסדרה b_n .

ה. חשב את סכום האיברים העומדים במקומות האי-זוגיים בסדרה b_n .

ו. מחליפים את סימני האיברים העומדים במקומות האי-זוגיים בסדרה b_n כך שנוצרת הסדרה: b_n^* . חשב את סכום הסדרה b_n^* .

ז. מחליפים את סימני האיברים העומדים במקומות הזוגיים בסדרה b_n כך שנוצרת הסדרה: b_n^{**} . חשב את סכום הסדרה b_n^{**} .

ח. מעלים בריבוע את כל איברי הסדרה b_n . מסמנים את הסכום המתקבל ב- $S_{(S)}$ (מלשון: square). כמו כן, מסמנים את סכום הסדרה המקורית b_n ב- S_b .
הראה כי: $S_b^2 \neq S_{(S)}$.

ט. הוכח כי היחס בין סכום איברי הסדרה a_n וסכום איברי הסדרה b_n הוא $\frac{2}{3}$.

7) נתונה סדרה הנדסית אינסופית יורדת שסכומה 24. מאיברי הסדרה הנתונה יצרו את סדרה חדשה באופן הבא: $a_1+a_2, a_2+a_3, a_3+a_4, a_4+a_5, \ldots$.

א. הוכח שהסדרה החדשה היא הנדסית אינסופית יורדת.

ב. ידוע שסכום כל איברי הסדרה החדשה הוא 32.
מצא את האיבר הראשון והמנה של הסדרה המקורית.

8) בסדרה הנדסית אינסופית יורדת a_n ידוע כי סכום האיברים העומדים במקומות האי-זוגיים גדול פי $1\frac{2}{3}$ מסכום האיברים העומדים במקומות הזוגיים.

א. מצא את מנת הסדרה.

מחברים כל שני איברים סמוכים בסדרה הנתונה ויוצרים סדרה חדשה b_n.

ב. הוכח כי הסדרה b_n גם היא הנדסית יורדת ומצא את מנתה.

ג. הראה כי סכום הסדרה b_n שווה לסכום הסדרה a_n.

ד. סכום שתי הסדרות יחד הוא 1000. מצא את האיבר הראשון בסדרה a_n.

9) נתונה סדרה הנדסית אינסופית $a_1, a_2, a_3, \ldots$ שמנתה היא q, $(0<q<1)$.
נגדיר את הסכומים הבאים: $V=a_3+a_7+a_{11}+\ldots$, $T=a_1+a_2+a_5+a_6+a_9+a_{10}, \ldots$.
נתון כי: $T=6V$.

א. מצא את מנת הסדרה q.

ב. פי כמה קטן V מסכום כל האיברים העומדים במקומות האי-זוגיים בסדרה?

ג. מצא את האיבר הראשון אם ידוע כי סכום האיברים העומדים במקומות האי-זוגיים הוא $1365\frac{1}{3}$.

10) נתונה הסדרה ההנדסית הבאה: $a_1, a_2, a_3, \ldots, a_{2n}$ שמנתה היא q.
בונים סדרה חדשה מריבועי כל האיברים הסדרה באופן הבא: $a_1^2, a_2^2, a_3^2, \ldots, a_{2n}^2$.

א. הוכח כי היחס בין סכום n האיברים הראשונים בסדרת הריבועים ובין סכום כל האיברים העומדים במקומות האי-זוגיים בסדרה הנתונה תלוי רק באיבר הראשון של הסדרה.
בסדרה הנדסית אינסופית יורדת שסכומה 640 ידוע כי סכום 10 האיברים הראשונים כאשר מעלים אותם בריבוע גדול פי 320 מסכום 10 האיברים הראשונים העומדים במקומות האי-זוגיים בסדרה.

ב. מצא את מנת הסדרה.

ג. מחברים את כל איברי הסדרה החל מאיבר a_n כלשהו.
ידוע כי סכום זה קטן פי 16 מסכום הסדרה המקורי. מצא את האיבר a_n.

11) נתונה סדרה הנדסית אינסופית $a_1 , a_2 , a_3 , ...$ שמנתה היא q , $(q \neq 0 , |q| < 1)$.

נגדיר את הסכומים הבאים: $V = a_2 + a_7 + a_{12} + ... , .. , T = a_1 + a_3 + a_6 + a_8 + a_{11} + a_{13}$.

נתון כי: $V = 0.3T$.

א. מצא את מנת הסדרה q.

מחליפים את הסימנים של כל האיברים העומדים במקומות האי-זוגיים ומתקבלת סדרה חדשה שסכומה הוא 12.

ב. מצא את האיבר הראשון בסדרה המקורית.

ג. מעלים את כל איברי הסדרה בריבוע. חשב את סכום הסדרה כעת.

תשובות סופיות:

1) $S=18$.

2) $a_1=24$.

3) $a_1=50$, $q=\frac{1}{5}$ או $a_1=12\frac{1}{2}$, $q=\frac{4}{5}$.

4) $S=18\frac{2}{3}$.

5) א. הסדרה b_n : $\frac{b_{n+1}}{b_n}=\frac{S_{n+1}}{S_n}=\frac{S_{n+1}}{S_n}=\frac{\frac{a_{n+1}\left(q^{n+1}-1\right)}{q-1}}{\frac{a_n\left(q^n-1\right)}{q-1}}=\frac{a_{n+1}\left(q^{n+1}-1\right)}{a_n\left(q^n-1\right)}=q\cdot\frac{q^{n+1}-1}{q^n-1}$

היות והיא תלויה ב- n היא אינה הנדסית.

הסדרה c_n הנדסית : $\frac{c_{n+1}}{c_n}=\frac{a_{n+2}^2-a_{n+1}^2}{a_{n+1}^2-a_n^2}=\frac{a_n^2q^4-a_n^2q^2}{a_n^2q^2-a_n^2}=\frac{a_n^2q^2\left(q^2-1\right)}{a_n^2\left(q^2-1\right)}=q^2$.

הסדרה d_n : $\frac{b_{n+1}}{b_n}=\frac{S+a_{n+1}}{S+a_n}=\frac{\frac{a_1}{1-q}+a_{n+1}}{\frac{a_1}{1-q}+a_n}=\frac{a_1+(1-q)a_{n+1}}{a_1+(1-q)a_n}=\frac{a_1\left(1+(1-q)q^n\right)}{a_1\left(1+(1-q)q^{n-1}\right)}=\frac{q^n-q^{n+1}+1}{q^{n-1}-q^n+1}$

היות והיא תלויה ב- n היא אינה הנדסית. ב. $S_{(c_n)}=\frac{c_1}{1-q_c}=\frac{a_2^2-a_1^2}{1-q^2}=\frac{a_1^2\left(q^2-1\right)}{1-q^2}=-a_1^2$.

ג. מההשוואה : $S_{(s)}=S^2$ מקבלים כי פתרון המשוואה הוא : $q=0,\pm1$.

כולם נפסלים מכיוון שמנת הסדרה הנתונה a_n היא שבר.

עבור $|q|>1$ הסדרות אינן מתכנסות ולכן לא קיים ערך של q עבורו השוויון יתקיים. מש"ל.

6) א. $b_n=\frac{a_1}{1-q}q^{n-1}$ ב. $a_1=56$, $q=\frac{1}{3}$ ג. הוכחה. ד. 31.5

ה. 94.5 ו. -63 ז. 63 ח. 7938

ט. הסכום : S^2 משמעו : $\left(b_1+b_2+...+b_n+..\right)^2$.

הסכום : $S_{(s)}$ משמעו : $b_1^2+b_2^2+...+b_n^2+..$. ברור כי הביטויים אינם שווים.

7) א. הוכחה. ב. $a_1=16$, $q=\frac{1}{3}$.

8) א. $q=0.6$ ב. $\frac{b_{n+1}}{b_n}=\frac{a_{2n+1}+a_{2n+2}}{a_{2n-1}+a_{2n}}=q^2$ ד. $a_1=200$

9) א. $q=\frac{1}{2}$ ב. פי 5 ג. $a_1=1024$

10) א. הוכחה. ב. $q=0.5$ ג. $a_5=20$.

11) א. $q=\frac{1}{3}$ ב. $a_1=-16$ ג. $S=288$.

קורס השלמה במתמטיקה

פרק 6 - חוקי החזקות והשורשים

תוכן העניינים

1. חוקי החזקות 105
2. חוקי השורשים 110
3. כתיבה מדעית של מספרים 114

חוקי החזקות:

סיכום כללי:

סיכום חוקי החזקות:

1. $a^0=1$
2. $a^1=a$
3. $a^n\cdot a^m=a^{m+n}$
4. $\frac{a^n}{a^m}=a^{n-m}$
5. $\left(a^n\right)^m=a^{n\cdot m}$
6. $a^m\cdot b^m=\left(a\cdot b\right)^m$
7. $\frac{a^m}{b^m}=\left(\frac{a}{b}\right)^m$
8. $a^{-m}=\frac{1}{a^m}$
9. $\left(\frac{a}{b}\right)^{-m}=\left(\frac{b}{a}\right)^m$

שאלות:

1) פשט את הביטויים הבאים בעזרת החוקים: $a^na^m=a^{n+m}$ ו- $\frac{a^n}{a^m}=a^{n-m}$.

א. a^2a^6 ב. $t^3t^5t^7$ ג. $b^2b^5b^{12}b^3$

ד. $\frac{k^8}{k^3}$ ה. $\frac{n^{14}}{n^9}$ ו. $\frac{c^6}{c^2}$

ז. $\frac{a^3a^{19}}{a^{15}}$ ח. $\frac{x^{30}}{x^9x^{18}}$ ט. $\frac{y^3y^{15}}{y^4y^{14}}$

י. $3^23^33^4$ יא. $\frac{2^{16}2^2}{2^{10}}$ יב. $\frac{5^{20}5^35^{16}}{5^45^{22}5^8}$

2) פשט את הביטויים הבאים בעזרת החוקים: $a^na^m=a^{n+m}$ ו- $\frac{a^n}{a^m}=a^{n-m}$.

א. $\frac{3^42^7}{2^63^2}$ ב. $\frac{a^{10}b^{13}a^3}{b^4b^6b^2a^{12}}$ ג. $\frac{x^8y^5y^9x^2}{y^4x^4}$

3) לפניך הביטוי הבא: $\frac{3^62^{17}3^32^4}{3^42^32^2}$.

מצא n כך שיתקיים שוויון בין הביטוי $243\cdot 2^n$ לבין הביטוי הנתון.

4) חשב ללא מחשבון את ערכי הביטויים הבאים:

א. $\frac{2^3\cdot 2^7}{2^4\cdot 2^5}$ ב. $\frac{9^3\cdot 27^2}{3^9\cdot 81}$

ג. $\frac{10^9\cdot 25^5\cdot 8^{-1}}{40^3\cdot 125^5}$ ד. 2^3+2^5

5) פשט את הביטויים הבאים בעזרת החוק: $\left(a^n\right)^m=a^{n\cdot m}$.

א. $\left(a^2\right)^4$ ב. $\left(c^3\right)^{10}$ ג. $\left(x^3x^{10}\right)^2$

ד. $\frac{\left(b^2\right)^3}{b^2b^3}$ ה. $\frac{n^7n^8}{\left(n^3\right)^4}$ ו. $\frac{d^{20}\left(d^4\right)^2}{d^{12}\left(d^3\right)^2}$

ז. $\frac{2^5\left(2^4\right)^2 2^3}{\left(2^32^2\right)^3}$ ח. $\frac{3^6\left(3^33^2\right)^6}{3^{28}\left(3^2\right)^3}$ ט. $\frac{\left(8^3\right)^8 8^{11}}{\left(8^28\right)^3 8^8}$

י. $\frac{\left(2^4\right)^5\left(3^6\right)^7 2^{20}}{3^{35}2^{40}}$ יא. $\frac{\left(3^2\right)^6 5^{31}3^7}{\left(5^2\right)^{10} 5^{11}3^{18}}$ יב. $\frac{\left(3^2\right)^7 5^{10}\left(5^3\right)^2}{3^95^{16}}$

6) לפניך הביטויים הבאים: $\left(\left(3^2\right)^3\right)^4$ ו- $\left(\left(3^6\right)^n\right)^2$.
מצא n כך שיתקיים שוויון בין שני הביטויים.

7) חשב ללא מחשבון את הביטויים הבאים:

א. $\frac{2^33^5}{2^{\,2}3^4}$ ב. $\frac{5^{20}3^{14}3^8}{3^{20}5^{12}5^8}$ ג. $\frac{7^{12}2^22^6}{2^57^{10}7}$

8) פשט את הביטויים הבאים:

א. $3^29\cdot 81^2$ ב. $64^22^38^2$ ג. $125\cdot 25\cdot 5^5$

ד. $\frac{2^4\cdot 16^5}{8\cdot 512}$ ה. $\frac{\left(4^2\right)^3 16}{64\cdot 2^3}$ ו. $\frac{\left(\left(3^4\right)^4\right)^5}{81^327^43^5}$

9) פשט את הביטויים הבאים:

א. $\dfrac{\left(2a^2b\right)^3\cdot\left(ab^{-3}\right)^2}{4ab^{-2}\cdot\left(\dfrac{a^2}{b}\right)^4}$

ב. $\dfrac{\left(k^2\right)^{m+2}\cdot k^{1-3m}}{\left(k^{2m}\right)^3\cdot\dfrac{1}{k^{7m-4}}}$

ג. $\dfrac{4^{b+3}}{4^{b+1}+4^{b+2}}$

ד. $\dfrac{1}{x^2}\cdot\dfrac{x^{n+3}+x^{n+5}}{x^{n+2}}$

10) פשט את הביטויים הבאים בעזרת החוקים: $\left(ab\right)^n=a^nb^n$ ו- $\left(\dfrac{a}{b}\right)^n=\dfrac{a^n}{b^n}$

א. $\left(a^2b\right)^3$

ב. $\left(m^4n^3\right)^5$

ג. $\left(x^{12}y^3\right)^3$

ד. $\left(\dfrac{a^3}{b^2}\right)^4$

ה. $\left(\dfrac{i^4}{k^3}\right)^7$

ו. $\left(\dfrac{a^{14}b^4}{a^6ab^3}\right)^3$

ז. $\left(\dfrac{x^3y^5y^2x^6}{y^4x^7}\right)^6$

ח. $\left(\dfrac{t^7r^{20}t^3}{r^2r^{12}t^8}\right)^2$

ט. $\left(\dfrac{\left(b^{12}c\right)^2c^{14}}{c\left(c^3b^5\right)^4b^3}\right)^2$

11) חשב ללא מחשבון את הביטויים הבאים:

א. $\left(\dfrac{3^92^62^2}{3^62^53^2}\right)^2$

ב. $\left(\dfrac{\left(5^4\right)^2\cdot3^6}{3^55^7}\right)^2$

ג. $\left(\dfrac{7^3\cdot16\cdot128\cdot49}{\left(2^27\right)^5}\right)^3$

12) בטא את הביטויים הבאים מחדש בעזרת שימוש בחזקה שלילית:

א. $\dfrac{1}{4^6}$

ב. $\dfrac{1}{5^3}$

ג. $\dfrac{1}{2^{10}}$

ד. $\dfrac{1}{8}$

ה. $\dfrac{1}{81}$

ו. $\dfrac{1}{125}$

13) בטא את הביטויים הבאים מחדש בעזרת שימוש בחזקה חיובית וחשב את ערכם:

א. $\dfrac{1}{4^{-3}}$

ב. $\dfrac{1}{3^{-2}}$

ג. $\dfrac{1}{5^{-3}}$

14) חשב את הביטויים הבאים:

א. $3^2\cdot 3^{-5}\cdot 3^7$

ב. $2^{-8}\cdot 512\cdot 2^2$

ג. $5^6\cdot 5^{-3}\cdot 5^{-2}$

ד. $2^{14}\cdot 3^{-6}\cdot 2^{16}\cdot 3^4\cdot 2^{-30}$

ה. $\frac{2^{-5}\cdot 5^3\cdot 2^{14}}{5^2\cdot 5^{-10}\cdot 5^8\cdot 2^6}$

ו. $\frac{3^{-6}\cdot 7^7\cdot 7^{-4}}{3^{-4}\cdot 3^{-3}\cdot 7^3}$

15) פשט את הביטויים הבאים לצורה ללא חזקות שליליות.

א. $\left(\frac{5^{-4}}{3^2}\right)^{-6}$

ב. $\frac{\left(4^4\right)^{-4}3^{-11}}{\left(3^{-2}4^3\right)^{-6}}$

ג. $\frac{2^{-3}5^4}{5^4\cdot 125\cdot\left(5^2 2\right)^{-3}\cdot 2^{-4}}$

16) פשט את הביטויים הבאים:

א. $\frac{a^{n+2}\cdot a^{2-3n}}{\left(a^3\right)^{n+1}}$

ב. $\frac{\left(k^2\right)^{m+2}\cdot k^{1-3m}}{\left(k^{2m}\right)^3\cdot\frac{1}{k^{7m-4}}}$

ג. $\frac{\left(m^{n+2}\right)^3\cdot m^{-4n-2}}{\frac{1}{m^{6n+2}}\cdot\left(m^3\right)^{n-2}}$

תשובות סופיות:

1) א. a^8 ב. t^{15} ג. b^{22} ד. k^5 ה. n^5 ו. c^4

ז. a^7 ח. x^3 ט. 1 י. 3^9 יא. 2^8 יב. 5^5.

2) א. 18 ב. ab ג. x^6y^{10}.

3) $n=16$.

4) א. 2 ב. $\frac{1}{3}$ ג. $\frac{5}{8}$ ד. 40.

5) א. a^8 ב. c^{30} ג. x^{26} ד. b ה. n^3 ו. d^{10}

ז. 2 ח. 9 ט. 8^{18} י. 3^7 יא. 3 יב. 3^5.

6) $n=2$.

7) א. 6 ב. 9 ג. 56.

8) א. 3^{12} ב. 2^{21} ג. 5^{10} ד. 2^{12} ה. 2^7 ו. 3^{51}.

9) א. $\frac{2b^3}{a}$ ב. k ג. $3\frac{1}{5}$ ד. $\frac{1}{x}+x$.

10) א. a^6b^3 ב. $m^{20}n^{15}$ ג. $x^{36}y^9$ ד. $\frac{a^{12}}{b^8}$ ה. $\frac{i^{28}}{k^{21}}$ ו. $a^{21}b^3$

ז. $x^{12}y^{18}$ ח. t^4r^{12} ט. b^2c^6.

11) א. 576 ב. 225 ג. 8

12) א. 4^{-6} ב. 5^{-3} ג. 2^{-10} ד. 2^{-3} ה. 3^{-4} ו. 5^{-3}.

13) א. 64 ב. 9 ג. 125.

14) א. 81 ב. 8 ג. 5 ד. $\frac{1}{9}$ ה. 1000 ו. 3.

15) א. $5^{24}\cdot 3^{12}$ ב. $\frac{4^2}{3^{23}}$ ג. $5^3\cdot 2^4$.

16) א. a^{1-5n} ב. k ג. m^{2n+12}.

חוקי השורשים:

סיכום כללי:

סיכום חוקי השורשים:

1. $\sqrt{a}=a^{\frac{1}{2}}$
2. $\sqrt[m]{a}=a^{\frac{1}{m}}$
3. $\sqrt[m]{a^n}=a^{\frac{n}{m}}$
4. $\sqrt[m]{a}\cdot\sqrt[m]{b}=\sqrt[m]{a\cdot b}$
5. $\frac{\sqrt[m]{a}}{\sqrt[m]{b}}=\sqrt[m]{\frac{a}{b}}$
6. $\sqrt[n]{\sqrt[m]{a}}=\sqrt[m\cdot n]{a}$

שאלות:

17) הבא את הביטויים הבאים לצורה: $\sqrt[n]{a^m}$.

א. $3^{\frac{1}{4}}$ ב. $2^{\frac{3}{5}}$ ג. $6^{\frac{5}{6}}$

ד. $-12^{\frac{2}{7}}$ ה. $-(-4)^{\frac{1}{3}}$ ו. $-(-3)^{\frac{3}{4}}$

ז. $5^{-\frac{1}{4}}$ ח. $27^{-\frac{1}{3}}$ ט. $64^{-\frac{5}{6}}$

18) חשב ללא מחשבון את ערכם של הביטויים הבאים:

א. $\sqrt{49}$ ב. $-\sqrt{25}$ ג. $\sqrt[3]{8}$

ד. $-\sqrt[7]{128}$ ה. $\sqrt[3]{(-2)^6}$ ו. $\left(\sqrt[5]{1024}\right)^2$

ז. $\left(\sqrt[5]{-243}\right)^3$ ח. $\sqrt[4]{-16}$ ט. $\sqrt[4]{-25^2}$

י. $\sqrt[4]{(-25)^2}$

19) חשב ללא מחשבון את ערכם של הביטויים הבאים:

א. $8^{\frac{2}{3}}$ ב. $32^{-\frac{3}{5}}$ ג. $128^{-\frac{2}{7}}$

ד. $\left(\frac{1}{25}\right)^{-1.5}$ ה. $\left(2\frac{1}{4}\right)^{-2.5}$ ו. $\left(\frac{64}{343}\right)^{-\frac{2}{3}}$

ז. $81^{\frac{3}{4}}\cdot 64^{-\frac{1}{3}}$ ח. $343^{-\frac{2}{3}}\cdot 100^{\frac{1}{2}}$ ט. $16^{\frac{1}{4}}\cdot 8^{-\frac{1}{3}}\cdot 4^{-\frac{1}{2}}$

20) חשב ללא מחשבון את ערך הביטוי הבא: $\frac{\sqrt[5]{2^2}\cdot\sqrt{8}}{\sqrt[5]{128}}$.

21) פשט את הביטויים הבאים:

א. $\sqrt{2}\cdot\sqrt{8}$ ב. $\sqrt{3}\cdot\sqrt{27}$ ג. $\sqrt{4}\cdot\sqrt{5}\cdot\sqrt{20}$

ד. $\frac{\sqrt{72}}{\sqrt{2}}$ ה. $\frac{\sqrt[3]{81}}{\sqrt[3]{3}}$ ו. $\frac{\sqrt[5]{96}}{\sqrt[5]{3}}$

ז. $\frac{\sqrt[5]{2^2}\cdot\sqrt{8}}{\sqrt[5]{128}}$ ח. $\frac{\sqrt[3]{500}\cdot\sqrt{5}}{\sqrt[4]{25^2}\cdot\sqrt[3]{4}}$ ט. $\frac{\sqrt[3]{8^2}\sqrt[4]{25}}{\sqrt[4]{400}\sqrt{2}}$

22) הכנס לתוך שורש את המספרים החופשיים:

א. $3\sqrt{2}$ ב. $5\sqrt{3}$ ג. $\frac{\sqrt{36}}{2}$

ד. $2\sqrt[3]{3}$ ה. $x\sqrt{x}$

23) הכנס את כל המקדמים בביטויים הבאים לתוך השורש:

א. $2\sqrt{5}$ ב. $4\sqrt[3]{2}$ ג. $2\sqrt[5]{3}$

ד. $\frac{\sqrt{24}}{2}$ ה. $\frac{\sqrt[3]{24}}{2}$ ו. $\frac{3\sqrt[4]{5000}}{10}$

ז. $-5\sqrt[3]{2}$ ח. $-5\sqrt[4]{2}$ ט. $-5\sqrt[5]{-2}$

24) הוצא מהשורש את הכופל הגדול ביותר:

א. $\sqrt{12}$ ב. $\sqrt{48}$ ג. $\sqrt{63}$

ד. $\sqrt[3]{54}$ ה. $\sqrt{x^5}$

25) חלץ מן הביטויים הבאים את המקדם הגבוה ביותר ככל הניתן:

א. $\sqrt{40}$ ב. $\sqrt{50}$ ג. $\sqrt{320}$

ד. $\sqrt[3]{108}$ ה. $\sqrt[3]{56}$ ו. $\sqrt[5]{160}$

ז. $\sqrt[4]{162}$ ח. $\sqrt[5]{972}$ ט. $\sqrt[6]{192}$

26) פשט את הביטויים הבאים:

א. $\sqrt{18}-\sqrt{8}$ ב. $\sqrt{7}+\sqrt{63}$ ג. $\sqrt[3]{16}+\sqrt[3]{128}$

ד. $\sqrt[4]{405}-\sqrt[4]{80}$ ה. $\frac{20}{\sqrt{5}}$ ו. $\frac{\sqrt{8}}{2}$

ז. $\frac{16}{\sqrt{2}}$ ח. $\frac{6}{\sqrt{3}+\sqrt{12}}$ ט. $\frac{10}{\sqrt[5]{160}-\sqrt[5]{5}}$

27) פשט את הביטויים הבאים:

א. $3^{\frac{1}{4}}\cdot 9^{-2.5}\cdot 27^{\frac{3}{2}}$ ב. $2^{\frac{3}{4}}\cdot 16^{\frac{1}{2}}\cdot 64^{-3}$ ג. $125^{\frac{1}{6}}\cdot 5^{2}\cdot 5^{-\frac{2}{3}}$

ד. $\frac{27^{\frac{4}{3}}\cdot 3^{-\frac{2}{3}}}{9^{\frac{1}{6}}}$ ה. $\frac{49^{\frac{2}{5}}\cdot 7^{-\frac{6}{5}}}{343^{\frac{1}{5}}}$ ו. $\frac{512^{\frac{1}{4}}\cdot 64^{-\frac{3}{4}}}{128^{-\frac{1}{8}}\cdot 2^{-2}}$

תשובות סופיות:

17) א. $\sqrt[4]{3}$ ב. $\sqrt[5]{2^3}$ ג. $\sqrt[6]{6^5}$ ד. $-\sqrt[7]{12^2}$ ה. $-\sqrt[3]{-4}$ ו. ϕ

ז. $\frac{1}{\sqrt[4]{5}}$ ח. $\frac{1}{\sqrt[3]{27}}$ או $\frac{1}{3}$ ט. $\frac{1}{\sqrt[6]{64^5}}$ או $\frac{1}{2^5}$.

18) א. 7 ב. -5 ג. 2 ד. -2 ה. 4 ו. 16

ז. -27 ח. ϕ ט. ϕ י. 5.

19) א. 4 ב. $\frac{1}{8}$ ג. $\frac{1}{4}$ ד. 125 ה. $\frac{32}{243}$ ו. $\frac{49}{16}$

ז. $\frac{27}{4}$ ח. $\frac{10}{49}$ ט. $\frac{1}{2}$.

20) $\sqrt{2}$.

21) א. 4 ב. 9 ג. 20 ד. 6 ה. 3 ו. 2

ז. $\sqrt{2}$ ח. $\sqrt{5}$ ט. $\sqrt{2}$.

22) א. $\sqrt{18}$ ב. $\sqrt{75}$ ג. $\sqrt{9}$ ד. $\sqrt[3]{24}$ ה. $\sqrt{x^3}$.

23) א. $\sqrt{20}$ ב. $\sqrt[3]{128}$ ג. $\sqrt[5]{96}$ ד. $\sqrt{6}$ ה. $\sqrt[3]{3}$

ו. $\sqrt[4]{40\frac{1}{2}}$ ז. $\sqrt[3]{-250}$ ח. $-\sqrt[4]{1250}$ ט. $\sqrt[5]{5^5\cdot 2}$.

24) א. $2\sqrt{3}$ ב. $4\sqrt{3}$ ג. $3\sqrt{7}$ ד. $3\sqrt[3]{2}$ ה. $x^2\sqrt{x}$.

25) א. $2\sqrt{10}$ ב. $5\sqrt{2}$ ג. $8\sqrt{5}$ ד. $3\sqrt[3]{4}$ ה. $2\sqrt[3]{7}$ ו. $2\sqrt[5]{5}$

ז. $3\sqrt[4]{2}$ ח. $3\sqrt[5]{4}$ ט. $2\sqrt[6]{3}$.

26) א. $\sqrt{2}$ ב. $4\sqrt{7}$ ג. $6\sqrt[3]{2}$ ד. $\sqrt[4]{5}$ ה. $4\sqrt{5}$ ו. $\sqrt{2}$

ז. $8\sqrt{2}$ ח. $\frac{2}{\sqrt{3}}$ או $\frac{2\sqrt{3}}{3}$ ט. $\frac{10}{\sqrt[5]{5}}$ או $2\sqrt[5]{5^4}$.

27) א. $\frac{1}{\sqrt[4]{3}}$ ב. $\frac{1}{\sqrt[4]{2^{61}}}$ ג. $\sqrt[6]{5^{11}}$ ד. 27 ה. $\frac{1}{7}$ ו. $\sqrt[8]{2^5}$.

כתיבה מדעית של מספרים:

שאלות:

28) בטא את המספרים הבאים בכתיב מדעי:

א. 15,000,000
ב. 1,500,000
ג. 150,000,000,000
ד. 23,400,000
ה. 0.0003
ו. 0.00000042
ז. 0.000000042
ח. 0.00000000042

29) בטא את המספרים הבאים בכתיב מדעי:

א. $(3,000,000)^2$
ב. $(2,000,000)^2$
ג. $(5,000)^3$
ד. $(50,000)^3$
ה. $(0.0002)^4$
ו. $(0.00004)^3$
ז. $(0.000005)^3$
ח. $(0.000000007)^3$

תשובות סופיות:

28) א. $1.5\cdot10^{7}$ ב. $1.5\cdot10^{6}$ ג. $1.5\cdot10^{11}$ ד. $2.34\cdot10^{7}$ ה. $3\cdot10^{-4}$
ו. $4.2\cdot10^{-7}$ ז. $4.2\cdot10^{-8}$ ח. $4.2\cdot10^{-10}$.

29) א. $9\cdot10^{12}$ ב. $4\cdot10^{12}$ ג. $1.25\cdot10^{11}$ ד. $1.25\cdot10^{14}$ ה. $1.6\cdot10^{-15}$
ו. $6.4\cdot10^{-14}$ ז. $1.25\cdot10^{-16}$ ח. $3.43\cdot10^{-25}$.

קורס השלמה במתמטיקה

פרק 7 - משוואות ואי-שוויונים מעריכיים

תוכן העניינים

1. משוואות מעריכיות יסודיות 115
2. משוואות עם חיבור וחיסור איברים 117
3. משוואות עם קבוע אוילר 119
4. משוואות בהן המשתנה גם בבסיס 120
5. משוואות מסכמות שונות 121
6. מערכת משוואות מעריכיות 122
7. אי שוויונים מעריכיים 123
8. אי-שוויונים עם משתנה בבסיס ובמעריך 124

משוואות מעריכיות יסודיות:

סיכום כללי:

- פתרון כללי של משוואת מעריכית מהצורה: $a^x = a^y$ הוא: $x = y$.
- פתרון של משוואה מהצורה: $a^x = 1$ הוא: $x = 0$ שכן: $a^x = 1 = a^0$.
- פתרון של משוואה מהצורה: $a^x = b^x$ הוא: $x = 0$ שכן: $a^x = b^x = 1$ ללא תלות בבסיסים.

שאלות:

1) פתור את המשוואות הבאות (שימוש בחוקי החזקות היסודיים):

א. $2^x = 16$

ב. $5^x \cdot 25^{x+2} = 125$

ג. $10^{x-2} = 10000^{x+1}$

ד. $9^x \cdot 3^{x^2} = 81^{3x-4}$

ה. $\left(2^x \cdot 32\right)^3 = 8$

ו. $\left(5^{x^2}\right)^5 \cdot \frac{1}{5^5} = 625^{x-1}$

ז. $\frac{7^x}{343^3} = 1$

ח. $\left(25 \cdot 0.2^{2x}\right)^2 = \left(\frac{1}{125}\right)^{1-x}$

2) פתור את המשוואות הבאות (הבסיס הוא שבר):

א. $27 \cdot \left(\frac{3}{2}\right)^{5x+2} = 8$

ב. $\left(\frac{3}{4}\right)^{2-x} \cdot \left(\frac{4}{3}\right)^{3x} = \left(\frac{9}{16}\right)^{7+x}$

ג. $25\left(\frac{7}{5}\right)^{x^2-2x} \cdot \left(\frac{5}{7}\right)^{4-x} = 49$

3) פתור את המשוואות הבאות (שימוש בחוקי השורשים):

א. $\sqrt{27} \cdot \left(\frac{1}{3}\right)^{2x} = 9\sqrt{3}$

ב. $\sqrt{3^{x+7}} = 81$

ג. $\left(9\sqrt{27}\right)^{3x} \cdot 3^{2-x} = \frac{1}{9}$

ד. $\sqrt[x]{16} \cdot \left(\frac{1}{2^x}\right)^3 = \frac{1}{16}$

ה. $2^{\sqrt{x}} \frac{1}{\sqrt{2^x}} = 8\left(\sqrt{8}\right)^{-\sqrt{x}}$

ו. $5^x \frac{1}{25^5} = 125^{\sqrt{x}}$

4) פתור את המשוואות הבאות (מכפלת בסיסים שונים):

א. $2^x = 7^x$

ב. $3^x \cdot \frac{625}{\sqrt{25^x}} = 81$

ג. $2^{3x} \cdot 5^{3x} = 1000000$

ד. $2^{x+1} \cdot 3^{x-2} \cdot 7^x = 392$

ה. $243 \cdot 2^{x-1} \cdot 18^{x-9} = \frac{1}{3^{x-2}}$

ו. $108 \cdot \frac{1}{2^{1-2x}} = 72^x \cdot \sqrt{0.5}$

ז. $2^{2x+2} \cdot 5^{x+1} = \left(2\sqrt{5}\right)^{4-x}$

תשובות סופיות:

1) א. $x=4$ ב. $x=-\frac{1}{3}$ ג. $x=-2$ ד. $x=2,8$ ה. $x=-4$

ו. $x=1,-\frac{1}{5}$ ז. $x=9$ ח. $x=1$.

2) א. $x=-1$ ב. $x=-2$ ג. $x=3,-2$.

3) א. $x=-\frac{1}{2}$ ב. $x=1$ ג. $x=-\frac{8}{19}$ ד. $x=2,-\frac{2}{3}$ ה. $x=4,9$ ו. $x=25$.

4) א. $x=0$ ב. $x=4$ ג. $x=2$ ד. $x=2$ ה. $x=5$

ו. $x=1.5$ ז. $x=\frac{2}{3}$.

משוואות עם חיבור וחיסור איברים:

סיכום כללי:

במשוואות הכוללות חיבור וחיסור של איברים, נאתר את הבסיס עם המעריך הקטן ביותר ונסמן אותו ב-t, למשל במשוואה: $4^x-3\cdot 2^x=4$ נסמן: $2^x=t$.

נבטא את כל איברים המשוואה באמצעות t ונפתור אותה עבורו.
לאחר מכן נחזיר את ההצבה למציאת ערכי ה-x המתאימים.

שאלות:

1) פתור את המשוואות הבאות (משוואות יסודיות עם חיבור וחיסור ממעלה ראשונה):

א. $2^x+6\cdot 2^x=56$

ב. $8^x+3\cdot 8^x=256$

ג. $5\cdot 3^x-3^{x+1}=162$

ד. $2\cdot 6^x+6^{x+2}-6^{x-1}=227$

2) פתור את המשוואות הבאות (משוואות כלליות עם חיבור וחיסור ממעלה ראשונה):

א. $81^{x+1}+18\cdot 3^{4x-3}=735$

ב. $5^{3x+2}+4\cdot 125^x=29$

ג. $\left(2^{3x+1}\right)^2-64^{x-\frac{1}{3}}=15$

ד. $\sqrt{10000^{x+1}}-\sqrt[4]{10^{8x+1}}=\sqrt[4]{1000}\cdot\left(\sqrt[4]{10^7}-1\right)$

ה. $6^{-x}-5\cdot 36^{-\left(\frac{x}{2}+1\right)}=186$

ו. $5^{-x}+25^{\frac{1}{2}-\frac{x}{2}}-5^{-x-1}=145$

ז. $2\cdot 10^{x+1}+10^{x+2}=3\cdot 5^{x+1}$

ח. $4^{x+2}-6\cdot 4^x=7\cdot 12^{x+1}+6\cdot 12^x$

3) פתור את המשוואות הבאות (משוואות עם חיבור וחיסור ממעלה שנייה):

א. $9^x-36\cdot 3^x+243=0$

ב. $16^{x+1}-65\cdot 4^x+4=0$

ג. $6^x-4\cdot 6^{-x}+3=0$

ד. $4^{-x}-3\cdot 4^x+2=0$

ה. $\left(\frac{4}{9}\right)^x-\frac{5}{2}\cdot\left(\frac{3}{2}\right)^{-x-1}=-\frac{2}{3}$

ו. $\left(2^{\frac{1}{3}x+2}\right)^2-5\cdot 2^{\frac{1}{3}x+1}+1=0$

4) פתור את המשוואות הבאות (משוואות כלליות):

א. $\frac{20}{9^x+1}=3-\frac{8}{9^x-1}$

ב. $\frac{7^x}{7^x-4}+\frac{8}{7^x+5}=3$

5) פתור את המשוואות הבאות (משוואות מסכמות):

א. $\frac{1}{25^{1-x}}-6\cdot 5^{x-1.5}+1=0$

ב. $3^x-\sqrt{16\cdot 3^{x+1}}=-9$

ג. $36^x-6^{x+1}\cdot 3^x+8\cdot 9^x=0$

ד. $4\cdot 9^x-10\cdot 6^x+6\cdot 4^x=0$

ה. $25\cdot 5^{2x}+16\cdot 15^x=9^{x+1}$

ו. $9^x+4^x-6^x=\frac{7}{6^{1-x}}$

ז. $\frac{8^{2x}-8}{7}=4^x-2$

ח. $2^{3x}-2^{2x+2}-2^x+4=0$

תשובות סופיות:

1) א. $x=3$ ב. $x=2$ ג. $x=4$ ד. $x=1$.

2) א. $x=\frac{1}{2}$ ב. $x=0$ ג. $x=\frac{1}{3}$ ד. $x=\frac{1}{4}$

ה. $x=-3$ ו. $x=-2$ ז. $x=-3$ ח. $x=-2$

3) א. $x=2,3$ ב. $x=1,-2$ ג. $x=0$ ד. $x=0$

ה. $x=0,1$ ו. $x=-6,-9$.

4) א. $x=1,-\frac{1}{2}$ ב. $x=1$.

5) א. $x=\frac{1}{2},1\frac{1}{2}$ ב. $x=1,3$ ג. $x=1,2$ ד. $x=1,0$

ה. $x=-2$ ו. $x=1,-1$ ז. $x=0,\frac{1}{2}$ ח. $x=0,2$.

משוואות עם קבוע אוילר:

סיכום כללי:

קבוע אוילר מסומן באות e וערכו שווה (בערך) ל-2.71828.
למספר זה משמעויות רבות במתמטיקה ובמדעים ועל כן הוחלט לסמן אותו באות משלו ולשלב אותו במשוואות מתמטיות ועוד.

דרך הפתרון של משוואה שבה הבסיס הוא e זהה לחלוטין לשל משוואה מעריכית רגילה כפי שנלמד בפרק זה.

שאלות:

1) פתור את המשוואות הבאות (משוואות יסודיות עם קבוע אוילר):

א. $e^{3x}=e^{2x-1}$ ב. $e^{5x-1}=e\cdot e^{6x+1}$

ג. $e^{x-5}=\left(e^{1-x}\right)^3$ ד. $e^x\cdot\sqrt{e^{3x-1}}=\left(\frac{1}{e^x}\right)^{1-3x}$

2) פתור את המשוואות הבאות (משוואות עם חיבור וחיסור):

א. $e^2\cdot e^x-e^{x+1}=e-1$ ב. $\sqrt[3]{e^{x+1}}\cdot e^2=e^x\sqrt{e}$

ג. $e^{2x}+e^x-2=0$ ד. $e^{1+x}+e^{1-x}=e^2+1$

3) פתור את המשוואות הבאות (המשתנה גם בבסיס):

א. $xe^x=\sqrt[4]{e}\cdot x$ ב. $e^{3x}=x\cdot e^{3x}$

ג. $xe^{x^2}=\frac{x}{\sqrt{e^x}}$ ד. $\sqrt[3]{e^{3x-1}}\cdot x=xe^x$

תשובות סופיות:

1) א. $x=-1$ ב. $x=-3$ ג. $x=2$ ד. $x=1\,,\ \frac{1}{6}$.

2) א. $x=-1$ ב. $x=\frac{11}{4}$ ג. $x=0$ ד. $x=1\,,\ -1$.

3) א. $x=0\,,\ \frac{1}{4}$ ב. $x=1$ ג. $x=0\,,\ -\frac{1}{2}$ ד. $x=0$.

משוואות בהן המשתנה גם בבסיס:

סיכום כללי:

במשוואות עם משתנה בבסיס יש לדרוש תנאי עבורו הבסיס חיובי.
יש לקחת את חיתוך תחומי ההגדרה (במידה וקיימים ביטויים עם שורשים או שברים) יחד עם תוצאת השוואת המעריכים.

הערה:

יש לבדוק את ערכי ה- x עבורם הבסיס שווה ל-1 ולראות האם מתקבל פסוק אמת או פסוק שקר. בהתאם יש להוסיף או להוריד אותו מתחום המספרים המהווים את פתרון המשוואה.

שאלות:

פתור את המשוואות הבאות:

1) $\left(\sqrt{3-x}\right)^{\sqrt{x}}=\left(\sqrt[3]{3-x}\right)^{x}\cdot\sqrt{\sqrt[3]{3-x}}$.

2) $\left(1+\frac{1}{x}\right)^{x^2+x}=1$.

3) $\frac{|x-3|^{x^2-2}}{|x-3|^{x-1}}=|x-3|^{-1}$.

תשובות סופיות:

1) $x=\frac{1}{4}\ ,\ 1\ ,\ 2$

2) אין פתרון.

3) $x=0\ ,\ 1\ ,\ 2\ ,4$

משוואות מסכמות שונות:

שאלות:

פתור את המשוואות הבאות:

1) $5\left(2^x-2\right)+2=4^x-2^x$.

2) $\frac{6}{4^{x-1}-1}+\frac{2^{x+1}}{2^x+2}=\frac{2^x+4}{2^x-2}$.

3) $\frac{4^x}{4^x-10}-\frac{4}{2^{2x-1}-3}=\frac{32}{16^x-4^{x+2}+60}$.

4) $3^{2x^2+2}-3^{x^2+3}+9=3^{x^2+1}$.

5) $\sqrt[x]{10}=4\cdot\sqrt[2x]{10}+60$.

6) $\sqrt[x-1]{8\cdot 2^{x+1}}=\left(\sqrt[x]{2}\right)^2\cdot\sqrt[x-1]{\sqrt[x]{32}}$.

7) $10\cdot 4^{x+2}-16\cdot 10^x-90\cdot 6^x+36\cdot 15^x=0$.

תשובות סופיות:

1) $x=1,2$.
2) $x=3$.
3) $x=1.5$.
4) $x=1,-1$.
5) $x=\frac{1}{2}$.
6) $x=-3$.
7) $x=1,-2$.

מערכת משוואות מעריכיות:

שאלות:

1) פתור את מערכת המשוואות הבאה: $\begin{cases} y=3^x \\ y=18-3^x \end{cases}$.

2) פתור את מערכת המשוואות הבאה: $\begin{cases} 5^{2x}-5^y=5^x-25 \\ y-x=2 \end{cases}$.

3) פתור את מערכת המשוואות הבאה: $\begin{cases} \frac{1}{3^y-4}+\frac{3}{3^x-2}-\frac{1}{3^x+2}=3 \\ 4^y=\sqrt{256^x} \end{cases}$.

4) פתור את מערכת המשוואות הבאה: $\begin{cases} 5^x+2^y=13 \\ 2\cdot 5^x-2^y=2 \end{cases}$.

5) פתור את מערכת המשוואות הבאה: $\begin{cases} 2\cdot 3^x-3\cdot 2^y=42 \\ 3^{x+1}-2^{y+1}=73 \end{cases}$.

6) פתור את מערכת המשוואות הבאה: $\begin{cases} 5^{2x+1}+8\cdot 10^x-2^{2y+4}=0 \\ \left(\sqrt{3}\right)^y=27^{\frac{x-1}{6}} \end{cases}$.

7) פתור את מערכת המשוואות הבאה: $\begin{cases} 6\cdot 4^x-7\cdot 6^{y-1}+2\cdot 3^{x+y}=6^y \\ \sqrt[4]{5^x}\cdot\sqrt{\left(5\sqrt{5}\right)^y}=\sqrt[4]{125}\cdot 5^x \end{cases}$.

תשובות סופיות:

1) $(2,9)$ 2) $(0,2)$, $(2,4)$ 3) $(1,2)$ 4) $(1,3)$

5) $(3,2)$ 6) $(-1,-2)$ 7) $(1,2)$, $(-1,0)$

אי שוויונים מעריכיים:

סיכום כללי:

פתרון אי-השוויון: $a^x > a^y$ הוא: $x > y$ עבור: $a > 1$ ו- $x < y$ עבור: $0 < a < 1$.

שאלות:

פתור את אי השיוויונים הבאים:

1) $3^{2x+1} < 27^{1-\frac{1}{3}x}$

2) $\sqrt{2^x} \le 4^{x^2-1\frac{1}{4}}$

3) $e^{\sqrt{x}+1} > e^{2x}$

4) $\left(\frac{1}{7}\right)^{5x} \ge \left(\frac{1}{7}\right)^{1-3x}$

5) $25^x + 5 < 6 \cdot 5^x$

6) $e^{2x} - 2e^x + 1 \le 0$

הערה:

השאלות הבאות דורשות הכרות עם מושג הלוגריתם הטבעי (ln) וכן חוקי הלוגריתמים אשר ילמדו בהמשך.

7) $e^x > 3$

8) $e^{2x} - 5e^x + 4 > 0$

תשובות סופיות:

1) $x < \frac{2}{3}$

2) $x \ge 1\frac{1}{4}$ או $x \le -1$

3) $0 \le x < 1$

4) $x \le \frac{1}{8}$

5) $0 < x < 1$

6) $x = 0$

7) $x > \ln 3$

8) $x > \ln 4$ או $x < 0$

אי-שוויונים עם משתנה בבסיס ובמעריך:

סיכום כללי:

דרך הפתרון של אי שוויון עם משתנה בבסיס ובמעריך:

- יש לדרוש בסיס חיובי ולחבר אי-שוויון בהתאם.
- יש לפתור את אי השוויון לפי השוואת מעריכים.
- יש למצוא את חיתוך הפתרונות.

נתון: $f(x)^{g(x)} > f(x)^{h(x)}$ נדרוש: $f(x)>0$.

דרך הפתרון: אם: $f(x)>1$ אז: $g(x)>h(x)$.

אם: $0<f(x)<1$ אז: $g(x)<h(x)$.

לבסוף נמצא את חיתוך התחומים.

שאלות:

פתור את אי השוויונים הבאים:

1) $x^{2x-1} > x^{x+2}$

2) $(x-2)^{2x-5} < (x-2)^{x+1}$

3) $x^{2x-6} < 1$

4) $x^{2x^2+2} < x^{5x}$

5) $(x^2-6x+13)^{x^2-2x} \geq (x^2-6x+13)^3$

6) $(x+1)^{|x|} < x^2+2x+1$

תשובות סופיות:

1) $0<x<1\ ,\ x>3$.

2) $3<x<6$.

3) $1<x<3$.

4) $0<x<0.5\ ,\ 1<x<2$.

5) $x\leq -1\ ,\ x\geq 3$.

6) $0<x<2$.

קורס השלמה במתמטיקה

פרק 8 - חוקי הלוגריתמים, משוואות ואי-שוויונים לוגריתמים

תוכן העניינים

1. הגדרת הלוגריתם ומשוואות יסודיות 125
2. חוקי הלוגריתמים 128
3. חישובים עם חזקה לוגריתמית 132
4. מעבר בין בסיסים 133
5. הלוגריתם הטבעי 135
6. משוואות עם בסיסים שונים 137
7. מערכת משוואות לוגריתמיות 138
8. מערכת משוואות לוגריתמיות ומעריכיות 139
9. אי-שוויונים לוגריתמים 140

הגדרת הלוגריתם ומשוואות יסודיות:

סיכום כללי:

הגדרה:

הלוגריתם מוגדר באופן הבא: $\log_a b = x \Leftrightarrow a^x = b$ כאשר: $a \neq 1$, $b > 0$, a.

הסבר:

לוגריתם על בסיס a של b מוגדר בתור החזקה שיש להעלות את a על מנת שיהיה שווה ל- b. ערך חזקה זו הוא x. ערך לוגריתם יכול להיות חיובי, שלילי או אפס. נחשב ערכי לוגריתמים ונפתור משוואות לוגריתמיות ע"י מעבר לפי ההגדרה למשוואה מעריכית מתאימה.

כללים יסודיים בלוגריתמים:

מהגדרת הלוגריתם נובע כי: $\log_a a = 1$ וכן: $\log_a 1 = 0$ לכל $a > 0$, $a \neq 1$.

שאלות:

1) חשב ללא מחשבון את ערכי הביטויים הלוגריתמים הבאים:

א. $\log_2 32$ ב. $\log 1000$ ג. $\log_{25} 5$

ד. $\log_8 4$ ה. $\log_4 \frac{1}{16}$ ו. $\log_a a^4$

ז. $\log_a \frac{1}{a\sqrt{a}}$

2) פתור את המשוואות הלוגריתמיות הבאות (יסודי - שימוש בהגדרת הלוג):

א. $\log_{36} 6 = x$ ב. $\log_2 x = 16$

ג. $\log_{\frac{1}{9}} x = -1.5$ ד. $\log_x 64 = 3$

ה. $\log_x 25 = 2$ ו. $\log_x (3x+4) = 2$

3) פתור את המשוואות הלוגריתמיות הבאות (כללי - שימוש בהגדרת הלוג):

א. $\log_6(4x-2)=1$

ב. $\log_4(4-x)=\frac{1}{2}$

ג. $\log_8(x^4-73)=1$

ד. $\log_3\frac{x+3}{3-3x}=-2$

ה. $\log_x(2x^2+x-12)=2$

ו. $\log_{\sqrt{x+1}}(2x^2-5)=2$

4) פתור את המשוואות הלוגריתמיות הבאות (שימוש בהגדרת הלוג מספר פעמים):

א. $\log_4(\log_3 x)=1$

ב. $3\log_{27}(\log_2(x+3))=1$

ג. $\log_{\frac{1}{16}}(\log_3(5x^2+1))=-\frac{1}{2}$

ד. $\log_6(3+\log_2(6+\log_4(x^2+15)))=1$

5) פתור את המשוואות הלוגריתמיות הבאות (מתקבלת משוואה מעריכית):

א. $\log_2(3^x+37)=6$

ב. $\log_3(3\cdot 2^x-303)=4$

ג. $\log_5(126\cdot 5^x-25)=2x+1$

ד. $3\log_2\left(3\cdot 4^{1+\frac{1}{3}x}-11\cdot 2^{\frac{x}{3}}+3\right)=12+2x$

6) פתור את המשוואות הלוגריתמיות הבאות (הצבה):

א. $(\log_2 x)^4=10000$

ב. $2(\log_3 x)^2+\log_3 x=10$

ג. $\frac{3\cdot\log_{14}x+1}{(\log_{14}x)^2}=4$

ד. $\sqrt{\log_{\frac{1}{81}}x}+\sqrt{\log_{\frac{1}{81}}x+2}=2$

תשובות סופיות:

1) א. 5 ב. 3 ג. $\frac{1}{2}$ ד. $\frac{2}{3}$ ה. -2
ו. 4 ז. -1.5

2) א. $x=\frac{1}{2}$ ב. $x=65,536$ ג. $x=27$ ד. $x=4$
ה. $x=5$ ו. $x=4$

3) א. $x=2$ ב. $x=2$ ג. $x=\pm 3$ ד. $x=-2$ ה. $x=3$ ו. $x=2$

4) א. $x=81$ ב. $x=5$ ג. $x=\pm 4$ ד. $x=\pm 1$

5) א. $x=3$ ב. $x=7$ ג. $x=-1,\ 2$ ד. $x=-6$

6) א. $x=1024,\ \frac{1}{1024}$ ב. $x=9,\ \frac{1}{9\sqrt{3}}$
ג. $x=14,\ \frac{1}{\sqrt[4]{14}}$ ד. $x=\frac{1}{3}$

חוקי הלוגריתמים:

סיכום כללי:

להלן 3 חוקי הלוגריתמים עבור בסיס $a>0\neq 1$ וארגומנטים x ו- y חיוביים:

- מכפלה לסכום: $\log_a(x\cdot y)=\log_a x+\log_a y$.
- מנה להפרש: $\log_a\left(\frac{x}{y}\right)=\log_a x-\log_a y$.
- מקדם למעריך: $\log_a b^n=n\log_a b$ (כאשר $b>0$ ו- n מספר ממשי כלשהו).

שאלות:

שאלות חישוב כלליות:

1) חשב ללא מחשבון את ערכי הביטויים הבאים (שימוש בחוקי הלוגים):

א. $\log_3 12+\log_3 2.25$

ב. $\log_{\frac{1}{5}} 40+\log_{\frac{1}{5}} 12.5+\log_{\frac{1}{5}}\frac{1}{4}$

ג. $\log_2 200-\log_2 100$

ד. $\log_3 60-\log_3 540$

ה. $\log_4 8+\log_4 12-\log_4 6$

ו. $\log_7 1.5-\log_7 147+\log_7 2$

ז. $3\log_5 2-\log_5 1.6$

ח. $\log_{\sqrt{4}} 6.4+2\log_{\sqrt{4}}\sqrt{10}$

ט. $\frac{1}{2}\left(\log_7\frac{7}{2}+\log_7 2\right)+\log_7 14-\frac{1}{3}\log_7 8$

י. $\frac{1}{4}\log 81-\log 1.5-\frac{1}{2}\log 40$

2) חשב ללא מחשבון את ערכי הביטויים הבאים (שימוש בחוקי הלוגים):

א. $\frac{\log_5 16}{\log_5 8}$

ב. $\frac{\log_9 62.5+\log_9 2}{\log_9 0.2}$

ג. $\frac{\log_3 5-\log_3 2+\log_3 50}{\log_3 225-2}$

ד. $\frac{2-2\log_3 4+\log_3 8\frac{8}{9}}{4-\log_3 0.01-2\log_3 18}$

משוואות לוגריתמיות:

3) פתור את המשוואות הבאות (שימוש ישיר בחוקי הלוגריתמים):

א. $\log_2 x+\log_2(x-6)=4$

ב. $\log_3 x+\log_3(x+2)=1$

ג. $\log_2(x+30)-\log_2 x=4$

ד. $\log_5(x+146)-\log_5(x+2)=2$

ה. $2\log_3(2x-1)-\log_3(22x+9)=-1$

ו. $2\log_5(x-2)=\log_5(4x-15)+\log_5 x$

4) פתור את המשוואות הבאות (פתרון בשיטת לוג שווה לוג):

א. $\log_5(4x-3)=\log_5 7$.

ב. $2\log_2(2x-2)-\log_2(16-x)=\log_2(x-1)+1$.

5) פתור את המשוואות הבאות (מתקבלת משוואה מעריכית):

א. $\log_3(3\cdot 5^x+39)=3+\log_3(5^x-3)$.

ב. $\log_2(3-4^{x+1})-\log_2 11=x$.

6) פתור את המשוואות הבאות (שימוש הפוך בחוקי הלוגריתמים):

א. $\log_4 x\cdot\log_4(16x)=8$.

ב. $\log_2\left(\frac{x}{4}\right)\cdot\log_2(1024x)=-11$.

ג. $\log_2 x^2\log_2\left(\frac{x}{16}\right)=-\log_2(64x)$.

ד. $(\log_4 4x)^2=\log_4 4x^2+1$.

ה. $\log_3(9x^2)\cdot\log_3(9x^3)=\log_3\left(\frac{81}{x}\right)+2$.

ו. $\frac{\log_2\left(\frac{x^3}{32}\right)}{(\log_2 x)^2}+\frac{\log_2(2x)}{\log_2 x}=1\frac{7}{9}$.

שאלות הבעה:

7) נתון: $\log_3 2 = a$. הבע באמצעות a את ערכי הביטויים הבאים:

א. $\log_3 16$ ב. $\log_3 6$

ג. $\log_3 24$ ד. $\log_3 1.5$

8) נתון: $\log_2 5 = b$, $\log_2 3 = a$. הבע באמצעות a ו- b את ערכי הביטויים הבאים:

א. $\log_2 45$ ב. $\log_2 60$ ג. $\log_2 \sqrt{7.5}$

9) נתון: $\log_{18} 2 + \log_{18} 3 = a$.

הבע באמצעות a את $\log_{18} 27$ ואת $\log_{18} 16$.

שאלות נוספות:

בכל אחת מהמשוואות הבאות, חשב את ערך הביטוי שמשמאל וקבל את התוצאה מימין:

10) $\log 4 \log 40 + \log 5 \log 16 = \log 64$.

11) $2\log^2 2 + \log 25 \cdot \log 20 = 2$.

12) $\log_{12} 16 \cdot \log_{12} 4 + \log_{12} 9 \cdot \log_{12} 48 = 2$

13) $\log_5 10 \cdot \log_5 75 - \log_5 3 \cdot \log_5 2 - \log_5 3 - \log_5 4 = 2$.

תשובות סופיות:

1) א. 3 ב. -3 ג. 1 ד. -2 ה. 2
ו. -2 ז. 1 ח. 6 ט. 1.5 י. -0.5.

2) א. $\frac{4}{3}$ ב. -3 ג. 1.5 ד. 0.5.

3) א. $x=8$ ב. $x=3,\frac{1}{27}$ ג. $x=2$ ד. $x=4$ ה. $x=3$ ו. $x=4$.

4) א. $x=2.5$ ב. $x=6$.

5) א. $x=1$ ב. $x=-2$.

6) א. $x=16,\frac{1}{256}$ ב. $x=2,\frac{1}{512}$ ג. $x=4,\ 2\sqrt{2}$ ד. $x=4,\frac{1}{4}$
ה. $x=\frac{1}{9},\sqrt[6]{3}$ ו. $x=8,\ \sqrt[7]{2^{15}}$.

7) א. $4a$ ב. $a+1$ ג. $3a+1$ ד. $1-a$.

8) א. $2a+b$ ב. $2+a+b$ ג. $\frac{1}{2}a+\frac{1}{2}b-\frac{1}{2}$.

9) $4(2a-1)\ ,\ 3(1-a)$.

10) הוכחה.

11) הוכחה.

12) הוכחה.

13) הוכחה.

חישובים עם חזקה לוגריתמית:

סיכום כללי:

מהגדרת הלוגריתם ניתן לנסח את הקשר הבא: $a^{\log_a x}=x$ כאשר $a>0\neq 1$.

שאלות:

1) חשב ללא מחשבון את ערכי הביטויים הבאים (חזקה לוגריתמית):

א. $6^{\log_6 8}$ ב. $4^{\log_2 5}$

2) נתונה התבנית: $3\cdot 4^x$. חשב את ערכה עבור:

א. $x=\log_4 7$ ב. $x=\log_4\sqrt{3}$

ג. $x=2\log_4 0.1$ ד. $x=\sqrt{\log_2 5}$

3) נתונה התבנית: $\frac{1}{6}\cdot 9^x-2\cdot 3^x+1$. חשב את ערכה עבור:

א. $x=-1$ ב. $x=\log_3 5$

ג. $x=\log_3\sqrt{6}$

4) חשב:

א. $\left(\frac{1}{6}\right)^{\log_{\sqrt{36}}81}$ ב. $\sqrt[3]{2^{3-\log_{\sqrt{8}}5}}$

תשובות סופיות:

1) א. 8 ב. 25.

2) א. 21 ב. $3\sqrt{3}$ ג. 0.03 ד. 15.

3) א. $\frac{19}{54}$ ב. $-4\frac{5}{6}$ ג. $2-2\sqrt{6}$.

4) א. $\frac{1}{81}$ ב. $\frac{2}{\sqrt[9]{25}}$.

מעבר בין בסיסים:

סיכום כללי:

מעבר מבסיס a לבסיס m (כאשר: $a>0\ \neq 1$ ו-$m>0\neq 1$, וכן: $b>0$)
יתבצע באופן הבא: $\log_a b=\frac{\log_m b}{\log_m a}$.

שאלות:

שאלות חישוב כלליות:

1) חשב את ערכי הביטויים הבאים:

א. $\log_4 7\cdot\log_7 4$

ב. $\log_{0.1} 3\cdot\log_9 1000$

ג. $\log_{\sqrt{3}} 5\cdot\log_{\sqrt{125}} 9$

ד. $\log_4 169\cdot\log_{25} 64\cdot\log_{13} 625$

2) הוכח את השוויונים הבאים:

א. $\log_2 25\cdot\log_5 3\cdot\log_9 2=1$.

ב. $\log_{16} 9\cdot\log_5 4\cdot\log_3 5=1$

משוואות לוגריתמיות:

3) פתור את המשוואות הבאות:

א. $\log_2 x+\log_{32} x=6$

ב. $\log_3 x\cdot\log_{27} x=3$

ג. $\log_2 4x\cdot\log_8\frac{x}{16}=-\frac{5}{3}$

ד. $\log_x 5-6\log_{125} x=1$

שאלות הבעה:

4) נתון: $\log_4 6=a$. הבע באמצעות a את ערכי הביטויים הבאים:

א. $\log_2 3$

ב. $\log_{32} 36$

ג. $\log_{216} 96$.

5) נתון: $\log_3 5=b$, $\log_2 3=a$. הבע באמצעות a ו- b את ערכי הביטויים הבאים:

א. $\log_3 50$

ב. $\log_2\sqrt{30}$

ג. $\log_5 22.5$

6) נתון $\log 9 = 2b$, $\log_3 7 = a$. הבע באמצעות a ו- b את:

א. $\log 21$.

ב. $\log_3\left(\frac{10}{7}\right)$.

ג. $\log_7 10$.

ד. $\log_{30} 63$.

שאלות נוספות:

בכל אחת מהמשוואות הבאות, חשב את ערך הביטוי שמשמאל וקבל את התוצאה מימין:

7) $\log_6 9 \cdot \log_{15} 30 + \log_6 5 \cdot \log_{15} 4 = 2$.

8) $\log\sqrt{3} \cdot \log_6 50 + \log\sqrt{2} \cdot \log_6 300 = 1$.

תשובות סופיות:

1) א. 1 ב. -1.5 ג. $2\frac{2}{3}$ ד. 12.

2) א. שאלת הוכחה. ב. שאלת הוכחה.

3) א. $x = 32$ ב. $x = 27, \frac{1}{27}$ ג. $x = 8, \frac{1}{2}$ ד. $x = \frac{1}{5}, \sqrt{5}$.

4) א. $2a - 1$ ב. $0.8a$ ג. $\frac{a+2}{3a}$.

5) א. $2b + \frac{1}{a}$ ב. $\frac{a}{2} + \frac{ab}{2} + \frac{1}{2}$ ג. $\frac{2}{b} + 1 - \frac{1}{ab}$.

6) א. $b + ab$ ב. $\frac{1}{b} - a$ ג. $\frac{1}{ab}$ ד. $\frac{ab+2b}{b+1}$.

7) הוכחה.

8) הוכחה.

הלוגריתם הטבעי:

סיכום כללי:

לוגריתם על בסיס e (קבוע אוילר) מסומן: $\log_e \Rightarrow \ln$ והוא נקרא הלוגריתם הטבעי.

למשל: $\ln 3 = \log_e 3$ או $\ln\frac{1}{4} = \log_e \frac{1}{4}$. לוג זה נקרא בשם לן.

מהגדרת הלוגריתם מתקיים: $\ln a = b \to e^b = a$ כאשר $a > 0$ ו- b מספרים כלשהם.

שאלות:

1) חשב ללא מחשבון את ערכי הביטויים הלוגריתמיים הטבעיים הבאים:

א. $\ln e^2$ ב. $\ln\frac{1}{e^4}$ ג. $\ln\frac{1}{e\sqrt{e}}$

2) פתור את המשוואות הלוגריתמיות הבאות (שימוש בהגדרת הלוג):

א. $\ln x = 2$ ב. $\ln x = -\frac{1}{2}$

3) פתור את המשוואות הבאות (הצבה וחוקי הלוגריתמים):

א. $\ln\left(e^{2x} - \frac{1}{2}\right) + \ln 2 = x$

ב. $3\ln^2 x + \ln x = 2$

ג. $\ln\left(e^2 x^3\right) \cdot \ln\frac{1}{x} = \ln\left(ex^2\right)$

4) פתור את המשוואות הלוגריתמיות הבאות (הוצאת לוג משני אגפי המשוואה)

א. $x^{\ln x} = e^6 x$ ב. $\left(\frac{1}{x}\right)^{2-3\ln x} = \frac{1}{e} \cdot x^{1+\ln x}$

5) חשב ללא מחשבון את ערכי הביטויים הבאים (חזקה לוגריתמית):

א. $e^{\ln 3}$ ב. $e^{2\ln 3}$

תשובות סופיות:

1) א. 2 ב. -4 ג. -1.5.

2) א. $x=e^2$ ב. $x=\frac{1}{\sqrt{e}}$.

3) א. $x=0$ ב. $x=\sqrt[3]{e^2},\frac{1}{e}$ ג. $x=\frac{1}{\sqrt[3]{e}},\frac{1}{e}$.

4) א. $x=e^3,\frac{1}{e^2}$ ב. $x=\sqrt{e},e$.

5) א. 3 ב. 9.

משוואות עם בסיסים שונים:

סיכום כללי:

לעיתים תתקבל משוואה מעריכית שבה לא ניתן למצוא חזקה שלמה, כגון: $3^x = 4$.
במקרים אלו נעזר בהגדרת הלוג כדי לבטא את ערך המעריך: $x = \log_3 4$.

את ערך הביטוי $\log_3 4$ ניתן לחשב ע"י מחשבון או ע"י מעבר לבסיס 10: $\log_3 4 = \frac{\log 4}{\log 3}$.

שאלות:

1) פתור את המשוואות הבאות (בסיסים שונים):

א. $3^x = 6$ ב. $2^x - 9 = 0$

ג. $49^x - 8 \cdot 7^x + 15 = 0$ ד. $2 \cdot 3^{\frac{2x}{3}} + 5 \cdot 3^{\frac{x}{3}} + 2 = 0$

2) פתור את המשוואות הבאות (משוואות עם בסיס ולוגריתם טבעי):

א. $e^{3x} = 3$ ב. $4 + 3e^x = 9$

ג. $3e^{2x} - 4e^x + 1 = 0$ ד. $e\left(e^x + 1\right) = 2\sqrt{e^{x+2}} + 9e$

3) פתור את המשוואות הבאות (משוואות כלליות עם פתרונות לא שלמים):

א. $\log_2\left(7 - 5^x\right) = \log_2 \frac{10}{5^x}$ ב. $\log_2\left(4e^{2x} + 6\right) - 1 = \log_2\left(7e^x\right)$

תשובות סופיות:

1) א. $x = \log_3 6 = 1.63$ ב. $x = \log_2 9 = 3.17$

ג. $x = \log_7 3 = 0.564$, $x = \log_7 5 = 0.827$ ד. אין פתרון.

2) א. $x = \frac{1}{3}\ln 3 = 0.36$ ב. $x = \ln\frac{5}{3} = 0.51$ ג. $x = 0$, $x = -\ln 3 = -1.09$

ד. $x = \ln 16 = 2.7725$.

3) א. $x = 1$, $x = \log_5 2 = 0.43$ ב. $x_1 = \ln\frac{1}{2} = -0.693$, $x = \ln 3 = 1.098$

מערכת משוואות לוגריתמיות:

שאלות:

פתור את מערכות המשוואות הבאות:

1) $\begin{cases} y=\log_2 x \\ y=6-\log_2 x \end{cases}$

2) $\begin{cases} \log_6^2 x-\log_6(2y-2)=2 \\ \frac{1}{2}x=y-1 \end{cases}$

3) $\begin{cases} \log_3(x+y)=\log_3(4x+y)-2 \\ \log_5(5x+3y)=2 \end{cases}$

4) $\begin{cases} \log_2(\log_3(x-y))=1 \\ \log_5(x+y-11)=\log_{25}x+\frac{1}{2}\log_5(y+2) \end{cases}$

5) $\begin{cases} \log_5 x+6\log_4 y=11 \\ 10\log_5 x-2\log_4 y=17 \end{cases}$

6) $\begin{cases} \log_2 x^2+\log_3\frac{1}{y}=9 \\ \log_2\sqrt{x}+\log_{\sqrt[3]{3}} y=-1 \end{cases}$

7) $\begin{cases} \log_5 x+2^{\log_2 y}=6 \\ x^y=5^8 \end{cases}$

8) $\begin{cases} xy=27 \\ x^{\log_3 y}=9 \end{cases}$

9) $\begin{cases} 2^{\log_{\frac{1}{2}}(2x-y)}=7^{\log_7\frac{2x+y}{15}} \\ \log_3 x+\log_3 y=\frac{1}{\log_{28}3} \end{cases}$

תשובות סופיות:

1) $(8,3)$

2) $(36,19),\left(\frac{1}{6},1\frac{1}{12}\right)$

3) $(8,-5)$

4) $(16,7)$

5) $(25,8)$

6) $\left(16,\frac{1}{3}\right)$

7) $(25,4),(625,2)$

8) $(3,9),(9,3)$

9) $(4,7)$

מערכת משוואות לוגריתמיות ומעריכיות:

שאלות:

פתור את מערכות המשוואות הבאות:

1) $\begin{cases} y=\log_2\left(4^x-2\right) \\ y=2x-1 \end{cases}$

2) $\begin{cases} 25^y=\left(5\sqrt{5}\right)^{x+1} \\ \log_5\sqrt{x}+\log_5\sqrt{y}=\log_5 3 \end{cases}$

3) $\begin{cases} 3y+5\log_6 x=1 \\ 216\cdot x^{2-y}=6^{1-4y} \end{cases}$

4) $\begin{cases} x\cdot\log_2 3=\dfrac{y}{\log_9 2} \\ \log_3\left(9^x+27\right)=2y+\log_3 12 \end{cases}$

5) $\begin{cases} \left(2^x-1\right)^2-4y+3=0 \\ x=\log_2\left(y+1\right) \end{cases}$

6) $\begin{cases} x=\log_4\left(5-9^y\right) \\ \log_2\left(2^x+3\right)=\log_4\left(29-\left(3^y-3\right)^2\right) \end{cases}$

תשובות סופיות:

1) $(1,1)$

2) $(3,3)$

3) $(36,-3),\left(6,-1\frac{1}{3}\right)$

4) $\left(1,\frac{1}{2}\right),(2,1)$

5) $(1,1),(2,3)$

6) $(1,0)$

אי-שוויונים לוגריתמים:

סיכום כללי:

פתרון אי-השוויון: $\log_a x > \log_a y$ הוא: $x > y$ עבור: $a > 1$ ו- $x < y$ עבור: $0 < a < 1$.

שאלות:

פתור את אי-השוויונים הבאים:

1) $\log_2 x < \log_2 (5x - 20)$

2) $\log_6 (x^2 - 5x) < 1$

3) $\log_3 x > \log_9 (15 - 2x)$

4) $\log_{\frac{1}{2}} (1 - 3x) \geq \log_{\frac{1}{2}} (7 - x)$

5) $\ln x \geq \ln (x^2 - 12)$

6) $\ln x < 3$

7) $\ln^2 x - 6 \ln x < 7$

8) $\frac{6}{\ln^2 x} \geq 2 - \frac{1}{\ln x}$

תשובות סופיות:

1) $x > 5$

2) $-1 < x < 0 \ , \ 5 < x < 6$

3) $3 < x < 7\frac{1}{2}$

4) $-3 \leq x \leq \frac{1}{3}$

5) $2\sqrt{3} < x \leq 4$

6) $0 < x < e^3$

7) $\frac{1}{e} < x < e^7$

8) $\frac{1}{\sqrt{e^3}} \leq x \leq e^2$ וגם $x \neq 1$

קורס השלמה במתמטיקה

פרק 9 - בעיות גדילה ודעיכה

תוכן העניינים

1. שאלות חימום 141
2. שאלות העוסקות במציאת הכמות הסופית 145
3. שאלות העוסקות במציאת הכמות ההתחלתית 146
4. שאלות העוסקות במציאת אחוז הגדילה או דעיכה 147
5. שאלות העוסקות במציאת הזמן 148
6. שאלות שונות 149

שאלות חימום:

סיכום כללי:

הגדרת בעיית גדילה ודעיכה מערכית:

הכמות לאחר פרק זמן t, המסומנת M_t, כאשר הכמות ההתחלתית היא M_0 וקצב הגידול/דעיכה הוא q ניתנת ע"י הנוסחה הבאה: $M_t = M_0 \cdot q^t$.

כאשר הגדילה או הדעיכה נתונים באחוזים נמצא את הבסיס לפי: $q = \frac{100 \pm p}{100}$.

שאלות:

1) מצא את שיעור הגדילה/דעיכה מתוך אחוז הגדילה/דעיכה הנתון בבעיה.

א. מחיר מוצר גדל ב-20% לשנה.
ב. מחיר מוצר יורד ב-40% לשנה.
ג. אוכלוסייה מתרבה ב-5% לשנה.
ד. מחיר דירה עולה ב-15% לשנה.
ה. כמות דבורים גדלה פי 2 כל יום.
ו. מחירו של פסל גדל פי 3 כל שנה.
ז. רכב מאבד רבע מערכו בכל שנה.
ח. מנייה מאבדת מחצית מערכה כל חודש.

2) מצא את אחוזי הגדילה/דעיכה מתוך הבסיסים הבאים:

א. $q = 1.2$
ב. $q = 1.6$
ג. $q = 0.85$
ד. $q = 0.72$

3) מצא את M_0:

א. $107.2 = M_0 \cdot 1.05^6$
ב. $70.8 = M_0 \cdot 1.12^4$
ג. $2213.68 = M_0 \cdot 1.4^8$

4) מצא את q:

א. $25=10\cdot q^{6}$

ב. $512.36=6\cdot 10^{7}\cdot q^{40}$

ג. $10^{3}=2.4\cdot 10^{6}\cdot q^{25}$

ד. $9.35=7\cdot q^{10.5}$

ה. $6.42\cdot 10^{4}=10^{7}\cdot q^{3\frac{1}{3}}$

ו. $13.25=9.2\cdot q^{12.3}$

5) מצא את t:

א. $10\cdot 1.05^{t}=70$

ב. $62.08^{t}=39.68$

ג. $7\cdot 10^{7}\cdot 0.82^{t}=10^{5}$

6) אוכלוסיית חיידקים מתרבה בכל דקה פי 2.
בשעה 10:30 בדקו במעבדה מדגם ובו 50 חיידקים.

א. כמה חיידקים יהיו כעבור דקה אחת?

ב. כמה חיידקים יהיו כעבור שתי דקות?

ג. כמה חיידקים יהיו בשעה 10:50?

7) כמות של חומר רדיואקטיבי קטנה בצורה מעריכית בכל שבוע ב-2.8%.
במעבדה נשקלה כמות של 2000 גרם של החומר.

א. מה תהיה כמות החומר כעבור שבועיים?

ב. מה תהיה כמות החומר כעבור שלושה חודשים?

ג. האם תישאר כמות מסוימת מהחומר כעבור שנה בת 52 שבועות?

8) מחירו של מוצר לאחר 3 שנים הוא 250 ₪. ערך המוצר יורד ב-25% מדי שנה.
מה היה מחירו ההתחלתי?

9) שרון רצה בכל יום מרחק הגדול ב-10% מאשר ביום הקודם.
ידוע כי שרון רצה מרחק של 2.5 ק"מ ביום השביעי.
כמה ק"מ רצה שרון ביום הראשון?

10) אוכלוסייה במדינה מסוימת מתרבה בצורה מעריכית ב-3.1% בשנה.
כיום יש במדינה זו 528,000 תושבים.

א. כמה תושבים יהיו במדינה זו בעוד 3 שנים?

ב. כמה תושבים היו במדינה זו לפני 4 שנים?

11) כמות אצות באגם מתרבה בצורה מעריכית.
בכל שנה גדלה הכמות פי 4 מאשר בשנה שקדמה לה.
כיום יש באגם $2\cdot10^5$ ק"ג אצות.

א. מה תהיה כמות האצות בעוד שנתיים?

ב. מה הייתה כמות האצות לפני שנה?

ג. מה תהיה כמות האצות בעוד שנתיים ושלושה חודשים?

12) מספר תושבים במדינה מסוימת גדל בשיעור קבוע. במשך 10 שנים גדלה האוכלוסייה במדינה מ-5.4 מיליון תושבים ל-7.2 מיליון תושבים.

א. מה הוא קצב הריבוי בכל שנה במדינה?

ב. אם קצב הגידול של האוכלוסייה יישמר, מה יהיה מספר התושבים כעבור 10 שנים נוספות?

13) בגן חיות ספרו את מספר התוכים. בספירה הראשונה נספרו 1200 תוכים.
בספירה השנייה, כעבור 6 חודשים, נספרו 1450 תוכים.

א. מה הוא קצב הגידול החודשי של התוכים?

ב. מה יהיה מספרם של התוכים כעבור שנה וחצי מהספירה הראשונה?

14) כמות העצים ביער גדלה בצורה מעריכית. אם כמות העצים ביער בשנת 1950 הייתה $5\cdot10^4$ טון עצים ובשנת 1990 הייתה 10^7 טון עצים, מה היה אחוז הגידול השנתי (בהנחה שהגידול היה קבוע)?

15) כמות חומר רדיואקטיבי קטנה בצורה מעריכית. החומר נשקל שלוש פעמים ביום מסוים. בשעה 7:00 בבוקר היה משקל החומר 120 ק"ג.
בשעה 10:30 בבוקר היה משקל החומר 95 ק"ג.

א. מהו קצב התפרקות החומר הרדיואקטיבי לחצי שעה?

ב. מה תהיה כמות החומר בשעה 15:00 אחר הצהריים?

16) מכונית מאבדת $\frac{5}{8}$ מערכה במשך 10 שנים.

א. מהו קצב ירידת הערך של המכונית בכל שנה?

ב. איזה אחוז מערכה תאבד המכונית כעבור 15 שנה?

17) מספר התושבים במדינה מסוימת גדל פי 3.5 ב-40 שנים.

א. מצא מהו אחוז הריבוי השנתי.

ב. מצא פי כמה יגדל מספר התושבים כעבור 58 שנים?

תשובות סופיות:

1) א. 1.2 ב. 0.6. ג. 1.05. ד. 1.15.
ה. 2. ו. 3. ז. 0.75 ח. 0.5.

2) א. 20% גדילה ב. 60% גדילה ג. 15% דעיכה ד. 28% דעיכה.

3) א. 80. ב. 45. ג. 150.

4) א. 1.165. ב. 0.7469. ג. 0.732. ד. 1.028.
ה. 0.22. ו. 1.03.

5) א. 39.88 ב. 0.89 ג. 33.01.

6) א. 100. ב. 200. ג. 52,428,800.

7) א. 1889.56 גרם. ב. 1422.4 גרם. ג. כן. 456.747 גרם.

8) 592.6 ₪.

9) 1.41 ק״מ.

10) א. 578,642 תושבים. ב. 467,304 תושבים.

11) א. 3,200,000 ק״ג ב. 50,000 ק״ג. ג. 4,525,483.4 ק״ג.

12) א. 1.029. ב. 9.6 מיליון תושבים.

13) א. 1.032. ב. 2117 תוכים.

14) 14.16%.

15) א. 0.9671. ב. 70.35 גרם.

16) א. 0.90657. ב. 77.1%.

17) א. 3.18% ב. 6.15.

שאלות העוסקות במציאת הכמות הסופית:

שאלות:

1) מספר החסידות המגיעות כל שנה לאגם החולה יורד בצורה מעריכית בקצב של 2.4% בשנה. אם מספר החסידות שהגיעו השנה היה 6,000, מה יהיה מספר החסידות שיגיעו עוד 7 שנים?

2) מספר התושבים בהרצליה בשנת 1990 היה 80,000. אחוז הגידול באוכלוסיית העיר הוא 3% בשנה. מה יהיה מספר התושבים בהרצליה בשנת 1998?

תשובות סופיות:

1) 5,062 חסידות.

2) 101,342 תושבים.

שאלות העוסקות במציאת הכמות ההתחלתית:

שאלות:

3) מספר הזברות בטנזניה גדל בצורה מעריכית בקצב של 1.6% בשנה.
כיום יש בטנזניה 45,000 זברות. כמה זברות היו בטנזניה לפני 16 שנים?

תשובות סופיות:

3) 34,907 זברות.

שאלות העוסקות במציאת אחוז הגדילה או דעיכה:

שאלות:

4) מספר הלידות בבית החולים "איכילוב" גדל בצורה מעריכית.
לפני 8 שנים היו ב"איכילוב" 500 לידות בחודש והשנה יש 600 לידות בחודש.
מהו אחוז הגידול במספר הלידות החודשי משנה לשנה ב"איכילוב"?

5) מספר התושבים ביפן גדל פי 2 תוך 20 שנים.
מה אחוז הגידול השנתי באוכלוסיית יפן?

6) מספר החיידקים במבחנה גדל בצורה מעריכית.
אם לפני 6 שעות היו במבחנה 200 חיידקים ועכשיו יש בה 500 חיידקים,
כמה חיידקים יהיו בה בעוד 4 שעות?

תשובות סופיות:

4) 2.3%.
5) 3.5%.
6) 921 חיידקים.

שאלות העוסקות במציאת הזמן:

שאלות:

7) הריבית על תכנית חיסכון בבנק מסוים היא 2.4% בשנה.
אדם הפקיד בתוכנית החיסכון 12,000 ₪.
תוך כמה שנים יהיו ברשותו 15,000 ₪?

8) אוכלוסיית הדובים בקוטב הצפוני מכפילה את עצמה כל 18 שנה.
אם היום יש בקוטב הצפוני 6,000 דובים, בעוד כמה שנים יהיו 8,000 דובים?

9) חומר רדיואקטיבי מתפרק בצורה מעריכית. אם בתוך 4 שעות הוא מאבד 20% ממשקלו, תוך כמה זמן יאבד 60% ממשקלו?

10) חומר רדיואקטיבי מתפרק בצורה מעריכית.
אם בתוך 4 שעות הוא מאבד 20% ממשקלו, תוך כמה זמן יאבד 50% ממשקלו?

11) זמן מחצית החיים של חומר רדיואקטיבי הוא 16 ימים.
תוך כמה ימים יאבד שליש ממשקלו?

12) בשעה 08:00 נלקחו שני חומרים רדיואקטיביים. מחומר א' נלקחו 150 גרם וזמן מחצית החיים שלו הוא 10 שעות. מחומר ב' נלקחו 117.4 גרם וזמן מחצית החיים שלו הוא 18 שעות. באיזו שעה משקל החומרים יהיה זהה?

תשובות סופיות:

7) 9.41 שנים.
8) 7.47 שנים.
9) 16.43 שעות.
10) 12.43 שעות.
11) 9.43 ימים.
12) 16:00

שאלות שונות:

שאלות:

13) בנק א' נותן ריבית של 3% כל שנתיים בתוכנית חיסכון מסוימת.
בנק ב' נותן ריבית של 4.5% כל 3 שנים בתוכנית חיסכון אחרת.
אדם מתכוון להפקיד סכום כסף מסוים לתקופה של 18 שנה.
באיזה בנק כדאי לו להשקיע את כספו?

14) נתונות שתי תרביות חיידקים, כל אחת גדלה בצורה מעריכית.
בשעה מסוימת בתרבית א' היו 4,000 חיידקים ובתרבית ב' היו 500 חיידקים.
נסמן:
t_1 - הזמן שחלף עד שבתרבית א' היו פי 2 חיידקים מאשר בתרבית ב'.
t_2 - הזמן שחלף עד שבתרבית ב' היו פי 2 חיידקים מאשר בתרבית א'.
חשב את היחס $\frac{t_1}{t_2}$.

15) מספר החיידקים בתרבית גדל ב- $p\%$ בכל שעה.
בשעה מסוימת מספר החיידקים היה m. כעבור t שעות הוציאו m חיידקים מהתרבית וכעבור עוד t שעות היו $6m$ חיידקים בתרבית.
הבע את t באמצעות p.

הערה:
שאלות 16-17 עוסקות בפתרון בעיות קיצון מעריכיות.

16) נתונה הפונקציה: $f(x)=700\cdot 1.08^x-200x$.
מצא את ערך ה- x של נקודת הקיצון של הפונקציה וקבע את סוגה.

17) נתונות שתי בריכות דגים. בבריכה א' קצב הריבוי של מספר הדגים הוא 10% בחודש ובבריכה ב' הוא 20% בחודש. כמות הדגים בבריכה א' גדולה פי 5 מכמות הדגים בבריכה ב'. בעוד כמה חודשים לערך ההפרש בין כמות הדגים בבריכה א' לכמות הדגים בבריכה ב' יהיה מקסימלי?

18) כמות עצים ביער גדלה בצורה מעריכית לפי אחוז ריבוי של 15% לשנה.
בשנת 1990 נספרו כמות עצים מסוימת ביער. בשנת 2000 כרתו 30,000 עצים ולאחר 5 שנים נוספות, בשנת 2005, נספרו ביער 753365 עצים.
מצא כמה עצים היו ביער בשנת 1990.

19) ערכה של דירה יורד מדי שנה באחוז קבוע של 6%. ידוע כי ערך הדירה לאחר 10 שנים מיום מכירתה נמוך ב-35,000 ₪ ממחירה המקורי.

א. מצא את המחיר ההתחלתי של הדירה.

ב. מצא לאחר כמה שנים ערך הדירה ירד מתחת ל-30,000 ₪.

20) שני בנקים מציעים שתי תכניות חיסכון כלהלן:
בנק א' מציע תכנית חיסכון ל-8 שנים שבסופה סכום הקרן יגדל ב-80%.
בנק ב' מציע תכנית חיסכון ל-6 שנים שבסופה סכום הקרן יגדל ב-60%.

א. באיזה בנק אחוז הריבית השנתית גבוה יותר?

ב. דני משקיע סכום כסף k לפי תכנית חיסכון של בנק א' ובתום התוכנית הוא מעביר את הסכום שעומד לרשותו לתכנית החיסכון של בנק ב'.
רפי משקיע סכום כסף זהה k לפי תכנית חיסכון של בנק ב' ובתום התכנית הוא מעביר את הסכום שעומד לרשותו לתכנית החיסכון של בנק א'.
למי יהיה סכום גדול יותר בתום שתי התכניות?
נמק את תשובתך והראה חישוב מתאים.

21) שווי שתי מכוניות המוצעות למכירה הוא:
מכונית א' - 60,000 ₪ ומכונית ב'-85,000 ₪.
ידוע כי ערך מכונית ב' יורד ב-4% בכל שנה
וערך מכונית א' יורד ב-2.5% בכל שנה.

א. מצא בעוד כמה שנים יהיו המחירים של שתי המכוניות זהים.

ב. סיגל רוצה לקנות מכונית ולרשותה עומד סכום של 40,000 ₪.
איזו מכונית תוכל לקנות סיגל קודם ולאחר כמה שנים מיום הצעתן?

22) כמות אצות בים מתרבה בצורה מעריכית. ידוע כי לאחר 40 שנים כמות אצות מכפילה את עצמה. כדי לצמצם את כמות האצות מבצעים עבודות ניקיון מדי שנה ובהן מנקים כ-200 ק"ג אצות. בחוף מסוים היו בשנת 1990 כ-1200 ק"ג אצות.

א. מצא את קצב גידול האצות השנתי.

ב. מצא כמה אצות יהיו בחוף המסוים בשנת 1993 לאחר הניקיון באותה שנה.

23) נתונות שתי כמויות התחלתיות זהות, האחת גדלה בצורה מעריכית והשנייה קטנה בצורה מעריכית. לשתי הכמויות אחוז גדילה/דעיכה קבוע והוא 5%.

א. האם הזמן שבו הכמות הראשונה תגדל לכמות הכפולה מהכמות ההתחלתית שלה שווה לזמן שבו תקטן הכמות השנייה למחצית מהכמות ההתחלתית שלה? נמק והראה חישוב מתאים.

ב. ללא קשר לנתון הקודם, הראה כי כדי ששתי הכמויות יגיעו ליעדיהן באותו הזמן אז הבסיסים שלהן (q_1, q_2) צריכים להיות מספרים הופכיים.

24) כמות חומר רדיואקטיבי קטנה בצורה מעריכית לפי אחוז קבוע p מדי שעה.
ביום מסוים היו k גרם מהחומר. לאחר 3 שעות הוסיפו עוד k גרם לכמות שנותרה ולאחר 3 שעות נוספות מתברר שנשארו k גרם מהחומר. מצא את p.

25) ערך מנייה מסוימת גדל בצורה מעריכית.
ידוע כי בשנת 1980 הייתה המנייה שווה k שקלים.
המנייה גדלה באחוז קבוע של 2% לשנה עד לשנת 1992 ומשם צנחה בקצב של 5% לשנה במשך 8 שנים נוספות.
לאחר מכן גדלה המנייה בקצב שנתי קבוע עד לשנת 2010.
אדם הרוצה לקנות את המנייה שנת 2010 נוכח לדעת כי מחירה הוא $1.5k$.
מצא באיזה אחוז עלתה המנייה לאחר הצניחה שלה.

26) מספר העופות בשמורת טבע גדל לפי אחוז קבוע של 3% לשנה.
בשנה מסוימת נספרו 2300 עופות בשמורה, לאחר 5 שנים הוסיפו לשמורת הטבע 1000 עופות נוספים.

א. מצא כמה עופות יהיו בשמורה לאחר 5 שנים נוספות.

ב. מצא תוך כמה שנים יהיה מספר העופות בשמורה זהה לזה שמצאת בסעיף א' אילולא היו מוסיפים את 1000 העופות הנוספים, אלא אם הייתה גדילה רציפה.

27) אדם מפקיד סכום של 120,000 ₪ לפי ריבית דריבית של 12% בשנה.
כעבור t שנים הוא משך את כל הסכום שעמד לרשותו והפקיד אותו ל-t שנים נוספות בתוכנית חיסכון חדשה לפי ריבית דריבית של 15%. בתום תקופה זו עמד לרשותו סכום של 330,252 ₪.

א. מצא את t.

לאחר תקופה זו הוא מפקיד את סכום הכסף הסופי בתכנית לפי ריבית דריבית מסוימת. לאחר 5 שנים עמד לרשותו סכום של 821,772 ₪.

ב. מצא את אחוז הריבית החדש.

28) ערכן של שתי חלקות אדמה יורד בצורה מעריכית. ידוע כי בזמן שערכה של אדמה א' מגיע למחצית מערכה המקורי, ערכה של אדמה ב' מגיע ל-30% מערכה המקורי. לאחר 50 שנים אדמה א' מאבדת 60% מערכה.

א. מצא את אחוז הדעיכה של אדמה ב'.

ב. ידוע כי לאחר 100 שנים ערכן של שתי האדמות שווה. ערכה המקורי של אדמה ב' הוא 100,000 ₪. מצא את ערכה המקורי של אדמה א'.

29) מספר העופות בשמורת טבע גדל לפי אחוז קבוע של p אחוזים לשנה.
בשנה מסוימת נספרו 3000 עופות בשמורה, לאחר 4 שנים הוסיפו לשמורה 1000 עופות נוספים.

א. מצא את אחוז הגידול השנתי p אם ידוע כי לאחר 4 שנים נוספות היו בשמורת 5647 עופות.

ב. מצא לאחר כמה שנים יהיו 5647 עופות אילולא היו מוסיפים את 1000 העופות הנוספים.

30) בכוורת דבורים ידוע כי בכל 10 שעות כמות הדבורים גדלה פי 1.5.

א. מצא באיזה אחוז גדלה כמות הדבורים בכל שעה.

ב. מוציאים לאחר 10 שעות 3000 דבורים וידוע כי נשארו 1500 דבורים. חשב כמה דבורים היו בתחילה בכוורת.

31) אדם מפקיד k שקלים בתוכנית חיסכון לפי ריבית שנתית של $p\%$. לאחר 5 שנים הוא מושך מהחיסכון k שקלים ולאחר 5 שנים נוספות מתברר כי הצטבר בפיקדון שלו סך הכול $2.5k$ ₪. מצא את p .

32) ערך מנייה מסוימת גדל בצורה מעריכית.
ידוע כי בשנת 1995 הייתה המנייה שווה k שקלים.
המנייה גדלה באחוז קבוע של 5% לשנה עד לשנת 2000 ושם צנחה בקצב של 8% לשנה במשך 6 שנים נוספות. לאחר מכן גדלה המנייה בקצב שנתי קבוע עד לשנת 2010. אדם הרוצה לקנות את המנייה בשנת 2010 נוכח לדעת כי מחירה הוא k . מצא באיזה אחוז עלתה המנייה לאחר צניחתה.

תשובות סופיות:

13) בנק א'.

14) $\frac{t_1}{t_2}=\frac{1}{2}$

15) $t=\frac{\ln 3}{\ln\left(\frac{100+P}{100}\right)}$

16) $x=17.04$, מינימום.

17) 11 חודשים.

18) 100,000 עצים.

19) א. 75,858.5 ₪ ב. לאחר 15 שנים.

20) א. בנק ב' ב. לשניהם אותו הסכום.

21) א. לאחר 22.46 שנים. ב. מכונית א' ולאחר 16 שנים.

22) א. 1.017 ב. 653.48 ק"ג אצות.

23) א. הכמות השנייה תגיע ליעדה לפני הראשונה.

24) 14.82%

25) ב-5.95%

26) א. 4250 עופות. ב. 20.77 שנים.

27) א. $t=4$ ב. $p=20\%$

28) א. 3.13% ב. 25,909 ₪

29) א. 5% ב. 12.96 שנים.

30) א. ב-4.1% ב. 3000 דבורים .

31) 16.63%

32) ב-6.6%

קורס השלמה במתמטיקה

פרק 10 - מבוא לגאומטריה של המישור

תוכן העניינים

1. הגדרות כלליות ..... (ללא ספר)
2. חיבור וחיסור קטעים 154
3. חישובי זוויות וחיבור וחיסור זוויות 155
4. זוויות קדקודיות וזוויות צמודות 157
5. זוויות בין ישרים מקבילים 159

חיבור וחיסור קטעים:

שאלות:

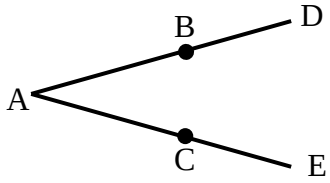

1) באיור שלפניך נתון: $AB = AC$, $BD = CE$.
הוכח: $AD=AE$.

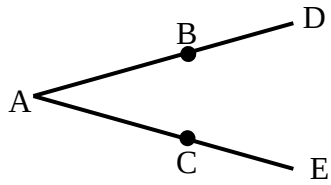

2) באיור שלפניך נתון: $AD = AE$, $AB = AC$.
הוכח: $BD = CE$.

3) הנקודות A, M, N, K, B נמצאות על ישר אחד.
נתון כי: $AM = KB$, $MN = NK$.
הוכח: $AN = BN$.

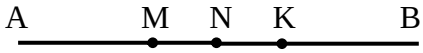

4) בסרטוט שלפניך נתון כי: $BC = AB$, $BE + BC = 2AB$.
הוכח: $AB = BE$.

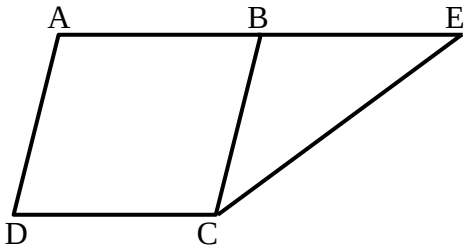

תשובות סופיות:

1) שאלת הוכחה.
2) שאלת הוכחה.
3) שאלת הוכחה.
4) שאלת הוכחה.

חישובי זוויות וחיבור וחיסור זוויות:

שאלות:

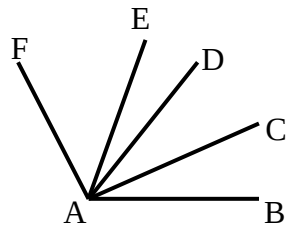

5) נתון: $\sphericalangle FAE = 2\cdot\sphericalangle EAD$, $\sphericalangle CAB = \sphericalangle DAC$.
וכן: $\sphericalangle EAB = 80°$, $\sphericalangle FAD = 60°$.
חשב את הזויות הבאות:
$\sphericalangle FAB$, $\sphericalangle EAC$, $\sphericalangle CAB$.

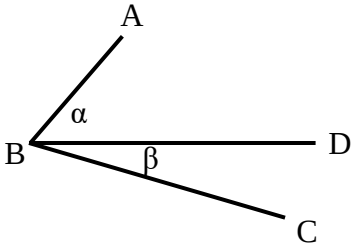

6) באיור שלפניך נתון: $\sphericalangle ABC = 69°$.
נתון כי: $\alpha = 2\beta$ (זוויות סמוכות).
מצא את α ואת β.

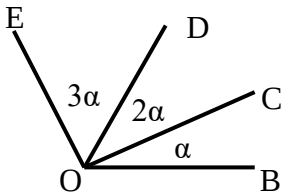

7) באיור שלפניך מספר קרניים היוצאים מהנקודה O.
הנתונים הם: $\sphericalangle EOB = 138°$.
חשב את הזויות הבאות:
$\sphericalangle COB$, $\sphericalangle DOC$, $\sphericalangle EOD$.

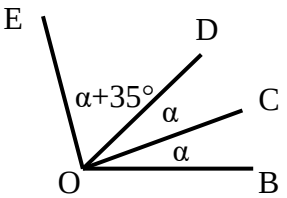

8) באיור שלפניך נתון: $\sphericalangle EOB = 110°$.
שאר הנתונים מופיעים בתרשים.
חשב את הזויות הבאות:
$\sphericalangle DOC$, $\sphericalangle EOC$.

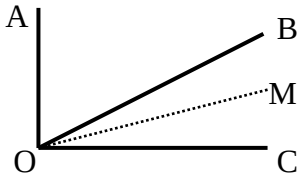

9) נתון האיור הבא ובו: $\sphericalangle AOC = 90°$.
OM חוצה את זווית BOC.
מתקיים: $\sphericalangle AOB = 3\sphericalangle MOC$.
חשב את: $\sphericalangle BOM$, $\sphericalangle AOM$.

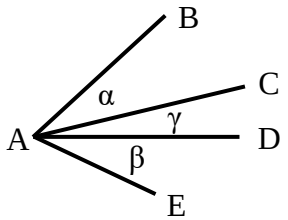

10) בסרטוט שלפניך נתון: $\alpha = \beta$.
הוכח כי: $\sphericalangle BAD = \sphericalangle EAC$.

תשובות סופיות:

5) $\sphericalangle CAB = 30^\circ$, $\sphericalangle EAC = 50^\circ$, $\sphericalangle FAB = 120^\circ$.

6) $\beta = 23^\circ$, $\alpha = 46^\circ$.

7) $\sphericalangle DOE = 69^\circ$, $\sphericalangle COD = 46^\circ$, $\sphericalangle BOC = 23^\circ$.

8) $\sphericalangle DOC = 25^\circ$, $\sphericalangle EOC = 85^\circ$.

9) $\sphericalangle BOM = 18^\circ$, $\sphericalangle AOM = 72^\circ$.

10) שאלת הוכחה.

זוויות קדקודיות וזוויות צמודות:

שאלות:

11) חשב את סכום הזויות הבאות (נמק):
$\sphericalangle 2+\sphericalangle 4+\sphericalangle 6$

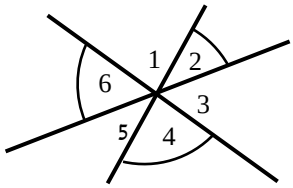

12) באיור שלפניך הזוויות α ו- β הן זוויות צמודות.
ידוע כי: $\alpha=63°$.
מצא את זוית β .

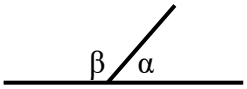

13) באיור שלפניך הזווית CBD היא שטוחה.
כל הזוויות שוות ל- α .
א. חשב את α .
ב. חשב את זוית CBM.

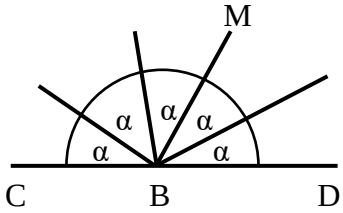

14) בסרטוט שלפניך ידוע:
הזווית AOB היא שטוחה.
נתון: $\alpha=27°$.
הוכח כי: $MO\perp NO$.

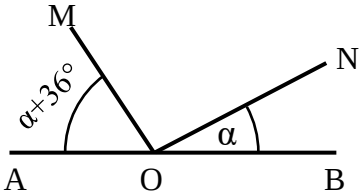

15) הזוויות $\sphericalangle ACD$ ו- $\sphericalangle ACB$ הן צמודות.
ידוע כי CK חוצה זוית ACD.
כמו כן: $\sphericalangle ACB=128°$.
חשב את זוית BCK.

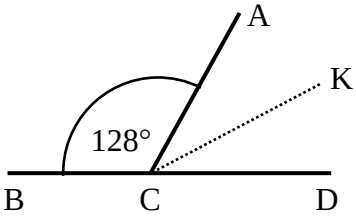

תשובות סופיות:

11) $180°$.

12) $\beta = 117°$.

13) א. $\alpha = 36°$ ב. $\sphericalangle CBM = 108°$.

14) שאלת הוכחה.

15) $\sphericalangle BCK = 154°$.

זוויות בין ישרים מקבילים:

שאלות:

16) קבע בכל מקרה האם הישרים a ו-b מקבילים או שלא. נמק.

א.

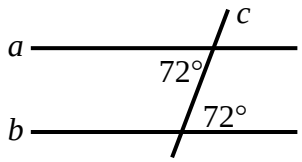

ב.

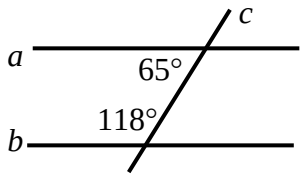

ג.

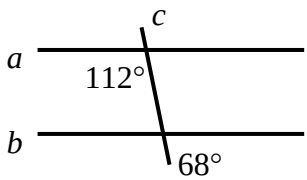

ד.

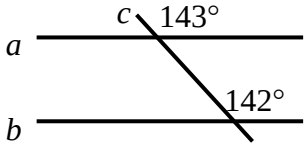

17) הישרים a ו-b מקבילים. מצא את x בכל אחד מהמקרים הבאים:

א.

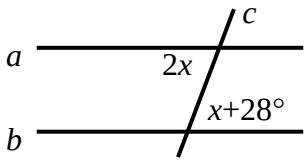

ב.

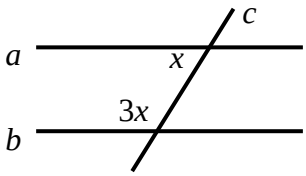

ג.

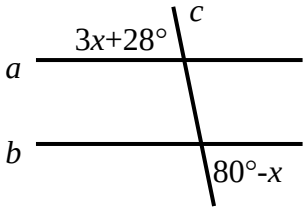

ד.

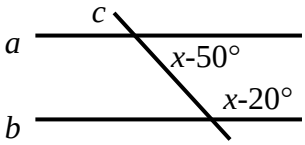

18) מצא את זוגות הישרים המקבילים בסרטוט הבא.
נמק.

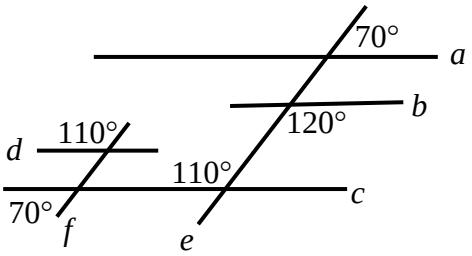

19) בסרטוט שלפניך נתון כי KL הוא קו ישר.
שאר הזוויות מופיעות בתרשים.
הוכח כי: $AB \parallel CD$.

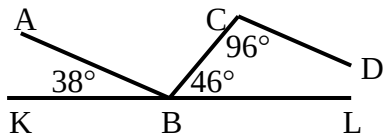

20) באיור שלפניך נתון כי:
$\sphericalangle ABC = \sphericalangle BCD$, $\sphericalangle B_1 = \sphericalangle C_2$.
הוכח כי: $BN \parallel CK$.

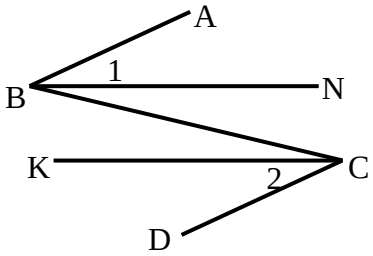

21) באיור שלפניך מופיע קטע ישר DE.
מהנקודה A מעבירים את הקטעים AB ו-AC.
מחברים את BC וידוע כי $BC \parallel DE$.
מעבירים את CD – חוצה זווית C.
נתון: $\sphericalangle A_1 = 68°$, $\sphericalangle A_2 = 85°$.

א. חשב את הזווית $\sphericalangle C_1$.

ב. חשב את הזווית $\sphericalangle B$.

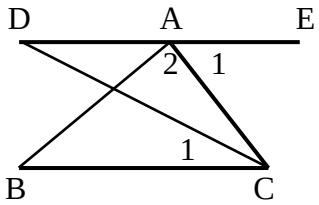

22) בסרטוט שלפניך נתון:
$AB \parallel DE$, $\sphericalangle B = 63°$, $\sphericalangle D = 37°$.
חשב את גודל הזווית BCD.

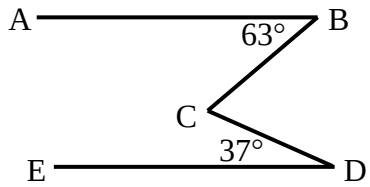

תשובות סופיות:

16) א. כן ב. לא ג. כן ד. לא.

17) א. $28°$ ב. $45°$ ג. $13°$ ד. $125°$.

18) $a \parallel c \parallel d$, $e \parallel f$.

19) שאלת הוכחה.

20) שאלת הוכחה.

21) א. $34°$ ב. $27°$.

22) $\sphericalangle BCD = 100°$.

קורס השלמה במתמטיקה

פרק 11 - גיאומטריה אוקלידית - משולשים

תוכן העניינים

1. הגדרות כלליות 162
2. זוויות במשולשים 164
3. משולש שווה שוקיים ושווה צלעות 167
4. חפיפת משולשים 169
5. זווית חיצונית במשולש 175
6. משולש ישר זווית 176
7. קטע אמצעים במשולש 179
8. מפגש תיכונים במשולש 181

הגדרות כלליות:

סוגי משולשים:

ניתן למיין את המשולשים לפי זוויות או לפי צלעות.
לפי זוויות:

1. משולש חד זווית – משולש שכל זוויותיו חדות.
2. משולש ישר זווית – משולש בעל זווית ישרה.
3. משולש קהה זווית – משולש בעל זווית קהה.

לפי צלעות:

4. משולש שונה צלעות – משולש שבו כל הצלעות שונות באורכן.
5. משולש שווה שוקיים – משולש שבו שתי צלעות שוות.
6. משולש שווה צלעות – משולש שבו כל הצלעות שוות באורכן.

איורים לכל מקרה לפי המספרים:

1. משולש חד זווית:

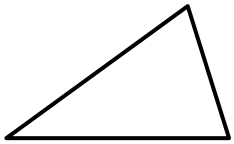

2. משולש ישר זווית:

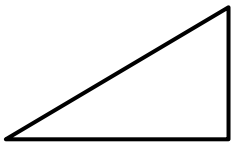

3. משולש קהה זווית:

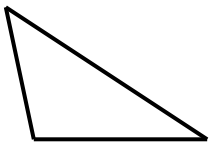

4. משולש שונה צלעות:

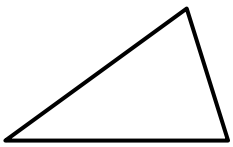

5. משולש שווה שוקיים:

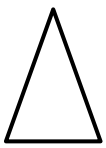

6. משולש שווה צלעות:

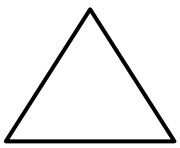

קטעים מיוחדים במשולשים:

1. תיכון – קטע היוצא מקדקוד לצלע שממולו וחוצה אותה.
2. גובה – קטע היוצא מקדקוד לצלע שממולו ומאונך לה.
3. חוצה זווית – קטע היוצא מקדקוד וחוצה את הזווית שממנה הוא יוצא.
4. אנך אמצעי – קטע היוצא מאמצע צלע ומאונך לה.

איורים לכל מקרה לפי המספרים:

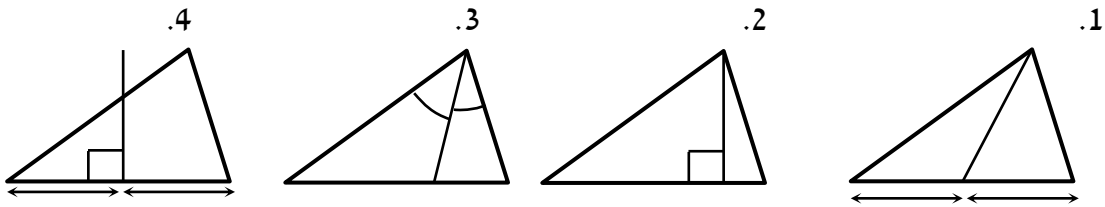

משפטים כלליים במשולשים:

- סכום הזוויות במשולש הוא $180°$.
- סכום שתי צלעות במשולש גדול מהצלע השלישית.
- במשולש מול הזווית הגדולה נמצאת הצלע הגדולה ולהפך.

  במשולש מול הזווית הקטנה נמצאת הצלע הקטנה ולהפך.

  במשולש מול זוויות שוות נמצאות צלעות שוות ולהפך.

זוויות במשולשים:

שאלות:

1) חשב את הזוויות בכל אחד מהמשולשים שלפניך:

א.

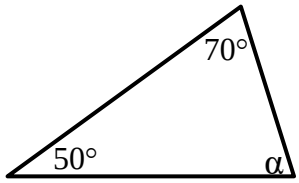

ב.

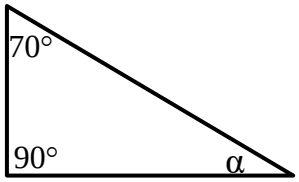

ג.

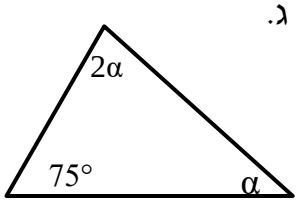

ד.

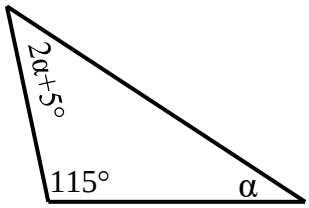

ה.

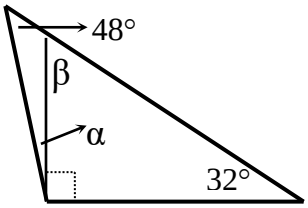

ו.

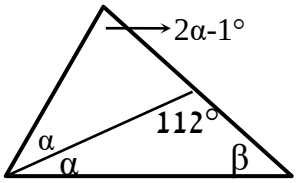

2) במשולש שלפניך נתון AD חוצה זווית A.
נתון: $\sphericalangle B = 40°$, $\sphericalangle C = 56°$.
חשב את הזוויות $\sphericalangle A_1$, $\sphericalangle D_1$.

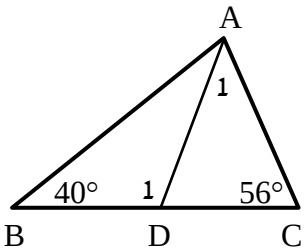

3) נתון משולש ABC ובו AD גובה לצלע BC.
$\sphericalangle D = 90°$ הקטע CE חוצה זווית $\sphericalangle C$.
כמו כן: $\beta = 63°$, $\alpha = 75°$.
חשב את זוויות המשולש ABC .

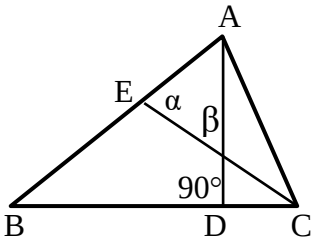

4) בסרטוט שלפניך נתון: $AB \parallel CD$.
מצא את הזוויות α ו- β .

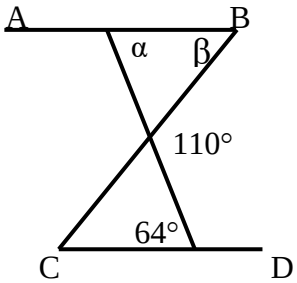

5) שלוש זוויות המשולש מתייחסות זו לזו כמו: 6 : 2 : 1.
חשב את זוויות המשולש.

6) בסרטוטים שלפניך נתונים משולשים שווי שוקיים $(AB = AC)$
שאחת מזוויותיהם נתונה. מצא את הגודל x בכל סרטוט.

א.

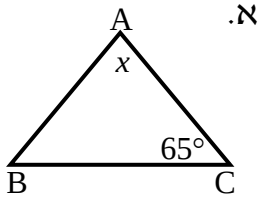

ב.

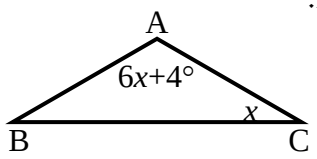

7) הגובה לשוק המשולש שווה השוקיים ABC , $(AB = AC)$
יוצר זווית בת $24°$ עם הבסיס BC.
מצא את זוויות המשולש ABC.

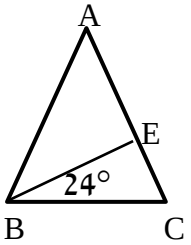

8) חשב את זוויות המשולשים בכל אחד מהמקרים הבאים:

א. במשולש שווה שוקיים, זווית הבסיס גדולה פי ארבעה מזווית הראש.
מצא את זוויות המשולש.

ב. במשולש שווה שוקיים, זווית הבסיס גדולה ב- $12°$ מזווית הראש.
מצא את זוויות המשולש.

9) באיור שלפניך נתון: $AB = AC$, $AD = AE$, $\sphericalangle A = 40°$.

א. חשב את הזוויות: $\sphericalangle E$, $\sphericalangle D$, $\sphericalangle C$, $\sphericalangle B$.

ב. הוכח: $DE \parallel BC$.

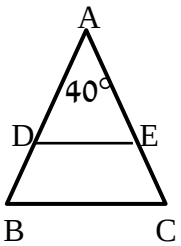

10) באיור שלפניך נתון: $AB = AC$.
מעבירים את הקטעים BN ו- MN כך שמתקיים:
$BM = BN = BC$.
נתון בנוסף: $\sphericalangle A = 32°$.
חשב את זוויות: $\sphericalangle ANM$, $\sphericalangle B_1$.

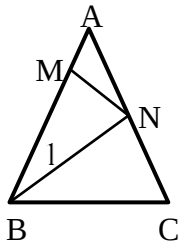

11) משולש ABC הוא שווה שוקיים $(AB = AC)$.
בנקודה K כלשהי על AB מעלים אנך ל- AB $(\sphericalangle K = 90°)$.
אנך זה חותך את BC בנקודה E
ואת המשך AC בנקודה N.
מתקיים: $CE = CN$.
חשב את זוויות המשולש ABC .

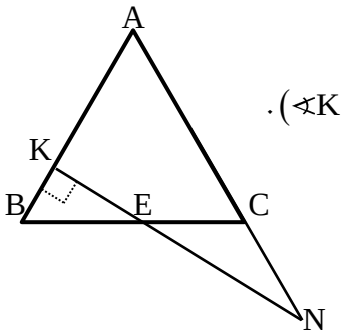

תשובות סופיות:

1) א. $\alpha = 60°$ ב. $\alpha = 20°$ ג. $\alpha = 35°$ ד. $\alpha = 20°$
ה. $\alpha = 10°$, $\beta = 58°$ ו. $\alpha = 37\frac{2}{3}°$, $\beta = 30\frac{1}{3}°$.

2) $\sphericalangle A_1 = 42°$, $\sphericalangle D_1 = 98°$

3) $\sphericalangle A = 78°$, $\sphericalangle B = 48°$, $\sphericalangle C = 54°$.

4) $\alpha = 64°$, $\beta = 46°$.

5) $20°$, $40°$, $120°$.

6) א. $x = 50°$ ב. $x = 22°$.

7) $\sphericalangle A = 48°$, $\sphericalangle B = \sphericalangle C = 66°$.

8) א. $20°$, $80°$, $80°$ ב. $52°$, $64°$, $64°$

9) א. $\sphericalangle B = \sphericalangle C = \sphericalangle D = \sphericalangle E = 70°$. ב. שאלת הוכחה

10) א. $\sphericalangle ANM = 37°$, $\sphericalangle B_1 = 42°$.

11) $\sphericalangle A = \sphericalangle B = \sphericalangle C = 60°$.

משולש שווה שוקיים ושווה צלעות:

סיכום כללי:

משפטים במשולש שווה שוקיים:

- במשולש שווה שוקיים זוויות הבסיס שוות זו לזו.
  (משפט הפוך) משולש שבו שתי זוויות שוות הוא משולש שווה שוקיים.
- במשולש שווה שוקיים חוצה זווית הראש, הגובה לבסיס והתיכון לבסיס מתלכדים.
  (משפט הפוך) משולש שבו חוצה זווית הוא גם גובה או חוצה זווית הוא גם תיכון
  או גובה הוא גם תיכון הוא משולש שווה שוקיים.

משפטים במשולש שווה צלעות:

- במשולש שווה צלעות כל הזוויות שוות $60°$.
  (משפט הפוך) משולש שבו כל הזוויות שוות הוא משולש שווה צלעות.

איורים:

משפט במשולש שווה שוקיים

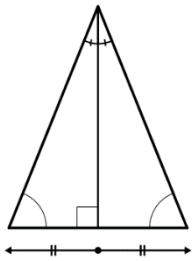

משפט במשולש שווה צלעות

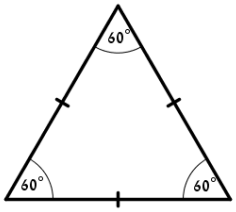

שאלות:

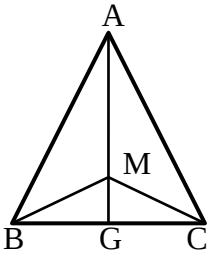

12) המשולש ABC שבציור הוא שווה שוקיים (AB=AC) .
AG חוצה את זווית $\sphericalangle A$.
M היא נקודה כלשהי על AG.
הוכח כי: BM = CM .

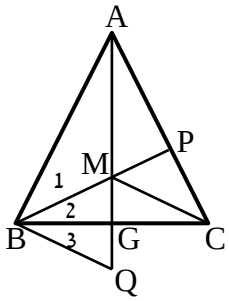

13) המשולש ABC שבציור הוא שווה שוקיים (AB=AC) .
AG ו-BP חוצים את הזוויות $\sphericalangle A$ ו-$\sphericalangle ABC$ בהתאמה.
הנקודה Q נמצאת על המשך AG .
נתון: GM = GQ .
הוכח: $\sphericalangle B_1 = \sphericalangle B_3$.

תשובות סופיות:

12) שאלת הוכחה.
13) שאלת הוכחה.

חפיפת משולשים:

סיכום כללי:

הגדרה:

משולשים חופפים הם משולשים ששווים זה לזה בכל צלעותיהם ובכל זוויותיהם בהתאמה.

סימון מתמטי: $\Delta ABC \cong \Delta DEF \Leftrightarrow \begin{cases} AB = DE\ ,\ AC = DF\ ,\ BC = EF \\ \sphericalangle A = \sphericalangle D\ ,\ \sphericalangle B = \sphericalangle E\ ,\ \sphericalangle C = \sphericalangle F \end{cases}$.

משפטי החפיפה:

- משפט חפיפה צלע-זווית-צלע (צ.ז.צ):

  אם בין שני משולשים שוות שתי צלעות והזווית שביניהן בהתאמה אז המשולשים חופפים.

- משפט חפיפה זווית-צלע-זווית (ז.צ.ז):

  אם בין שני משולשים שוות שתי זוויות והצלע שביניהן בהתאמה אז המשולשים חופפים.

- משפט חפיפה צלע-צלע-צלע (צ.צ.צ):

  אם בין שני משולשים שוות שלוש צלעות בהתאמה אז המשולשים חופפים.

- משפט חפיפה צלע-צלע-והזווית הגדולה (צ.צ.ז):

  אם בין שני משולשים שוות שתי צלעות והזווית שמול הצלע הגדולה מביניהן בהתאמה אז המשולשים חופפים.

שאלות:

שאלות העוסקות במשפט חפיפה צלע-זווית-צלע:

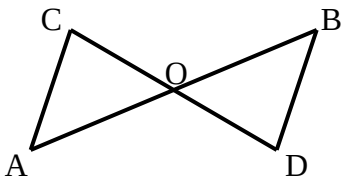

14) באיור שלפניך הקטעים AB ו- CD חוצים זה את זה בנקודה O.
הוכח: $\Delta ACO \cong \Delta BDO$.

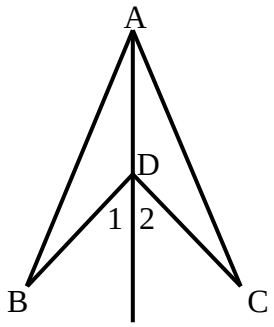

15) באיור שלפניך נתון: $BD = CD$.
כמו כן: $\sphericalangle D_1 = \sphericalangle D_2$.
הוכח: $\Delta ABD \cong \Delta ACD$.

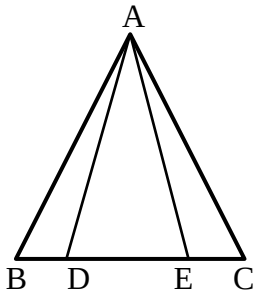

16) בסרטוט שלפניך נתון:
$BE = CD$, $\sphericalangle B = \sphericalangle C$, $AB = AC$.
הוכח: $\Delta ABD \cong \Delta ACE$.

שאלות העוסקות במשפט חפיפה זווית-צלע-זווית:

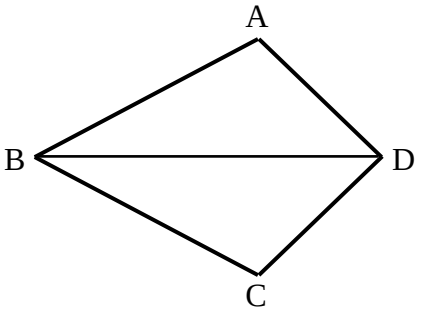

17) במרובע ABCD נתון כי BD חוצה את זוויות $\sphericalangle B$ ו- $\sphericalangle D$.
הוכח: $\Delta ABD \cong \Delta CBD$.

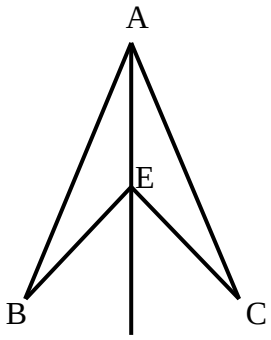

18) בסרטוט שלפניך נתון:
AE חוצה את הזוויות $\sphericalangle BAC$ ו- $\sphericalangle BEC$.
הוכח: $\Delta ABE \cong \Delta ACE$.

19) בציור שלפניך נתון:
$AC = BD \ , \ \alpha = \beta$
$AB \perp BE \ , AB \perp AK$.
הוכח: $\Delta AKC \cong \Delta BED$.

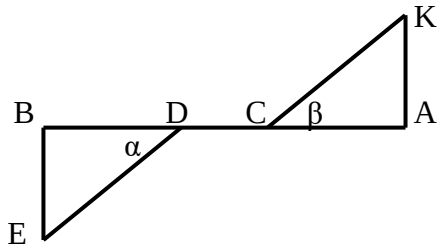

שאלות העוסקות במשפט חפיפה צלע-צלע-צלע:

20) באיור שלפניך נתון:
$KL = MN \ , \ KN = LM$.
הוכח: $\Delta KLN \cong \Delta MLN$.

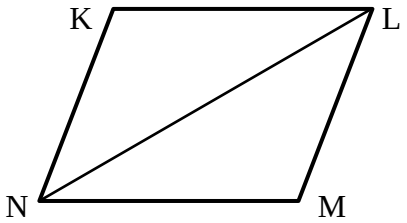

שאלות העוסקות במשפט חפיפה צלע-צלע-זווית שמול הצלע הגדולה:

21) בציור שלפניך נתון:
$AC = DE \ , \ AB = BE = AD$
הוכח כי הנקודה D היא אמצע BC.

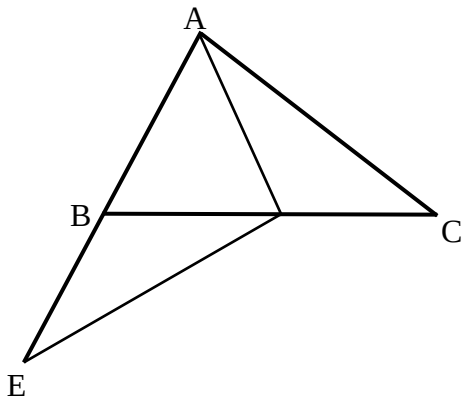

שאלות העוסקות בשלושת משפטי החפיפה יחדיו:

22) במרובע ABCD נתון:
$AB = BC \ , \ AD = CD$.
הוכח: $\sphericalangle A = \sphericalangle C$.

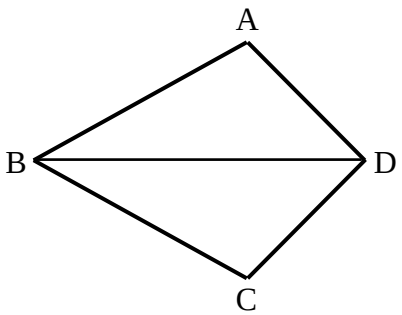

23) הקטע AD הוא קו ישר.
נתון: $AC = BD \ , \ AE = DF$.
כמו כן מתקיים: $\sphericalangle A = \sphericalangle D$.
הוכח כי הקטעים BE ו- FC שווים.

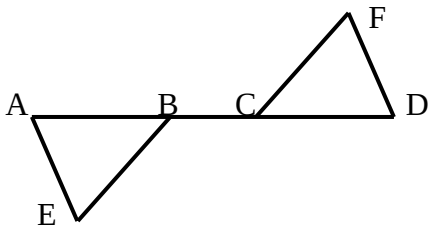

24) באיור שלפניך נתון:
הנקודה F היא אמצע הקטע AC.
מתקיים: $\sphericalangle BAC = \sphericalangle ACE$.
הקטעים BD ו- CE שווים.
הוכח את הטענות הבאות:
א. F היא אמצע הקטע DE.
ב. D היא אמצע הקטע AB.

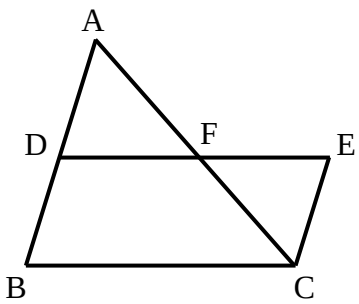

25) המשולש ABC הוא שווה צלעות.
נתון: $AK = BE = CN$.
הוכח כי ΔKEN הוא גם משולש שווה צלעות.

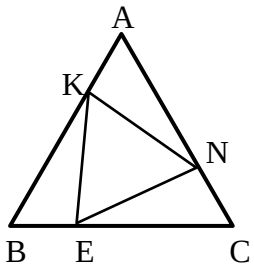

שאלות העוסקות במשולשים המכסים חלקית זה את זה:

26) בציור שלפניך נתון: $AC = CE$, $DC = BC$.
הוכח:
א. $\Delta CDE \cong \Delta CBA$.
ב. $\sphericalangle ADE = \sphericalangle ABE$.

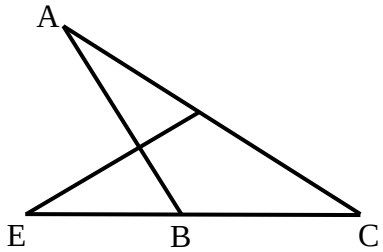

27) באיור שלפניך נתון:
$\sphericalangle ABC = \sphericalangle DCB$, $\sphericalangle DBC = \sphericalangle ACB$.
הוכח: $AB = CD$.

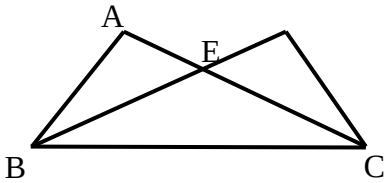

28) בציור שלפניך נתון:
$AB = BC$, $BE = BN$
$AB \perp BC$, $BE \perp BN$
הוכח: $AN = CE$.

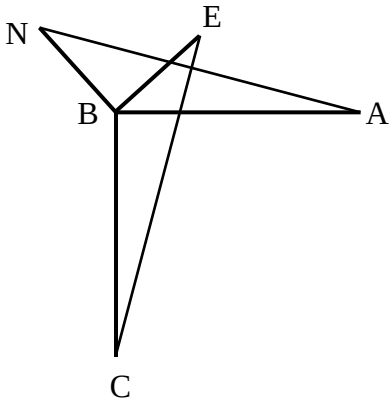

שאלות העוסקות בשתי חפיפות:

29) בסרטוט שלפניך נתון כי BD הוא קו ישר.
מתקיים: $AB = BC$, $AD = CD$.
הנקודה E נמצאת על BD.
הוכח כי: $AE = CE$.

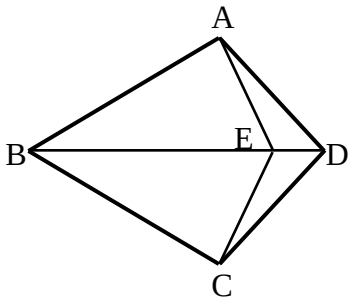

30) בציור שלפניך נתון כי AD הוא קו ישר. מתקיים:
$\sphericalangle A = \sphericalangle D$, $\sphericalangle AEC = \sphericalangle DFB$
וכן $AE = DF$. הוכח:
א. $CE = BF$.
ב. $BE = CF$.

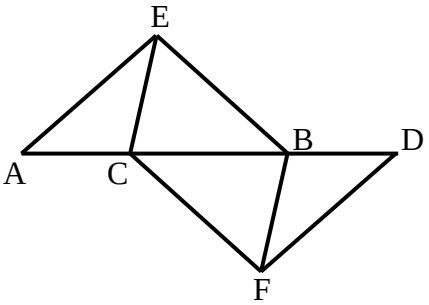

שאלות העוסקות בחפיפות עם משולש שווה שוקיים:

31) נתון משולש שווה שוקיים ΔABC , $(AB = AC)$.
מתקיים: $BD = CE$.
הוכח: $AD = AE$.

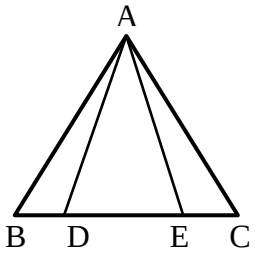

32) בסרטוט שלפניך נתון משולש
שווה שוקיים ΔABC , $(AB = AC)$.
הנקודה O היא אמצע BC.
מתקיים: $\sphericalangle O_1 = \sphericalangle O_2$.
הוכח: $AD = AE$.

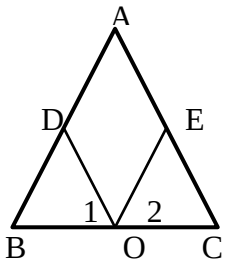

33) במשולש שווה שוקיים ΔABC , $(AB = AC)$
הנקודות S ו-R הן אמצעי השוקיים.
ידוע כי $BD = CE$.
הוכח כי: $SE = RD$.

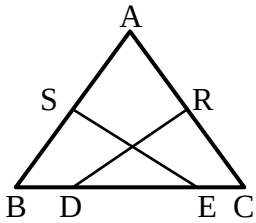

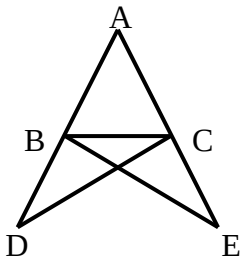

34) נתון משולש ABC. הקטעים AD ו-AE ישרים
ונתון בנוסף כי: $DC = BE$, $BD = CE$.
הוכח: $AB = AC$.

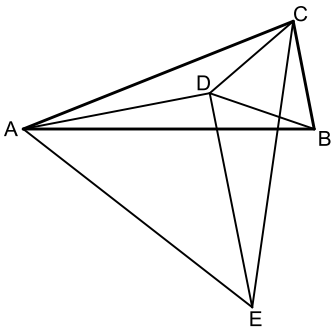

35) המשולש ABC הוא שווה שוקיים $(AB = AC)$.
על השוק AC ועל הבסיס BC בונים משולשים שווי צלעות ACE ו-BCD.
מחברים את הנקודה D עם הקדקודים A ו-E.

א. הוכח: $\Delta ABD \cong \Delta ACD$.

ב. ידוע גם כי: $DE \parallel BC$.
הוכח: $\sphericalangle ADE = 90°$.

תשובות סופיות:

14) שאלת הוכחה.
15) שאלת הוכחה.
16) שאלת הוכחה.
17) שאלת הוכחה.
18) שאלת הוכחה.
19) שאלת הוכחה.
20) שאלת הוכחה.
21) שאלת הוכחה.
22) שאלת הוכחה.
23) שאלת הוכחה.
24) שאלת הוכחה.
25) שאלת הוכחה.
26) שאלת הוכחה.
27) שאלת הוכחה.
28) שאלת הוכחה.
29) שאלת הוכחה.
30) שאלת הוכחה.
31) שאלת הוכחה.
32) שאלת הוכחה.
33) שאלת הוכחה.
34) שאלת הוכחה.
35) שאלת הוכחה.

זווית חיצונית במשולש:

סיכום כללי:

הגדרה:

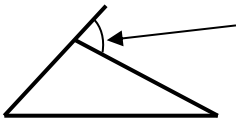

זווית חיצונית למשולש היא זווית הכלואה בין צלע במשולש להמשך צלע הסמוכה לה.

משפט:

זווית חיצונית למשולש שווה לסכום שתי הזוויות הפנימיות שאינן צמודות לה.

שאלות:

36) הוכח את המשפט: "זווית חיצונית למשולש שווה לסכום שתי הזוויות הפנימיות שאינן צמודות לה.

37) המשולש ABC שבציור הוא משולש שווה צלעות.

נתון: $AN = BM$.

הוכח: $\sphericalangle NQC = 60°$.

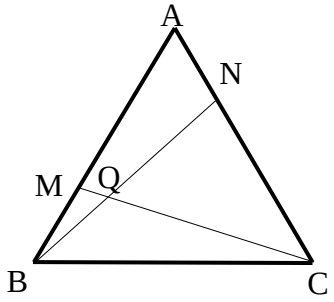

תשובות סופיות:

36) שאלת הוכחה.

37) שאלת הוכחה.

משולש ישר זווית:

סיכום כללי:

משפטים במשולש ישר זווית:

- סכום הזוויות החדות במשולש ישר זווית הוא $90°$.
- במשולש שזוויותיו $90°$, $60°$, $30°$, הניצב שמול הזווית של ה-$30°$ שווה למחצית היתר.
(משפט הפוך ל-2) אם במשולש ישר זווית אחד הניצבים שווה למחצית היתר, אז הזווית שמול ניצב זה היא בת $30°$.
- במשולש ישר זווית התיכון ליתר שווה למחצית היתר.
(משפט הפוך ל-4) אם במשולש תיכון שווה למחצית הצלע אותה הוא חוצה, אז המשולש ישר זווית (כאשר הזווית ממנה יוצא התיכון היא הזווית הישרה).
- משפט פיתגורס : במשולש ישר זווית סכום ריבועי הניצבים שווה לריבוע היתר.
כלומר : $(\text{יתר})^2 = (\text{ניצב})^2 + (\text{ניצב})^2$.
- (משפט הפוך למשפט פיתגורס) אם במשולש סכום ריבועי שתי צלעות שווה לריבוע הצלע השלישית, אז המשולש ישר זווית.

איורים:

משולש $90°, 60°, 30°$

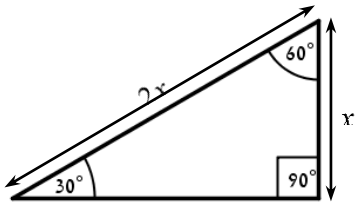

תיכון ליתר

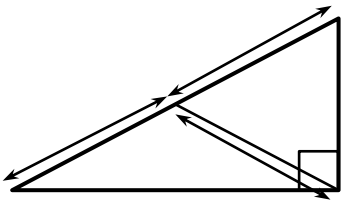

משפט פיתגורס

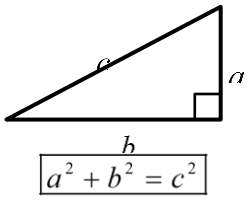

שאלות:

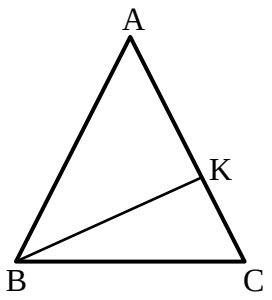

38) באיור שלפניך נתון משולש שווה שוקיים ABC $(AB = AC)$.
זווית הבסיס: $\sphericalangle C = 75°$
וכן: 16 ס"מ =AC. מעבירים גובה BK לשוק AC.
מצא את אורך הגובה BK.

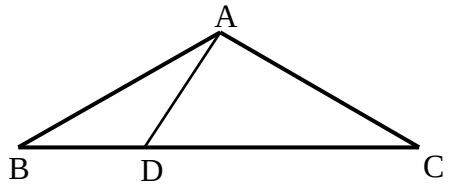

39) המשולש ABC שבציור הוא משולש שווה שוקיים $(AB = AC)$.
נתון: $\sphericalangle DAC = 90°$, $\sphericalangle ABD = 30°$,
18 ס"מ = BC.
חשב את אורכו של הקטע BD.

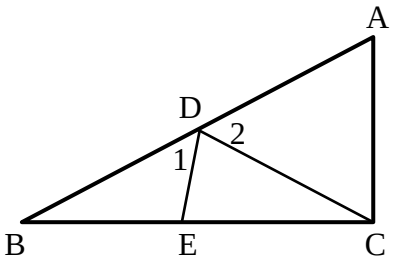

40) המשולש ΔABC הוא ישר זווית $(\sphericalangle C = 90°)$.
מעבירים תיכון CD ליתר AB במשולש.
הנקודה E נמצאת על BC כך ש- $CD = CE$.
ידוע כי: $\sphericalangle CED = 80°$.
מצא את הזוויות: $\sphericalangle D_2$, $\sphericalangle D_1$

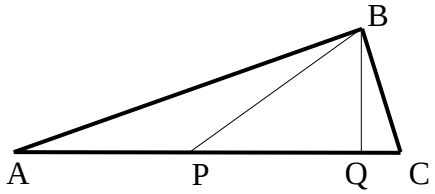

41) המשולש ABC שבציור הוא משולש ישר זווית $(\sphericalangle ABC = 90°)$. BQ הוא הגובה ליתר AC ו-BP הוא התיכון ליתר AC.
נתון: $BQ = \frac{1}{2}BP$.
חשב את גודלה של הזווית C.

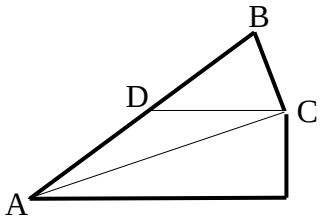

42) המשולש BCD שבציור הוא משולש שווה שוקיים $(BD = DC)$.
AC חוצה את הזווית $\sphericalangle BAE$.
נתון: $DC \parallel AE$.
חשב את גודלה של הזווית $\sphericalangle ACB$.

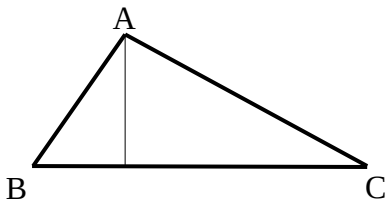

43) AD הוא גובה במשולש ABC.
נתון: AB = 15 ס"מ , AC = 20 ס"מ,
BC = 25 ס"מ .

א. מצא את אורכו של AD
ואת שטח המשולש ABC .

ב. האם המשולש ABC ישר זווית? נמק.

תשובות סופיות:

38) 8 ס"מ.
39) 6 ס"מ.
40) $\sphericalangle D_1 = 60°$, $\sphericalangle D_2 = 40°$
41) $75°$
42) $90°$
43) א. AD = 12 ס"מ , S_{ABC} = 150 סמ"ר . ב. כן.

קטע אמצעים במשולש:

סיכום כללי:

הגדרה:

קטע המחבר אמצעי שתי צלעות במשולש נקרא קטע אמצעים במשולש.

- קטע אמצעים במשולש מקביל לצלע השלישית ושווה למחציתה.
- (משפט הפוך 1): קטע היוצא מאמצע צלע במשולש ומקביל לצלע השלישית חוצה את הצלע השנייה (כלומר הוא קטע אמצעים במשולש).
- (משפט הפוך 2): קטע המחבר שתי צלעות במשולש, מקביל לצלע השלישית ושווה למחציתה הוא קטע אמצעים במשולש.

איור – קטע אמצעים במשולש:

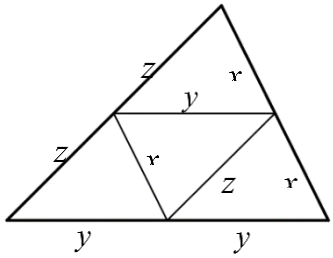

שאלות:

44) לפניך משולשים עם קטע אמצעים בתוכם.
מצא את x בכל אחד מהמקרים:

א.

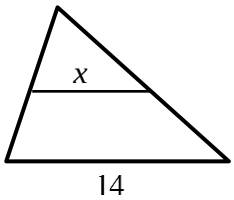

ב.

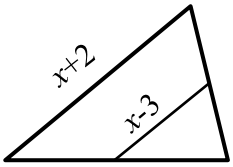

ג.

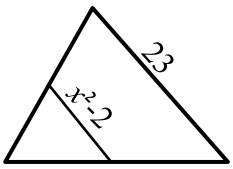

45) הנקודות D, E ו-F הם נקודות האמצע במשולש ΔABC.
נתון: DE= 9 ס"מ, EF= 12 ס"מ, DF = 10 ס"מ.
חשב את היקף המשולש ΔABC.

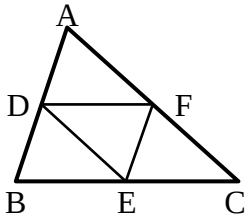

46) הקטע DE הוא קטע אמצעים במשולש ΔABC.
הקטע FN הוא קטע אמצעים במשולש ΔBDE.
נתון: NF = 3 ס"מ. מצא את אורך הצלע BC.

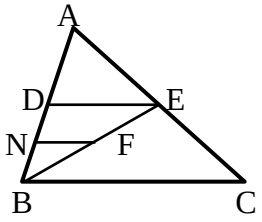

47) הקטע MN הוא קטע אמצעים במשולש ΔABC
AQ הוא גובה לצלע BC.
הוכח: $\sphericalangle N_1 = \sphericalangle N_2$.

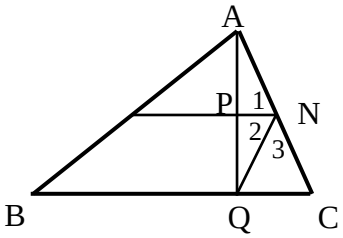

48) AF הוא גובה לצלע BC ו- GC הוא תיכון
לצלע AB במשולש ΔABC. הקטע GH מאונך לצלע BC.
א. הוכח: HF =BH.
ב. נתון בנוסף כי הגובה AF חוצה את
התיכון GC ושגודלו של AF הוא 12 ס"מ.
חשב את אורך הקטע EF.

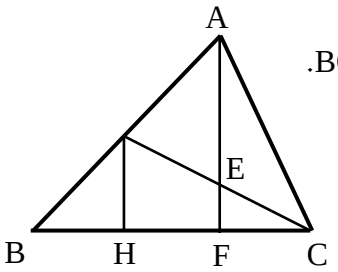

תשובות סופיות:

44) א. $x=7$ ב. $x=8$ ג. $x=\sqrt{13.5}$.
45) 62 ס"מ.
46) 12 ס"מ.
47) שאלת הוכחה.
48) א. שאלת הוכחה. ב. 3 ס"מ.

מפגש תיכונים במשולש:

סיכום כללי:

- שלושת התיכונים במשולש נפגשים בנקודה אחת המחלקת כל תיכון ביחס של 2 : 1 כך שהחלק הקצר קרוב לצלע.
- אם נקודה מחלקת תיכון (אחד) במשולש ביחס של 2 : 1 כך שהחלק הקצר קרוב לצלע, נקודה זו היא מפגש התיכונים במשולש.
- נקודת מפגש התיכונים במשולש נקראת גם מרכז הכובד של המשולש.

איור – מפגש תיכונים במשולש :

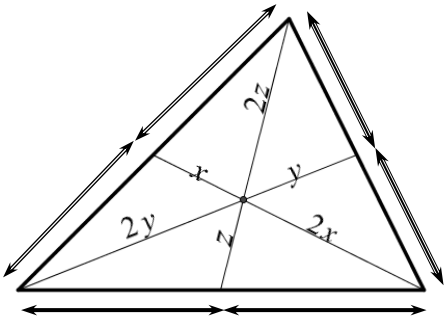

שאלות:

49) הקטעים שבמשולשים הם תיכונים. מצא את x בכל אחד מהמקרים הבאים :

א.

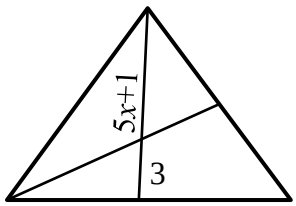

ב.

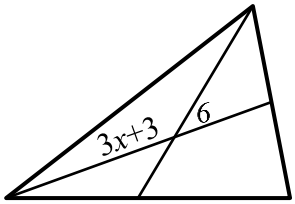

ג.

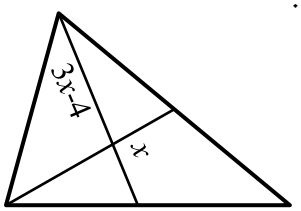

50) הקטעים AE ו-BD הם תיכונים במשולש ΔABC אשר נחתכים בנקודה M.
נתון : $AD = AM$ וכן : 30 ס"מ = AC.
חשב את AE.

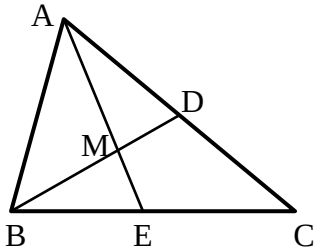

51) המשולש ΔABC שבציור הוא מש"ש ($AB = AC$) שבו AH הוא הגובה לבסיס BC.
CD, התיכון לשוק AB,
יוצר זווית של $30°$ עם הבסיס BC.
נתון: $BC = 12\sqrt{3}$ס"מ, $DQ \parallel BC$.
חשב את אורך הקטע MQ.

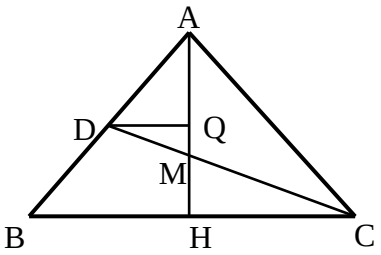

52) במשולש ΔABC נחתכים התיכונים בנקודה N.
נתון: $\sphericalangle CNB = 90°$.
הוכח: $BC = AN$.

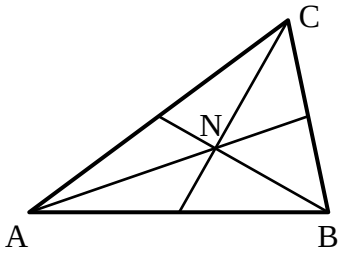

תשובות סופיות:

49) א. $x = 1$ ב. $x = 3$ ג. $x = 4$
50) 22.5 ס"מ.
51) 3 ס"מ.
52) שאלת הוכחה.

קורס השלמה במתמטיקה

פרק 12 - גיאומטריה אוקלידית - מרובעים

תוכן העניינים

1. מרובע כללי 183
2. המקבילית 185
3. המלבן 190
4. המעוין 193
5. הריבוע 196
6. הטרפז 198
7. הדלתון 204
8. סיכום משפחת המרובעים 206

מרובע כללי:

סיכום כללי:

הגדרה: מרובע הוא מצולע בעל 4 צלעות.

משפט: סכום זוויות במרובע הוא $360°$.

שאלות:

1) בסרטוטים שלפניך מופיעים מרובעים שונים.
חלק מהזוויות מסומנות ב- x.
מצא את x ואת הזוויות של כל מרובע.

א.

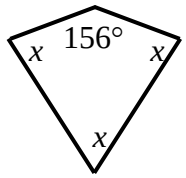

ב.

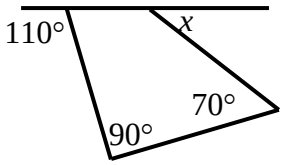

ג.

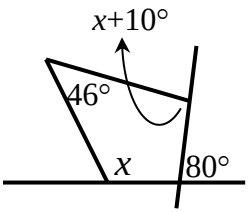

2) מצא את זוויות המרובע בכל אחד מהמקרים הבאים:
כל זווית במרובע (פרט לראשונה) גדולה ב- $10°$ מהזווית הקודמת לה.
זוויות המרובע מתייחסות זו לזו כמו: $1:2:3:4$.

3) המשולשים ABC ו-ACD שבציור הם משולשים שווי שוקיים ($AB = AC = AD$).
נתון: $\sphericalangle BAD = 80°$.
חשב את גודלה של הזווית BCD.

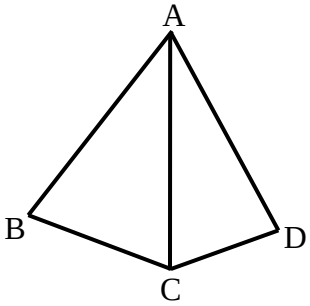

4) בסרטוט שלפניך נתון מרובע ABCD.
CM חוצה את זווית C ו-DM חוצה את זווית D.
ידוע כי: $CM = DM$, $\sphericalangle A = 130°$, $\sphericalangle DMC = 110°$.
מצא את שאר זוויות המרובע ABCD.

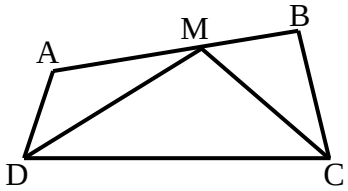

תשובות סופיות:

1) א. $x=68°$. ב. $x=50°$. ג. $x=102°$

2) א. $75°$, $85°$, $95°$, $105°$ ב. $36°$, $72°$, $108°$, $144°$

3) $140°$.

4) $\sphericalangle B=90°$, $\sphericalangle C=\sphericalangle D=70°$

המקבילית:

סיכום כללי:

הגדרה: מקבילית היא מרובע שבו שני זוגות של צלעות נגדיות מקבילות.

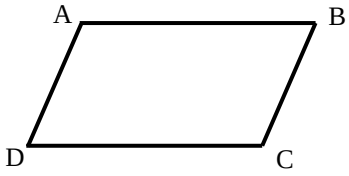

- במקבילית כל שתי צלעות נגדיות שוות זו לזו.
- במקבילית כל שתי זוויות נגדיות שוות.
- במקבילית סכום כל שתי זוויות סמוכות הוא $180°$.
- במקבילית האלכסונים חוצים זה את זה.
- היקף מקבילית = סכום הצלעות, שטח מקבילית = צלע · גובה לצלע.

כדי להוכיח כי מרובע הוא מקבילית נשתמש באחת הדרכים הבאות:

- מרובע שבו כל זוג צלעות נגדיות מקבילות הוא מקבילית.
- מרובע שבו כל זוג צלעות נגדיות שוות הוא מקבילית.
- מרובע שבו זוג צלעות שוות ומקבילות הוא מקבילית.
- מרובע שבו כל זוג זוויות נגדיות שוות הוא מקבילית.
- מרובע שאלכסוניו חוצים זה את זה הוא מקבילית.

שאלות:

5) נתונה מקבילית ABCD.
בכל אחד מהסעיפים הבאים הזוויות מיוצגות ע"י תבניות מספר שונות.
מצא את זוויות המקבילית בכל מקרה.

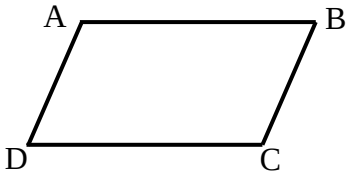

א. $\sphericalangle A = x$, $\sphericalangle B = x - 70°$.

ב. $\sphericalangle B = 3x - 130°$, $\sphericalangle D = x + 10°$.

ג. $\sphericalangle A = x + 20°$, $\sphericalangle C = 100° - x$.

6) המרובע ABCD הוא מקבילית
ובו: $AE \perp CD$, $AN \perp BC$.
הוכח כי: $\sphericalangle DAE = \sphericalangle BAN$.

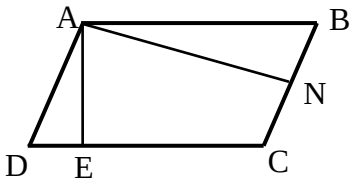

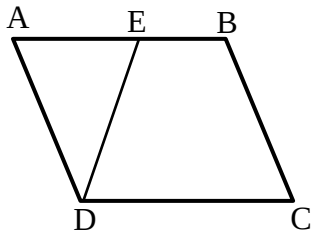

7) במקבילית ABCD הנקודה E נמצאת על הצלע AB כך שמתקיים: $DE = BC$.
הוכח כי: $\sphericalangle EAD = \sphericalangle EDC$.

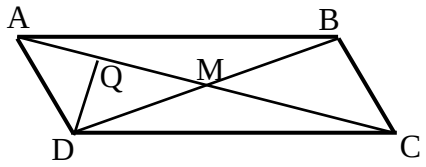

8) נתונה מקבילית ABCD שאלכסוניה נפגשים בנקודה M.
נתון: $AC = 20$ ס"מ, $BC = \frac{1}{2}BD$ ו- $DQ \perp AC$.
חשב את אורך הקטע AQ.

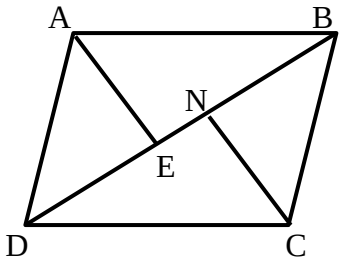

9) הוכח כי במקבילית הקדקודים הנגדיים נמצאים במרחקים שווים מאלכסון המקבילית שאינו עובר דרכם, כלומר הוכח: $AE = CN$.

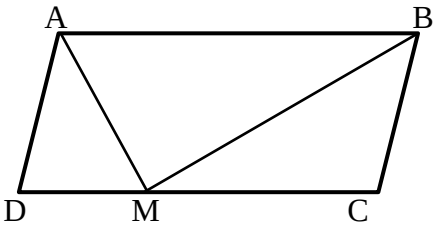

10) במקבילית ABCD הקטעים AM ו-BM הם חוצי הזוויות של A ו-B בהתאמה אשר נפגשים בנקודה M שעל הצלע DC.
א. הוכח כי: $AB = 2BC$.
ב. הוכח כי המשולש AMB הוא ישר זווית.

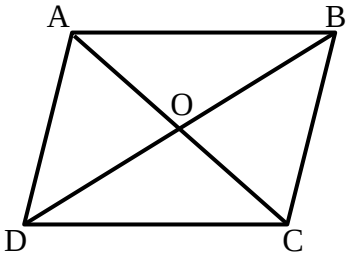

11) המרובע ABCD הוא מקבילית.
O – פגישת האלכסונים.
נתון: $AO = x+1$, $BO = x+8$, $DO = 3x-10$.
מצא את אורכי האלכסונים AC ו-BD.

12) נתונה מקבילית ABCD ובה: $\sphericalangle ADC = 120°$, $\sphericalangle BEF = \frac{1}{2}\sphericalangle EAD$.
הוכח כי: $BC \perp ED$.

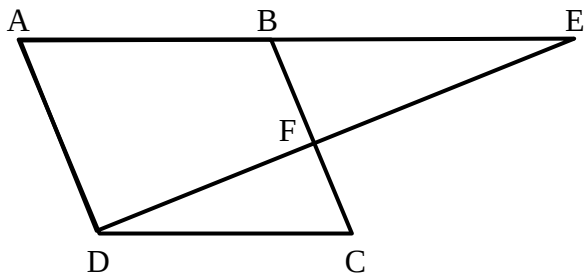

13) בסרטוטים שלפניך מופיעים מרובעים שונים.
קבע אלו מהם הם מקביליות וציין מדוע.

א.

ב.
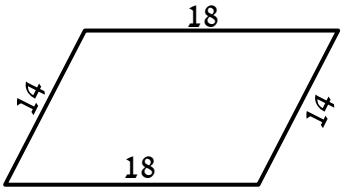

ג.
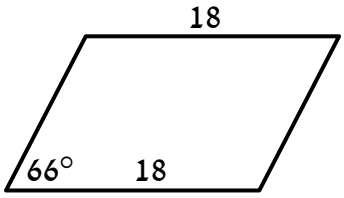

ד.
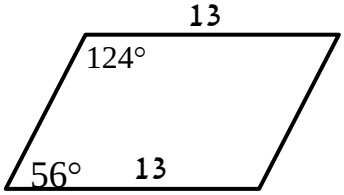

ה.
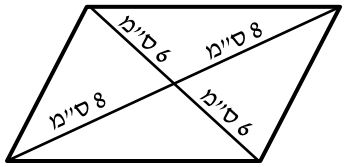

ו.
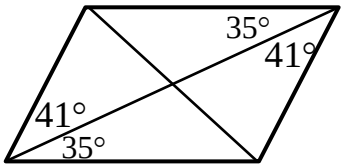

ז.

ח.
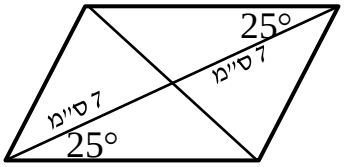

14) במקבילית ABCD הנקודות E ו-F נמצאות
על הצלעות AB ו-CD בהתאמה.
נתון: $\sphericalangle DAF = \sphericalangle BCE$.
הוכח כי המרובע AECF הוא מקבילית.

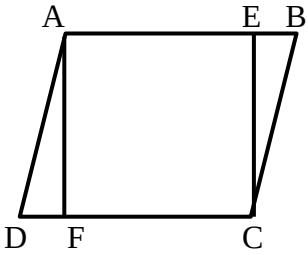

15) במקבילית ABCD הנקודות E ו-G נמצאות על
הצלעות AD ו-DC בהתאמה כך שהמשולש DEG
הוא שווה צלעות. הנקודה F נמצאת בתוך המקבילית
כך שהקטע EF מקביל לצלע AB.

א. הוכח: $\sphericalangle DAB = \sphericalangle EGC$.

ב. נתון: $\sphericalangle GCF = \sphericalangle ABC$. הוכח כי EFCG מקבילית.

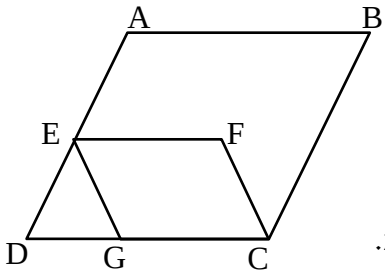

16) במרובע ABCD נתון כי הצלעות AB ו-DC שוות.
כמו כן: $BC \perp AC$, $AD \perp AC$.
הוכח כי המרובע ABCD הוא מקבילית.

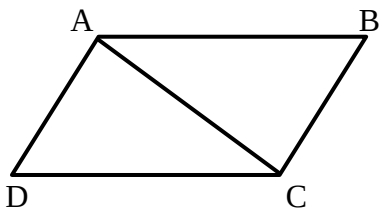

17) נתון משולש ABC ובו הקטע MN הוא קטע אמצעים.
הנקודות Q ו-R הן אמצעי הקטעים MC ו-BM בהתאמה.

א. הוכח כי המרובע MNRQ הוא מקבילית.

ב. ידוע כי הקטע AN שווה לקטע QR.
איזה סוג משולש הוא AMB? נמק.

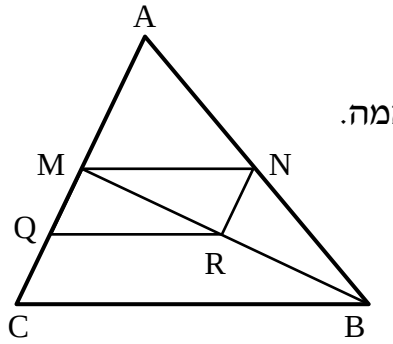

18) את הצלע AB במקבילית ABCD האריכו
כאורכה עד לנקודה T.
הוכח: BTCD מקבילית.
הערה: בסרטון השאלה מוצגת ללא הסרטוט הנתון.

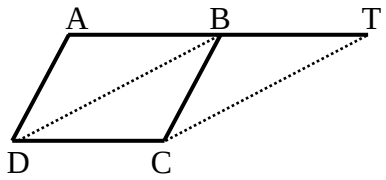

19) הנקודה O היא מפגש אלכסוני המקבילית ABCD. E ו-F
הן נקודות על האלכסון AC.
נתון: $AE = FC$.
הוכח כי EBFD הוא מקבילית.

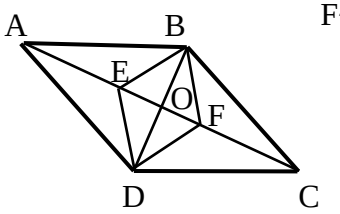

תשובות סופיות:

5) א. $125°$, $55°$ ב. $100°$, $80°$ ג. $120°$, $60°$.

6) שאלת הוכחה.

7) שאלת הוכחה.

8) 5 ס"מ.

9) שאלת הוכחה.

10) שאלת הוכחה.

11) 20 ס"מ = AC, 34 ס"מ = BD.

12) שאלת הוכחה.

13) מקבילות: א', ב', ד', ה', ו', ח' אינן מקבילות: ג', ז'.

14) שאלת הוכחה.

15) שאלת הוכחה.

16) שאלת הוכחה.

17) שאלת הוכחה.

18) שאלת הוכחה.

19) שאלת הוכחה.

המלבן:

סיכום כללי:

הגדרה: מלבן הוא מרובע שכל זוויותיו ישרות.

(מסקנה: מלבן הוא סוג של מקבילית).

תכונות המלבן (בנוסף לתכונות המקבילית):

- ארבע זוויות המלבן שוות והן זוויות ישרות.
- האלכסונים במלבן שווים זה לזה
- היקף מלבן סכום הצלעות, שטח מלבן צלע גובה לצלע.

כדי להוכיח כי מרובע הוא מלבן נשתמש באחת הדרכים הבאות:

- מרובע שבו שלוש זוויות ישרות הוא מלבן.
- מקבילית שבה זווית ישרה היא מלבן.
- מקבילית שבה האלכסונים שווים היא מלבן.

שאלות:

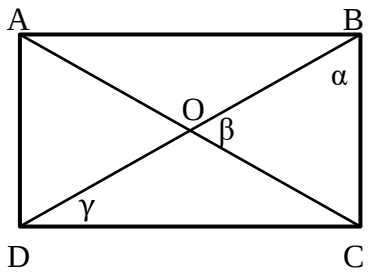

20) המרובע ABCD הוא מלבן.
מעבירים את האלכסונים AC ו-BD.
חשב את הזוויות β , α ו- γ במקרים הבאים:

א. β קטנה ב- $15°$ מ- α.

ב. $\alpha = 2\gamma$.

ג. $\gamma = 28°$.

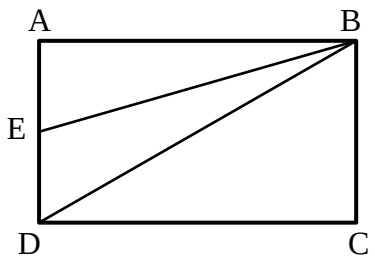

21) במלבן ABCD הנקודה E נמצאת על הצלע AD.
נתון: $\sphericalangle AEB = 70°$, $BD = 2BC$.
חשב את גודלה של הזווית EBD.

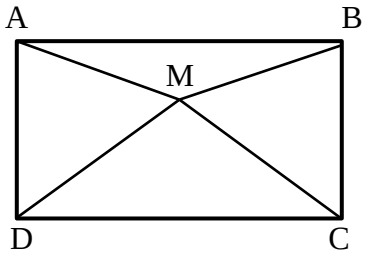

22) נתון מלבן ABCD שבו $DM = MC$.
הוכח: $\sphericalangle MAB = \sphericalangle MBA$.

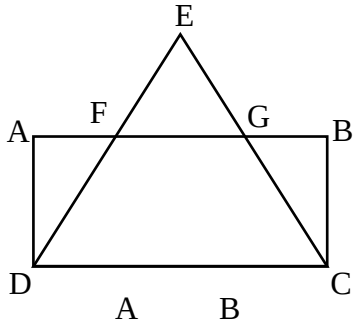

23) המרובע ABCD הוא מלבן.
המשכי הקטעים DF ו-CG נפגשים בנקודה E.
נתון: $EF = EG$.
הוכח: $FD = GC$.

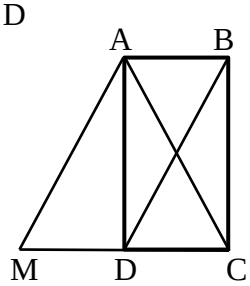

24) המרובע ABCD הוא מלבן.
המרובע ABDM הוא מקבילית.
הוכח כי המשולש ACM הוא שווה שוקיים.

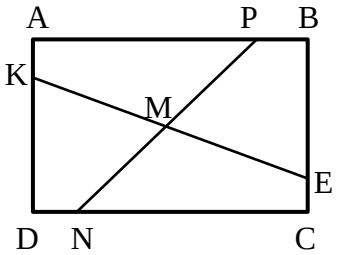

25) מרובע ABCD הוא מלבן.
נתון: $AP = CN$, $AK = CE$.
הוכח: $KM = EM$, $PM = NM$.

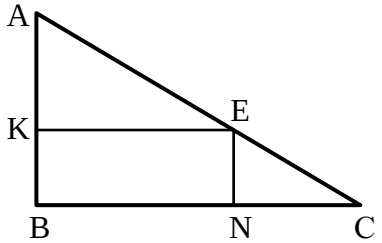

26) ΔABC הוא משולש ישר זווית $(\sphericalangle B = 90°)$.
המרובע KENB חסום במשולש זה.
נתון כי: $\sphericalangle NEC = \sphericalangle A$, $\sphericalangle AEK = \sphericalangle C$.
הוכח כי המרובע KENB הוא מלבן.

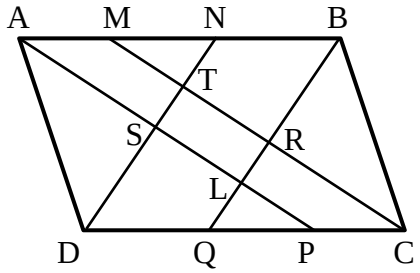

27) נתונה מקבילית ABCD
ובה AP, BQ, CM ו-DN
הם חוצי הזוויות $\sphericalangle A$, $\sphericalangle B$, $\sphericalangle C$ ו- $\sphericalangle D$
בהתאמה.
הוכח: TRLS מלבן.

28) מרובע ABCD הוא מקבילית.
מעבירים את האלכסונים AC ו-BD
אשר נחתכים בנקודה O.
נתון: $2BD = AC$.
E – אמצע AO. N – אמצע CO.
הוכח כי המרובע BNDE הוא מלבן.

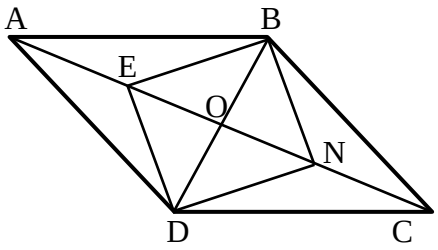

29) במלבן ABCD נתון:
$\sphericalangle ABO = \sphericalangle BOF$, $OH \perp DC$.
הוכח: EOHD הוא מלבן.

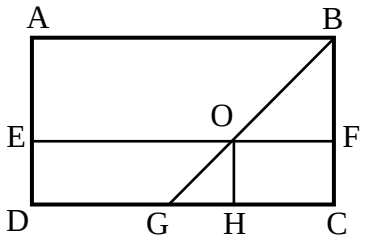

תשובות סופיות:

20) א. $\alpha = 55°$, $\beta = 70°$, $\gamma = 35°$
ב. $\alpha = \beta = 60°$, $\gamma = 30°$
ג. $\alpha = 62°$, $\beta = 56°$

21) $10°$.
22) שאלת הוכחה.
23) שאלת הוכחה.
24) שאלת הוכחה.
25) שאלת הוכחה.
26) שאלת הוכחה.
27) שאלת הוכחה.
28) שאלת הוכחה.
29) שאלת הוכחה.

המעוין:

סיכום כללי:

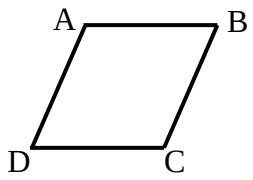

הגדרה : מעוין הוא מרובע שכל צלעותיו שוות.

(מסקנה : מעוין הוא סוג של מקבילית).

תכונות המעוין (בנוסף לתכונות המקבילית):

- במעוין כל הצלעות שוות.
- במעוין האלכסונים מאונכים זה לזה.
- במעוין האלכסונים הם חוצי זוויות.
- היקף מעוין = צלע· 4, שטח מעוין = צלע· גובה לצלע = 2/(אלכסון· אלכסון).

כדי להוכיח כי מרובע הוא מעוין נשתמש באחת הדרכים הבאות:

- מרובע שבו כל הצלעות שוות הוא מעוין.
- מקבילית שבה שתי צלעות סמוכות שוות היא מעוין.
- מקבילית שבה האלכסונים מאונכים זה לזה היא מעוין.
- מקבילית שבה אלכסון חוצה זווית היא מעוין (מספיק אחד).

שאלות:

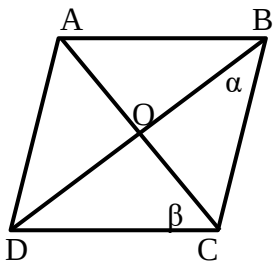

30) המרובע ABCD הוא מעוין.

חשב בכל אחד מהמקרים הבאים את α ו- β.

א. $\sphericalangle A = 138°$.

ב. $\beta = 3.5\alpha$.

ג. $\beta = \alpha + 20°$.

ד. $\sphericalangle B = \beta$.

31) המרובע ABCD הוא מעוין.
מעבירים את האלכסון BD ואת הקטע AK
אשר נחתכים בנקודה N.
ידוע כי: $\sphericalangle A_1 = \sphericalangle B_2$.

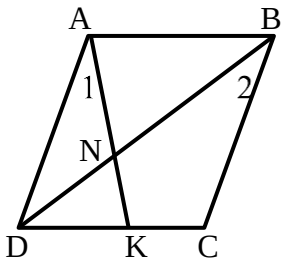

א. הוכח כי המשולש ADN הוא שווה שוקיים.
ב. הוכח כי: $\sphericalangle AND = \sphericalangle C$.

32) מעוין ABCD הנקודות E ו-F
נמצאות על הצלעות AB ו-BC בהתאמה.
נתון: $EF \perp BD$, $\sphericalangle DCB = 120°$.
הוכח כי משולש EBF הוא שווה צלעות.

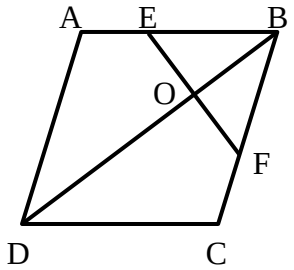

33) נתון מעוין ABCD.
הנקודה E נמצאת על המשך הצלע BC.
נתון: $\sphericalangle CDE = \sphericalangle BCA$.
הוכח כי המשולש BDE הוא ישר זווית.

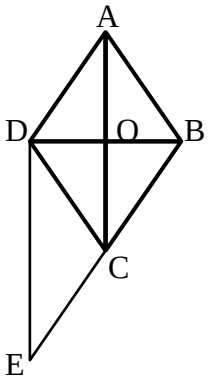

34) נתון מעוין ABCD שאלכסוניו נפגשים בנקודה M.
האריכו את הצלע AB עד לנקודה E
כך שמתקיים: $DE \perp BD$.
הוכח: $AD = AE$.

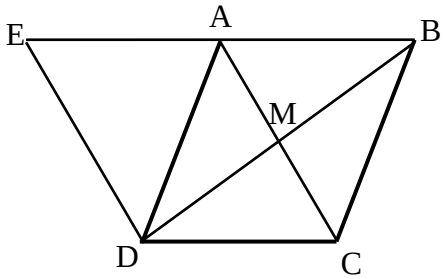

35) במלבן ABCD מעבירים את האלכסון BD.
הנקודות M ו-N נמצאות על הצלעות AB
ו-DC בהתאמה.
נתון: $AM = CN$ ו- $DM = DN$.
הוכח כי הקטע MN חוצה את
הזוויות BMD ו-BND.

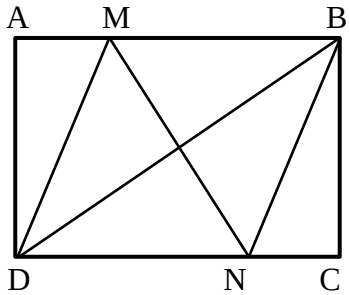

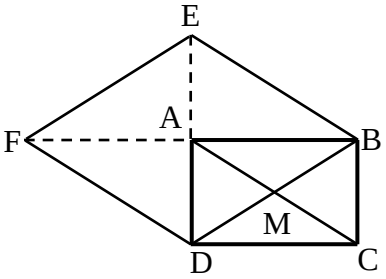

36) נתון מלבן ABCD שאלכסוניו נפגשים בנקודה M.
האריכו את הצלע AB כאורכה עד
לנקודה F ואת הצלע AD כאורכה עד
לנקודה E כמתואר בשרטוט.
הוכח: המרובע EBDF הוא מעוין.

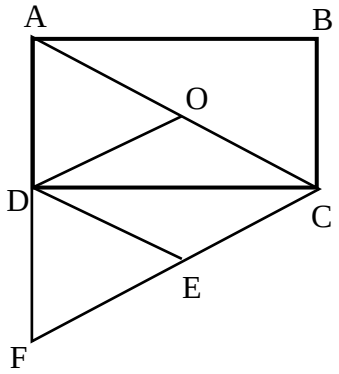

37) ABCD הוא מלבן שאלכסוניו נחתכים בנקודה O.
הנקודה F נמצאת על המשך הצלע AD
כך שמתקיים: $AD = DF$.
נתון: $FE = CE$.
הוכח כי DOCE הוא מעוין.

תשובות סופיות:

30) א. $\alpha = 21^\circ$, $\beta = 69^\circ$ ב. $\alpha = 20^\circ$, $\beta = 70^\circ$
ג. $\alpha = 35^\circ$, $\beta = 55^\circ$ ד. $\alpha = 30^\circ$, $\beta = 60^\circ$.

31) שאלת הוכחה.
32) שאלת הוכחה.
33) שאלת הוכחה.
34) שאלת הוכחה.
35) שאלת הוכחה.
36) שאלת הוכחה.
37) שאלת הוכחה.

הריבוע:

סיכום כללי:

הגדרה : ריבוע הוא מרובע שכל צלעותיו שוות וכל זוויותיו שוות.

(מסקנה : ריבוע הוא סוג של מקבילית, סוג של מלבן וסוג של מעוין).
מכאן, שבנוסף לתכונות שבהגדרת הריבוע מתקיים
כי אלכסוני הריבוע חוצים זה את זה, שווים זה לזה,
מאונכים זה לזה וחוצים את זוויות הריבוע.
היקף ריבוע = צלע · 4, שטח ריבוע = $(\text{צלע})^2$ = $(\text{אלכסון})^2/2$

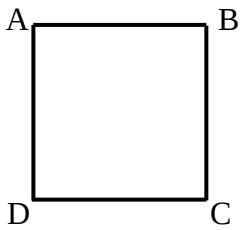

כדי להוכיח כי מרובע הוא ריבוע נשתמש באחת הדרכים הבאות:

- מלבן שבו האלכסונים מאונכים הוא ריבוע.
- מלבן שבו אלכסון חוצה זווית הוא ריבוע.
- מלבן שבו שתי צלעות סמוכות שוות הוא ריבוע.
- מעוין שבו האלכסונים שווים הוא ריבוע.
- מעוין שבו זווית ישרה הוא ריבוע.

שאלות:

38) המרובע ABCD הוא ריבוע.
מעבירים את האלכסונים AC ו-BD.
BE חוצה זווית DBC וחותך את AC בנקודה K.
הוכח : $CE = CK$.

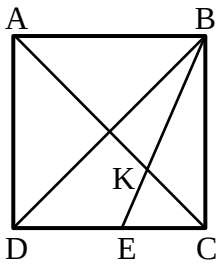

39) בריבוע ABCD מעבירים את הקטעים AF ו-DE.
נתון כי $AE = BF$.
הוכח : $DE \perp AF$.

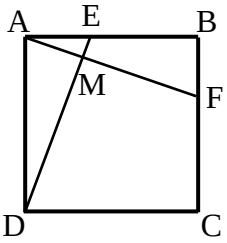

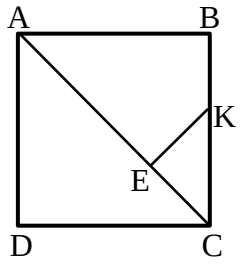

40) המרובע ABCD הוא ריבוע.
מעבירים את האלכסון AC.
מהנקודה E שעל האלכסון מעבירים
את הקטע KE אשר מאונך לאלכסון.
נתון: $AE = AB$.
הוכח כי: $CE = KE = BK$.

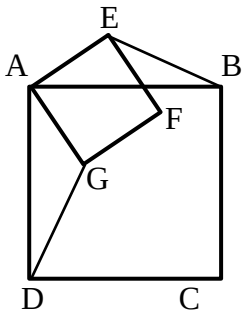

41) המרובעים ABCD ו-AEFG הם ריבועים.
הוכח: $BE = DG$.

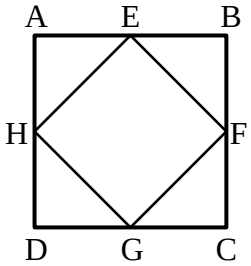

42) הנקודות E, F, G, H הן אמצעי צלעות הריבוע ABCD.
הוכח כי EFGH הוא ריבוע.

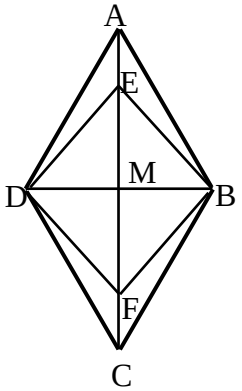

43) נתון מעוין ABCD שאלכסוניו נפגשים בנקודה M.
נתון: $AE = FC$, $MB = \frac{1}{2}AB$, $\sphericalangle EBA = 15°$.
הוכח: המרובע EBFD הוא ריבוע.

תשובות סופיות:

38) שאלת הוכחה.
39) שאלת הוכחה.
40) שאלת הוכחה.
41) שאלת הוכחה.
42) שאלת הוכחה.
43) שאלת הוכחה.

הטרפז:

סיכום כללי:

הגדרה: טרפז הוא מרובע שבו זוג אחד בלבד של צלעות נגדיות מקבילות.

היקף טרפז = סכום הצלעות, שטח טרפז = 2/(גובה · סכום הבסיסים).

סוג הטרפז	טרפז כללי	טרפז ישר זווית	טרפז שווה שוקיים
איור מתאים	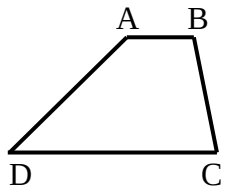	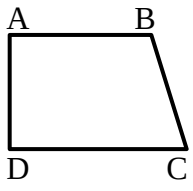	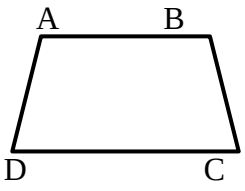

משפטים הנוגעים לטרפז שווה שוקיים:

- בטרפז שווה שוקיים הזוויות שליד אותו בסיס שוות זו לזו.
- (משפט הפוך) טרפז שבו הזוויות שליד אותו בסיס שוות זו לזו הוא טרפז שווה שוקיים.
- בטרפז שווה שוקיים האלכסונים שווים זה לזה.
- (משפט הפוך) טרפז שבו האלכסונים שווים זה לזה הוא טרפז שווה שוקיים.

קטע אמצעים בטרפז:

הגדרה: קטע אמצעים בטרפז הוא קטע המחבר את אמצעי השוקיים בטרפז.

- קטע אמצעים בטרפז מקביל לבסיסים ושווה למחצית סכומם.
- (משפט הפוך) קטע היוצא מאמצע שוק אחת בטרפז ומקביל לבסיסים, חוצה את השוק השנייה (כלומר הוא קטע אמצעים בטרפז).

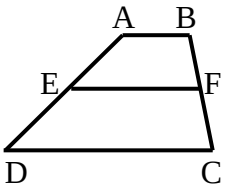

שאלות:

44) בסרטוטים שלפניך נתונים טרפזים כלליים $(AB \parallel CD)$.
מצא את x ואת זוויות הטרפז בכל מקרה.

א.

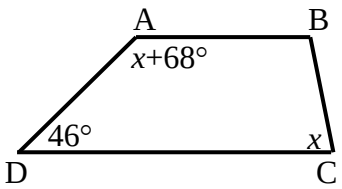

ב.

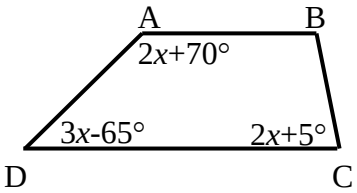

45) המרובע ABCD הוא טרפז $(AB \parallel CD)$.
מעבירים את הקטע AK.
נתון: $AK \parallel BC$, $AK = DK$,
$AB =$ 6 ס"מ, $DC =$ 14 ס"מ.
חשב את אורך השוק BC.

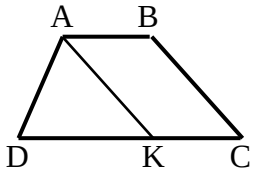

46) המרובע ABCD הוא טרפז $(AB \parallel CD)$.
נתון כי: $AN \parallel BC$, $AD \parallel BK$.
הוכח כי: $DK = CN$.

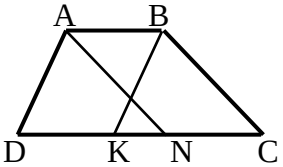

47) המרובע ABCD הוא טרפז $(AB \parallel CD)$.
מעבירים את האלכסון AC ואת
הקטע BK אשר חוצים זה את זה בנקודה O.
ידוע כי: $\sphericalangle C = 60°$, $\sphericalangle D = 30°$.

א. חשב את אורך DC, הבסיס הגדול,
אם ידוע כי: $AB =$ 7 ס"מ, $BC =$ 9 ס"מ.

ב. הוכח כי אם $AB = BC$ אז: $DC = 3AB$.

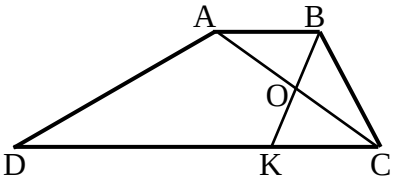

48) נתון טרפז ABCD, $(AB \parallel CD)$ ובו
הקטעים CE ו-BF חוצים את זוויות
הקדקודים C ו- B בהתאמה. הוכח:

א. $BF \perp CE$.

ב. המשולש EBC הוא שווה שוקיים.

ג. המרובע EBCF הוא מעוין.

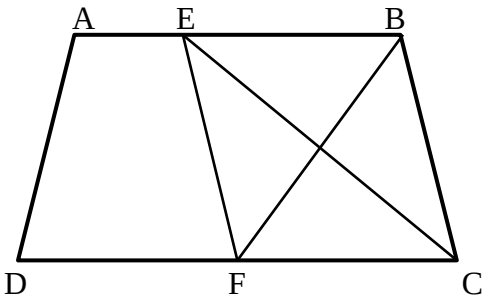

49) מרובע ABCD הוא טרפז $(AB \parallel CD)$.
O - היא נקודת פגישת האלכסונים.
נתון: $AO = NO$, $BO = EO$.
הוכח כי המרובע ENCD הוא טרפז.

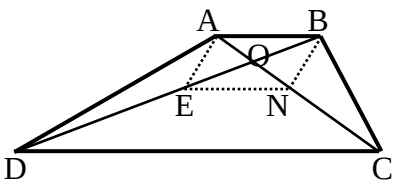

50) המרובע ABCD הוא טרפז ישר זווית $(AB \parallel CD , \sphericalangle D = 90°)$.
האלכסון BD חוצה את זווית D
ונתון בנוסף כי: $BD = BC$ וכי: 15 ס"מ = AD.
חשב את אורכי בסיסי הטרפז.

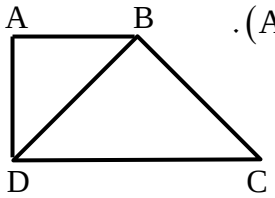

51) המרובע ABCD הוא טרפז ישר זווית
$(AB \parallel CD , AD \perp DC)$.
נתון כי: $BD = BC$, $\beta = 2\alpha$ ו- $\sphericalangle DOC = 80°$.
חשב את זוויות הטרפז.

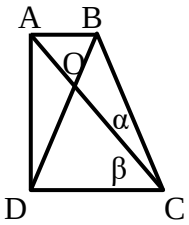

52) מרובע ABCD הוא טרפז שווה
שוקיים $(AB \parallel CD , AD = BC)$.
נתון כי: $BN \perp DC$, $AM \perp DC$.
הוכח כי: $DM = CN$.

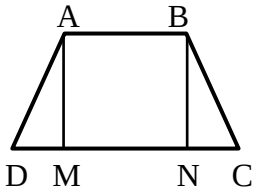

53) מרובע ABCD הוא טרפז שווה שוקיים $(AB \parallel CD , AD = BC)$.
דרך הנקודה B מעבירים מקביל ל-AC הפוגש
את המשך הבסיס DC בנקודה K.
הוכח כי משולש BDK הוא שווה שוקיים.

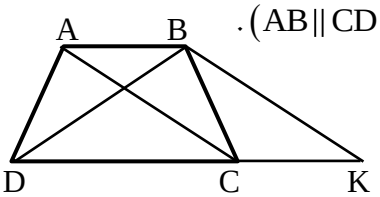

54) מרובע ABCD הוא טרפז שווה שוקיים $(AB \parallel CD , AD = BC)$.
O היא פגישת האלכסונים.
נתון כי: $EF \parallel DC$ כאשר EF עובר דרך O.
הוכח:
א. $\sphericalangle BOF = \sphericalangle COF$.
ב. $EO = FO$.

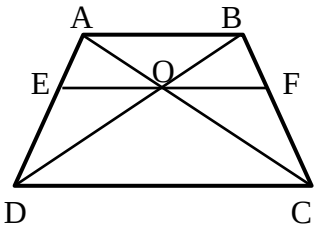

55) נתון ריבוע ABCD.
הנקודה M היא מפגש האלכסונים AC ו-BD.
ממשיכים את האלכסונים ויוצרים את הטרפז
השווה שוקיים ABLK.
ידוע גם כי DC הוא קטע אמצעים משולש KML.

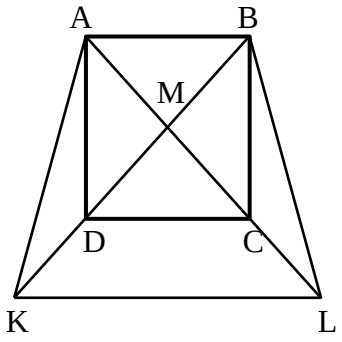

א. קבע אלו מהטענות הבאות ניתן להוכיח:
i. המשולש KML הוא ישר זווית ושווה שוקיים.
ii. הקטעים BK ו-BL מאונכים זה לזה.
iii. המרובע DCLK הוא טרפז שווה שוקיים.
iv. הקטעים DK ו-AD שווים זה לזה.
ב. הוכח כי: $3DK = AL$.
ג. נתון כי $8\sqrt{2}$ ס"מ = AD.
חשב את היקף הטרפז ABLK.

56) המרובע ABCD הוא מקבילית.
הקטע DE הוא קו ישר ונתון כי: $\sphericalangle A + \sphericalangle E = 180°$.
הוכח כי המרובע ABED הוא טרפז שווה שוקיים.

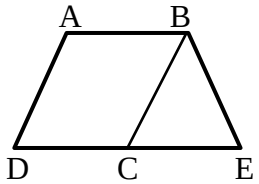

57) במרובע ABCD הנקודה O היא פגישת האלכסונים.
נתון כי: $AO = BO$, $CO = DO$.
הוכח כי מרובע ABCD הוא טרפז שווה שוקיים.

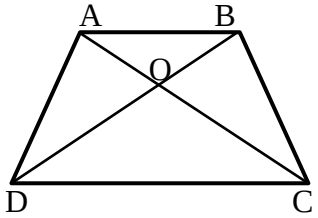

58) נתון מלבן ABCD שאלכסוניו נפגשים בנקודה O.
נתון: $MN \parallel DC$.
הוכח: DMNC טרפז שווה שוקיים.

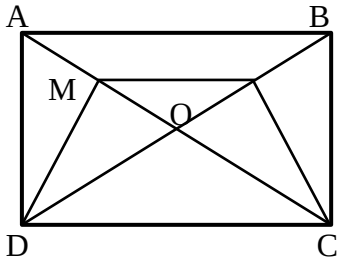

59) בטרפז ABCD $(AB \parallel CD)$ הורדו מקצות
הבסיס הקטן אנכים לבסיס הגדול.
קטע האמצעים GH חותך גבהים אלה בנקודות E ו-F.
נתון: GE = 3 ס"מ, EF = 12 ס"מ, FH = 2 ס"מ.
חשב את בסיסי הטרפז.

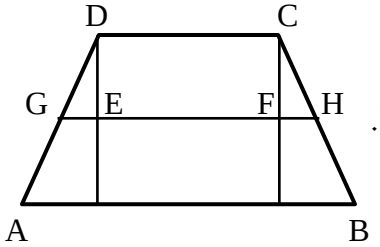

60) סכום כל אורכי הצלעות של טרפז שווה שוקיים הוא 54 ס"מ.
אורך קטע האמצעים הוא 13 ס"מ.
מצא את אורך שוק הטרפז.

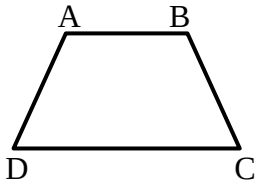

61) המרובע ABCD הוא טרפז $(AB \parallel CD)$.
KE הוא קטע אמצעים בטרפז, החותך את אלכסוני הטרפז בנקודות N ו-O.

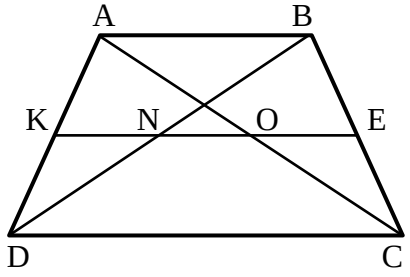

א. הוכח כי: $KN = EO$.
ב. בטרפז הנ"ל נתון:
14 ס"מ = AB, 26 ס"מ = DC.
חשב את אורכי הקטעים KN, NO ו-EO.
ג. בטרפז הנ"ל נתון: 13 ס"מ = KE,
3 ס"מ = NO. חשב את בסיסי הטרפז.

62) KN הוא קטע אמצעים בטרפז ישר זווית ABCD שאלכסוניו $(AB \parallel CD,\ AD \perp AB)$ נפגשים בנקודה O.
נתון: 12 ס"מ = AD, $DC = 2AB$, $\sphericalangle ADB = 45°$.
חשב את אורך הקטע LM
והוכח כי: $KL = LM = MN$.

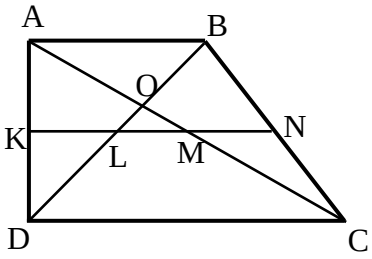

63) מרובע ABCD הוא טרפז $(AB \parallel CD)$.
EF הוא קטע אמצעים. AC ו-BK נפגשים בנקודה N הנמצאת על EF.

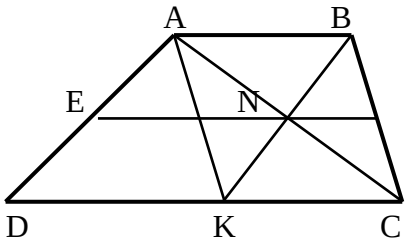

א. הוכח כי מרובע ABCK הוא מקבילית.
ב. נתון: 13 ס"מ = EF, 9 ס"מ = EN.
חשב את בסיסי הטרפז AB ו-DC
ואת הקטע DK.

64) המרובע ABCD הוא טרפז ישר זווית $(AB \parallel CD,\ \sphericalangle B = 90°)$.
EF קטע אמצעים בטרפז.
G ו-N הן נקודות על AB ו-CD בהתאמה המקיימות: $GN \perp DC$.
בנוסף נתון: $KO = EO$, $\sphericalangle D < 90°$.
הוכח כי מרובע GENK הוא מעוין.

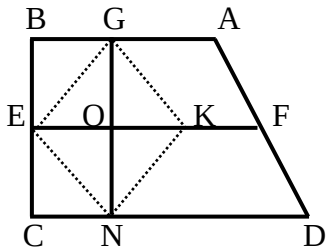

תשובות סופיות:

44) א. $x=66°;\ 46°,134°,66°,114°$ ב. $x=35°\ ;\ 40°,140°,75°,105°$

45) 8 ס"מ.

46) שאלת הוכחה.

47) א. 25 ס"מ. ב. שאלת הוכחה.

48) שאלת הוכחה.

49) שאלת הוכחה.

50) א. 15 ס"מ, 30 ס"מ. ב. שאלת הוכחה.

51) $90°\ ,\ 90°\ ,\ 60°\ ,\ 120°$

52) שאלת הוכחה.

53) שאלת הוכחה.

54) שאלת הוכחה.

55) א. ניתן להוכיח את טענות: i, iii. ב. שאלת הוכחה.

ג. 69.71 ס"מ $\approx P_{ABLK}=16\sqrt{5}+24\sqrt{2}$.

56) שאלת הוכחה.

57) שאלת הוכחה.

58) שאלת הוכחה.

59) 22 ס"מ ו-12 ס"מ.

60) 14 ס"מ.

61) א. שאלת הוכחה. ב. 7 ס"מ $=KN=EO$, 6 ס"מ $=NO$

ג. 10 ס"מ $=AB$, 16 ס"מ $=DC$.

62) 6 ס"מ.

63) 8 ס"מ $=AB$, 18 ס"מ $=DC$, 10 ס"מ $=DK$.

64) שאלת הוכחה.

הדלתון:

סיכום כללי:

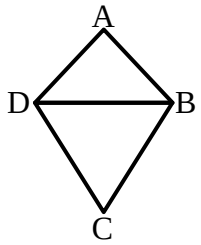

הגדרה:
דלתון הוא מרובע שבו שני זוגות של צלעות סמוכות שוות.
(מסקנה: דלתון הוא מרובע שניתן לפרק לשני משולשים שווי שוקיים בעלי בסיס משותף).

תכונות האלכסונים בדלתון:

- האלכסון הראשי בדלתון חוצה את זוויות הראש, חוצה את האלכסון המשני ומאונך לו.
- האלכסון הראשי אינו בהכרח גדול מהאלכסון המשני.
- היקף דלתון = סכום הצלעות, שטח דלתון = 2/(אלכסון · אלכסון).

שאלות:

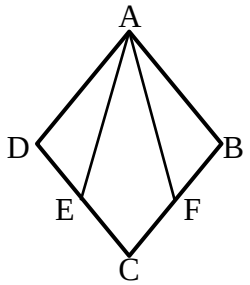

65) נתון מעוין ABCD. הנקודות E ו-F נמצאות על הצלעות DC ב-BC בהתאמה כך שהמרובע AFCE הוא דלתון.
הוכח: $\sphericalangle DAE = \sphericalangle FAB$.

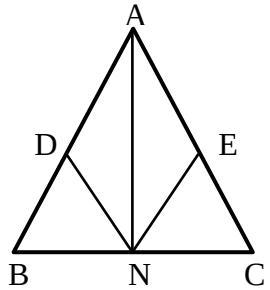

66) במשולש שווה שוקיים ABC $(AB = AC)$
מקצים נקודות D ו-E על השוקיים.
נתון כי: $AD = AE$.
הנקודה N היא אמצע BC.
הוכח כי ADNE הוא דלתון.

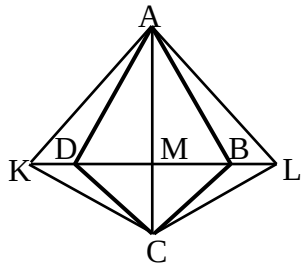

67) בדלתון ABCD האריכו את האלכסון המשני משני צדיו כמתואר בשרטוט כך שמתקיים: $KD = BL$.
הוכח: המרובע ALCK הוא דלתון.

תשובות סופיות:

65) שאלת הוכחה.
66) שאלת הוכחה.
67) שאלת הוכחה.

סיכום משפחת המרובעים:

להלן דיאגרמה מסכמת של כל משפחת המרובעים ותכונותיהם:

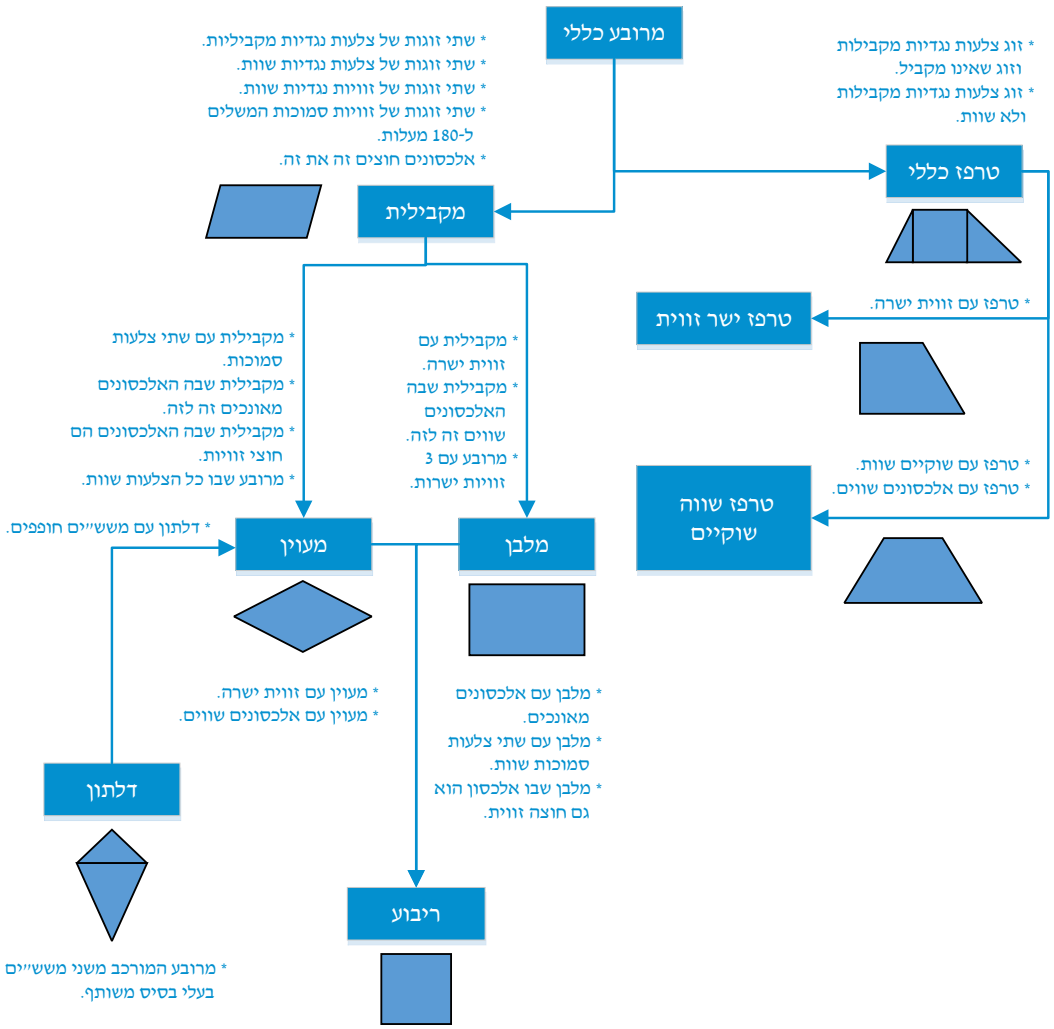

קורס השלמה במתמטיקה

פרק 13 - גיאומטריה אוקלידית - שטחים והיקפים

תוכן העניינים

1. שטחים והיקפים של משולשים 207
2. שטחים והיקפים של מרובעים 209
3. שאלות עם מקבילית 210
4. שאלות עם מלבן 213
5. שאלות עם מעוין 214
6. שאלות עם ריבוע 216
7. שאלות עם טרפז 218

שטחים והיקפים של משולשים:

סיכום כללי:

שטח – הגדרה:

גודל של תחום מישורי בהשוואה ליחידת מידה קבועה.
שטח נמדד ביחידות מידה של אורך בריבוע כגון:
מטר ריבועי (m^2), ס"מ ריבועי (סמ"ר cm^2).

היקף – הגדרה:

היקף מצולע הוא סכום כל צלעותיו.

משולשים:

סוג	משולש כללי	משולש שווה שוקיים	משולש ישר זווית
איור	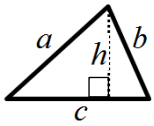	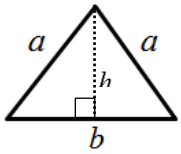	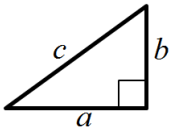
שטח	$S=\frac{c\cdot h}{2}$	$S=\frac{b\cdot h}{2}$	$S=\frac{a\cdot b}{2}$
היקף	$P=a+b+c$	$P=2a+b$	$P=a+b+c$

שאלות:

1) מצא את שטחם של המשולשים הבאים (כל המידות נתונות בס"מ):

א.
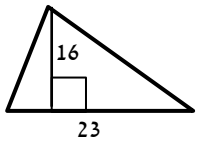

ב.
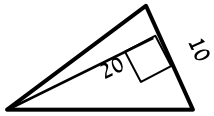

ג.
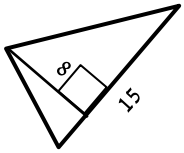

ד.
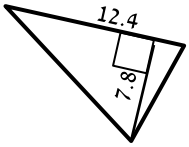

ה.
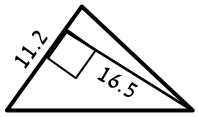

ו.
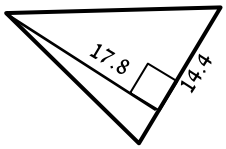

2) מצא את שטחם של המשולשים קהי-הזווית הבאים (כל המידות בס"מ):

א.
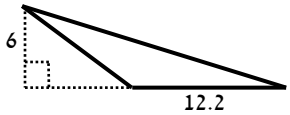

ב.
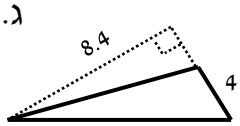

ג.
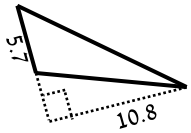

3) הוכח כי אם במשולש ABC, הקטע AD המחבר את הקדקוד A עם הצלע BC יוצר שני משולשים השווים בשטחם אז הוא תיכון ל-BC.

4) במשולש ABC הקטע AD הוא תיכון לצלע BC.
M היא אמצע AD. הוכח כי:

א. הקטעים AD, MC ו-BM מחלקים את המשולש ABC ל-4 משולשים שווי שטח.

ב. $S_{MBC} = \frac{1}{2} S_{ABC}$.

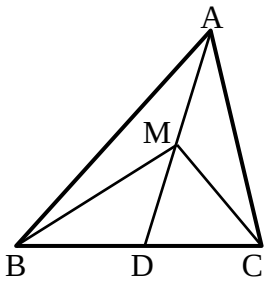

תשובות סופיות:

1) א. 184 סמ"ר ב. 100 סמ"ר ג. 60 סמ"ר ד. 48.36 סמ"ר
ה. 92.4 סמ"ר ו. 128.16 סמ"ר.

2) א. 36.6 סמ"ר ב. 16.8 סמ"ר ג. 30.78 סמ"ר.

3) שאלת הוכחה.

4) שאלת הוכחה.

שטחים והיקפים של מרובעים:

סיכום כללי:

סוג	מקבילית	מלבן	מעוין	ריבוע	טרפז
איור	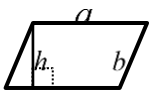	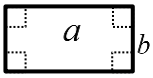	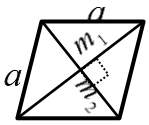		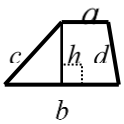
שטח	$S=a\cdot h$	$S=a\cdot b$	$S=a\cdot h$ $S=\frac{m_1\cdot m_2}{2}$	$S=a^2$	$S=\frac{(a+b)h}{2}$
היקף	$P=2(a+b)$	$P=2(a+b)$	$P=4a$	$P=4a$	$P=a+b+c+d$

הערות כלליות:

- שטח מקבילית ניתן לחישוב ע"י מכפלת כל צלע בגובה המתאים לה.
  כך ניתן לקבל את הנוסחה: $S=a\cdot h_a=b\cdot h_b$ כאשר h_a ו- h_b הם הגבהים לצלעות a ו- b בהתאמה.
- ניתן לחשב שטח מעוין ע"י מחצית ממכפלת אלכסונים או ע"י מכפלת צלע בגובה שלה (שכן היא סוג של מקבילית).
- עבור טרפז ישר זווית, שבו $h=c$ נקבל: $S=\frac{(a+b)c}{2}$.
- ניתן לחשב שטח של טרפז ע"י הורדת גבהים, חלוקתו למלבן ושני משולשים, חישוב שטחם בנפרד ואיחודם.

שאלות עם מקבילית:

שאלות:

5) חשב את השטחים וההיקפים של המקביליות הבאות (כל המידות בס"מ):

א.
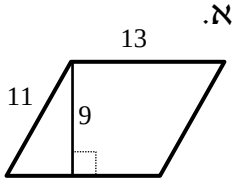

ב.
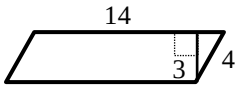

ג.
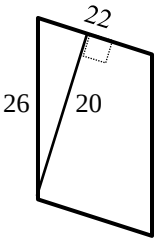

ד.
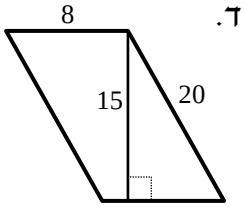

6) נתונה מקבילית ABCD.
מעבירים גובה AE לצלע CD שאורכו הוא 6 ס"מ.
ידוע כי שטח המקבילית הוא 60 סמ"ר.

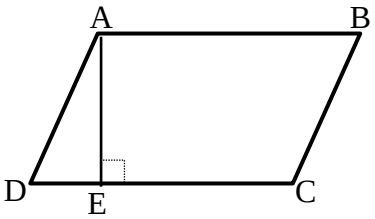

א. מצא את אורך הצלע AB.

ב. ידוע כי היקף המקבילית הוא 36 ס"מ.
מצא את אורך הצלע BC.

7) נתונה מקבילית ABCD.
מעבירים את האלכסון AC שאורכו 25 ס"מ.
ידוע כי היקף המשולש ACD הוא 66 ס"מ.
חשב את היקף המקבילית.

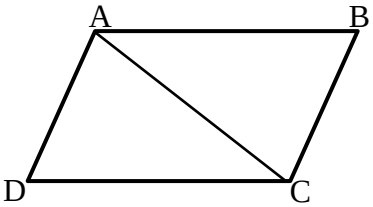

8) נתונה מקבילית ABCD.
מורידים גובה מהקדקוד B לצלע CD כך שנוצר המשולש BCE.
שטח המשולש BCE הוא 24 סמ"ר
ושטח המקבילית ABCD הוא 112 סמ"ר.
נתון: CE = 6 ס"מ.

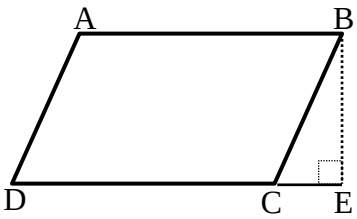

א. מצא את אורך הגובה BE.

ב. מצא את אורך הצלע AB של המקבילית.

9) נתונה מקבילית ABCD.
מעלים אנך מהקדקוד A עד לנקודה E ויוצרים משולש AEB.
מורידים גובה AH לצלע CD שאורכו 12 ס"מ.
נתון: AE = 8 ס"מ, AD = 13 ס"מ.
שטח כל הצורה AEBCD הוא 256 סמ"ר.

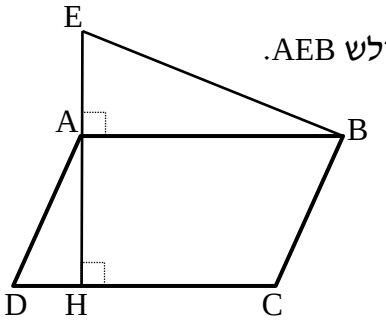

א. מצא את אורך הצלע AB.

ב. חשב את היקף המקבילית ABCD.

10) במקבילית ABCD מעבירים את הגבהים BE ו-DH לצלעות CD ו-BC בהתאמה.
נתון: BE = 12 ס"מ, BC = 14.4 ס"מ, DH = 15 ס"מ.

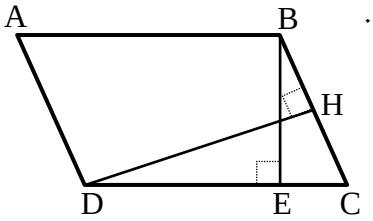

א. חשב את שטח המקבילית ABCD.
ב. חשב את אורך הצלע AB.
ג. חשב את היקף המקבילית.

11) נתונה המקבילית ABCD.
על הצלע BC בונים מקבילית נוספת BCHE שהיקפה הוא 44 ס"מ.
ידוע כי היקף הצורה ABEHCD הוא 94 ס"מ.
נתון: BC = 15 ס"מ.

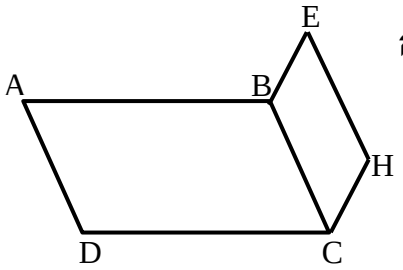

א. חשב את אורך הצלע AB.
ב. חשב את היקף המקבילית ABCD.

12) המרובע ABCD הוא מקבילית.
הנקודה E נמצאת על DC.
הוכח כי: $S_{AEB} = \frac{1}{2} S_{ABCD}$.

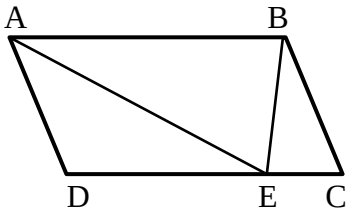

13) המרובע ABCD הוא מקבילית.
הנקודות M ו-L נמצאות על הצלעות AD ו-DC בהתאמה.
הוכח כי: $S_{BMC} = S_{ALB}$.

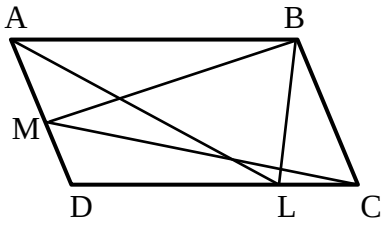

תשובות סופיות:

5) א. 48 ס"מ = P , 117 סמ"ר = S
ב. 36 ס"מ = P , 42 סמ"ר = S
ג. 96 ס"מ = P , 440 סמ"ר = S
ד. 56 ס"מ = P , 120 סמ"ר = S.

6) א. 10 ס"מ = AB
ב. 8 ס"מ = BC.

7) 82 ס"מ= P.

8) א. 8 ס"מ = BE
ב. 14 ס"מ = AB.

9) א. 16 ס"מ = AB
ב. 58 ס"מ = P.

10) א. 216 סמ"ר= S
ב. 18 ס"מ = AB
ג. 64.8 ס"מ= P.

11) א. 25 ס"מ = AB
ב. 80 ס"מ = P.

12) שאלת הוכחה.

13) שאלת הוכחה.

שאלות עם מלבן:

שאלות:

14) במלבן ABCD אורכי הצלעות הם: 12 ס"מ = AB, 8 ס"מ = BC.
מצאו את ההיקף של המלבן.

15) במלבן ABCD אורך הצלע AB הוא 10 ס"מ. היקף המלבן הוא 32 ס"מ.
מצאו את שטח המלבן.

16) במלבן ABCD נתון: 11 ס"מ = DC, 9 ס"מ = AD.
מצאו את האורך של האלכסון AC.

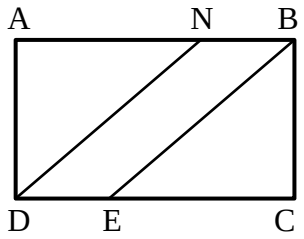

17) המרובע ABCD הוא מלבן.
הישרים DN ו-BE מקבילים.
נתון: 32 ס"מ = AB, 30 ס"מ = DN ו-8 ס"מ = BN.
הוכח כי מרובע NBED הוא מקבילית וחשב את שטחה.

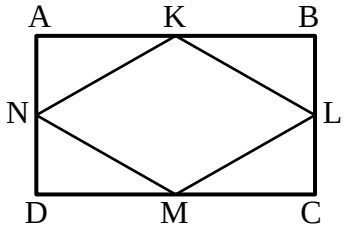

18) הנקודות K, L, M ו-N הן אמצעי הצלעות AB , BC , CD ו-AD בהתאמה במלבן ABCD.
נתון כי היקף המלבן הוא 120 ס"מ וכי שטחו הוא 836 סמ"ר.
חשב את שטחו של המרובע KLMN.

תשובות סופיות:

14) 40 ס"מ.

15) 60 סמ"ר.

16) 14.21 ס"מ $\approx \sqrt{202}$.

17) 144 סמ"ר.

18) 418 סמ"ר.

שאלות עם מעוין:

שאלות:

19) חשב את השטחים וההיקפים של המעוינים הבאים (כל המידות בס"מ):

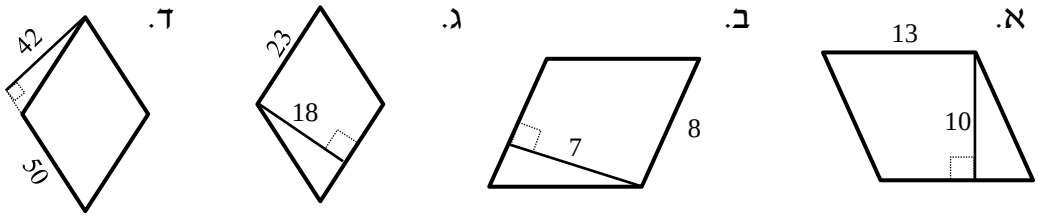

20) במעוין ABCD האלכסונים נפגשים בנקודה O.
נתון: AO = 3 ס"מ, BO = 4 ס"מ. מצא את אורך צלע המעוין.

21) במעוין ABCD האלכסונים נפגשים בנקודה O.
נתון: AB = 12 ס"מ, BO = 8 ס"מ. מצא את AO.

22) במעוין ABCD האלכסון AC שווה באורכו לצלע המעוין.
נתון: AB = 20 ס"מ.
א. חשב את אורך האלכסון BD.
ב. חשב את שטח המעוין.

23) נתון מעוין ABCD. אורך האלכסון הקצר הוא 7 ס"מ ושטח המעוין הוא 35 סמ"ר. חשב את היקף המעוין.

24) נתון מעוין ABCD בעל אורך צלע של 8 ס"מ.
מעבירים את הקטע BE השווה באורכו לצלע המעוין כך שנוצר המשולש BCE. ידוע כי: CE = 6 ס"מ.
א. איזה סוג משולש הוא המשולש BCE? נמק.
ב. חשב את היקף הצורה ABECD.

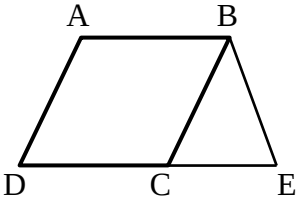

25) נתון משולש שווה שוקיים ABC, (AB =AC).
מסמנים את אמצעי צלעות המשולש ב-D, E ו-F
ומעבירים את הקטעים DE ו-EF כך שהמרובע ADEF הוא מעוין.
נתון: BC = 12 ס"מ, וכי היקף המשולש ABC הוא 48 ס"מ.

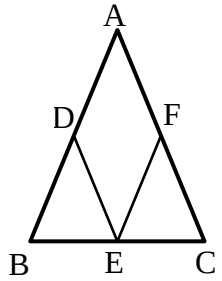

א. מצא את אורך צלע המעוין ADEF.
ב. חשב את היקף המעוין ADEF.

26) המרובע ABCD הוא מקבילית שבה אורך הצלע AB גדולה פי 2 מהצלע AD.
ממשיכים את הצלע AD עד לנקודה K ומחברים אותה לקדקוד B. מעבירים
את הקטע FE כך ש-F היא אמצע הקטע BK. EF חותך את הצלע AB בנקודה G
ומקביל לצלע AD.

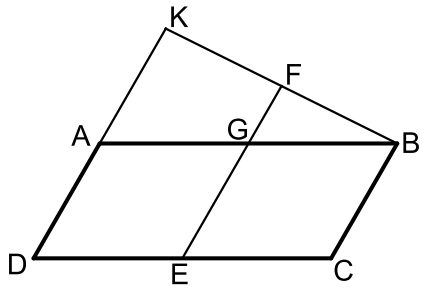

א. הוכח כי המרובע AGED הוא מעוין.
ב. שטח המעוין AGED הוא 20 סמ"ר.
חשב את שטח המרובע DCBK אם ידוע
כי A היא אמצע הקטע DK.

תשובות סופיות:

19) א. 52 ס"מ = P, 130 סמ"ר= S ב. 32 ס"מ = P, 56 סמ"ר= S.
ג. 92 ס"מ = P, 414 סמ"ר= S ד. 200 ס"מ = P, 2100 סמ"ר= S.

20) 5 ס"מ.

21) 8.94 ס"מ $\approx \sqrt{80}$.

22) א. $20\sqrt{3}$ ס"מ = BD ב. 346.41 סמ"ר.

23) 24.413 ס"מ.

24) א. משולש שווה שוקיים, מכיוון ש-BE=BC. ב. 38 ס"מ= P.

25) א. 9 ס"מ. ב. 36 ס"מ= P.

26) ב. 60 סמ"ר.

שאלות עם ריבוע:

שאלות:

27) נתון ריבוע ABCD בעל אורך צלע של 6 ס"מ.

א. חשב את שטח הריבוע.

ב. חשב את היקף הריבוע.

ג. חשב את אורך האלכסון בריבוע.

28) שטחו של ריבוע ABCD הוא 49 סמ"ר.

א. מהו אורך צלע הריבוע?

ב. מהו אורך האלכסון בריבוע?

ג. מהו היקף הריבוע?

29) בריבוע ABCD מעבירים את הקטע AE כך ש-E היא אמצע הצלע DC ואת האלכסון AC.
שטח הריבוע הוא 40 סמ"ר.

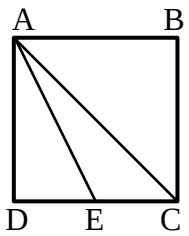

א. מצא את אורך צלע הריבוע.

ב. מצא את אורך אלכסון הריבוע.

ג. מצא את אורך הקטע AE.

30) חשב את צלע הריבוע השווה בשטחו לשטח משולש שצלעו 25 ס"מ והגובה לצלע זו הוא 18 ס"מ.

31) נתונים מלבן וריבוע השווים בשטחם.
אורכי צלעות המלבן הם 25 ס"מ ו-9 ס"מ.
חשב את היקף הריבוע.

32) נתונים מלבן וריבוע השווים בהיקפם.
שטח הריבוע הוא 36 ס"מ ואורך המלבן גדול ב-8 ס"מ מרוחבו.
חשב את שטח המלבן.

תשובות סופיות:

27) א. 36 סמ"ר ב. 24 ס"מ ג. 8.48 ס"מ.

28) א. 7 ס"מ ב. 9.89 ס"מ ג. 28 ס"מ.

29) א. 6.32 ס"מ ב. 8.94 ס"מ ג. 7.07 ס"מ.

30) 15 ס"מ.

31) 60 ס"מ.

32) 20 סמ"ר.

שאלות עם טרפז:

שאלות:

33) חשב את השטחים וההיקפים של הטרפזים הבאים (כל המידות בס"מ):

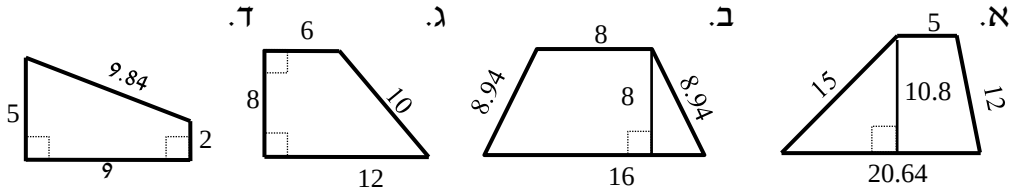

34) נתון טרפז ABCD, $(AB \parallel CD)$.

מורידים את הגבהים AE ו-BH שאורכם 8 ס"מ.

ידוע כי: 6 ס"מ = DE, 2 ס"מ = HC.

שטח הטרפז הוא 88 סמ"ר.

מצא את אורך בסיס הטרפז AB.

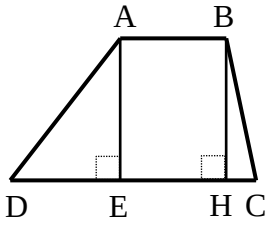

35) נתון טרפז ABCD, $(AB \parallel CD)$.

מורידים גובה AE מהקדקוד A.

היקף הטרפז הוא 68 ס"מ ונתון כי:

18 ס"מ = AD, 16 ס"מ = BC, 12 ס"מ = AB.

א. מצא את אורך הבסיס DC.

ב. מצא את הגובה AE אם ידוע כי שטח הטרפז הוא 255 סמ"ר.

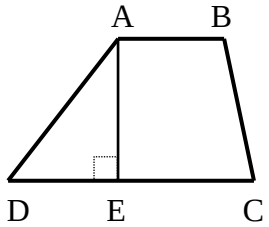

36) נתון טרפז ABCD, $(AB \parallel CD)$.

מהקדקוד B מורידים גובה חיצוני לטרפז BE

כאשר E נמצאת על המשך הבסיס DC.

ידוע כי: 20 ס"מ = AB, 8 ס"מ = DC

וכי שטח הטרפז הוא 196 סמ"ר.

א. מצא את הגובה BE.

ב. נתון כי: $\sphericalangle D = 60°$, $\sphericalangle BCD = 130°$.

חשב את זווית $\sphericalangle A$ ואת זוויות המשולש BCE.

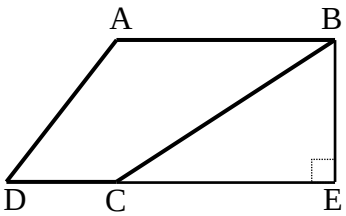

37) נתון טרפז ABCD, $(AB \parallel CD)$.
האלכסון AC הוא גובה בטרפז ואורכו 12 ס"מ.
ידוע כי: 13 ס"מ = AD = AB, 17.7 ס"מ = BC.
היקף הטרפז הוא 48.7 ס"מ ו- $\sphericalangle B = 42.71°$.

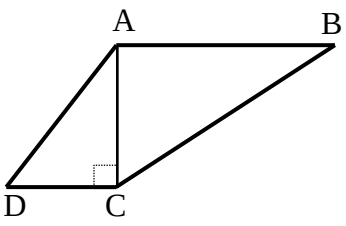

א. מצא את אורך הבסיס DC.
ב. חשב את שטח הטרפז.
ג. חשב את זווית C.

38) הטרפז ABCD, $(AB \parallel CD)$ הוא ישר זווית $(\sphericalangle A = 90°)$.
מהנקודה E שעל הבסיס DC מעבירים את הקטע BE
כך שהמשולש BCE הוא שווה צלעות עם 14 ס"מ = BC.
היקף הטרפז ABCD הוא 67 ס"מ ו- AD הוא 10 ס"מ.

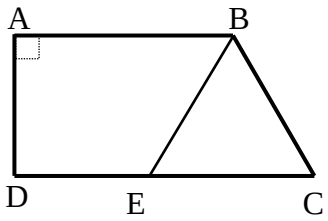

א. מהו היקף הטרפז ABED?
ב. חשב את שטח הטרפז ABED.

39) נתון טרפז ABCD שאורכי צלעותיו נתונים בסרטוט.
חשב את שטח הטרפז (פתור כתרגיל חישוב).

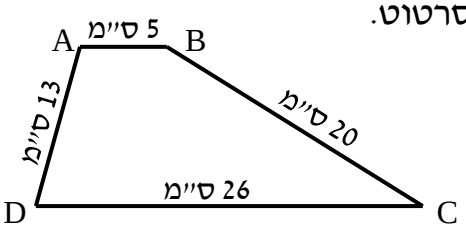

40) המרובע ABCD הוא טרפז $(AB \parallel CD)$.
הנקודה E היא אמצע השוק BC.
הוכח כי: $S_{ADE} = \frac{1}{2} S_{ABCD}$.

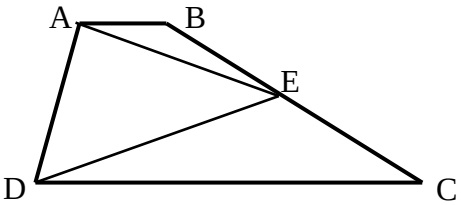

41) המרובע ABCD הוא טרפז ישר זווית $(\sphericalangle A = 90°)$.
הנקודה M נמצאת על אמצע האלכסון BD של הטרפז וממנה מעבירים
את הקטעים ME ו-MF השווים זה לזה ומחברים אותה עם הקדקוד A.
נתון כי: $ME \perp MF$ וכי: $\sphericalangle DFM > 90°$.

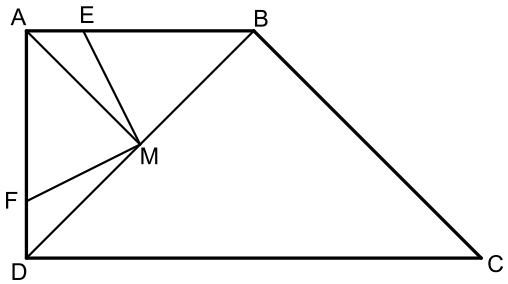

א. הוכח: $\Delta AMF \cong \Delta BME$.
ב. נתון כי: $BC = \sqrt{32}$, $AE = FD = 1$.
כמו כן: $AM \parallel BC$.
i. מצא את אורך הקטע BE.
ii. חשב את שטח הטרפז ABCD.

תשובות סופיות:

33) א. 52.64 ס"מ $= P$, 138.456 סמ"ר $= S$.
ב. 41.88 ס"מ $= P$, 96 סמ"ר $= S$.
ג. 36 ס"מ $= P$, 72 סמ"ר $= S$.
ד. 25.48 ס"מ $= P$, 31.5 סמ"ר $= S$.

34) 7 ס"מ = AB.

35) א. 22 ס"מ = DC.
ב. 15 ס"מ = AE.

36) א. 14 ס"מ = BE.
ב. $\sphericalangle A = 120^\circ$, $\sphericalangle CBE = 40^\circ$, $\sphericalangle BCE = 50^\circ$, $\sphericalangle E = 90^\circ$.

37) א. 5 ס"מ = DC.
ב. 108 סמ"ר $= S$.
ג. $\sphericalangle C = 137.29^\circ$.

38) א. 53 ס"מ $= P$.
ב. 145 סמ"ר $= S$.

39) 186 סמ"ר.

40) שאלת הוכחה.

41) ב. i. 3 ס"מ.
ב. ii. 24 סמ"ר.

קורס השלמה במתמטיקה

פרק 14 - טריגונומטריה במשולש ישר זווית

תוכן העניינים

1. משולש ישר זווית 221

משולש ישר זווית:

סיכום כללי:

הגדרות הפונקציות הטריגונומטריות:

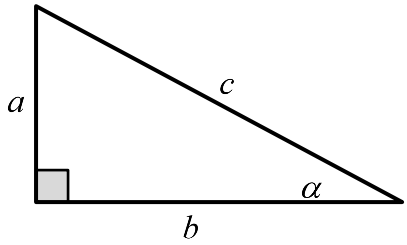

$$\sin\alpha = \frac{\text{הניצב שמול הזווית}}{\text{היתר}} = \frac{a}{c}$$

$$\cos\alpha = \frac{\text{הניצב שליד הזווית}}{\text{היתר}} = \frac{b}{c}$$

$$\tan\alpha = \frac{\text{הניצב שמול הזווית}}{\text{הניצב שליד הזווית}} = \frac{a}{b}$$

משפט פיתגורס: $a^2+b^2=c^2$

שאלות:

1) מצא את ערכו של x / α במשולשים ישרי הזווית הבאים:

א.

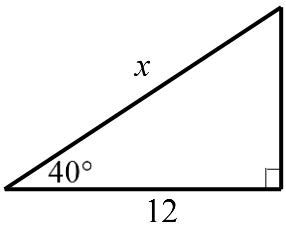

ב.

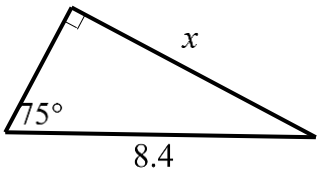

ג.

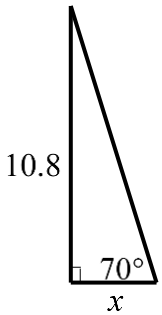

ד.

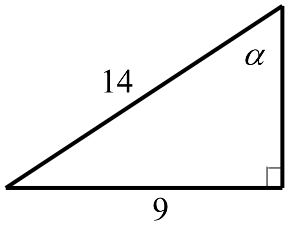

ה.

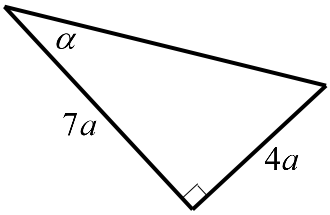

2) המשולש ABC שבציור הוא משולש ישר זווית $(\sphericalangle B=90°)$.

AD הוא התיכון לניצב BC.

נתון: $\sphericalangle C=28°$, 6 ס"מ = AB.

מצא את AD ואת $\sphericalangle BAD$.

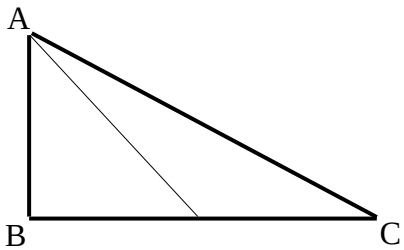

3) המשולש ABC שבציור הוא משולש ישר זווית $(\sphericalangle B=90^\circ)$. BD הוא התיכון ליתר ו-AE הוא חוצה הזווית $\sphericalangle A$.
נתון: BD = 5.6 ס"מ , BC = 8 ס"מ.
מצא את BE ואת $\sphericalangle BAE$.

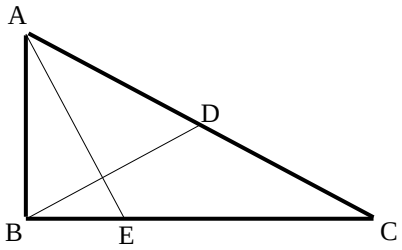

4) מצא את זוויותיו של מעוין שאורכי אלכסוניו 24 ס"מ ו-18 ס"מ.

5) המשולש ABC חסום במעגל כך שהצלע AC היא קוטר המעגל.
המשיק למעגל בנקודה A והמשך הצלע CB נפגשים בנקודה D.
נתון: BD=4 ס"מ , $\sphericalangle DAB=32^\circ$.
מצא את אורכו של רדיוס המעגל.

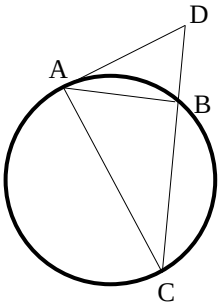

6) במשולש שווה שוקיים שבו השוק ארוכה ב-4 ס"מ מהבסיס נתון כי זווית הראש היא 34.92°. מצא את שטח המשולש.

7) המשולש ABC שבציור הוא משולש ישר זווית $(\sphericalangle B=90^\circ)$.
נתון: $\sphericalangle A=\alpha$, $AB=a$.
הבע באמצעות α ו-a את היקף המשולש.

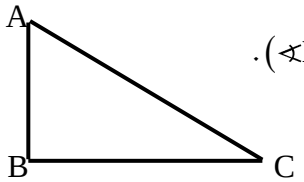

8) המשולש ABC שבציור הוא משולש ישר זווית $(\sphericalangle B=90^\circ)$.
AD הוא התיכון לניצב BC.
נתון: $\sphericalangle C=\alpha$, $AB=b$.
הבע באמצעות α ו-b את אורכי הקטעים BD ו-AD.

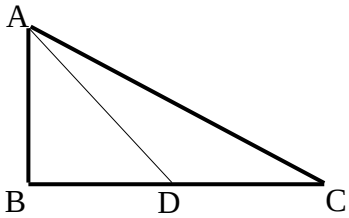

9) במשולש ישר זווית אחת הזוויות החדות היא α ואורך חוצה זווית זו הוא k.
הבע באמצעות α ו-k את שטח המשולש ואת אורך היתר.

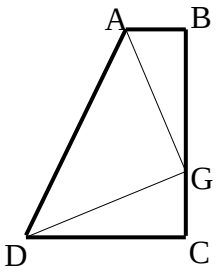

10) טרפז ABCD הוא טרפז ישר זווית $(\sphericalangle B=\sphericalangle C=90^\circ)$.
הנקודה G נמצאת על השוק BC כך ש- $AG\perp DG$.
נתון: $AG=DG=m$, $\sphericalangle BAG=\beta$.
הבע באמצעות β ו- m את שטח הטרפז.

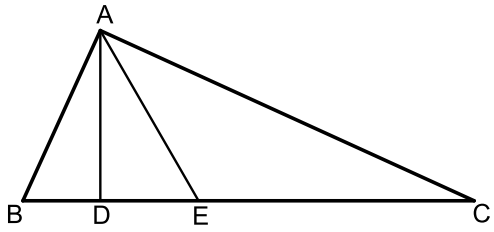

11) המשולש ABC הוא ישר זווית $(\sphericalangle A=90^\circ)$.
הקטעים AD ו-AE הם בהתאמה גובה ליתר וחוצה זווית.
מסמנים: $DE=k$, $\sphericalangle DAE=\alpha$.

א. הבע באמצעות k ו- α את שטח המשולש ABC.

ב. חשב את שטח המשולש ABC אם ידוע כי: $\alpha=30$ ו- $k=2$.

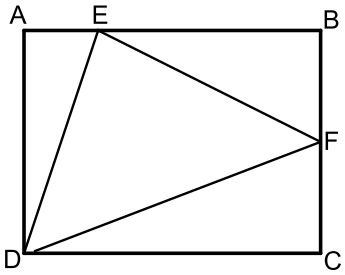

12) במלבן ABCD מסמנים את הנקודות E ו-F הנמצאות על הצלעות AB ו-BC בהתאמה כך ש-E מקיימת: $3AE=BE$ ו-F היא אמצע הצלע BC.
אורך הצלע AD שווה לאורך הקטע BE.
מעבירים את הקטעים DF , EF ו-DE כך שנוצר במשולש DEF.

א. סמן ב- t את אורך הקטע AE והבע באמצעות t את אורכי צלעות המשולש DEF.

ב. חשב את זוויות המשולש EDF.

13) משולש שווה שוקיים שאורך שוקו k וזווית הבסיס שלו היא β חוסם מעגל.
הבע באמצעות β ו- k את רדיוס המעגל.

14) בטרפז ישר זווית חסום מעגל. אורך השוק הארוכה בטרפז היא b והזווית שהיא יוצרת עם הבסיס הגדול היא α.
הבע באמצעות α ו- b את אורכו של הבסיס הגדול בטרפז ואת שטחו.

הערה: השאלות הבאות משלבות ידע בגיאומטריה ובטריגונומטריה יחד:

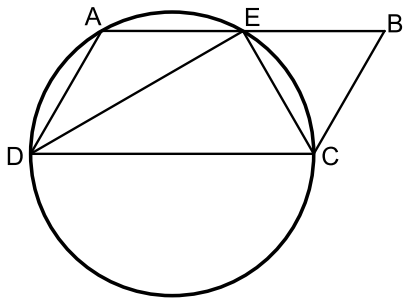

15) דרך הקודקודים A , C ו-D של המקבילית ABCD מעבירים מעגל. היקף המעגל חוצה את הצלע AB בנקודה E, $(AE = BE)$.
נתון כי DC הוא קוטר במעגל וכי המיתר DE חוצה את זווית D.

א. הוכח כי המיתר CE חוצה את זוויות C.

ב. רדיוס המעגל יסומן ב- R.
הבע באמצעות R את היקף המקבילית.

ג. מצא את רדיוס המעגל אם ידוע כי שטח המקבילית הוא $16\sqrt{3}$ סמ"ר.

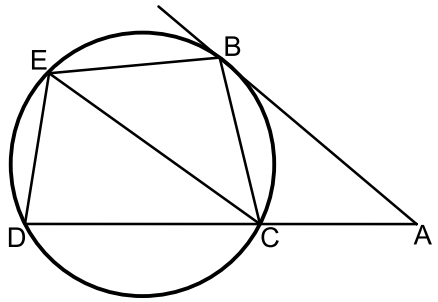

16) מהנקודה A שמחוץ למעגל מעבירים משיק AB וישר חותך ACD.
מעבירים את המיתרים BC ו-BE אשר זהים באורכם.
כמו כן מעבירים את המיתר DE.
אורך המיתר CE שונה מאורך המשיק AB.

א. הוכח כי המרובע ABEC הוא טרפז.

ב. הוכח כי: $2\cdot\sphericalangle BEC = \sphericalangle EDC$.

ג. נתונים: $\sphericalangle A = 40°$, 6 ס"מ = AC, 9 ס"מ = AB , 8 ס"מ = CE.
חשב את שטח המרובע ABEC.

תשובות סופיות:

1) א. $x=15.665$ ב. $x=8.114$ ג. $x=3.931$ ד. $\alpha=40.005°$ ה. $\alpha=29.745°$.

2) $\sphericalangle BAD=43.24°$, $AD=$ 8.236 ס"מ.

3) $\sphericalangle BAE=22.792°$, $BE=$ 3.294 ס"מ.

4) $106.26°$, $106.26°$, $73.74°$, $73.74°$.

5) $R=$ 6.04 ס"מ.

6) $S=$ 28.618 סמ"ר.

7) $P=a\left(1+\tan\alpha+\frac{1}{\cos\alpha}\right)$.

8) $BD=\frac{b}{2\tan\alpha}$, $AD=\sqrt{b^2+\frac{b^2}{4\tan^2\alpha}}$.

9) $S=\frac{k^2\cos^2\frac{\alpha}{2}\tan\alpha}{2}$, $AC=\frac{k\cos\frac{\alpha}{2}}{\cos\alpha}$.

10) $\frac{(m\sin\beta+m\cos\beta)^2}{2}$.

11) א. $S=\frac{k^2}{\cos 2\alpha\tan^2\alpha}$ ב. 24 סמ"ר.

12) א. $DF=t\sqrt{18.25}$, $EF=t\sqrt{11.25}$, $DE=t\sqrt{10}$ ב. $47.14°$, $51°$, $81.86°$.

13) $R=k\cos\beta\tan\frac{\beta}{2}$.

14) $S=\frac{1}{2}b^2\sin\alpha(1+\sin\alpha)$, $\frac{1}{2}b\sin\alpha+\frac{\frac{1}{2}b\sin\alpha}{\tan\frac{\alpha}{2}}$.

15) א. שאלת הוכחה. ב. $6R$ ג. 4 ס"מ.

16) א. שאלת הוכחה. ב. שאלת הוכחה. ג. 32.78 סמ"ר.

קורס השלמה במתמטיקה

פרק 15 - זהויות טריגונומטריות

תוכן העניינים

1. זהויות יסוד 226
2. ערכי הפונקציות הטריגונומטריות עבור זוויות מיוחדות 230
3. מעגל היחידה 232
4. סכום והפרש זוויות 235
5. זווית כפולה 239
6. סכום והפרש פונקציות 242
7. מכפלת פונקציות 245

זהויות יסוד:

סיכום כללי:

קשרים בין פונקציות	$\tan\alpha=\frac{\sin\alpha}{\cos\alpha}$, $\cot\alpha=\frac{\cos\alpha}{\sin\alpha}$	$\sin^2\alpha+\cos^2\alpha=1$ $\tan\alpha\cdot\cot\alpha=1$
זוויות משלימות ל- $90°$	$\cos\alpha=\sin(90°-\alpha)$	$\sin\alpha=\cos(90°-\alpha)$
	$\cot\alpha=\tan(90°-\alpha)$	$\tan\alpha=\cot(90°-\alpha)$
קשרים בין פונקציות	$\cot^2\alpha+1=\frac{1}{\sin^2\alpha}$	$\tan^2\alpha+1=\frac{1}{\cos^2\alpha}$

שאלות:

הוכחת זהויות יסודית:

הוכח את הזהויות הבאות תוך שימוש בזהויות היסוד:

1) $\tan\alpha\cdot\cos\alpha=\sin\alpha$

2) $\frac{1-\sin^2\alpha}{\cos^2\alpha}=1$

3) $\frac{\sin\alpha}{\sqrt{1-\sin^2\alpha}}=\tan\alpha$

4) $\sin^2\alpha+2\cos^2\alpha=1+\cos^2\alpha$

5) $\frac{\sin^2\alpha}{1+\cos\alpha}+\frac{\sin^2\alpha}{1-\cos\alpha}=2$

6) $(\sin\alpha+\cos\alpha)^2+(\sin\alpha-\cos\alpha)^2=2$

7) $\frac{\cos(90°-\alpha)}{\cos\alpha}=\tan\alpha$

8) $\sin^2(\alpha+45°)+\sin^2(45°-\alpha)=1$

9) $\sqrt{1+\tan^2\alpha}\cdot\sqrt{1-\cos^2\alpha}=\tan\alpha$

10) $\frac{\sin\alpha(1-\cos^2\alpha)}{\cos^3\alpha}=\tan^3\alpha$

11) $\frac{\sin(90°-\alpha)-\cos^3\alpha}{\sin^3\alpha}=\cot\alpha$

12) $\cos^2\alpha(1+\tan^2\alpha)=1$

13) $\frac{\sin\alpha\cdot\cos\alpha}{1-\cos^2\alpha}=\cot\alpha$

14) $\frac{\sin^3\alpha}{\sin(90°-\alpha)-\cos^3\alpha}=\tan\alpha$

15) $\tan^2\alpha-\sin^2\alpha=\tan^2\alpha\sin^2\alpha$

16) $\frac{1-2\sin^2\alpha\cos^2\alpha}{\sin^2\alpha\cdot\cos^2\alpha}=\tan^2\alpha+\cot^2\alpha$

הוכחות מתקדמות:

17) הוכח את הזהות הבאה: $\frac{1+\cos\alpha}{1-\cos\alpha}+\frac{1-\cos\alpha}{1+\cos\alpha}=2+4\cot^2\alpha$.

18) הוכח את הזהות הבאה: $\frac{1+\tan\alpha}{1-\tan\alpha}+\frac{1-\tan\alpha}{1+\tan\alpha}=\frac{2}{\cos^2\alpha-\sin^2\alpha}$.

19) הוכח את הזהות הבאה: $(\cot\alpha-\tan\alpha)(\cot\alpha+\tan\alpha)=(1+\cot^2\alpha)(1+\tan\alpha)(1-\tan\alpha)$.

20) הוכח את הזהות הבאה: $\frac{\sin^4\alpha+\cos^2\alpha-\sin^2\alpha}{\cos^4\alpha+\sin^2\alpha-\cos^2\alpha}=\cot^4\alpha$.

21) הוכח את הזהות הבאה: $1-\sin^2\alpha(1+\cos^2\alpha)=\cos^4\alpha$.

22) הוכח את הזהות הבאה: $\left(\sqrt{\frac{1+\cos\alpha}{1-\cos\alpha}}+\sqrt{\frac{1-\cos\alpha}{1+\cos\alpha}}\right)^2=4+4\cot^2\alpha$.

23) הוכח את הזהות הבאה: $\sin^2\alpha\cos^2\beta-\sin^2\beta\cos^2\alpha=\sin^2\alpha-\sin^2\beta$.

24) הוכח את הזהות הבאה: $\frac{\tan\alpha+\tan\beta}{\cot\alpha+\cot\beta}=\tan\alpha\tan\beta$.

הבעת ביטויים וחישובים באמצעות זהויות יסוד:

25) נתון כי: $\sin\alpha+\cos\alpha=k$.

הבע באמצעות k את ערכי הביטויים הבאים:

א. $\sin\alpha\cdot\cos\alpha$.

ב. $\sin\alpha-\cos\alpha$.

ג. $\tan\alpha+\cot\alpha$.

ד. $\sin^3\alpha+\cos^3\alpha$.

26) נתון כי: $\sin\alpha=\frac{\sqrt{5}}{5}$.

מבלי למצוא את α חשב את: $\tan^2\alpha-2\cot^2\alpha$.

27) נתון כי: $\tan\alpha=\sqrt{7}$.

מבלי למצוא את α חשב את: $\dfrac{\sqrt{7}\sin\alpha+6\cos\alpha}{\sqrt{28}\sin\alpha-\cos\alpha}$.

28) חשב את ערך המכפלה הבאה: $\tan 1^\circ\cdot\tan 2^\circ\cdot\tan 3^\circ\cdot\cdots\cdot\tan 88^\circ\cdot\tan 89^\circ$.

תשובות סופיות:

1) שאלת הוכחה.
2) שאלת הוכחה.
3) שאלת הוכחה.
4) שאלת הוכחה.
5) שאלת הוכחה.
6) שאלת הוכחה.
7) שאלת הוכחה.
8) שאלת הוכחה.
9) שאלת הוכחה.
10) שאלת הוכחה.
11) שאלת הוכחה.
12) שאלת הוכחה.
13) שאלת הוכחה.
14) שאלת הוכחה.
15) שאלת הוכחה.
16) שאלת הוכחה.
17) שאלת הוכחה.
18) שאלת הוכחה.
19) שאלת הוכחה.
20) שאלת הוכחה.
21) שאלת הוכחה.
22) שאלת הוכחה.
23) שאלת הוכחה.
24) שאלת הוכחה.
25) א. $\frac{k^2-1}{2}$ ב. $\pm\sqrt{2-k^2}$ ג. $\frac{2}{k^2-1}$ ד. $\frac{k}{2}\left(3-k^2\right)$
26) -7.75
27) 1
28) 1

ערכי הפונקציות הטריגונומטריות עבור זוויות מיוחדות:

סיכום כללי:

	$\alpha=0°$	$\alpha=30°$	$\alpha=45°$	$\alpha=60°$	$\alpha=90°$
$\sin\alpha$	0	$\frac{1}{2}$	$\frac{\sqrt{2}}{2}$	$\frac{\sqrt{3}}{2}$	1
$\cos\alpha$	1	$\frac{\sqrt{3}}{2}$	$\frac{\sqrt{2}}{2}$	$\frac{1}{2}$	0
$\tan\alpha$	0	$\frac{\sqrt{3}}{3}$	1	$\sqrt{3}$	ϕ
$\cot\alpha$	ϕ	$\sqrt{3}$	1	$\frac{\sqrt{3}}{3}$	0

הערות:

- ערכי הפונקציות הטריגונומטריות עבור זוויות של $0°$ ו-$90°$ תִּלמדנה בהמשך אך ניתנו כעת כדי להשלים את תמונת ערכי הזוויות.
- ניתן לזכור את הטבלה ע"י כתיבה של שורת הסינוס לפי: $\frac{\sqrt{0}}{2},\frac{\sqrt{1}}{2},\frac{\sqrt{2}}{2},\frac{\sqrt{3}}{2},\frac{\sqrt{4}}{2}$
  אשר נותנים את הערכים של השורה הראשונה לאחר פישוט קל.
  עבור שורת ה-$\cos\alpha$ יש להפוך את הערכים ולבסוף יש לחלק כל זוג ביטויים כדי לכתוב את ערכי $\tan\alpha$ ולסובב עבור ערכי $\cot\alpha$.

שאלות:

חשב ללא מחשבון את ערכי הביטויים הבאים תוך שימוש בערכי הפונקציות הטריגונומטריות של זוויות מיוחדות:

1) $\sin 30° + \cos 30°$.

2) $\frac{\sin 30° \cdot \cos 30°}{\sin 60°}$.

3) $\tan 45° + \frac{\sin 45°}{\cos 45°}$.

4) $\frac{1+\cos 60^\circ}{2\sin 60^\circ}$.

5) $\cos^2 45^\circ + \sin^2 30^\circ$.

6) $\frac{\tan^2 60^\circ \cdot \cos^2 30^\circ}{\cos^2 60^\circ}$.

7) $\frac{\tan 30^\circ \cdot \cot 60^\circ - \cot 45^\circ \cdot \tan 45^\circ}{4\left(\sin^2 60^\circ - \frac{1}{4}\right)}$.

8) $\frac{27\cot^4 60^\circ}{\sin 30^\circ \cdot \cos 45^\circ \cdot \tan 60^\circ}$.

תשובות סופיות:

1) $\frac{1+\sqrt{3}}{2}$

2) $\frac{1}{2}$

3) 2

4) $\frac{3}{2\sqrt{3}}$

5) $\frac{3}{4}$

6) 9

7) $-\frac{1}{3}$

8) $2\sqrt{6}$

מעגל היחידה – הגדרה וזהויות:

סיכום כללי:

הגדרת מעגל היחידה:

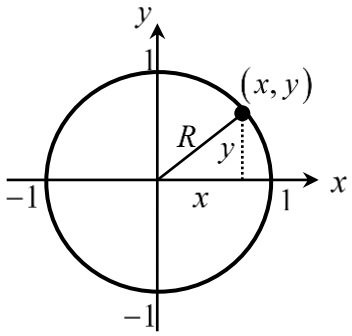

- מעגל קנוני שרדיוסו 1 מוגדר להיות המעגל הטריגונומטרי.
- הנקודות $(1,0)$, $(0,1)$, $(-1,0)$, $(0,-1)$ מתאימות לזוויות של $0°$, $90°$, $180°$, $270°$.

הזהויות של המעגל הטריגונומטרי:

רביע	סינוס	קוסינוס	טנגנס
II III VI	$\sin(180°-\alpha)=\sin\alpha$ $\sin(180°+\alpha)=-\sin\alpha$ $\sin(-a)=-\sin\alpha$	$\cos(180^o-\alpha)=-\cos\alpha$ $\cos(180^o+\alpha)=-\cos\alpha$ $\cos(-\alpha)=\cos\alpha$	$\tan(180^o-\alpha)=-\tan\alpha$ $\tan(180^o+\alpha)=\tan\alpha$ $\tan(-\alpha)=-\tan\alpha$
סימנים	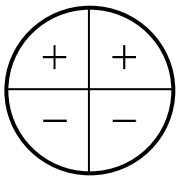	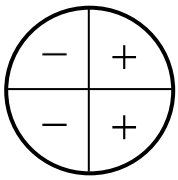	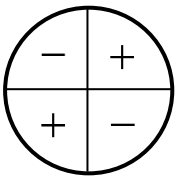

זהויות עבור זווית הגדולות מ-360 מעלות:

ניתן להוסיף או להוריד 'סיבובים' שלמים לזווית לפי:

$$\boxed{\begin{aligned}\sin(\alpha+360°k)&=\sin\alpha\\ \cos(\alpha+360°k)&=\cos\alpha\end{aligned}}\quad,\quad\boxed{\begin{aligned}\tan(\alpha+180°k)&=\tan\alpha\\ \cot(\alpha+180°k)&=\cot\alpha\end{aligned}}$$

כאשר k הוא מספר שלם מציין את מספר הסיבובים.

שאלות:

1) העבר את הביטויים הבאים לביטויים עם זווית ברביע הראשון.
אין צורך לחשב את ערך הביטוי:

א. $\sin 120°$	ב. $\cos 150°$
ג. $\tan 160°$	ד. $\cot 130°$
ה. $\sin 215°$	ו. $\cos 245°$
ז. $\tan 230°$	ח. $\cot 200°$
ט. $\sin 300°$	י. $\cos 310°$

2) חשב את ערכי הביטויים הבאים ע"י שימוש בזהויות המעגל הטריגונומטרי:

א. $\sin 150°$	ב. $\cos 210°$	ג. $\tan 120°$
ד. $\sin 330°$	ה. $\tan 225°$	ו. $\sin 315°$
ז. $\cos 120°$	ח. $\tan(-30°)$	ט. $\cos(-45°)$
י. $\sin 510°$	יא. $\cos 930°$	יב. $\tan(-225°)$

3) חשב את ערכי הביטויים הבאים ללא שימוש במחשבון:

א. $\left(\sin 240° \cdot \tan 150° + \cos(-60°)\right)^2$.

ב. $8\sin^2 150° \cdot \tan 135° - 2 \cdot \sin 135° \cdot \cos(-135°)$.

ג. $\dfrac{\cot 225°}{\sin(-225°) - \cos 135°} + \tan^2 210°$.

4) הוכח כי אם α, β ו- γ הן זוויות במשולש, אז מתקיים:

א. $\sin(\alpha + \beta) = \sin\gamma$.

ב. $\sin\left(\dfrac{\gamma + \beta}{2}\right) = \cos\dfrac{\alpha}{2}$.

תשובות סופיות:

1) א. $\sin 60°$ ב. $-\cos 30°$ ג. $-\tan 20°$ ד. $-\cot 50°$
ה. $-\sin 35°$ ו. $-\cos 65°$ ז. $\tan 50°$ ח. $\cot 20°$
ט. $-\sin 60°$ י. $\cos 50°$

2) א. $\frac{1}{2}$ ב. $-\frac{\sqrt{3}}{2}$ ג. $-\sqrt{3}$ ד. $-\frac{1}{2}$
ה. 1 ו. $-\frac{\sqrt{2}}{2}$ ז. $-\frac{1}{2}$ ח. $-\frac{\sqrt{3}}{3}$
ט. $\frac{\sqrt{2}}{2}$ י. $\frac{1}{2}$ יא. $-\frac{\sqrt{3}}{2}$ יב. -1

3) א. 1 ב. -1 ג. $\frac{1}{\sqrt{2}}+\frac{1}{3}$.

4) שאלת הוכחה.

סכום והפרש זוויות:

סיכום כללי:

סכום והפרש עבור $\sin(\alpha\pm\beta)$ ו- $\cos(\alpha\pm\beta)$ יחושב לפי:

$$\boxed{\begin{aligned}\sin(\alpha\pm\beta)&=\sin\alpha\cos\beta\pm\sin\beta\cos\alpha\\ \cos(\alpha\pm\beta)&=\cos\alpha\cos\beta\mp\sin\alpha\sin\beta\end{aligned}}.$$

סכום והפרש עבור $\tan(\alpha\pm\beta)$ ו- $\cot(\alpha\pm\beta)$

$$\boxed{\begin{aligned}\tan(\alpha\pm\beta)&=\frac{\tan\alpha\pm\tan\beta}{1\mp\tan\alpha\tan\beta}\\ \cot(\alpha\pm\beta)&=\frac{\cot\alpha\cot\beta\mp1}{\cot\beta\pm\cot\alpha}\end{aligned}}.$$

הערה:

בסרטון התיאוריה אין התייחסות מיוחדת לזהויות עבור $\tan(\alpha\pm\beta)$ ו- $\cot(\alpha\pm\beta)$.

שאלות:

1) חשב את ערכי הביטויים הבאים תוך שימוש בזהויות של סכום והפרש זוויות וללא שימוש במחשבון:

א. $\sin 75°$	ב. $\sin 15°$	ג. $\sin 105°$
ד. $\sin(-15°)$	ה. $\cos 75°$	ו. $\cos 15°$
ז. $\cos(-105°)$	ח. $\cos 165°$	ט. $\cos(-195°)$

2) חשב ללא שימוש במחשבון את ערכי הביטויים הבאים:

א. $\sin 65°\cos 25°+\sin 25°\cos 65°$.

ב. $5\cos 50°\cos 20°+5\sin 50°\sin 20°$.

3) הוכח את הזהויות הבאות:

א. $\sin(60°+\alpha)+\sin(60°-\alpha)=\sqrt{3}\cos\alpha$.

ב. $\cos(45°-\alpha)-\cos(45°+\alpha)=\sqrt{2}\sin\alpha$.

ג. $\sin(\alpha+\beta)\cdot\sin(\alpha-\beta)=\sin^2\alpha-\sin^2\beta$.

ד. $\tan\alpha-\tan\beta=\dfrac{\sin(\alpha-\beta)}{\cos\alpha\cos\beta}$.

4) נתון: $\cos\beta=\dfrac{8}{17}$, $\cos\alpha=\dfrac{4}{5}$ ו- α,β זוויות חדות.

מבלי למצוא את הערכים של α ו- β חשב:

א. $\sin(\alpha+\beta)$.

ב. $\cos(\alpha+\beta)$.

ג. $\tan(\alpha+\beta)$.

5) הוכח את הזהות: $\sin(\alpha+\beta)-\sin(\alpha-\beta)=2\sin\beta\cos\alpha$.

6) הוכח את הזהות: $(\sin\alpha+\cos\alpha)(\sin2\alpha+\cos2\alpha)=\sin3\alpha+\cos\alpha$.

7) הוכח את הזהות: $\tan7\alpha-\tan5\alpha-\tan2\alpha=\tan7\alpha\tan5\alpha\tan2\alpha$.

8) הוכח את הזהות: $\dfrac{\sin(\alpha-\beta)}{\cos(\alpha+\beta)}=\dfrac{\tan\alpha-\tan\beta}{1-\tan\alpha\tan\beta}$.

9) הוכח את הזהות: $\cot\alpha-\cot\beta=\dfrac{\sin(\beta-\alpha)}{\sin\alpha\sin\beta}$.

10) הוכח את הזהות הבאה:

$\sin\alpha\cos\beta\cos\gamma+\cos\alpha\sin\beta\cos\gamma+\cos\alpha\cos\beta\sin\gamma-\sin\alpha\sin\beta\sin\gamma=\sin(\alpha+\beta+\gamma)$.

11) הוכח כי מתקיים: $\sin 65^\circ \cos 25^\circ + \sin 25^\circ \cos 65^\circ = 1$.

12) הוכח כי מתקיים: $\tan 18^\circ \tan 27^\circ + \tan 18^\circ + \tan 27^\circ = 1$.

13) נתון כי: $\sin 76^\circ = m$. הבע את $\sin 31^\circ$ באמצעות m.

14) הזוויות α ו- β הן זוויות חדות.

נתון כי: $\tan\alpha = \frac{(2-k)\sqrt{3}}{3k}$ ו- $\tan\beta = \frac{(2k-1)\sqrt{3}}{3}$.

הראה כי מתקיים: $\alpha + \beta = 60^\circ$.

15) היעזר בנוסחה: $\tan(\alpha \pm \beta) = \frac{\tan\alpha \pm \tan\beta}{1 \mp \tan\alpha \tan\beta}$ ומצא את $\tan x$ ו- $\tan y$

אם ידוע כי: $\tan(x+y) = -3$ ו- $\tan(x-y) = \frac{1}{3}$. הבחן בין שני מקרים.

תשובות סופיות:

1) א. $\frac{\sqrt{6}+\sqrt{2}}{4}$ ב. $\frac{\sqrt{6}-\sqrt{2}}{4}$ ג. $\frac{\sqrt{6}+\sqrt{2}}{4}$ ד. $\frac{\sqrt{2}-\sqrt{6}}{4}$ ה. $\frac{\sqrt{6}-\sqrt{2}}{4}$

ו. $\frac{\sqrt{6}+\sqrt{2}}{4}$ ז. $\frac{\sqrt{2}-\sqrt{6}}{4}$ ח. $-\frac{\sqrt{6}+\sqrt{2}}{4}$ ט. $-\frac{\sqrt{6}+\sqrt{2}}{4}$

2) א. 1 ב. $\frac{5\sqrt{3}}{2}$

3) שאלת הוכחה.

4) א. $\frac{84}{85}$ ב. $-\frac{13}{85}$ ג. $-6\frac{6}{13}$

5) שאלת הוכחה.

6) שאלת הוכחה.

7) שאלת הוכחה.

8) שאלת הוכחה.

9) שאלת הוכחה.

10) שאלת הוכחה.

11) שאלת הוכחה.

12) שאלת הוכחה.

13) שאלת הוכחה.

14) $\frac{\sqrt{2}}{2}\left(m-\sqrt{1-m^2}\right)$.

15) שאלת הוכחה.

16) 1 ו-2 או $-\frac{1}{2}$ ו- 1-.

זווית כפולה:

סיכום כללי:

נפתח זווית כפולה לפי הצורות הבאות:

$$\boxed{\begin{array}{l}\sin 2\alpha = 2\sin\alpha\cos\alpha \\ \cos 2\alpha = \cos^2\alpha - \sin^2\alpha = 2\cos^2\alpha - 1 = 1 - 2\sin^2\alpha\end{array}}$$

שאלות:

1) הוכח את הזהויות הבאות:

א. $4\sin\alpha\cos\alpha\cos 2\alpha = \sin 4\alpha$

ב. $(\sin\alpha - \cos\alpha)^2 = 1 - \sin 2\alpha$

ג. $(\sin 3\alpha - \cos 3\alpha)^2 = 1 - \sin 6\alpha$

ד. $\cos^4\alpha - \sin^4\alpha = \cos 2\alpha$

ה. $\frac{\cos\alpha}{\sin\alpha} - \frac{\sin\alpha}{\cos\alpha} = 2\cot 2\alpha$

ו. $\frac{\cos 2\alpha - 2\sin^2\alpha\cos 2\alpha}{\sin 4\alpha} = \frac{1}{2}\cot 2\alpha$

ז. $\cos^2 2\alpha = 4\sin^4\alpha - 4\sin^2\alpha + 1$

ח. $\cos 4\alpha = 8\cos^4\alpha - 8\cos^2\alpha + 1$

2) הוכח את הזהות: $\sin^3\alpha = \frac{3\sin\alpha - \sin 3\alpha}{4}$ ע"י כתיבה של $\sin 3\alpha$

לפי: $\sin(\alpha + 2\alpha)$ ושימוש בזהויות שנלמדו.

3) הוכח את הזהות: $\cos^3\alpha = \frac{3\cos\alpha + \cos 3\alpha}{4}$ ע"י כתיבה של $\cos 3\alpha$

לפי: $\cos(\alpha + 2\alpha)$ ושימשו בזהויות שנלמדו.

4) נתונה זווית חדה α המקיימת: $\sin\alpha = \frac{40}{41}$. מבלי להיעזר במחשבון חשב:

א. $\cos\alpha$.

ב. $\tan\alpha$.

ג. $\sin 2\alpha$.

ד. $\cos 2\alpha$.

ה. $\tan 2\alpha$.

5) נתונה זווית חדה α המקיימת: $\tan\alpha=\frac{5}{12}$. מבלי להיעזר במחשבון חשב:

א. $\sin\alpha$.

ב. $\cos\alpha$.

ג. $\sin 2\alpha$.

ד. $\cos 2\alpha$.

6) נתונה זווית α ברביע הראשון וזווית β ברביע השני המקיימות: $\sin\alpha=\frac{5}{13}$ ו- $\cos\beta=-0.8$. מבלי למצוא את α ו- β חשב את הביטויים הבאים:

א. $\sin(\alpha+\beta)$.

ב. $\cos(\alpha+\beta)$.

ג. $\sin(2\alpha+\beta)$.

7) נתון כי $\sin\alpha+\cos\alpha=1.2$ עבור $0°<\alpha<90°$. חשב את $\sin 2\alpha$.

8) פשט את הביטוי הבא: $\sqrt{\frac{1+\cos 8\alpha}{2}}$.

9) ללא שימוש במחשבון, חשב את ערך הביטוי הבא: $\frac{\sin 16°\cos 16°}{3-6\sin^2 29°}$.

10) ללא שימוש במחשבון, חשב את ערך הביטוי הבא: $\frac{\sin^2 78°-\cos^2 78°}{\sin 66°}$.

11) ללא שימוש במחשבון, חשב את ערך הביטוי הבא: $\frac{5\tan 15°\left(1-2\cos^2 15°\right)}{1-\tan^2 15°}$.

תשובות סופיות:

1) שאלת הוכחה.
2) שאלת הוכחה.
3) שאלת הוכחה.
4) א. $\frac{9}{41}$ ב. $4\frac{4}{9}$ ג. $\frac{720}{1681}$ ד. $-\frac{1519}{1681}$
ה. $-\frac{720}{1519}$
5) א. $\frac{5}{13}$ ב. $\frac{12}{13}$ ג. $\frac{120}{169}$ ד. $\frac{119}{169}$
6) א. $\frac{16}{65}$ ב. $-\frac{63}{65}$ ג. $-\frac{123}{845}$
7) 0.44.
8) $\cos 4\alpha$.
9) $\frac{1}{6}$.
10) 1.
11) -1.25.

סכום והפרש פונקציות טריגונומטריות:

סיכום כללי:

להלן נוסחאות הסכום וההפרש של פונקציות טריגונומטריות:

$$\sin\alpha+\sin\beta=2\sin\frac{\alpha+\beta}{2}\cos\frac{\alpha-\beta}{2}$$
$$\sin\alpha-\sin\beta=2\sin\frac{\alpha-\beta}{2}\cos\frac{\alpha+\beta}{2}$$
$$\cos\alpha+\cos\beta=2\cos\frac{\alpha+\beta}{2}\cos\frac{\alpha-\beta}{2}$$
$$\cos\alpha-\cos\beta=-2\sin\frac{\alpha+\beta}{2}\sin\frac{\alpha-\beta}{2}$$

הערה:

בסרטון התיאוריה אין התייחסות לזהויות הסכום וההפרש של טנגנס ושל קוטנגנס עקב חוסר השימוש בהן בפתרון שאלות.

שאלות:

1) הוכח את הזהות הבאה: $\sin 5\alpha+\sin 3\alpha=2\sin 4\alpha\cos\alpha$.

2) הוכח את הזהות הבאה: $\sin 7\alpha-\sin 2\alpha=2\sin 2.5\alpha\cos 4.5\alpha$.

3) הוכח את הזהות הבאה: $\cos\alpha+\cos 5\alpha=2\sin 2\alpha\cos 3\alpha$.

4) הוכח את הזהות הבאה: $\cos 5\alpha-\cos 2\alpha=-2\sin 3.5\alpha\cos 1.5\alpha$.

5) הוכח את הזהות הבאה: $\sin 3\alpha=2\sin 2\alpha\cos\alpha-\sin\alpha$.

6) הוכח את הזהות הבאה: $\sin^2\alpha-\sin^2\beta=\sin(\alpha+\beta)\sin(\alpha-\beta)$.

7) הוכח את הזהות הבאה: $\sin(2\alpha+\beta)-2\cos(\alpha+\beta)\sin\alpha=\sin\beta$.

8) הוכח את הזהות הבאה: $\frac{\sin 5\alpha-\sin\alpha}{\sin 4\alpha-\sin 2\alpha}=2\cos\alpha$.

9) הוכח את הזהות הבאה: $\frac{\sin 7\alpha - \sin 3\alpha}{\cos 4\alpha + \cos 6\alpha} = 2\sin\alpha$.

10) הוכח את הזהות הבאה: $\frac{\sin\alpha + \sin 2\alpha + \sin 3\alpha}{\cos\alpha + \cos 2\alpha + \cos 3\alpha} = \tan 2\alpha$.

11) הוכח את הזהות הבאה: $\tan\alpha + \tan 3\alpha = \frac{2\sin 4\alpha}{\cos 4\alpha + \cos 2\alpha}$.

12) פשט את הביטוי: $\frac{1+\cos\alpha+\cos 2\alpha+\cos 3\alpha}{\cos\alpha + 2\cos^2\alpha - 1}$ ומצא את ערכו מבלי להיעזר במחשבון אם ידוע כי $\sin\frac{\alpha}{2} = \frac{5}{6}$.

13) נתון כי α ו- β הן זוויות חדות המקיימות: $\sin\alpha = \frac{2mn}{m^2+n^2}$ ו- $\sin\beta = \frac{n^2-m^2}{m^2+n^2}$.
הראה כי: $\alpha + \beta = 90°$.

14) היעזר במעבר מכפל לסכום או הפרש
והוכח כי: $\cos 6\alpha\cos 2\alpha - \cos 5\alpha\cos\alpha = -\sin 7\alpha\sin\alpha$.

15) היעזר במעבר מכפל לסכום או הפרש
והוכח כי: $\sin 4\alpha\sin 2\alpha - \sin 5\alpha\sin\alpha + \cos 3\alpha\cos\alpha = \cos 2\alpha$.

16) חשב ללא מחשבון את ערך הביטוי הבא: $\sin 52.5° \cdot \sin 7.5°$.

17) חשב ללא מחשבון את ערך הביטוי הבא: $\frac{\sin 35°\sin 55°}{\cos 40°\cos 20° - 0.25}$.

18) חשב ללא מחשבון את ערך הביטוי הבא: $\cos 20°\cos 40°\cos 80°$.

19) חשב ללא מחשבון את ערך הביטוי הבא: $\sin 5°\cdot\sin 25°\cdot\sin 35°\cdot\sin 55°\cdot\sin 65°\cdot\sin 85°$.

תשובות סופיות:

1) שאלת הוכחה.
2) שאלת הוכחה.
3) שאלת הוכחה.
4) שאלת הוכחה.
5) שאלת הוכחה.
6) שאלת הוכחה.
7) שאלת הוכחה.
8) שאלת הוכחה.
9) שאלת הוכחה.
10) שאלת הוכחה.
11) שאלת הוכחה.
12) $-\frac{7}{9}$.
13) שאלת הוכחה.
14) שאלת הוכחה.
15) שאלת הוכחה.
16) $\frac{\sqrt{2}-1}{4}$.
17) 1.
18) $\frac{1}{8}$.
19) $\frac{1}{64}$.

מכפלת פונקציות:

סיכום כללי:

להלן נוסחאות המעבר מסכום למכפלה וממכפלה לסכום:

$$\begin{cases} \sin\alpha\cos\beta=\frac{1}{2}\left[\sin(\alpha+\beta)+\sin(\alpha-\beta)\right] \\ \cos\alpha\cos\beta=\frac{1}{2}\left[\cos(\alpha+\beta)+\cos(\alpha-\beta)\right] \\ \sin\alpha\sin\beta=\frac{1}{2}\left[\cos(\alpha-\beta)-\cos(\alpha+\beta)\right] \end{cases}$$

$$\begin{cases} \sin\alpha+\sin\beta=2\sin\frac{\alpha+\beta}{2}\cos\frac{\alpha-\beta}{2} \\ \sin\alpha-\sin\beta=2\sin\frac{\alpha-\beta}{2}\cos\frac{\alpha+\beta}{2} \\ \cos\alpha+\cos\beta=2\cos\frac{\alpha+\beta}{2}\cos\frac{\alpha-\beta}{2} \\ \cos\alpha-\cos\beta=-2\sin\frac{\alpha+\beta}{2}\sin\frac{\alpha-\beta}{2} \end{cases}$$

שאלות:

1) הוכח את הזהות הבאה: $\sin 7\alpha\cos\alpha=\frac{1}{2}(\sin 8\alpha+\sin 6\alpha)$.

2) הוכח את הזהות הבאה: $\cos 11\alpha\sin 3\alpha=\frac{1}{2}(\sin 14\alpha-\sin 8\alpha)$.

3) הוכח את הזהות הבאה: $\cos 4\alpha\cos 10\alpha=\frac{1}{2}(\cos 6\alpha+\cos 14\alpha)$.

4) הוכח את הזהות הבאה: $\sin 3\alpha\sin 7\alpha=\frac{1}{2}(\cos 4\alpha-\cos 10\alpha)$.

5) הוכח את הזהות הבאה: $2\sin 7\alpha\sin 2\alpha+\cos 9\alpha=\cos 5\alpha$.

6) הוכח את הזהות הבאה: $\sin 7\alpha\cos 4\alpha-\sin 4\alpha\cos\alpha=\sin 3\alpha\cos 8\alpha$.

7) הוכח את הזהות הבאה: $\sin\alpha\sin 3\alpha=\cos 2\alpha-\cos 3\alpha\cos\alpha$.

8) הוכח את הזהות הבאה: $2\left(\sin^2\beta-\sin^2\alpha\right)=\cos 2\alpha-\cos 2\beta$.

9) הוכח את הזהות הבאה: $\frac{2}{\cot\beta-\tan\alpha}=\tan(\alpha+\beta)-\frac{\sin(\alpha-\beta)}{\cos(\alpha+\beta)}$.

תשובות סופיות:

1) הוכחה.
2) הוכחה.
3) הוכחה.
4) הוכחה.
5) הוכחה.
6) הוכחה.
7) הוכחה.
8) הוכחה.
9) הוכחה.

קורס השלמה במתמטיקה

פרק 16 - משוואות טריגונומטריות

תוכן העניינים

1. משוואות טריגונומטריות כלליות 247
2. משוואות הנפתרות עי טכניקה אלגברית 250

משוואות טריגונומטריות כלליות:

סיכום כללי:

פתרון כללי של משוואות טריגונומטריות (במעלות):

להלן נוסחאות הפתרון של המשוואות הטריגונומטריות היסודיות
כאשר x הוא משתנה ו- α היא זווית נתונה/ידועה:

המשוואה	הפתרון
$\sin x = \sin\alpha$	$x_1 = \alpha + 360°k \ , \ x_2 = 180° - \alpha + 360°k$
$\cos x = \cos\alpha$	$x_{1,2} = \pm\alpha + 360°k$
$\tan x = \tan\alpha$	$x = \alpha + 180°k$
$\cot x = \cot\alpha$	$x = \alpha + 180°k$

כאשר k מספר שלם.

שאלות:

1) כתוב את הפתרון הכללי של המשוואות הבאות (פונקציית הסינוס):

א. $\sin x = \frac{1}{2}$ ב. $\sin x = \frac{\sqrt{2}}{2}$ ג. $\sin x = -\frac{\sqrt{3}}{2}$ ד. $\sin x = -\frac{1}{2}$

2) כתוב את הפתרון הכללי של המשוואות הבאות (פונקציית הקוסינוס):

א. $\cos x = \frac{1}{2}$ ב. $\cos x = -\frac{\sqrt{3}}{2}$

3) כתוב את הפתרון הכללי של המשוואות הבאות (פונקציית הטנגנס):

א. $\tan x = \frac{1}{\sqrt{3}}$ ב. $\tan x = -1$

4) כתוב את הפתרון הכללי של המשוואות הבאות (זווית כללית):

א. $\sin x = 0.7$ ב. $\cos x = -0.6$ ג. $\tan x = 5$

5) כתוב את הפתרון הכללי של המשוואות הבאות (משוואות לא מסודרות):

א. $\sin 3x = \frac{1}{2}$ ב. $2\cos 2x = -\sqrt{3}$

ג. $\tan 5x = -1$ ד. $3\sin 2x = 2$

ה. $3\cos 3x = 1$ ו. $2\tan 4x = 1$

6) כתוב את הפתרון הכללי של המשוואות הבאות (ארגומנט מורכב):

א. $\sin(2x+30°) = -\frac{\sqrt{3}}{2}$ ב. $\cos(75°-3x) = \frac{\sqrt{2}}{2}$ ג. $\tan(50°-x) = 1.3$

7) כתוב את הפתרון הכללי של המשוואות הבאות (פונקציות עם ארגומנטים שונים):

א. $\sin x = \sin 3x$ ב. $\sin 2x = \sin(x+30°)$

ג. $\sin x = \sin(120°-x)$ ד. $\cos x = \cos 3x$

ה. $\cos x = \cos(40°-x)$ ו. $\tan x = \tan 3x$

ז. $\tan 2x = \tan(60°-x)$

8) כתוב את הפתרון הכללי של המשוואות הבאות (משוואות מיוחדות):

א. $\sin x = 0$ ב. $\sin x = 1$

ג. $\sin x = -1$ ד. $\cos x = 0$

ה. $\cos x = 1$ ו. $\cos x = -1$

ז. $\tan x = 0$ ח. $\tan x = 1$

תשובות סופיות:

1) א. $x_1 = 30° + 360°k \ , x_2 = 150° + 360°k$
ב. $x_1 = 45° + 360°k \ , x_2 = 135° + 360°k$
ג. $x_1 = -60° + 360°k \ , x_2 = 240° + 360°k$
ד. $x_1 = -30° + 360°k \ , x_2 = 210° + 360°k$.

2) א. $x_{1,2} = \pm 60° + 360°k$
ב. $x_{1,2} = \pm 150° + 360°k$.

3) א. $x = 30° + 180°k$
ב. $x = 135° + 180°k$.

4) א. $x_1 = 44.427° + 360°k \ , x_2 = 135.573° + 360°k$
ב. $x_{1,2} = 126.87° + 360°k$
ג. $x = 78.69° + 180°k$.

5) א. $x_1 = 10° + 120°k \ , x_2 = 50° + 120°k$
ב. $x_1 = 75° + 180°k \ , x_2 = -75° + 180°k$
ג. $x = -9° + 36°k$
ד. $x_1 = 20.9° + 180°k \ , x_2 = 69.09° + 180°k$
ה. $x_{1,2} = \pm 23.5° + 120°k$
ו. $x = 6.64° + 45°k$.

6) א. $x_1 = 105° + 180°k \ , x_2 = -45° + 180°k$
ב. $x_1 = 10° + 120°k \ , x_2 = 40° + 120°k$
ג. $x = -2.431° + 180°k$.

7) א. $x_1 = 180°k \ , x_2 = 45° + 90°k$
ב. $x_1 = 30° + 360°k \ , x_2 = 50° + 120°k$
ג. $x = 60° + 180°k$
ד. $x = 90°k$
ה. $x = 20° + 180°k$
ו. $x = 180°k$
ז. $x = 20° + 60°k$.

8) א. $x = 180°k$
ב. $x = 90° + 360°k$
ג. $x = 180° + 360°k$
ד. $x = 90° + 180°k$
ה. $x = 360°k$
ו. $x = 180° + 360°k$
ז. $x = 180°k$
ח. $x = 45° + 180°k$.

משוואות הנפתרות ע"י טכניקה אלגברית:

סיכום כללי:

נעזר בטכניקה אלגברית בכדי להביא משוואה מורכבת לצורה של משוואה יסודית.

טכניקות שכיחות:

- הוצאת שורש ריבועי.
- פירוק לגורמים (ע"י הוצאת גורם משותף, ע"י נוסחאות הכפל המקוצר וע"י פירוק טרינום).
- פתרון משוואה ריבועית.

שאלות:

כתוב את הפתרון הכללי של המשוואות הבאות (טכניקה אלגברית):

1) $\cos^2 x = \frac{3}{4}$

2) $\sin^2 x = \frac{1}{4}$

3) $\tan^2 2x = 3$

4) $\sin x \cos 3x = 0$

5) $\sin 2x - 2\sin^2 2x = 0$

6) $2\cos^2 x + \sqrt{3}\cos x = 0$

7) $2\sin^2 x - \sin x - 1 = 0$

8) $3\sin^2 x - \sin x = 2$

9) $6\sin^2 x - \sin x - 1 = 0$

10) $\cos^2 x + 2\cos x = 3$

11) $\tan^2 x - 3\tan x - 4 = 0$

12) $\tan^2 x = 4\tan x - 1$

13) $\cos x - \frac{2}{\cos x} + 1 = 0$

14) $\frac{\sin x}{\cos x - 1} = 0$

15) $\frac{\cos 2x}{\tan x + 1} = 0$

תשובות סופיות:

1) $x_{1,2}=\pm 30^\circ+360^\circ k$, $x_{3,4}=\pm 150^\circ+360^\circ k$.

2) $x_1=30^\circ+360^\circ k$, $x_2=150^\circ+360^\circ k$, $x_3=330^\circ+360^\circ k$, $x_4=210^\circ+360^\circ k$.

3) $x_1=30^\circ+90^\circ k$, $x_2=-30^\circ+90^\circ k$.

4) $x_1=180^\circ k$, $x_2=30^\circ+60^\circ k$.

5) $x_1=90^\circ k$, $x_2=15^\circ+180^\circ k$, $x_3=75^\circ+180^\circ k$.

6) $x_1=90^\circ+180^\circ k$, $x_{2,3}=\pm 150^\circ+360^\circ k$.

7) $x_1=90^\circ+360^\circ k$, $x_2=210^\circ+360^\circ k$, $x_3=-30^\circ+360^\circ k$.

8) $x_1=90^\circ+360^\circ k$, $x_2=-41.8^\circ+360^\circ k$, $x_3=221.8^\circ+360^\circ k$.

9) $x_1=30^\circ+360^\circ k, x_2=150^\circ+360^\circ k, x_3=-19.4^\circ+360^\circ k, x_4=199.4^\circ+360^\circ k$.

10) $x=360^\circ k$.

11) $x_1=-45^\circ+180^\circ k$, $x_2=75.964^\circ+180^\circ k$.

12) $x_1=75^\circ+180^\circ k$, $x_2=15^\circ+180^\circ k$.

13) $x=360^\circ k$.

14) $x=180^\circ+360^\circ k$.

15) $x=45^\circ+90^\circ k$, $x\neq -45^\circ+180^\circ k$.

קורס השלמה במתמטיקה

פרק 17 - טריגונומטריה במישור

תוכן העניינים

1. שאלות יסודיות עם משפט הסינוסים והקוסינוסים 252
2. שאלות העוסקות בנוסחת שטח משולש 260
3. שאלות המשלבות ידע בגיאומטריה 269
4. שאלות מסכמות 273

שאלות יסודיות עם משפט הסינוסים והקוסינוסים:

סיכום כללי:

משפט הסינוסים:

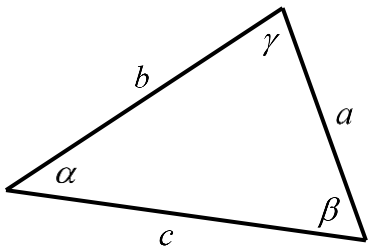

במשולש, צלע חלקי סינוס הזווית שמולה הוא גודל קבוע והוא שווה לפעמיים רדיוס המעגל החוסם.

בצורה מתמטית: $\frac{a}{\sin\alpha}=\frac{b}{\sin\beta}=\frac{c}{\sin\gamma}=2R$.

משפט הקוסינוסים:

במשולש, ריבוע צלע אחת שווה לסכום ריבועי שתי הצלעות האחרות פחות מכפלתן בקוסינוס הזווית שבניהן: $c^2=a^2+b^2-2ab\cos\gamma$ או $\cos\gamma=\frac{a^2+b^2-c^2}{2ab}$.

מתי נשתמש בכל משפט:

- נשתמש במשפט הסינוסים כאשר:
  א. נתונות שתי זוויות וצלע.
  ב. נתונות שתי צלעות והזווית מול אחת מהן.
  ג. נתון רדיוס המעגל החוסם וצלע/זווית נוספת.

- נשתמש במשפט הקוסינוסים כאשר:
  א. נתונות שתי צלעות והזווית ביניהן.
  ב. נתונות שלוש צלעות.

- כאשר ישנם יותר נתונים מאשר בסעיפים שלהלן ייתכן שנוכל להשתמש בשני המשפטים. בבחירת המשפט שבו נשתמש כדאי לזכור שבמשפט הסינוסים ייתכנו שתי תשובות לזווית, גם אם בפועל רק אחת נכונה, ובמשפט הקוסינוסים תתקבל בוודאות הזווית הנכונה.

שאלות:

1) מצא את ערכו של $a/x/y$ במשולשים הבאים
(R הוא רדיוס המעגל החוסם, נתוני הצלעות בס"מ):

א.

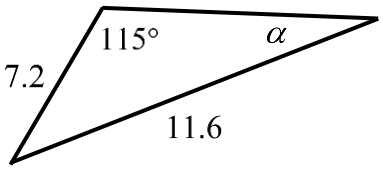

ב.

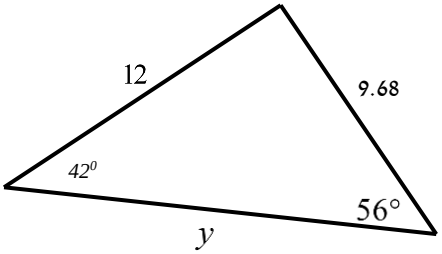

ג. רדיוס המעגל: $R=7$.

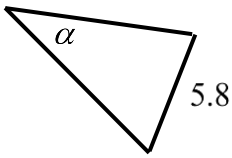

ד.

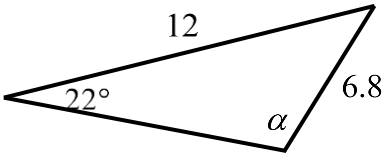

ה.

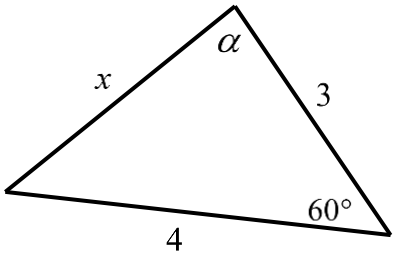

2) מצא את ערכו של α/x במשולשים הבאים:

א.

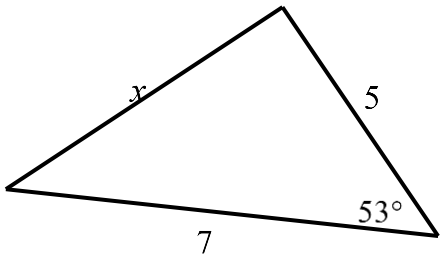

ב.

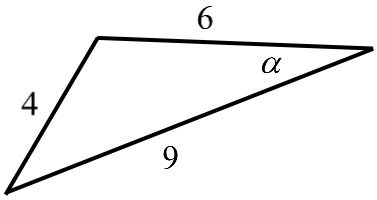

ג.

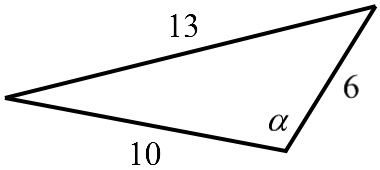

ד.

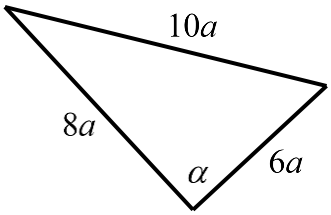

3) נתון משולש שווה שוקיים ABC (AB=AC) שאורך השוק שלו הוא 22 ס"מ
וגודלה של זווית הבסיס בו הוא 70°. CD הוא חוצה זווית הבסיס ∢C.
מצא את אורכו של הקטע AD.

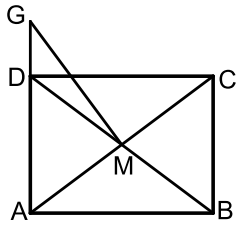

4) אלכסוני המלבן ABCD נפגשים בנקודה M.
הנקודה G נמצאת על המשך הצלע AD.
נתון: AD = 3 ס"מ , AB = 4 ס"מ , DG = 1.2 ס"מ.
מצא את גודלו של הקטע GM.

5) מרובע שאורכי אלכסוניו 8 ס"מ ו-11 ס"מ חסום במעגל
שאורך רדיוסו הוא 6 ס"מ.
חשב את זוויות המרובע.

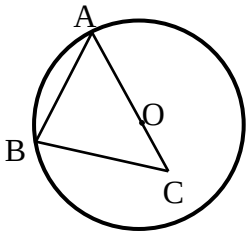

6) הצלע AB במשולש ABC היא מיתר במעגל שמרכזו O.
הצלע AC עוברת במרכז המעגל כמתואר בשרטוט.
נתון: BC = 9 ס"מ , OC = 3 ס"מ , $\sphericalangle BAC = 38°$.
מצא את אורכם של רדיוס המעגל ושל הצלע AB.

7) אחד האלכסונים במקבילית יוצר זווית של 30° עם
צלע אחת של המקבילית וזווית של 61.05° עם הצלע הסמוכה לה.
אחת מצלעות המקבילית גדולה ב-3 ס"מ מהצלע הסמוכה לה.
חשב את היקף המקבילית.

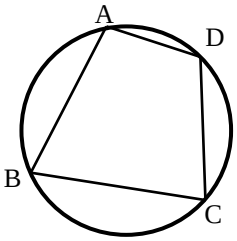

8) המרובע ABCD חסום במעגל.
נתון: AB = 6 ס"מ , BC = 9 ס"מ , CD = 10 ס"מ
ו-AD = 4 ס"מ.
מצא את אורכם של האלכסון AC ושל רדיוס המעגל.

9) BE ו-CF הם תיכונים במשולש ABC הנפגשים בנקודה M.
מהנקודה F מעבירים קטע GD כך שמתקיים: $AC = DC$ ו- $GD \parallel BE$.

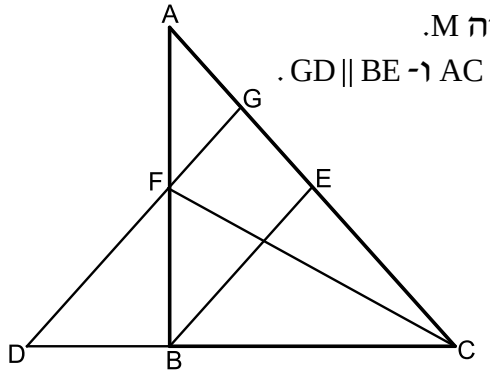

א. הוכח: $\frac{AG}{BD} = \frac{3}{4}$.

ב. נתון כי: $ME = 4$ ס"מ.
חשב את אורך הקטע DG.

ג. נתון כי: $\sphericalangle ACD = 48.189°$
הוכח כי המשולש DGC הוא שווה-שוקיים.

10) נתון משולש ABC. הקודקודים B ו-C של המשולש ABC נמצאים על מעגל שמרכזו O. מרכז המעגל O מונח על הצלע AC. אורך הצלע AB הוא 12 ס"מ ואורך הקטע AO הוא 4.5 ס"מ. זווית BAC היא $60°$.

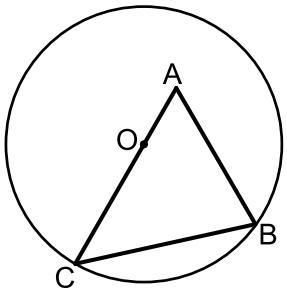

א. חשב את רדיוס המעגל.

ב. מעבירים את הקוטר BD ואת הקטע AD כך שנוצר המשולש ADB.
חשב את זווית ADB.

11) המשולש ABC הוא שווה שוקיים $(AB = AC)$ החסום במעגל שרדיוסו R.
הנקודה E היא אמצע הבסיס BC והנקודה D היא אמצע הקשת $\overset{\frown}{AB}$.
ידוע כי זווית הבסיס של המשולש היא $80°$.

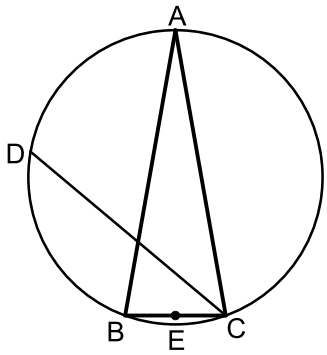

א. הבע באמצעות R את הקטעים CD ו-DE.

ב. r הוא רדיוס המעגל החוסם את המשולש CED.
הבע באמצעות R את r.

12) AB, AC ו-AD הם מיתרים במעגל המקיימים: $\overset{\frown}{BC} = \overset{\frown}{BD}$.
מהנקודה E שעל המעגל מעבירים את המיתרים AE ו-BE.
המיתרים BE ו-AD נחתכים בנקודה F.
נתון כי: $AC = AF = EF$.

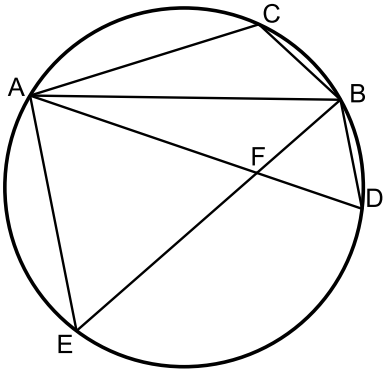

א. הוכח: $\Delta ABF \cong \Delta ABC$.

ב. נתון גם: $3 \cdot \sphericalangle CAB = \sphericalangle DAE$.
הוכח כי המשולש AFE הוא שווה צלעות.

13) המרובע ABCD הוא טרפז שווה שוקיים $(AB \parallel CD\ ,\ AD = BC)$.

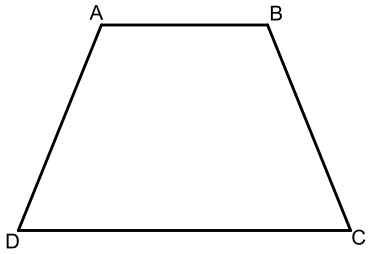

מידות הטרפז הן:

12 ס"מ = CD , 8 ס"מ= BC , 6 ס"מ = AB.

א. מצא את זווית C (עגל למספר שלם).

ב. מצא את אורך אלכסון הטרפז.

ג. חשב את רדיוס המעגל החוסם את הטרפז.

14) המרובע ABCD הוא טרפז ישר זווית $(AB \parallel CD\ ,\ \sphericalangle B = 90°)$.

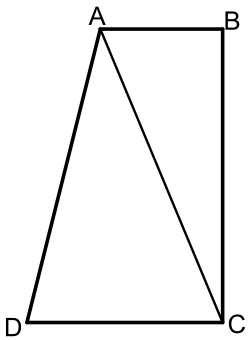

מסמנים את הבסיס: $AB = t$ וידוע כי: $DC = 1.6t$, $AD = 3t$.

היקף הטרפז הוא: 40 ס"מ.

א. הבע באמצעות t את אורך האלכסון AC.

ב. ידוע גם כי: $\sphericalangle D = 60°$.

i. חשב את אורך הקטע AC.

ii. חשב את שטח הטרפז.

15) המשולש ABC הוא שווה שוקיים (AB = AC) בעל זווית ראש 36° החסום במעגל שקוטרו 16 ס"מ. מעבירים תיכון לשוק BD.

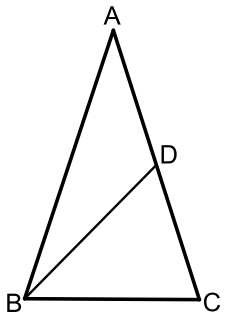

א. מצא את אורך הבסיס BC במשולש.

ב. חשב את אורך התיכון BD.

ג. מסמנים:

r_1 - רדיוס המעגל החוסם את המשולש ABD.

r_2 - רדיוס המעגל החוסם את המשולש BCD.

הוכח את היחס הבא: $\frac{r_1}{r_2} = 2\cos 36$.

16) המרובע ABCD הוא טרפז $(AB \parallel CD)$.

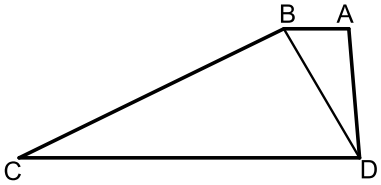

מעבירים את האלכסון BD המקיים: $\sphericalangle BCD = \sphericalangle ADB$.

נתון כי: 20 ס"מ = CD , 10 ס"מ = AD , 5 ס"מ = AB.

כמו כן ידוע כי השוק BC גדולה פי 2 מהאלכסון BD.

א. הראה כי השוק BC שווה לבסיס CD.

ב. חשב את זווית C.

ג. ממשיכים את שוקי הטרפז AD ו-BC עד לנקודה E שמחוץ לטרפז.
חשב את רדיוס המעגל החוסם את המשולש CDE.

17) באיור שלפניך נתון המרובע ABCD.
ידוע כי: $\sphericalangle D = 90°$.
נסמן את הצלעות באופן הבא: $AD = 3x$, $CD = 8x$, $BC = 5x$, $AB = 6x$.

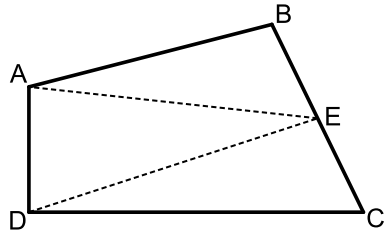

א. חשב את זווית BCD.
ב. E היא נקודה הנמצאת על אמצע הצלע BC.
מעבירים את הקטעים AE ו-DE כך
ש-DE מקביל ל-AB.
חשב את היחס הבא: $\frac{S_{ABE}}{S_{BCD}}$.

18) מהנקודה O מעבירים את הקטעים OA , OB , OC ו-OD.
ידוע כי זווית AOB שווה לזווית COD והיא מסומנת ב- α.
המשולש COD הוא ישר זווית $\sphericalangle CDO = 90°$.
נתונים האורכים: $DO = 10$, $BO = 9$.
מסמנים: $CD = 1.5m$, $BC = 1.4m$.

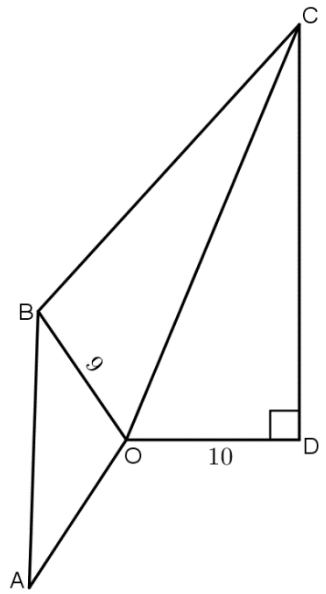

א. הבע באמצעות m את $\sin\alpha$.
(העזר במשולש COD ובטא תחילה את CO).
ב. נתון גם כי: $AB = m$.
מצא את m אם ידוע כי רדיוס המעגל החוסם
את המשולש AOB הוא $8\frac{2}{3}$.
ג. חשב את זווית BOC.

19) במשולש ABC הזווית A היא בת $60°$.
מעבירים את הקטע AD כך שנוצרת זווית: $\sphericalangle ADB = 60°$.
ידוע כי $AB = \sqrt{28}$ וכי הצלע AD במשולש ABD
גדולה פי 1.5 מהצלע BD.

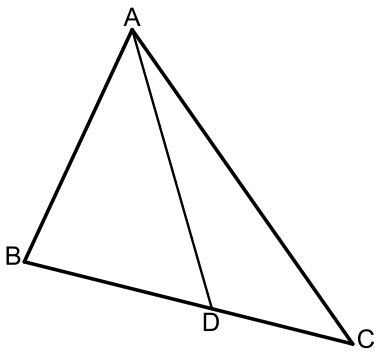

א. מצא את אורך הצלע BD.
ב. היקף המשולש ABC הוא: $P = 5\sqrt{7} + 7$.
i. סמן: $DC = t$ והבע באמצעות t
את אורך הצלע AC.
ii. מצא את t.
ג. חשב את שטח המשולש ABC.

20) מהנקודה A מעבירים את הקטעים AB ו-AC.
הנקודה D היא אמצע AC וממנה מעבירים את DE המקביל ל-AB.
הנקודות C , E ו-F נמצאות על אותו הישר.
ידוע כי המשולשים ABD , DEF ו-DCE הם
שווי שוקיים (AB = BD , DC = CE , EF = DE).
נתון כי : AD = 8.

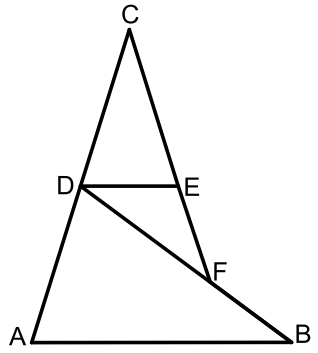

א. חשב את אורך הקטע BF.
ב. מחברים את הנקודות B ו-C.
חשב את אורך הצלע BC.

21) בשרטוט נתון : 6 ס"מ = AB , 8 ס"מ = AC ,
5 ס"מ = AD. הנקודה D היא אמצע הצלע BC.
חשב את אורך הקטע BC.

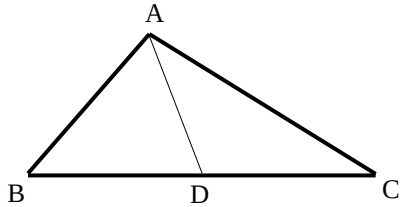

22) הצלע AC במשולש ABC גדולה פי 4 מהצלע AB.
הנקודה E היא אמצע הצלע AC והנקודה D נמצאת
על הצלע BC כך שמתקיים $DC = 2BD$.
נתון : $AB = a$, $BC = b$.
הבע באמצעות a ו- b את אורך הקטע DE.

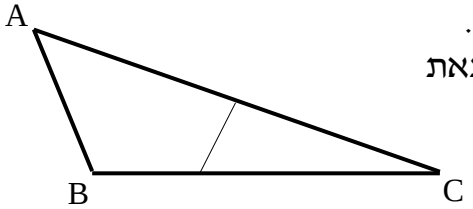

23) המשולש ABD חסום במעגל שרדיוסו R .
המשך הצלע AD והמשיק למעגל בנקודה B
נפגשים בנקודה C. נתון : $\sphericalangle C = \alpha$, $\sphericalangle ADB = \beta$.
הבע באמצעות R , α ו- β את אורך הקטע BC.

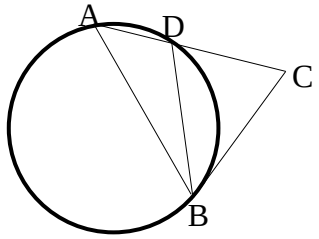

24) AC ו-BD הם מיתרים במעגל שרדיוסו R ,
שנפגשים בנקודה M. זווית $\sphericalangle B$ היא זווית ישרה.
נתון : $AB = k$, $DM = p$, $DC = q$.
הבע באמצעות R , k , p ו- q את אורך הקטע MC.

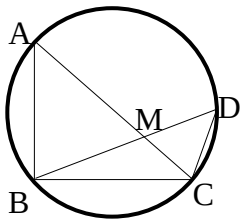

תשובות סופיות:

1) א. $\alpha=34.231°$ ב. $y=$ 14.33 ס"מ ג. $\alpha=155.526°$ או $\alpha=24.474°$
ד. $\alpha=41.382°$ או $\alpha=138.618°$ ה. $x=$ 3.606 ס"מ , $\alpha=73.898°$

2) א. $x=$ 5.646 ס"מ ב. $\alpha=20.742°$ ג. $\alpha=105.962°$ ד. $\alpha=90°$

3) AD = 13.064 ס"מ

4) GM = 3.360 ס"מ

5) 138.190° , 41.810° , 113.556° , 66.444°

6) AB = 14.56 ס"מ , $R=$ 9.242 ס"מ

7) $P=$ 22 ס"מ

8) AC = 10.790 ס"מ , $R=$ 5.395 ס"מ

9) DG = 18

10) $R=$ 10.5 ס"מ ב. 24.32°

11) א. $CD=R\sqrt{3}$, $DE=1.48R$ ב. $r=1.15R$

13) א. 68° ב. 11.66 ס"מ ג. $R=$ 6.29 ס"מ

14) א. $AC=\sqrt{32.36t^2-448t+1600}$ ב.i. 13 ס"מ ב.ii. 78 סמ"ר

15) א. 9.4 ס"מ ב.i. 10 ס"מ

16) ב. $\sphericalangle C=28.9°$ ג. $R=13.77$

17) א. 64.04° ב. $\frac{S_{ABE}}{S_{ECD}}=0.817$

18) א. $\sin\alpha=\frac{1.5m}{\sqrt{100+2.25m^2}}$ ב. $m=16$ ג. 56.94°

19) א. 4 ב.i. $1.5\sqrt{28}+3-t$ ב.ii. 3 ג. $S=18.18$

20) א. 4.94 ס"מ ב. 17.19 ס"מ

21) BC = 10 ס"מ

22) $DE=\sqrt{\frac{1}{9}b^2-a^2}$

23) $BC=\frac{2R\sin\beta\sin(\beta-\alpha)}{\sin\alpha}$

24) $MC=\sqrt{p^2+q^2-\frac{pqk}{R}}$

שאלות העוסקות בנוסחת שטח משולש:

סיכום כללי:

שטחים של משולשים ומרובעים:

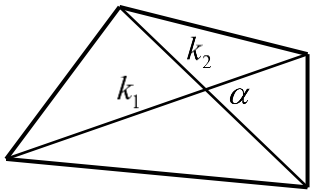

- שטח משולש ניתן לחישוב ע"י: $S=\frac{a\cdot h}{2}=\frac{ab\sin\gamma}{2}=\frac{a^2\sin\beta\sin\gamma}{2\sin\alpha}$.
- שטח מרובע ניתן לחישוב ע"י אלכסוניו: $S=\frac{k_1k_2\sin\alpha}{2}$.

שאלות:

25) חשב את שטחי המשולשים הבאים:

א.

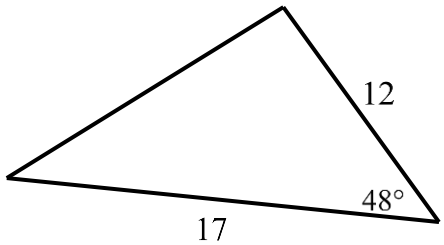

ב.

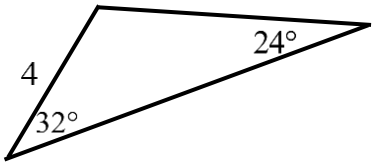

26) חשב את שטחו של טרפז שווה שוקיים שאורך האלכסון שלו 8 ס"מ והוא יוצר זווית של $15°$ עם הבסיסים.

27) אורכו של מלבן הוא m ורוחבו n. הזווית שבין אלכסוני המלבן היא θ.
הוכח כי מתקיים: $\sin\theta=\frac{2mn}{m^2+n^2}$.

28) במשולש ישר זווית ABC ($\sphericalangle B=90°$), BD חוצה את הזווית $\sphericalangle B$.
נתון: $AB=m$, $\sphericalangle A=\alpha$.
הבע באמצעות α ו-m את שטח המשולש BCD.

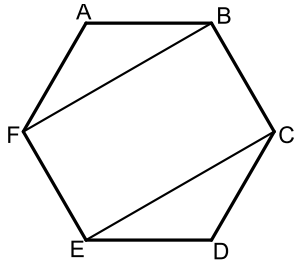

29) באיור שלפניך נתון משושה משוכלל ששטחו הכולל הוא S.
א. הבע באמצעות S את אורך צלע המשושה.
ב. מעבירים אלכסונים במשושה כך שנוצר המלבן BFEC.
הבע באמצעות S את שטח המלבן.

30) המשולש ABC הוא שווה שוקיים בעל זווית ראש α , (AB = AC).
אורך הבסיס BC הוא k.
על השוק AB בונים משולש ישר זווית ABD ובו $\sphericalangle D = 90°$.

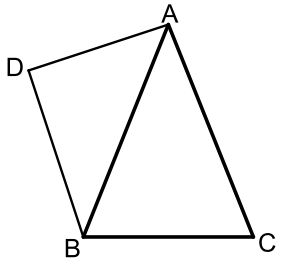

א. הבע באמצעות k ו- α את אורך שוק המשולש ABC.
ב. הניצב AD במשולש ABD שווה ל- $0.85k$
וכי: $\sphericalangle ABD = 40°$. מצא את זוויות המשולש ABC.
ג. חשב את שטח המרובע ACBD אם ידוע כי $k = 6$.

31) במשולש ABC אורך הצלע AC הוא 8 ס"מ ואורך הצלע AB הוא 10 ס"מ.
הנקודה E היא אמצע הצלע AC
והנקודה D מקיימת: AD = 3 ס"מ.
ידוע כי: $\frac{DE}{BC} = \frac{2}{5}$.

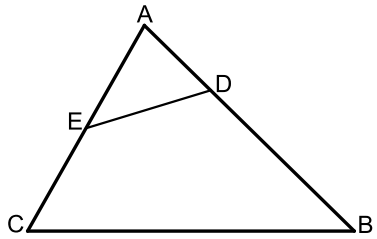

א. מצא את אורך הקטע DE.
ב. חשב את רדיוס המעגל החוסם את המשולש ADE.
ג. חשב את שטח המרובע BCED.

32) המרובע ABCD הוא טרפז $(AB \parallel CD)$. הקטע AC הוא אלכסון בטרפז.
מסמנים: $\sphericalangle ADC = \beta$, $\sphericalangle ACD = \alpha$, $AC = m$.

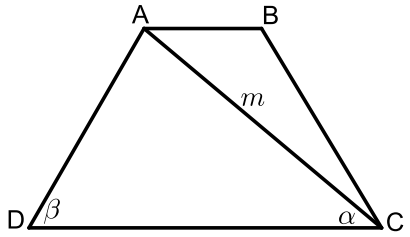

א. הבע באמצעות α , β ו- m את אורך הבסיס הגדול DC.
ב. נתון כי האלכסון AC מקיים: $\frac{S_{ADC}}{S_{ABC}} = 3$.
הבע באמצעות α, β ו- m את הבסיס AB.
ג. חשב את שטח הטרפז אם ידוע כי: $\beta = 60°$, $\alpha = 40°$ ו- $m = 8$.

33) המרובע ABCD הוא מלבן. מעבירים את האלכסון BD וממשיכים אותו עד לנקודה E שמחוץ למלבן.
מחברים את הנקודה E עם הקודקוד C.
ידוע כי אורך הצלע AD של המלבן הוא 6 ס"מ וכי אורך הקטע BE הוא 9 ס"מ. הזווית CBE היא $115°$.

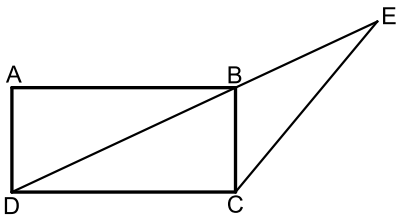

א. מצא את אורך הקטע CE.
ב. מצא את אורך האלכסון BD.
ג. חשב את שטח המשולש DCE.

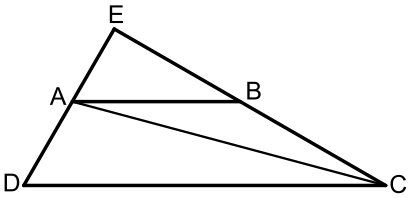

34) המרובע ABCD הוא טרפז $(AB \parallel CD)$.
ממשיכים את השוקיים AD ו-BC עד לפגישתם
בנקודה E.ידוע כי: $DE \perp CE$.
מעבירים את האלכסון AC אשר חוצה את זווית C.
מסמנים את הבסיס הגדול DC ב- k ואת: $\sphericalangle ACD = \alpha$.

א. הבע באמצעות k ו- α את הבסיס הקטן AB.

ב. הבע באמצעות k ו- α את שטח המשולש ABC.

ג. חשב את שטח המשולש ABC כאשר: $\alpha = 15°$, 12 ס"מ $= k$.

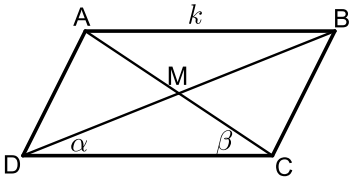

35) נתונה מקבילית ABCD ובה מעבירים
את האלכסונים AC ו-BD אשר נחתכים
בנקודה M כמתואר באיור.
מסמנים: $\sphericalangle ACD = \beta$, $\sphericalangle BDC = \alpha$, $AB = k$.

א. הוכח כי אלכסוני המקבילית מקיימים: $\frac{AC}{BD} = \frac{\sin\alpha}{\sin\beta}$.

ב. ענה על השאלות הבאות:

i. הבע באמצעות α , β ו- k את שטח המשולש DMC.

ii. הבע באמצעות α , β ו- k את שטח המקבילית ABCD.

ג. נתון כי: $\frac{AC}{BD} = 2$. הראה כי שטח המקבילית הוא: $\frac{4k^2\sin^2\beta}{\sin(\alpha+\beta)}$.

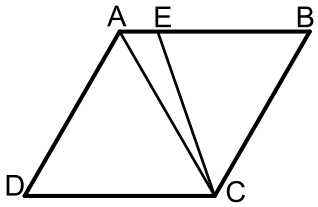

36) המרובע ABCD הוא מעוין ובו $\sphericalangle D = 60°$.
מעבירים את האלכסון AC ואת הקטע CE
כך שהנקודה E נמצאת על הצלע AB ומחלקת
אותה ביחס: $\frac{BE}{AE} = 4$.

א. חשב את זווית AEC.

ב. נתון כי שטח המשולש AEC הוא 8.66 סמ"ר. חשב את שטח המעוין.

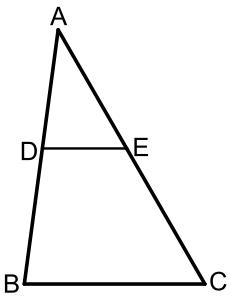

37) הקטע DE מקביל לצלע BC במשולש ABC כמתואר באיור.
נתון כי: $CE = 13$, $BC = 15$, $BD = \sqrt{129}$.
ידוע כי זווית AED היא $60°$.

א. חשב את אורך הקטע DE אם ידוע

ב. כי הוא קטן מ-10 ס"מ.

ג. חשב את שטח המשולש ADE.

38) המשולש ABC חסום במעגל כך ש-AB הוא קוטר.
הנקודה D היא אמצע הקשת BC וממנה מעבירים את המיתרים AD ו-BD ומעלים גובה DE לצלע BC .
מסמנים: $DE = k$ ונתון כי: $\sphericalangle ABC = 10°$.

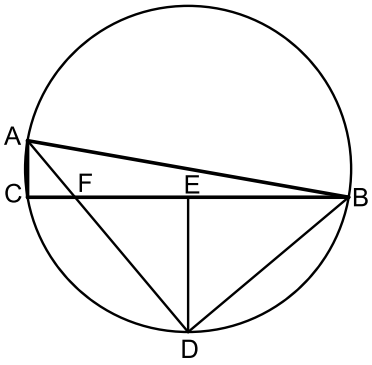

א. הבע באמצעות k את רדיוס המעגל.
ב. הבע באמצעות k את שטח המשולש ABF.
ג. מצא את k אם ידוע כי שטח המשולש ABF הוא 15.363 סמ"ר.

39) במשולש ABC הקטע BE חוצה את זווית B.
הנקודה D היא אמצע הצלע AB ומקיימת: DE = CE .
ידוע כי: BC = 6 , BE = 8 , BD = 9 .

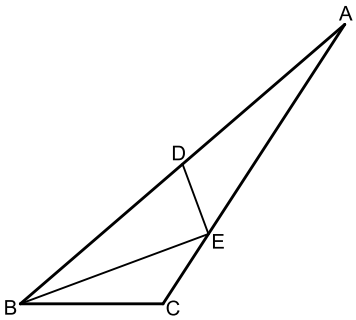

א. מצא את זווית B.
ב. חשב את שטח המשולש ADE.

40) נתון המעוין ABCD. אורך האלכסון הגדול במעוין AC גדול פי 1.8 מצלע המעוין.

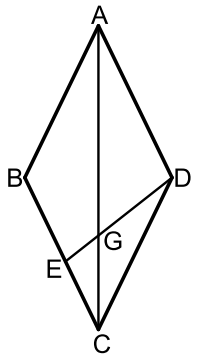

א. חשב את זוויות המעוין.
ב. מהקודקוד D מעבירים את הקטע DE שאורכו הוא m .
הקטע DE חותך את האלכסון AC בנקודה G.
הזווית EDC תסומן ב- α .
i. הבע באמצעות m ו- α את אורך הקטע CE.
ii. הבע באמצעות m ו- α את שטח המשולש EGC.

41) המשולש ABC חסום במעגל כמתואר באיור.
מעבירים את המיתר AD החוצה את זווית BAC.
ידוע כי: $\sphericalangle ACB = 60°$, $\sphericalangle BAC = 40°$.
מסמנים: $AD = k$.

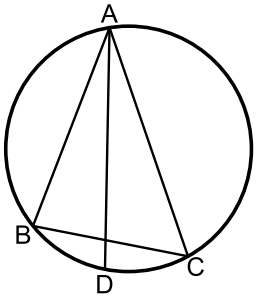

א. הבע באמצעות k את אורך המיתר BD.
ב. ידוע כי שטח המשולש ABD הוא 7.368 סמ"ר.
מצא את k (עגל למספר שלם).

42) המשולש ABC הוא שווה שוקיים (AB = AC).
ממשיכים את הצלע AC עד לנקודה D כך
שאורך שוק המשולש גדולה פי 3.8 מהקטע AD.
ידוע כי: $\sphericalangle D = 60°$.
אורך הקטע BD הוא 21 ס"מ.

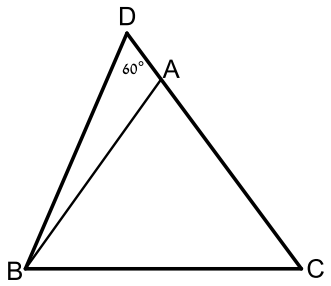

א. מצא את אורך הקטע AD.
ב. חשב את שטח המשולש ABC.

43) במקבילית ABCD אורך האלכסון AC הוא $\sqrt{79}$ ס"מ.
היקף המקבילית הוא 20 ס"מ וידוע כי: $\sphericalangle B = 120°$.

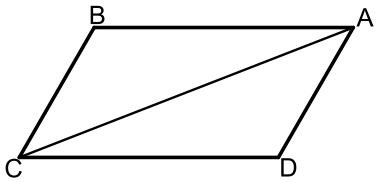

א. מצא את אורכי צלעות המקבילית.
ב. חשב את שטח המקבילית.
ג. מסמנים נקודה E על האלכסון AC כך שהמרובע CBED הוא בר חסימה.
חשב את רדיוס המעגל החוסם את המרובע CBED.

44) המרובע ABCD הוא מלבן החסום במעגל.
מהקודקוד D מעבירים את המיתר DF
החותך את הצלע AB בנקודה E.
ידוע כי: $\overset{\frown}{AF} = \overset{\frown}{CF}$.
הצלע AD של המלבן תסומן ב-a.

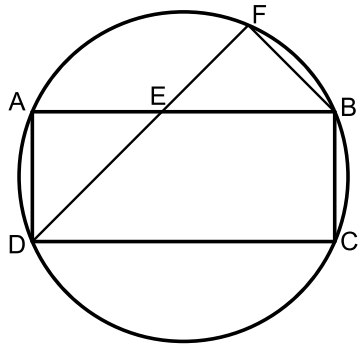

א. הוכח כי המשולש DAE הוא שווה שוקיים.
ב. נתון גם כי: BC = BF.
i. הבע באמצעות a את רדיוס המעגל.
ii. חשב את הזוויות המרכזיות של הקשתות: $\overset{\frown}{AB}$, $\overset{\frown}{BC}$
(אין צורך לסרטט אותן).

45) המרובע ABCD חסום במעגל כמתואר באיור.
ידוע כי: $AB = b$, $BC = a$, $CD = a$, $AD = 3b$.

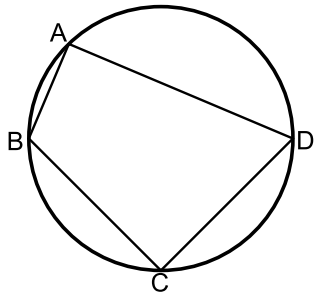

א. הבע באמצעות a ו-b את $\cos\sphericalangle BCD$.
ב. הוכח כי אם BD קוטר אז מתקיים: $a = b\sqrt{5}$.
ג. נתון כי רדיוס המעגל הוא 3 ס"מ.
הסתמך על סעיף ב' וחשב את שטח המרובע ABCD.

46) המשולש ABC הוא ישר זווית $\sphericalangle C=90^\circ$ ובו: $\sphericalangle B=2\alpha$.
מעבירים מעגל שרדיוסו R דרך הקודקודים B ו-C
אשר חותך את צלעות המשולש בנקודות D ו-E.
המיתר BE חוצה את זווית B.

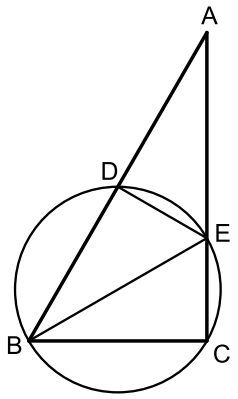

א. הבע באמצעות R ו- α את שטח המשולש ABE.

ב. ידוע כי המשולש ABE הוא שווה שוקיים
וכי אורך המיתר CE הוא 6 ס"מ.
חשב את שטח המשולש ABE.

47) במשולש שווה שוקיים ABC (AB = AC) שאורך השוק בו הוא k וזווית הבסיס שלו היא β, BE חוצה את זווית $\sphericalangle B$ ו- CD הוא הגובה לשוק AB.

הוכח כי שטח המשולש ADE הוא: $S_{ADE}=-\dfrac{k^2\sin\frac{\beta}{2}\sin 4\beta}{4\sin\frac{3\beta}{2}}$.

48) נתון משולש שווה שוקיים ABC (AB = AC) החסום במעגל.
מהקודקוד C מעבירים את המיתר CE החותך את השוק AB בנקודה D.
ידוע כי E היא אמצע הקשת $\overset{\frown}{AB}$ והיחס בין
הקטעים BD ו-CD הוא 4:7.
מסמנים: $\sphericalangle ACD=\alpha$.

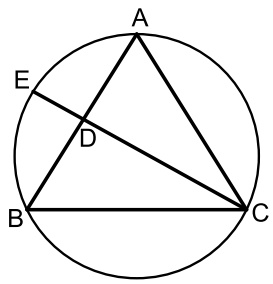

א. מצא את זוויות המשולש ABC
(עגל למספרים שלמים).

ב. חשב את אורך המיתר BE אם ידוע כי
רדיוס המעגל החוסם שווה ל-8 ס"מ.

49) AC ו-BD הם מיתרים במעגל שרדיוסו R, שנפגשים בנקודה M.
זווית $\sphericalangle B$ היא זווית ישרה.
נתון: $\sphericalangle MBC=\alpha$, $\sphericalangle MCB=\beta$.

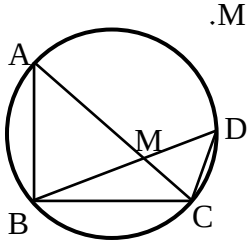

א. הבע באמצעות R, α ו- β את שטח המשולש BDC.

ב. נתון: $\beta=2\alpha$, $S_{BDC}=\frac{1}{2}R^2$.
חשב את α.

50) בטרפז שווה שוקיים, שאורך השוק שבו הוא b והזווית שליד הבסיס הגדול היא γ נתון שהאלכסונים מאונכים זה לזה.

א. הבע באמצעות γ ו- b את אורכי בסיסי הטרפז.

ב. חשב את γ אם ידוע שהבסיס הגדול ארוך פי $\sqrt{3}$ מהבסיס הקטן.

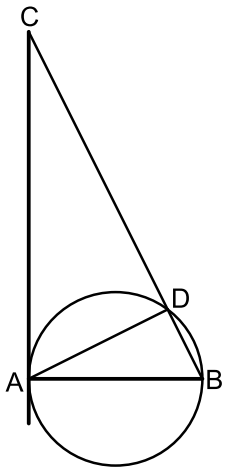

51) המיתר AB הוא קוטר במעגל שרדיוסו R ו-AD הוא מיתר.
ממשיכים את המיתר BD ומעבירים משיק מהנקודה A.
המשיק והמשך המיתר נפגשים בנקודה C.
מסמנים: $\sphericalangle BAD = \alpha$.

א. הבע באמצעות α ו- R את שטח המשולש ABD.

ב. הבע באמצעות α ו- R את שטח המשולש ACD.

ג. מצא את α אם ידוע כי שטח המשולש ABD קטן פי 4 משטח המשולש ACD.

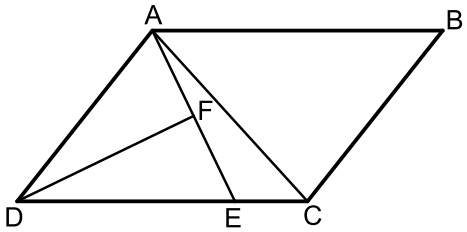

52) המרובע ABCD הוא מקבילית.
הקטע AE מקצה על הצלע DC קטעים
המקיימים: $3CE = DE$.
מעבירים תיכון DF לצלע AE במשולש ADE.
ידוע כי: $\sphericalangle ADF = \sphericalangle CDF = \alpha$.
מסמנים: $CE = k$.

א. הבע באמצעות k ו- α את אורך הקטע AE.

ב. מעבירים את האלכסון AC.
הבע באמצעות k ו- α את היקף המשולש ACE.

ג. היקף המשולש ACE הוא $4.5k$. מצא את α.

תשובות סופיות:

25) א. $S=$ 75.801 סמ"ר ב. $S=$ 8.641 סמ"ר

26) $S=$ 16 סמ"ר

27) $S_{\Delta BCD}=\dfrac{m^2\tan^2\alpha\sin 45^\circ\cos\alpha}{2\sin(\alpha+45^\circ)}$

28) א. $\sqrt{\dfrac{2S}{\sqrt{27}}}\approx 0.62S$ ב. $\dfrac{2}{3}S$

29) א. $\dfrac{k}{2\sin\frac{\alpha}{2}}$ ב. 67.78° , 67.78° , 44.4° ג. $S=37.18$

30) א. $DE=\sqrt{1.6}=1.26$ ב. $R=2$ ג. $S=21.48$

31) א. $DC=\dfrac{m\sin(\alpha+\beta)}{\sin\beta}$ ב. $AB=\dfrac{m\sin(\alpha+\beta)}{3\sin\beta}$ ג. $S_{ABCD}=31.2$

32) א. 12.75 ס"מ ב. 14.19 ס"מ ג. 63.05 ס"מ

33) א. $\dfrac{k\tan\alpha}{\tan 2\alpha}$ ב. $\dfrac{k^2\tan\alpha\sin 2\alpha}{2\tan^2 2\alpha}$ ג. $S=$ 7.754 ס"מ

34) ב.i. $\dfrac{k^2\sin\alpha\sin\beta}{2\sin(\alpha+\beta)}$ ב.ii. $\dfrac{2k^2\sin\alpha\sin\beta}{\sin(\alpha+\beta)}$

35) א. 109.1° ב. $S=86.6$

36) א. 7 ס"מ ב. 34.48 סמ"ר

37) א. $R=\dfrac{k}{2\sin^2 40}=1.21k$ ב. $S=\dfrac{k^2\sin 10}{2\sin 50\sin^3 40}$ ג. $k=6$

38) א. 40.72° ב. $S=12.52$

39) א. 128.32° ; 51.68° ב. $1.27m\sin\alpha$ ג. $\dfrac{0.35m^2\sin^2\alpha\sin(128.32-\alpha)}{\sin(25.84+\alpha)}$

40) א. $BD=\dfrac{k\sin 20}{\sin 100}$ ב. $k=7$

41) א. 5 ס"מ ב. $S=172.77$

42) א. BC = 3 ס"מ ו-AB = 7 ס"מ ב. $S=$ 18.18 סמ"ר ג. $R=\sqrt{\dfrac{37}{3}}$

43) ב.i. $R = a\sqrt{1+\frac{\sqrt{2}}{2}} \approx 1.3a$ ב.ii. 45° , 135°

44) א. $\cos\sphericalangle BCD = \frac{a^2-5b^2}{a^2+3b^2}$ ג. 14.4 סמ"ר $S=$.

45) א. $S = R^2 \tan 2\alpha$ ב. $36\sqrt{3}$ סמ"ר $S=$.

48) א. 58° , 58° , 64° ב. $BE = 7.75$.

49) א. $S = 2R^2 \sin\alpha \cos\beta \sin(90^\circ - \alpha + \beta)$ ב. $\alpha = 22.5^\circ$.

50) א. $\frac{b\sin(\gamma - 45^\circ)}{\sin 45^\circ}$, $\frac{b\sin(135^\circ - \gamma)}{\sin 45^\circ}$ ב. $\gamma = 75^\circ$.

51) א. $S = R^2 \sin 2\alpha$ ב. $S = \frac{2R^2\cos^3\alpha}{\sin\alpha}$ ג. $\alpha = 26.56^\circ$.

52) א. $AE = 6k\sin\alpha$ ב. $P_{ACE} = k + 6k\sin\alpha + k\sqrt{25 - 24\cos 2\alpha}$

ג. $\alpha = 14.47^\circ$.

שאלות המשלבות ידע בגיאומטריה:

שאלות:

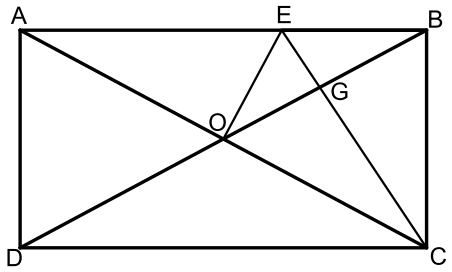

53) המרובע ABCD הוא מלבן.
מעבירים את האלכסונים AC ו-BD .
הנקודה E נמצאת על הצלע AB של המלבן
ומחלקת אותה כך ש- 2BE = AE .
ידוע כי הקטע OE מאונך לאלכסון AC
ושווה ל-BE.
הקטע CE חותך את האלכסון BD בנקודה G.

א. הוכח כי הקטע CE מאונך לאלכסון BD.

ב. הוכח כי מתקיים : 4GE = AE .

ג. נתון כי שטח המשולש BEG הוא 5 סמ"ר.
חשב את שטח המלבן ABCD.

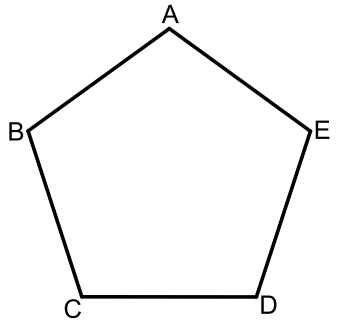

54) באיור שלפניך נתון מחומש משוכלל ACBDE
(כל זוויותיו הן $108°$) בעל אורך צלע α .

א. הבע באמצעות α את אלכסון המחומש AD.

ב. הבע באמצעות α את רדיוס המעגל
החוסם את המחומש.

ג. הבע באמצעות α את שטח המחומש.

ד. אורך רדיוס המעגל החוסם את המחומש הוא 6 ס"מ.
חשב את שטח המחומש.

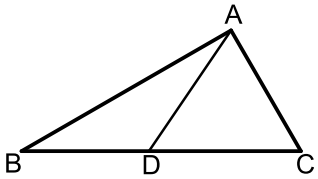

55) במשולש ABC הזווית C היא $60°$.
מעבירים את הקטע AD כך שנוצרים
המשולשים ACD ו-ABD.
ידוע כי רדיוס המעגל החוסם את
המשולש ACD הוא : $R_1 = \sqrt{3}$ ס"מ .
כמו כן רדיוס המעגל החוסם את המשולש ABD הוא : $R_2 =$ 3 ס"מ .

א. הוכח כי המשולש ABC הוא ישר זווית.

ב. היקף המשולש ABC הוא : $12+4\sqrt{3}$ ס"מ = P .
חשב את שטח המשולש.

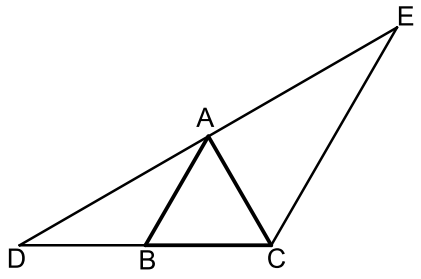

56) המשולש ABC הוא שווה צלעות.
הקטע DE עובר דרך הקודקוד A כך שנוצרים שני משולשים ABD ו-ACE .
ידוע כי AC חוצה את זווית DCE במשולש DCE.

א. הוכח: $AB \parallel CE$.

ב. הוכח: $BC \cdot DE = DC \cdot AE$.

ג. נתון: $DC =$ 8 ס"מ
וכי: $AC \perp DE$.

i. חשב את שטח המשולש DCE .

ii. חשב את שטח המשולש ABD.

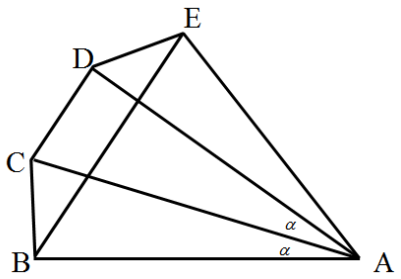

57) מהנקודה A מעבירים את הקטעים AB , AC , AD ו-AE
כך שמתקיים: $\sphericalangle BAC = \sphericalangle CAD = \alpha$ ו- AB = AE .
מעבירים את האלכסון BE במחומש ABCDE.
מתקיים: $BE \parallel CD$.
ידוע כי המרובע BCDE הוא בר חסימה.

א. הוכח כי המרובע BCDE הוא טרפז שווה שוקיים.

ב. נתון כי המשולש ACD הוא ש"ש (AC = AD).
הוכח כי: $\Delta ABD \cong \Delta ACE$.

ג. ידוע כי: $\sphericalangle ADC = 3\alpha + 2.5$ ו- $\sphericalangle ADE = 3\alpha - 10$.
הוכח כי משולש ADE הוא ישר זווית.

ד. נסמן: $AB = m$.

i. הבע באמצעות m את צלעות הטרפז BCDE.

ii. הבע באמצעות m את שטח המחומש ABCDE.

iii. מצא את m אם ידוע כי שטח המחומש ABCDE הוא 46.284 סמ"ר. (עגל למספר שלם).

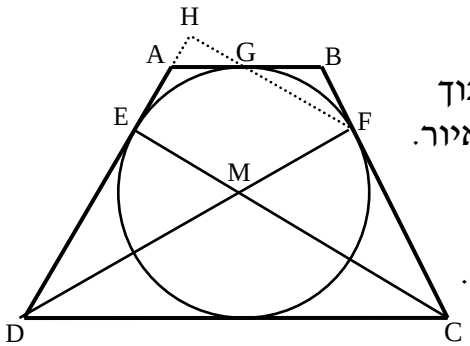

58) הטרפז ABCD הוא שווה שוקיים. חוסמים מעגל בתוך הטרפז אשר משיק לו בנקודות E, F ו-G כמתואר באיור.
הקטעים DF ו-CE חוצים את זוויות הטרפז ונחתכים בנקודה M.

א. הוכח כי הנקודה M היא מרכז המעגל החסום.

ב. חשב את זוויות הטרפז.

ג. ממשיכים את GF ואת AD כך שהם נפגשים בנקודה H.
חשב את היחס $\frac{EM}{FH}$.

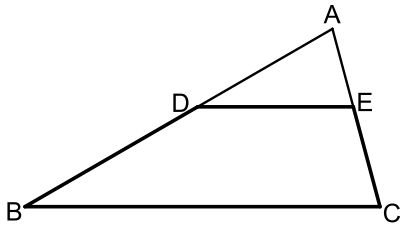

59) המרובע BDEC הוא טרפז $BC \parallel DE$.
המשכי השוקיים BD ו-CE נפגשים בנקודה A
כך שהמשולש ABC הוא שווה שוקיים (AB = BC).
נתון: 18 ס"מ = AB, $\sphericalangle ADE = 30°$.

א. סמן את אורך הבסיס DE ב-x
ואת שטח הטרפז BDEC ב-S.
הבע את S באמצעות x.

ב. על הקטע AD בונים ריבוע.
ידוע כי שטחו קטן ב-1 סמ"ר משטח הטרפז BDEC.
חשב את היחס: $\frac{S_{ADE}}{S_{ABC}}$.

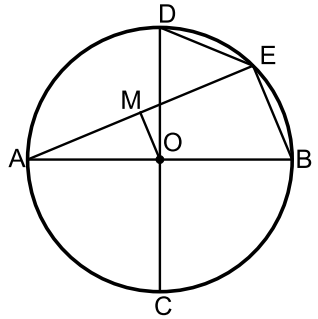

60) במעגל שמרכזו O מעבירים את הקטרים AB ו- CD
המאונכים זה לזה. E היא נקודה על היקף
המעגל המקיימת: 15 ס"מ = BE + DE.
מעבירים את המיתר AE.
הקטע OM מאונך למיתר AE ושווה למיתר DE.

א. הוכח כי המרובע OMEB הוא טרפז ישר זווית.

ב. מצא את אורך המיתר BE.
נתון כי שטח הטרפז הוא 90 סמ"ר.

ג. מצא את רדיוס המעגל.

ד. חשב את זווית B.

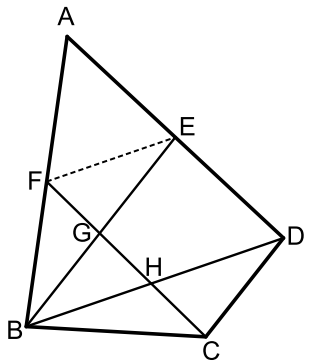

61) BD הוא אלכסון במרובע הבר-חסימה ABCD.
הנקודות E ו- F הן בהתאמה אמצעי
הצלעות AD ו- AB במרובע.
מעבירים את הקטעים BE ו-CF כך ש- $BE \parallel CD$.
נתון כי הזוויות $\sphericalangle A$ ו- $\sphericalangle BFE$ משלימות ל- $180°$.

א. הוכח: $\Delta BCD \sim \Delta BFE$.

ב. נתון כי: BE = 7.5 וכי: $GE - HD = 17\frac{1}{15}$.
חשב את אורך הקטע FE.

ג. נתון כי רדיוס המעגל החוסם את המשולש BED
הוא: 4.001 ס"מ = R. מצא את זווית $\sphericalangle EBD$.

תשובות סופיות:

53) ג. 120 סמ"ר

54) א. 1.618α ב. 0.85α ג. $1.72\alpha^2$ ד. $S=85.57$

55) ב. $S=8\sqrt{3}$

56) ג.i. $S_{CDE}=16\sqrt{3}$ ג.ii. $S_{ABD}=4\sqrt{3}$

57) ד.i. $BE=1.2175m$, $CD=0.4776m$, $DE=0.4663m$, $BC=0.4663m$

62) ד.ii. $0.7232m^2$ ד.iii. 8 ס"מ $=m$

58) ב. $120°$, $60°$ ג. $\frac{2}{3}$

59) א. $S=81-0.25x^2$ ב. $\frac{S_{ADE}}{S_{ABC}}=\frac{16}{81}$

60) ב. BE = 10 ג. R = 13 ד. $\sphericalangle B=67.38°$

61) ב. FE = 4 ג. $16.73°$

שאלות מסכמות:

שאלות:

1) המשולש ABC חסום מעגל שרדיוסו R.
נתון כי $\sphericalangle B=\beta$, $\sphericalangle A=\alpha$.

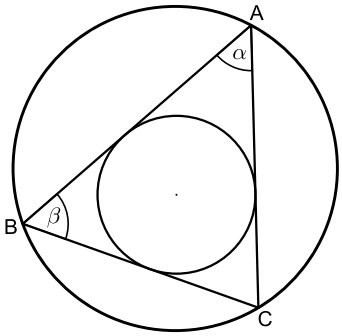

א. הבע את רדיוס המעגל החסום במשולש בעזרת R , β , α.

ב. נתון כי: $\alpha=\beta=60°$.
חשב את רדיוס המעגל החסום במשולש בעזרת R.

2) במקבילית MNQP נקודה E נמצאת על הצלע PQ כך ש- $\sphericalangle MEN=90°$ (ראה ציור).
נתון: MQ = 12 ס"מ , $\sphericalangle MQP=70°$, $\sphericalangle MNE=40°$.
מצא את הגובה MF, ואת הגובה NK.

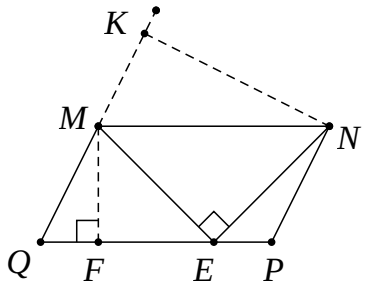

3) במשולש ישר-זווית MNP, $(\sphericalangle P=90°)$
PA הוא גובה ליתר ו-NF חוצה את הזווית $\sphericalangle MNP$.
PA ו-NF נחתכים בנקודה E (ראה ציור).
נתון: NP = 24 ס"מ , $\sphericalangle MNP=40°$.

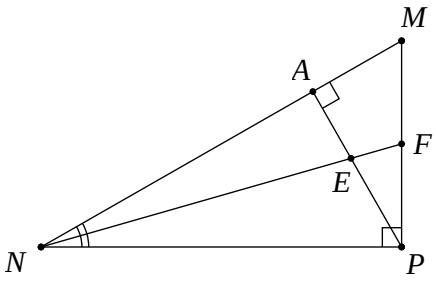

א. מצא את אורך הקטע NA.

ב. מצא את אורך הקטע EF.

4) אלכסוני המלבן MNPQ נחתכים בנקודה O.
מנקודה O מעלים אנך ל-QN החותך את QP בנקודה K (ראה ציור).
נתון: $\sphericalangle MOQ=2\beta$, NP = a.

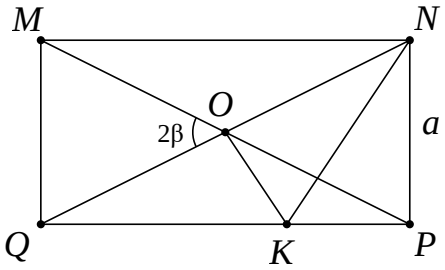

א. הבע את אורך הקטע OK באמצעות β ו- a.

ב. הבע את היקף המשולש NOK באמצעות β ו- a.

5) בטרפז ישר-זווית ABCD חסום מעגל שמרכזו O.
הנקודה M היא נקודת ההשקה של המעגל עם השוק AB.
נתון: AM = 12 ס"מ , $\sphericalangle BAD = \alpha$.

א. הבע את רדיוס המעגל בעזרת α .

ב. הבע את היקף הטרפז בעזרת α .

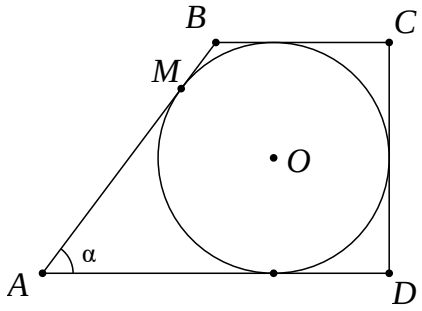

6) במשולש ישר-זווית ABC (ראה ציור) נתון:
BC = 8 ס"מ , $\sphericalangle ACB = 90°$, $\sphericalangle ABC = \beta$.
CD הוא הגובה ליתר.
CE הוא חוצה-הזווית $\sphericalangle ACD$.
הבע את אורך הקטע AE באמצעות β .

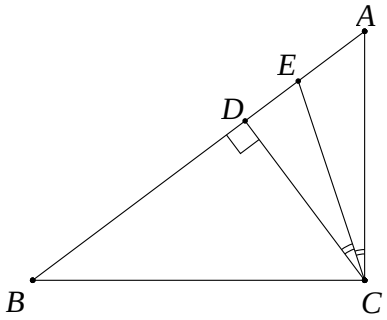

7) נתון מעגל שרדיוסו R . מצולע משוכלל בעל 9 צלעות חוסם את המעגל הזה.
מצולע משוכלל אחר בעל 9 צלעות חסום בתוך מעגל זה.
חשב את היחס בין שטח המצולע החוסם את המעגל לשטח המצולע החסום במעגל זה.

8) ΔABC הוא משולש שווה-שוקיים (AB = AC) שאורך בסיסו 12 ס"מ.
AD הוא הגובה לבסיס BC ו-CE הוא הגובה לשוק AB.
שני הגבהים נחתכים בנקודה O. נתון: $\sphericalangle ABC = \alpha$ $(\alpha > 45°)$.

א. הבע את היחס AO : DO באמצעות α .

ב. הראה כי בעבור $\alpha = 60°$ הביטוי שמצאת בסעיף א' מתאים לתכונות הגאומטריות של משולש שווה-צלעות.

9) במשולש ABC חסום מעגל שמרכזו M ורדיוסו r (ראה ציור).
נתון: $\sphericalangle C = 46°$, $\sphericalangle B = 62°$.

א. הבע באמצעות r את אורך הצלע BC .

ב. נתון: BC = 16 ס"מ. מצא את r .

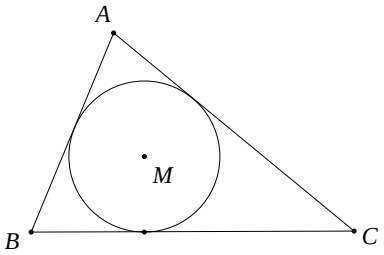

10) במחומש משוכלל ABCDE (ראה ציור)
אורך האלכסון AC הוא 15 ס"מ.
חשב את שטח המחומש.

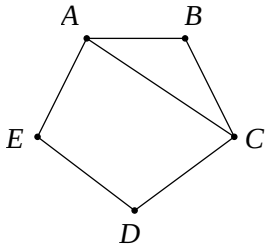

11) מנקודה C הנמצאת מחוץ למעגל שמרכזו M ורדיוסו R מעבירים משיק CD וחותך CBA למעגל (ראה ציור).

נתון: $CD=\frac{3}{5}R$.

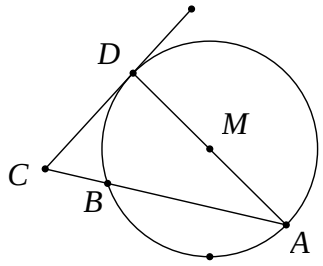

א. מצא את זוויות המשולש CAD.

ב. הבע באמצעות R את שטח המשולש BCD.

12) מנקודה A, הנמצאת מחוץ למעגל שמרכזו O, יוצאים שני משיקים למעגל, AB ו-AC (ראה ציור).

נתון: $\sphericalangle BAC=2\alpha$, 10 ס"מ = AO.

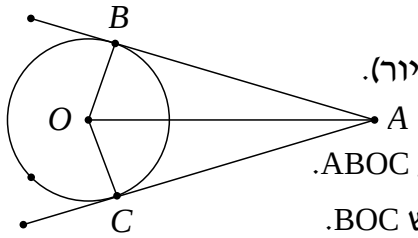

א. הבע באמצעות α את S_1 , שטח המרובע ABOC.

ב. הבע באמצעות α את S_2 , שטח המשולש BOC.

ג. הראה שאם $\alpha=30°$, אזי: $S_1=4\cdot S_2$.

13) ABCD הוא טרפז ישר-זווית $(\sphericalangle C=\sphericalangle D=90°)$.

נקודה E נמצאת על הצלע DC (ראה ציור).

נתון: $\sphericalangle AEB=90°$, $AE=BE=k$ ו- $\sphericalangle CBE=\beta$.

הבע באמצעות k ו- β את שטח הטרפז.

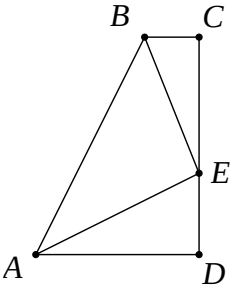

14) ענה על השאלות הבאות:

א. במעושר משוכלל, ששטחו 100 סמ"ר, חוסמים מעגל. מצא את רדיוס המעגל החסום במעושר.

ב. מעושר משוכלל חסום במעגל, שאת רדיוסו מצאת בסעיף א'. מצא את שטח המעושר המשוכלל הזה.

15) ABC הוא משולש שווה-שוקיים (AB = AC) שבו זווית הראש היא זווית חדה. נתון כי זווית הבסיס היא β ואורך הבסיס BC הוא 2α. AD הוא הגובה לבסיס BC ו-CE הוא הגובה לשוק AB. הגבהים AD ו-CE נפגשים בנקודה O (ראה ציור).

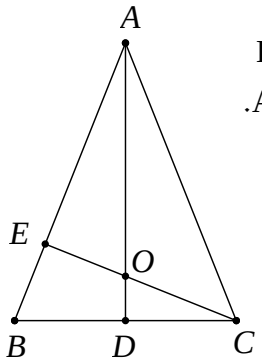

א. הבע באמצעות α ו- β את אורכי הקטעים CO ו-CE.

ב. הבע באמצעות β את היחס $\frac{CO}{CE}$.

ג. חשב את היחס שמצאת בסעיף ב' כאשר $\beta=60°$, והסבר מהי המשמעות הגאומטרית של התוצאה שקיבלת.

16) מנקודה A יוצאים שני משיקים למעגל שמרכזו O, שאורכם m (כלומר: $AB = AC = m$).
נקודות ההשקה הן B ו-C, והזווית שבין המשיקים היא $\sphericalangle BAC = \alpha$ (ראה ציור).

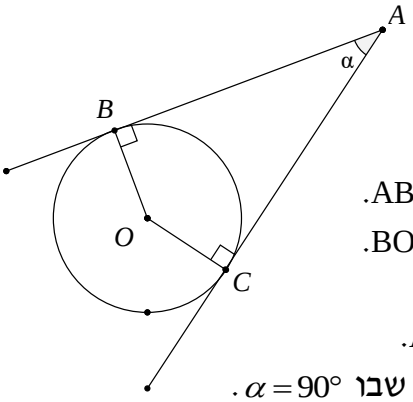

א. הבע באמצעות m ו- α את שטח המשולש ABC.
ב. הבע באמצעות m ו- α את שטח המשולש BOC.
ג. הבע באמצעות α את היחס שבין שטחו של המשולש BOC לבין שטחו של המשולש ABC.
ד. בדוק את תשובתך לסעיף ג' למקרה המיוחד שבו $\alpha = 90°$.

17) במשולש ישר-זווית DAC נתון $\sphericalangle DAC = \alpha$.
מאריכים את הניצב AC כך ש- $AB = d$.
נתון כי: $\sphericalangle DBA = \beta$ (ראה ציור).
סמן: $AC = x$.
הבע את x באמצעות d, α ו- β.

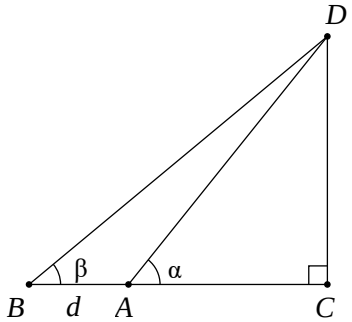

18) הקטעים AB ו-CD נחתכים בנקודה O.
נתון כי: $\sphericalangle OAC = 60°$,
9 ס"מ = CO, 6 ס"מ = AC,
14 ס"מ = OD, 10 ס"מ = OB.
חשב את $\sphericalangle ODB$.

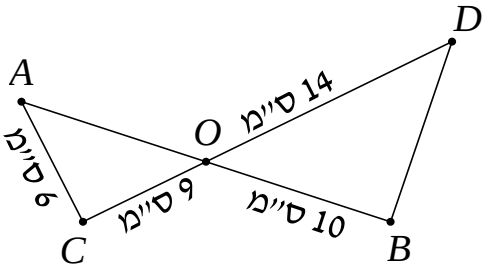

19) במשולש MNP גודל הזווית M הוא $54°$.
נתון כי אורך הצלע MN הוא 12 ס"מ
(ראה ציור), והצלע NP ארוכה ב-7 ס"מ מהצלע MP.
א. חשב את אורך הצלע NP.
ב. PA הוא תיכון לצלע MN.
חשב את שטח המשולש PAN.

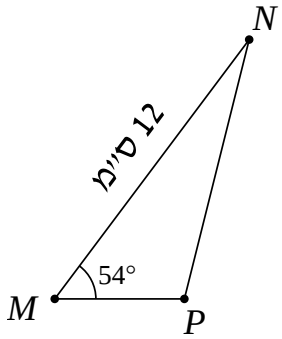

20) המשולש השווה-שוקיים ABC (AB = AC) חסום במעגל (ראה ציור).
נתון: $\sphericalangle ABC = \beta$.
כמו כן ידוע שאורך רדיוס המעגל הוא 20 ס"מ.
א. הבע בעזרת β את שטח המשולש ABC.
ב. חשב את שטח המשולש ABC בעבור $\beta = 45°$.

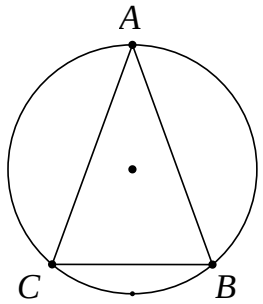

21) במשולש ABC הזווית $\sphericalangle C$ היא בת $60°$, אורך הצלע AB הוא $\sqrt{13}$ ס"מ, והיקף המשולש הוא $7+\sqrt{13}$ ס"מ. חשב את שטח המשולש.

22) בטרפז שווה-שוקיים ABCD (AD = BC) אורך הבסיס הגדול AB שווה לאורך האלכסון. זווית הבסיס היא β $(\beta > 60°)$, (ראה ציור). הבע באמצעות β את היחס שבין שטח המשולש ACD לשטח המשולש ABC.

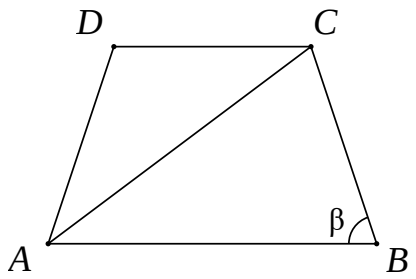

23) הקודקודים A ו- B של המשולש ABD נמצאים על היקף מעגל שאורך רדיוסו 12 ס"מ ומרכזו O. הקודקוד D של המשולש ABD נמצא על הרדיוס OA.

א. הבע בעזרת α ו- β את שטח המשולש ABD.

ב. הבע בעזרת α ו- β את היחס שבין שטח המשולש ABC לשטח המשולש ABD.

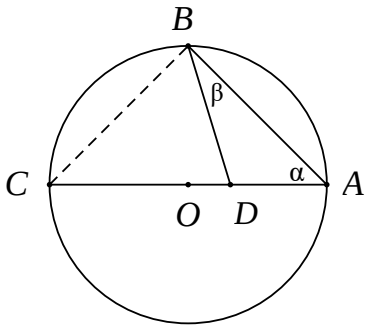

24) משולש MNP חסום במעגל.
המיתר NQ חוצה את הזווית $\sphericalangle MNP$.
נתון: $\sphericalangle MNP = 80°$, $\sphericalangle MPN = 70°$,
NP = 12 ס"מ.
חשב את אורך המיתר MQ.

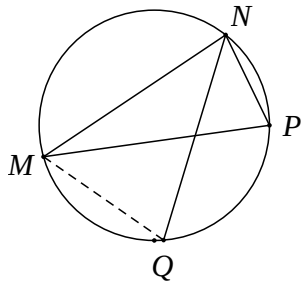

25) נתון טרפז ABCD $(AB \| CD)$.
הנקודה E היא נקודת המפגש של אלכסוני הטרפז.
נתון: $DC = BC$, $BE = m$,
$\sphericalangle CEB = \alpha$, $\sphericalangle CBD = \beta$ (ראה ציור).
הבע את אורכי בסיס הטרפז:
AB ו- CD באמצעות m, α ו- β.

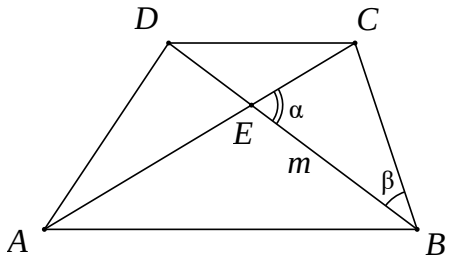

26) במשולש RST נתון: QT הוא חוצה-הזווית $\sphericalangle RTS$
(ראה ציור), $QS = m$, $RQ = \sqrt{2}$,
$\sphericalangle RST = \alpha$, $\sphericalangle TRQ = 45°$.

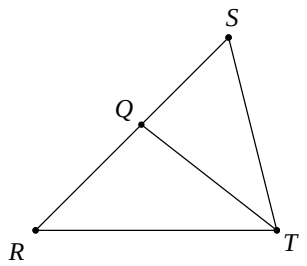

א. הבע את $\sin\alpha$ באמצעות m .

ב. נתון כי: $m = \frac{2}{\sqrt{3}}$.

חשב את זוויות המשולש RST.

27) במשולש שווה שוקיים ABC (AB = AC) התיכון לשוק שווה באורכו לרדיוס המעגל החוסם את המשולש. חשב את זווית הבסיס של המשולש.

28) נתון משולש שצלעותיו t , $2t$, kt .

א. לאיזה ערכים של הקבוע k המשולש הוא קהה זווית?

ב. נתון $k = \sqrt{7}$. הבע ע"י t את אורך חוצה הזווית הקהה.

29) בתוך הריבוע ABCD נתון, העבירו ארבעה קטעים היוצרים את אותה זווית α עם צלעות הריבוע כך שהתקבל ריבוע פנימי PQRS.

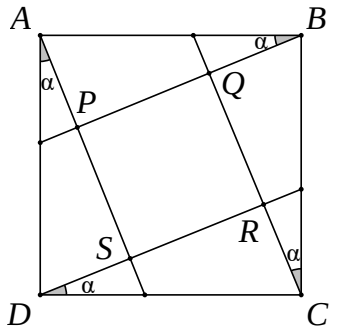

א. הוכח כי: $\frac{PQ}{AB} = \cos\alpha - \sin\alpha$.

ב. לאיזו זווית α מתקיים: $PR = AB$?

30) PS הוא גובה במשולש PMQ (ראה ציור).
נתון $\sphericalangle SPQ = \beta$, $\sphericalangle MPS = \alpha$, $PS = h$.

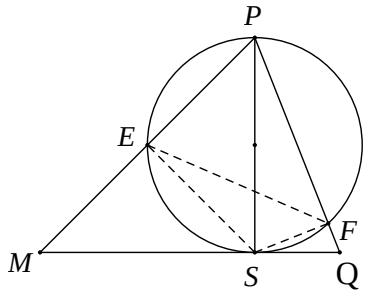

א. הבע את שטח המשולש PMQ באמצעות h , α ו- β .

ב. מעגל שקוטרו PS חותך את הצלעות PM ו-PQ בנקודות E ו-F בהתאמה (ראה ציור).

i. הבע באמצעות α ו- β את $\sphericalangle ESF$.

ii. הבע באמצעות α ו- β את היחס בין שטח המשולש ESF לשטח המשולש PMQ.

31) במשולש ABC הצלעות הן a , b ו- c והזוויות שמונחות מולן הן: α , β ו- γ בהתאמה.

א. הבע את אורך התיכון m_a (התיכון לצלע a) באמצעות הצלעות b ו- c והזווית α.

ב. בדוק את הנוסחה שמצאת למקרה שבו המשולש ABC הוא שווה צלעות.

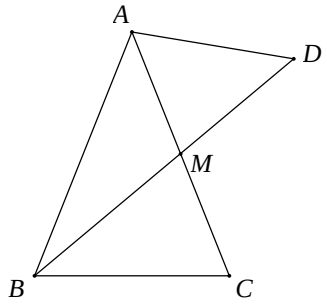

32) במשולש שווה שוקיים ABC (AB = AC),
BM הוא תיכון לשוק (ראה ציור).
נתון כי רדיוס המעגל החוסם את המשולש ABC הוא 10 ס"מ וכן נתון ש- $\sphericalangle BAC = 50°$.

א. מצא את גודל הזווית $\sphericalangle BMC$.

ב. ממשיכים את BM עד לנקודה D,
כך שרדיוס המעגל החוסם את המשולש ABD הוא 14 ס"מ.
מצא את שטח המשולש AMD.

33) משולש שווה שוקיים BCE (BC = BE) חסום במעגל שרדיוסו R.
זווית הבסיס של המשולש BCE היא α.
בנקודה E העבירו משיק למעגל החותך את המשך השוק BC בנקודה F (ראה ציור).

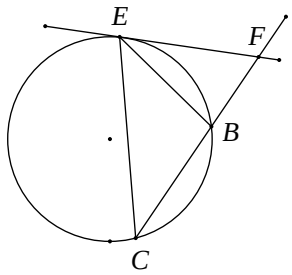

א. בטא את שטח המשולש BEF באמצעות R ו- α.

ב. מצא את הערך של α שבעבורו שטח המשולש BCE שווה לשטח המשולש BEF.

34) בטרפז BCDE $(BC \| ED)$ אורך הבסיס BC הוא 12 ס"מ.
הזווית שבין הבסיס BC לשוק DC היא $80°$.
אורך האלכסון BD הוא 16 ס"מ, והוא חוצה את הזווית $\sphericalangle CBE$.
חשב את היקף הטרפז.

35) במשולש ישר-זווית APD מחלקים את הזווית הישרה $\sphericalangle P$ לשלוש זוויות שוות, כלומר $\sphericalangle APB = \sphericalangle BPC = \sphericalangle CPD = 30°$ (ראה ציור).
נתון כי: $PB = m$, $\sphericalangle PAD = \alpha$.

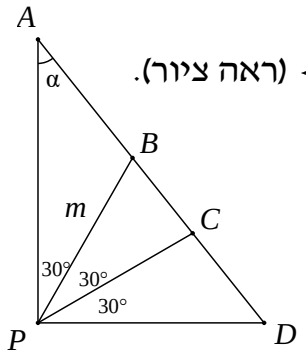

א. היעזר במשפט הסינוסים,
והבע את AB , AC , BD ו- CD באמצעות m ו- α.

ב. הוכח כי: $\frac{AC \cdot BD}{AB \cdot CD} = 3$.

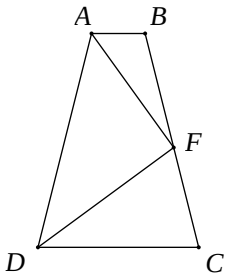

36) בטרפז שווה שוקיים ABCD $(AD = BC\ ,\ AB \| DC)$,
F היא נקודה על השוק BC, כך ש-DF חוצה את
הזווית $\sphericalangle CDA$ ו-AF חוצה את הזווית $\sphericalangle DAB$ (ראה ציור).
נתון: $AB = \beta$, $\sphericalangle FAB = \beta$.
הבע באמצעות b ו- β את אורך הבסיס DC.

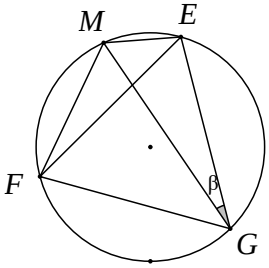

37) משולש שווה צלעות EFG חסום במעגל שרדיוסו R.
M היא נקודה על המעגל. נתון: $\sphericalangle MGE = \beta$ (ראה ציור).

א. הוכח כי: $ME + MF = MG$.

ב. אם $ME = R$ מה תוכל לומר על MG?

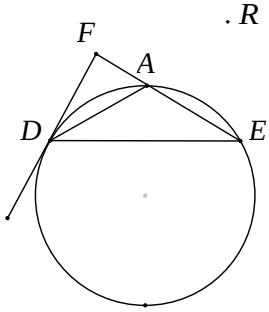

38) משולש שווה שוקיים ADE (AD = AE) חסום במעגל שרדיוסו R.
ישר המשיק למעגל בנקודה D חותך את המשך
הצלע AE בנקודה F (ראה ציור).
נתון: $\sphericalangle AE = \alpha$ $(60° < \alpha < 180°)$.

א. הבע את שטח המשולש ADF באמצעות R ו- α.

ב. הבע באמצעות α את היחס שבין שטח
המשולש ADE ובין שטח המשולש ADF.

ג. חשב את α אם שטח המשולש ADE שווה לשטח המשולש ADF.

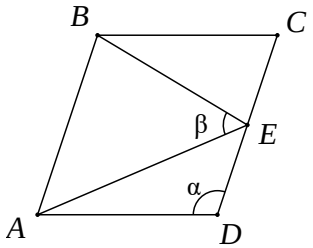

39) במעוין ABCD הנקודה E היא אמצע הצלע CD.
נתון: $\sphericalangle ADC = \alpha$, $\sphericalangle AEB = \beta$ (ראה ציור).
הוכח כי: $\cos\beta = \dfrac{3}{\sqrt{25 - 16\cos^2\alpha}}$.

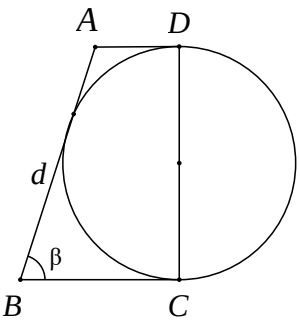

40) נתון טרפז ABCD ונתון מעגל. השוק DC הוא קוטר המעגל.
השוק AB משיקה למעגל, והבסיסים AD ו- BC
משיקים גם הם למעגל בנקודות D ו- C בהתאמה (ראה ציור).
נתון כי: $\sphericalangle B = \beta$, $AB = d$.

א. הבע באמצעות d את סכום בסיסיו של הטרפז.

ב. הבע באמצעות d ו- β את היקף הטרפז ואת השטח
של הטרפז.

ג. נתון שהיקף הטרפז 25 ס"מ ושטחו 25 סמ"ר.
חשב את הזווית החדה β.

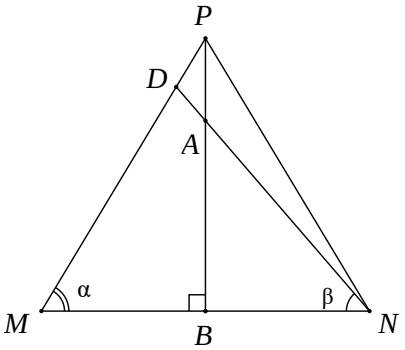

41) במשולש שווה שוקיים PMN (PM = PN),
A היא נקודה על הגובה PB, כך ש- $PA = \frac{1}{5} \cdot PB$.
הישר NA חותך את השוק PM בנקודה D (ראה ציור).
נתון: $\sphericalangle DNM = \alpha$, $\sphericalangle DNB = \beta$ ו- $BN = \alpha$.

א. חשב את היחס $\tan\beta : \tan\alpha$.

ב. חשב את היחס PM:DM.

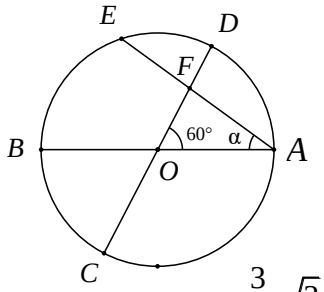

42) במעגל שמרכזו O ורדיוסו R מעבירים שני
קטרים AB ו- CD הנחתכים בזווית של $60°$.
מיתר AE, היוצר זווית α עם הקוטר AB,
חותך את הקוטר CD בנקודה F (ראה ציור).

א. הבע את שטח המשולש ACF באמצעות R ו- α.

ב. הוכח שכאשר $\alpha = 30°$, שטח המשולש ACF הוא $\frac{3}{8} \cdot \sqrt{3} \cdot R^2$.

תשובות סופיות:

1) א. $r=\frac{2R\sin(\alpha+\beta)\tan\frac{\beta}{2}\tan\frac{\alpha}{2}}{\tan\frac{\alpha}{2}+\tan\frac{\beta}{2}}=4R\sin\frac{\alpha}{2}\sin\frac{\beta}{2}\cos\frac{\alpha+\beta}{2}$ ב. $\frac{1}{2}R$

2) MF = 11.28 ס"מ , KN = 21.52 ס"מ

3) א. NA = 18.385 ס"מ ב. EF = 5.975 ס"מ

4) א. $OK=\frac{a}{2\cos\beta}$ ב. $\frac{a}{2\sin\beta}\cdot\left[1+\tan\beta+\frac{1}{\cos\beta}\right]$

5) א. $12\cdot\tan\frac{\alpha}{2}$ ב. $24\cdot\left(1+\tan\frac{\alpha}{2}\right)^2$

6) $AE=8\sin\beta\cdot\left[\tan\beta-\tan\left(\frac{1}{2}\beta\right)\right]=8\tan\beta\cdot\tan\left(\frac{1}{2}\beta\right)$

7) $2\cdot\frac{\tan 20^\circ}{\sin 40^\circ}=\frac{1}{\cos^2 20^\circ}\approx 1.132$

8) א. $-2\cdot\frac{\tan\alpha}{\tan 2\alpha}=-\frac{\cos 2\alpha}{\cos^2\alpha}=\tan^2\alpha-1$

ב. מתקיים: $AO=2\cdot DO$ (מפגש הגבהים הוא גם מפגש התיכונים).

9) א. $BC=r\cdot(\tan 59^\circ+\tan 67^\circ)\approx 4.02\cdot r$ ב. $r=\frac{16}{\tan 59^\circ+\tan 67^\circ}\approx 3.98$

10) $S=$ 147.86 סמ"ר

11) א. $\sphericalangle A=16.7^\circ$, $\sphericalangle D=90^\circ$, $\sphericalangle C=73.3^\circ$ ב. $S\approx 0.0495\cdot R^2$

12) א. $S_1=100\cdot\sin\alpha\cdot\cos\alpha=50\cdot\sin 2\alpha$

ב. $S_2=50\cdot\sin^2\alpha\cdot\sin(180^\circ-2\alpha)=50\cdot\sin^2\alpha\cdot\sin 2\alpha$

13) א. $S=\frac{1}{2}k^2\cdot(1+2\sin\beta\cos\beta)$ (או כל תשובה שקולה). ב. 27 יח"ש.

14) א. $r\approx$ 5.548 ס"מ ב. $S\approx$ 90.45 סמ"ר

15) א. $CO=\frac{a}{\sin\beta}$, $CE=2a\cdot\sin\beta$ ב. $\frac{CO}{CE}=\frac{1}{2\sin^2\beta}$

ג. היחס הוא: $\frac{2}{3}$ (בדומה למפגש התיכונים במשולש)

16) א. $S_{\Delta ABC}=\frac{1}{2}m^2\cdot\sin\alpha$ ב. $S_{\Delta BOC}=\frac{1}{2}m^2\cdot\sin\alpha\cdot\tan^2\frac{\alpha}{2}$

ג. יחס השטחים: $\tan^2\frac{\alpha}{2}$

ד. במקרה זה ABOC הוא ריבוע, ויחס השטחים שווה ל-1 $\left(\tan^2 45^\circ=1\right)$.

17) $AC=x=d\cdot\frac{\tan\beta}{\tan\alpha-\tan\beta}$

18) $\sphericalangle ODB\approx 44.7^\circ$

19) א. $NP=$ 10.38 ס"מ ב. $S_{\Delta PAN}=$ 8.2 סמ"ר

20) א. $S=800\cdot\sin^2\beta\cdot\sin 2\beta$ ב. 400 סמ"ר

21) $S_{\Delta ABC}=3\cdot\sqrt{3}\approx$ 5.196 סמ"ר

22) יחס השטחים הוא: $\left(-\frac{\sin 3\beta}{\sin\beta}\right)=1-4\cos^2\beta$ או כל תשובה שקולה.

23) א. $S_{\Delta ABD}=288\cdot\frac{\sin\alpha\cdot\cos^2\alpha\cdot\sin\beta}{\sin(\alpha+\beta)}$ ב. $\frac{\sin(\alpha+\beta)}{\sin\beta\cdot\cos\alpha}$

24) $MQ\approx$ 15.43 ס"מ

25) $AB=m\cdot\frac{\sin\alpha}{\sin(\alpha-\beta)}$, $DC=m\cdot\frac{\sin\alpha}{\sin(\alpha+\beta)}$

26) א. $\sin\alpha=\frac{1}{m}$ ב. 15° , 120° , 45° או 75° , 60° , 45°

27) $\alpha\approx 20.7$

28) א. $\sqrt{5}<k<3$ או $1<k<\sqrt{3}$ ב. $\frac{2}{3}\cdot t\approx 0.667t$

29) $\alpha=15^\circ$

30) א. $S_{\Delta MPQ}=\frac{1}{2}\cdot h^2\cdot(\tan\alpha+\tan\beta)$ ב. i. $\sphericalangle ESF=180^\circ-(\alpha+\beta)$

ב. ii. $S_{\Delta EFS}:S_{\Delta MPQ}=\frac{1}{4}\cdot\sin 2\alpha\cdot\sin 2\beta$

31) א. $m_a=\frac{1}{2}\cdot\sqrt{b^2+c^2+2\cdot b\cdot c\cdot\cos\alpha}$ ב. $m_a=\frac{\sqrt{3}}{2}\cdot b$

32) א. $\sphericalangle BMC=79.5^\circ$ ב. $S_{\Delta AMD}=$ 54.1 סמ"ר

33) א. $S_{\Delta BEF}=\frac{2R^2\cdot\sin^3\alpha\cdot\sin 2\alpha}{\sin 3\alpha}$ ב. $\alpha=45^\circ$

34) $P_{BCDE}=51.09$

35) א. $AC=\frac{\sqrt{3}\cdot m\cdot\sin(30^\circ+\alpha)}{2\cdot\sin(60^\circ+\alpha)\cdot\sin\alpha}$, $AB=\frac{m}{2\cdot\sin\alpha}$, $BD=\frac{\sqrt{3}\cdot m}{2\cdot\cos\alpha}$,

$CD=\frac{m\cdot\sin(30^\circ+\alpha)}{2\cdot\sin(60^\circ+\alpha)\cdot\cos\alpha}$ ב. הוכחה.

36) $DC=\frac{-b\cdot\tan\beta}{\tan 3\beta}$

37) ב. MG הוא קוטר במעגל.

38) א. $S_{\Delta ADF}=\frac{-2R^2\cdot\cos^3\frac{\alpha}{2}\cdot\sin\alpha}{\cos(1.5\alpha)}$ ב. $\frac{S_{\Delta ADE}}{S_{\Delta ADF}}=-\frac{\cos(1.5\alpha)}{\cos(0.5\alpha)}$

ג. $\alpha=90^\circ$

40) א. $AD+BC=d$ ב. $P=2d+d\sin\beta$, $S=\frac{1}{2}d^2\cdot\sin\beta$

ג. $\beta=30^\circ$

41) א. $\tan\beta:\tan\alpha=\frac{4}{5}=0.8$ ב. $PM:DM=\frac{9}{8}=1.125$

42) א. $S=\frac{3R^2\cdot\sin(30^\circ+\alpha)}{4\cdot\sin(60^\circ+\alpha)}$.

קורס השלמה במתמטיקה

פרק 18 - גיאומטריה אנליטית - נקודה וישר

תוכן העניינים

1. מושגי יסוד בגיאומטריה אנליטית 285
2. משוואת הישר 289
3. מצבים הדדיים בין ישרים 294
4. מציאת משוואות ישר 296
5. שאלות יסודיות שונות עם משוואת הישר 297
6. נושאים מתקדמים עם משוואת הישר ..... (ללא ספר)
7. חלוקת קטע ביחס נתון 303
8. מרחק נקודה מישר 304
9. מיקום נקודה ביחס לישר 306
10. מרחק בין ישרים מקבילים 308

מושגי יסוד בגיאומטריה אנליטית:

סיכום כללי:

נוסחאות כלליות:

- המרחק בין הנקודות $A(x_1,y_1)$ ו- $B(x_2,y_2)$ יחושב לפי: $d=\sqrt{(x_2-x_1)^2+(y_2-y_1)^2}$.
- אמצע הקטע M שקצותיו הם: $A(x_1,y_1)$ ו- $B(x_2,y_2)$ הוא: $x_M=\frac{x_1+x_2}{2}, y_M=\frac{y_1+y_2}{2}$.

שאלות:

שאלות העוסקות באמצע קטע:

1) מצא את אמצעי הקטעים שקדקודיהם נתונים ע"י הנקודות A ו-B:

א. $A(1,4)\ ,\ B(5,-8)$ ב. $A(-3,0)\ ,\ B(3,-2)$

ג. $A(4,5)\ ,\ B(-4,-5)$ ד. $A\left(\frac{1}{2},\frac{3}{4}\right)\ ,\ B\left(7\frac{1}{2},-2\right)$

ה. $A(6,-1)\ ,\ B(-3,-1)$ ו. $A(4,7)\ ,\ B(4,-12)$

2) נתון קטע AB שאמצעו בנקודה M.
מצא את שיעורי נקודת הקצה B אם נתונים שיעורי הנקודות של A ושל M:

א. $A(4,-2)\ ,\ M(2,1)$ ב. $A(-6,-8)\ ,\ M(0,0)$

ג. $A(13,-11)\ ,\ M(4,-7)$ ד. $A\left(\frac{1}{3},-\frac{4}{3}\right)\ ,\ M\left(\frac{2}{3},-\frac{1}{3}\right)$

3) נתון משולש שווה שוקיים ABC שבו A הוא קדקוד הראש.
ידוע כי שיעורי הקדקודים B ו-C הם $B(2,-4)\ ,\ C(6,1)$.
מעבירים תיכון AD לבסיס BC. מצא את שיעורי הנקודה D.

4) באיור שלפניך C היא נקודת האמצע של AB, ו-D היא נקודת האמצע של AC.
ידוע כי: $A(-2,1)\ ,\ B(6,5)$. מצא את שיעורי הנקודה D.

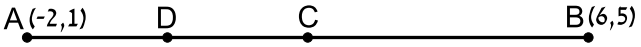

5) באיור שלפניך C היא נקודת האמצע של AB, ו-D היא נקודת האמצע של AC.
ידוע כי: $D(1,-2)$, $C(-3,4)$. מצא את שיעורי הנקודות A ו-B.

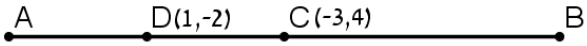

6) הנקודות $A(2,-7)$, $B(-10,4)$ ו-$C(6,11)$ הן שלושה קדקודים של מקבילית ABCD.
מצא את שיעורי הקדקוד הרביעי, D.

שאלות העוסקות במרחק בין שתי נקודות:

7) מצא את המרחק בין זוגות הנקודות הבאות:

א. $A(4,7)$, $B(-3,7)$
ב. $A(6,2)$, $B(1,2)$
ג. $A(-3,10)$, $B(0,6)$
ד. $A(6,-9)$, $B(1,3)$
ה. $A(4,7)$, $B(13,-1)$
ו. $A(6,6)$, $B(-9,-9)$

8) חשב את היקף המשולש ABC שקודקודיו הם: $A(3,-2)$, $B(4,9)$, $C(0,14)$.

9) נתונות נקודות $A(14,4)$, $B(6,y)$ שמרחקן הוא 10 יחידות אורך.
מצא את y.

10) נתונות נקודות $A(x,-12)$, $B(15,-2)$ שמרחקן הוא 26 יחידות אורך.
מצא את x.

11) נתונה נקודה B ברביע השלישי, ששיעור ה- y שלה גדול פי 3 משיעור ה- x שלה
ומרחקה מהנקודה $A(-4,1)$ הוא 5. מצא את שיעורי הנקודה B.

12) במשולש שווה שוקיים ABC $(AB=AC)$ ידוע כי אורכי השוקיים הוא $\sqrt{45}$
יחידות אורך. שיעורי הקדקוד A הם $(0,4)$ ושיעורי ה- y של הקדקודים B ו-C
הוא 2-. מצא את קדקודי המשולש B ו-C (הנח B ברביע הרביעי).

13) אורך האלכסון AC במלבן ABCD הוא $d_{AC}=\sqrt{50}$
וידוע כי: $A(-3,-2)$, $B(-4,1)$. מצא את היקף המלבן.

שאלות העוסקות בשיפוע בין שתי נקודות:

14) מצא את השיפוע בין זוגות הנקודות הבאים:

א. $A(5,2)\ ,\ B(4,1)$

ב. $A(3,-2)\ ,\ B(-3,1)$

ג. $A(7,8)\ ,\ B(6,15)$

ד. $A(0,5)\ ,\ B(7,0)$

ה. $A(6,9)\ ,\ B(6,-7)$

ו. $A(4,-1)\ ,\ B(18,-1)$

15) מצא את שיפועי הישרים שצלעות המשולש שקודקודיו הם: $A(6,5)\ ,\ B(2,13)\ ,\ C(4,-7)$ מונחים עליהם.

תשובות סופיות:

1) א. $(3,-2)$ ב. $(0,-1)$ ג. $(0,0)$
ד. $\left(4,-\frac{5}{8}\right)$ ה. $(1.5,-1)$ ו. $(4,-2.5)$.

2) א. $B(0,4)$ ב. $B(6,8)$ ג. $B(-5,-3)$ ד. $B\left(1,\frac{2}{3}\right)$.

3) $D(4,-1.5)$.

4) $D(0,2)$.

5) $A(5,-8)$, $B(-11,16)$.

6) $D(18,0)$.

7) א. $d_{AB}=7$ ב. $d_{AB}=5$ ג. $d_{AB}=5$ ד. $d_{AB}=13$
ה. $d_{AB}=\sqrt{145}$ ו. $d_{AB}=15\sqrt{2}$.

8) 33.862 יחידות אורך $\approx P_{ABC}$.

9) $y=10$ או $y=-2$.

10) $x=-9$ או $x=39$.

11) $B(-1,-3)$.

12) $B(3,-2)$, $C(-3,-2)$.

13) 18.97 יחידות אורך $\approx P_{ABCD}=6\sqrt{10}$.

14) א. $m_{AB}=1$ ב. $m_{AB}=-\frac{1}{2}$ ג. $m_{AB}=-7$ ד. $m_{AB}=-\frac{5}{7}$
ה. שיפוע לא מוגדר. ו. $m_{AB}=0$.

15) $m_{AB}=-2$, $m_{BC}=-10$, $m_{AC}=6$.

משוואת הישר:

סיכום כללי:

נוסחאות כלליות:

- שיפוע ישר בין שתי נקודות $A(x_1,y_1)$ ו- $B(x_2,y_2)$ הוא: $m_{AB}=\frac{y_2-y_1}{x_2-x_1}=\frac{y_1-y_2}{x_1-x_2}$.

שיפועים של ישרים:

- שיפועי ישרים מאונכים מקיימים: $m_1\cdot m_2=-1$.
- הקשר בין שיפוע ישר לזווית שהוא יוצר עם הכיוון החיובי של ציר ה- x: $m=\tan\alpha$.

משוואת הישר:

- משוואת ישר מפורשת היא מהצורה: $y=mx+n$.
- כאשר: m הוא שיפוע הישר ו- n הוא ערך ה- y של נקודת החיתוך של הישר עם ציר ה- y.

נוסחה למציאת משוואת ישר: $y-y_1=m(x-x_1)$.

שאלות:

16) עבור כל אחד ממשוואות הישרים הבאות, מצא את נקודות החיתוך עם הצירים וסרטט את הישרים במערכת הצירים שלפניך.

א. $y=x+4$

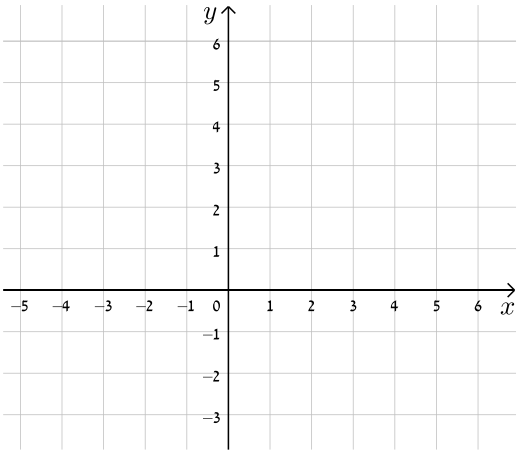

ב. $y=-x+5$

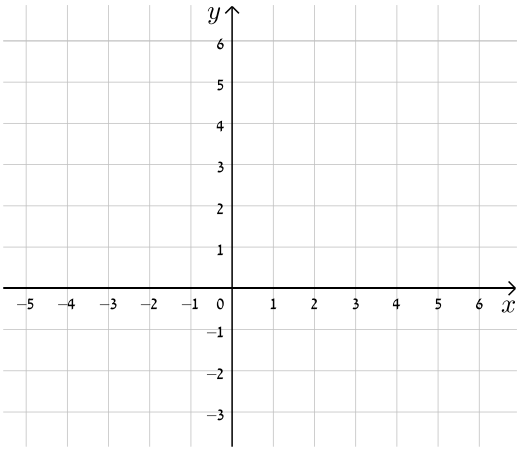

ג. $y=2x-3$

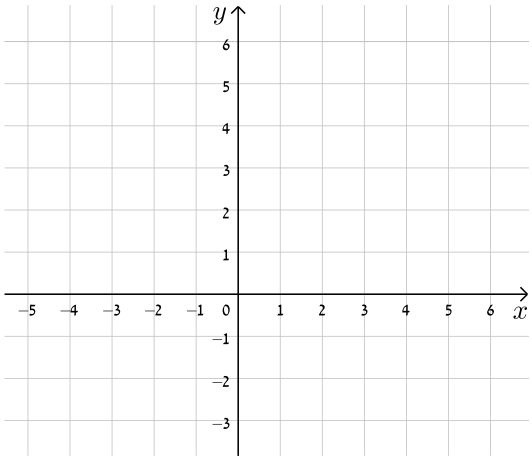

ד. $y=-3x+5$

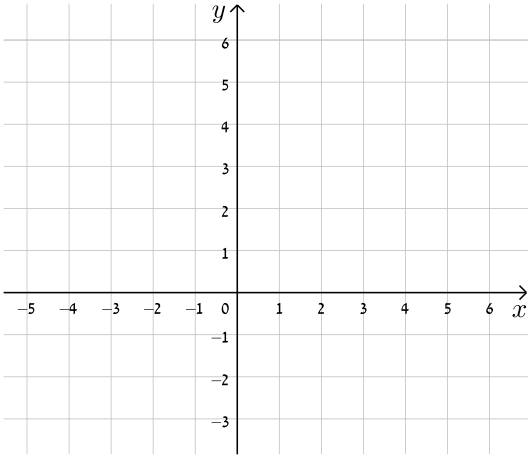

ה. $y=3x-1$

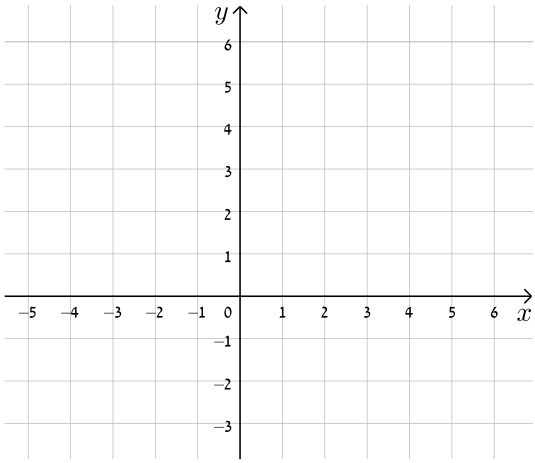

ו. $y=8-4x$

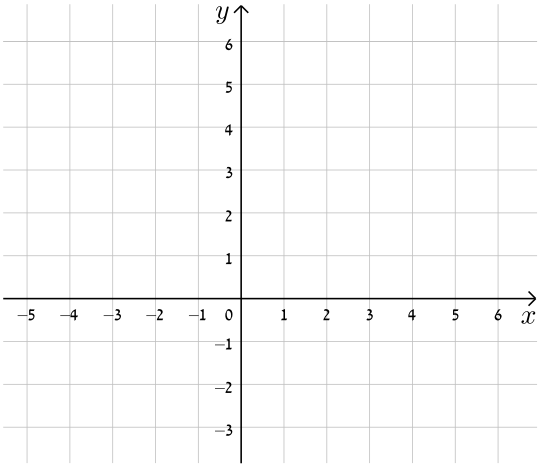

17) כתוב את משוואת הישר המתאימה לכל אחד מהישרים הבאים:

א.

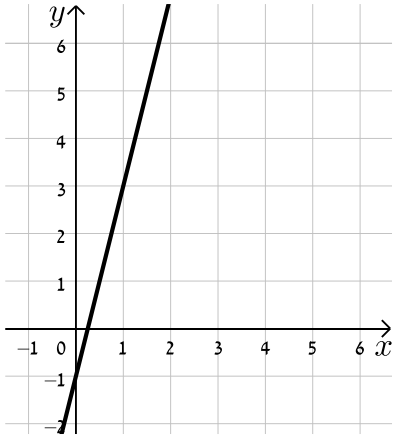

ב.

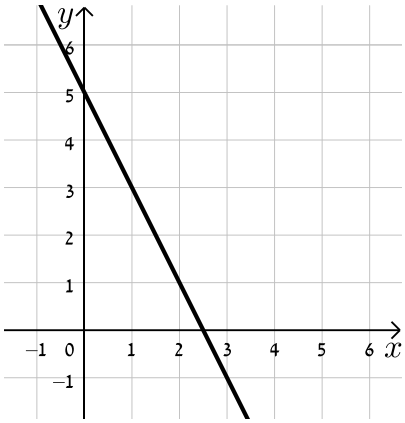

ג.

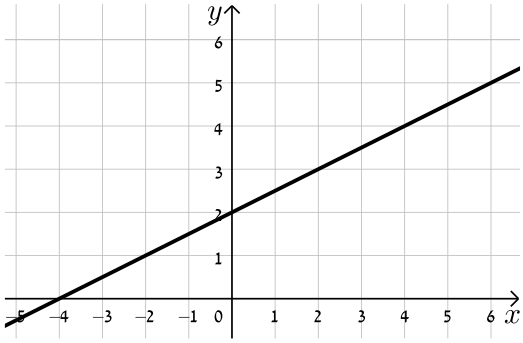

ד.

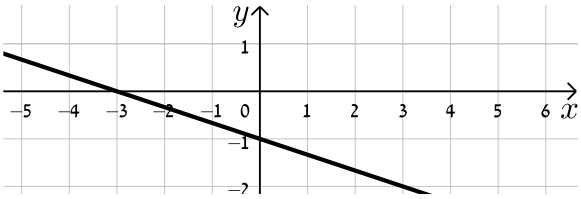

18) התאם בין משוואות הישרים הבאים לישרים בשרטוט:

א. $y=x+3$

ב. $y=-x-1$

ג. $y=2x+3$

ד. $y=x-1$

ה. $y=\frac{1}{2}x$

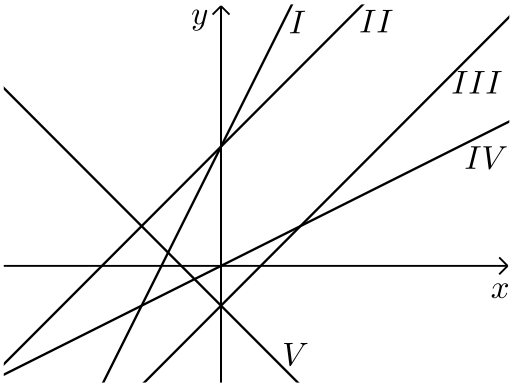

19) נתונה משוואה הישר הבאה: $y=2x+3$. קבע אלו מבין הנקודות הבאות נמצאות עליו: $D(6,15)$, $C(0,4)$, $B(3,3)$, $A(-1,1)$.

20) נתונה משוואת הישר הבאה: $y=mx-2.5$. ידוע כי הנקודה $A(4,2)$ נמצאת על הישר. מצא את m וקבע האם גם הנקודה $B(7,-2)$ נמצאת עליו.

21) הנקודות $B(4,1)$, $A(5,-3)$ נמצאות על ישר שמשוואתו היא: $y=mx+n$.
מצא את m ואת n.

תשובות סופיות:

16) להלן הגרפים של משוואות הישרים:

א.

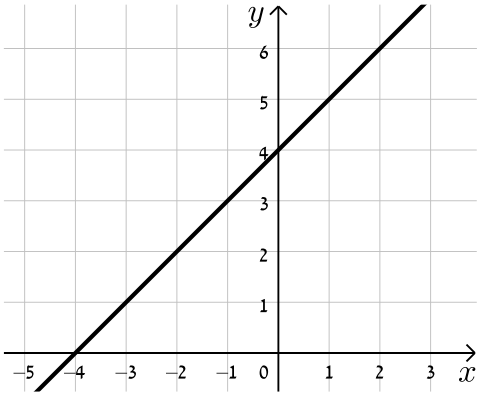

ב.

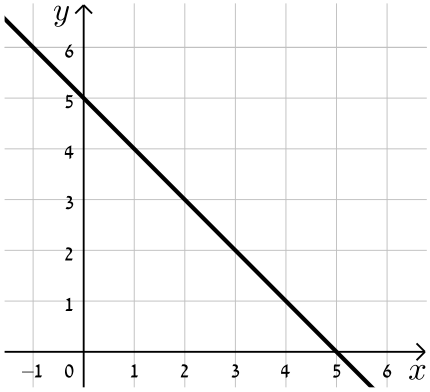

ג.

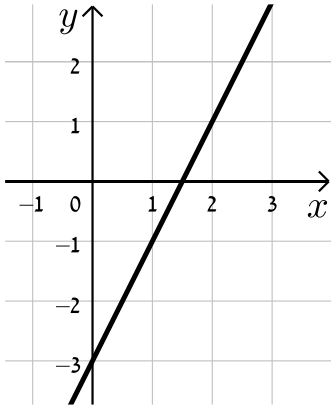

ד.

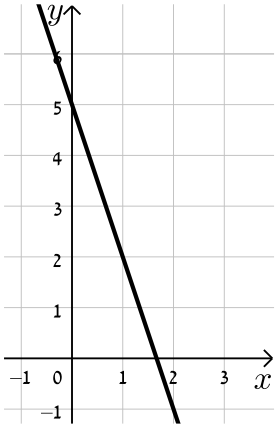

ה.

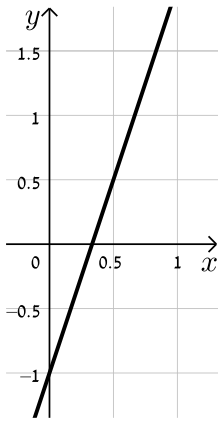

ו.

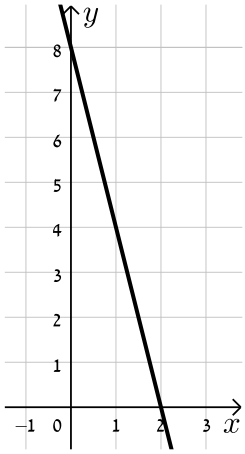

17) א. $y=4x-1$ ב. $y=-2x+5$ ג. $y=\frac{1}{2}x+2$ ד. $y=-\frac{1}{3}x-1$.

18) א.II. ב.V. ג.I. ד.III. ה.IV.

19) נמצאות: A, D. לא נמצאות: B, C.

20) $m=\frac{9}{8}$, B לא נמצאת.

21) $n=17$, $m=-4$.

מצבים הדדיים בין ישרים:

סיכום כללי:

מצב הדדי בין שני ישרים:

- ישרים מקבילים מקיימים: $n_1 \neq n_2$, $m_1 = m_2$.
- ישרים חותכים מקיימים: $m_1 \neq m_2$.
- ישרים מתלכדים מקיימים: $n_1 = n_2$, $m_1 = m_2$.

שאלות:

22) מצא את נקודות החיתוך שבין זוגות הישרים הבאים:

א. $\begin{cases} y = 3x + 4 \\ y = -2x - 1 \end{cases}$ ב. $\begin{cases} y = x - 12 \\ y = 4x + 6 \end{cases}$ ג. $\begin{cases} y = 2x - 4 \\ y = x + 6 \end{cases}$

23) קבע את המצב ההדדי בין זוגות הישרים הבאים:

א. $\begin{cases} y = 3x + 4 \\ y = 2x + 4 \end{cases}$ ב. $\begin{cases} y = x - 7 \\ y = x + 6 \end{cases}$

ג. $\begin{cases} y = 6x - 15 \\ y = 3x + 41 \end{cases}$ ד. $\begin{cases} y = x + 8 \\ y = x + 8 \end{cases}$

24) קבע אלו מבין זוגות הישרים הבאים הם מאונכים זה לזה:

א. $\begin{cases} y = 3x + 1 \\ y = 3x - 1 \end{cases}$ ב. $\begin{cases} y = 2x \\ y = \frac{1}{2}x + 4 \end{cases}$

ג. $\begin{cases} y = -4x - 5 \\ y = \frac{1}{4}x + 5 \end{cases}$ ד. $\begin{cases} y = x - 6 \\ y = -x + 6 \end{cases}$

25) משוואת הצלע AB של המלבן ABCD היא $y = 6x - 2$.

א. מה הם שיפועי הצלעות האחרות של המלבן?

ב. כיצד תשתנה תשובתך לסעיף הקודם אם משוואת הישר הנ"ל הייתה שייכת לצלע BC במקום AB?

26) במשולש ABC נתונים שיעורי הקודקודים: $A(5,-1)$, $B(3,7)$, $C(-5,5)$.
הוכח שהמשולש ישר זווית ושווה שוקיים.

תשובות סופיות:

22) א. $(-1,1)$ ב. $(-6,-18)$ ג. $(10,16)$.

23) א. נחתכים. ב. מקבילים. ג. נחתכים. ד. מתלכדים.

24) מאונכים: ג', ד'. לא מאונכים: א', ב'.

25) א. $m_{AB} = m_{CD} = 6$, $m_{BC} = m_{AD} = -\frac{1}{6}$.

ב. הכל הפוך: $m_{AB} = m_{CD} = -\frac{1}{6}$, $m_{BC} = m_{AD} = 6$.

26) שאלת הוכחה.

מציאת משוואות ישר:

שאלות:

27) מצא את משוואות הישרים הבאים:

א. ישר העובר דרך הנקודה $A(1,3)$ ושיפועו $m=2$.

ב. ישר העובר דרך הנקודה $A(0,-4)$ ושיפועו $m=\frac{1}{3}$.

ג. ישר העובר דרך הנקודה $A(5,9)$ ושיפועו $m=0$.

ד. ישר העובר דרך הנקודות $A(5,-12)$ ו-$B(6,-6)$.

ה. ישר העובר דרך הנקודה $A(-6,4)$ ומקביל לישר: $y=2x-3$.

ו. ישר העובר דרך הנקודה $A(3,-5)$ ומקביל לציר ה-y.

ז. ישר העובר דרך הנקודה $A(-7,-3)$ ומאונך לישר: $y=x+3$.

ח. ישר העובר דרך נקודת החיתוך של הישרים: $y=11x-4$ ו-$y=3x-12$ ומקביל לישר: $y=7x+5$.

תשובות סופיות:

27) א. $y=2x+1$ ב. $y=\frac{1}{3}x-4$ ג. $y=9$ ד. $y=6x-42$

ה. $y=2x+16$ ו. $x=3$ ז. $y=-x-10$ ח. $y=7x-8$.

שאלות יסודיות שונות עם משוואת הישר:

שאלות:

28) במשולש ABC מעבירים את התיכון AD לצלע BC.
ידוע כי: $A(3,-2)$, $B(2,4)$, $D(-2,2)$.

א. כתוב את משוואת הישר של התיכון AD.
ב. מצא את שיעורי הקדקוד C.
ג. כתוב את משוואת הישר של הצלע AC.

29) נתון מעוין ABCD שבו נתונים הקודקודים $A(-9,1)$ ו-$B(5,-7)$.
משוואת הישר עליו מונח האלכסון AC היא $x+3y+6=0$.

א. מצא את משוואת הישר עליו מונח האלכסון BD.
ב. מצא את משוואת הישר עליו מונחת הצלע BC.

30) שלוש המשוואות הבאות מייצגות את הישרים המופיעים בשרטוט: $x-4y-4=0$, $x-y+2=0$ ו- $2x+y-8=0$.
הקטע AC מקביל לציר ה- y .

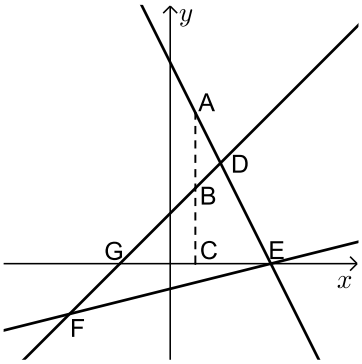

א. חשב את שטח המשולש DEF.
ב. נתון: $d_{BC}=3$.
חשב את אורך הקטע AB.

31) BD הוא התיכון לצלע AC במשולש ABC שבו נתון הקודקוד $A(-6,1)$.
משוואת התיכון BD היא $x-y=1$ ומשוואת הצלע BC היא $3x+5y=67$.
מצא את שיעורי הקדקוד C.

32) נתון טרפז ABCD $(AB \parallel CD)$ ובו משוואת השוק BC היא: $x=2$.
משוואת הבסיס CD היא $2x+3y=7$ וידוע כי $A(-4,1)$.

א. מצא את משוואת הבסיס AB.
ב. מצא את שיעורי הקדקודים B ו-C.
ג. מעבירים את האלכסון AC.
הראה כי המשולש ABC הוא ישר זווית ומצא את שטחו.

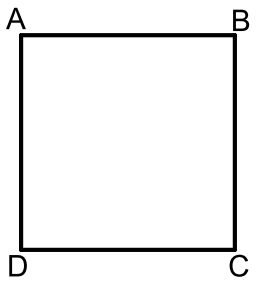

33) במרובע ABCD ידוע כי שיפוע הצלע BC הוא 3 ושיעורי הנקודה A הם: $(1,4)$.

א. איזה מרובע הוא המרובע ABCD?
הראה חישוב מתאים.

ב. נתון גם: $D(4,13)$, $m_{CD}=-\frac{1}{3}$ ו- $\sqrt{90}$ ס"מ $=BC$.
איזה מרובע הוא המרובע ABCD כעת?
הראה חישוב מתאים.

ג. נתון גם: $B(-8,7)$.
איזה מרובע הוא המרובע ABCD כעת?
הראה חישוב מתאים.

ד. חשב את שטח המרובע ABCD.

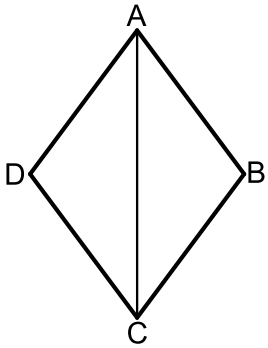

34) המרובע ABCD הוא מעוין.
ידוע כי שיעורי אחת הנקודות במעוין הם: $(0,6)$.
כמו כן, ידוע גם כי משוואת האלכסון AC היא: $y=-1.5x+6$ ואחת ממשואות הצלעות היא: $5y+x=4$.

א. מצא את משוואת האלכסון השני.

ב. מצא את שאר קדקודי המעוין

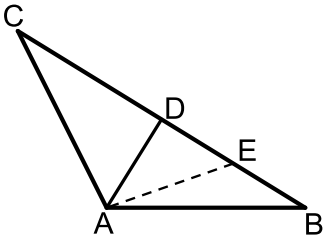

35) המשולש ABC הוא משולש שווה שוקיים $(AB=AC)$.
ב-ΔABC מעבירים את הגובה AD לבסיס BC ומסמנים נקודה E כך שמתקיים: $DE=BE$.
קדקוד הראש A נמצא בראשית הצירים ונתון כי: $E(8.5,2.5)$, $D(5,7)$.

א. מצא את שיעורי שאר קודקודי המשולש.

ב. כתוב את משוואת השוק AC.

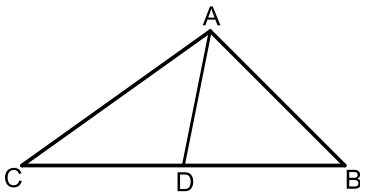

36) נתון משולש ABC. הנקודה D נמצאת על הצלע BC של המשולש ABC כך שהקטע AD מחלק אותו לשני משולשים שווי שטח ABD ו-ACD.
הצלע BC מונחת על הישר: $y=4$ וידוע כי שיעור ה-x של הנקודה C הוא: $x_C=-1$.
כמו כן נתון: $A(7,8)$, $m_{AB}=-2$.

א. מצא את משוואת הצלע AB.

ב. ענה על הסעיפים הבאים:

i. איזה קטע הוא AD בתוך המשולש ABC?

ii. מצא את שיעורי הנקודות B ו-D.

ג. ענה על הסעיפים הבאים:

i. חשב את אורך הצלע BC ואת אורך הקטע AD.

ii. איזה משולש הוא המשולש ABC?

37) המרובע ABCD הוא טרפז. הנקודה E היא אמצע הבסיס AB וידוע כי היא נמצאת על ציר ה-x.
שיעורי הנקודה B הם $(3,2)$ והצלע AD מונחת על הישר: $x=-5$. אורך הקטע DE הוא $\sqrt{80}$
כך ש-D ברביע השלישי וכן: $\sphericalangle DEC=90°$.

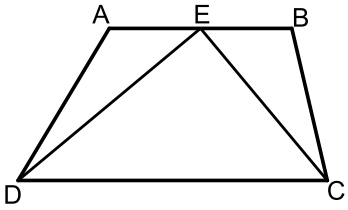

א. מצא את שיעורי הנקודות A , D ו-E.

ב. מצא את משוואת הקטע CE ואת משוואת הבסיס CD.

ג. מצא את שיעורי הנקודה C.

ד. חשב את שטח המשולש DEC.

38) AD ו-BE הם בהתאמה גבהים לצלעות BC ו-AC במשולש ABC.
ידוע כי שיעורי נקודת פגישת הגבהים K הם: $(1,3)$.
שיעורי הנקודות D ו-E הם: $E(3,5)$, $D(-2,4)$.

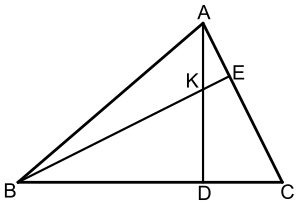

א. מצא את משוואת הגובה AD ואת משוואת הצלע AC.

ב. מצא את שיעורי הקדקוד A.

ג. מצא את משוואת הגובה BE ואת משוואת הצלע BC.

ד. מצא את שיעורי הקדקוד B.

39) נתון מעוין ABCD.ידוע כי הצלע CD מונחת על $y=-7$.
אלכסוני המעוין AC ו-BD נפגשים
בנקודה: $M(-0.5,-3)$. שיפוע האלכסון AC הוא -4.

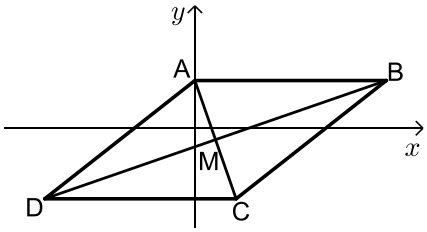

א. מצא את משוואת האלכסון AC.

ב. מצא את שיעורי הנקודה C.

ג. חשב את שטח המשולש BMC.

40) נתון מרובע ABCD שקודקודיו הם: $A(3,13)$, $B(-2,4)$, $C(9,3)$, $D(8,14)$.
מורידים גבהים AE ו-CF לאלכסון BD.

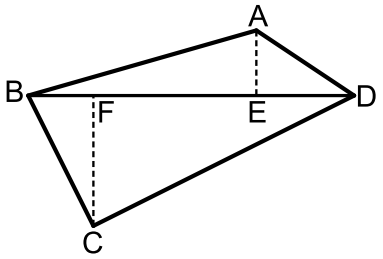

א. מצא את משוואת האלכסון BD ואת אורכו.
ב. מצא את שיעורי הנקודות E ו-F.
ג. מצא את אורכי הגבהים AE ו-CF.
ד. חשב את שטח המרובע ABCD.

41) על הישר $y=-5$ מסמנים את
הנקודות: $A(-7,-5)$, $B(2,-5)$.
הנקודה C נמצאת על הישר: $y=x-5$.
נסמן את שיעור ה-x של הנקודה C ב-t.

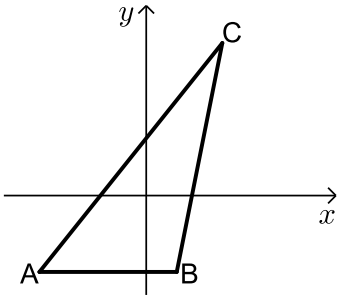

א. הבע באמצעות t את שיעור ה-y של הנקודה C.
ב. ידוע כי אורך הצלע AC הוא 17 ס"מ.
הבע באמצעות t את המרחקים של C מ-A ומ-B.
ג. מצא את t ואת אורך הצלע BC.
ד. מסמנים נקודה D על המשך הצלע AB.
ידוע כי D נמצאת ברביע השלישי.
מצא את שיעורי הנקודה D המקיימת ששטח
המשולש DAC יהיה גדול ב-16 יחידות משטח המשולש ABC.

42) המשולש ABC הוא שווה שוקיים $(AB=BC)$
ובו נתון: $A(-4,12)$, $B(x,6)$ ו-$C(4,8)$.
א. מצא את x.
ב. הוכח כי המשולש הוא ישר זווית.
ג. ענה על הסעיפים הבאים:
i. מצא את משוואת הצלע AC.
ii. מסמנים את נקודת החיתוך של הצלע AC עם ציר ה-y ב-D.
מצא את שיעורי הנקודה D.
ד. ענה על הסעיפים הבאים:
i. מצא נקודה E ברביע הראשון $(x_E<5)$ כך שהמשולש DCE יהיה גם
שווה שוקיים וישר זווית $(\sphericalangle C=90^\circ)$.
ii. חשב את יחס השטחים בין המשולשים: $\frac{S_{DCE}}{S_{ABC}}$.

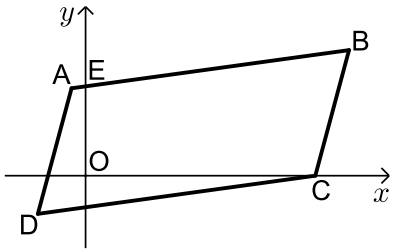

43) באיור שלפניך נתונה מקבילית ABCD.

ידועים קודקודי המקבילית הבאים: $A(-1,y)$

ו- $B(x,4)$. (x ו- y נעלמים).

שיפוע הצלע CD הוא 0.2 ואורכה הוא: $d_{CD}=\sqrt{104}$.

א. מצא את x ו- y אם ידוע כי B ברביע הראשון.

ב. נתון גם כי הקדקוד C נמצא על ציר ה- x בחלקו החיובי

וכי: $d_{BC}=\sqrt{17}$. מצא את שיעורי הקדקוד C (מצא שתי אפשרויות).

ג. סמן את נקודת החיתוך של הצלע AB עם ציר ה- y ב-E.

שטח המרובע EOCB הוא 25.9 יח"ש. מצא את האפשרות הנכונה עבור הנקודה C מבין אלו שמצאת בסעיף הקודם.

תשובות סופיות:

28) א. $y=-\frac{4}{5}x+\frac{2}{5}$ ב. $C(-6,0)$ ג. $y=-\frac{2}{9}x-\frac{4}{3}$.

29) א. $l_{BD}: y=3x-22$. ב. $l_{BC}: y=-\frac{1}{8}x-6\frac{3}{8}$.

30) א. $S_{EDF}=$ 18 יח"ש. ב. 3 יחידות אורך $=AB$.

31) $C(14,5)$.

32) א. $y=-\frac{2}{3}x-\frac{5}{3}$ ב. $C(2,1)$, $B(2,-3)$ ג. 12 יחידות שטח $=S_{ABC}$.

33) א. מרובע כללי כלשהו. לא ניתן להצביע על אף תכונה.
ב. מלבן. ניתן להראות כי יש למרובע שני זוגות צלעות נגדיות מקבילות ושוות וזווית ישרה.
ג. ריבוע. ניתן להראות כי קיימות זוג צלעות סמוכות שוות. ד. 90 יח"ש $=S$.

34) א. $y=\frac{2}{3}x+1\frac{2}{3}$ ב. $(-1,1)$, $(4,0)$, $(5,5)$.

35) א. $C(-2,16)$, $B(12,-2)$ ב. $y=-8x$.

36) א. $y=-2x+22$ ב. i. תיכון - קטע במשולש שחוצה אותו לשני משולשים שווי שטח הוא תיכון. ii. ב. $D(4,4)$, $B(9,4)$.
ג. ii. $BC=10$, $AD=5$. ג. ii. משולש ישר זווית - אם במשולש יש תיכון לצלע ששווה למחציתה אז המשולש הוא ישר זווית.

37) א. $E(-1,0)$, $A(-5,-2)$, $D(-5,-8)$. ב. $CD: y=\frac{1}{2}x-5\frac{1}{2}$, $CE: y=-\frac{1}{2}x-\frac{1}{2}$
ג. $C(5,-3)$. ד. 30 יח"ש $=S_{DEC}$.

38) א. $AC: y=-x+8$, $AD: y=-\frac{1}{3}x+3\frac{1}{3}$. ב. $A(7,1)$.
ג. $BC: y=3x+10$, $BE: y=x+2$. ד. $B(-4,-2)$.

39) א. $y=-4x-5$ ב. $C(0.5,-7)$ ג. 34 סמ"ר $=S_{DMC}=S_{BMC}$.

40) א. $y=x+6$, $d_{BD}=\sqrt{200}$ ב. $F(3,9)$, $E(5,11)$
ג. $d_{AE}=\sqrt{8}$, $d_{CF}=\sqrt{72}$ ד. $S_{ABCD}=80$.

41) א. $C(t,t-5)$. ב. i. $BC=\sqrt{2t^2-4t+4}$, $AC=\sqrt{2t^2+14t+49}$
ii. 10 ס"מ $=BC$, $t=8$ ג. $D(-20,-5)$.

42) א. $x=-2$ ג. i. $y=-0.5x+10$ ii. $D(0,10)$ ד. i. $E(2,4)$
ii. $\frac{S_{DCE}}{S_{ABC}}=\frac{1}{2}$.

43) א. $y=2$, $x=9$ ב. $C(10,0)$, $C(8,0)$ ג. $C(8,0)$.

חלוקת קטע ביחס נתון:

סיכום כללי:

- שיעורי נקודה P המחלקת קטע שקצותיו $A(x_1,y_1)$ ו-$B(x_2,y_2)$ ביחס של $k:l$ הם: $x_P=\frac{k\cdot x_1+l\cdot x_2}{k+l}, y_P=\frac{k\cdot y_1+l\cdot y_2}{k+l}$ (בהצלבה).

שאלות:

1) הנקודה P נמצאת על הקטע AB. נתון: $A(2,-5)$, $B(-12,16)$.
מצא את ערכי הנקודה P, אם נתון כי: $\frac{AP}{PB}=\frac{2}{5}$.

2) קודקודי משולש ABC הם: $A(-1,3)$, $B(6,0)$, $C(4,-12)$.
מצא את שיעורי מרכז הכובד של המשולש.
(מרכז כובד של משולש הוא מפגש תיכוני המשולש).

3) מצא את שיעורי מרכז הכובד של משולש ABC
שקודקודיו הם: $A(x_1,y_1)$, $B(x_2,y_2)$, $C(x_3,y_3)$.

4) קודקודי המשולש ABC הם: $A(5,1)$, $B(7,-3)$, $C(-1,4)$.
מצא את אורכו של חוצה הזווית היוצא מקודקוד A.

תשובות סופיות:

1) $P(-2,1)$

2) $M(3,-3)$

3) $\left(\frac{x_1+x_2+x_3}{3},\frac{y_1+y_2+y_3}{3}\right)$

4) 1.697 יחידות אורך.

מרחק נקודה מישר:

סיכום כללי:

הצגה כללית של ישר ומרחקים:

- הצגה כללית של ישר (צורה סתומה): $Ax+By+C=0$.
- מרחק הנקודה $A(x_1,y_1)$ מהישר $Ax+By+C=0$ הוא: $d=\left|\frac{Ax_1+By_1+C}{\sqrt{A^2+B^2}}\right|$.

  כאשר $B>0$:
  - אם הנקודה מעל הישר מורידים את הערך המוחלט.
  - אם הנקודה מתחת לישר מורידים את הערך המוחלט ומוסיפים מינוס לאחד האגפים.

שאלות:

5) ענה על הסעיפים הבאים:

א. מצא את מרחק הנקודה $(-2,4)$ מהישר $4x+3y+11=0$.

ב. מצא את מרחק הנקודה $(4,3)$ מהישר $y=3x-1$.

ג. מצא את מרחק הנקודה $(3,-11)$ מהישר $x-5=0$.

6) מצא את המרחק בין הנקודה הנתונה לישר הנתון:

א. $3x-4y+6=0$, $A(-5,-1)$

ב. $12x+5y-17=0$, $A(-3,8)$

ב. $2y+7=0$, $A(11,-2)$

ד. $3x-14=0$, $A\left(6,-\frac{1}{2}\right)$

7) מצא את שיעורי הנקודות על הישר $x+y-7=0$ שמרחקן מהישר $2x-y+5=0$ הוא: $\sqrt{20}$.

8) מצא את שטחה של מקבילית ששיעורי קודקודיה הם: $A(7,-1)$, $B(-5,4)$, $C(-1,7)$, $D(11,2)$.

9) מצא את שטחו של המשולש ΔABC שבו שיעורי קדקוד A הם $A(5,-3)$ ושניים מתיכוני המשולש מונחים על הישרים $x-4=0$ ו- $2x-y-1=0$.

10) מצא את שטחו של משולש שקודקודיו הם: $A(2,2)$, $B(-1,1)$, $C(-5,-2)$.

11) מצא את שיעורי הנקודות על הישר $3x-2y+6=0$, שמרחקן מהישר: $2x-y-14=0$ הוא $3\sqrt{5}$.

12) מצא את שיעורי הנקודות על הישר $4x+3y-20=0$, שמרחקן מהישר: $3x+2y+13=0$ הוא $2\sqrt{13}$.

תשובות סופיות:

5) א. 3 ב. $\frac{8}{\sqrt{10}}$ ג. 2.

6) א. 1 ב. 1 ג. $1\frac{1}{2}$ ד. $1\frac{1}{3}$.

7) $\left(-2\frac{2}{3},9\frac{2}{3}\right)$, $(4,3)$

8) $S_{ABCD}=$ 56 יח"ש

9) $S_{ABC}=$ 18 יח"ש

10) $S_{ABC}=$ 2.5 יח"ש

11) $(64,99)$, $(4,9)$

12) $(-157,216)$, $(-1,8)$

מיקום נקודה ביחס לישר:

שאלות:

13) מצא את שיעורי הנקודה על הישר $3x-2y+6=0$, שמרחקה מהישר: $2x-y-14=0$ הוא $3\sqrt{5}$ והיא נמצאת מתחתיו.

14) מצא את שיעורי הנקודה על הישר $4x+3y-20=0$, שמרחקה מהישר: $3x+2y+13=0$ הוא $2\sqrt{13}$ והיא נמצאת מעליו.

15) נתון משולש ABC שבו נתונים הקודקודים: $B(13,6)$, $A(1,1)$.
הקדקוד C נמצא על הישר $2x-y-19=0$ ונמצא מתחת לצלע AB.
מצא את שיעורי הקדקוד C אם ידוע ששטח המשולש הוא 13.

16) נתון משולש שצלעותיו מונחות על הישרים:
$\text{I}: x+2y+1=0$, $\text{II}: x-2y-11=0$, $\text{III}: 2x-y+6=0$
מצא שיעורי נקודה הנמצאת בתוך המשולש, שמרחקה מישר I שווה למרחקה מישר III ושמרחקה מישר II הוא מחצית מהמרחק משני ישרים אלה.

17) מצא את שיעורי מרכז המעגל, החסום במשולש, שצלעותיו מונחות על הישרים: $\text{III}: 3x+4y-11=0$, $\text{II}: 3x-4y-51=0$, $\text{I}: 4x-3y+2=0$.

18) מצא משוואת ישר ששיפועו 3 אם ידוע שהנקודה $G(7,-3)$ נמצאת מתחתיו ובמרחק $2\sqrt{10}$ ממנו.

19) מצא משוואת ישר שעובר בנקודה $A(-2,6)$ ומרחקו מהנקודה $B(2,9)$ הוא $\sqrt{5}$.

20) מצא משוואת ישר שעובר בנקודה $A(9,10)$ ומרחקו מהנקודה $B(8,-3)$ הוא $5\sqrt{5}$.

21) מצא משוואת ישר שעובר בנקודה $A(3,6)$ ומרחקו מהנקודה $B(-9,2)$ הוא 4.

22) מצא משוואת ישר שעובר בנקודה $A(1,2)$ ומרחקו מהנקודה $B(-3,10)$ הוא 4.

23) מצא משוואת ישר שעובר בנקודה $A(10,8)$ ומרחקו מהנקודה $B(7,-1)$ הוא 3.

24) מצא משוואת ישר שעובר בנקודה $A(-6,1)$ ומרחקו מהנקודה $B(2,7)$ הוא 10.

תשובות סופיות:

13) $(64,99)$

14) $(-1,8)$

15) $C(11,3)$

16) $(-1,-4)$

17) $(2,-5)$

18) $y=3x-4$

19) $y=2x+10$, $y=\frac{2}{11}x+6\frac{4}{11}$

20) $y=\frac{1}{2}x+5\frac{1}{2}$, $y=-\frac{22}{31}x+16\frac{12}{31}$

21) $y=6$, $y=\frac{3}{4}x+3\frac{3}{4}$

22) $y=-\frac{3}{4}x+2\frac{3}{4}$ או $x=1$

23) $y=1\frac{1}{3}x-5\frac{1}{3}$ או $x=10$

24) $y=-\frac{4}{3}x-7$

מרחק בין ישרים מקבילים:

סיכום כללי:

- מרחק בין שני ישרים מקבילים: $Ax+By+C_1=0$ ו- $Ax+By+C_2=0$ כאשר: $B>0$
  הוא: $d=\left|\frac{C_1-C_2}{\sqrt{A^2+B^2}}\right|$ ומתקיים בהעדר הערך המוחלט:
  - אם: $C_1>C_2$, $(d>0)$ אז הישר $Ax+By+C_1=0$ מתחת ל- $Ax+By+C_2=0$.
  - אם: $C_1<C_2$, $(d<0)$ אז הישר $Ax+By+C_1=0$ מעל ל- $Ax+By+C_2=0$.

שאלות:

25) מצא משוואת ישר, המקביל לישר $3x-4y+8=0$ ונמצא במרחק 4 ממנו.

26) מצא את המרחק בין הישרים המקבילים: $5x+12y+25=0$, $5x+12y-14=0$.

27) נתונים הישרים: $12x-2y-15=0$, $y=6x+5$.
הראה שהישרים מקבילים ומצא את המרחק ביניהם.

28) נתון המלבן ABCD. משוואותיהן של שתיים מצלעות המלבן הן $AB: 3x+y=0$ ו- $CD: 3x+y-6=0$. הקדקוד B נמצא בראשית הצירים. נתון כי הצלע AB ארוכה פי 4 מהצלע BC. מצא את שטח המלבן ואת מפגש אלכסוני המלבן, אם ידוע שהוא ברביע הרביעי.

29) צלע של ריבוע מונחת על הישר $3x-2y+5=0$.
אלכסוני הריבוע נפגשים בנקודה $B(1,-1)$.
מצא את משוואות הישרים עליהם מונחות הצלעות האחרות של הריבוע.

30) נתון ישר שעובר בראשית הצירים ושיפועו חיובי.
מצא את משוואת הישר אם נתון שהוא נמצא מעל הנקודות $P(4,1)$ ו- $Q(7,2)$
וסכום המרחקים ממנו לנקודות אלה הוא $3\sqrt{10}$.

31) במשולש BKP נתון כי הצלע BK מונחת על הישר $x-y+3=0$ והצלע BP מונחת על הישר $x+2y+3=0$. אורך הגובה לצלע BP הוא $3\sqrt{5}$ ואורך הגובה לצלע KP הוא 5. מצא את שיעורי קדקוד P אם ידוע שראשית הצירים נמצאת בתוך המשולש.

תשובות סופיות:

25) $3x-4y+28=0$, $3x-4y-12=0$

26) 3

27) $\frac{25}{\sqrt{148}}$

28) 14.4 יח"ש $S=$, $(2.1,-3.3)$

29) $y=-\frac{2}{3}x+3$, $y=-\frac{2}{3}x-3\frac{2}{3}$, $3x-2y-15=0$

30) $y=3x$

31) $P\left(2,-2\frac{1}{2}\right)$

קורס השלמה במתמטיקה

פרק 19 - גיאומטריה אנליטית - המעגל

תוכן העניינים

1. הכרות עם משוואת המעגל 310
2. מעגל המשיק לצירים 314
3. משיק למעגל 316
4. שאלות יסודיות שונות 317
5. נושאים מתקדמים במעגל ..... (ללא ספר)
6. כתיבת משוואת מעגל עם השלמה לריבוע 324
7. משוואות המשיקים למעגל 325
8. מיתר המחבר שתי נקודות השקה 327
9. שאלות מסכמות שונות 328

הכרות עם משוואת המעגל:

סיכום כללי:

הגדרה:

המקום הגאומטרי של כל הנקודות, הנמצאות במרחק קבוע מנקודה קבועה במישור נקרא מעגל.

משוואת מעגל:

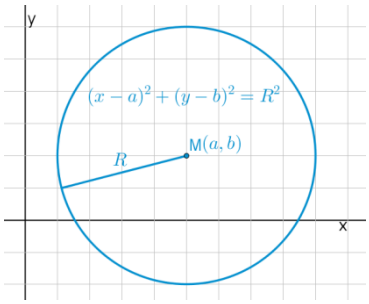

משוואת מעגל שמרכזו בנקודה $M(a,b)$

ורדיוסו R היא: $(x-a)^2=(y-b)^2=R^2$.

משוואת מעגל קנוני:

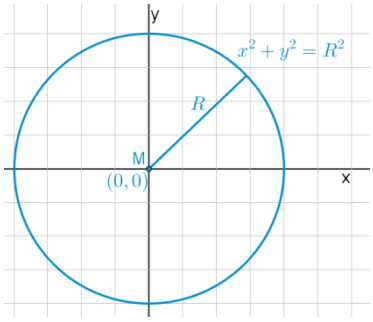

משוואת מעגל קנוני (שמרכזו בראשית הצירים $M(0,0)$)

ורדיוסו R היא: $x^2+y^2=R^2$.

שאלות:

1) מצא את מרכזם ורדיוסם של המעגלים הבאים:

א. $(x-3)^2+(y+5)^2=49$.

ב. $\left(x+\frac{1}{2}\right)^2+y^2=10$.

ג. $(x-m)^2+(y+n)^2=m^2+n^2$.

2) כתוב את משוואות המעגלים שמרכזם M ורדיוסם R:

א. $M(4,-2)\ ,\ R=3$

ב. $M(-3,5)\ ,\ R=10$

ג. $M(5,5)\ ,\ R=\sqrt{40}$

ד. $M(10,-12)\ ,\ R=\sqrt{30}$

3) כתוב את משוואות המעגלים הבאים בכל מקרה:

א.

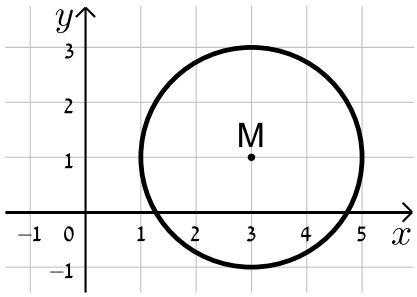

ב.

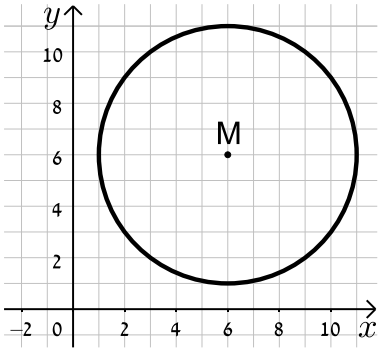

ג.

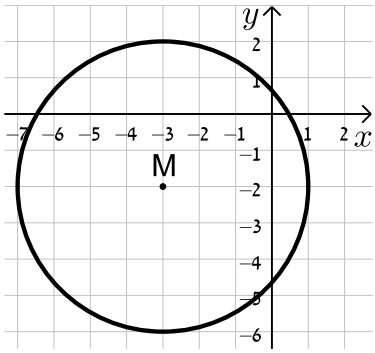

ד.

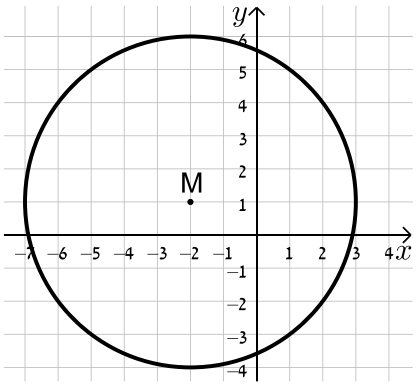

4) מצא את משוואתו של מעגל שעובר בנקודה $A(-4,5)$ ומרכזו בנקודה $O(2,-1)$.

5) מצא את משוואת המעגל שמרכזו בנקודה $M(-5,6)$ והוא חותך את ציר ה-x בנקודה שבה $x=9$.

6) מצא את משוואת המעגל שמרכזו בנקודה $M(0,-7)$ והוא חותך את ציר ה-y בנקודה שבה $y=3$.

7) מצא את משוואתו של מעגל שעובר בנקודה $A(11,2)$, רדיוסו 13 ומרכזו נמצא על הישר $y=2x-1$.

8) מצא את משוואתו של מעגל שהנקודות $A(-2,3)$ ו-$B(4,-3)$ הן קצות הקוטר שלו.

9) מצא את משוואתו של מעגל שמרכזו נמצא על הישר $x=4$, רדיוסו 10 והוא חותך מציר ה-x מיתר שאורכו 12.

10) מצא את משוואתו של מעגל שמרכזו $M(4,-3)$ אם ידוע כי הישר $y=-3x+7$ חותך אותו בשתי נקודות A ו-B כך שאורכו של המיתר AB הוא 4 יחידות אורך.

11) מצא את משוואתו של מעגל החוסם משולש שקודקודיו הם $A(22,-24)$, $B(-10,40)$, $C(-30,28)$.

12) נתונים שני מעגלים בעלי אותו המרכז $M(3,-1)$, האחד הוא בעל רדיוס R והשני בעל רדיוס של $2R$.

א. כתוב את המשוואות של שני המעגלים (בטא באמצעות R).

ב. מה תהיינה המשוואות עבור $R=2$?

ג. צייר את שני המעגלים במערכת הצירים שלפניך.

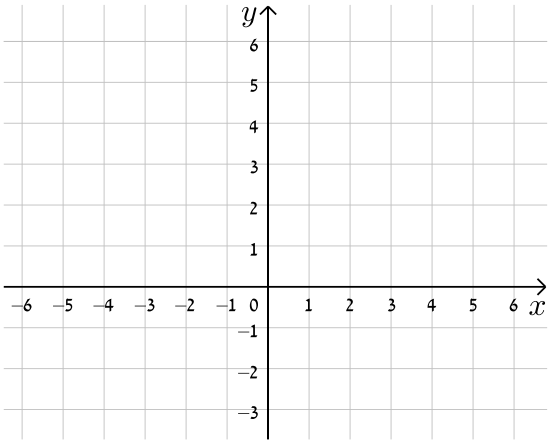

13) שני מעגלים שמרכזיהם $M_1(6,2)$ ו-$M_2(-3,-4)$ חותכים זה את זה בנקודה $(-2,3)$. מצא את משוואות המעגלים.

14) נתונה משוואת המעגל הבאה: $x^2+y^2-10x-10y+a=0$ כאשר a פרמטר.

א. מצא ביטוי של רדיוס המעגל באמצעות a.

ב. איזה מהערכים הבאים יכול להיות הגיוני עבור a ?
נמק ומצא את תחום ההגדרה של a.

i. $a=5$.

ii. $a=55$.

תשובות סופיות:

1) א. $M(3,-5)\ ,\ R=7$ ב. $M(-0.5,0)\ ,\ R=\sqrt{10}$

ג. $M(m,-n)\ ,\ R=\sqrt{m^2+n^2}$.

2) א. $(x-4)^2+(y+2)^2=9$ ב. $(x+3)^2+(y-5)^2=100$

ג. $(x-5)^2+(y-5)^2=40$ ד. $(x-10)^2+(y+12)^2=30$.

3) א. $(x-3)^2+(y-1)^2=4$ ב. $(x-6)^2+(y-6)^2=25$

ג. $(x+3)^2+(y+2)^2=16$ ד. $(x+2)^2+(y-1)^2=25$.

4) $(x-2)^2+(y+1)^2=72\ ,\ M(3,-3)$.

5) $(x+5)^2+(y-6)^2=232$.

6) $x^2+(y+7)^2=100$.

7) $(x+1)^2+(y+3)^2=169$ או $(x-7.8)^2+(y+14.6)^2=169$.

8) $(x-1)^2+y^2=18$.

9) $(x-4)^2+(y-8)^2=100$ או $(x-4)^2+(y+8)^2=100$

10) $(x-4)^2+(y+3)^2=4\frac{2}{5}$.

11) $(x+2)^2+(y-4)^2=1360$.

12) א. $(x-3)^2+(y+1)^2=4R^2\ ,\ (x-3)^2+(y+1)^2=R^2$

ב. $(x-3)^2+(y+1)^2=16\ ,\ (x-3)^2+(y+1)^2=4$.

13) $(x-6)^2+(y-2)^2=65\ ,\ (x+3)^2+(y+4)^2=50$

14) א. $R=\sqrt{50-a}$ ב. $a=5$, ת.ה: $a<50$.

מעגל המשיק לצירים:

שאלות:

15) כתוב את משוואות המעגלים הבאים:

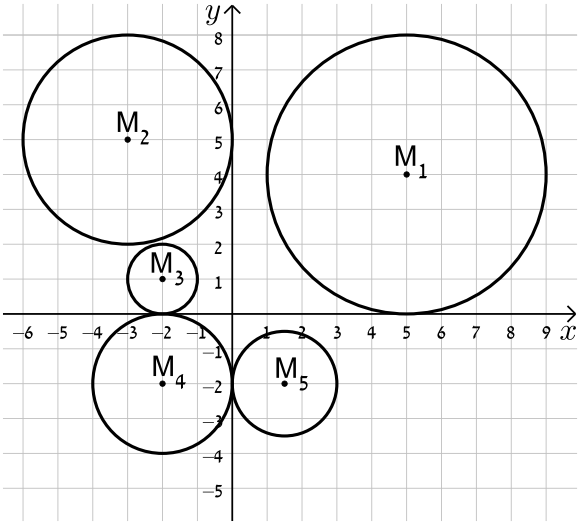

16) מצא את משוואתו של מעגל המשיק לשני הצירים ורדיוסו 4.

17) מצא את משוואת המעגל שמשיק לציר ה-x ומרכזו בנקודה $M(16,8)$.

18) מצא את משוואת המעגל שמרכזו נמצא על הישר $2x+3y+6=0$ והוא משיק לשני הצירים.

19) מצא את משוואתו של מעגל שמשיק לציר ה-y ולישר $y=6$ ומרכזו על הישר $y=3x-2$ ברביע הראשון.

תשובות סופיות:

15) $M_1:(x-5)^2+(y-4)^2=16$, $M_2:(x+3)^2+(y-5)^2=9$, $M_3:(x+2)^2+(y-1)^2=1$, $M_4:(x+2)^2+(y+2)^2=4$, $M_5:(x-1.5)^2+(y+2)^2=2\frac{1}{4}$.

16) $(x\pm4)^2+(y\pm4)^2=16$.

17) $(x-16)^2+(y-8)^2=64$.

18) $(x-6)^2+(y+6)^2=36$, $\left(x+1\frac{1}{5}\right)^2+\left(y+1\frac{1}{5}\right)^2=\frac{36}{25}$.

19) $(x-2)^2+(y-4)^2=4$.

משיק למעגל:

סיכום כללי:

משוואת המשיק למעגל $(x-a)^2=(y-b)^2=R^2$ בנקודה $A(x_1,y_1)$
שעליו היא: $(x-a)(x_1-a)+(y-b)(y_1-b)=R^2$.

שאלות:

20) מצא את משוואות המשיקים למעגל $(x+1)^2+(y-2)^2=25$ בנקודות על המעגל שבהן $y=5$.

21) נתונה משוואת המעגל: $(x-1)^2+(y-3)^2=20$ ומשוואת הישר $y=2x+m$ כאשר m פרמטר. מצא עבור אלו ערכים של m הישר ישיק למעגל ולאלו ערכים הישר יחתוך את המעגל.

תשובות סופיות:

20) $4x-3y+35=0$ ו- $4x+3y=27$.

21) משיק: $m=11,-9$, חותך: $-9<m<11$.

שאלות יסודיות שונות:

שאלות:

22) נתון מעגל שמשוואתו $(x-3)^2+(y+4)^2=25$.

א. מצא את נקודות החיתוך של המעגל עם הצירים.

ב. העבירו קוטר במעגל, המאונך לציר ה-x.
מצא את שטח המרובע הנוצר על ידי נקודות החיתוך שמצאת בסעיף א' ונקודת החיתוך של הקוטר עם המעגל הנמצאת ברביע הראשון.

23) נתון ישר שמשוואתו $y=2x-10$. הישר חותך את ציר ה-x בנקודה A ואת ציר ה-y בנקודה B. בנקודה A מעבירים משיק למעגל שהקטע AB הוא קוטרו.
המשיק חותך את ציר ה-y בנקודה C.
מצא את אורך הקטע BC.

24) נתון המעגל שמשוואתו $x^2+y^2=81$. מסמנים ב-A את נקודת החיתוך החיובית של המעגל עם ציר ה-x. הנקודה A היא מרכזו של מעגל נוסף בעל רדיוס של 12. מסמנים את נקודות החיתוך של שני המעגלים ב-B ו-C.
מצא את שטח המשולש שנוצר בין הנקודות B, C ו- O (O ראשית הצירים).

25) נתון ישר שמשוואתו $y=x$. הישר חותך מעגל קנוני שמשוואתו $x^2+y^2=32$ בשתי נקודות, A ו-B , כאשר A ברביע הראשון. בנקודה A עובר מעגל נוסף, המשיק למעגל הקנוני ובעל אותו רדיוס.
מצא את משוואת המעגל הנוסף ואת משוואת המשיק המשותף לשני המעגלים העובר בנקודה A.

26) הישרים: $9y+11x=94$ ו- $y=-3x+14$ נחתכים בנקודה B.
דרך נקודה זו עובר מעגל שמרכזו הוא: $M(-9,1)$.
ידוע כי מעגל זה חותך את הישרים (חוץ מהנקודה B) בשתי נקודות A ו-C (ראה איור).

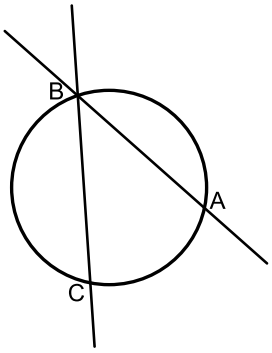

א. מצא את שיעורי הנקודה B.

ב. מצא את משוואת המעגל.

ג. מצא את שיעורי הנקודה A – נקודת החיתוך של הישר שמשוואתו: $y=-3x+14$ עם המעגל.

27) נתון מעגל המשיק לציר ה-x בנקודה A.
מהנקודה E שעל ציר ה-x מעלים אנך המשיק למעגל בנקודה B (ראה איור).
הקטע BC מקביל לציר ה-x ו-O היא נקודת ראשית הצירים. יוצרים טרפז ישר זווית ABCO ששטחו הוא 170 סמ"ר.
ידוע כי: $C(0,10)$ ו- 10 ס"מ $= AE$.

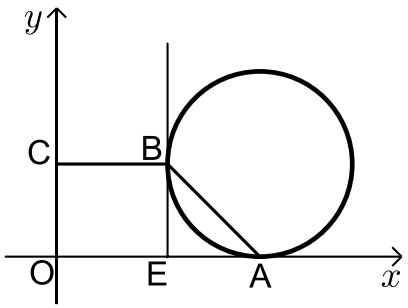

א. ענה על הסעיפים הבאים:
i. מצא את שיעורי הנקודה B.
ii. מצא את שיעורי הנקודה A.
ב. כתוב את משוואת המעגל.

28) הנקודה $A(17,4)$ נמצאת על המעגל שמשוואתו: $(x-7)^2+(y-4)^2=R^2$.
הישר $x=1$ חותך את המעגל בשתי נקודות B ו-C כך ש-B נמצאת ברביע הרביעי. מעבירים את הקטע AD המאונך לישר BC וידוע כי הנקודה D היא אמצע BC.

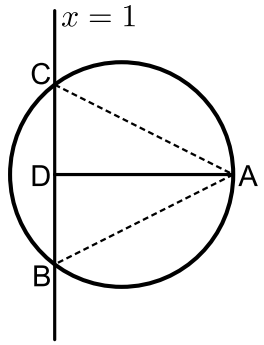

א. מצא את רדיוס המעגל.
ב. מצא את שיעורי הנקודות B ו-C.
ג. ענה על הסעיפים הבאים:
i. חשב את מרחק הנקודה A מהישר: $x=1$
ii. חשב את שטח המשולש ABC.

29) נתון משולש ABC. משוואות הצלעות AB ו-BC במשולש ABC הן בהתאמה: $2y-x=56$ ו- $8y+x=104$.
מעבירים גבהים לצלעות AB ו-BC אשר נחתכים בנקודה $M(0,-2)$ שבתוך המשולש.

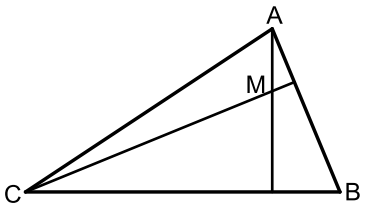

א. מצא את משוואות הגבהים.
ב. מצא את שיעורי הנקודה B.
ג. מצא את משוואת המעגל שמרכזו בנקודה M ורדיוסו הוא הקטע BM.

30) באיור שלפניך מתואר המעגל: $(x-4)^2+(y-3)^2=25$.
המעגל חותך את הצירים בנקודות A , B ו-O.

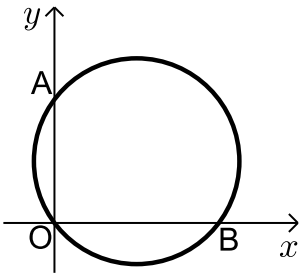

א. מצא את נקודות החיתוך של המעגל עם הצירים.
ב. מצא נקודה C הנמצאת על היקף המעגל ברביע הראשון כך שהמרובע ABCO יהיה מלבן.
ג. חשב את היקף המלבן.

31) המעגל: $(x+a)^2+(y-1)^2=a+4$, $a>0$ חותך את ציר ה-x בנקודה שבה: $x=1$.
א. מצא את a.
ב. מצא את נקודות החיתוך של המעגל הנתון עם המעגל $(x-1)^2+(y-2)^2=10$.
ג. כתוב את משוואת הישר העובר דרך נקודות החיתוך של שני המעגלים.
ד. חשב את שטח המשולש שיוצר הישר שמצאת בסעיף הקודם עם הצירים.

32) הנקודות M ו-D נמצאות על הישר $y=12$ ידוע כי שיעור ה-x של הנקודה M הוא 9 וכי המרחק של הנקודה M מראשית הצירים גדול ב- 6 מהמרחק בין הנקודות D ו-M (ראה איור).
בונים מעגל שמרכזו נמצא בנקודה M ורדיוסו הוא האורך DM.

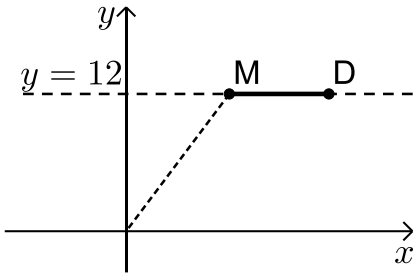

א. ענה על הסעיפים הבאים:
i. מצא את מרחק הנקודה M מראשית הצירים.
ii. מצא את שיעור ה-x של הנקודה D.
ב. כתוב את משוואת המעגל.
ג. האם המעגל הזה חותך את הצירים? הראה חישוב מתאים לטענתך.

33) מעגל שמרכזו בנקודה $M(15,12)$ משיק לציר ה-y בנקודה B וחותך את ציר ה-x בשתי נקודות A ו-C כמתואר באיור.

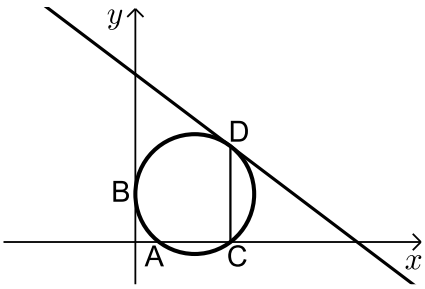

א. כתוב את משוואת המעגל.
מהנקודה C מעלים אנך לציר ה-x שחותך את המעגל בנקודה נוספת D.
דרך הנקודה D עובר משיק למעגל.
ב. מצא את שיעורי הנקודות C ו-D.
ג. מצא את משוואת המשיק למעגל בנקודה D.

34) באיור שלפניך נתון מעגל שמרכזו בנקודה M.
המעגל חותך את ציר ה- y בנקודות A ו-B.
מעבירים משיק למעגל: $6x+7y=191$
דרך הנקודה: $C(12,17)$.

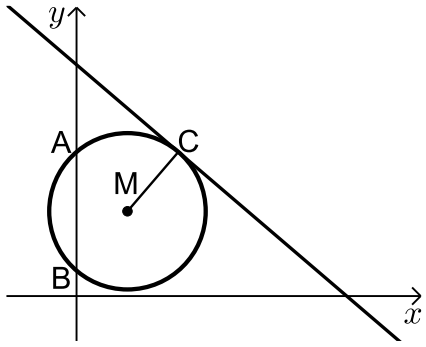

א. כתוב את משוואת הרדיוס MC.
ב. ידוע כי הנקודה M נמצאת על הישר $y=10$.
i. מצא את שיעורי הנקודה M.
ii. מצא את אורך רדיוס המעגל.
iii. כתוב את משוואת המעגל.
ג. מצא את נקודות החיתוך של המעגל עם ציר ה- y.
ד. חשב את שטח המשולש AMB.

35) באיור שלפניך נתון מעגל שמרכזו בנקודה M הנמצאת על ציר ה- x. המעגל חותך את ציר ה- x בנקודה A.
מסמנים את ראשית הצירים ב-O.
ידוע כי A היא אמצע הקטע MO ושיעוריה הם: $A(5,0)$.

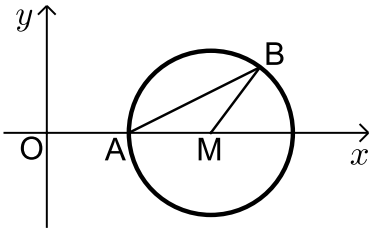

א. מצא את משוואת המעגל.
ב. כתוב את משוואת הישר שעובר דרך הנקודה A ושיפועו הוא 0.5.
ג. מצא את נקודת החיתוך הנוספת של הישר שמצאת עם המעגל.
ד. סמן את הנקודה שמצאת בסעיף הקודם ב-B וחשב את שטח המשולש AMB.

36) באיור שלפניך נתון מעגל שמשוואתו
היא: $(x+4)^2+(y+2)^2=8$.
מסמנים את נקודות החיתוך של המעגל עם ציר ה- x ב-A ו-B (ראה איור).

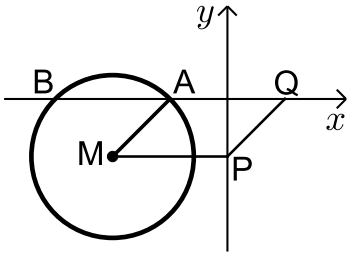

א. מצא את שיעורי הנקודות A ו-B.
מעבירים אנך לציר ה- y מנקודת מרכז המעגל M
ומסמנים את חיתוכם ב- P.
ב. מצא נקודה Q כך שהמרובע AMPQ יהיה מקבילית. נמק.
ג. כתוב את משוואת הישר PQ.
ד. הוכח כי הישר שמצאת בסעיף הקודם משיק למעגל בנקודה $(-2,-4)$.

37) נתון מעגל שרדיוסו R $(R<16)$ ומשיק לציר ה-x בנקודה שבה: $x=16$.

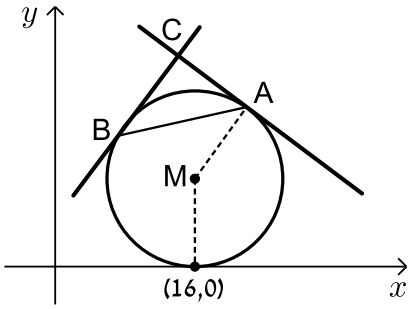

א. הבע באמצעות R את משוואת המעגל וציין האם הוא חותך את ציר ה- y או לא. נמק.

מהנקודה $A(22,18)$ שעל המעגל מעבירים משיק.

ב. מצא את R וכתוב את משוואת המעגל.

ג. כתוב את משוואת המשיק למעגל בנקודה A.

ד. מצא את משוואת המשיק למעגל בנקודה B שבה $x_B < x_M$ אם ידוע כי הוא המאונך למשיק הקודם.

ה. המשיקים נחתכים בנקודה C.

i. מצא את שיעורי הנקודה C.

ii. מצא את שטח המשולש ABC.

38) באיור שלפניך נתון מעגל שמשוואתו: $(x+a)^2+(y-1)^2=5$, a פרמטר.

ידוע כי המעגל חותך את ציר ה-x בנקודה $A(10,0)$.

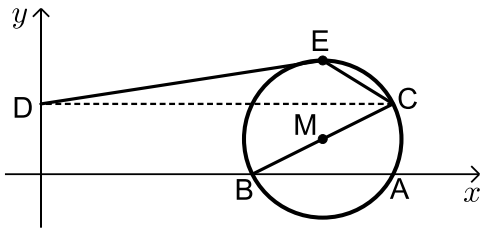

א. מצא את a אם ידוע כי $a>-10$.

ב. מצא את הנקודה B - נקודת החיתוך השנייה של המעגל עם ציר ה-x.

ג. כתוב את משוואת הקוטר העובר דרך הנקודה B ומרכז המעגל M.

ד. מצא את נקודת החיתוך השנייה של הקוטר עם המעגל.

ה. מעבירים אנך מנקודת החיתוך שמצאת בסעיף הקודם לציר ה- y בנקודה D.
הנקודה E היא הנקודה בעלת שיעור ה- y הגדול ביותר על המעגל.
מחברים את הנקודות E ו-D כך שנוצר המחומש DECBO. חשב את שטחו.

39) באיור שלפניך נתון מעגל שמשוואתו: $(x-5)^2+(y-3)^2=R^2$, R רדיוס המעגל.
ידוע כי המעגל עובר בראשית הצירים.

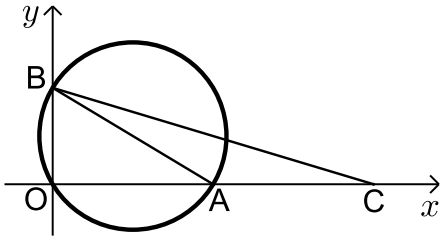

א. מצא את רדיוס המעגל וכתוב את משוואת המעגל.

ב. מצא את הנקודות A ו- B - החיתוך של המעגל עם הצירים (ראה איור).

ג. מסמנים נקודה C על ציר ה-x כך ש-A היא אמצע הקטע CO.

i. מצא את שיעורי הנקודה C.

ii. חשב את שטח המשולש ABC.

תשובות סופיות:

22) א. $(0,-8)$, $(6,0)$, $(0,0)$ ב. 27 יח"ש.

23) 12.5 יחידות אורך.

24) $\sqrt{80}$ יח"ש $= S_{\Delta BOC}$.

25) $(x-8)^2+(y-8)^2=32$, $y=-x+8$.

26) א. $(2,8)$ ב. $(x+9)^2+(y-1)^2=170$ ג. $(4,2)$.

27) א. i. $B(12,10)$ ii. $A(22,0)$ ב. $(x-22)^2+(y-10)^2=100$.

28) א. $R=10$ ב. $B(1,-4)$, $C(1,12)$ ג. i. $d=16$

ii. $S=128$

29) א. $y=-2x-2$, $y=8x-2$ ב. $(-24,16)$ ג. $x^2+(y+2)^2=900$.

30) א. $B(8,0)$, $A(0,6)$, $O(0,0)$ ב. $C(8,6)$ ג. 28 יח"א $= P$.

31) א. $a=1$ ב. $(-2,3)$, $(0,-1)$ ג. $y=-2x-1$

ד. $S=\frac{1}{4}$.

32) א. i. $d=15$ ii. $x=18$. ב. $(x-9)^2+(y-12)^2=81$.

ג. המעגל אינו חותך את ציר ה-x -כאשר מציבים ב- y אפס מתקבלת משוואה ריבועית ללא פתרון. המעגל חותך את ציר ה-x בנקודה אחת- $(12,0)$.

33) א. $(x-15)^2+(y-12)^2=225$ ב. $C(24,0)$, $D(24,24)$. ג. $y=-\frac{3}{4}x+42$.

34) א. $y=\frac{7}{6}x+3$ ב. i. $M(6,10)$ ii. $\sqrt{85}$

iii. $(x-6)^2+(y-10)^2=85$ ג. $A(0,17)$, $B(0,3)$ ד. 42 יח"ש.

35) א. $(x-10)^2+y^2=25$ ב. $y=0.5x-2.5$ ג. $B(13,4)$

ד. 10 יח"ש $= S_{AMB}$.

36) א. $A(-2,0)$, $B(-6,0)$ ב. $Q(2,0)$ ג. $y=x-2$.

37) א. $(x-16)^2+(y-R)^2=R^2$, המעגל אינו חותך את ציר ה- y .

ב. $R=10$, $(x-16)^2+(y-10)^2=100$ ג. $y=-\frac{3}{4}x+34\frac{1}{2}$

ד. $y=\frac{4}{3}x+5\frac{1}{3}$ ה. i. $C(14,24)$ ii. 50 יח"ש.

38) א. $a=-8$ ב. $B(6,0)$ ג. $y=0.5x-3$

ד. $(10,2)$. ה. $11+5\sqrt{5}$ יח"ש $=S_{DECBO}$.

39) א. $R=\sqrt{34}$ יחידות אורך , $(x-5)^2+(y-3)^2=34$. ב. $A(10,0)$, $B(0,6)$

ג. i. $C(20,0)$. ii. 30 יח"ש $=S_{ABC}$.

כתיבת משוואת מעגל עם השלמה לריבוע:

שאלות:

1) מצא את מרכזם ורדיוסם של המעגלים הבאים:

א. $x^2+10x+y^2+6y-2=0$

ב. $x^2-2x+y^2+20y+1=0$

ג. $x^2-8x+y^2-14y=0$

ד. $x^2+y^2+2y=0$

ה. $x^2+x+y^2-3\frac{3}{4}=0$

ו. $x^2-2mx+y^2+6my+m^2=0$

2) משוואתו של מעגל היא $x^2+y^2-6mx-2(m+2)y+4m+4=0$.
מצא את ערכו של m אם ידוע שמרכז המעגל נמצא על הישר $y=2x+7$.

3) משוואתו של מעגל היא $x^2+y^2-8x+12y-48=0$.
מצא את אורכו של המיתר שחותך הישר $y=2x-4$ מהמעגל בלי למצוא את נקודות הקצה של המיתר.

תשובות סופיות:

1) א. $M(-5,-3)\ ,\ R=6$

ב. $M(1,-10)\ ,\ R=10$

ג. $M(4,7)\ ,\ R=\sqrt{65}$

ד. $M(0,-1)\ ,\ R=1$

ה. $M\left(-\frac{1}{2},0\right)\ ,\ R=2$

ו. $M(m,-3m)\ ,\ R=3m$.

2) $m=-1$.

3) $2\sqrt{80}$.

משוואות המשיקים למעגל:

שאלות:

4) מצא משוואת מעגל העובר בנקודה $(1,8)$ המשיק לשני הצירים.

5) מצא את אורך המשיק למעגל שמשוואתו $x^2+y^2-4x+14y+37=0$ היוצא מהנקודה $A(10,-3)$.

6) מצא את משוואת המשיק ואת משוואת הנורמל למעגל שמשוואתו $x^2+y^2-4x+6y+3=0$ בנקודה $A(5,-4)$.

7) מצא את נקודת החיתוך של המשיקים למעגל שמשוואתו $x^2+(y-1)^2=5$ בנקודות שבהן $x=-1$.

8) נתון מעגל שמרכזו בנקודה $(-2,6)$ והוא עובר בראשית הצירים. המעגל חותך את הצירים בשתי נקודות נוספות, A ו-B.

א. הוכח כי המשיקים למעגל בנקודות A ו-B מקבילים זה לזה.

ב. הוכח את סעיף א' בלי למצוא את משוואות המשיקים או את שיפועיהם.

9) נתון המעגל $(x-1)^2+(y-3)^2=20$ והישר $y=2x+m$.

לאלו ערכים של הפרמטר m הישר משיק למעגל ולאלו ערכים של m הישר חותך את המעגל?

תשובות סופיות:

4) $(x-5)^2+(y-5)^2=25$ או $(x-13)^2+(y-13)^2=169$.

5) 8.

6) משיק: $y=3x-19$, נורמל: $x+3y+7=0$.

7) $(-5,1)$.

8) שאלת הוכחה.

9) משיק: $m=-9,11$, חותך: $-9<m<11$.

מיתר המחבר שתי נקודות השקה:

סיכום כללי:

משוואת המיתר, המחבר את שתי נקודות ההשקה של שני המשיקים

למעגל $(x-a)^2=(y-b)^2=R^2$ היוצאים מהנקודה $A(x_1,y_1)$ שמחוץ

למעגל היא: $(x-a)(x_1-a)+(y-b)(y_1-b)=R^2$.

שאלות:

10) ענה על הסעיפים הבאים:

א. מצא את משוואת המיתר במעגל שמשוואתו $x^2+y^2+2x-19=0$,
המחבר את נקודות ההשקה של המשיקים היוצאים מהנקודה $A(-3,8)$

ב. מצא את משוואת המיתר במעגל שמשוואתו $x^2+(y-1)^2=5$, המחבר
את נקודות ההשקה של המשיקים היוצאים מהנקודה $A(-5,1)$.

11) נתון מעגל שמשוואתו $x^2+y^2+16x+48=0$ ונקודה P, שנמצאת על החלק
החיובי של ציר ה- y. הישר המחבר את נקודות ההשקה של המשיקים
היוצאים למעגל מנקודה P חותך את ציר ה- y בנקודה Q. נתון: $PQ=14$.
מצא את שיעורי הנקודה Q.

תשובות סופיות:

10) א. $x-4y+11=0$ ב. $x=-1$.

11) $Q(0,-8)$ או $Q(0,-6)$.

שאלות מסכמות שונות:

שאלות:

12) נתון מעגל שמשוואתו $x^2+y^2+16x-12y+64=0$. המעגל משיק מבחוץ למעגל קנוני. מצא את משוואת המעגל הקנוני, את נקודת ההשקה בין המעגלים ואת משוואת המשיק המשותף העובר בנקודה זו.

13) המעגלים $x^2+y^2+22x-6y=m$ ו- $x^2+y^2=26$ נחתכים בזווית ישרה.
מצא את ערכו של m .

14) בטרפז שווה שוקיים ABCD נתון כי הבסיס הגדול, DC, מונח על הישר: $3x-y-9=0$ והשוק AD מונחת על הישר $x+y-3=0$.
שיעורי הקודקוד B הם $(3,-8)$.
מצא את משוואת המעגל החוסם את הטרפז ABCD.

15) מצא את משוואתו של מעגל החוסם ריבוע, שאחד מקדקודיו נמצא בראשית הצירים ומשוואת אחד מאלכסוניו היא $3x-y+10=0$.

תשובות סופיות:

12) $4x-3y+20=0$, $A(-3.2,2.4)$, $x^2+y^2=16$.

13) $m=-26$.

14) $(x-1)^2+(y+4)^2=20$.

15) $(x+3)^2+(y-1)^2=10$.

קורס השלמה במתמטיקה

פרק 20 - גיאומטריה אנליטית - האליפסה

תוכן העניינים

1. האליפסה..... 329

האליפסה:

סיכום כללי:

הגדרה:

המקום הגאומטרי של כל הנקודות, שסכום מרחקיהן משתי נקודות קבועות במישור קבוע, נקרא אליפסה. הנקודות הקבועות נקראות מוקדי האליפסה.

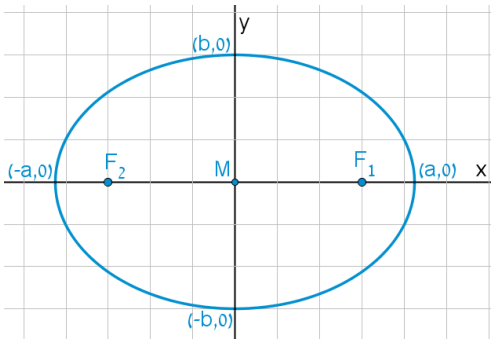

מושגים באליפסה:

- הציר הגדול: הקטע שהאליפסה חותכת מציר ה- x .
- הציר הקטן: הקטע שהאליפסה חותכת מציר ה- y .
- מרכז האליפסה: מפגש צירי האליפסה (ראה איור).
  באליפסה קנונית מרכז האליפסה נמצא בראשית הצירים.
- מוקדי האליפסה: שתי נקודות קבועות שבעבורך סכום המרחקים מכל נקודה על האליפסה הוא גודל קבוע השווה ל- $2a$. המוקדים יסומנו ב- F_1 ו- F_2 ושיעוריהם הם: $F_1(c,0)$, $F_2(-c,0)$.
- רדיוסי ווקטור: המרחקים של כל נקודה על האליפסה משני המוקדים.
  אורך הרדיוס מנקודה (x,y) שעל האליפסה למוקד הימני הוא: $r_1 = a - \frac{cx}{a}$.
  אורך הרדיוס מנקודה (x,y) שעל האליפסה למוקד השמאלי הוא: $r_2 = a + \frac{cx}{a}$.
- מיתר: קטע המחבר שתי נקודות שעל האליפסה.
- קוטר: מיתר העובר דרך מרכז האליפסה.

משוואות וקשרים:

- משוואת אליפסה קנונית היא: $\frac{x^2}{a^2} + \frac{y^2}{b^2} = 1$ או: $b^2x^2 + a^2y^2 = a^2b^2$.
- הקשר בין הפרמטרים של האליפסה הוא: $a^2 - b^2 = c^2$.
- מכפלת שיפועי מיתר באליפסה והקוטר החוצה אותו היא קבועה ושווה ל- $-\frac{b^2}{a^2}$.

שאלות:

1) מצא את אורך צירי אליפסה שמשוואתה $x^2+4y^2=36$.

2) מצא את משוואתה של אליפסה שאורך צירה הגדול הוא 18 ואורך צירה הקטן הוא $2\sqrt{3}$.

3) מצא את משוואתה של אליפסה שאורך צירה הגדול הוא 12 והמרחק בין מוקדיה $8\sqrt{2}$.

4) מצא את משוואתה של אליפסה שאורך צירה הקטן הוא 8 והיא עוברת בנקודה $\left(-3\sqrt{3},2\right)$.

5) מצא את משוואתה של אליפסה שחסומה במעגל שמשוואתו $x^2+y^2=16$ ומוקד אחד שלה הוא בנקודה $\left(\sqrt{10},0\right)$.

6) מצא את משוואתה של אליפסה שחותכת את ציר ה- y בנקודה $\left(0,-2\sqrt{5}\right)$ והמרחק בין המוקד הימני לקדקוד הימני בה הוא 2.

7) מצא את משוואתה של אליפסה שעוברת בנקודות $\left(-2,\sqrt{6}\right)$ ו- $\left(\sqrt{14},1\right)$.

8) מצא על האליפסה $3x^2+4y^2=144$ את הנקודות שהפרש מרחקיהן מהמוקדים הוא 4.

9) מצא את משוואתה של אליפסה שעוברת בנקודה $(-3,1)$ ומכפלת המרחקים מנקודה זו למוקדים הוא 6.

10) מצא על האליפסה $x^2+3y^2=12$ את הנקודות שמהן רואים את הקטע שבין שני המוקדים בזווית ישרה.

11) מצא את משוואתו של קוטר באליפסה $x^2+4y^2=50$ ששיפועו חיובי ואורכו $\sqrt{56}$.

12) נתונים האליפסה $\frac{x^2}{30}+\frac{y^2}{24}=1$ והישר $y=2x+k$. מצא לאלו ערכים של הפרמטר k הישר משיק לאליפסה ולאלו ערכים של הפרמטר k הישר חותך את האליפסה.

13) מצא את שטחו של ריבוע החסום באליפסה $3x^2+5y^2=120$ כך שצלעותיו מקבילות לצירים.

14) מצא את שטחו של ריבוע החסום באליפסה $b^2x^2+a^2y^2=a^2b^2$ כך שצלעותיו מקבילות לצירים.

15) באליפסה $5x^2+9y^2=90$ חסום מלבן שצלעותיו מקבילות לצירים. מצא את שטח המלבן אם שתיים מצלעותיו עוברות במוקדי האליפסה.

16) באליפסה $x^2+5y^2=16$ חסום משולש שווה צלעות כך שקדקוד אחד שלו הוא הקדקוד הימני של האליפסה. מצא את שיעורי קדקודיו האחרים.

17) באליפסה חסום משולש שווה צלעות כך שקדקוד אחד שלו הוא הקדקוד הימני של האליפסה וקדקודיו האחרים הם נקודות החיתוך של האליפסה עם ציר ה- y.
מצא את משוואת האליפסה אם אחד ממוקדיה נמצא בנקודה $\left(4\sqrt{2},0\right)$.

18) מצא באליפסה $2x^2+3y^2=12$ משוואת מיתר שנקודת האמצע שלו היא $(1.5,1)$.

19) ישר שמשוואתו $x-y-3=0$ חותך מאליפסה מיתר שאמצעו בנקודה $(2,-1)$.
מצא את משוואת האליפסה אם ידוע שהיא עוברת בנקודה $\left(2\sqrt{2},-2\right)$.

20) נתונה המשוואה $\frac{x^2}{a^2}-\frac{y^2}{a^2-25}=1$, $(0<a\neq 5)$.

א. ענה על הסעיפים הבאים:

i. לאיזה ערך של a המשוואה מייצגת מעגל?

ii. לאלו ערכים של a המשוואה מייצגת אליפסה?

ב. הוכח כי בעבור $a=4$ אין אף נקודה על האליפסה שממנה רואים את הקטע שבין המוקדים בזווית ישרה.

תשובות סופיות:

1) $2a=12$, $2b=6$

2) $\frac{x^2}{81}+\frac{y^2}{3}=1$

3) $\frac{x^2}{36}+\frac{y^2}{4}=1$

4) $\frac{x^2}{36}+\frac{y^2}{16}=1$

5) $\frac{x^2}{16}+\frac{y^2}{6}=1$

6) $\frac{x^2}{36}+\frac{y^2}{20}=1$

7) $\frac{x^2}{16}+\frac{y^2}{8}=1$

8) $(4,\sqrt{24})$, $(4,-\sqrt{24})$, $(-4,\sqrt{24})$, $(-4,-\sqrt{24})$

9) $\frac{x^2}{12}+\frac{y^2}{4}=1$

10) $(\sqrt{6},\sqrt{2})$, $(-\sqrt{6},\sqrt{2})$, $(\sqrt{6},-\sqrt{2})$, $(-\sqrt{6},-\sqrt{2})$

11) $y=\sqrt{6}x$

12) משיק: $k=\pm 12$, חותך: $-12<k<12$.

13) $S=$ יח"ש 60

14) $S=\frac{4a^2b^2}{a^2+b^2}$

15) $S=$ יח"ש $26\frac{2}{3}$

16) $(1,\sqrt{3})$, $(1,-\sqrt{3})$

17) $\frac{x^2}{48}+\frac{y^2}{16}=1$

18) $y=-x+2.5$

19) $\frac{x^2}{16}+\frac{y^2}{8}=1$

20) א. i. $a=\sqrt{12.5}$ ii. $a\neq\sqrt{12.5}$

קורס השלמה במתמטיקה

פרק 21 - חשבון דיפרנציאלי - נגזרות ומשיקים

תוכן העניינים

1. הקדמה כללית ..... (ללא ספר)
2. כללי הגזירה ..... (ללא ספר)
3. שימושי הנגזרת ..... (ללא ספר)

קורס השלמה במתמטיקה

פרק 22 - חשבון דיפרנציאלי - חקירת פונקציות

תוכן העניינים

1. חקירת פולינום ..... (ללא ספר)
2. פונקציה זוגית ואי-זוגית ..... (ללא ספר)
3. תחום הגדרה של פונקצית מנה ושורש ..... (ללא ספר)
4. אסימפטוטות של פונקצית מנה ושורש ..... (ללא ספר)
5. חקירת פונקציות מנה ופונקציות שורש ..... (ללא ספר)
6. חקירת פונקציה עם פרמטר ..... (ללא ספר)

קורס השלמה במתמטיקה

פרק 23 - חשבון דיפרנציאלי של פונקציות מעריכיות

תוכן העניינים

1. גזירה של פונקציות מעריכיות ..... (ללא ספר)
2. שאלות עם משיקים ..... (ללא ספר)
3. חקירת פונקציות מעריכיות ..... (ללא ספר)
4. שאלות שונות מבחינות ..... (ללא ספר)

קורס השלמה במתמטיקה

פרק 24 - חשבון דיפרנציאלי של פונקציות לוגריתמיות

תוכן העניינים

1. גזירה של פונקציות לוגריתמיות ..... (ללא ספר)
2. שאלות עם משיקים ..... (ללא ספר)
3. חקירת פונקציות לוגריתמיות ..... (ללא ספר)
4. שאלות שונות מבחינות ..... (ללא ספר)

קורס השלמה במתמטיקה

פרק 25 - חשבון אינטגרלי

תוכן העניינים

1. חישובי אינטגרלים ..... (ללא ספר)
2. מציאת פונקציה קדומה ..... (ללא ספר)
3. האינטגרל המסוים ..... (ללא ספר)
4. האינטגרל המסוים וחישובי שטחים ..... (ללא ספר)
5. שאלות עם פרמטר ..... (ללא ספר)
6. שאלות בחישובי שטחים – פונקציה רציונאלית ..... (ללא ספר)
7. שאלות בחישובי שטחים – פונקצית שורש ..... (ללא ספר)
8. חישובי שטחים בין גרף הנגזרת והצירים ..... (ללא ספר)

קורס השלמה במתמטיקה

פרק 26 - חשבון אינטגרלי של פונקציות טריגונומטריות, מעריכיות, לוגריתמיות וחזקה

תוכן העניינים

1. פונקציה טריגונומטרית ..... (ללא ספר)

2. פונקציה מעריכית ..... (ללא ספר)

3. פונקציה לוגריתמית ..... (ללא ספר)

4. פונקצית חזקה עם מעריך רציונאלי ..... (ללא ספר)