סטטיסטיקה ב

תוכן העניינים

1. התפלגויות רציפות מיוחדות - התפלגות נורמלית- חזרה מסטטיסטיקה א..... 1
2. התפלגות הדגימה ומשפט הגבול המרכזי..... 9
3. הסקה סטטיסטית - הקדמה 15
4. רווח סמך לתוחלת (ממוצע)..... 18
5. מבוא לבדיקת השערות על פרמטרים 26
6. בדיקת השערות על תוחלת (ממוצע)..... 32
7. רווח סמך להפרש תוחלות (ממוצעים) במדגמים בלתי תלויים..... 49
8. בדיקת השערות על הפרש תוחלות במדגמים בלתי תלויים 51
9. רווח סמך לתוחלת (ממוצע) ההפרשים במדגמים מזווגים..... 55
10. בדיקת השערות לתוחלת ההפרש במדגמים מזווגים 57
11. הקשר בין רווח סמך לבדיקת השערות להפרש תוחלות..... 61
12. ניתוח שונות חד כיוונית..... 64
13. ניתוח שונות דו כיווני 73
14. שאלות אמריקאיות מסכמות בבדיקת השערות..... 109
15. מדד הקשר ספירמן 122
16. מקדם המתאם (מדד קשר) של פירסון ומובהקותו 125
17. רגרסיה 145
18. מדדי קשר-רגרסיה -שונות מוסברת ושונות לא מוסברת..... 148
19. מבחני חי בריבוע (מבחן אי תלות, טיב התאמה ומדד הקשר של קרמר)..... 151
20. מדדי קשר -תרגול של בחירת מדד הקשר המתאים..... 153

סטטיסטיקה ב

פרק 1 - התפלגויות רציפות מיוחדות - התפלגות נורמלית- חזרה מסטטיסטיקה א

תוכן העניינים

1. כללי 1

התפלגויות רציפות מיוחדות – התפלגות נורמלית:

רקע:

התפלגות נורמלית הינה התפלגות של משתנה רציף. ישנם משתנים רציפים מסוימים שנהוג להתייחס אליהם כנורמליים כגון: זמן ייצור, משקל תינוק ביום היוולדו ועוד. פונקציית הצפיפות של ההתפלגות הנורמלית נראית כמו פעמון:

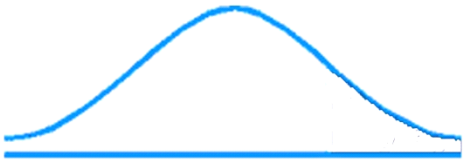

לעקומה זו קוראים גם עקומת גאוס ועקומה אחת נבדלת מהשנייה באמצעות הממוצע וסטיית התקן שלה.

אלה הם הפרמטרים שמאפיינים את ההתפלגות: $X \sim N\left(\mu,\sigma^2\right)$.

נוסחת פונקציית הצפיפות: $f\left(x\right)=\frac{1}{\sqrt{2\pi\sigma^2}}e^{-\frac{\left(x-\mu\right)^2}{2\sigma^2}}$.

כדי לחשב הסתברויות בהתפלגות נורמלית יש לחשב את השטחים הרלוונטיים שמתחת לעקומה. כדי לחשב שטחים אלה נמיר כל התפלגות נורמלית להתפלגות נורמלית סטנדרטית על ידי תהליך הנקרא תקנון. התפלגות נורמלית סטנדרטית היא התפלגות נורמלית שהממוצע שלה הוא אפס וסטיית התקן היא אחת, והיא תסומן באות Z: $Z \sim N\left(0,1^2\right)$.

תהליך התקנון מבוצע על ידי הנוסחה הבאה: $Z=\frac{X-\mu}{\sigma}$.

אחרי תקנון מקבלים ערך הנקרא ציון תקן.
ציון התקן משמעו בכמה סטיות תקן הערך סוטה מהממוצע.

לאחר חישוב ציון התקן של ערך מסוים נעזרים בטבלה של ההתפלגות הנורמלית הסטנדרטית לחישוב השטח הרצוי, ובאופן כללי נתאר את הסכמה הבאה:

© כל הזכויות שמורות לברק קנדל

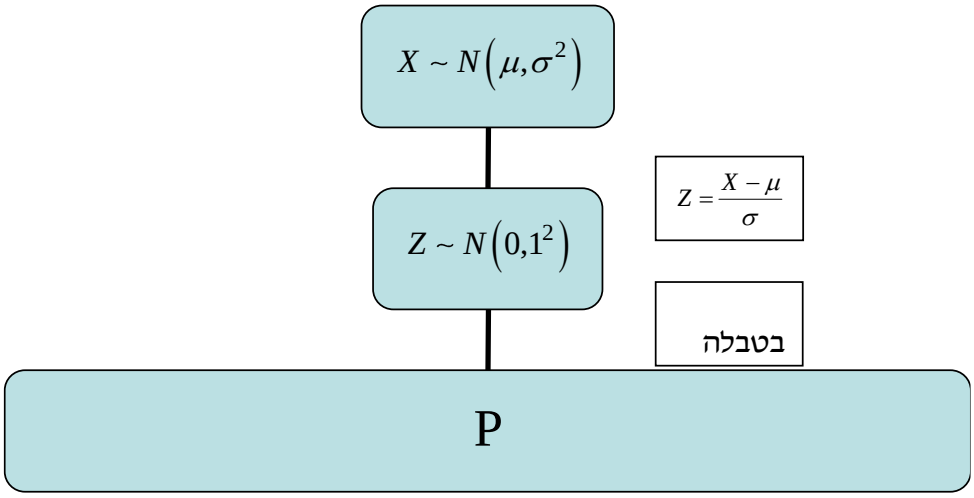

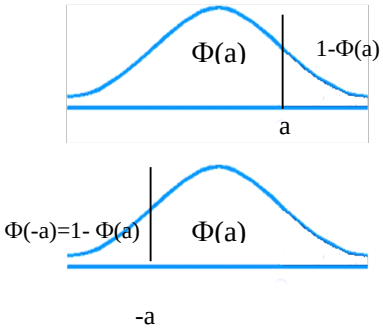

© כל הזכויות שמורות לברק קנדל

טבלת ההתפלגות המצטברת הנורמלית סטנדרטית – ערכי $\Phi(z)$:

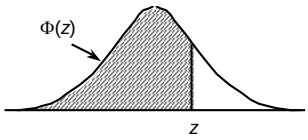

z	.00	.01	.02	.03	.04	.05	.06	.07	.08	.09
0.0	.5000	.5040	.5080	.5120	.5160	.5199	.5239	.5279	.5319	.5359
0.1	.5398	.5438	.5478	.5517	.5557	.5596	.5636	.5675	.5714	.5753
0.2	.5793	.5832	.5871	.5910	.5948	.5987	.6026	.6064	.6103	.6141
0.3	.6179	.6217	.6255	.6293	.6331	.6368	.6406	.6443	.6480	.6517
0.4	.6554	.6591	.6628	.6664	.6700	.6736	.6772	.6808	.6844	.6879
0.5	.6915	.6950	.6985	.7019	.7054	.7088	.7123	.7157	.7190	.7224
0.6	.7257	.7291	.7324	.7357	.7389	.7422	.7454	.7486	.7517	.7549
0.7	.7580	.7611	.7642	.7673	.7704	.7734	.7764	.7794	.7823	.7852
0.8	.7881	.7910	.7939	.7967	.7995	.8023	.8051	.8078	.8106	.8133
0.9	.8159	.8186	.8212	.8238	.8264	.8289	.8315	.8340	.8365	.8389
1.0	.8413	.8438	.8461	.8485	.8508	.8531	.8554	.8577	.8599	.8621
1.1	.8643	.8665	.8686	.8708	.8729	.8749	.8770	.8790	.8810	.8830
1.2	.8849	.8869	.8888	.8907	.8925	.8944	.8962	.8980	.8997	.9015
1.3	.9032	.9049	.9066	.9082	.9099	.9115	.9131	.9147	.9162	.9177
1.4	.9192	.9207	.9222	.9236	.9251	.9265	.9279	.9292	.9306	.9319
1.5	.9332	.9345	.9357	.9370	.9382	.9394	.9406	.9418	.9429	.9441
1.6	.9452	.9463	.9474	.9484	.9495	.9505	.9515	.9525	.9535	.9545
1.7	.9554	.9564	.9573	.9582	.9591	.9599	.9608	.9616	.9625	.9633
1.8	.9641	.9649	.9656	.9664	.9671	.9678	.9686	.9693	.9699	.9706
1.9	.9713	.9719	.9726	.9732	.9738	.9744	.9750	.9756	.9761	.9767
2.0	.9772	.9778	.9783	.9788	.9793	.9798	.9803	.9808	.9812	.9817
2.1	.9821	.9826	.9830	.9834	.9838	.9842	.9846	.9850	.9854	.9857
2.2	.9861	.9864	.9868	.9871	.9875	.9878	.9881	.9884	.9887	.9890
2.3	.9893	.9896	.9898	.9901	.9904	.9906	.9909	.9911	.9913	.9916
2.4	.9918	.9920	.9922	.9925	.9927	.9929	.9931	.9932	.9934	.9936
2.5	.9938	.9940	.9941	.9943	.9945	.9946	.9948	.9949	.9951	.9952
2.6	.9953	.9955	.9956	.9957	.9959	.9960	.9961	.9962	.9963	.9964
2.7	.9965	.9966	.9967	.9968	.9969	.9970	.9971	.9972	.9973	.9974
2.8	.9974	.9975	.9976	.9977	.9977	.9978	.9979	.9979	.9980	.9981
2.9	.9981	.9982	.9982	.9983	.9984	.9984	.9985	.9985	.9986	.9986
3.0	.9987	.9987	.9987	.9988	.9988	.9989	.9989	.9989	.9990	.9990
3.1	.9990	.9991	.9991	.9991	.9992	.9992	.9992	.9992	.9993	.9993
3.2	.9993	.9993	.9994	.9994	.9994	.9994	.9994	.9995	.9995	.9995
3.3	.9995	.9995	.9995	.9996	.9996	.9996	.9996	.9996	.9996	.9997
3.4	.9997	.9997	.9997	.9997	.9997	.9997	.9997	.9997	.9997	.9998

z	1.282	1.645	1.960	2.326	2.576	3.090	3.291	3.891	4.417
Φ(z)	0.90	0.95	0.975	0.99	0.995	0.999	0.9995	0.99995	0.999995

© כל הזכויות שמורות לברק קנדל

דוגמה (הפתרון בהקלטה):

משקל חפיסות שוקולד המיוצרות בחברה מתפלג נורמלית עם ממוצע 100 גרם בסטיית תקן של 8 גרם.

1) מה אחוז חפיסות השוקולד ששוקלות מתחת ל-110 גרם?

2) מה אחוז חפיסות השוקולד השוקלות מעל 110 גרם?

3) מה אחוז חפיסות השוקולד השוקלות מתחת ל 92 גרם?

4) מהו המשקל ש-90% מהחפיסות בקו הייצור שוקלים פחות מהם?

© כל הזכויות שמורות לברק קנדל

שאלות:

1) הגובה של אנשים באוכלוסייה מסוימת מתפלג נורמלית עם ממוצע של 170 ס"מ וסטית תקן של 10 ס"מ.

א. מה אחוז האנשים שגובהם מתחת ל-182.4 ס"מ?

ב. מה אחוז האנשים שגובהם מעל 190 ס"מ?

ג. מה אחוז האנשים שגובהם בדיוק 173.6 ס"מ?

ד. מה אחוז האנשים שגובהם מתחת ל-170 ס"מ?

ה. מה אחוז האנשים שגובהם לכל היותר 170 ס"מ?

2) נתון שהזמן שלוקח לתרופה מסוימת להשפיע מתפלג נורמלית עם ממוצע של 30 דקות ושונות של 9 דקות רבועות.

א. מהי פרופורציית המקרים בהן התרופה תעזור אחרי יותר משעה?

ב. מה אחוז מהמקרים שבהן התרופה תעזור בין 35 ל-37 דקות?

ג. מה הסיכוי שהתרופה תעזור בדיוק תוך 36 דקות?

ד. מה שיעור המקרים שבהן ההשפעה של התרופה תסטה מ-30 דקות בפחות מ-3 דקות?

3) המשקל של אנשים באוכלוסייה מסוימת מתפלג נורמלית עם ממוצע של 60 ק"ג וסטיית תקן של 8 ק"ג.

א. מה אחוז האנשים שמשקלם נמוך מ-55 ק"ג?

ב. מהי פרופורציית האנשים באוכלוסייה שמשקלם לפחות 50 ק"ג?

ג. מהי השכיחות היחסית של האנשים באוכלוסייה שמשקלם בין 60 ל-70 ק"ג?

ד. לאיזה חלק מהאוכלוסייה משקל הסוטה מהמשקל הממוצע בלא יותר מ-4 ק"ג?

ה. מה הסיכוי שאדם אקראי ישקול מתחת ל-140 ק"ג?

4) משקל תינוקות ביום היוולדם מתפלג נורמלית עם ממוצע של 3300 גרם וסטיית תקן 400 גרם.

א. מצאו את העשירון העליון.

ב. מצאו את האחוזון ה-95.

ג. מצאו את העשירון התחתון.

© כל הזכויות שמורות לברק קנדל

5) ציוני מבחן אינטליגנציה מתפלגים נורמלית עם ממוצע 100 ושונות 225.

א. מה העשירון העליון של הציונים במבחן האינטיליגנציה?

ב. מה העשירון התחתון של ההתפלגות?

ג. מהו הציון ש-20% מהנבחנים מקבלים מעליו?

ד. מהו האחוזון ה-20?

ה. מהו הציון ש-5% מהנבחנים מקבלים מתחתיו?

6) נפח משקה בבקבוק מתפלג נורמלית עם סטיית תקן של 20 מ"ל, ונתון ש-33% מהבקבוקים בעלי נפח שעולה על 508.8 מ"ל.

א. מה ממוצע נפח משקה בבקבוק?

ב. 5% מהבקבוקים המיוצרים עם הנפח הגבוה ביותר נשלחים לבדיקה, החל מאיזה נפח שולחים בקבוק לבדיקה?

ג. 1% מהבקבוקים עם הנפח הקטן ביותר נתרמים לצדקה, מהו הנפח המקסימלי לצדקה?

7) אורך חיים של מכשיר מתפלג נורמלית. ידוע שמחצית מהמכשירים חיים פחות מ-500 שעות, כמו כן ידוע ש-67% מהמכשירים חיים פחות מ-544 שעות.

א. מהו ממוצע אורך חיי מכשיר?

ב. מהי סטית בתקן של אורך חיי מכשיר?

ג. מה הסיכוי שמכשיר אקראי יחיה פחות מ-460 שעות?

ד. מהו המאיון העליון של אורח חיי מכשיר?

ה. 1% מהמכשירים בעלי אורך החיים הקצר ביותר נשלח למעבדה לבדיקה מעמיקה. מהו אורך החיים המקסימלי לשליחת מכשיר למעבדה?

8) להלן שלוש התפלגויות נורמליות של שלוש קבוצות שונות ששורטטו באותה מערכת צירים. ההתפלגויות מוספרו כדי להבדיל ביניהן.

א. לאיזו התפלגות הממוצע הגבוה ביותר?

ב. במה מבין המדדים הבאים התפלגות 1 ו-2 זהות?

i. בעשירון העליון.

ii. בממוצע.

iii. בשונות.

ג. לאיזו התפלגות סטיית התקן הקטנה ביותר?

i. 1.

ii. 2.

iii. 3.

iv. אין לדעת.

© כל הזכויות שמורות לברק קנדל

9) הזמן שלוקח לאדם להגיע לעבודתו מתפלג נורמלית עם ממוצע של 40 דקות וסטית תקן של 5 דקות.

א. מה ההסתברות שמשך הנסיעה של האדם לעבודתו יהיה לפחות שלושת רבעי השעה?

ב. אדם יצא לעבודתו בשעה 08:10 מביתו. הוא צריך להגיע לעבודתו בשעה 09:00. מה הסיכוי שיאחר לעבודתו?

ג. אם ידוע שזמן נסיעתו לעבודה היה יותר משלושת רבעי השעה. מה ההסתברות שזמן הנסיעה הכולל יהיה פחות מ-50 דקות?

ד. מה הסיכוי שבשבוע (חמישה ימי עבודה) בדיוק פעם אחת יהיה זמן הנסיעה לפחות שלושת רבעי השעה?

10) אורך שיר אקראי המשודר ברדיו מתפלג נורמלית עם תוחלת של 3.5 דקות וסטיית תקן של שלושים שניות.

א. מה ההסתברות שאורך של שיר אקראי המנוגן ברדיו יהיה בין 3 ל-2.5 דקות?

ב. מהו הטווח הבין רבעוני של אורך שיר המשודר ברדיו?

ג. ביום מסוים מנוגנים 200 שירים ברדיו. כמה שירים מתוכם תצפה שיהיו באורך הנמוך מ-3.5 דקות?

ד. בשעה מסוימת שודרו 8 שירים. מה ההסתברות שרבע מהם בדיוק היו ארוכים מ-4 דקות והיתר לא?

© כל הזכויות שמורות לברק קנדל

תשובות סופיות:

1)	א. 89.25%	ב. 2.28%	ג. 0	ד. 50%	ה. 50%
2)	א. 0%	ב. 3.76%	ג. 0%	ד. 68.26%	
3)	א. 26.43%	ב. 89.44%	ג. 39.44%	ד. 0.383	
	ה. 100%				
4)	א. 3812.8	ב. 3958	ג. 2787.2		
5)	א. 119.2	ב. 80.8	ג. 112.6	ד. 87.4	
6)	א. 500	ב. 532.9	ג. 453.48		
7)	א. 500	ב. 100	ג. 0.3446	ד. 733	
	ה. 267				
8)	א. 3	ב. בממוצע.	ג. 1		
9)	א. 0.1587	ב. 0.0228	ג. 0.8563	ד. 0.3975	
10)	א. 0.1359	ב. 0.675	ג. 100	ד. 0.25	

© כל הזכויות שמורות לברק קנדל

סטטיסטיקה ב

פרק 2 - התפלגות הדגימה ומשפט הגבול המרכזי

תוכן העניינים

1. התפלגות ממוצע המדגם ומשפט הגבול המרכזי..... 9

התפלגות ממוצע המדגם ומשפט הגבול המרכזי:

רקע:

בפרק זה נדון בהתפלגות של ממוצע המדגם: $\bar{x}=\frac{\sum x_i}{n}$.

מכיוון שממדגם למדגם אנו יכולים לקבל ממוצע מדגם שונה, אזי ממוצע המדגם הוא משתנה מקרי ויש לו התפלגות.

גדלים המתארים התפלגות כלשהי או אוכלוסייה כלשהי נקראים פרמטרים.

להלן רשימה של פרמטרים החשובים לפרק זה:

ממוצע האוכלוסייה נסמן ב- μ (נקרא גם תוחלת).

שונות אוכלוסייה נסמן ב- σ^2.

סטיית תקן של אוכלוסייה: σ.

תכונות התפלגות:

ממוצע כל ממוצעי המדגם האפשריים שווה לממוצע האוכלוסייה: $E(\bar{x})=\mu_{\bar{x}}=\mu$.

שונות כל ממוצעי המדגם האפשריים שווה לשונות האוכלוסייה מחולק ב- n.

תכונה זו נכונה רק במדגם מקרי: $V(\bar{x})=\sigma_{\bar{x}}^2=\frac{\sigma^2}{n}$.

יש יחס הפוך בין גודל המדגם לבין שונות ממוצעי המדגם.

אם נוציא שורש לשונות נקבל סטיית תקן של ממוצע המדגם שנקראת גם

טעות תקן: $\sigma(\bar{x})=\sqrt{\frac{\sigma^2}{n}}=\frac{\sigma}{\sqrt{n}}$.

דוגמה (פתרון בהקלטה):

השכר הממוצע במשק הינו 9000 ₪ עם סטיית תקן של 4000. דגמו באקראי 25 עובדים.

א. מיהי אוכלוסיית המחקר? מהו המשתנה הנחקר?

ב. מהם הפרמטרים של האוכלוסייה?

ג. מה התוחלת ומהי סטית התקן של ממוצע המדגם?

© כל הזכויות שמורות לברק קנדל

דגימה מהתפלגות נורמאלית:

אם נדגום מתוך אוכלוסייה שהמשתנה בה מתפלג נורמאלית עם ממוצע μ ושונות σ^2.

ממוצע המדגם גם יתפלג נורמאלית: $Z_{\bar{x}} = \frac{\bar{x}-\mu}{\frac{\sigma}{\sqrt{n}}}$, $\bar{x} \sim N\left(\mu, \frac{\sigma^2}{n}\right)$.

דוגמה (פתרון בהקלטה):

משקל תינוק ביום היוולדו מתפלג נורמאלית עם ממוצע 3400 גרם וסטיית תקן של 400 גרם.
מה ההסתברות שבמדגם של 4 תינוקות אקראיים בעת הולדתם המשקל הממוצע של התינוקות יהיה מתחת ל-3.5 ק"ג?

משפט הגבול המרכזי:

אם אוכלוסייה מתפלגת כלשהו עם ממוצע μ ושונות σ^2 אזי עבור מדגם מספיק גדול $(n \geq 30)$ ממוצע המדגם מתפלג בקירוב נורמאלי: $\bar{x} \sim\succ N\left(\mu, \frac{\sigma^2}{n}\right)$.

דוגמה (פתרון בהקלטה):

משקל חפיסת שוקולד בקו ייצור מתפלג עם ממוצע 100 גרם וסטיית תקן של 4 גרם.
דגמו מקו הייצור 36 חפיסות שוקולד אקראיות.
מה ההסתברות שהמשקל הממוצע של חפיסות השוקולד שנדגמו יהיה מתחת ל-102 גרם?

© כל הזכויות שמורות לברק קנדל

שאלות:

1) מתוך כלל הסטודנטים במכללה שסיימו סטטיסטיקה א נדגמו שני סטודנטים. נתון שממוצע הציונים של כלל הסטודנטים היה 78 עם סטיית תקן של 15.

א. מיהי האוכלוסייה?

ב. מה המשתנה?

ג. מהם הפרמטרים?

ד. מהו גודל המדגם?

ה. מהו תוחלת ממוצע המדגם?

ו. מהי טעות התקן?

2) משקל תינוק ביום היוולדו מתפלג נורמאלית עם ממוצע 3400 גרם וסטיית תקן של 400 גרם.

א. מה ההסתברות שתינוק אקראי בעת הלידה ישקול פחות מ-3800 גרם?

נתון כי ביום מסוים נולדו 4 תינוקות.

ב. מה ההסתברות שהמשקל הממוצע שלהם יעלה על 4 ק"ג?

ג. מה ההסתברות שהמשקל הממוצע של התינוקות יהיה מתחת ל-2.5 ק"ג?

ד. מה ההסתברות שהמשקל הממוצע של התינוקות יהיה רחוק מהתוחלת בלא יותר מ-50 גרם?

ה. הסבירו ללא חישוב כיצד התשובה לסעיף הקודם הייתה משתנה אם היה מדובר על יותר מ-4 תינוקות?

3) הגובה של המתגייסים לצה"ל מתפלג נורמאלית עם תוחלת של 175 ס"מ וסטיית תקן של 10 ס"מ. ביום מסוים התגייסו 16 חיילים.

א. מה ההסתברות שהגובה הממוצע שלהם יהיה לפחות 190 ס"מ?

ב. מה ההסתברות שהגובה הממוצע שלהם יהיה בדיוק 180 ס"מ?

ג. מה ההסתברות שהגובה הממוצע שלהם יסטה מתחולת הגבהים בפחות מ-5 ס"מ?

ד. מהו הגובה שבהסתברות של 90% הגובה הממוצע של המדגם יהיה נמוך ממנו?

© כל הזכויות שמורות לברק קנדל

4) הזמן הממוצע שלוקח לאדם להגיע לעבודתו 30 דקות עם שונות של 16 דקות רבועות. האדם נוסע לעבודה במשך שבוע 5 פעמים.
לצורך הפתרון הניחו שזמן הנסיעה לעבודה מתפלג נורמאלית.

א. מה ההסתברות שבמשך שבוע משך הנסיעה הממוצע יהיה מעל 33 דקות?

ב. מהו הזמן שבהסתברות של 90% ממוצע משך הנסיעה השבועי יהיה גבוה ממנו?

ג. מה ההסתברות שממוצע משך הנסיעה השבועי יהיה מרוחק מ-30 דקות בלפחות 2 דקות?

ד. כיצד התשובה לסעיף הקודם הייתה משתנה אם האדם היה נוסע לעבודה 6 פעמים בשבוע?

5) נפח היין בבקבוק מתפלג נורמאלית עם תוחלת של 750 סמ"ק וסטיית תקן של 10 סמ"ק.

א. בארגז 4 בקבוקי יין. מה ההסתברות שהנפח הממוצע של הבקבוקים בארגז יהיה בדיוק 755 סמ"ק?

ב. בארגז 4 בקבוקי יין. מה ההסתברות שהנפח הממוצע של הבקבוקים בארגז יהיה יותר מ-755 סמ"ק?

ג. בארגז 4 בקבוקי יין. מה ההסתברות שהנפח הממוצע של הבקבוקים בארגז יהיה לפחות 755 סמ"ק?

ד. בקבוקיי היין שבארגז נמזגים לקערה עם קיבולת של שלושה ליטר. מה ההסתברות שהיין יגלוש מהקערה?

6) משתנה מתפלג נורמאלית עם תוחלת 80 וסטיית תקן 4.

א. מה ההסתברות שממוצע המדגם יסטה מתוחלתו בלא יותר מיחידה כאשר גודל המדגם הוא 9?

ב. מה ההסתברות שממוצע המדגם יסטה מתוחלתו בלא יותר מיחידה שגודל המדגם הוא 16?

הסבר את ההבדל בתשובות של שני הסעיפים.

7) לפי הערכות הלשכה המרכזית לסטטיסטיקה השכר הממוצע במשק הוא 8000 ₪ עם סטיית תקן של 3000 ₪.
מה ההסתברות שבמדגם מקרי של 100 עובדים השכר הממוצע יהיה יותר מ-8500 ₪?

© כל הזכויות שמורות לברק קנדל

8) אורך צינור שמפעל מייצר הינו עם ממוצע של 70 ס"מ וסטיית תקן של 10 ס"מ.

א. נלקחו באקראי 100 מוטות, מה ההסתברות שממוצע אורך המוטות יהיה בין 68 ל 78 ס"מ?

ב. יש לחבר 2 בניינים באמצעות מוטות. המרחק בין שני הבניינים הינו 7200 ס"מ. מה ההסתברות ש 100 המוטות יספיקו למלאכה?

ג. מה צריך להיות גודל המדגם המינימאלי, כדי שבהסתברות של 5% ממוצע המדגם יהיה קטן מ-69 ס"מ. היעזרו במשפט הגבול המרכזי.

9) נתון ש- $X \sim N\left(\mu,\sigma^2\right)$. דגמו 5 תצפיות מאותה התפלגות והתבוננו בממוצע המדגם $\bar{X}$. לכן: $P\left(\bar{X} > \mu\right)$ יהיה (בחרו בתשובה הנכונה):

א. 0.

ב. 0.5.

ג. 1.

ד. לא ניתן לדעת.

10) נתון ש- X מתפלג כלשהו עם תוחלת μ ושונות σ^2.
החליטו לבצע מדגם בגודל 200 מתוך ההפלגות הנתונה לפי משפט הגבול המרכזי מתקיים (בחרו בתשובה הנכונה):

א. $X \sim N\left(\mu,\frac{\sigma^2}{200}\right)$.

ב. $\mu \sim N\left(\mu,\frac{\sigma^2}{200}\right)$.

ג. $\bar{X} \sim N\left(\mu,\sigma^2\right)$.

ד. $\bar{X} \sim N\left(\mu,\frac{\sigma^2}{200}\right)$.

11) נתון ש- $X \sim N\left(\mu,\sigma^2\right)$. אם נדגום n תצפיות מתוך ההתפלגות ונגדיר: $\bar{X} = \frac{\sum_{i=1}^{n} X_i}{n}$,
אזי (בחרו בתשובה הנכונה):

א. μ ו- $\bar{X}$ יהיו משתנים מקריים.

ב. μ יהיה משתנה מקרי ו- $\bar{X}$ קבוע.

ג. $\bar{X}$ יהיה משתנה מקרי ו- μ קבוע.

ד. μ ו- $\bar{X}$ יהיו קבועים.

© כל הזכויות שמורות לברק קנדל

תשובות סופיות:

1) א. כלל הסטודנטים במכללה שסיימו סטטיסטיקה א. ב. ציון.
ג. ממוצע: 78, סטיית תקן: 15. ד. 2.
ה. 78. ו. 10.6.

2) א. 0.8413. ב. 0.0013. ג. 0. ד. 0.1974.

3) א. 0. ב. 0. ג. 0.9544. ד. 178.205.

4) א. 0.0465. ב. 27.71. ג. 0.2628. ד. התשובה הייתה קטנה.

5) א. 0. ב. 0.1587. ג. 0.1587. ד. 0.5.

6) א. 0.5468. ב. 0.6826.

7) 0.0475.

8) א. 0.9772. ב. 0.0228. ג. 271.

9) ב'.

10) ד'.

11) ג'.

© כל הזכויות שמורות לברק קנדל

סטטיסטיקה ב

פרק 3 - הסקה סטטיסטית - הקדמה

תוכן העניינים

1. כללי 15

הסקה סטטיסטית – הקדמה:

רקע:

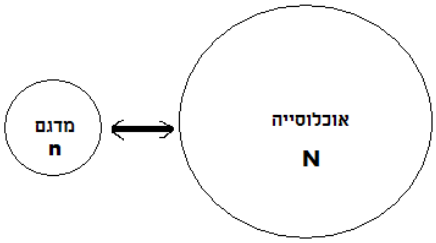

אוכלוסייה:
קבוצה שאליה מפנים שאלה מחקרית.
למשל, חברת תרופות שמעוניינת לפתח תרופה למחלת הסוכרת מתעניינת באוכלוסיית חולי הסוכרת בעולם.

מדגם:

חלק מתוך האוכלוסייה.
למשל, אם נדגום באקראי 10 אנשים מתוך חולי הסוכרת אז זהו מדגם מתוך אוכלוסיית חולי הסוכרת.

במקרים רבים אין אפשרות לחקור את כל האוכלוסייה כיוון שאין גישה לכולה, היא גדולה מידי, אנו מוגבלים בזמן ובאמצעים טכניים ולכן מבצעים מדגם במטרה לבצע הסקה סטטיסטית מהמדגם לאוכלוסייה.
הדגימה בקורס תהיה דגימה מקרית - הכוונה לדגימה שבה לכל תצפית באוכלוסייה יש את אותו סיכוי להיכלל במדגם.

סטטיסטי:

גודל המחושב על המדגם.

פרמטר:

גודל המתאר את האוכלוסייה.

© כל הזכויות שמורות לברק קנדל

הסימונים לפרמטר וסטטיסטי הם שונים:

	סטטיסטי (מדגם)	פרמטר (אוכלוסייה)
ממוצע	$\overline{X}$	μ
פרופורציה (שכיחות יחסית)	$\hat{p}$	P

פרמטר הוא גודל קבוע גם אם אנו לא יודעים אותו סטטיסטי הוא משתנה ממדגם למדגם ולכן יש לו התפלגות הנקראת התפלגות הדגימה.

דוגמה (פתרון בהקלטה):

25% מאזרחי המדינה תומכים בהצעת החוק של חבר כנסת מסוים.
הוחלט לדגום 200 אזרחים ומתוכם לבדוק מהו אחוז התומכים בהצעת החוק.

א. מי האוכלוסייה?

ב. מה המשתנה?

ג. מה הפרמטרים?

ד. מהו גודל המדגם?

ה. מהו הסטטיסטי שמתכננים להוציא מהמדגם?

ו. האם הפרמטר או הסטטיסטי הוא משתנה מקרי?

© כל הזכויות שמורות לברק קנדל

שאלות:

1) מתוך כלל הסטודנטים במכללה שסיימו סטטיסטיקה א נדגמו שני סטודנטים. נתון שממוצע הציונים של כלל הסטודנטים היה 78 עם סטיית תקן של 15.

א. מי האוכלוסייה?

ב. מה המשתנה?

ג. מהם הפרמטרים?

ד. מהו גודל המדגם?

2) להלן התפלגות מספר מקלטי הטלוויזיה למשפחה בישוב "העוגן".
נגדיר את X להיות מספר המקלטים של משפחה אקראית. מתכננים לדגום מאוכלוסייה זו 4 משפחות ולהתבונן בממוצע מספר מקלטי הטלוויזיה במדגם.

א. מיהי האוכלוסייה ומהו המשתנה הנחקר?

ב. מהו הסטטיסטי שיילקח מהמדגם ומה סימונו?

מספר המשפחות	מספר מקלטים
50	0
250	1
350	2
300	3
50	4
סך הכול $N=1000$	

3) נתון כי 20% מהשכירים במדינה הם אקדמאיים. נבחרו באקראי 10 שכירים באותה אוכלוסייה ומתכננים לפרסם את מספר האקדמאיים שנדגמו.

א. מהי האוכלוסייה?

ב. מה המשתנה באוכלוסייה?

ג. מהם הפרמטרים?

ד. מהו הסטטיסטי?

תשובות סופיות:

1) א. כלל הסטודנטים במכללה שסיימו סטטיסטיקה א. ב. ציון.
ג. ממוצע: 78, סטיית תקן: 15. ד. 2.

2) א. האוכלוסייה: 1000 משפחות בישוב העוגן, המשתנה הנחקר: מס' מקלטים.
ב. $\bar{X}$ = ממוצע מדגם.

3) א. השכירים במדינה. ב. השכלה: אקדמאי, לא אקדמאי.
ג. שיעור ההצלחות באוכלוסייה: 0.2. ג. מס' האקדמאים במדגם.

© כל הזכויות שמורות לברק קנדל

סטטיסטיקה ב

פרק 4 - רווח סמך לתוחלת (ממוצע)

תוכן העניינים

1. רווח סמך כששונות האוכלוסיה ידועה 18
2. קביעת גודל מדגם 24

רווח סמך כששונות האוכלוסייה ידועה:

רקע:

ממוצע המדגם הוא אומד לממוצע האוכלוסייה, אך לא באמת ניתן להבין ממנו על גודלו של ממוצע האוכלוסייה. ההסתברות שממוצע המדגם יהיה בדיוק כמו הממוצע האמתי הוא אפסי.
מה שנהוג לעשות כדי לאמוד את ממוצע האוכלוסייה, זה לבנות רווח סמך.
נבנה מרווח בטחון שהסיכוי שהפרמטר μ ייכלל בתוכו הוא: $1-\alpha$.
$1-\alpha$: נקרא רמת בטחון או רמת סמך. כך ש: $P(A \le \mu \le B)=1-\alpha$.
A - גבול התחתון של רווח הסמך.
B - הגבול העליון של רווח הסמך.
$L=B-A$ - אורך רווח הסמך.

דוגמה (פתרון בהקלטה):

חוקר דגם 25 חיילים שנבחנו במבחן הפסיכומטרי. הוא בנה רווח סמך לממוצע הציונים במבחן הפסיכומטרי בקרב אוכלוסיית החיילים וקיבל בין 510 ל-590.
רווח הסמך נבנה ברמת סמך של 95%.

1. מהי אוכלוסיית המחקר?
2. מה המשתנה באוכלוסייה?
3. מה הפרמטר שהחוקר רצה לאמוד?
4. מהו רווח הסמך?
5. מה אורך רווח הסמך?
6. מהי רמת הביטחון של רווח הסמך?

© כל הזכויות שמורות לברק קנדל

בפרק זה נרצה לבנות רווח סמך לתוחלת (μ) במקרה ש- σ^2 (שונות האוכלוסייה) ידועה.

פרמטר אותו נרצה לאמוד: μ.

אומד נקודתי: $\bar{x}$.

תנאים לבניית רווח הסמך: $X \sim N$ או $n \geq 30$.

σ^2 (שונות האוכלוסייה) ידועה.

נוסחה לרווח הסמך: $\bar{x} \pm Z_{1-\frac{\alpha}{2}} \cdot \frac{\sigma}{\sqrt{n}}$.

דוגמה (פתרון בהקלטה):

על פי נתוני היצרן אורך חיי סוללה מתפלג נורמאלית עם סטיית תקן של 1 שעה. מעוניינים לאמוד את תוחלת חיי סוללה. נדגמו באקראי 4 סוללות, אורך החיים הממוצע שהתקבל הוא 13.5 שעות. בנו רווח סמך ברמת סמך של 95% לתוחלת אורך חיי סוללה.

שגיאת האמידה המקסימלית: $\varepsilon = Z_{1-\frac{\alpha}{2}} \cdot \frac{\sigma}{\sqrt{n}}$.

ε - נותן את שגיאת האמידה המקסימלית, דבר שנקרא גם טעות סטטיסטית, טעות דגימה.

דוגמה (פתרון בהקלטה):

בהמשך לשאלה עם הסוללות. מה ניתן להגיד בביטחון של 95% על שגיאת האמידה?

קשרים מתמטיים ברווח הסמך:

- אורך רווח הסמך הוא פעמיים שגיאת האמידה המקסימלית: $L = 2\varepsilon$.
- ממוצע המדגם נופל תמיד באמצע רווח הסמך: $\bar{X} = \frac{A+B}{2}$.
- ככל שמספר התצפיות (n) גבוה יותר, כך יש יותר אינפורמציה ולכן האומד יותר מדויק, ולכן נקבל רווח סמך יותר קצר.
- ככל שרמת הביטחון $(1-\alpha)$ גבוהה יותר, כך: $z_{1-\frac{\alpha}{2}}$ יותר גבוה, ורווח הסמך יותר ארוך.

© כל הזכויות שמורות לברק קנדל

שאלות:

1) חוקר התעניין לאמוד את השכר הממוצע במשק. על סמך מדגם הוא קבע שבביטחון של 95% כי השכר הממוצע במשק נע בין 9200 ל-9800 ₪.

א. מי האוכלוסייה במחקר?

ב. מה המשתנה הנחקר?

ג. מה הפרמטר שאותו רוצים לאמוד?

ד. מה רווח הסמך לפרמטר?

ה. מהי רמת הסמך לפרמטר?

ו. מה אורך רווח הסמך?

ז. מה הסיכוי שטעות הדגימה תעלה על 300 ₪?

2) מעוניינים לאמוד את התפוקה היומית הממוצעת של מפעל מסוים ברמת סמך של 95%. במדגם אקראי של 100 ימים התקבלה תפוקה ממוצעת 4950 מוצרים ביום. לצורך פתרון הנח שסטיית התקן האמתית ידועה ושווה 150 מוצרים ביום. בנו את רווח הסמך.

3) מעוניינים לאמוד את ממוצע אורך החיים של מכשיר. מנתוני היצרן ידוע שאורך החיים מתפלג נורמאלית עם סטיית תקן של 20 שעות. נדגמו 25 מכשירים ונמצא כי ממוצע אורך החיים שלהם היה 230 שעות.

א. בנו רווח סמך ברמת סמך של 90% לאורך החיים הממוצע של מכשיר.

ב. בנו רווח סמך ברמת סמך של 95% לאורך החיים הממוצע של מכשיר.

ג. הסבירו כיצד ומדוע השתנה רווח הסמך.

4) דגמו 200 עובדים מהמשק הישראלי. השכר הממוצע שלהם היה 9700 ₪. נניח שסטיית התקן של השכר במשק היא 3000 ₪.

א. בנו רווח סמך ברמת סמך של 95% לתוחלת השכר במשק.

ב. מה ניתן לומר בביטחון של 95% על הסטייה המרבית בין ממוצע המדגם לתוחלת השכר?

ג. מה היה צריך להיות גודל המדגם אם הינו רוצים להקטין את רווח הסמך ב-50%?

ד. אם היינו מגדילים את גודל המדגם ובונים רווח סמך באותה רמת סמך האם היה ניתן לטעון בביטחון רב יותר שרווח הסמך מכיל את הפרמטר?

© כל הזכויות שמורות לברק קנדל

5) בנו רווח סמך לממוצע הציונים של מבחן אינטליגנציה. ידוע שסטיית התקן היא 15 והמדגם מתבסס על 100 תצפיות. רווח הסמך שהתקבל הוא (105,99). שחזרו את:

א. ממוצע המדגם.

ב. שגיאת האמידה המקסימאלית.

ג. רמת הסמך.

6) זמן החלמה מאנגינה מתפלג עם סטיית תקן של יומיים. חברת תרופות מעוניינת לחקור אנטיביוטיקה חדשה שהיא פיתחה. במחקר השתתפו 60 אנשים שחלו באנגינה וקיבלו את האנטיביוטיקה החדשה. בממוצע הם החלימו לאחר 4 ימים.

א. בנו רווח סמך לתוחלת זמן ההחלמה תחת האנטיביוטיקה החדשה ברמת סמך של 90%.

ב. מה היה קורה לאורך רווח הסמך אם היה תקציב להגדלת גודל המדגם פי 4? הסבירו.

ג. מה היה קורה לאורך רווח הסמך אם היינו בונים את רווח הסמך ברמת סמך גדולה יותר? הסבירו.

7) חוקר בנה רווח סמך לממוצע וקיבל את רווח הסמך הבא: $82 < \mu < 92$.
נתון שסטיית התקן בהתפלגות שווה ל-10 ושהמדגם מתבסס על 16 תצפיות. התפלגות המשתנה היא נורמאלית.

א. מהו ממוצע המדגם?

ב. מהי רמת הסמך של רווח הסמך שנבנה?

ג. מה הסיכוי ששגיאת האמידה באמידת ממוצע האוכלוסייה תעלה על 5?

8) חוקר בנה רווח סמך לתוחלת כאשר השונות בהתפלגות ידועה ברמת סמך של 95%. אם החוקר כעת יבנה על סמך אותם נתונים רווח סמך ברמת סמך קטנה מ-95%, איזה מהמשפטים הבאים לא יהיה נכון.

א. אורך רווח הסמך החדש יהיה קטן יותר.

ב. גודל המדגם יהיה כעת קטן יותר.

ג. המרחק בין ממוצע המדגם לקצות רווח הסמך יהיו קטנים יותר ברווח הסמך החדש.

ד. רמת הביטחון לבנות רווח הסמך החדש תהיה קטנה יותר.

© כל הזכויות שמורות לברק קנדל

9) חוקר בנה רווח סמך ל- μ וקיבל: $48 < \mu < 54$. מה נכון בהכרח:

א. $\mu = 51$.

ב. $\overline{X} = 6$.

ג. $\overline{X} = 51$.

ד. אורך רווח הסמך הינו 3.

10) איזה מהגורמים הבאים אינו משפיע על גודלו של רווח בר סמך, כאשר שונות האוכלוסייה ידועה (בחרו בתשובה הנכונה):

א. רמת הביטחון.

ב. סטיית התקן באוכלוסייה.

ג. מספר המשתתפים.

ד. סטיית התקן במדגם.

11) חוקר בנה רווח סמך לממוצע וקיבל את רווח הסמך הבא: $63 < \mu < 83$.
נתון שסטיית התקן בהתפלגות הייתה ידועה לו ושהמדגם התבסס על 40 תצפיות.

א. אם החוקר היה רוצה לבנות רווח סמך באורך 10.
כמה תצפיות עליו היה לדגום?

ב. רווח הסמך שנבנה על ידי החוקר היה ברמת סמך של 95%.
בנו את רווח הסמך שהיה מתקבל ברמת סמך של 98%.

12) נתון משתנה מקרי רציף מתפלג אחיד: $X_i \sim U(\mu - 0.5, \mu + 0.5)$.
נרצה לאמוד את μ. מצאו רווח סמך ל- μ ברמת-בטחון של 0.95 אם במדגם של 45 תצפיות התקבל: $\bar{x} = 74$.

(תזכורת על השונות בהתפלגות אחידה רציפה: $Var(X_i) = \frac{(b-a)^2}{12}$).

© כל הזכויות שמורות לברק קנדל

תשובות סופיות:

1) א. העובדים במשק. ב. שכר ב-₪. ג. μ. ד. $9200 < \mu < 9800$.
ה. 0.95. ו. 600. ז. 0.05.

2) $4920.6 < \mu < 4979.4$.

3) א. $223.42 < \mu < 236.58$. ב. $222.16 < \mu < 237.84$.
ג. ראה סרטון.

4) א. $9284 < \mu > 10,116$. ב. הסטיה המירבית בין $\bar{x}$ ל- μ היא 416 ₪ בביטחון של 95%.
ג. 800. ד. לא.

5) א. 102. ב. 3. ג. 0.9544.

6) א. $83.5 < \mu < 4.42$. ב. יקטן פי 2. ג. גדל.

7) א. 87. ב. 5. ג. 0.9544.

8) ב'.

9) ג'.

10) ד'.

11) א. 160. ב. $61.13 < \mu < 84.87$.

12) 74 ± 0.084.

© כל הזכויות שמורות לברק קנדל

קביעת גודל מדגם:

רקע:

אם מעוניינים לאמוד את ממוצע האוכלוסייה כאשר סטיית התקן של האוכלוסייה ידועה: σ ברמת סמך של $1-\alpha$ ושגיאת אמידה שלא תעלה על ε מסוים, נציב בנוסחה הבאה: $n \geq \left(\frac{z_{1-\frac{\alpha}{2}} \cdot \sigma}{\varepsilon} \right)^2$.

כדי להציב בנוסחה צריך שהמשתנה הנחקר יתפלג נורמלית או שהמדגם ייצא בגודל של לפחות 30 תצפיות.

דוגמה (פתרון בהקלטה):

חברת תעופה מעוניינת לאמוד את תוחלת משקל המטען של נוסע. נניח שמשקל מטען של נוסע מתפלג נורמאלית עם סטיית תקן של 2 ק"ג. כמה נוסעים יש לדגום אם מעוניינים שבביטחון של 98% הסטייה המרבית בין ממוצע המדגם לממוצע האמתי לא יעלה על 0.5 ק"ג? (תשובה: 87).

© כל הזכויות שמורות לברק קנדל

שאלות:

1) משתנה מקרי מתפלג נורמאלית עם סטיית תקן ידועה 12.
מה צריך להיות גודל המדגם כדי לבנות רווח סמך ברמת סמך של 98% שאורכו לא יעלה על 2?

2) מעוניינים לאמוד את הדופק הממוצע של מתגייסים לצבא.
מעוניינים שבביטחון של 95% שגיאת האמידה המרבית תהיה 0.5.
נניח שהדופק מתפלג נורמאלית על סטיית תקן של 3 פעימות לדקה.

א. כמה מתגייסים יש לדגום?

ב. אם ניקח מדגם הגדול פי 4 מהמדגם של סעיף א ונאמוד את הממוצע באותה רמת סמך כיצד הדבר ישפיע על שגיאת האמידה?

3) יהי X משתנה מקרי עם ממוצע μ וסטיית תקן σ. חוקר רוצה לבנות רווח בר סמך ל- μ ברמת ביטחון של 0.95, כך שהאורך של הרווח יהיה 0.5σ.
מהו גודל המדגם הנדרש?

תשובות סופיות:

1) 780.

2) א. 139. ב. הדבר יקטין את ε פי 2.

3) $n=62$.

© כל הזכויות שמורות לברק קנדל

סטטיסטיקה ב

פרק 5 - מבוא לבדיקת השערות על פרמטרים

תוכן העניינים

1. הקדמה 26
2. סוגי טעויות 30

הקדמה:

רקע:

תהליך של בדיקת השערות הוא תהליך מאד נפוץ בעולם הסטטיסטיקה.
בבדיקת השערות על פרמטרים נעבוד לפי השלבים הבאים:

שלב א: נזהה את הפרמטר הנחקר.

שלב ב: נרשום את השערות המחקר.
השערת האפס המסומנות ב- H_0.
בדרך כלל השערת האפס מסמלת את אשר היה מקובל עד עכשיו, את השגרה, הנורמה.
השערה אלטרנטיבית (השערת המחקר) המסומנת ב- H_1.
ההשערה האלטרנטיבית מסמלת את החדשנות בעצם ההשערה האלטרנטיבית מדברת על הסיבה שהמחקר נעשה היא שאלת המחקר.

שלב ג: נבדוק האם התנאים לביצוע התהליך מתקיימים ונניח הנחות במידת הצורך.

שלב ד: נרשום את כלל ההכרעה. בתהליך של בדיקת השערות יוצרים כלל שנקרא כלל הכרעה. הכלל יוצר אזורים שנקראים:

1. **אזור דחייה:**
דחייה של השערת האפס כלומר קבלה של האלטרנטיבה.

2. **אזור קבלה:**
קבלה של השערת האפס ודחייה של האלטרנטיבה. כלל ההכרעה מתבסס על איזשהו סטטיסטי. אזור הדחיה מוכתב על ידי סיכון שלוקח החוקר מראש שנקרא רמת מובהקות ומסומן ב- α.

שלב ה: בתהליך יש ללכת לתוצאות המדגם ולחשב את הסטטיסטי המתאים ולבדוק האם התוצאות נופלות באזור הדחייה או הקבלה.

שלב ו: להסיק מסקנה בהתאם לתוצאות המדגם.

© כל הזכויות שמורות לברק קנדל

דוגמה (פתרון בהקלטה):

משרד הבריאות פרסם שמשקל ממוצע של תינוקות ביום לידתם בישראל 3300 גרם.
משרד הבריאות רוצה לחקור את הטענה שנשים מעשנות בזמן ההיריון יולדות תינוקות במשקל נמוך מהממוצע. במחקר השתתפו 20 נשים מעשנות בהריון.
להלן תוצאות המדגם שבדק את המשקל של התינוקות בעת הלידה:
$n=20$, $\overline{X}=3120$, $S=280$.

א. מהי אוכלוסיית המחקר?

ב. מה המשתנה הנחקר?

ג. מה הפרמטר הנחקר?

ד. מהן השערות המחקר?

© כל הזכויות שמורות לברק קנדל

שאלות:

בשאלות הבאות, ענו על הסעיפים הבאים:

א. מהי אוכלוסיית המחקר?

ב. מה המשתנה הנחקר?

ג. מה הפרמטר הנחקר?

ד. מהן השערות המחקר?

1) ממוצע הציונים בבחינת הבגרות באנגלית הנו 72 עם סטיית תקן 15 נקודות.
מורה טוען שפיתח שיטת לימוד חדשה שתעלה את ממוצע הציונים.
משרד החינוך החליט לתת למורה 36 תלמידים אקראיים.
ממוצע הציונים של אותם תלמידים לאחר שלמדו בשיטתו היה 75.5.

2) לפי הצהרת היצרן של חברת משקאות מסוימת נפח הנוזל בבקבוק מתפלג נורמלית עם תוחלת 500 סמ"ק וסטיית תקן 20 סמ"ק. אגודת הצרכנים מתלוננת על הפחתת נפח המשקה בבקבוק מהכמות המוצהרת. במדגם שעשתה אגודת הצרכנים התקבל נפח ממוצע של 492 סמ"ק במדגם בגודל 25.

3) במשך שנים אחוז המועמדים שהתקבל לפקולטה למשפטים היה 25%.
השנה מתוך מדגם של 120 מועמדים התקבלו 22.
מחקר מעוניין לבדוק האם השנה מקשים על הקבלה לפקולטה למשפטים.

4) בחודש ינואר השנה פורסם שאחוז האבטלה במשק הוא 8% במדגם עכשווי התקבל שמתוך 200 אנשים 6.5% מובטלים. רוצים לבדוק ברמת מובהקות של 5% האם כיום אחוז האבטלה הוא כמו בתחילת השנה.

© כל הזכויות שמורות לברק קנדל

תשובות סופיות:

1) א. נבחנים בבגרות באנגלית.
ב. ציון.
ג. ממוצע הציונים בשיטת לימוד חדשה.
ד. $H_0: \mu = 72$
$H_1: \mu > 72$.

2) א. משקאות בבקבוק של חברה מסוימת.
ב. נפח משקה בסמ"ק.
ג. ממוצע נפח המשקה בבקבוק.
ד. $H_0: \mu = 500$
$H_1: \mu < 500$.

3) א. מועמדים לפקולטה למשפטים.
ב. משתנה דיכוטומי (התקבל, לא התקבל).
ג. אחוז הקבלה.
ד. $H_0: p = 0.25$
$H_1: p < 0.25$.

4) א. אזרחים בוגרים במשק.
ב. משתנה דיכוטומי (מובטל, עובד).
ג. אחוז האבטלה כיום.
ד. $H_0: p = 0.08$
$H_1: p \neq 0.08$.

© כל הזכויות שמורות לברק קנדל

סוגי טעויות:

רקע:

בתהליך של בדיקת השערות יוצרים כלל שניקרא כלל הכרעה.
הכלל יוצר אזורים שנקראים:

1. אזור דחייה – דחייה של השערת האפס כלומר קבלה של האלטרנטיבה.
2. אזור קבלה – קבלה של השערת האפס ודחייה של האלטרנטיבה.

כלל ההכרעה מתבסס על איזשהו סטטיסטי .
בתהליך יש ללכת לתוצאות המדגם ולבדוק האם התוצאות נופלות באזור הדחייה או הקבלה וכך להגיע למסקנה – המסקנה היא בעירבון מוגבל כיוון שהיא תלויה בכלל ההכרעה ובתוצאות המדגם. אם נשנה את כלל ההכרעה אז אנחנו יכולים לקבל מסקנה אחרת. אם נבצע מדגם חדש אז אנחנו עלולים לקבל תוצאה אחרת.
לכן יתכנו טעויות במסקנות שלנו:

		הכרעה	
		H_0	H_1
מציאות	H_0	אין טעות	טעות מסוג 1
	H_1	טעות מסוג 2	אין טעות

הגדרת הטעויות:

טעות מסוג ראשון: להכריע לדחות את H_0 למרות שבמציאות H_0 נכונה.

טעות מסוג שני: להכריע לקבל את H_0 למרות שבמציאות H_1 נכונה.

דוגמה (פתרון בהקלטה):

אדם חשוד בביצוע עבירה ונתבע בבית המשפט.
אילו סוגי טעויות אפשריות בהכרעת הדין?

© כל הזכויות שמורות לברק קנדל

שאלות:

1) לפי הצהרת היצרן של חברת משקאות מסוימת נפח הנוזל בבקבוק מתפלג נורמלית עם תוחלת 500 סמ"ק וסטיית תקן 20 סמ"ק. אגודת הצרכנים מתלוננת על הפחתת נפח המשקה בבקבוק מהכמות המוצהרת. במדגם שעשתה אגודת הצרכנים התקבל נפח ממוצע של 492 סמ"ק במדגם בגודל 25. בסופו של דבר הוחלט להכריע לטובת חברת המשקאות.

א. רשמו את השערות המחקר.

ב. מה מסקנת המחקר?

ג. איזו סוג טעות יתכן וביצעו במחקר?

2) במחקר על פרמטר מסוים הוחלט בסופו של דבר לדחות את השערת האפס.

א. האם ניתן לדעת אם בוצע טעות במחקר?

ב. מה סוג הטעות האפשרית?

3) לפי נתוני משרד הפנים בשנת 1980 למשפחה ממוצעת היה 2.3 ילדים למשפחה עם סטיית תקן 0.4. ישנה טענה שכיום ממוצע מספר הילדים במשפחה קטן יותר. לצורך כך הוחלט לדגום 121 משפחות. במדגם התקבל ממוצע 2.17 ילדים למשפחה. על סמך תוצאות המדגם נקבע שלא ניתן לקבוע שבאופן מובהק תוחלת מספר הילדים למשפחה קטנה כיום.

א. מהי אוכלוסיית המחקר?

ב. מה המשתנה הנחקר?

ג. מה הפרמטר הנחקר?

ד. מה השערות המחקר?

ה. מה מסקנת המחקר?

ו. מהי סוג הטעות האפשרית במחקר?

תשובות סופיות:

1) א. $H_0: \mu = 500$, $H_1: \mu < 500$ ב. לא דחינו את H_0. ג. טעות מסוג שני.

2) א. לא ניתן לדעת. ב. טעות מסוג ראשון.

3) א. משפחות כיום. ב. מס' הילדים.

ג. תוחלת מספר הילדים למשפחה כיום. ד. $H_0: \mu = 2.3$, $H_1: \mu < 2.3$

ה. לא לדחות את H_0. ו. טעות מסוג שני.

© כל הזכויות שמורות לברק קנדל

סטטיסטיקה ב

פרק 6 - בדיקת השערות על תוחלת (ממוצע)

תוכן העניינים

1. בדיקת השערות על תוחלת (ממוצע) כששונות האוכלוסיה ידועה. 32
2. סיכוי לטעויות ועוצמה (ששונות האוכלוסיה ידועה). 36
3. מובהקות תוצאה - אלפא מינימלית (ששונות האוכלוסיה ידועה) 42
4. הקשר בין רווח סמך לבדיקת השערות על תוחלת (ממוצע). 47

בדיקת השערות על תוחלת (ממוצע) כששונות האוכלוסייה ידועה:

רקע:

השערת האפס: השערה אלטרנטיבה:	$H_0:\mu=\mu_0$ $H_1:\mu\neq\mu_0$	$H_0:\mu\geq\mu_0$ $H_1:\mu<\mu_0$	$H_0:\mu\leq\mu_0$ $H_1:\mu>\mu_0$
תנאים:	1. σ ידועה 2. $X\sim N$ או מדגם מספיק גדול		
כלל ההכרעה: אזור הדחייה של H_0:	$Z_{\bar{x}}>Z_{1-\frac{\alpha}{2}}$ או $Z_{\bar{x}}<-Z_{1-\frac{\alpha}{2}}$ 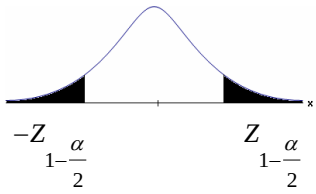 $-Z_{1-\frac{\alpha}{2}}$ $Z_{1-\frac{\alpha}{2}}$ דוחים את H_0	$Z_{\bar{x}}<-Z_{1-\alpha}$ $-Z_{1-\alpha}$ דוחים את H_0	$Z_{\bar{x}}>Z_{1-\alpha}$ $Z_{1-\alpha}$ דוחים את H_0

סטטיסטי המבחן: $Z_{\bar{x}}=\dfrac{\bar{X}-\mu_0}{\frac{\sigma}{\sqrt{n}}}$.

חלופה אחרת לכלל הכרעה:

נדחה H_0 אם מתקיים:	$\bar{X}>\mu_0+Z_{1-\frac{\alpha}{2}}\cdot\frac{\sigma}{\sqrt{n}}$ או $\bar{X}<\mu_0-Z_{1-\frac{\alpha}{2}}\cdot\frac{\sigma}{\sqrt{n}}$	$\bar{X}<\mu_0-Z_{1-\alpha}\cdot\frac{\sigma}{\sqrt{n}}$	$\bar{X}>\mu_0+Z_{1-\alpha}\cdot\frac{\sigma}{\sqrt{n}}$

© כל הזכויות שמורות לברק קנדל

דוגמה:

יבול העגבניות מתפלג נורמלית עם תוחלת של 10 טון לדונם וסטיית תקן של 2.5 טון לדונם בעונה. משערים ששיטת זיבול חדשה תעלה את תוחלת היבול לעונה מבלי לשנות את סטיית התקן. נדגמו 4 חלקות שזובלו בשיטה החדשה. היבול הממוצע שהתקבל היה 12.5 טון לדונם. בדקו את ההשערה ברמת מובהקות של 1%.

פיתרון:

אוכלוסייה: עגבניות.

המשתנה: X = יבול העגבניות בטון לעונה.

הפרמטר: μ = תוחלת היבול בשיטת הזיבול החדשה.

השערות: $H_0: \mu = 10$
$H_1: \mu > 10$.

תנאים:

1. $X \sim N$.
2. $\sigma = 2.5$.

כלל הכרעה:

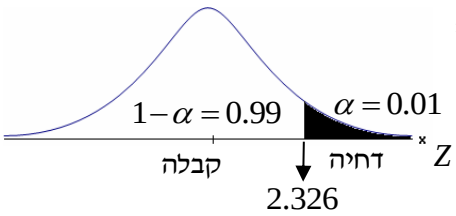

נדחה את H_0 אם $Z_{\bar{x}} > 2.326$

תוצאות: $n = 4$, $\bar{x} = 12.5$

סטטיסטי המבחן: $Z_{\bar{x}} = \dfrac{\bar{X} - \mu_0}{\frac{\sigma}{\sqrt{n}}}$.

נציב: $Z_{\bar{X}} = \dfrac{1.25 - 10}{\frac{2.5}{\sqrt{4}}} = 2 < 2.326$

מסקנה:

לא נדחה H_0 (נקבל H_0).

ברמת מובהקות של 1% לא נוכל לקבל את הטענה ששיטת הזיבול החדשה מעלה את תוחלת היבול של העגבניות.

© כל הזכויות שמורות לברק קנדל

שאלות:

1) ממוצע הציונים בבחינת הבגרות באנגלית הנו 72 עם סטיית תקן 15 נקודות.
מורה טוען שפיתח שיטת לימוד חדשה שתעלה את ממוצע הציונים. משרד החינוך החליט לתת למורה 36 תלמידים אקראיים.
ממוצע הציונים של אותם תלמידים לאחר שלמדו בשיטתו היה 75.5.
בהנחה שגם בשיטתו סטיית התקן תהיה 15 מה מסקנתכם ברמת מובהקות של 5%?

2) לפי הצהרת היצרן של חברת משקאות מסוימת נפח הנוזל בבקבוק מתפלג נורמלית עם תוחלת 500 סמ"ק וסטיית תקן 20 סמ"ק. אגודת הצרכנים מתלוננת על הפחתת נפח המשקה בבקבוק מהכמות המוצהרת. במדגם שעשתה אגודת הצרכנים התקבל נפח ממוצע של 492 סמ"ק במדגם בגודל 25.

א. מה מסקנתכם ברמת מובהקות של 2.5%?

ב. האם ניתן לדעת מה תהיה המסקנה עבור רמת מובהקות הגבוהה מ-5%?

3) מהנדס האיכות מעוניין לבדוק אם מכונה מכוילת (מאופסת). המכונה כוונה לחתוך מוטות באורך 50 ס"מ. לפי נתוני היצרן סטיית התקן בחיתוך המוטות היא 0.5 ס"מ. במדגם של 50 מוטות התקבל ממוצע אורך המוט 50.93 ס"מ.
מה מסקנתכם ברמת מובהקות של 5%?

4) המשקל הממוצע של הספורטאים בתחום ספורט מסוים הוא 90 ק"ג, עם סטיית תקן 8 ק"ג. לפי דעת מומחים בתחום יש צורך בהורדת המשקל ובשימוש בדיאטה מסוימת שצריכה להביא להורדת המשקל. לשם בדיקת יעילות הדיאטה נלקח מדגם מקרי של 50 ספורטאים ובתום שנה של שימוש בדיאטה התברר שהמשקל הממוצע במדגם זה היה 84 ק"ג.
יש לבדוק בר"מ של 10%, האם הדיאטה גורמת להורדת המשקל.

5) לפי מפרט נתון, על עובי בורג להיות 4 מ"מ עם סטיית תקן של 0.2 מ"מ.
במדגם של 25 ברגים העובי הממוצע היה 4.07 מ"מ.
קבעו ברמת מובהקות 0.05, האם עובי הברגים מתאים למפרט.
הניחו כי עובי של בורג מתפלג נורמלית וסטיית התקן של עובי בורג היא אכן 0.2 מ"מ.

6) במחקר נמצא שתוצאה היא מובהקת ברמת מובהקות של 5% מה תמיד נכון?
בחרו בתשובה הנכונה.

א. הגדלת רמת המובהקות לא תשנה את מסקנת המחקר.

ב. הגדלת רמת המובהקות תשנה את מסקנת המחקר.

ג. הקטנת רמת המובהקות לא תשנה את מסקנת המחקר.

ד. הקטנת רמת המובהקות תשנה את מסקנת המחקר.

© כל הזכויות שמורות לברק קנדל

7) חוקר ערך מבחן דו צדדי ברמת מובהקות של α והחליט לדחות את השערת האפס.
אם החוקר היה עורך מבחן צדדי ברמת מובהקות של $\frac{\alpha}{2}$ אזי בהכרח:

א. השערת האפס הייתה נדחית.
ב. השערת האפס הייתה לא נדחית.
ג. לא ניתן לדעת מה תהיה מסקנתו במקרה זה.

8) שני סטטיסטיקאים בדקו השערות: $H_0: \mu = \mu_0$ כנגד $H_1: \mu > \mu_0$,
עבור שונות ידועה ובאותה רמת מובהקות.
שני החוקרים קבלו אותו ממוצע במדגם אך לחוקר א' היה מדגם בגודל 100 ולחוקר ב' מדגם בגודל 200.

א. אם חוקר א' החליט לדחות את H_0, מה יחליט חוקר ב'? נמקו.
ב. אם חוקר א' יחליט לא לדחות את H_0, מה יחליט חוקר ב'? נמקו.

תשובות סופיות:

1) נקבל H_0, בר"מ של 5% לא נקבל את הטענה של המורה ששיטת הלימוד שלו מעלה את ממוצע הציונים.
2) א. נדחה H_0, בר"מ של 2.5% נקבל את תלונת אגודת הצרכנים בדבר הפחתת נפח המשקה בבקבוק.
ב. הגדלנו את רמת המובהקות לכן אנחנו נשארים בדחייה של H_0 והמסקנה לא תשתנה.
3) נדחה H_0, בר"מ של 5% נקבע שהמכונה לא מאופסת.
4) נדחה H_0, בר"מ של 0.1 נקבל את הטענה שהדיאטה יעילה ומפחיתה את המשקל הממוצע.
5) נקבל H_0, בר"מ של 0.05 נכריע שתוחלת עובי הבורג מתים למפרט.
6) א'.
7) ג'.
8) א. לדחות. ב. לא ניתן לדעת.

© כל הזכויות שמורות לברק קנדל

סיכוי לטעויות ועוצמה (ששונות האוכלוסייה ידועה):

רקע:

		הכרעה	
		H_0	H_1
מציאות	H_0	אין טעות	טעות מסוג 1
	H_1	טעות מסוג 2	אין טעות

הגדרת הסתברויות:

הסיכוי לבצע טעות מסוג 1 (רמת מובהקות):

$\alpha = P(\text{לדחות את } H_0 \mid \text{נכונה } H_0) = P_{H_0}(\text{לדחות } H_0)$.

הסיכוי לבצע טעות מסוג 2:

$\beta = P(\text{לקבל את } H_0 \mid \text{נכונה } H_1) = P_{H_1}(\text{לקבל } H_0)$.

רמת בטחון:

$(\alpha - 1) = P(\text{לקבל את } H_0 \mid \text{נכונה } H_0) = P_{H_0}(\text{לקבל } H_0)$.

עוצמה:

$(\beta - 1) = \pi = P(\text{לדחות את } H_0 \mid \text{נכונה } H_1) = P_{H_1}(\text{לדחות } H_0)$.

© כל הזכויות שמורות לברק קנדל

התהליך לחישוב סיכוי לטעות מסוג שני:

השערת האפס: **השערה אלטרנטיבה:**	$H_0:\mu=\mu_0$ $H_1:\mu\neq\mu_0$	$H_0:\mu=\mu_0$ $H_1:\mu<\mu_0$	$H_0:\mu=\mu_0$ $H_1:\mu>\mu_0$
תנאים:	1. σ ידועה 2. $X\sim N$ או מדגם מספיק גדול		
כלל ההכרעה: **אזור הדחייה של H_0:**	$\bar{X}>\mu_0+Z_{1-\frac{\alpha}{2}}\cdot\frac{\sigma}{\sqrt{n}}$ או $\bar{X}<\mu_0-Z_{1-\frac{\alpha}{2}}\cdot\frac{\sigma}{\sqrt{n}}$	$\bar{X}<\mu_0-Z_{1-\alpha}\cdot\frac{\sigma}{\sqrt{n}}$	$\bar{X}>\mu_0+Z_{1-\alpha}\cdot\frac{\sigma}{\sqrt{n}}$
חישוב β:	$P_{H_1}\left(\mu_0-Z_{1-\frac{\alpha}{2}}\cdot\frac{\sigma}{\sqrt{n}}<\bar{X}<\mu_0+Z_{1-\frac{\alpha}{2}}\cdot\frac{\sigma}{\sqrt{n}}\right)$	$P_{H_1}\left(\bar{X}>\mu_0-Z_{1-\alpha}\cdot\frac{\sigma}{\sqrt{n}}\right)$	$P_{H_1}\left(\bar{X}<\mu_0+Z_{1-\alpha}\cdot\frac{\sigma}{\sqrt{n}}\right)$

התפלגות ממוצע המדגם: $\bar{X}\sim N\left(\mu,\frac{\sigma^2}{n}\right)$.

התקנון: $Z=\frac{\bar{x}-\mu}{\frac{\sigma}{\sqrt{n}}}$.

דוגמה:

בתחילת השנה חשבון הטלפון הסלולארי הממוצע לאדם היה 200₪ עם סטיית תקן של 80 ₪ לחודש. בעקבות כניסתן של חברות טלפון סלולארית חדשות מעוניינים לבדוק האם כיום ממוצע חשבון הטלפון הסלולארי פחת. לצורך בדיקה דגמו באקראי 36 אנשים וחשבון הטלפון הסלולארי שלהם היה 150 ₪ בממוצע לחודש.

א. רשמו את השערות המחקר ובנו כלל הכרעה במונחי חשבון ממוצע מדגמי ברמת מובהקות של 5%.

ב. מה מסקנתכם? איזה סוג טעות אפשרית במסקנה?

ג. נניח שבמציאות כיום החשבון הממוצע הוא 160 ₪. מה הסיכוי לבצע טעות מסוג שני?

ד. אם נקטין את רמת המובהקות מסעיף א', כיצד הדבר ישפיע על התשובה מסעיף ג'?

פתרון:

א. אוכלוסייה: משלמי חשבון טלפון סלולאר כיום.

המשתנה: X = חשבון הטלפון החודשי בשקלים.

הפרמטר: μ.

השערות: $\begin{matrix} H_0: \mu = 200 \\ H_1: \mu < 200 \end{matrix}$.

תנאים:

1. $\mu = 200$.
2. $n = 36$.

$K = \mu_0 - Z_{1-\frac{\alpha}{2}} \cdot \frac{\sigma}{\sqrt{n}}$, $\bar{X} < \mu_0 - Z_{1-\frac{\alpha}{2}} \cdot \frac{\sigma}{\sqrt{n}}$.

$\alpha = 0.05$

$Z_{1-\alpha} = Z_{0.95} = 1.645$

נציב: שקלים $K = 200 - 1.645 \cdot \frac{80}{\sqrt{36}} = 178.07$.

כלל ההכרעה: דחה את H_0 אם שקלים $\bar{X} < 178.07$.

ב. ברמת מובהקות של 5% נכריע שאכן ממוצע חשבון הטלפון הסלולרי פחת מתחילת השנה.

ג. השערות: $\begin{matrix} H_0: \mu_0 = 200 \\ H_1: \mu < 200 \end{matrix}$.

כלל ההכרעה: נדחה את H_0 אם $\bar{X} < 178.07$.

$H_1: \bar{X} \sim N\left(160, \frac{80^2}{36}\right)$.

$$Z = \frac{178.07 - 160}{\frac{80}{\sqrt{36}}} = 1.36$$

$$\beta = P_{H_1}\left(\begin{matrix}\text{לקבל את} \\ H_0\end{matrix}\right) = P_{H_1}\left(\bar{X} > 178.07\right) = 1 - \phi(136) = 1 - 0.9131 = 0.0869$$

ד. הקטנת α מגדילה את β.

שאלות:

1) נתון ש: $X \sim N\left(\mu, \sigma^2 = 1\right)$.

להלן השערות של חוקר לגבי הפרמטר μ: $H_0: \mu = 5$, $H_1: \mu = 7$.

מעוניינים ליצור כלל הכרעה המתבסס על הסמך תצפית בודדת כך שרמת המובהקות תהיה 5%.

א. עבור אילו ערכים של X שידגם נדחית השערת H_0?

ב. מה הסיכוי לבצע טעות מסוג שני?

ג. אם במדגם התקבל ש- $X = 6.9$ מה תהיה המסקנה ומה הטעות האפשרית?

2) לפי נתוני משרד הפנים בשנת 1980 למשפחה ממוצעת היה 2.3 ילדים למשפחה עם סטיית תקן 0.4. מעוניינים לבדוק אם כיום ממוצע מספר הילדים למשפחה קטן יותר. לצורך כך הוחלט לדגום 121 משפחות.
במדגם התקבל ממוצע 2.17 ילדים למשפחה.

א. רשמו כלל הכרעה במונחי ממוצע מדגם קריטי ברמת מובהקות של 5%.

ב. בהמשך לסעיף א' מה תהיה המסקנה ומהי הטעות האפשרית במסקנה?

ג. אם באמת ממוצע מספר הילדים במשפחה פחת לכדי 2.1 מהי העצמה של הכלל מסעיף א'?

3) להלן נתונים על תהליך של בדיקת השערות על תוחלת:

$H_0: \mu = 200$, $H_1: \mu \neq 200$, $\sigma = 30$, $n = 225$.

א. רשמו כלל הכרעה במונחי ממוצע מדגם קריטי וברמת מובהקות של 10%.

ב. בהמשך לסעיף א', מהי העצמה אם התוחלת שווה ל-195?

ג. הסבירו, ללא חישוב, איך העצמה תשתנה אם רמת המובהקות תהיה 5%?

4) מפעל לייצור צינורות מייצר צינור שקוטרו מתפלג נורמלית עם תוחלת של 50 מ"מ וסטית תקן של 6 מ"מ. במחלקת ביקורת האיכות דוגמים בכל יום 81 צינורות ומודדים את קוטרם, בכדי לבדוק, בעזרת מבחן סטטיסטי, האם מכונת הייצור מכוילת כנדרש או שקוטר הצינורות קטן מהדרוש.

א. רשמו את ההשערות ואת כלל ההכרעה ברמת מובהקות של 5%.

ב. אם ביום כלשהו מכונת הייצור התקלקלה והיא מייצרת את הצינורות בקוטר שתוחלתו 48 מ"מ בלבד (סטית התקן לא השתנתה), מה ההסתברות שהתקלה לא תתגלה בביקורת האיכות? כיצד נקראת הסתברות זו?

ג. הסבירו ללא חישוב כיצד התשובה לסעיף ב תשתנה אם רמת המובהקות תגדל.

ד. הסבירו ללא חישוב כיצד התשובה לסעיף ב תשתנה אם התוחלת האמיתית היא 47 ולא 48 מ"מ.

© כל הזכויות שמורות לברק קנדל

5) להלן השערות של מחקר: $H_0: \mu = 50$, $H_1: \mu = 58$.
מעוניינים לדגום 100 תצפיות. ידוע שסטיית התקן של ההתפלגות הינה 20.

א. בנו כלל הכרעה שהסיכוי לטעות מסוג שני בו הוא 10%.
מהי רמת המובהקות?

ב. כיצד הייתה משתנה רמת המובהקות אם (כל סעיף בפני עצמו)?

i. סטיית התקן הייתה יותר גדולה.

ii. הסיכוי לטעות מסוג שני גדול יותר.

השאלות שלהלן הן שאלות רב-ברירה, בחרו בתשובה הנכונה ביותר:

6) אם חוקר החליט להגדיל את רמת המובהקות במחקר שלו אזי:

א. הסיכוי לטעות מסוג ראשון גדל.

ב. העוצמה של המבחן גדלה.

ג. הסיכוי לטעות מסוג שני גדל.

ד. תשובות א' ו-ב' נכונות.

7) חוקר ביצע מחקר ובו עשה טעות מסוג שני לכן:

א. השערת האפס נכונה.

ב. השערת האפס נדחתה.

ג. השערת האפס לא נדחתה.

ד. אף אחת מהתושבות לא נכונה בהכרח.

8) מה המצב הרצוי לחוקר המבצע בדיקת השערה:

α	$1-\beta$
א. גדולה	גדולה
ב. גדולה	קטנה
ג. קטנה	גדולה
ד. קטנה	קטנה

9) נערך שינוי בכלל ההחלטה של בדיקת השערה מסוימת ובעקבותיו אזור דחיית H_0 קטן. כל שאר הגורמים נשארו ללא שינוי. כתוצאה מכך:

א. הן α, והן $1-\beta$, יקטנו.

ב. α יישאר ללא שינוי ואילו $1-\beta$ יגדל.

ג. α יגדל ואילו $1-\beta$ יקטן.

ד. הן α והן $1-\beta$ יגדלו.

© כל הזכויות שמורות לברק קנדל

10) ידוע כי לחץ דם תקין באוכלוסייה הוא 120. רופא מניח שלחץ הדם בקרב עיתונאים גבוה יותר מהממוצע באוכלוסייה. הוא לקח מדגם של 60 עיתונאים וקיבל ממוצע 137. על סמך המדגם, הוא בודק טענתו ברמת מובהקות 0.02 ומסיק שלחץ הדם בקרב העיתונאים אינו גבוה יותר.
מה הטעות האפשרית שהרופא עושה?

א. טעות מסוג ראשון.

ב. טעות מסוג שני.

ג. טעות מסוג שלישי.

ד. אין טעות במסקנתו.

תשובות סופיות:

1) א. מעל 6.645. ב. 0.3594.

ג. דחינו את H_0, תתכן טעות מסוג ראשון.

2) א. נדחה H_0 אם $\bar{X} < 2.24$. ב. נדחה H_0. ג. 1.

3) א. נדחה H_0 אם $\bar{X} > 203.29$ או $\bar{X} < 196.71$. ב. 0.8051. ג. תקטן.

4) א. נדחה H_0 אם $\bar{X} < 48.9$. ב. 0.0885. ג. תקטן. ד. תקטן.

5) א. 0.0033. ב. i. רמת המובהקות הייתה קטנה.

ב. ii. רמת המובהקות הייתה גדלה.

6) ד'.

7) ג'.

8) ג'.

9) א'.

10) ב'.

© כל הזכויות שמורות לברק קנדל

מובהקות תוצאה – אלפא מינימלית (ששונות האוכלוסייה ידועה):

רקע:

דרך נוספת להגיע להכרעות שלא דרך כלל הכרעה, היא דרך חישוב מובהקות התוצאה:

באמצעות תוצאות המדגם מחשבים את מובהקות התוצאה שמסומן ב- p_v .

את רמת המובהקות החוקר קובע מראש לעומת זאת, את מובהקות התוצאה החוקר יוכל לחשב רק אחרי שיהיו לו את התוצאות.

המסקנה של המחקר תקבע לפי העיקרון הבא: אם $p_v \le \alpha$, דוחים את H_0 .

מובהקות התוצאה זה הסיכוי לקבלת תוצאות המדגם וקיצוני מתוצאות אלה בהנחת השערת האפס.

(לקבל את תוצאות המדגם וקיצוני) $p_v = P_{H_0}$.

אם ההשערה היא דו צדדית:

(לקבל את תוצאות המדגם וקיצוני) $p_v = 2P_{H_0}$.

מובהקות התוצאה היא גם האלפא המינימלית לדחיית השערת האפס.

השערת האפס: **השערה אלטרנטיבה:**	$H_0:\mu=\mu_0$ $H_1:\mu\ne\mu_0$	$H_0:\mu=\mu_0$ $H_1:\mu<\mu_0$	$H_0:\mu=\mu_0$ $H_1:\mu>\mu_0$
תנאים:	1. σ ידועה 2. $X \sim N$ או מדגם מספיק גדול		
p-value	אם $\bar{x} > \mu_0 \Rightarrow 2\cdot P_{H_0}\left(\bar{X} \ge \bar{x}\right)$ אם $\bar{x} < \mu_0 \Rightarrow 2\cdot P_{H_0}\left(\bar{X} \le \bar{x}\right)$	$P_{H_0}(\bar{X} \le \bar{x})$	$P_{H_0}(\bar{X} \ge \bar{x})$

כאשר בהנחת השערת האפס: $\bar{X} \sim N\left(\mu_0, \frac{\sigma^2}{n}\right)$, $Z_{\bar{x}} = \frac{\bar{x}-\mu_0}{\frac{\sigma}{\sqrt{n}}}$.

© כל הזכויות שמורות לברק קנדל

דוגמה:

המשקל הממוצע של מתגייסים לצבא לפני 20 שנה היה 65 ק"ג. מחקר מעוניין לבדוק האם כיום המשקל הממוצע של מתגייסים גבוה יותר. נניח שמשקל המתגייסים מתפלג נורמאלית עם סטיית תקן של 12 ק"ג. במדגם של 16 מתגייסים התקבל משקל ממוצע של 71 ק"ג.

א. מהי מובהקות התוצאה?

ב. מה המסקנה אם רמת המובהקות היא 5% ואם רמת המובהקות היא 1%?

פתרון:

א. <u>אוכלוסייה</u>: המתגייסים לצבא כיום.

<u>משתנה</u>: X = משקל בק"ג.

<u>פרמטר</u>: μ.

<u>השערות</u>: $\begin{matrix} H_0: \mu = 65 \\ H_1: \mu > 65 \end{matrix}$.

<u>תנאים</u>:

1. $X \sim N$.
2. $\sigma = 12$.

<u>תוצאות מדגם</u>:

$$n = 16$$

$$\bar{X} = 71$$

$$P_V = P_{H_0}\left(\begin{matrix}\text{לתוצאות} \\ \text{המדגם} \\ \text{וקיצוני}\end{matrix}\right) = P_{H_0}\left(\bar{X} \geq 71\right) = 1 - \phi(2) = 1 - 0.9772 = 0.0228$$

$$Z_{\bar{x}} = \frac{\bar{x} - \mu_0}{\frac{\sigma}{\sqrt{n}}} = \frac{71 - 65}{\frac{12}{\sqrt{16}}} = 2$$

$$\alpha_{\min} = 0.0228$$

© כל הזכויות שמורות לברק קנדל

שאלות:

1) להלן השערות של מחקר: $H_0: \mu = 70$, $H_1: \mu > 70$.
המשתנה הנחקר מתפלג נורמלית עם סטיית תקן 20.
במדגם מאותה אוכלוסייה התקבלו התוצאות הבאות: $\bar{x} = 74$, $n = 100$.
מהי מובהקות התוצאה?

2) השכר הממוצע במשק בשנת 2012 היה 8800 ₪ עם סטיית תקן 2000. במדגם שנעשה אתמול על 100 עובדים התקבל שכר ממוצע 9500 ₪. מטרת המחקר היא לבדוק האם כיום חלה עליה בשכר. עבור אילו רמות מובהקות שיבחר החוקר יוחלט שחלה עליה בשכר הממוצע במשק?

3) אדם חושד שחברת ממתקים לא עומדת בהתחייבויותיה, ומשקלו של חטיף מסוים אותו הוא קונה מדי בוקר נמוך מ-100 גרם.
חברת הממתקים טוענת מצידה שהיא אכן עומדת בהתחייבויותיה. ידוע כי סטיית התקן של משקל החטיף היא 12 גרם. האדם מתכוון לשקול 100 חפיסות חטיפים ולאחר מכן להגיע להחלטה.
לאחר הבדיקה הוא קיבל משקל הממוצע של 98.5 גרם.

א. רשמו את השערות המחקר.
ב. מהי רמת המובהקות המינימלית עבורה דוחים את השערת האפס?
ג. מהי רמת המובהקות המקסימלית עבורה נקבל את השערת האפס?
ד. מה המסקנה ברמת מובהקות של 5%?

4) מכונה לחיתוך מוטות במפעל חותכת מוטות באורך שמתפלג נורמאלית עם תוחלת אליה כוונה המכונה וסטיית תקן 2 ס"מ. ביום מסוים כוונה המכונה לחתוך מוטות באורך 80 ס"מ. אחראי האיכות מעוניין לבדוק האם המכונה מכוילת. לצורך כך נדגמו מקו הייצור 16 מוטות שנחתכו אורכן הממוצע היה 81.7 ס"מ.

א. מהי רמת המובהקות המינימלית עבורה נכריע שהמכונה לא מכוילת?
ב. אם נוסיף עוד תצפית שערכה יהיה 82 ס"מ, כיצד הדבר ישפיע על התשובה של הסעיף הקודם?
ג. הכרע ברמת מובהקות של 5% האם המכונה מכוילת.

5) אם מקבלים בחישובים אלפא מינימלית (P value) קטנה מאד, סביר להניח כי החוקר ידחה את השערת האפס בקלות. נכון/לא נכון? נמק.

© כל הזכויות שמורות לברק קנדל

6) בבדיקת השערות התקבל שה- $p-value=0.02$.
מה תהיה מסקנת חוקר המשתמש ברמת מובהקות 1%?
בחרו בתשובה הנכונה.

א. יקבל את השערת האפס בכל מקרה.
ב. ידחה את השערת האפס מקרה.
ג. ידחה את השערת האפס רק אם המבחן הנו דו צדדי.
ד. לא ניתן לדעת כי אין מספיק נתונים.

7) מובהקות התוצאה (PV) היא גם (בחרו בתשובה הנכונה):

א. רמת המובהקות המינימאלית לדחות השערת האפס.
ב. רמת המובהקות המקסימאלית לדחיית השערת האפס.
ג. רמת המובהקות שנקבעת מראש על ידי החוקר שטרם קיבל את תוצאות המחקר.
ד. רמת המובהקות המינימאלית לאי דחיית השערת האפס.

8) בבדיקת השערות מסוימת התקבל: $p\ value=0.0254$ לכן (בחרו בתשובה הנכונה):

א. ברמת מובהקות של 0.01 אך לא של 0.05 נדחה את H_0 .
ב. ברמת מובהקות של 0.01 ושל 0.05 לא נדחה את H_0 .
ג. ברמת מובהקות של 0.05 אך לא של 0.01 נדחה את H_0 .
ד. ברמת מובהקות של 0.01 ושל 0.05 נדחה את H_0 .

© כל הזכויות שמורות לברק קנדל

תשובות סופיות:

1) 0.0228.

2) עבור כל רמת מובהקות סבירה.

3) א. $\begin{matrix} H_0: \mu = 100 \\ H_1: \mu < 100 \end{matrix}$. ב. 0.1056. ג. 0.1056.

ד. נכריע שיש עמידה בהתחייבות של החברה.

4) א. 0.0006. ב. יקטן. ג. נכריע שאין כיול.

5) נכון.

6) א'.

7) א'.

8) ג'.

© כל הזכויות שמורות לברק קנדל

הקשר בין רווח סמך לבדיקת השערות על תוחלת (ממוצע):

רקע:

ניתן לבצע בדיקת השערות דו צדדית ברמת מובהקות α על μ :

$H_0:\mu=\mu_0$, $H_1:\mu\neq\mu_0$.

על ידי בניית רווח סמך ברמת סמך של $1-\alpha$ ל- μ :

אם μ_0 נופל ברווח ← נקבל את H_0 .

אם μ_0 לא נופל ברווח ← נדחה את H_0 .

דוגמה:

חוקר ביצע בדיקת השערות לתוחלת. להלן השערותיו :

$H_0:\mu=80$, $H_1:\mu\neq 80$, $\alpha=5\%$.

החוקר בנה רווח סמך ברמה של 90% וקיבל : $79<\mu<84$.

האם אפשר לדעת מה מסקנתו, ואם כן מהי?

פתרון (פתרון מלא בהקלטה):

רווח הסמך ברמת סמך של 90% מכיל "80".

ברמת סמך של 95% רווח הסמך יגדל ויכיל "80".

לכן, ברמת מובהקות של 5% נקבל H_0 .

© כל הזכויות שמורות לברק קנדל

שאלות:

1) חוקר רצה לבדוק את ההשערות הבאות: $H_0: \mu = 90$, $H_1: \mu \neq 90$.
החוקר בנה רווח סמך לתוחלת ברמת סמך של 95% וקיבל את רווח הסמך הבא: $(87,97)$.
אם החוקר מעוניין לבצע בדיקת השערות ברמת מובהקות של 1% האם ניתן להגיע למסקנה ע"ס רווח הסמך? נמקו.

2) חוקר מעוניין לבדוק השפעת דיאטה חדשה על רמת הסוכר בדם. ידוע כי מספר מיליגרם הסוכר בסמ"ק דם הוא משתנה מקרי שמתפלג נורמלית עם סטיית תקן 10.4 מ"ג. נלקח מדגם של 60 נבדקים שניזונו מדיאטה זו.
נמצא כי ממוצע מספר המיליגרם סוכר היה 115.5 מ"ג לסמ"ק.

א. בנה רווח סמך ברמת סמך 95% לתוחלת רמת הסוכר בדם אצל הניזונים מדיאטה זו.

ב. ידוע שתוחלת רמת הסוכר בדם באוכלוסיה היא 90 מ"ג לסמ"ק.
האם לדעתך ניתן להסיק על סמך תוצאת סעיף א שהדיאטה משפיעה על רמת הסוכר בדם? הסבירו.

3) יצרן אנטיביוטיקה רושם על גבי התרופות שכמות הפנצלין היא 200 מ"ג לקפסולה.משרד הבריאות ביצע מדגם של 8 קפסולות אקראיות מקו הייצור ומצא שבממוצע יש 196 מ"ג פנצילין לקפסולה עם סטיית תקן מדגמית של 5 מ"ג. בהנחה וכמות הפנצלין בקפסולה מתפלגת נורמלית.

א. בנו רווח סמך ברמת סמך של 95% לממוצע כמות הפנצלין לקפסולה המיוצרת על ידי יצרן האנטיביוטיקה.

ב. בדקו ברמת מובהקות של 5% האם יש אמת באינפורמציה המסופקת על ידי היצרן.

תשובות סופיות:

1) נקבל השערת.

2) א. $112.87 \le \mu \le 118.13$.

ב. נכריע שהדיאטה משפיעה על תוחלת רמת הסוכר בדם.

3) א. $191.8 \le \mu \le 200.2$. ב. נכריע שיש אמת בפרסום.

© כל הזכויות שמורות לברק קנדל

סטטיסטיקה ב

פרק 7 - רווח סמך להפרש תוחלות (ממוצעים) במדגמים בלתי תלויים

תוכן העניינים

1. כששונויות האוכלוסיה לא ידועות ובהנחת שוויון שונויות. 49

כששונויות האוכלוסייה לא ידועות ובהנחת שוויון שונויות:

רקע:

המטרה היא לאמוד את פער התוחלות: $\mu_1 - \mu_2$, כלומר ההבדלים של הממוצעים בין שתי האוכלוסיות.

האומד נקודתי: $\bar{x}_1 - \bar{x}_2$.

התנאים לבניית רווח הסמך:

1. $\sigma^2{}_1 = \sigma^2{}_2$.
2. $X_1, X_2 \sim N$.
3. מדגמים בלתי תלויים.

השונות המשוקללת: כיוון שאנו מניחים שבין שתי האוכלוסיות השונויות שוות אנו אומדים את השונות הזו על ידי שקלול שתי השונויות של שני המדגמים על ידי הנוסחה הבאה: $S_p^2 = \frac{(n_1-1)S_1^2 + (n_2-1)S_2^2}{n_1+n_2-2}$.

דרגות החופש: $d.f = n_1 + n_2 - 2$.

רווח סמך: $(\bar{x}_1 - \bar{x}_2) \pm t_{1-\frac{\alpha}{2}}^{n_1+n_2-2} \cdot \sqrt{\frac{S^2{}_p}{n_1} + \frac{S^2{}_p}{n_2}}$.

אם הערך אפס נופל בגבולות רווח הסמך נגיד שבביטחון של $1-\alpha$, לא קיים הבדל בין התוחלות.

דוגמה (פתרון בהקלטה):

מחקר מעוניין לבדוק האם קיים הבדל בין תל אביב לבאר שבע מבחינת ההכנסה הממוצעת של אקדמאים.להלן תוצאות המדגם שנעשה:

	תל אביב	באר שבע
מספר האקדמאים	20	10
ממוצע הכנסות של אקדמאים	11,000	9500
סטיית התקן של הכנסות אקדמאים	200	250

בנו רווח סמך ברמת ביטחון של 90% להפרש תוחלות ההכנסה בשני האזורים.
הניחו שהשכר מתפלג נורמלית עם אותה שונות בכל אחד מהאזורים.

© כל הזכויות שמורות לברק קנדל

שאלות:

1) נדגמו 15 ישראלים ו-15 אמריקאים. כל הנדגמים נגשו למבחן IQ.
להלן תוצאות המדגם:

המדינה	ישראל	ארה"ב
גודל המדגם	15	15
סכום הציונים	1560	1470
סכום ריבועי הציונים	165,390	147,560

מצאו רווח סמך ברמת סמך של 95% לסטייה בין ממוצע הציונים בישראל לממוצע הציונים בארה"ב. רשמו את כל ההנחות הדרושות לצורך פתרון התרגיל.

2) להלן 4 תצפיות על משתנה X שמתפלג: $N\left(\mu_x,\sigma^2\right)$, ומשתנה Y שמתפלג: $N\left(\mu_y,\sigma^2\right)$.

X	22	20	21	25
Y	18	25	17	12

חשבו רווח סמך ל- $\mu_y-\mu_x$ ברמת הסמך 90%, בהנחה ששני המדגמים בלתי תלויים.

תשובות סופיות:

1) הנחות:
1. השונות שווה.
2. שהציונים מתפלגים נורמלית.
3. המדגמים אינם תלויים זה בזה.

$-5.52<\mu_1-\mu_2<17.52$.

2) $-9.6<\mu_y-\mu_x<1.6$.

© כל הזכויות שמורות לברק קנדל

סטטיסטיקה ב

פרק 8 - בדיקת השערות על הפרש תוחלות במדגמים בלתי תלויים

תוכן העניינים

1. כששוניויות האוכלוסיה לא ידועות ומניחים שהן שוות..... 51

בדיקת השערות על הפרש תוחלות במדגמים בלתי תלויים

כששונויות האוכלוסייה לא ידועות ומניחים שהן שוות – רקע

השערת האפס: **השערה אלטרנטיבית:**	$H_0 \quad \mu_1-\mu_2=c$ $H_1 \quad \mu_1-\mu_2\neq c$	$H_0 \quad \mu_1-\mu_2=c$ $H_1 \quad \mu_1-\mu_2<c$	$H_0 \quad \mu_1-\mu_2=c$ $H_1 \quad \mu_1-\mu_2>c$
תנאים:	1. מדגמים בלתי תלויים 2. σ_1, σ_2 לא ידועות אך שוות 3. המשתנים בכל אוכלוסייה מתפלגים נורמלית		
אזור הדחייה של H_0:	$t_{\bar{x}_1-\bar{x}_2}<-t_{1-\frac{\alpha}{2}}^{(n_1+n_2-2)}$ או $t_{\bar{x}_1-\bar{x}_2}>t_{1-\frac{\alpha}{2}}^{(n_1+n_2-2)}$ 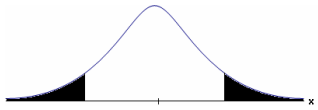 $-t_{1-\frac{\alpha}{2},n_1+n_2-2}$ $\quad$ $t_{1-\frac{\alpha}{2},n_1+n_2-2}$ דוחים את H_0	$t_{\bar{x}_1-\bar{x}_2}<-t_{1-\alpha}^{(n_1+n_2-2)}$ 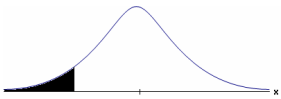 $-t_{1-\alpha,n_1+n_2-2}$ דוחים את H_0	$t_{\bar{x}_1-\bar{x}_2}>t_{1-\alpha}^{(n_1+n_2-2)}$ 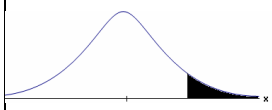 $t_{1-\alpha,n_1+n_2-2}$ דוחים את H_0

סטטיסטי המבחן:

$$t_{\bar{x}_1-\bar{x}_2}=\frac{(\bar{x}_1-\bar{x}_2)-c}{\sqrt{\frac{S_p^{\,2}}{n_1}+\frac{S_p^{\,2}}{n_2}}}$$

השונות המשוקללת:

$$S_p^{\,2}=\frac{(n_1-1)S_1^{\,2}+(n_2-1)S_2^{\,2}}{n_1+n_2-2}$$

© כל הזכויות שמורות לברק קנדל

חלופה אחרת לכלל הכרעה:

נדחה H_0 אם מתקיים:	
$\bar{x}_1-\bar{x}_2 > c+t_{1-\frac{\alpha}{2}}^{(n_1+n_2-2)}\cdot\sqrt{\frac{S_p^2}{n_1}+\frac{S_p^2}{n_2}}$ **או** $\bar{x}_1-\bar{x}_2 < c-t_{1-\frac{\alpha}{2}}^{(n_1+n_2-2)}\cdot\sqrt{\frac{S_p^2}{n_1}+\frac{S_p^2}{n_2}}$	$\bar{x}_1-\bar{x}_2 < c-t_{1-\alpha}^{(n_1+n_2-2)}\cdot\sqrt{\frac{S_p^2}{n_1}+\frac{S_p^2}{n_2}}$
$\bar{x}_1-\bar{x}_2 > c+t_{1-\alpha}^{(n_1+n_2-2)}\cdot\sqrt{\frac{S_p^2}{n_1}+\frac{S_p^2}{n_2}}$	

דוגמה (פתרון בהקלטה):

חברה המייצרת מוצרי בנייה טוענת שפיתחה סגסוגת (תערובת מתכות) שטמפרטורת ההתכה שלה גבוהה משמעותית מטמפרטורת ההתכה של הסגסוגת לבנייה שמשתמשים בה כיום לבניית בניינים. לצורך בדיקת טענת המחקר נדגמו 10 יחידות של מתכות מהסוג הישן ו-12 יחידות של מתכות מהסוג החדש. להלן תוצאות המדגם:

טמפרטורת ההתכה הממוצעת במתכת הישנה 1170 מעלות עם אומד חסר הטיה לשונות $S^2=200$.

טמפרטורת ההתכה הממוצעת במתכת החדשה 1317 מעלות עם אומד חסר הטיה לשונות $S^2=260$.

נניח לצורך פתרון שטמפרטורת ההתכה מתפלגת נורמאלית עם אותה שונות במתכות השונות. בדקו ברמת מובהקות של 5%.

© כל הזכויות שמורות לברק קנדל

שאלות

1) להלן נתונים של שטחי דירות מתוך דירות שנבנו בשנת 2012 ובשנת 2013 (במ"ר):

2012	120	112	95	130	90	94	120
2013	100	82	91	105	74	69	

בדקו שבשנת 2013 הייתה ירידה משמעותית בשטחי הדירות לעומת שנת 2012 עבור רמת מובהקות של 5%.
הניחו ששטחי הדירות בכל שנה מתפלגים נורמלית עם אותה שונות.

2) נדגמו 15 ישראלים ו-15 אמריקאים. כל הנדגמים נגשו למבחן IQ. להלן תוצאות המדגם:

המדינה	ישראל	ארה"ב
גודל המדגם	15	15
סכום הציונים	1560	1470
סכום ריבועי הציונים	165,390	147,560

בדקו ברמת מובהקות של 5% האם קיים הבדל של נקודה בין ישראלים לאמריקאים מבחינת ממוצע הציונים במבחן ה-IQ לטובת ישראל.
רשמו את כל ההנחות הדרושות לצורך פתרון התרגיל.

3) להלן תוצאות מדגם הבדק אורך חיים של נורות מסוג W60 ומסוג W100.
אורך החיים נמדד בשעות.

הקבוצה	60W	100W
$\bar{x}$	1007	956
S	80	72
n	13	15

א. בדקו ברמת מובהקות של 5% האם נורות מסוג W60 דולקות בממוצע יותר מאשר נורות מסוג W100. רשמו את כל ההנחות הדרושות לפתרון.

ב. עבור איזו רמת מובהקות ניתן לקבוע שנורות מסוג W 60 דולקות בממוצע יותר מאשר נורות מסוג 100?

ג. בדקו ברמת מובהקות של 5% האם נורות מסוג W 60 דולקות יותר מ 1000 שעות. רשמו את כל ההנחות הדרושות.

© כל הזכויות שמורות לברק קנדל

תשובות סופיות

1) נדחה את H_0.

2) הנחות:

1. סטיות התקן שוות.
2. המשתנים מתפלגים נורמלית.

נקבל את H_0.

3) א. נדחה את H_0. ב. רמת מובהקות של לפחות 5%.

ג. לא נדחה את H_0.

© כל הזכויות שמורות לברק קנדל

סטטיסטיקה ב

פרק 9 - רווח סמך לתוחלת (ממוצע) ההפרשים במדגמים מזווגים

תוכן העניינים

1. רווח סמך לתוחלת (ממוצע) ההפרשים במדגמים מזווגים 55

רווח סמך לתוחלת (ממוצע) ההפרשים במדגמים מזווגים:

רקע:

מדגם מזווג: מדגם אחד שבו יש n צמדים. כל תצפית במדגם תנפק זוג ערכים: X ו- Y.
ניצור משתנה חדש: $D = x - y$.

הפרמטר שנרצה לאמוד: μ_D.

התנאים לבניית רווח הסמך:

1. $x, y \sim N$.
2. המדגם מזווג.

נוסחת רווח הסמך: $\bar{D} \pm t^{n-1}_{1-\frac{\alpha}{2}} \frac{S_D}{\sqrt{n}}$.

כאשר דרגות החופש: $df = n-1$.

דוגמה (פתרון בהקלטה):

מעוניינים לבדוק האם יש הבדל בין מהירות הריצות של שתי תוכנות מחשב.
לקחו 5 קבצים אקראיים והריצו אותם בשתי התוכנות:

הקובץ	1	2	3	4	5
הזמן בתוכנה הראשונה	25	48	49	46	38
הזמן בתוכנה השנייה	27	46	42	40	48

הניחו כי זמני הריצות מתפלגים נורמלית.
מִצאו רווח סמך של 95% להפרש תוחלת הזמן בין שתי התוכנות.

© כל הזכויות שמורות לברק קנדל

שאלות:

1) נדגמו 5 סטודנטים שסיימו את הקורס סטטיסטיקה ב'.
להלן הציונים בסמסטר א' ו-ב':

סמסטר א'	74	68	90	75	82
סמסטר ב'	80	84	87	76	100

נניח שהציונים מתפלגים נורמאלית.

א. בנו רווח סמך ברמת סמך של 95% לתוחלת פער הציונים בין סמסטר א' לבין סמסטר ב'.

ב. האם על סמך רווח הסמך קיים הבדל בין הסמסטרים מבחינת תוחלת הציונים?

ג. מה צריך לשנות בנתונים כדי שהמדגמים יהיו בלתי תלויים?

2) במטרה לבדוק האם קיים הבדל בין קווי זהב לבזק מבחינת ממוצע המחירים לשיחות בינ"ל. נדגמו באקראי 7 מדינות ועבור כל מדינה נבדקה עלות דקת שיחה.
להלן התוצאות:

חברה/ מדינה	**ארה"ב**	**קנדה**	**הולנד**	**פולין**	**מצרים**	**סין**	**יפן**
בזק - X	1.5	2.1	2.2	3	3.5	3.2	4.2
קווי זהב - Y	1.4	2	1.9	3.1	3.3	3.2	4.2

בהנחה והמחירים מתפלגים נורמלית עבור כל חברה,
בנו רווח סמך ברמת סמך של 90% לתוחלת הפרש המחירים של שתי החברות.

תשובות סופיות:

1) א. $-19 < \mu_0 < 38$. ב. בביטחון של 95% לא קיים הבדל.
ג. ראה הסבר בסרטון.

2) $-0.013 < \mu < 0.185$.

© כל הזכויות שמורות לברק קנדל

סטטיסטיקה ב

פרק 10 - בדיקת השערות לתוחלת ההפרש במדגמים מזווגים

תוכן העניינים

1. בדיקת השערות למדגמים מזווגים 57

בדיקת השערות על תוחלת ההפרשים במדגמים מזווגים (תלויים)

בדיקת השערות למדגמים מזווגים – רקע

השערת האפס: **השערה אלטרנטיבית:**	$H_0:\ \mu_D = C$ $H_1:\ \mu_D \neq C$	$H_0:\ \mu_D = C$ $H_1:\ \mu_D < C$	$H_0:\ \mu_D = C$ $H_1:\ \mu_D > C$
תנאים:	1. σ_D אינה ידועה 2. $D \sim N$ או מדגם מספיק גדול		
כלל ההכרעה: אזור הדחייה של H_0:	$t_{\bar{D}} > t^{(n-1)}_{1-\frac{\alpha}{2}}$ או $t_{\bar{D}} < -t^{(n-1)}_{1-\frac{\alpha}{2}}$ 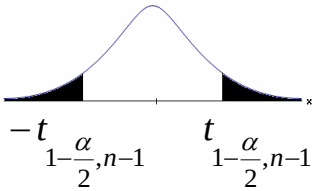 $-t_{1-\frac{\alpha}{2},n-1}$ $t_{1-\frac{\alpha}{2},n-1}$ ■ - דוחים את H_0	$t_{\bar{D}} < -t^{(n-1)}_{1-\alpha}$ $-t_{1-\alpha,n-1}$ ■ - דוחים את H_0	$t_{\bar{D}} > t^{(n-1)}_{1-\alpha}$ $t_{1-\alpha,n-1}$ ■ - דוחים את H_0
חלופה לכלל הכרעה: נדחה H_0 אם מתקיים:	$\bar{D} > C + t^{n-1}_{1-\frac{\alpha}{2}} \cdot \frac{S_D}{\sqrt{n}}$ **או** $\bar{D} < C - t^{n-1}_{1-\frac{\alpha}{2}} \cdot \frac{S_D}{\sqrt{n}}$	$\bar{D} < C - t^{n-1}_{1-\alpha} \cdot \frac{S_D}{\sqrt{n}}$	$\bar{D} > C + t^{n-1}_{1-\alpha} \cdot \frac{S_D}{\sqrt{n}}$

סטטיסטי המבחן: $t_{\bar{D}} = \dfrac{\bar{D} - \mu_D}{S_D / \sqrt{n}}$, $S_D{}^2 = \dfrac{\sum_{i=1}^{n}\left(D_i - \bar{D}\right)^2}{n-1} = \dfrac{\sum_{i=1}^{n} D^2{}_i - n\bar{D}^2}{n-1}$

דוגמה (פתרון בהקלטה):

© כל הזכויות שמורות לברק קנדל

חברה שיווקית מעוניינת לבדוק את טענת רשת השיווק "מגה בעיר" הטוענת שמחיריה נמוכים מהמחירים מרשת השיווק "שופרסל".
לצורך הבדיקה נבחרו באקראי 4 מוצרים שונים. המחירים נבדקו בשתי הרשתות.
להלן המחירים:

המוצר / רשת	מגה בעיר	שופרסל
שמפו	17	18
ג'ל כביסה	48	57
עוגת גבינה	35	35
לחם	12	10
קפה נמס	49	47
בקבוק יין	113	142
גבינה בולגרית	20	26

בהנחה והמחירים מתפלגים נורמאלית, בדקו ברמת מובהקות של 5% את טענת רשת "מגה בעיר".

© כל הזכויות שמורות לברק קנדל

שאלות

1) במטרה לבדוק האם קיים הבדל בין חברת X לחברת Y מבחינת המחירים לשיחות בינ"ל. נדגמו באקראי 7 מדינות ועבור כל מדינה נבדקה עלות דקת שיחה. להלן התוצאות:

חברה/ מדינה	ארה"ב	קנדה	הולנד	פולין	מצרים	סין	יפן
X	1.5	2.1	2.2	3	3.5	3.2	4.2
Y	1.4	2	1.9	3.1	3.2	3.2	4.2

בהנחה והמחירים מתפלגים נורמלית בכל חברה, בדקו ברמת מובהקות של 5% האם קיים הבדל בין החברות מבחינת המחירים בממוצע?

2) מכון המכין לפסיכומטרי טוען שהוא מעלה את ממוצע הציונים ביותר מ-30 נקודות. 8 נבחנים נבדקו לפני ואחרי שהם למדו במכון. להלן התוצאות שהתקבלו:

לפני	506	470	420	640	670	390	500	590
אחרי	570	540	430	610	680	510	520	580

מה מסקנתכם ברמת מובהקות 5%? הניחו שציוני פסיכומטרי מתפלגים נורמלית.

3) נדגמו 5 סטודנטים שסיימו את הקורס סטטיסטיקה ב'. להלן הציונים שלהם בסמסטר א' ו- ב':

סטטיסטיקה א'	74	68	90	75	82
סטטיסטיקה ב'	80	84	87	76	100

פורסם שתלמידים שמסיימים את סמסטר ב משפרים בממוצע את הציונים ב-5 נקודות לעומת סמסטר א'. הניחו שהציונים מתפלגים נורמלית.

א. מהי מובהקות התוצאה לבדיקת הטענה שהשיפור הוא יותר מ 5 נקודות?

ב. על סמך הסעיף הקודם, מהי רמת המובהקות המינימלית להכרעה שהשיפור הוא יותר מ- 5 נקודות?

ג. לאור זאת, מה המסקנה ברמת מובהקות של 10%?

4) לצורך בדיקת השפעת היפנוזה על לימוד אנגלית, נבחרו 10 זוגות תאומים זהים. אחד התאומים למד אנגלית בהשפעת היפנוזה, והשני ללא היפנוזה. לאחר מכן נערך לשניהם מבחן באנגלית. נניח שציוני המבחן מתפלגים נורמאלית ללא ידיעת השונות האמתית. המבחן שיש לבצע כאן הוא:

א. מבחן Z למדגם יחיד.

ב. מבחן T למדגם יחיד.

ג. מבחן T למדגמים בלתי תלויים.

ד. מבחן T למדגמים מזווגים.

© כל הזכויות שמורות לברק קנדל

5) בתחנת טיפת חלב מסוימת יש שני מכשירי שקילה. על מנת להשוות בין שני המשקלים נדגמו 4 תינוקות. כל תינוק בן חודשיים נשקל בכל אחד מהמשקלים.
להלן תוצאות השקילה (בק"ג):

משקל במכשיר 1	4.5	9.6	0.7	2.5
משקל במכשיר 2	3.5	6.9	1.7	0.5

נניח שהמשקלים מתפלגים נורמלית, המבחן שיש לבצע כאן הוא:

א. מבחן Z למדגם יחיד.

ב. מבחן T למדגם יחיד.

ג. מבחן T למדגמים בלתי תלויים.

ד. מבחן T למדגמים מזווגים.

6) כדי להשוות בין שני אצנים נדגמו 5 תוצאות מריצת 100 מטר של כל אצן. זמני הריצה נרשמו ויש להניח שמתפלגים נורמלית. המטרה להשוות בין האצנים.
המבחן שיש לבצע כאן הוא:

א. מבחן Z למדגם יחיד.

ב. מבחן T למדגם יחיד.

ג. מבחן T למדגמים בלתי תלויים.

ד. מבחן T למדגמים מזווגים.

תשובות סופיות

1) לא נדחה H_0.

2) לא נדחה H_0.

3) א. $0.25 \le pv \le 0.5$ ב. 0.5 ג. לא נדחה H_0.

4) ד'.

5) ד'.

6) ג'.

© כל הזכויות שמורות לברק קנדל

סטטיסטיקה ב

פרק 11 - הקשר בין רווח סמך לבדיקת השערות להפרש תוחלות

תוכן העניינים

1. הקשר בין רווח סמך לבדיקת השערות להפרש תוחלות..... 61

הקשר בין רווח סמך לבדיקת השערות על הפרש תוחלות

רקע

ניתן לבצע בדיקת השערות דו צדדית ברמת מובהקות α על $\mu_1-\mu_2$:

$H_0:\mu_1-\mu_2=C, \qquad H_1:\mu_1-\mu_2\neq C$.

על ידי בניית רווח סמך ברמת סמך של $1-\alpha$ ל- $\mu_1-\mu_2$:

אם C נופל ברווח ← נקבל את H_0 .

אם C לא נופל ברווח ← נדחה את H_0 .

דוגמה (פתרון בהקלטה) :

חוקר ביצע בדיקת השערות לתוחלת ההפרש במדגם מזווג.

להלן השערותיו : $\alpha=5\%, \qquad H_1:\mu_D\neq 80, \qquad H_0:\mu_D=80$.

החוקר בנה רווח סמך ברמה של 90%, $78<\mu_D<83$.

האם אפשר לדעת מה מסקנתו, ואם כן מהי?

© כל הזכויות שמורות לברק קנדל

שאלות

1) נדגמו 5 סטודנטים שסיימו את הקורס סטטיסטיקה ב׳.
להלן ציוניהם בסמסטר א׳ ו- ב׳:

סמסטר א	סמסטר ב
74	80
68	84
90	87
75	76
82	100

א. בנו רווח סמך ברמת סמך של 95% לתוחלת פער הציונים בין סמסטר א׳ לבין סמסטר ב׳.

ב. פורסם שתלמידים שמסיימים את סמסטר ב משפרים בממוצע את הציונים ב-5 נק׳ לעומת סמסטר א׳. האם יש אמת בפרסום?

2) הוחלט להשוות הציונים אצל מרצה X ואצל מרצה Y. נבחרו באקראי 6 סטודנטים, 3 סטודנטים של מרצה X ו-3 סטודנטים של מרצה Y, עבורם התקבלו הציונים הבאים:

מרצה X	82	90	68
מרצה Y	68	81	64

א. חשבו רווח סמך ברמת סמך 90% להפרש בין התוחלות של הציונים אצל שני המרצים.

ב. האם ברמת מובהקות של 10% נכריע שיש הבדל בין תוחלות הציונים אצל שני המרצים?

שאלות רב-ברירה:

3) סטטיסטיקאי נתבקש לאמוד את הפרש הממוצעים של שני טיפולים לפי שני מדגמים מקריים בלתי תלויים.
הוא חישב רווח סמך להפרש ברמת סמך 0.98, וקיבל את הרווח $-2 < \mu_1 - \mu_2 < 4.5$.
אילו יתבקש החוקר לבדוק לפי אותם נתונים את ההשערות:
$H_0: \mu_1 - \mu_2 = 0$; $H_1: \mu_1 - \mu_2 \neq 0$ ברמת מובהקות 0.05, מסקנתו תהיה:

א. לדחות את השערת האפס.

ב. לא לדחות את השערת האפס.

ג. שלא ניתן לדעת את המסקנה עבור רמת מובהקות 0.05 .

ד. שלא נתונות בשאלה סטיות התקן של האוכלוסיות, ולכן לא ניתן להסיק דבר.

© כל הזכויות שמורות לברק קנדל

4) במטרה לבדוק האם קיים הבדל בין קווי זהב לבזק מבחינת ממוצע המחירים לשיחות בינ"ל. נגדמו באקראי 7 מדינות ועבור כל מדינה נבדקה עלות דקת שיחה. בהנחה והמחירים מתפלים נורמלית בנו רווח סמך למוצע ההפרשים וקיבלו : $-0.0293 < \mu_D < 0.2145$, רווח הסמך הוא ברמת סמך של 95%.
לכן מסקנת המחקר היא :

א. ברמת מובהקות של 5% לא נוכל לקבוע שקיים הבדל בין החברות.

ב. ברמת מובהקות של 5% נקבע שקיים הבדל מובהק בין החברות.

ג. לא ניתן לדעת מה המסקנה ברמת מובהקות של 5% כיוון שלא נאמר מה ההגדרה של D .

תשובות סופיות

1) א. $-3.8 \le \mu_D \le 19$ ב. נכריע שיש אמת בפרסום.

2) א. $-8.5 \le \mu_X - \mu_Y \le 26.5$ ב. נכריע שאין הבדל.

3) ג'.

4) א'.

© כל הזכויות שמורות לברק קנדל

סטטיסטיקה ב

פרק 12 - ניתוח שונות חד כיוונית

תוכן העניינים

1. כללי 64

ניתוח שונות חד כיוונית

רקע תיאורטי

ניתוח שונות (חד כיווני) הוא מבחן להשוואת תוחלות $\left(\mu_{1...},\mu_k\right)$ של k אוכלוסיות שונות.
לכן, בניתוח שונות, <u>השערות</u> המחקר הן:

$H_0: \mu_1 = \mu_2 = \ldots = \mu_k$ (התוחלות של כל האוכלוסיות שוות)

$H_1:$ אחרת (לפחות שתיים מהתוחלות שונות)

ההנחות הדרושות לביצוע התהליך:

2) בכל אוכלוסייה מתוך k האוכלוסיות ההתפלגות נורמלית.
3) כל האוכלוסיות הן עם אותה שונות σ^2.
4) המדגמים בלתי תלויים זה בזה.

ישנו משתנה המבדיל בין הקבוצות השונות, הוא המשתנה הבלתי תלוי הנקרא גורם (factor). משתנה זה הוא קטגוריאלי עם k רמות (levels).
כדי לבצע את התהליך יש לבצע מדגם מכל אוכלוסייה:
נסמן ב- n_i את גודל המדגם בקבוצה i.

$n = \sum_{1}^{k} n_i$ - מספר התצפיות סך הכול (בכל המדגמים).

$\overline{X}_1$ - ממוצע המדגם הראשון,.....,$\overline{X}_k$ -ממוצע המדגם ה- k -י.
$\overline{X}$ - ממוצע כללי (של כל המדגמים).

סכום ריבועים בין הקבוצות: $SS_B = \sum_{i=1}^{k} n_i \left[\overline{X}_i - \overline{X}\right]^2$

סכום ריבועים בתוך הקבוצות: $SS_W = \sum_{i=1}^{k} n_i \left[n_i - 1\right] \bullet \hat{S}_i^2$

סכום ריבועים כללי: $SS_T = \sum_{i=1}^{k} \sum_{j=1}^{n_j} [X_{ij} - \overline{X}]^2$

$$SST = SSB + SSW$$

יש למלא את טבלת ניתוח השונות הבאה:

© כל הזכויות שמורות לברק קנדל

מקור השונות	סכום הריבועים SS	דרגות חופש df	ממוצע הריבועים MS	F
B - בין הקבוצות	SSB	$k-1$	$\frac{SSB}{k-1}$	$\frac{MSB}{MSW}$
W - בתוך הקבוצות	SSW	$n-k$	$\frac{SSW}{n-k}$	
T - סה"כ	SST	$n-1$		

$$F=\frac{\frac{SSB}{k-1}}{\frac{SSW}{n-k}}\sim F\left(k-1,n-k\right)$$

אזור דחיית H_0 : $1-\alpha$: $F>F_{(k-1,n-k)}$

© כל הזכויות שמורות לברק קנדל

שאלות

1) מחקר מעוניין להשוות בין שלוש תרופות לשיכוך כאבים במטרה לבדוק האם קיים הבדל בין התרופות מבחינת הזמן בדקות שלוקח עד שהתרופה משפיעה. לצורך הבדיקה נלקחו 15 אנשים שסובלים מכאבי ראש. אנשים אלה חולקו באקראי לשלוש: קבוצה 1קיבלה "אקמול" קבוצה 2 קיבלה "אופטלגין" קבוצה 3 קיבלה "נורופן".
כל אדם במחקר מסר את מספר הדקות עד שהתרופה השפיעה עליו.

א. מהו המשתנה התלוי ומהו המשתנה הבלתי תלוי במחקר?
מהו ה"גורם" וכמה רמות יש לו?

ב. מהו המבחן הסטטיסטי המתאים כאן? רשמו את ההשערות.

ג. מה הן ההנחות הדרושות כדי לבצע את המבחן הסטטיסטי שהצעת בסעיף הקודם?

2) בעיר מסוימת שלושה בתי ספר תיכון. ראש העיר התעניין לבדוק האם קיים הבדל בהצלחה של בתי הספר במקצוע מתמטיקה. לצורך כך הוא דגם מספר תלמידים שנבחנו במבחן הבגרות במתמטיקה ברמה של 3 יחידות בעירו ובדק עבור כל תלמיד מה ציון הבגרות שלו במתמטיקה.
להלן הציונים שהתקבלו:

"המתמיד"	"רבין"	"הס"
78	98	85
65	62	83
70	55	74
90	80	85
56		75

א. מהו המבחן הסטטיסטי המתאים?
רשמו את ההשערות ואת ההנחות של המבחן.

ב. מהו גודל המדגם? מהו המשתנה הבלתי תלוי (factor) כמה רמות יש לו?

ג. חשבו את הממוצע ואת סטיית התקן של הציונים בכל אחד מהמדגמים.

ד. מלאו את טבלת ANOVA.

ה. רשמו את כלל ההכרעה למבחן שהוצע בסעיף א ברמת מובהקות של 5%.

ו. האם קיים הבדל בין בתי הספר בעיר מבחינת רמת הצלחת התלמידים במקצוע המתמטיקה? ענה על סמך הסעיפים הקודמים.

3) מעוניינים לבדוק האם יש הבדל בהשפעה של שיטות טפול שונות על לחץ הדם הסיסטולי (SBP) באוכלוסייה של קשישים. נבדקו 4 שיטות שונות.
בטבלה המצורפת מרוכזים ממצאי המחקר.

השיטה	A	B	C	D
גודל המדגם	12	14	8	12
הממוצע	178	172	180	182
סטיית התקן	4	8	5	3

א. רשמו את השערות המחקר וההנחות הדרושות כדי לבצע את המבחן המתאים.

ב. מה מסקנת המחקר ברמת מובהקות של 5%?

ג. האם יש צורך לבצע השוואות מרובות?

© כל הזכויות שמורות לברק קנדל

4) שלושה אופים נתבקשו להכין עוגת שוקולד. לכל אופה בדקו את משך זמן ההכנה בדקות. כל אופה נדרש לאפות בכל יום 4 עוגות.
האם קיים הבדל בין האופים מבחינת תוחלת זמני ההכנה של העוגות?
בדקו ברמת מובהקות של 5%.

האופה	ניר	מוזס	שלום
סכום הזמנים	206	212	182
סכום ריבועי הזמנים	10644	11250	8982

5) להלן טבלת ניתוח שונות חד כיוונית. במחקר בחנו 4 סוגי סוללות. רצו לבדוק האם לסוג הסוללה השפעה על תוחלת אורך החיים שלה. הפעילו את כל הסוללות על אותו מכשיר ובדקו את אורך החיים של כל סוללה בשעות.
מה המסקנה ברמת מובהקות של 10%? רשמו את ההשערות וההנחות הדרושות.

ANOVA

	Sum of Squares	df	Mean Square	F	Sig.
Between Groups	10.317	3	3.439	1.361	.279
Within Groups	60.648	24	2.527		
Total	70.964	27			

6) להלן טבלת ANOVA בטבלה הושמטו חלקים.
השלימו את החלקים בטבלה שהושמטו ומסומנים באותיות.

ANOVA

	Sum of Squares	df	Mean Square	F	Sig.
Between Groups	357.450	ב	ג	ה	.000
Within Groups	א	17	ד		
Total	522.950	19			

© כל הזכויות שמורות לברק קנדל

7) חברת תרופות לקחה 15 אנשים ברמת בריאות דומה. החברה חילקה את האנשים ל שלוש קבוצות שוות בגודלן. לכל קבוצה ניתנה אותה תרופה במינון שונה (dosage). המינונים שניתנו הם : 10 מ״ג, 20 מ״ג ו-30 מ״ג. לאחר שעה מזמן לקיחת התרופה ניבדק קצב פעימות הלב של כל אדם (pulse). הנתונים הוזנו לתוכנה סטטיסטית והתקבלו התוצאות הבאות:

ANOVA

pulse

	Sum of Squares	df	Mean Square	F	Sig.
Between Groups	414.400	2	207.200	19.733	.000
Within Groups	126.000	12	10.500		
Total	540.400	14			

pulse

Tukey HSD[a]

dosage	N	Subset for alpha = 0.05	
		1	2
30.00	5	71.0000	
20.00	5		80.2000
10.00	5		83.4000
Sig.		1.000	.299

Means for groups in homogeneous subsets are displayed.

a. Uses Harmonic Mean Sample Size = 5.000.

Post Hoc Tests

Multiple Comparisons

pulse
Tukey HSD

(I) dosage	(J) dosage	Mean Difference (I-J)	Std. Error	Sig.	95% Confidence Interval	
					Lower Bound	Upper Bound
10.00	20.00	3.20000	2.04939	.299	-2.2675	8.6675
	30.00	12.40000*	2.04939	.000	6.9325	17.8675
20.00	10.00	-3.20000	2.04939	.299	-8.6675	2.2675
	30.00	9.20000*	2.04939	.002	3.7325	14.6675
30.00	10.00	-12.40000*	2.04939	.000	-17.8675	-6.9325
	20.00	-9.20000*	2.04939	.002	-14.6675	-3.7325

*. The mean difference is significant at the 0.05 level.

א. בדקו ברמת מובהקות של 5% האם קיים הבדל בין המינונים השונים מבחינת תוחלת הדופק של האנשים? רשמו את ההשערות וההנחות הדרושות לצורך פתרון.

ב. הסבירו ללא חישוב כיצד הייתה משתנה התשובה לסעיף הקודם אם הינו מעלים את הדופק של כל התצפיות במחקר ב-2.

ג. האם יש צורך במחקר בהשוואת מרובות. נמקו!

ד. לטבלת הANOVA צורפו טבלאות של השוואות מרובות בשיטה הנקראת ״טוקי״. ברמת בטחון של 95% מה הם הממצאים לפי שיטה זו?

© כל הזכויות שמורות לברק קנדל

8) בעיר מסוימת רצו לבדוק האם קיים הבדל ברמה של התלמידים בין בתי הספר השונים בעיר. ביצעו מדגם מכל בית ספר ונתנו מבחן זהה לכל הנדגמים. לאחר מכן ריכזו את הנתונים בתוכנה סטטיסטית והפעילו ניתוח שונות. מצורפים הפלטים שהתקבלו. ענו על הסעיפים הבאים:

א. כמה בתי ספר יש בעיר?

ב. כמה תלמידים השתתפו בסך הכול במחקר?

ג. האם קיים הבדל בין בתי הספר בעיר מבחינה רמת הציונים? בדקו ברמת מובהקות של 1%

ד. בביטחון של 95% אילו בתי ספר שונים זה מזה ברמת התלמידים? נמקו והסבירו.

Oneway

ANOVA

grade

	Sum of Squares	df	Mean Square	F	Sig.
Between Groups	7799.600	4	1949.900	13.586	.000
Within Groups	2870.400	20	143.520		
Total	10670.000	24			

© כל הזכויות שמורות לברק קנדל

Post Hoc Tests

Multiple Comparisons

grade

Scheffe

(I) school	(J) school	Mean Difference (I-J)	Std. Error	Sig.	95% Confidence Interval Lower Bound	95% Confidence Interval Upper Bound
1.00	2.00	5.40000	7.57681	.971	-20.2543	31.0543
	3.00	36.80000*	7.57681	.003	11.1457	62.4543
	4.00	36.40000*	7.57681	.003	10.7457	62.0543
	5.00	-2.60000	7.57681	.998	-28.2543	23.0543
2.00	1.00	-5.40000	7.57681	.971	-31.0543	20.2543
	3.00	31.40000*	7.57681	.011	5.7457	57.0543
	4.00	31.00000*	7.57681	.013	5.3457	56.6543
	5.00	-8.00000	7.57681	.888	-33.6543	17.6543
3.00	1.00	-36.80000*	7.57681	.003	-62.4543	-11.1457
	2.00	-31.40000*	7.57681	.011	-57.0543	-5.7457
	4.00	-.40000	7.57681	1.000	-26.0543	25.2543
	5.00	-39.40000*	7.57681	.001	-65.0543	-13.7457
4.00	1.00	-36.40000*	7.57681	.003	-62.0543	-10.7457
	2.00	-31.00000*	7.57681	.013	-56.6543	-5.3457
	3.00	.40000	7.57681	1.000	-25.2543	26.0543
	5.00	-39.00000*	7.57681	.001	-64.6543	-13.3457
5.00	1.00	2.60000	7.57681	.998	-23.0543	28.2543
	2.00	8.00000	7.57681	.888	-17.6543	33.6543
	3.00	39.40000*	7.57681	.001	13.7457	65.0543
	4.00	39.00000*	7.57681	.001	13.3457	64.6543

*. The mean difference is significant at the 0.05 level.

Homogeneous Subsets

grade

Scheffe[a]

school	N	Subset for alpha = 0.05 1	Subset for alpha = 0.05 2
3.00	5	45.0000	
4.00	5	45.4000	
2.00	5		76.4000
1.00	5		81.8000
5.00	5		84.4000
Sig.		1.000	.888

Means for groups in homogeneous subsets are displayed.
a. Uses Harmonic Mean Sample Size = 5.000.

© כל הזכויות שמורות לברק קנדל

תשובות סופיות

1) א. משתנה בלתי תלוי: סוג התרופה.
משתנה תלוי: הזמן עד להשפעת התרופה בדקות.

ב. ניתוח שונות חד כיווני
$H_0: \mu_1 = \mu_2 = \mu_3$
$H_1: otherwise$.

ג. 1. מדגמים בלתי תלויים.
2. שוויון שונויות.
3. משתנים מתפלגים נורמלית.

2) א. המבחן לניתוח שונות חד כיוונית.
$H_0: \mu_1 = \mu_2 = \mu_3$
$H_1: otherwise$

הנחות:
1. מדגמים בלתי תלויים.
2. משתנים מתפלגים נורמלית.
3. שוויון שונות.

ב. גודל המדגם: 14. משתנה ב"ת: בית הספר, בעל 3 רמות.

ג. $\bar{X} = 71.8, \hat{S} = 12.93$, $\bar{X} = 73.75, \hat{S} = 19.29$, $\bar{X} = 80.4, \hat{S} = 5.46$.

ד. להלן טבלה:

מקור השונות	SS	df	MS	F
B	200.6	2	100.3	
W	1904.75	11	173.2	
סה"כ	2105.35	13		0.58

ה. $F > 3.98$.

ו. נקבל את H_0 .

3) א. $H_0: \mu_1 = \mu_2 = \mu_3 = \mu_4$
$H_1: otherwise$

ב. נדחה את H_0 .

ג. כן.

הנחות:
1. מדגמים בלתי תלויים.
2. שוויון שונויות.
3. משתנים מתפלגים נורמלית.

© כל הזכויות שמורות לברק קנדל

4) נקבל את H_0 : נכריע שאין הבדל מובהק בין האופים מבחינת תוחלת זמן הכנה.

5) $H_0: \mu_1 = \mu_2 = \mu_3 = \mu_4$
$H_1: otherwise$

הנחות:
1. מדגמים בלתי תלויים.
2. שוויון שונויות.
3. משתנים מתפלגים נורמלית.

נקבל את H_0 : לסוג סוללה אין השפעה של תוחלת החיים ברמת ביטחון של 10%.

6) להלן טבלה:

ANOVA

	Sum of Squares	df	Mean Square	F	Sig.
Between Groups	357.450	2 ב	178.725 ג	18.36 ה	.000
Within Groups	165.5 א	17	9.735 ד		
Total	522.950	19			

7) א. $H_0: \mu_1 = \mu_2 = \mu_3$
$H_1: otherwise$

הנחות:
1. מדגמים בלתי תלויים.
2. משתנים מתפלגים נורמלית.
3. שוויון שונות.

נדחה את H_0 : ברמת ביטחון של 5% קיים הבדל במינונים השונים מבחינת תוחלת הדופק.

ב. ראה וידאו. ג. כן. ד. $\mu_{20} = \mu_{10} > \mu_{30}$.

8) א. 5 ב. 25

ג. נדחה את H_0 : יש לפחות שני בתי ספר בעיר עם תוחלת רמת ציונים שונה.

ד. $(\mu_3 = \mu_4) < (\mu_1 = \mu_2 = \mu_3)$.

© כל הזכויות שמורות לברק קנדל

סטטיסטיקה ב

פרק 13 - ניתוח שונות דו כיווני

תוכן העניינים

1. הקדמה..... 73
2. אפקטים פשוטים , עיקריים ואינטראקציה..... 83
3. תהליך ניתוח שונות דו כיווני..... 95

ניתוח שונות דו-כיווני - הקדמה

רקע

ראשית, נחזור על עיקרי ניתוח השונות החד-כיווני (חד-גורמי).

בניתוח שונות חד-כיווני יש משתנה תלוי יחיד, שהוא כמותי, ומשתנה בלתי תלוי יחיד, שהוא משתנה קטגוריאלי (משתנה שהערכים שלו שייכים למספר סופי של קטגוריות). המשתנה הקטגוריאלי נקרא לעתים גם גורם (פקטור), והקטגוריות שלו נקראות רמות. המטרה בניתוח שונות חד-כיווני היא לבדוק האם לגורם יש השפעה מובהקת על המשתנה התלוי. השערת האפס של המחקר בניתוח שונות חד-כיווני היא שבכל הקטגוריות יש אותה התוחלת, והשערת המחקר טוענת שיש לפחות שתי קטגוריות שבהן התוחלות שונות.

<u>דוגמה :(פתרון בהקלטה)</u>

נבדקו שלושה סוגי דיאטות על אנשים בעלי משקל עודף. נבחרו 30 מטופלים בעלי משקל עודף, והם חולקו באקראי לשלוש קבוצות שוות בגודלן, כך שכל קבוצה קיבלה דיאטה נחקרת אחרת. כעבור שלושה חודשים בדקו את מספר הקילוגרמים שהפחית כל מטופל ממשקלו בתקופה זו. מטרת המחקר הייתה לבדוק האם קיים הבדל בין הדיאטות מבחינת ההפחתה במשקל.

- מהו המשתנה התלוי במחקר?
- מהו המשתנה הבלתי תלוי במחקר? כמה רמות יש לו?
- מה הן השערות המחקר?
- מהו המבחן הסטטיסטי המתאים?

בניתוח שונות דו-כיווני אנו מוסיפים עוד משתנה בלתי תלוי למחקר, כלומר עוד גורם שאנו רוצים לבדוק איך הוא משפיע על המשתנה התלוי.
לכן בניתוח שונות דו-כיווני יש משתנה תלוי כמותי יחיד ושני משתנים בלתי תלויים שכל אחר מהם קטגוריאלי. כזכור, למשתנים הבלתי תלויים אנו קוראים גם גורמים (פקטורים), ומספר הקטגוריות של כל גורם נקרא גם מספר הרמות שלו.
ניתוח שונות רב-כיווני או רב-גורמי הוא ניתוח שונות שבו יש יותר מגורם אחד, כלומר יותר ממשתנה בלתי תלוי קטגוריאלי אחד. בניתוח שונות דו-כיווני יש שני גורמים, בניתוח שונות תלת-גורמי יש שלושה גורמים וכו'. ככל שנוסיף גורמים, הניתוח הסטטיסטי יהיה מורכב יותר ויידרשו יותר תצפיות למחקר אבל כיוון שהוא יקטין את שונות הטעויות (שונות מקרית) וייתן יותר הסבר לשונות הכללית, כך שהמבחן יהיה עוצמתי יותר.

© כל הזכויות שמורות לברק קנדל

המשך הדוגמה:

מבין 30 המטופלים שבמחקר 15 היו גברים ו-15 היו נשים. המטופלים חולקו כך שבכל דיאטה השתתפו 5 גברים ו-5 נשים.

מה הם המשתנים הבלתי תלויים? כמה רמות יש לכל משתנה?

בניתוח שונות דו-כיווני אנו בעצם רוצים לבדוק סימולטנית שלוש שאלות מחקר על אוכלוסיית כבדי המשקל:

- האם יש הבדלים משמעותיים בין שיעורי הפחתת המשקל של מטופלים כבדי משקל כתוצאה משימוש בדיאטות שונות?
- האם יש הבדלים משמעותיים בין שיעורי הפחתת המשקל של מטופלים כבדי משקל כתוצאה ממגדר שונה?
- האם יש השפעה משולבת (אינטראקציה) של שני הגורמים הנבדקים על הפחתת המשקל של מטופלים כבדי משקל, כלומר האם צירוף של דיאטה מסוימת ומגדר מסוים מביא להפחתת משקל גדולה יותר או קטנה יותר מצירופים אחרים?

נסמן גורם אחד ב-a ואת מספר הרמות שלו ב-A. באותו האופן הגורם האחר יסומן ב-b, ואת מספר הרמות שלו נסמן ב-B. מספר הקבוצות הכולל שאנו יוצרים הוא $A\cdot B$.

המשך הדוגמה:

- בחרו גורם אחד להיות a וגורם אחר להיות b. מהו A ומהו B?
- כמה קבוצות שונות נוצרו במחקר?

נסמן ב- m את מספר התצפיות בכל תא (בהנחה שהוא יהיה מספר קבוע). תא הוא שילוב של רמה מסוימת של גורם a עם רמה מסוימת של גורם b.

המשך הדוגמה:

- כמה תאים (קבוצות) יש במחקר?
- מה ערכו של m?
- מהו הקשר המתמטי בין m לבין n, גודל המדגם?

© כל הזכויות שמורות לברק קנדל

נסמן ב- a_1 את הרמה הראשונה של a, ב- a_2 את הרמה השנייה שלו וכך הלאה.

נסמן ב- b_1 את הרמה הראשונה של b, ב- b_2 את הרמה השנייה שלו וכך הלאה.

נסמן ב- $\mu_{i.}$ את התוחלת ברמה a_i. נסמן ב- $\mu_{.j}$ את התוחלת ברמה b_j. נסמן ב- μ_{ij} את התוחלת של תא ij.

<u>המשך הדוגמה:</u>

- מה המשמעות של $\mu_{1.}$ ושל $\mu_{.2}$?
- מה המשמעות של μ_{12} ושל μ_{21} ?

<u>השערות המחקר בניתוח שונות דו-כיווני</u>

את השערות המחקר בניתוח שונות דו-כיווני אפשר לרשום בצורות רבות:

H_0: לגורם a אין השפעה על המשתנה התלוי

H_1: אחרת

H_0: לגורם b אין השפעה על המשתנה התלוי

H_1: אחרת

H_0: אין אינטראקציה בין שני הגורמים

H_1: אחרת

© כל הזכויות שמורות לברק קנדל

דרך אחרת היא שימוש בתוחלות:

$H_0: \mu_{1.} = \mu_{2.} = \cdots = \mu_{A.}$

$H_1:$ אחרת

$H_0: \mu_{.1} = \mu_{.2} = \cdots = \mu_{.B}$

$H_1:$ אחרת

$H_0:$ אין אינטראקציה בין שני הגורמים

$H_1:$ אחרת

<u>המשך הדוגמה:</u>

אם אנחנו מעוניינים לבצע ניתוח שונות דו-כיווני, מה הן ההשערות הנחקרות?

© כל הזכויות שמורות לברק קנדל

שאלות

1) בחברת טקסטיל בחנו 4 סוגי בדים שונים מבחינת חוזקם.
דגמו 5 חתיכות בד מכל סוג ובדקו את חוזק הקריעה של כל סוג בד.

א. מהו המשתנה התלוי במחקר?

ב. כמה משתנים בלתי תלויים יש במחקר? מה הם?

ג. מהו המבחן הסטטיסטי המתאים במקרה זה?

2) במחקר בתחום הפסיכולוגיה נדגמו אנשים הסובלים מחרדות מסוגים שונים. כל מטופל סווג כסובל מאחד מסוגי החרדות הבאים: חרדה חברתית, חרדה כללית או אגורפוביה. במחקר השתתפו 6 מטופלים מכל סוג חרדה שצוין. המטופלים במחקר חולקו כך שכל מטופל היה צריך לעבור במשך שנה את אחד מהטיפולים הבאים: טיפול קוגניטיבי התנהגותי (CBT), טיפול קבוצתי או טיפול דיאלקטי התנהגותי (DBT). בכל סוג טיפול השתתפו 2 מטופלים מכל סוג חרדה. בסוף השנה נבדקו כל המטופלים וקיבלו ציון כמותי על השיפור במצבם הנפשי (משתנה כמותי). מטרת המחקר הייתה לבדוק האם סוג החרדה, סוג הטיפול והשילוב ביניהם משפיעים על המצב הנפשי של המטופלים.

א. מהו גודל המדגם?

ב. מהו המשתנה התלוי במחקר הזה ומה הם המשתנים הבלתי תלויים?

ג. כמה קטגוריות יש לכל משתנה בלתי תלוי?

ד. כמה קבוצות שונות יש במערך המחקרי?

ה. מהו המבחן הסטטיסטי המתאים במערך מחקרי זה?

© כל הזכויות שמורות לברק קנדל

3) מחקר שיווקי בדק את השפעת גובה המדף בסופרמרקט והשפעת החומר שממנו עשוי הבקבוק (זכוכית או פלסטיק) על היקף המכירות של משקאות קלים. נבדקו שני סופרמרקטים. בכל סופרמרקט נבחן כל צירוף אפשרי של גובה המדף וחומר הבקבוק, ועבור כל צירוף כזה נבדק מספר בקבוקי המשקה הקל שנמכרו באותו סופרמרקט ביום מסוים. הנה התוצאות שהתקבלו:

סוג בקבוק / גובה המדף	זכוכית	פלסטיק
נמוך	23 32	59 63
בינוני	47 55	88 90
גבוה	40 48	51 56

א. מהו המבחן הסטטיסטי המתאים? נמקו.

ב. מהו מספר הרמות של כל גורם מחקרי?

ג. מה יהיו השערות המחקר אם יתבצע ניתוח שונות דו-כיווני?

ד. מהו ערכו של m ומהו ערכו של n?

© כל הזכויות שמורות לברק קנדל

4) יצרן של נוזל כביסה מעוניין לבחון שני נוזלי ניקוי מבחינת יעילותם בהסרת כתמים בשלוש רמות טמפרטורה. בכל אחד משש הצירופים של סוג נוזל וטמפרטורה נבחנה יכולת הסרת הכתמים מבדים דומים, וניתן ציון בין 0 ל-15 (הציון הטוב ביותר).

מספר סידורי	סוג הנוזל	טמפרטורה במעלות צלזיוס	ציון הסרת כתמים
1	C	30	4
2	C	30	5
3	C	30	4
4	C	30	6
5	C	40	6
6	C	40	6
7	C	40	7
8	C	40	6
9	C	60	9
10	C	60	8
11	C	60	7
12	C	60	10
13	w	30	9
14	w	30	9
15	w	30	9
16	w	30	10
17	w	40	12
18	w	40	13
19	w	40	11
20	w	40	11
21	w	60	14
22	w	60	14
23	w	60	15
24	w	60	13

© כל הזכויות שמורות לברק קנדל

א. כמה משתנים יש במחקר?
ב. לגבי כל משתנה קבעו האם הוא משתנה תלוי או בלתי תלוי.
ג. כמה רמות יש לכל גורם?
ד. אם נבצע ניתוח שונות דו-כיווני, מה יהיו השערות המחקר?
ה. רכזו את נתוני המחקר בטבלה שבה בשורות גורם אחד, בעמודות גורם שני ובתאים התוצאות שהתקבלו למשתנה התלוי.

5) קבעו לגבי כל אחד מהבאים האם הוא משתנה קטגוריאלי:
א. מספר הניתוחים שעבר אדם בחייו.
ב. אחוז האבטלה בישראל בחודש זה.
ג. סוג הדם של חולה.
ד. שונות הציונים בבחינת הבגרות באנגלית במועד האחרון.
ה. משקל חבילה בדואר בגרמים.
ו. היבשת שאירחה את משחקי המונדיאל.

בשאלות הבאות יש לבחור את התשובה הנכונה ביותר:

6) משרד החינוך רוצה לבדוק עד כמה שיטת הוראה (יש 3 שיטות הוראה מקובלות) ומגדר משפיעים על ציוני הבגרות בהיסטוריה. מהו המבחן הסטטיסטי המתאים למחקר זה?
א. מבחן T להשוואת תוחלות.
ב. ניתוח שונות חד-כיווני.
ג. ניתוח שונות דו-כיווני.
ד. מבחן T לתוחלת אחת.

7) מחלקת שירות הלקוחות של חברת החשמל דגמה עובדים כדי לבחון האם ככל שמספר שנות הוותק של נותן השירות גדול יותר גדל גם מספר הלקוחות שבו הוא מטפל במהלך משמרת. מהו המבחן הסטטיסטי שיכול לבדוק זאת?
א. מבחן T להשוואת תוחלות.
ב. ניתוח שונות חד-כיווני.
ג. ניתוח שונות דו-כיווני.
ד. אף אחת מהאפשרויות שלעיל.

© כל הזכויות שמורות לברק קנדל

8) האיחוד האירופי המשותף דגם 10 עובדים מתחום ההוראה בכל אחת מהמדינות הבאות: הולנד, צרפת, בלגיה, גרמניה ואוסטריה. לכל עובד בדקו את גובה המשכורת החודשית שלו ביורו. אם נרצה להשוות בין המדינות הללו מבחינת תוחלת השכר של עובדי ההוראה במדינה, מה יהיה המבחן הסטטיסטי המתאים?

א. מבחן T להשוואת תוחלות

ב. ניתוח שונות חד-כיווני

ג. ניתוח שונות דו-כיווני

ד. אף אחת מהאפשרויות שלעיל

9) בקו ייצור 2 סוגים של מכונות ו-3 רמות ותק של מפעיל המכונה (עד שנתיים במפעל, בין שנתיים ל- חמש שנים במפעל, יותר מחמש שנים במפעל). מנהל הייצור רוצה לבדוק אם קיימת השפעה של סוג המכונה והוותק של המפעיל על מספר המוצרים הפגומים שיוצאים מהמכונה. מה יהיה המבחן הסטטיסטי המתאים במקרה זה?

א. מבחן T להשוואת תוחלות.

ב. ניתוח שונות חד-כיווני.

ג. ניתוח שונות דו-כיווני.

ד. ניתוח שונות תלת-כיווני.

10) במחקר נאספו הנתונים הבאים על קבוצת נחקרים:

1. כמה כוסות קפה הנחקר שותה ביום: לא שותה / 1-2 כוסות/ יותר מ-2 כוסות.
2. מין הנחקר: גבר/אישה.
3. דופק (מספר פעימות בדקה) שעתיים אחרי הקימה.

מטרת המחקר הייתה לבדוק האם מספר כוסות הקפה שאדם שותה ביום משפיע על הדופק אצל גברים אחרת מאשר אצל נשים.
מה יהיה המבחן הסטטיסטי המתאים במקרה זה?

א. מבחן T להשוואת תוחלות.

ב. ניתוח שונות חד-כיווני.

ג. ניתוח שונות דו-כיווני.

ד. ניתוח שונות תלת-כיווני.

© כל הזכויות שמורות לברק קנדל

11) במחקר יש משתנה כמותי אחד ושני גורמים שלכל אחד מהם שתי רמות.
אילו מהמשפטים הבאים אינו נכון?

א. אפשר מבחינה טכנית לבדוק כיצד כל גורם בנפרד משפיע על המשתנה התלוי באמצעות ניתוח שונות חד-כיווני שייערך לכל גורם בנפרד.

ב. אפשר מבחינה טכנית להשוות בין התוחלות של כל רמה בגורם הראשון על ידי מבחן T להשוואת תוחלות.

ג. אפשר מבחינה טכנית לבצע ניתוח שונות דו-כיווני במערך מחקרי זה.

ד. כיוון שבמחקר יש בסך הכול שלושה משתנים, אפשר מבחינה טכנית לבצע ניתוח שונות תלת-כיווני.

תשובות סופיות

1) א. חוזק הקריעה. ב. אחד. סוג הבד.
ג. ניתוח שונות חד גורמי.

2) א. 18
ב. המשתנה התלוי: ציון במצב הנפש. המשתנם הב"ת: סוג חרדה, סוג הטיפול.
ג. 3,3 ד. 9
ה. ניתוח שונות דו גורמי.

3) א. ניתוח שונות דו גורמי. ב. 3,2
ג. H_0: אין אינטראקציה, H_1: יש אינטראקציה. ד. $m=2,\ n=12$

4) א. 3
ב. משתנים ב"ת: סוג הנוזל, טמפרטורה. משתנה תלוי: ציון הסרת כתמים.
ג. 3,2
ד. H_0: אין אינטראקציה בין הגורמים, H_1: אחרת.
ה. עיין בסרטון הוידאו.

5) א. כן. ב. לא.
ג. כן. ד. לא.
ה. תלוי. ו. כן.

6) ג.
7) ד
8) ב
9) ג
10) ג
11) ד

© כל הזכויות שמורות לברק קנדל

אפקטים פשוטים, עיקריים ואינטראקציה

רקע

בניתוח שונות דו-כיווני אנו דנים במשתנה כמותי תלוי יחיד ובשני משתנים בלתי תלויים (גורמים) המחולקים כל אחד למספר רמות.
מטרת המחקר היא לבדוק שלוש השערות שונות:

H_0: לגורם a אין השפעה על המשתנה התלוי

H_1: אחרת

H_0: לגורם b אין השפעה על המשתנה התלוי

H_1: אחרת

H_0: אין אינטראקציה בין שני הגורמים

H_1: אחרת

נרצה להבין מה בדיוק כל השערה בודקת לגבי האוכלוסייה הנחקרת.

<u>אפקט עיקרי</u>: אם יש שתי קטגוריות (רמות) לפחות של גורם מסוים שהתוחלות שלהן שונות, נאמר שלגורם זה יש השפעה על המשתנה התלוי. השפעה זאת נקראת "אפקט עיקרי". למשל, אם יימצאו לפחות שתי תרופות נוגדות דיכאון שונות שמביאות לתוחלות שונות במצב הנפשי, נגיד שלסוג התרופה יש השפעה על המצב הנפשי, כלומר יש אפקט עיקרי. כמות האפקטים העיקריים שאפשר למצוא היא ככמות הגורמים במחקר.

אפקט אינטראקציה: מצב שבו גורם אחד משפיע על המשתנה התלוי באופן שונה בקטגוריות שונות של הגורם השני. למשל, תרופה נוגדת דיכאון אחת מביאה את הגברים למצב רוח טוב יותר מאשר את הנשים לעומת תרופה אחרת שמביאה דווקא את הנשים למצב רוח טוב יותר מאשר את הגברים. אפקט האינטראקציה הוא יחיד, כלומר נאמר אם יש או אין אינטראקציה. כמו כן הוא אפקט סימטרי: אם קיימת אינטראקציה בין מגדר לסוג התרופה, יש גם אינטראקציה בין סוג התרופה למגדר.

אפקט פשוט: אפקט פשוט מתייחס להשפעת גורם אחד על המשתנה התלוי בתוך קטגוריה מסוימת של הגורם השני. למשל, נרצה לבדוק רק בקטגוריה של הגברים האם קיים הבדל בין התרופות נוגדות הדיכאון. אם נמצא הבדלים כאלה נאמר שיש

© כל הזכויות שמורות לברק קנדל

אפקט פשוט של סוג התרופה בקרב אוכלוסיית הגברים. כמות האפקטים הפשוטים שאפשר למצוא היא סכום מספר הקטגוריות (רמות) של כל גורם. למשל, אם יש שלושה סוגי תרופות ושתי אפשרויות למגדר, בסך הכול נוכל לבדוק 5 אפקטים פשוטים.

דוגמה

נבדקו שלושה סוגי דיאטות על אנשים בעלי משקל עודף. כעבור שלושה חודשים בדקו כמה קילוגרמים הפחית כל מטופל ממשקלו באותה התקופה. נניח שאנו יודעים את תוחלת הפחתת המשקל של כל דיאטה בחלוקה למגדרים.

נתאר כמה מצבים אפשריים לגבי האוכלוסייה הנחקרת וננתח כל מצב מבחינת ההשפעה של כל גורם על תוחלת המשתנה התלוי ומבחינת אפקט האינטראקציה.

שימו לב שהמצבים שנתאר להלן מתייחסים לתוחלות האמיתיות. בניתוח שונות אין לנו נתוני אמת, אלא רק נתוני מדגם, ונרצה לבדוק האם האפקטים שהתקבלו במדגם הם מובהקים, כנדרש בכל תהליך של הסקה סטטיסטית.

אם התוצאות שלנו יהיו ממוצעי מדגם ולא תוחלות, נוכל לבדוק אם קיימים אפקטים במדגם, אך אין זה אומר שקיימים אפקטים באוכלוסייה, כלומר לא נוכל לדעת אם האפקטים במדגם הם מובהקים. כדי לבדוק אם האפקטים הם מובהקים נצטרך לעשות את מבחן ניתוח השונות.

מצב א:

הטבלה הבאה מתארת את תוחלת הפחתת המשקל בק"ג לכל קבוצה:

	גברים	נשים
a_1	10	5
a_2	10	5
a_3	10	5

תיאור גרפי לבדיקת אפקט למגדר



© כל הזכויות שמורות לברק קנדל

תיאור גרפי לבדיקת אפקט לסוג הדיאטה

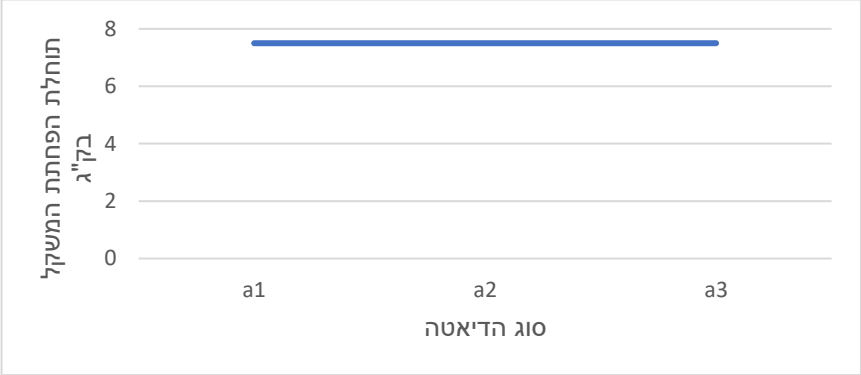

גרף אפקטים פשוטים

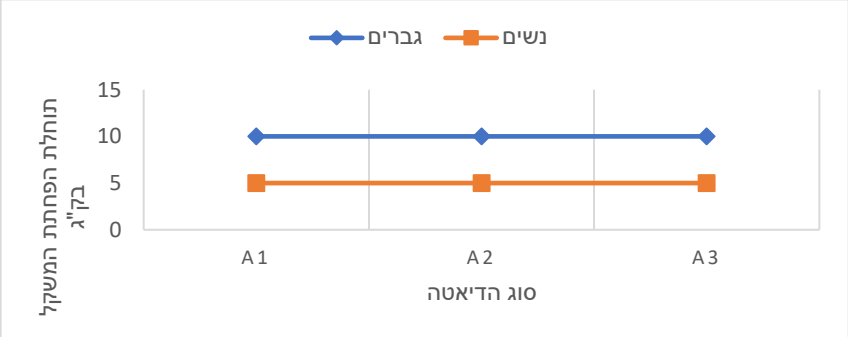

ניתוח המצב: למגדר יש אפקט, לסוג הדיאטה אין אפקט, אין אפקט אינטראקציה.

הערה: אם הקווים הנוצרים בגרף האפקטים הפשוטים מקבילים או מתלכדים, אנו אומרים שאין אפקט אינטראקציה.

© כל הזכויות שמורות לברק קנדל

מצב ב

הטבלה הבאה מתארת את תוחלת הפחתת המשקל בק"ג לכל קבוצה:

	גברים	נשים
a_1	10	10
a_2	5	5
a_3	0	0

תיאור גרפי לבדיקת אפקט למגדר

תיאור גרפי לבדיקת אפקט לסוג הדיאטה

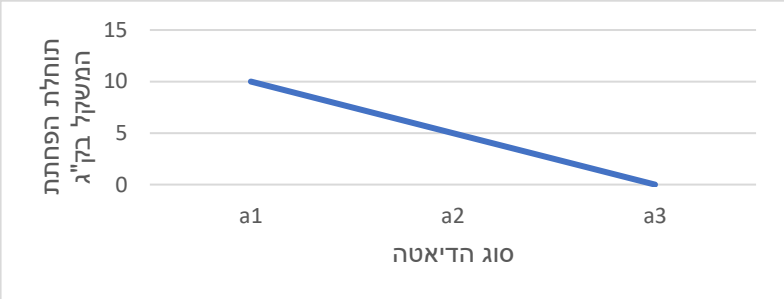

גרף אפקטים פשוטים

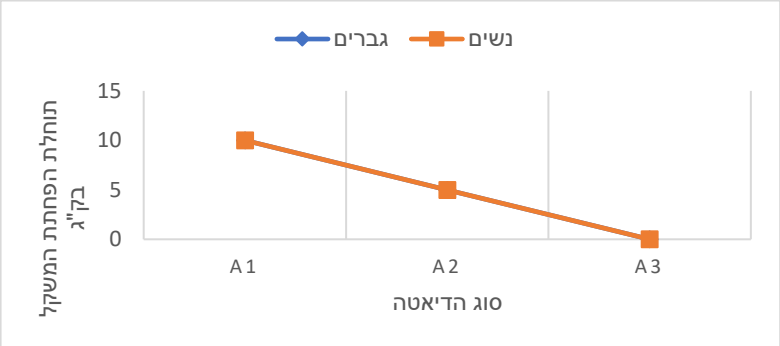

ניתוח המצב: למגדר אין אפקט, לסוג הדיאטה יש אפקט, אין אפקט אינטראקציה.

© כל הזכויות שמורות לברק קנדל

מצב ג

הטבלה הבאה מתארת את תוחלת הפחתת המשקל בק"ג לכל קבוצה:

	גברים	נשים
a_1	10	0
a_2	5	5
a_3	0	10

תיאור גרפי לבדיקת אפקט למגדר

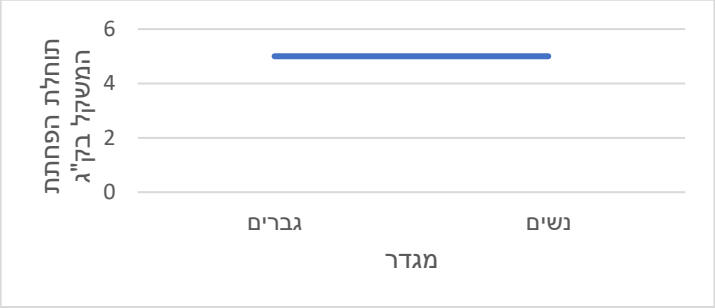

תיאור גרפי לבדיקת אפקט לסוג הדיאטה



גרף אפקטים פשוטים

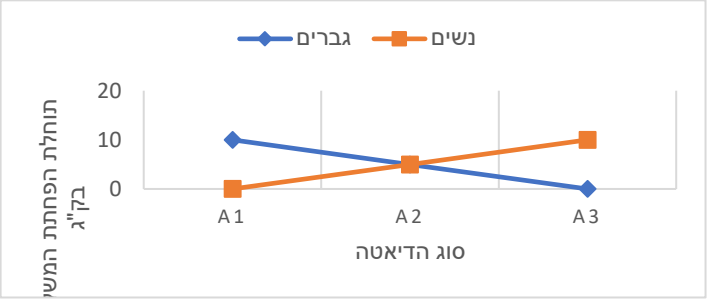

ניתוח המצב: למגדר אין אפקט, לסוג הדיאטה אין אפקט, יש אפקט אינטראקציה.

© כל הזכויות שמורות לברק קנדל

אינטראקציה דיסאורדינלית (נקראת גם "אינטראקציה מהותית"):
אפשר לזהות מצב של אינטראקציה כזו באמצעות גרף של אפקטים פשוטים, כאשר נוצרים קווים נחתכים שאחד מהם עולה והאחר יורד. המשמעות היא שגורם אחד משפיע על המשתנה התלוי ברמה מסוימת של הגורם השני באופן הפוך משהוא משפיע על המשתנה התלוי ברמה אחרת של הגורם השני.
במצב זה אין להתייחס לאפקטים עיקריים. יש להתייחס רק לאפקטים הפשוטים.

מצב ה

הטבלה הבאה מתארת את תוחלת הפחתת המשקל בק"ג לכל קבוצה:

	גברים	נשים
a_1	5	5
a_2	10	6
a_3	15	7

תיאור גרפי לבדיקת אפקט למגדר

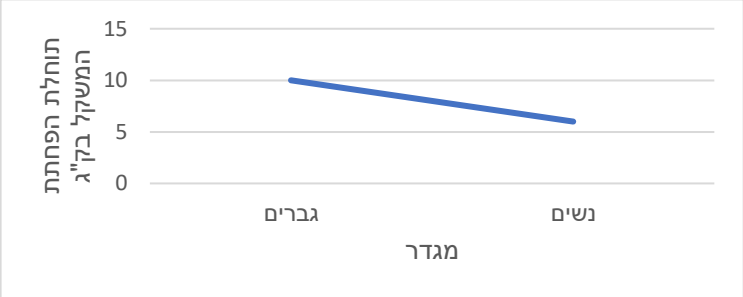

תיאור גרפי לבדיקת אפקט לסוג הדיאטה

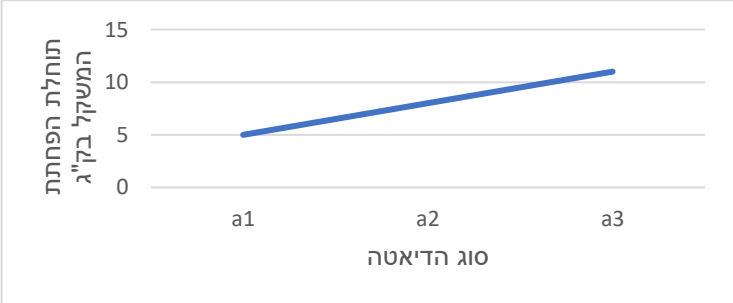

© כל הזכויות שמורות לברק קנדל

גרף אפקטים פשוטים

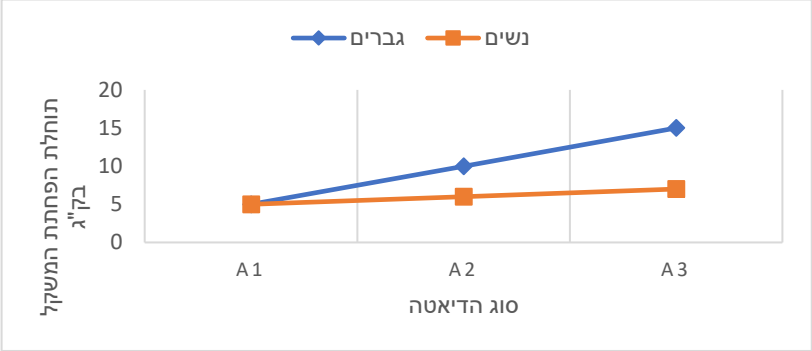

ניתוח המצב: למגדר יש אפקט, לסוג הדיאטה יש אפקט, יש אפקט אינטראקציה.

אינטראקציה אורדינלית (נקראת גם "אינטראקציה לא מהותית"): אפשר לזהות מצב של אינטראקציה כזו כאשר בגרף האפקטים הפשוטים נוצרים קווים נחתכים עם אותו הכיוון (כולם עולים או כולם יורדים אבל לא באותו השיפוע). המשמעות היא שבמעבר של גורם אחד מרמה אחת לרמה אחרת שלו הוא משפיע על המשתנה התלוי באותו אופן בכל רמה של המשתנה האחר אבל עם גודל אפקט שונה.

© כל הזכויות שמורות לברק קנדל

שאלות

1) בגני החובה יש שתי שיטות הוראה. שיטות אלו נוסו על ילדים היפראקטיביים וילדים שאינם היפראקטיביים. בתרשימים הבאים מיוצגים גרפים שמתארים את תוחלת הציון במבחן אוצר המילים שניתן לילדים בסוף השנה.
בכל אחד מהמקרים יש לקבוע האם קיימת אינטראקציה בין שני הגורמים. אם קיימת אינטראקציה, יש לקבוע האם היא אינטראקציה אורדינלית או דיסאורדינלית.

א.

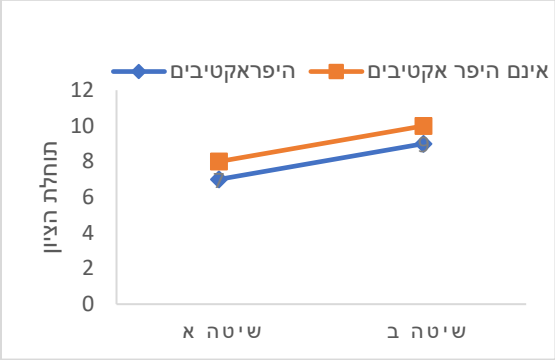

ב.

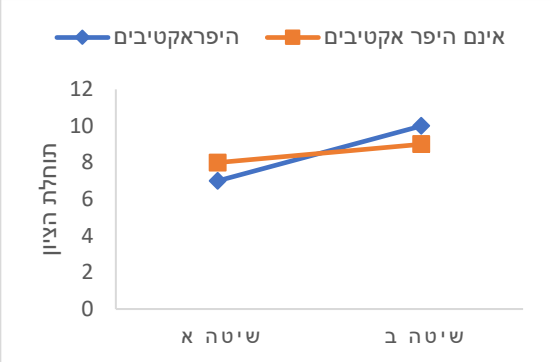

ג.

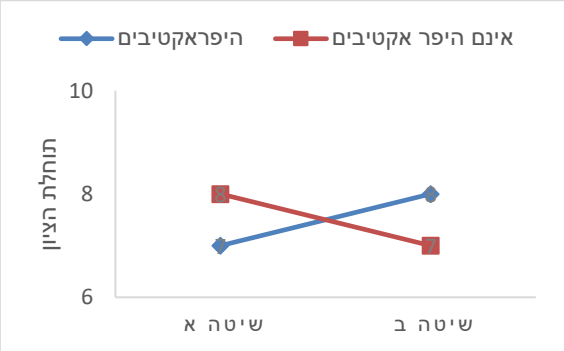

© כל הזכויות שמורות לברק קנדל

ד.

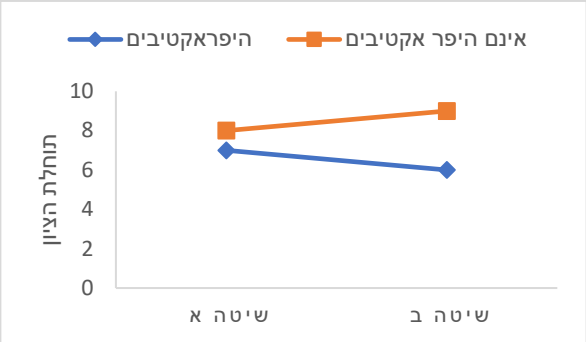

ה.

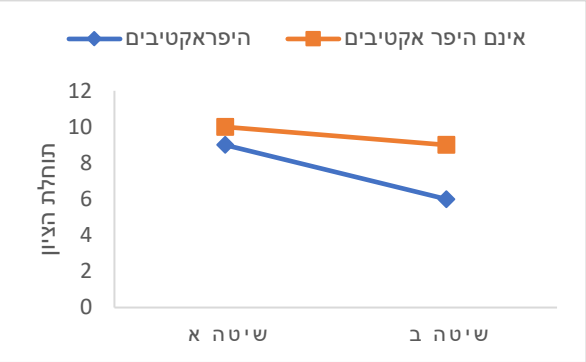

2) משרד האוצר פרסם נתונים על המחיר הממוצע של דירות גן ודירות גג של 4 חדרים ב-3 ערים בארץ. מחיר הדירות נמדד במיליוני שקלים.
להלן התוצאות שהתקבלו:

	דירות גן	דירות גג
הרצליה	4	3
אשדוד	2	1
חולון	3	2

א. מהו המשתנה התלוי ומה הם המשתנים הבלתי תלויים?
ב. האם קיים אפקט לעיר? היעזרו בגרף מתאים.
ג. האם קיים אפקט לסוג הדירה? היעזרו בגרף מתאים.
ד. האם קיימת אינטראקציה בין הגורמים? אם כן, מהו סוג האינטראקציה? היעזרו בגרף מתאים.
ה. האם יש אפקט פשוט לעיר עבור דירות גן?
ו. האם יש אפקט פשוט לעיר עבור דירות גג?
ז. האם יש אפקט פשוט לסוג הדירה בהרצליה?
ח. האם יש אפקט פשוט לסוג הדירה באשדוד?
ט. האם יש אפקט פשוט לסוג הדירה בחולון?

© כל הזכויות שמורות לברק קנדל

3) משרד החינוך פרסם נתונים על תוחלת הציונים בבחינת הבגרות באנגלית לפי עיר וסוג בית הספר (עיוני או מקצועי). להלן התוצאות שהתקבלו:

	עיוני	מקצועי
רעננה	85	70
תל אביב	75	75
פתח תקווה	70	85

א. תארו את הנתונים באמצעות גרף אפקטים פשוטים.
ב. האם קיימת אינטראקציה בין הגורמים? אם כן, מה סוג האינטראקציה?
ג. באילו ערים קיים אפקט פשוט לסוג בית הספר?

4) משרד התחבורה פרסם נתונים על תוחלת מספר עבירות התנועה לבעלי רישיון נהיגה לפי עיר ולפי מגדר. להלן התוצאות שהתקבלו:

	גבר	אישה
חיפה	2	1
אשקלון	2	1
רמת גן	2	1

א. האם קיים אפקט עיקרי לעיר?
ב. האם קיים אפקט עיקרי למגדר?
ג. האם יש אפקט פשוט לעיר אצל הגברים?
ד. האם קיימת אינטראקציה בין הגורמים? אם כן, מהו סוג האינטראקציה?

5) המשרד לאיכות הסביבה פרסם נתונים על תוחלת רמת זיהום האוויר בערים שונות בארץ בחורף ובקיץ. להלן התוצאות שהתקבלו:

	קיץ	חורף
חיפה	20	20
ירושלים	10	10
באר שבע	15	15

א. האם קיים אפקט עיקרי לעיר?
ב. האם קיים אפקט עיקרי לעונה?
ג. האם קיימת עיר שבה יש אפקט פשוט לעונה?
ד. האם קיימת אינטראקציה בין הגורמים? אם כן, מה סוג האינטראקציה?

© כל הזכויות שמורות לברק קנדל

6) המשרד לאיכות הסביבה פרסם נתונים על תוחלת רמת זיהום האוויר בערים שונות בארץ בחורף ובקיץ. להלן התוצאות שהתקבלו:

	קיץ	חורף
רמת גן	10	10
גבעתיים	10	10
בת ים	10	10

האם קיים אפקט עיקרי לגורם כלשהו? האם קיימת אינטראקציה?

בשאלות הבאות יש לבחור את התשובה הנכונה ביותר:

7) במחקר נדגמו 5 אנשים מכל אחת מ-4 הקבוצות הבאות: 1. מתעמלים באופן קבוע ושומרים על תזונה בריאה; 2. מתעמלים באופן קבוע ולא שומרים על תזונה בריאה; 3. לא מתעמלים באופן קבוע ושומרים על תזונה בריאה; 4. לא מתעמלים באופן קבוע ולא שומרים על תזונה בריאה. להלן טבלה המסכמת את ממוצע הטריגליצרידים בדם (מ"ג לדציליטר) שנמצא בכל מדגם:

	תזונה בריאה	לא תזונה בריאה
מתעמלים	90	100
לא מתעמלים	100	160

א. קיים אפקט עיקרי מובהק לגורם ההתעמלות.
ב. קיים אפקט עיקרי מובהק לגורם התזונה.
ג. קיים אפקט אינטראקציה מובהק בין שני הגורמים במחקר.
ד. אי אפשר לדעת אם קיים אפקט מובהק כלשהו על סמך תוצאות המדגם בלבד ללא ביצוע מבחן מתאים וללא קביעת רמת המובהקות של המחקר.

8) במחקר בדקו 3 טיפולים שונים לחולי פסוריאזיס. המחקר השווה גם בין גברים לנשים ובדק את זמן התגובה לטיפול. מסקנת המחקר הייתה שאצל גברים נמצאו הבדלים מובהקים בין הטיפולים השונים מבחינת תוחלת זמן התגובה. לאיזה סוג אפקט המסקנה מתייחסת?

א. אפקט אינטראקציה.
ב. אפקט עיקרי של גורם המין.
ג. אפקט עיקרי של גורם סוג הטיפול.
ד. אפקט פשוט.

© כל הזכויות שמורות לברק קנדל

9) במחקר בדקו 3 טיפולים שונים לחולי פסוריאזיס. המחקר השווה גם בין גברים לנשים ובדק את זמן התגובה לטיפול. במדגם היה ממוצע זמן התגובה של הגברים שונה מממוצע זמן התגובה של הנשים.

א. אפשר להגיד שבמדגם קיים אפקט עיקרי, אך אי אפשר לדעת אם האפקט העיקרי מובהק.

ב. אפשר להגיד שבמדגם קיימת אינטראקציה, אך אי אפשר לדעת אם האינטראקציה מובהקת.

ג. אפשר להגיד שקיים אפקט עיקרי מובהק.

ד. אפשר להגיד שקיימת אינטראקציה מובהקת.

10) במחקר בדקו 3 טיפולים שונים לחולי פסוריאזיס. המחקר השווה גם בין גברים לנשים ובדק את זמן התגובה לטיפול. אחת המסקנות של המחקר הייתה שהטיפולים השונים משפיעים במידה משמעותית יותר על זמן התגובה של הגברים מאשר על זה של הנשים, אם כי באותו האופן.

א. המסקנה היא שאין אינטראקציה בין הגורמים במחקר.

ב. המסקנה היא שיש אינטראקציה אורדינלית בין הגורמים במחקר.

ג. המסקנה היא שיש אינטראקציה דיסאורדינלית בין הגורמים במחקר.

ד. המסקנה היא שיש אפקט עיקרי של המגדר.

תשובות סופיות

1) א. אין אינטראקציה. ב. אינטראקציה אורדינלית.
ג. אינטראקציה דיסאורדנלית. ד. אינטראקציה דיסאורדנלית.
ה. אינטראקציה אורדינלית.

2) א. המשתנים הב"ת: העיר, סוג הדירה. המשתנה התלוי: מחיר.
ב. קיים. ג. קיים.
ד. לא קיים. ה. קיים.
ו. קיים. ז. קיים.
ח. קיים. ט. קיים.

3) א. עיין בסרטון הוידאו. ב. אינטראקציה דיסאורדינלית.
ג. רעננה ופתח תקווה.

4) א. לא. ב. כן.
ג. לא. ד. לא.

5) א. כן. ב. לא.
ג. לא. ד. לא.

6) לא, לא.

7) ד

8) ד

9) א

10) ב

© כל הזכויות שמורות לברק קנדל

תהליך ניתוח שונות דו כיווני – הליך מבחן

רקע

כפי שכבר ציינו, ניתוח שונות דו-כיווני נעשה כאשר יש שני גורמים מחקריים ומשתנה כמותי תלוי אחד. מטרת המחקר היא לבדוק האם הגורמים משפיעים על המשתנה התלוי. מערך מחקר זה נקרא "מערך מחקר פקטוריאלי", כיוון שאנו בונים את המחקר לפי גורמים. מערך דו-גורמי יסומן כמערך מסוג $A\times B$, כאשר A מייצג את מספר הרמות של גורם a, ו-B מייצג את מספר הרמות של גורם b.

במערך מחקרי תלת-גורמי נסמן את סוג המערך $A\times B\times C$, וכך הלאה.

<u>דוגמה</u>

נבדקו שלושה סוגי דיאטות על אנשים בעלי משקל עודף. נבחרו 18 מטופלים בעלי משקל עודף, 9 מהם גברים ו-9 נשים. המטופלים חולקו כך שבכל דיאטה השתתפו 3 גברים ו-3 נשים. כעבור שלושה חודשים מתחילת הדיאטה נשקלו כלל המטופלים ונבדק המשקל בק"ג שהם הפחיתו. הטבלה הבאה מסכמת את המשקל שכל מטופל במדגם הפחית כעבור שלושה חודשים.

מין \ סוג הדיאטה	b_1	b_2	b_3	סה"כ
נשים	8 4 0	6 8 10	4 6 8	54
גברים	6 10 14	0 2 4	9 12 15	72
סה"כ	42	30	54	126

מטרת המחקר היא לבדוק האם יש השפעה של סוג הדיאטה, המין והשילוב ביניהם על ההפחתה במשקל.

- באיזה סוג מערך מחקרי מדובר?
- מהו המבחן הסטטיסטי המתאים לבדיקת ההשערות?
- מה הן השערות המחקר?

© כל הזכויות שמורות לברק קנדל

בדומה לניתוח שונות חד-כיווני גם התהליך של ניתוח שונות דו-כיווני דורש הנחות.
ההנחות הן:

1. $A\times B$ הקבוצות שנוצרות בלתי תלויות זו בזו.
2. בכל $A\times B$ האוכלוסיות המשתנה התלוי מתפלג נורמלית.
3. בכל $A\times B$ האוכלוסיות אותה שונות, σ^2.

<u>הערה</u>: ניתוח שונות הוא מבחן רובסטי, כלומר יש לו רגישות נמוכה להנחות.
התיאוריה הסטטיסטית שפותחה התבססה על ההנחות האלה, אבל הלכה למעשה השיטה תעבוד טוב גם אם ההנחות הללו לא יתקיימו במדויק במלואן. זו הסיבה שהשיטה הזו נפוצה כל כך בעולם הסטטיסטיקה.

<u>בהמשך לדוגמה</u>

רשמו את כל ההנחות הדרושות לביצוע ניתוח השונות.

© כל הזכויות שמורות לברק קנדל

הליך המבחן

בניית טבלת ממוצעים

נבנה טבלת ממוצעים לכל רמה ולכל תא:

$\bar{X}_{i.}$ – ממוצע המדגם ברמה i של גורם a

$\bar{X}_{.j}$ – ממוצע המדגם ברמה j של גורם b

$\bar{X}_{ij}$ – ממוצע המדגם בתא ij

בהמשך לדוגמה

- מלאו את טבלת הממוצעים הבאה:

סוג הדיאטה / מין	b_1	b_2	b_3	$\bar{X}_{i.}$
נשים				
גברים				
$\bar{X}_{.j}$				

- שרטטו גרפים מתאימים לבדיקת אפקטים עיקריים ולבדיקת אינטראקציה במדגם. האם אפשר להגיד שיש אפקט מובהק?

© כל הזכויות שמורות לברק קנדל

<u>בניית טבלת ריבועי הפרשים מהממוצעים</u>

נמלא את הטבלה הבאה. בתוך תא ij נחשב: $(\bar{X}_{ij} - \bar{X}_{i.} - \bar{X}_{.j} + \bar{X})^2$

<u>בהמשך לדוגמה</u>

- מלאו את טבלת הפרשי הממוצעים:

סוג הדיאטה / מין	b_1	b_2	b_3	$(\bar{X}_{i.} - \bar{X})^2$
נשים				
גברים				
$(\bar{X}_{.j} - \bar{X})^2$				

© כל הזכויות שמורות לברק קנדל

חישוב סכום ריבועי הסטיות מהממוצע

מתוך טבלת ריבועי הסטיות מהממוצע נחשב את סכום ריבועי הסטיות מהממוצע הבאים:

הסימון SS הוא ראשי התיבות של "sum of squares" (סכום הריבועים).

סכום ריבועי הסטיות מהממוצע של גורם a: $SS_a = m \cdot B \sum_{i=1}^{A} (\bar{X}_{i.} - \bar{X})^2$

סכום ריבועי הסטיות מהממוצע של גורם b: $SS_b = m \cdot A \sum_{j=1}^{B} (\bar{X}_{.j} - \bar{X})^2$

סכום ריבועי הסטיות של האינטראקציה: $SS_{ab} = m \sum_{i=1}^{A} \sum_{j=1}^{B} (\bar{X}_{ij} - \bar{X}_{i.} - \bar{X}_{.j} + \bar{X})^2$

סכום ריבועי השגיאות (סכום ריבועי הסטיות של התצפיות בתא מהממוצע בתא):

$$SS_W = \sum_{i=1}^{A} \sum_{j=1}^{B} \sum_{k=1}^{m} (X_{ijk} - \bar{X}_{ij})^2 = (m-1) \sum_{i=1}^{A} \sum_{j=1}^{B} S_{ij}^2$$

סכום ריבועי הסטיות של כלל התצפיות מהממוצע הכללי:

$$SS_T = \sum_{i=1}^{A} \sum_{j=1}^{B} \sum_{k=1}^{m} (X_{ijk} - \bar{X})^2 = (n-1) \cdot S^2$$

הקשר המתמטי בין סכום הריבועים הללו הוא:

$$SS_T = SS_a + SS_b + SS_{ab} + SS_W$$

לכן אין אנו צריכים לחשב את כל חמשת המרכיבים הללו.

החלק הזה של הנוסחה מתייחס לשונות השיטתית: $SS_a + SS_b + SS_{ab}$. השונות השיטתית היא שונות שמקורה בגורמים עצמם.

החלק הזה של הנוסחה מתייחס לשונות המקרית: SS_W. השונות המקרית היא שונות שנקראת גם "שונות טעויות" או "שונות בתוך הקבוצות". זוהי שונות בין התצפיות שאינה נובעת מהגורמים הנחקרים. האות W מייצגת את המילה "Within", כלומר שונות **בתוך** התאים.

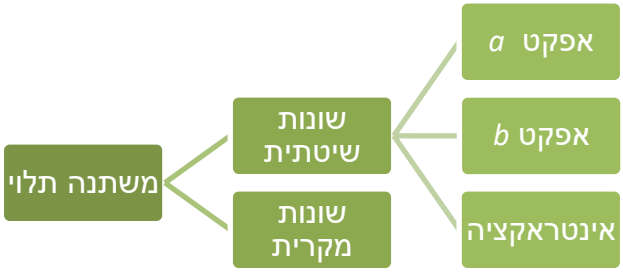

© כל הזכויות שמורות לברק קנדל

<u>בהמשך לדוגמה</u>

- חשבו את ריבועי הסטיות הבאים:

$SS_a =$

$SS_b =$

$SS_{ab} =$

$SS_T =$

$SS_W =$

© כל הזכויות שמורות לברק קנדל

חישוב ממוצע ריבועי הסטיות וסטטיסטי המבחן

MS הוא הסימון של ממוצע ריבועי הסטיות (Mean Square) שמהווה אומד לשונות של כל גורם. החישוב ייעשה על ידי חלוקת ה-SS המתאים בדרגות החופש המתאימות. לאחר מכן נחשב שלושה סטטיסטי מבחן, בהתאם לשלוש ההשערות הנבדקות.

נרכז את כלל החישובים הללו בטבלה הנקראת טבלת ניתוח שונות, ANOVA (Analysis of Variance).

מקור השונות Source of Variation	דרגות החופש Degrees of Freedom	סכום ריבועי הסטיות מהממוצע Sum of Squares	ממוצע ריבוע הסטייה Mean Square	F
a	$A-1$	SS_a	MS_a	$F_a = MS_a / MS_W$
b	$B-1$	SS_b	MS_b	$F_b = MS_b / MS_W$
ab	$(A-1)(B-1)$	SS_{ab}	MS_{ab}	$F_{ab} = MS_{ab} / MS_W$
Within	$AB(m-1)$	SS_W	MS_W	
Total	$n\text{-}1=ABm-1$	SS_T		

© כל הזכויות שמורות לברק קנדל

בהמשך לדוגמה: מלאו את טבלת ניתוח השונות

מקור השונות Source of Variation	דרגות החופש Degrees of Freedom	סכום ריבועי הסטיות מהממוצע Sum of Squares	ממוצע ריבוע הסטייה Mean Square	F
a				
b				
ab				
Within				
Total				

כללי ההכרעה לבדיקת ההשערות

הסטטיסטי F_a מייצג את היחס בין השונות המדגמית של גורם a ובין השונות המקרית. לכן ככל שהערכים שלו גבוהים יותר, נרצה להגיד שלגורם a יש השפעה גדולה יותר על המשתנה התלוי. F_a יקבל ערכים גבוהים אם השונות המדגמית של גורם A תגדל או אם השונות המדגמית המקרית תקטן.
הסטטיסטי מתפלג התפלגות F, ואזור הדחייה שלו יהיה בצד ימין.

- כלל ההכרעה לבדיקת המובהקות של גורם a:

דחה את השערת H_0 ברמת מובהקות של α אם

$$F_a > F_{1-\alpha}\left(df_a, df_W\right)$$

לפי אותו עיקרון שאר כללי ההכרעה יהיו:

- כלל ההכרעה לבדיקת המובהקות של גורם b:

דחה את השערת H_0 ברמת מובהקות של α אם

$$F_b > F_{1-\alpha}\left(df_b, df_W\right)$$

- כלל ההכרעה לבדיקת המובהקות של האינטראקציה:

דחה את השערת H_0 ברמת מובהקות של α אם

$$F_{ab} > F_{1-\alpha}\left(df_{ab}, df_W\right)$$

© כל הזכויות שמורות לברק קנדל

בהמשך לדוגמה

רשמו את כל כללי ההכרעה המתאימים והסיקו מסקנות מתאימות ברמת מובהקות של 5%.

הערות

1. אם מכריעים שקיימת אינטראקציה מובהקת, יש לבדוק האם היא אורדינלית או דיסאורדינלית. אם האינטראקציה דיסאורדינלית, יש לבדוק האם האפקטים העיקריים נמצאו מובהקים. אם לפחות אחד מהם נמצא מובהק נאמר שהוא אינו משמעותי כיוון שהוא נובע מהאינטראקציה בין הגורמים ולא מהגורם עצמו.
2. אם אחד מהאפקטים נמצא מובהק, אין זה אומר אילו רמות שונות זו מזו בתוחלת. למשל, אם נמצא הבדל מובהק בין סוגי הטיפולים, לא נוכל לדעת לפי זה איזה טיפול שונה מאחר באופן מובהק. לכן יש להמשיך בתהליך של השוואות מרובות כדי להסיק ממה נובע השוני.

בהמשך לדוגמה

האם יש סיבה לבצע השוואות מרובות במחקר?

© כל הזכויות שמורות לברק קנדל

שאלות

1) מחקר שיווקי בדק את השפעת גובה המדף בסופרמרקט והשפעת החומר שממנו עשוי הבקבוק (זכוכית או פלסטיק) על היקף המכירות של משקאות קלים. נבדקו שני סופרמרקטים. בכל סופרמרקט נבחן כל צירוף אפשרי של גובה המדף וחומר הבקבוק, ועבור כל צירוף כזה נבדק מספר בקבוקי המשקה הקל שנמכרו באותו סופרמרקט ביום מסוים. הנה התוצאות שהתקבלו:

גובה המדף \ סוג בקבוק	זכוכית	פלסטיק
נמוך	23 32	59 63
בינוני	47 55	88 90
גבוה	40 48	51 56

בצעו ניתוח שונות דו-כיווני על נתוני מחקר זה ברמת מובהקות של 5%. סכמו את המסקנות מתוך ניתוח השונות שביצעתם. מה הן ההנחות הדרושות לביצוע המבחן?

© כל הזכויות שמורות לברק קנדל

2) במחקר בתחום החקלאות נדגמו 8 חלקות אדמה: 4 חלקות בנגב ו-4 בעמק יזרעאל. בכל חלקה ההשקיה הייתה או באמצעות ממטרות או באמצעות טפטפות. בדקו את יבול העגבניות (בטונה לדונם) בכל חלקה.
להלן התוצאות שהתקבלו:

מספר חלקה	מיקום החלקה	שיטת השקיה	יבול העגבניות
1	נגב	ממטרות	12
2	נגב	ממטרות	10
3	נגב	טפטפות	15
4	נגב	טפטפות	17
5	עמק יזרעאל	ממטרות	12
6	עמק יזרעאל	ממטרות	14
7	עמק יזרעאל	טפטפות	17
8	עמק יזרעאל	טפטפות	19

א. רשמו את כלל המשתנים במחקר וציינו לגבי כל אחד מהם האם הוא משתנה תלוי או בלתי תלוי.

ב. הציגו את נתוני המחקר באמצעות גרפים מתאימים. האם נראה שבמדגם יש אפקט עיקרי לכל גורם? האם יש אינטראקציה בין הגורמים במדגם? האם האפקטים מובהקים?

ג. בדקו ברמת מובהקות של 5% האם האפקט העיקרי של כל גורם הוא מובהק והאם האינטראקציה היא מובהקת. מה הן ההנחות הדרושות?

© כל הזכויות שמורות לברק קנדל

3) חברה לייצור מוצרי שיער פיתחה נוסחה חדשנית לצבע לשיער שאינו דורש תוספת חמצן בעת תהליך הצביעה. החברה השוותה את צבע השיער החדש לצבע השיער הרגיל מבחינת כושר הכיסוי וזאת על שלושה סוגי שיער: בהיר, כהה ושיבה. ציון רמת הכיסוי הוא משתנה שמתפלג נורמלית עם שונות קבועה לכל סוג שיער ולכל סוג צבע. לכל קבוצה של סוג צבע וסוג שיער נדגמו 4 צביעות שנוסו על אנשים שונים, וניתן ציון מספרי על רמת הכיסוי.
להלן סיכום תוצאות המדגם שהתקבלו:

הקבוצה	ממוצע	שונות
צבע רגיל על שיער בהיר	62	40
צבע רגיל על שיער כהה	51	44
צבע רגיל על שיער שיבה	45	42
צבע חדש על שיער בהיר	60	46
צבע חדש על שיער כהה	54	40
צבע חדש על שיער שיבה	44	42

בצעו ניתוח שונות דו-כיווני על הנתונים ברמת מובהקות של 5%. סכמו את כל המסקנות המתקבלות.

4) בוצע ניתוח שונות על נתונים. במערך המחקרי לגורם a יש 4 רמות ולגורם b יש 3 רמות. נערכו 3 תצפיות לכל אחת מ-12 הקבוצות שנוצרו. להלן טבלת ניתוח שונות דו-גורמי שבוצע:

מקור השונות	df	SS	MS	F
a	?	318	?	?
b	?	?	?	?
אינטראקציה	?	190	?	?
W	?	156	?	
T	?	674		

א. מלאו את כל התאים בטבלה המסומנים בסימני שאלה.

ב. בצעו את הבדיקות הבאות ברמת מובהקות של 5%:

i. האם האינטראקציה מובהקת?

ii. האם גורם a משפיע על המשתנה התלוי הנחקר?

iii. האם לגורם b יש לפחות שתי רמות עם תוחלות שונות?

© כל הזכויות שמורות לברק קנדל

5) במחקר בדקו האם ארץ מוצא ומגדר של אדם משפיעים על שנות ההשכלה שלו. הנתונים סוכמו בטבלת ניתוח שונות:

מקור השונות	df	SS	MS	F
ארץ מוצא	4	34		
מגדר			2	
אינטראקציה		18	4.5	
W	10	12		
T				

א. כמה ארצות מוצא נבדקו במחקר זה?

ב. מהו גודל המדגם הכולל במחקר זה?

ג. חשבו את ערכי F הסטטיסטי עבור ארץ המוצא, המגדר והאינטראקציה.

ד. מה הם האפקטים המובהקים במחקר זה ברמת מובהקות של 5%?

© כל הזכויות שמורות לברק קנדל

6) בטבלה הבאה מסוכמים הממוצעים של מערך מחקרי דו-גורמי עם משתנה כמותי תלוי:

	b_1	b_2	b_3
a_1	8	14	11
a_2	6	13	16

מספר התצפיות בכל תא הוא 5.
הטבלה הבאה היא טבלה מסכמת של ניתוח השונות על סמך נתוני מחקר זה:

מקור השונות	df	SS	MS	F
a				
b		281.7		
ab		71.7		
W		190.1		
T				

א. מלאו את טבלת ניתוח השונות.
ב. הסיקו מסקנות ברמת מובהקות של 5%.
ג. שרטטו גרף אינטראקציות והסבירו את משמעות הממצאים.

תשובות סופיות

1) עיין בסרטון הוידאו.
2) א. משתנים ב"ת: מיקום החלקה, שיטת השקיה. משתנה תלוי: יבול בטונה לדונם.
ב. עיין בסרטון הוידאו. ג. עיין בסרטון הוידאו
3) עיין בסרטון הוידאו.
4) א. עיין בסרטון הוידאו. ב. i. כן. ii. כן. iii. לא.
5) א. 4 ב. 20 ג. עיין בסרטון הוידאו.
ד. עיין בסרטון הוידאו.
6) א. עיין בסרטון הוידאו. ב. עיין בסרטון הוידאו. ג. עיין בסרטון הוידאו.

© כל הזכויות שמורות לברק קנדל

סטטיסטיקה ב

פרק 14 - שאלות אמריקאיות מסכמות בבדיקת השערות

תוכן העניינים

1. שאלות רב ברירה (אמריקאיות) 109

שאלות סיכום – שאלות רב ברירה על בדיקת השערות

1) בבדיקת השערה חד-צדדית ימנית ברמת מובהקות $\alpha = 0.01$, נדחתה השערת האפס. מה הייתה המסקנה לו נבדקה אותה ההשערה באמצעות אותם נתונים ברמת מובהקות $\alpha = 0.05$?

א. השערת האפס הייתה נדחית.

ב. השערת האפס לא הייתה נדחית.

ג. ההשערה המחקרית הייתה נדחית.

ד. בהעדר נתונים נוספים, לא ניתן לדעת.

2) לצורך בדיקת השפעת היפנוזה על לימוד אנגלית, נבחרו 10 זוגות תאומים זהים. אחד התאומים למד אנגלית בהשפעת היפנוזה, והשני ללא היפנוזה. לאחר מכן נערך לשניהם מבחן באנגלית. נניח שציוני המבחן מתפלגים נורמאלית ללא ידיעת השונות האמיתית. המבחן שיש לבצע כאן הוא:

א. מבחן Z למדגם יחיד.

ב. מבחן T למדגם יחיד.

ג. מבחן T למדגמים בלתי תלויים.

ד. מבחן T למדגמים מזווגים.

3) כדי לבדוק את הטענה שגברים רווקים שוקלים פחות מגברים נשואים לקח חוקר מדגם מקרי של 4 גברים ומדד את משקלם לפני נישואיהם ולאחר נישואיהם. הנה התוצאות:

מהן ההשערות הנבדקות?(ההפרש חושב $X - Y$)

לפני הנישואין- X	69	93	82	68
לאחר הנישואין- Y	80	88	84	71

א. $H_1: \mu_d < 0, \quad H_0: \mu_d = 0$

ב. $H_1: \mu_X - \mu_Y < 0, \quad H_0: \mu_X - \mu_Y = 0$

ג. $H_1: \mu_X - \mu_Y < 0, \quad H_0: \mu_X - \mu_Y = 0$

ד. $H_1: \mu_d > 0, \quad H_0: \mu_d = 0$

4) חוקר ביצע מחקר ובו עשה טעות מסוג שני לכן:

א. השערת האפס נכונה.

ב. השערת האפס נדחתה.

ג. השערת האפס לא נדחתה.

ד. אף אחת מהתושבות לא נכונה בהכרח.

© כל הזכויות שמורות לברק קנדל

5) ידוע כי ילד בגיל שנתיים ישן בממוצע 9 שעות בלילה. במדגם של 20 תינוקות בני שנתיים המתגוררים בצפון נמצא, כי ממוצע שעות השינה בלילה הינו 10 עם סטיית תקן של 1.1 במדגם של 10 תינוקות בדרום נמצא, כי ממוצע שעות השינה בלילה הינו 7.9 עם סטיית תקן של 1.1. על מנת להשוות בין ממוצע שעות השינה של ילדים מהצפון לבין זה של כלל הילדים יש לערוך _____, ועל מנת להשוות בין ממוצע שעות השינה של ילדים מהדרום לזה של ילדים המתגוררים בצפון יש לערוך _____.
יש להניח שההנחות הדרושות מתקיימות.

א. מבחן Z למדגם יחיד ; מבחן T למדגם יחיד.
ב. מבחן T למדגם יחיד ; מבחן T למדגמים תלויים.
ג. מבחן T למדגם יחיד ; מבחן T למדגמים בלתי תלויים.
ד. מבחן T למדגמים בלתי תלויים ; מבחן T לממוצע יחיד.

6) מובהקות התוצאה (PV) היא גם :

א. רמת המובהקות המינימאלית לדחות השערת האפס.
ב. רמת המובהקות המקסימאלית לדחיית השערת האפס.
ג. רמת המובהקות שנקבעת מראש על ידי החוקר טרם קיבל את תוצאות המחקר.
ד. רמת המובהקות המינימאלית לאי דחיית השערת האפס.

7) כדי לבדוק את הטענה שגברים רווקים שוקלים פחות מגברים נשואים לקח חוקר מדגם מקרי של 4 גברים ומדד את משקלם לפני נישואיהם ולאחר נישואיהם. הנה התוצאות :

לפני הנישואין	69	93	82	68
לאחר הנישואין	80	88	84	71

באיזה התפלגות משתמשים לבדיקת ההשערות, ובכמה דרגות חופש :

א. ההתפלגות Z ללא דרגות חופש.
ב. ההתפלגות T ו-3 דרגות חופש.
ג. ההתפלגות T ו-6 דרגות חופש.
ד. ההתפלגות χ^2 ו-3 דרגות חופש.

© כל הזכויות שמורות לברק קנדל

8) שני סטטיסטיקאים בודקים השערות ברמת מובהקות $\alpha = 0.05$ על סמך אותו מדגם. סטטיסטיקאי א' בודק את ההשערה: $H_0 : \mu = 20$ כנגד האלטרנטיבה $H_1 : \mu \neq 20$ ומחליט לא לדחות את השערת האפס.

סטטיסטיקאי ב' בודק את ההשערה $H_0 : \mu \leq 20$ כנגד האלטרנטיבה $H_1 : \mu > 20$ מה יחליט סטטיסטיקאי ב'?

א. לדחות את השערת האפס.

ב. לא לדחות את השערת האפס.

ג. ללא נתונים נוספים אי אפשר לדעת מה יחליט.

9) חוקר בדק השערה מסוימת והחליט לדחות את השערת האפס ברמת מובהקות 5%. מה נכון לומר?

א. הוא בוודאות ידחה את השערת האפס ברמת מובהקות 9% ואילו ברמת מובהקות 2% יש לבדוק מחדש.

ב. הוא בוודאות לא ידחה את השערת האפס ברמת מובהקות 9% ואילו ברמת מובהקות 2% יש לבדוק מחדש.

ג. הוא בוודאות ידחה את השערת האפס ברמת מובהקות 9% וברמת מובהקות 2%.

ד. הוא בוודאות לא ידחה את השערת האפס ברמת מובהקות 9% ואילו ברמת מובהקות 2% יש לבדוק מחדש.

10) רמת הכולסטרול בדמם של אנשים מתפלג נורמאלית עם תוחלת של 180 מ"ג (ל 100 סמ"ק דם). וסטיית תקן של 10 מ"ג. מעוניינים לבדוק את הטענה שצמחונים הם בעלי רמת כולסטרול נמוכה יותר.
נניח שסטיית התקן אצל צמחונים זהה לסטיית התקן של כלל האנשים.
במדגם של 20 צמחונים התקבל ממוצע רמת כולסטרול 174.5 מ"ג.
אם הוחלט לקבל את הטענה שצמחונים הם בעלי רמת כולסטרול נמוכה יותר איזה סוג טעות אפשרית במסקנה?

א. טעות מסוג ראשון.

ב. טעות מסוג שני.

ג. טעות מסוג שלישי.

ד. לא ניתן לדעת כיוון שאנו לא יודעים מה התוחלת האמתית אצל הצמחוניים.

© כל הזכויות שמורות לברק קנדל

11) שני חוקרים העוסקים בתחום מחקרי משותף החליטו להסתמך על נתונים של מדגם שפורסם על ידי הלשכה המרכזית לסטטיסטיקה.
חוקר א' ניסח השערה דו צדדית ואילו חוקר ב' ניסח השערה חד צדדית.
מסקנתו של איזה מבין המשפטים הבאים הוא הנכון בנוגע למסקנות החוקרים?

א. אם חוקר א' ידחה את השערת האפס לא ניתן לדעת מה יחליט חוקר ב' באותה רמת מובהקות.

ב. אם חוקר א' יקבל את השערת האפס גם חוקר ב' יקבל את השערת האפס באותה רמת מובהקות.

ג. אם חוקר ב' ידחה את השערת האפס גם חוקר א' ידחה את השערת האפס באותה רמת מובהקות.

ד. אם חוקר א' ידחה את השערת האפס גם חוקר ב' ידחה את השערת האפס בתנאי שרמת המובהקות כפולה בגודלה.

12) ידוע מנתוני העבר כי תוחלת הציונים בבחינה בפסיכולוגיה היא 79. הועלתה השערה כי תוחלת הציונים בקרב העולים החדשים נמוכה יותר. לצורך בדיקת הטענה נלקח מדגם מקרי של 47 סטודנטים עולים ונמצא ממוצע של 75.
מה משמעות הפרמטר בניסוח ההשערות?

א. תוחלת ציוני העולים באוכלוסייה.

ב. ממוצע ציוני העולים במדגם.

ג. תוחלת ציוני האוכלוסייה מנתוני העבר.

ד. ממוצע ציוני שאר האוכלוסייה במדגם.

13) חוקר ביצע מחקר וידוע כי עשה טעות מסוג 1. מה מהבאים נכון?

א. החוקר דחה את השערת H_0 כאשר היא הייתה נכונה.

ב. החוקר דחה את השערת H_1 כאשר היא הייתה נכונה.

ג. החוקר לא דחה את השערת H_0 כאשר היא הייתה לא נכונה.

ד. המדגם של החוקר שייך בפועל להתפלגות הדגימה של H_1.

14) חוקר ביקש לבחון האם תאומים זהים אשר הופרדו בילדותם שונים מתאומים זהים אשר גדלו יחדיו מבחינת מידת הפער בין התאומים בלחץ הדם. הוא דגם 20 זוגות תאומים מכל אוכלוסייה ומדד את הפרש בין לחץ הדם בכל זוג תאומים. מהו המבחן הסטטיסטי המתאים?

א. מבחן T למדגמים בלתי תלויים עם 38 דרגות חופש.

ב. מבחן T למדגמים מזווגים, עם 39 דרגות חופש.

ג. מבחן T למדגמים בלתי תלויים עם 39 דרגות חופש.

ד. מבחן T למדגמים מזווגים עם 38 דרגות חופש.

© כל הזכויות שמורות לברק קנדל

15) שלושה חוקרים רצו לבדוק את השפעתו של שידור פרסומות נגד תאונות דרכים על מהירות הנהיגה של נהגים בישראל (השונות של מהירות הנהיגה בישראל אינה ידועה). עידו השווה את מהירות הנהיגה של קבוצת נהגים אחת, חודש לפני שידור הפרסומות וחודש לאחר שידור הפרסומות.
רון השווה את מהירות הנהיגה של קבוצת נהגים, שראו את הפרסומות, למהירות הנהיגה של קבוצת נהגים, שלא ראו את הפרסומות.
יואב השווה את מהירות הנהיגה של קבוצת נהגים בחודש בו שודרו הפרסומות, למהירות הנהיגה הממוצעת בישראל על פי נתוני משרד התחבורה.
המבחנים בהם צריכים החוקרים להשתמש הם:

א. שלושתם במבחן T למדגמים בלתי תלויים.
ב. עידו במבחן T למדגמים מזווגים, ורון ויואב במבחן T למדגמים בלתי תלויים.
ג. עידו במבחן T למדגמים מזווגים, רון במבחן T למדגמים בלתי תלויים ויואב במבחן T למדגם יחיד.
ד. עידו במבחן T למדגמים מזווגים, רון ויואב במבחן T למדגם יחיד.

16) במחקר נמצא שתוצאה היא מובהקת ברמת מובהקות של 5%.
מה תמיד נכון?

א. הגדלת רמת המובהקות לא תשתנה את מסקנת המחקר.
ב. הגדלת רמת המובהקות תשנה את מסקנת המחקר.
ג. הקטנת רמת המובהקות לא תשנה את מסקנת המחקר.
ד. הקטנת רמת המובהקות תשנה את מסקנת המחקר.

17) חוקר ערך מבחן דו צדדי ברמת מובהקות של α והחליט לדחות את השערת האפס. אם החוקר היה עורך מבחן חד צדדי ברמת מובהקות של $\frac{\alpha}{2}$ אזי בהכרח:

א. השערת האפס הייתה נדחית.
ב. השערת האפס הייתה לא נדחית.
ג. לא ניתן לדעת מה תהיה מסקנתו במקרה זה.

18) ליאור ורוני העלו את אותן השערות על ממוצע האוכלוסייה. כמו כן הם התבססו על אותן תוצאות של מדגם.
ליאור השתמש בטבלה של התפלגות Z.
רוני השתמשה בטבלה של התפלגות T.
מה נוכל לומר בנוגע להחלטת המחקר שלהם?

א. אם ליאור ידחה את השערת האפס אז גם בהכרח רוני.
ב. אם רוני תדחה את השערת האפס אז גם בהכרח ליאור.
ג. שני החוקרים בהכרח יגיעו לאותה מסקנה.
ד. לא ניתן לדעת על היחס בין דחיית השערת האפס של שני החוקרים.

© כל הזכויות שמורות לברק קנדל

19) נתון ש $X \sim N(\mu,\sigma^2)$ כמו כן נתונות ההשערות הבאות: $H_0: \mu=\mu_0, \quad H_1: \mu<\mu_0$.
חוקר בדק את ההשערות הללו על סמך מדגם שכלל 10 תצפיות. σ^2 לא הייתה ידועה לחוקר. החוקר החליט לדחות את השערת האפס ברמת מובהקות של 5% לאחר מכן כדי לחזק את קביעתו הוא דגם עוד 5 תצפיות ושקלל את תוצאות אלה גם למדגם כך שכלל עכשיו 15 תצפיות.

א. כעת בברור הוא ידחה את השערת האפס.
ב. כעת הוא דווקא יקבל את השערת האפס.
ג. כעת לא ניתן לדעת מה תהיה מסקנתו.

20) אם חוקר החליט להגדיל את רמת המובהקות במחקר שלו אזי:

א. הסיכוי לטעות מסוג ראשון גדל.
ב. העוצמה של המבחן גדלה.
ג. הסיכוי לטעות מסוג שני גדל.
ד. תשובות א ו-ב נכונות.

21) חוקר ביצע מחקר ובו עשה טעות מסוג שני לכן:

א. השערת האפס נכונה.
ב. השערת האפס נדחתה.
ג. השערת האפס לא נדחתה.
ד. אף אחת מהתושבות לא נכונה בהכרח.

22) מה המצב הרצוי לחוקר המבצע בדיקת השערה:

	α	$1-\beta$
א.	גדולה	גדולה
ב.	גדולה	קטנה
ג.	קטנה	גדולה
ד.	קטנה	קטנה

23) נערך שינוי בכלל ההחלטה של בדיקת השערה מסוימת ובעקבותיו אזור דחיית H_0 קטן. כל שאר הגורמים נשארו ללא שינוי. כתוצאה מכך:

א. הן α, והן $(1-\beta)$, יקטנו.
ב. α יישאר ללא שינוי ואילו $(1-\beta)$ יגדל.
ג. α יגדל ואילו $(1-\beta)$ יקטן.
ד. הן α והן $(1-\beta)$ יגדלו.

© כל הזכויות שמורות לברק קנדל

24) ידוע כי לחץ דם תקין באוכלוסייה הוא 120. רופא מניח שלחץ הדם בקרב עיתונאים גבוה יותר מהממוצע באוכלוסייה. הוא לקח מדגם של 60 עיתונאים וקיבל ממוצע 137. על סמך המדגם, הוא בודק טענתו ברמת מובהקות 0.02 ומסיק שלחץ הדם בקרב העיתונאים אינו גבוה יותר. מה הטעות האפשרית שהרופא עושה?

א. טעות מסוג ראשון.
ב. טעות מסוג שני.
ג. טעות מסוג שלישי.
ד. אין טעות במסקנתו.

25) בבדיקת השערות התקבל שה- $p-value=0.02$.
מה תהיה מסקנת חוקר המשתמש ברמת מובהקות 1%?
בחר בתשובה הנכונה:

א. יקבל את השערת האפס בכל מקרה.
ב. ידחה את השערת האפס מקרה.
ג. ידחה את השערת האפס רק אם המבחן הנו דו צדדי.
ד. לא ניתן לדעת כי אין מספיק נתונים.

26) מובהקות התוצאה (PV) היא גם:

א. רמת המובהקות המינימאלית לדחות השערת האפס.
ב. רמת המובהקות המקסימאלית לדחיית השערת האפס.
ג. רמת המובהקות שנקבעת מראש על ידי החוקר טרם קיבל את תוצאות המחקר.
ד. רמת המובהקות המינימאלית לאי דחיית השערת האפס.

27) בבדיקת השערות מסוימת התקבל $p\ value=0.0254$, לכן:

א. ברמת מובהקות של 0.01 אך לא של 0.05 נדחה את H_0 .
ב. ברמת מובהקות של 0.01 ושל 0.05 לא נדחה את H_0 .
ג. ברמת מובהקות של 0.05 אך לא של 0.01 נדחה את H_0 .
ד. ברמת מובהקות של 0.01 ושל 0.05 נדחה את H_0 .

28) רמת המובהקות במחקר הייתה 2% לכן.

א. בסיכוי של 2% נדחה את השערת האפס.
ב. בסיכוי של 2% לא נדחה את השערת האפס.
ג. בסיכוי של 2% השערת האפס לא נכונה.
ד. אף תשובה לא נכונה.

© כל הזכויות שמורות לברק קנדל

29) נתון ש: $X \sim N(\mu,\sigma^2)$. כמו כן נתונות ההשערות הבאות: $H_0: \mu=\mu_0, \quad H_1: \mu<\mu_0$.
חוקר בדק את ההשערות הללו על סמך מדגם שכלל 10 תצפיות.
σ^2 לא הייתה ידועה לחוקר. החוקר החליט לדחות את השערת האפס ברמת מובהקות של 5%. אם הוא היה מגדיל את רמת המובהקות ל-10% אזי:

א. כעת בברור הוא ידחה את השערת האפס.

ב. כעת הוא דווקא יקבל את השערת האפס.

ג. כעת לא ניתן לדעת מה תהיה מסקנתו.

30) לצורך בדיקת השפעת היפנוזה על לימוד אנגלית, נבחרו 10 זוגות תאומים זהים. אחד התאומים למד אנגלית בהשפעת היפנוזה, והשני ללא היפנוזה. לאחר מכן נערך לשניהם מבחן באנגלית. נניח שציוני המבחן מתפלגים נורמאלית ללא ידיעת השונות האמתית. מספר דרגות החופש במבחן הוא:

א. 9

ב. 19

ג. 18

ד. 8

31) בתחנת טיפת חלב מסוימת יש שני מכשירי שקילה. על מנת להשוות בין שני המשקלים נדגמו 4 תינוקות. כל תינוק בן חודשיים נשקל בכל אחד מהמשקלים. להלן תוצאות השקילה (בק"ג):

משקל במכשיר 1	4.5	9.6	0.7	2.5
משקל במכשיר 2	3.5	6.9	1.7	0.5

נניח שהמשקלים מתפלגים נורמלית.
המבחן שיש לבצע כאן הוא:

א. מבחן Z למדגם יחיד.

ב. מבחן T למדגם יחיד.

ג. מבחן T למדגמים בלתי תלויים.

ד. מבחן T למדגמים מזווגים.

32) כדי להשוות בין שני אצים נדגמו 5 תוצאות מריצת 100 מטר של כל אצן. זמני הריצה נרשמו ויש להניח שמתפלגים נורמלית. המטרה להשוות בין האצנים.
המבחן שיש לבצע כאן הוא:

א. מבחן Z למדגם יחיד.

ב. מבחן T למדגם יחיד.

ג. מבחן T למדגמים בלתי תלויים.

ד. מבחן T למדגמים מזווגים.

© כל הזכויות שמורות לברק קנדל

33) סטטיסטיקאי ערך מבחן סטטיסטי. הוא חישב את עוצמת המבחן וקיבל 0.
המשמעות של תוצאה זו היא:

א. לעולם לא לדחות את השערת האפס כאשר היא לא נכונה.

ב. תמיד לדחות את השערת האפס כאשר היא נכונה.

ג. לעולם לא לדחות את השערת האפס כאשר היא נכונה.

ד. תמיד לדחות את השערת האפס כאשר היא לא נכונה.

34) סטטיסטיקאי נתבקש לאמוד את הפרש הממוצעים של שני טיפולים לפי שני מדגמים מקריים בלתי תלויים. הוא חישב רווח סמך להפרש ברמת סמך 0.98, וקיבל את הרווח $-2 < \mu_1 - \mu_2 < 4.5$. אילו יתבקש החוקר לבדוק לפי אותם נתונים את ההשערות: $H_0: \mu_1 - \mu_2 = 0$; $H_1: \mu_1 - \mu_2 \neq 0$,
ברמת מובהקות 0.05 מסקנתו תהיה:

א. לדחות את השערת האפס.

ב. לא לדחות את השערת האפס.

ג. שלא ניתן לדעת את המסקנה עבור רמת מובהקות 0.05.

ד. שלא נתונות בשאלה סטיות התקן של האוכלוסיות,
ולכן לא ניתן להסיק דבר.

35) במטרה לבדוק האם קיים הבדל בין קווי זהב לבזק מבחינת ממוצע המחירים לשיחות בינ"ל. נגדמו באקראי 7 מדינות ועבור כל מדינה נבדקה עלות דקת שיחה. בהנחה והמחירים מתפלים נורמלית בנו רווח סמך לממוצע ההפרשים וקיבלו: $-0.0293 < \mu_D < 0.2145$ רווח הסמך הוא ברמת סמך של 95%.
לכן מסקנת המחקר היא:

א. ברמת מובהקות של 5% לא נוכל לקבוע שקיים הבדל בין החברות.

ב. ברמת מובהקות של 5% נקבע שקיים הבדל מובהק בין החברות.

ג. לא ניתן לדעת מה המסקנה ברמת מובהקות של 5% כיוון שלא נאמר מה ההגדרה של D.

36) אם רמת מובהקות של מבחן סטטיסטי הינה 0, הכוונה היא:

א. תמיד נדחה H_0 כאשר היא נכונה, אך לא תמיד נדחה אותה כאשר היא לא נכונה.

ב. לא נדחה את H_0 אף פעם.

ג. לא נדחה את H_0 כאשר היא נכונה אך יתכן ונדחה אותה כאשר היא לא נכונה.

ד. כל התשובות לא נכונות.

© כל הזכויות שמורות לברק קנדל

37) חוקר ביצע ניסוי. הוא ניסח את ההשערות הבאות: $H_0: \mu = 10, \quad H_1: \mu \neq 10$.
לצורך בדיקה הוא לקח מדגם מקרי בגודל 5 מתוך אוכלוסייה המתפלגת נורמאלית עם שונות לא ידועה. על סמך תוצאות המדגם הוא חישב וקיבל: $t_{\bar{x}} = -2.63$. לכן המסקנה היא:

א. הוא ידחה H_0 ברמת מובהקות 0.1 אך לא כן ברמת מובהקות 0.05.

ב. הוא ידחה H_0 ברמת מובהקות 0.05 אך לא כן ברמת מובהקות 0.025.

ג. הוא ידחה H_0 ברמת מובהקות 0.025 אך לא כן ברמת מובהקות 0.01

ד. הוא לא ידחה H_0 ברמת מובהקות 0.1.

38) האיגוד האמריקני לרפואת ילדים מפרסם הנחיות חדשות הקובעות כי יש ליטול תוספת יוד במהלך תקופת ההיריון וההנקה. מחסור במינרל זה עלול לגרום לפגיעה מוחית אצל העובר והתינוק. החלטה זו נקבעה על סמך מחקר בו השתתפו 1050 נשים שנטלו יוד במהלך תקופת ההיריון וההנקה.
מתוך הנשים שהשתתפו במחקר, רק ל-21 נמצאו ילדים בעלי פגיעה מוחית לעומת 3% באוכלוסייה הכללית. בנוסף, פורסם שהאיגוד האמריקאי מגיע למסקנותיו על סמך רמת מובהקות של 0.5%. מה הסיכוי לבצע טעות מסוג ראשון במחקר?

א. 0.005

ב. 0.03

ג. 0.0287

ד. 0.05

39) חוקרת שיערה, כי משקלן של נשים כשנה לאחר החתונה גבוה ממשקלן בעת החתונה. החוקרת דגמה 15 נשים, ובדקה את משקלן בשתי נקודות הזמן (בעת החתונה, ושנה לאחריה), אך לא מצאה הבדל מובהק ברמת מובהקות 0.01. בהנחה, כי **<u>במציאות</u>** השערתה של החוקרת נכונה, <u>סביר</u> כי אם היא תגדיל את גודל המדגם, אזי:

א. יקטן הסיכוי לטעות מסוג שני (β).

ב. תגדל רמת הביטחון ($1-\alpha$).

ג. אף תשובה לא נכונה.

ד. כל התשובות נכונות.

40) איזה מהמשפטים הבאים נכון תמיד?

א. $\text{POWER}+\alpha+\beta=1$

ב. $\text{POWER}=0.5-\beta$

ג. $\text{POWER}+\alpha=1$

ד. $\beta+\alpha=1$

ה. הכול לא נכון.

© כל הזכויות שמורות לברק קנדל

41) מה נכון לומר לגבי הנחת שיוויון השונויות במבחן T למדגמים בלתי תלויים?

א. היא אומרת שהשונויות המדגמיות שוות.

ב. בלעדיה אין שום דרך לבדוק השערה על הפרש בין תוחלות.

ג. היא חשובה הן עבור מדגמים מזווגים והן עבור מדגמים בלתי תלויים.

ד. אף תשובה אינה נכונה.

42) חוקר החליט לא לדחות השערה ברמת מובהקות של α. במידה וחוקר זה היה בודק השערה זו ברמת מובהקות של 2α על סמך אותם נתונים, האם ההשערה תדחה?

א. ההשערה תדחה.

ב. ההשערה לא תדחה.

ג. התשובה תלויה בעוצמת המבחן.

ד. לא ניתן לדעת בוודאות אם ההשערה תדחה או לא.

43) חוקרת שיערה, כי בגילאי הגן בנות יותר תקשורתיות מבנים. אם החוקרת תדגום אקראית 30 בנים ו-30 בנות, ובמדגם יתקבל אותו ממוצע של ציון תקשורת. סטטיסטי המבחן יהיה:

א. אפס

ב. חיובי

ג. שלילי

ד. לא ניתן לדעת

44) עוצמה שווה ל-1 פרושה:

א. לעולם לא לדחות את השערת האפס כאשר היא נכונה.

ב. תמיד לדחות את השערת האפס כאשר היא נכונה.

ג. לעולם לא לדחות את השערת האפס כאשר היא לא נכונה.

45) מה מהבאים **<u>נכון</u>** לגבי מבחן T מדגמים מזווגים?

א. כל התצפיות במחקר אינן תלויות זו בזו.

ב. כל התצפיות במחקר תלויות זו בזו.

ג. כל הצמדים של תצפיות במחקר אינם תלויים זה בזה.

ד. התצפיות בתוך כל צמד אינן תלויות זו בזו.

© כל הזכויות שמורות לברק קנדל

46) לבדיקת ההשערה החד צדדית על התוחלת של התפלגות נורמלית $H_0: \mu \geq 10$, $H_1: \mu < 10$. נלקח מדגם והתקבלה רמת מובהקות מינימאלית לדחיית השערת האפס 0.058. לו רצינו לבדוק את ההשערה הדו צדדית $H_0: \mu = 10, \quad H_1: \mu \neq 10$, אז על סמך תוצאת אותו המדגם ברמת מובהקות 0.05:

א. ניתן להכריע בין ההשערות רק אם שונות האוכלוסייה נתונה.

ב. מקבלים את השערת האפס.

ג. דוחים את השערת האפס.

ד. לא ניתן להכריע בין ההשערות שכן חסרים נתונים.

47) לבדיקת ההשערה החד צדדית ימנית $H_0: \mu = 55, \quad H_1: \mu = 65$, נלקח מדגם מקרי בגודל n מאוכלוסייה בעלת התפלגות נורמלית ושונות σ^2. רמת המובהקות היא 5%. נמצא שהעוצמה היא 0.9. להלן 3 טענות:

- עבור מדגם בגודל n וברמת מובהקות 5% לבדיקת ההשערות: $H_0: \mu = 55, \quad H_1: \mu = 60$ העוצמה תהיה גדולה מ-0.9.
- עבור מדגם בגודל $2n$ ורמת מובהקות 5% לבדיקת ההשערות: $H_0: \mu = 55, \quad H_1: \mu = 65$ העוצמה תהיה גדולה מ-0.9.
- עבור מדגם בגודל n ורמת מובהקות 10% לבדיקת ההשערות: $H_0: \mu = 55, \quad H_1: \mu = 65$ העוצמה תהיה קטנה מ-0.9.

א. שלושת הטענות אינן נכונות.

ב. טענות 2 ו-3 אינן נכונות וטענה 1 נכונה.

ג. טענות 1 ו-2 נכונות וטענה 3 אינה נכונה.

ד. טענות 1 ו-3 אינן נכונות וטענה 2 נכונה.

© כל הזכויות שמורות לברק קנדל

תשובות סופיות:

שאלה	תשובה		שאלה	תשובה
1	א		25	א
2	ד		26	א
3	א		27	ג
4	ג		28	ד
5	ג		29	א
6	א		30	א
7	ב		31	ד
8	ג		32	ג
9	א		33	א
10	א		34	ג
11	א		35	א
12	א		36	ג
13	א		37	א
14	א		38	א
15	ג		39	א
16	א		40	ה
17	ג		41	ד
18	ב		42	ד
19	ג		43	א
20	ד		44	ד
21	ג		45	ג
22	ג		46	ב
23	א		47	ד
24	ב			

© כל הזכויות שמורות לברק קנדל

סטטיסטיקה ב

פרק 15 - מדד הקשר ספירמן

תוכן העניינים

1. כללי 122

מדדי קשר – מדד הקשר של ספירמן:

רקע:

מתי נשתמש במדד ספירמן?
כאשר אחד המשתנים מסולם סדר והשני מסולם סדר ומעלה.
הקשר שהמדד בודק הוא קשר דירוגי.
מדד הקשר בודק את:

1. כיוון הקשר.
2. עצמת הקשר.

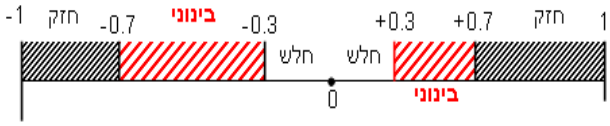

המדד מקבל ערכים בסקלה מ-(1-) ועד 1.

קשר דירוגי חיובי מלא:
מדד הקשר של ספירמן יוצא 1.
ככל שמשתנה אחד עולה, השני עולה ללא יוצא מן הכלל.

קשר דירוגי חיובי חלקי:
מקדם המתאם בין 0 ל-1.
ככל שמשתנה אחד עולה, לשני יש נטייה לעלות אך לא באופן מוחלט.

קשר דירוגי שלילי מלא:
מדד הקשר של ספירמן יוצא 1-.
ככל שמשתנה אחד עולה השני יורד ללא יוצא מן הכלל.

קשר דירוגי שלילי חלקי:
מקדם המתאים הוא בין 0 ל-(1-).
ככל שמשתנה אחד עולה לשני יש נטייה לרדת אך לא באופן מוחלט.
על מנת לחשב את הקשר יש לבצע פעולת דירוג (RANK).
כאשר מדרגים, אם יש כמה תצפיות שתופסות את אותו הערך אז הדירוג שלהם הוא הממוצע של המקומות שהן תופסות.

הנוסחה של מדד הקשר: $r_s = 1 - \frac{6\sum_{i=1}^{n} d_i^2}{n\left(n^2-1\right)}$.

© כל הזכויות שמורות לברק קנדל

דוגמה (פתרון בהקלטה):

בתחרות רוקדים עם כוכבים השתתפו 7 זוגות, 2 שופטים נתנו את ציוניהם לריקוד של כל זוג. להלן התוצאות שהתקבלו:

מספר הזוג	ציון שופט א'	R_x	ציון שופט ב'	R_y	$d = r_x - r_y$	d^2
1	4		5			
2	5		5			
3	6		7			
4	5		7			
5	8		9			
6	7		9			
7	3		7			

מהי מידת ההתאמה בין ציוני השופטים?

X - ציון שופט א (סולם סדר).

Y - ציון שופט ב (סולם סדר).

© כל הזכויות שמורות לברק קנדל

שאלות:

1) בתחרות יופי חילקו שני שופטים ציונים למועמדות:

מספר מועמדת	1	2	3	4	5	6	7
ציון שופט א'	7	8	6	8	9	5	6
ציון שופט ב'	8	8	7	8	9	5	7

האם קיים קשר בין שתי הערכות השופטים? נמקו והסבירו!

2) משרד רצה לבחון האם קיים קשר בין מידת המוטיבציה של העובדים שלו לבין מספר החיסורים של העובדים בחודש עבודה. להלן התוצאות שהתקבלו:

מספר חיסורים	מידת מוטיבציה
0	גבוהה
4	נמוכה
2	בינונית
5	נמוכה
1	גבוהה

האם קיים קשר בין רמת המוטיבציה של העובד ומספר החיסורים שלו?
חשבו באמצעות מדד הקשר המתאים והסבירו.

3) אם: $r_S = 1$, הדבר אומר שערכי X תמיד שווים לערכי Y.
האם הטענה נכונה? הסבר.

תשובות סופיות:

1) קיים קשר דירוג חיובי חזק בין הערכת שופט א' להערכת שופט ב'.
מדד הקשר: 0.973.

2) קיים קשר שלילי בעוצמה חזקה בין רמת המוטיבציה של העובד למס' החיסורים שלו.
מדד הקשר: -0.85.

3) לא נכון.

© כל הזכויות שמורות לברק קנדל

סטטיסטיקה ב

פרק 16 - מקדם המתאם (מדד קשר) של פירסון ומובהקותו

תוכן העניינים

1. מקדם המתאם הלנארי (פירסון) 125
2. חישוב מקדם המתאם הלנארי (פירסון) 136
3. בדיקת השערות על מקדם המתאם הלנארי 141

מקדם המתאם (מדד קשר) הלינארי ומובהקותו

מדד הקשר הלינארי (פירסון) – מבוא

מעוניינים לבדוק עד כמה קיים קשר מסוג קשר לינארי (קו ישר) בין שני משתנים.
שני המשתנים שאנו בודקים לגביהם קשר צריכים להיות משתנים כמותיים.
מבחינת סולמות מדידה כל משתנה נחקר צריך להיות מסולם רווחים או מנה.

בדרך כלל המשתנה המוצג כ- Y הוא המשתנה התלוי והמשתנה המוצג ב- X הוא המשתנה הבלתי תלוי.
תיאור גרפי לנתונים נעשה על ידי דיאגרמת פיזור. בדיאגרמת פיזור אנחנו מסמנים כל תצפית בנקודה לפי שיעור ה- X ושיעור ה- Y שלה.
דיאגרמת הפיזור נותנת אינדיקציה גרפית על הקשר בין שני המשתנים.

דוגמה (פתרון בהקלטה) :

בבניין 8 דירות בדקו לכל דירה את מספר החדרים שלה וכמו כן את מספר הנפשות הגרות בדירה. להלן התוצאות שהתקבלו :

מספר חדרים בדירה	2	2	3	2	3	3	4	4
מספר הנפשות בדירה	0	1	2	2	3	4	4	5

1) כמה תצפיות ישנן בדוגמה?

2) כמה משתנים ישנם בדוגמה, מי הם?

3) שרטטו לנתונים דיאגרמת פיזור.

4) מי המשתנה התלוי ומיהו המשתנה הבלתי תלוי?

© כל הזכויות שמורות לברק קנדל

דיאגרמות פיזור לקשר בין משתנים וניתוחם

קשר לנארי חיובי חלקי

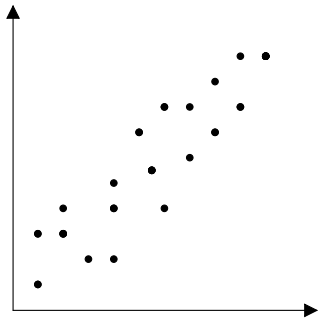

קשר לנארי חיובי מלא

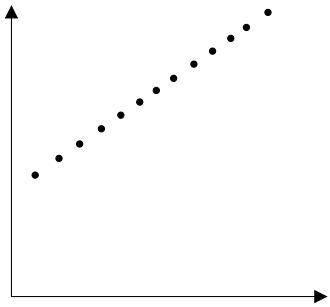

קשר לינארי שלילי חלקי

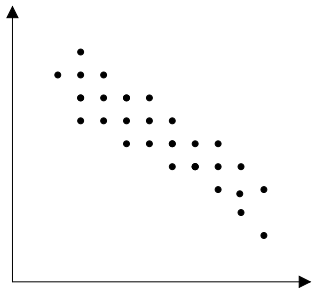

קשר לינארי שלילי מלא

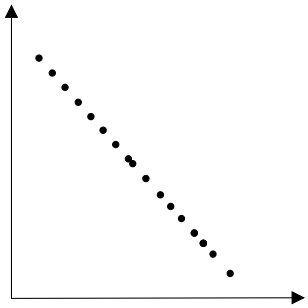

אין קשר

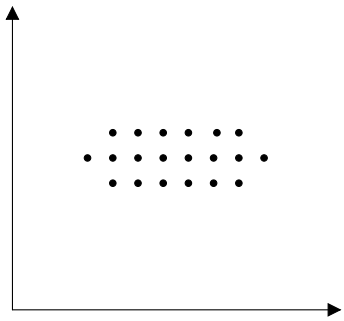

אין קשר לינארי

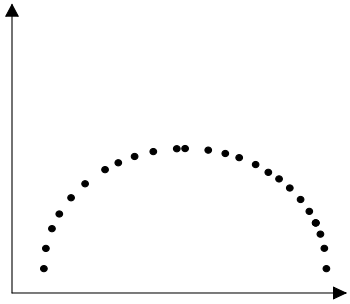

משמעות מקדם המתאם:

כדי לבדוק עד כמה קיים קשר לינארי בין שני המשתנים ישנו מדד קשר שנקרא גם מקדם המתאם הלינארי הידוע גם בשם מקדם המתאם של פירסון.

מקדם מתאם זה מקבל ערכים בין 1 ל-1.

-1 0 1

© כל הזכויות שמורות לברק קנדל

מקדם מתאם 1-או 1 אומר שקיים קשר לינארי מלא בין המשתנים שניתן לבטאו על ידי נוסחה של קו ישר: $y = ax + b$.

מתאם חיובי מלא (מקדם מתאם 1):

קיים קשר לנארי מלא בו השיפוע a יהיה חיובי ואילו מתאם שלילי (מקדם מתאם-1) מלא אומר שקיים קשר לנארי מלא בו השיפוע a שלילי.

מתאם חיובי חלקי:

ככל שמשתנה אחד עולה לשני יש נטייה לעלות בערכו אבל לא קיימת נוסחה לינארית שמקשרת את X ל- Y באופן מוחלט ואילו מתאם שלילי חלקי אומר שככל שמשתנה אחד עולה לשני יש נטייה לרדת אבל לא קיימת נוסחה לינארית שמקשרת את X ל- Y באופן מוחלט. ככל שמקדם המתאם קרוב לאפס עוצמת הקשר יותר חלשה וככל שהמדד רחוק יותר מהאפס העוצמה יותר חזקה. לסיכום, מקדם המתאם בודק את עוצמת הקשר הלנארי, ואת כיוון הקשר.

מקדם המתאם הלינארי אינו מושפע מיחידות המדידה. כל שינוי ביחידות המדידה של המשתנים, לא ישנה את מקדם המתאם.

מדד הקשר הלינארי באוכלוסייה, שנקרא גם מקדם המתאם של פירסון או מדד הקשר של פירסון באוכלוסייה מסומן ב: ρ - פרמטר המאפיין את עוצמת הקשר הלינארי באוכלוסייה וכיוונו בין שני המשתנים הנחקרים. כאשר:

r - מדד הקשר הלינארי במדגם שמהווה אומד לפרמטר ρ.

קיומו של מתאם בין שני משתנים אינו מצביע על סיבתיות בהכרח. למשל, אם נמצא מתאם חיובי בין כמות הסוכרזית שאדם אוכל לבין במשקל שלו אין זה אומר שהסיבה להשמנה היא הסוכרזית. מדד הקשר של פירסון הוא מדד קשר סימטרי, כלומר אם נחליף את X ב- Y התוצאה תהיה זהה.

דוגמה (פתרון בהקלטה) :

- מה ניתן להגיד על מקדם המתאם של שני המשתנים על סמך דיאגרמת הפיזור ששרטטנו?
- אם היינו משנים את השרטוט כך שבציר האנכי היה המשתנה "מספר החדרים" ובציר האופקי היה "מספר הנפשות", האם הדבר היה משפיע על מדד הקשר של פירסון?

© כל הזכויות שמורות לברק קנדל

שאלות

1) חוקר רצה לאפיין את הקשר בין מספר השעות בשבוע שסטודנט מקדיש לבילויים לבין הציון הממוצע שלו בסוף הסמסטר. לשם כך הוא אסף נתונים של 15 סטודנטים ויצר דיאגרמת פיזור:

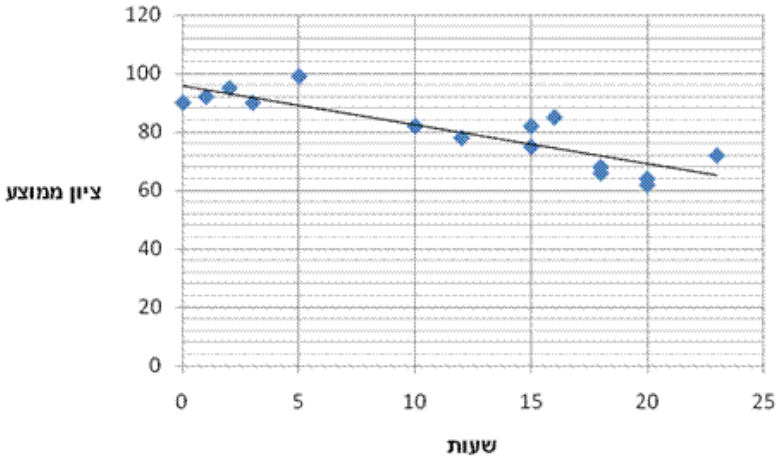

א. מיהו המשתנה הבלתי תלוי?

ב. מה ניתן לומר על כיוון הקשר בין מספר שעות הבילוי השבועיות לבין הציון הממוצע של הסמסטר? מה ניתן להגיד על עוצמת הקשר?

2) להלן טבלה המסכמת את מקדמי המתאם הלינארי בין ציוני מבחנים שונים שהתקבלו עבור תלמידים בכיתה מסוימת:

	ספורט	לשון	מתמטיקה
ספורט	?	-0.7	?
לשון	?	?	0.6
מתמטיקה	-0.1	?	?

א. השלימו את מקדמי המתאם שמסומנים בסימן שאלה בטבלה.

ב. בין אילו שני ציוני מקצועות שונים קיים מתאם בעל העוצמה החזקה ביותר?

3) במחקר נתבקשו לבדוק את הקשר בין מספר שעות התרגול של קורס לבין הציון הסופי שלו. להלן תוצאות מדגם שהתקבל:

שעות תרגול	ציון סופי
20	90
25	90
30	95
15	60
30	90
20	85
10	50

א. מיהו המשתנה התלוי ומיהו המשתנה הבלתי תלוי בדוגמה זו?

ב. שרטטו דיאגרמת פיזור לנתונים.

ג. מה ניתן לומר על הקשר בין המשתנים במדגם?

ד. מסתבר שבסופו של דבר נתנו פקטור של 5 נקודות לציון הסופי. כיצד הדבר היה משנה את מקדם המתאם של המדגם?

© כל הזכויות שמורות לברק קנדל

4) בתחנה המטאורולוגית רצו לבדוק את הקשר שבין הטמפרטורה במעלות צלזיוס לכמות המשקעים במ"מ. הם אספו נתונים על 10 ימים במהלך חודש ינואר. המתאם שהתקבל היה 0.8.

א. השלימו את המשפט:
בחודש ינואר ככל שהטמפרטורה היומית נוטה לרדת, כך כמות המשקעים נוטה _____.

ב. הוחלט להעביר את הטמפרטורה למעלות פרנהייט על מנת שיוכלו להשוות אותה לנתונים מארה"ב. נוסחת המעבר היא $F^0 = 32 + \frac{9}{5}C^0$.
כיצד הדבר ישפיע על מקדם המתאם בין הטמפרטורה במעלות פרנייט לכמות המשקעים במ"מ?

5) להלן דיאגרמת פיזור המראה קשר בין שני משנים:

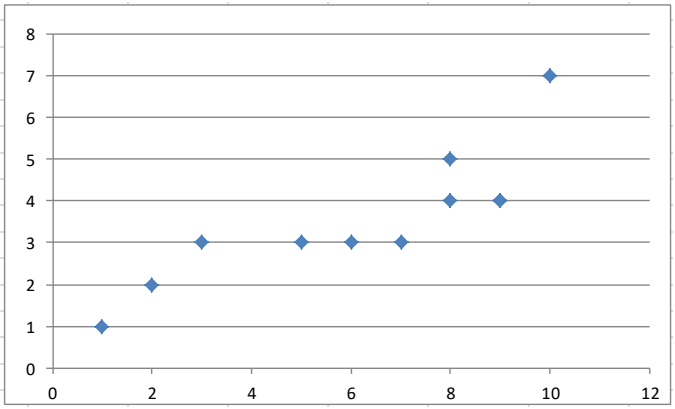

א. השלימו: ניתן לראות שהקשר הוא לינארי _____ (מלא\ חלקי) כיוון הקשר הוא (חיובי \שלילי).

ב. השלימו: אם היינו מוסיפים תצפית שערך ה- X שלה הוא 4 וערך ה- Y שלה הוא 7, מקדם המתאם של פירסון היה _____ (גדל\ קטן\ לא משתנה).

שאלות רב ברירה (יש לבחור את התשובה הנכונה):

6) חוקר אקלים דגם כמה ימים בשנה ומדד את הטמפרטורה בטורונטו שבקנדה ואת הטמפרטורה בסידני שבאוסטרליה באותו היום. הוא חישב ומצא מקדם מתאם שלילי בין הטמפרטורה היומית בטורונטו לבין הטמפרטורה היומית בסידני. משמעות מקדם המתאם השלילי במדגם:

א. אין קשר בין הטמפרטורה בטורונטו לבין הטמפרטורה בסידני בימים שנדגמו.

ב. במדגם, רוב הטמפרטורות בטורונטו היו שליליות.

ג. ההפרש בין הטמפרטורה בטורונטו לבין הטמפרטורה באוסטרליה, במדגם זה, הוא שלילי.

ד. במדגם יש נטייה שהטמפרטורה יורדת בטורונטו לטמפרטורה לעלות בסידני.

© כל הזכויות שמורות לברק קנדל

7) בסקר שביעות רצון שנערך בבית הקפה "פת לחם" התבקשו הלקוחות לדרג את מידת שביעות הרצון שלהם (בסולם 1-10) בשני נושאים: רמת האוכל ורמת השירות.

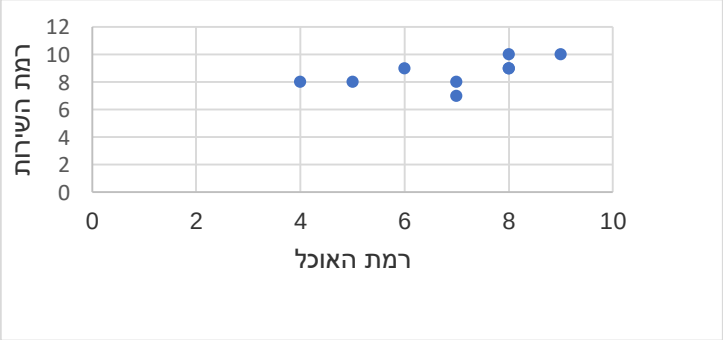

מה יהיה ערכו של מקדם המתאם (r)?

א. $r = -0.3$
ב. $r = 0$
ג. $r = 1.125$
ד. $r = 0.593$

8) חוקר רצה לאפיין את הקשר בין מספר השעות בשבוע שסטודנט מקדיש לבילויים לבין הציון הממוצע שלו בסוף הסמסטר. לשם כך הוא אסף נתונים של 15 סטודנטים ויצר דיאגרמת פיזור.

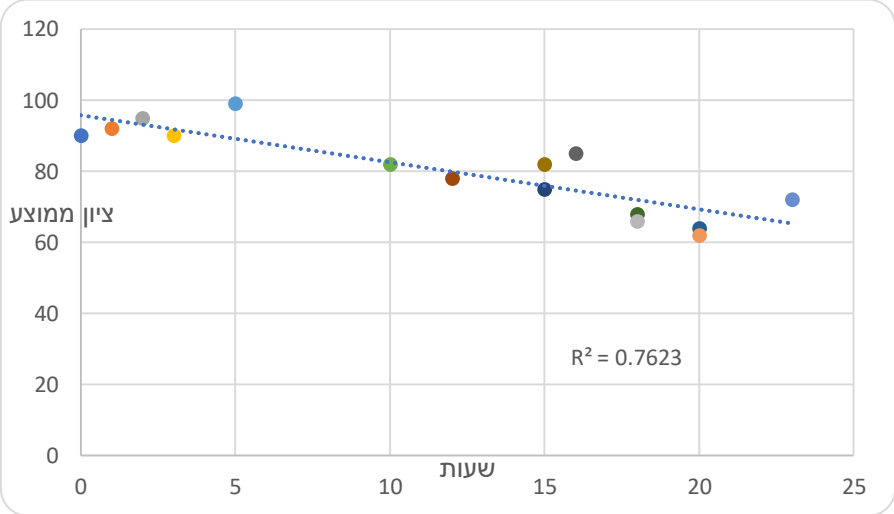

מה ניתן לומר על כיוון הקשר במדגם בין מספר שעות הבילוי השבועיות לבין הציון הממוצע של הסמסטר?

א. ככל שמבלים יותר הציון נוטה לרדת.
ב. אין קשר בין שעות הבילוי לציון.
ג. ככל שמבלים פחות הציון נוטה לרדת.
ד. ככל שהציון נוטה לרדת הסטודנט מבלה פחות.

© כל הזכויות שמורות לברק קנדל

9) התרשים הבא מתאר קשר בין שני משתנים, איזה מהמתאמים הבאים הוא המתאים ביותר לתיאור הקשר בין שני המשתנים?

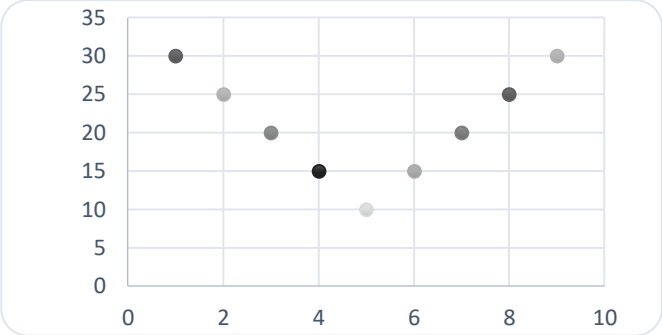

א. $r = 1$ היות ושני המשתנים יוצרים קוים ישרים.

ב. $r = 2$ היות ויש שני קוים בעלי קשר מושלם.

ג. $r = 0$ היות והקו יורד ואחר כך עולה באותו האופן.

ד. $r = \pm 1$ היות ויש קו עולה וגם קו יורד.

10) התרשים הבא מתאר דיאגרמת פיזור.

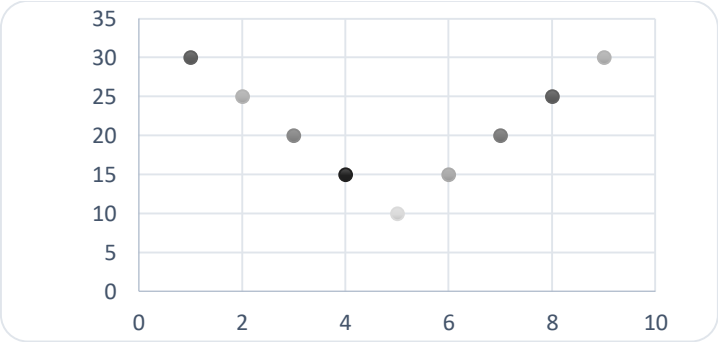

איזו טענה נכונה?

א. בתרשים מוצג הקשר בין שני משתנים.

ב. בתרשים מוצג הקשר בין 9 משתנים.

ג. בתרשים מוצג הקשר בין 10 משתנים.

ד. אין לדעת כמה משתנים מוצגים בתרשים.

© כל הזכויות שמורות לברק קנדל

בגרף הבא מתוארת דיאגרמת פיזור של שני משתנים:

X - (משתנה בלתי תלוי בציר האופקי)

ו- Y (משתנה תלוי).

במדגם התקבל $r^2 = 0.52$.

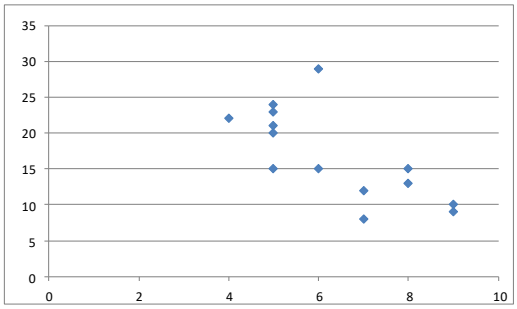

11) לאור הנתונים המופיעים בדיאגרמה, איזה מבין הערכים הבאים מתאים להיות התוצאה של r?

א. -0.52
ב. 0.72
ג. -0.72
ד. 0.52

12) אם מקדם המתאם בין שני משתנים הוא 1, אזי:

א. הערכים של המשתנים הם חיוביים.
ב. עבור כל תצפית ערך של משתנה אחד שווה לערך של המשתנה השני.
ג. הקשר הלינארי הוא בעוצמה חזקה.
ד. אף אחת מהתשובות לא בהכרח נכונה.

13) להלן דיאגרמת פיזור:

מה יהיה מקדם המתאם בין שני המשתנים?

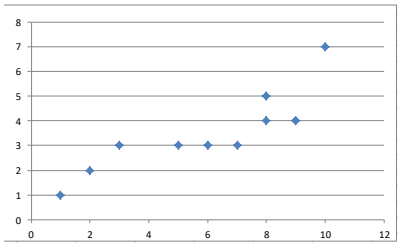

א. 1
ב. 0.85
ג. 0.15
ד. 0

14) בבדיקת קשר בין שני משתנים התקבל: $r = -1$.

א. קיימת נוסחה לינארית הקושרת בין כל התצפיות.
ב. לא קיים קשר בין שני המשתנים.
ג. ככל שמשתנה אחד נוטה לרדת גם לשני יש נטייה לרדת.
ד. קיים קשר בין שני המשתנים, אך לא ניתן לדעת מאיזה סוג.

© כל הזכויות שמורות לברק קנדל

15) לפי הפתגם "רחוק מהעין, רחוק מהלב", יש קשר ___ בין קרבה פיזית לקרבה נפשית.

א. חיובי

ב. שלילי

ג. אפסי

ד. לא ניתן לדעת.

16) מבחן אמי"ר הינו מבחן מיון באנגלית של המרכז הארצי לבחינות והערכה. הציון המינימלי בבחינה הינו 150 והמקסימלי הינו 250. בקורס הכנה למבחן השתתפו 19 תלמידים. להלן הציונים שלהם על פי פלט שהתקבל:

		159
		170
		180
		185
		204
		224
		236
		212
		168
		189
		195
		163
		187
		206
		201
		223
		242
		203
		205
197.47	AVERAGE	
536.25	VARPA	

יש להוסיף עמודה נוספת לצד עמודת הציונים שתראה לכל תלמיד כמה נקודות חסרות לו כדי להשלים לציון המקסימלי בבחינה.

מה יהיה מקדם המתאם בין שתי העמודות (כלומר, מקדם המתאם בין הציון לבין הנקודות החסרות)?

א. -1

ב. 1

ג. -0.5

ד. 0.5

17) מקדם המתאם בין שטחי דירה למחיר שלהם חושב ונמצא 1.2. מה נובע מכך?

א. ככל שהדירה גדולה יותר בשטחה כך היא יקרה יותר.

ב. ככל שהדירה קטנה יותר בשטחה כך היא זולה יותר.

ג. לא קיים קשר בין שטח הדירה למחיר הדירה.

ד. מצב כזה שמתואר הנתונים לא אפשרי.

18) אם ניקח 10 אנשים ונרשום לכל אדם את הגובה במטר וכמו כן את הגובה בס"מ. מה יהיה מקדם המתאם בין גובה האדם במטר לגובה האדם בס"מ?

א. 1

ב. 0

ג. -1

ד. לא ניתן לדעת.

© כל הזכויות שמורות לברק קנדל

19) נמצא מתאם חיובי בעוצמה גבוהה בין X – ציון בבגרות בלשון ל Y – ציון בבגרות במתמטיקה. אילו מהמשפטים הבאים נכון?

א. ניתן לומר שאחת מהסיבות להבדלים שיש לסטודנטים במתמטיקה נובעים מההבדלים שיש להם בלשון.

ב. קיימת נוסחה של קו ישר שקושרת בין ציון בבגרות במתמטיקה לציון בבגרות בלשון.

ג. ללא יוצא מן הכלל, ניתן להגיד שכל תלמיד שמצליח יותר מתלמיד אחר בלשון גם יצליח יותר מאותו תלמיד במתמטיקה.

ד. אף אחד מהטענות שהוצגו אינה בהכרח נכונה.

20) עבור סדרה של תצפיות מדדו את X ואת Y. נמצא שעבור כל התצפיות שהערך של Y ירד הערך של X בהכרח ירד ללא יוצא מן הכלל. מקדם המתאם של פירסון יהיה בהכרח:

א. 1

ב. -1

ג. 0

ד. אף אחת מהתשובות.

© כל הזכויות שמורות לברק קנדל

תשובות סופיות

1) א. שעות בילוי. ב. הקשר חלקי, כיוון הקשר שלילי .

2) א. להלן טבלה : ב. ספורט ולשון.

	ספורט	לשון	מתמטיקה
ספורט	1	-0.7	0.1
לשון	-0.7	1	0.6
מתמטיקה	-0.1	0.6	1

3) א. ב״ת- מס׳ שעות התרגול, תלוי- ציון. ב. ראה גרף בפתרון וידאו.
ג. קשר לינארי חיובי חלקי. ד. מקדם המתאם לא היה משתנה.

4) א. לעלות. ב. לא ישפיע על מקדם המתאם.

5) א. חלקי, חיובי. ב. קטן.

6) ד׳. 7) ד׳. 8) א׳. 9) ג׳. 10) א׳.

11) ג׳. 12) ד׳. 13) ב׳. 14) א׳. 15) א׳.

16) א׳. 17) ד׳. 18) א׳. 19) ד׳. 20) ד׳.

© כל הזכויות שמורות לברק קנדל

מדדי קשר – מדד הקשר הלינארי (פירסון) – רקע

המטרה היא לבדוק האם קיים קשר (קורלציה, מתאם) של קו ישר בין שני משתנים כמותיים. מבחינת סולמות המדידה קשר בין סולמות רווחים ומנה.
בדרך כלל, X הוא המשתנה המסביר (הבלתי תלוי) ו- Y הוא המשתנה המוסבר (התלוי).

דוגמה:

נרצה להסביר כיצד השכלה של אדם הנמדדת בשנות לימוד – X מסבירה את ההכנסה שלו Y. במקרה זה שנות ההשכלה זהו המשתנה המסביר (או הבלתי תלוי) ואנחנו מעוניינים לבדוק כיצד שינויים בשנות ההשכלה של אדם יכולים להסביר את השינויים שלו בהכנסה, ולכן רמת ההכנסה זהו המשתנה המוסבר התלוי במשתנה המסביר אותו.

שלב ראשון: נהוג לשרטט דיאגרמת פיזור. זו דיאגרמה שנותנת אינדיקציה ויזואלית על טיב הקשר בין שני המשתנים.

דוגמה:

בבניין של 5 דירות בדקו את הנתונים הבאים:
X -מס' חדרים בדירה. Y-מס' נפשות הגרות בדירה.
להלן התוצאות שהתקבלו:

מס' דירה	X	Y
1	3	2
2	2	2
3	4	3
4	3	3
5	5	4

נשרטט מנתונים אלה דיאגרמת פיזור (הדיאגרמה המלאה בסרטון). נתבונן בכמה מקרים של דיאגרמות פיזור וננתח אותן (הדיאגרמות המלאות בסרטון).

שלב שני: מחשבים את מקדם המתאם (מדד הקשר) שבודק עד כמה קיים קשר לינארי בין שני המשתנים. המדד (ניקרא גם מדד הקשר של פירסון) מכמת את מה שניראה בשלב הראשון רק בעין.
המדד בודק את כיוון הקשר (חיובי או שלילי) ואת עוצמת הקשר (חלש עד חזק).
מקדם מתאם זה מקבל ערכים בין 1- ל-1.
מקדם מתאם 1- או 1 אומר שקיים קשר לינארי מוחלט ומלא בין המשתנים שניתן לבטאו על ידי הנוסחה: $y = bx + a$.

מתאם חיובי מלא (מקדם מתאם 1):

קיים קשר לנארי מלא בו השיפוע b יהיה חיובי ואילו מתאם שלילי מלא אומר שקיים קשר לנארי מלא בו השיפוע b שלילי (מקדם מתאם 1-).

© כל הזכויות שמורות לברק קנדל

מתאם חיובי חלקי:

ככל שמשתנה אחד עולה לשני יש נטייה לעלות בערכו אבל לא קיימת נוסחה לינארית שמקשרת את X ל- Y באופן מוחלט.

מתאם שלילי חלקי:

ככל שמשתנה אחד עולה לשני יש נטייה לרדת אבל לא קיימת נוסחה לינארית שמקשרת את X ל- Y באופן מוחלט.

ככל שערך מקדם המתאם קרוב לאפס נאמר שעוצמת הקשר חלשה יותר וככל שמקדם המתאם רחוק מהאפס נאמר שעוצמת הקשר חזקה יותר:

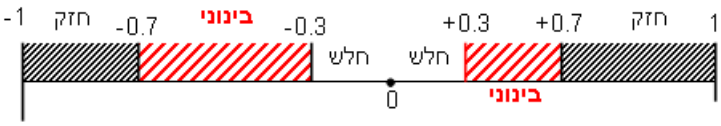

מקדם המתאם יסומן באות r.

כדי לחשב את מקדם המתאם, יש לחשב את סטיות התקן של כל משתנה ואת השונות המשותפת.

שונות משותפת: $COV(x,y)=\frac{\sum(x-\bar{x})(y-\bar{y})}{n}=\frac{\sum xy}{n}-\bar{x}\cdot\bar{y}$

שונות של המשתנה X: $s_x^2=\frac{\sum_{i=1}^{n}(x_i-\bar{x})^2}{n}=\frac{\sum_{i=1}^{n}x_i^2}{n}-\bar{x}^2$

שונות המשתנה Y: $S_Y^2=\frac{\sum_{i=1}^{n}(y_i-\bar{y})^2}{n}=\frac{\sum_{i=1}^{n}y_i^2}{n}-\bar{y}^2$

מקדם המתאם הלינארי: $r_{xy}=\frac{COV(x,y)}{S_x\cdot S_y}$

© כל הזכויות שמורות לברק קנדל

שאלות

1) להלן נתונים לגבי שישה תלמידים שנגשו למבחן. בדקו לגבי כל תלמיד את הציון שלו בסוף הקורס וכמו כן את מספר החיסורים שלו מהקורס.

מספר חיסורים	2	1	0	2	3	4
ציון	80	90	90	70	70	50

א. שרטטו דיאגראמת פיזור לנתונים. מה ניתן להסיק מהדיאגרמה על טיב הקשר ביו מספר החיסורים של תלמיד לציונו? מיהו המשתנה הבלתי תלוי ומיהו המשתנה התלוי?

ב. חשבו את מדד הקשר של פירסון. האם התוצאה מתיישבת עם תשובתך לסעיף א'?

ג. הסבירו, ללא חישוב, כיצד מקדם המתאם היה משתנה אם היה מתווסף תלמיד שהחסיר 4 פעמים וקיבל ציון 80?

2) במחקר רפואי רצו לבדוק האם קיים קשר בין רמת ההורמון X בדם החולה לרמת ההורמון Y שלו. לצורך כך מדדו את רמת ההורמונים ההלו עבור חמישה חולים. להלן התוצאות שהתקבלו:

X	Y
10	12
14	15
15	15
18	17
20	21

א. מה הממוצע של כל רמת הורמון?

ב. מהו מקדם המתאם בין ההורמונים? ומה משמעות התוצאה?

3) נסמן ב- X את ההכנסה של משפחה באלפי ₪. נסמן ב- Y את ההוצאות של משפחה באלפי ₪. נלקחו 20 משפחות והתקבלו התוצאות הבאות:

$$\sum_{i=1}^{20} X_i = 240 \qquad \sum_{i=1}^{20} Y_i = 200$$

$$\sum_{i-1}^{20} (X_i - \bar{X})^2 = 76 \qquad \sum_{i-1}^{20} (Y_i - \bar{Y})^2 = 76$$

$$\sum_{i=1}^{20} (X_i - \bar{X})(Y - \bar{Y}) = 60.8$$

א. חשב את מדד הקשר הלינארי בין X ל- Y. מיהו המשתנה התלוי?

ב. מה המשמעות של התוצאה שקיבלת בסעיף א?

© כל הזכויות שמורות לברק קנדל

4) נסמן ב- X את ההכנסה של משפחה באלפי ₪. נסמן ב- Y את ההוצאות של משפחה באלפי ₪. נלקחו 20 משפחות והתקבלו התוצאות הבאות:

$$\sum_{i=1}^{20} X_i = 240 \qquad \sum_{i=1}^{20} Y_i = 200$$

$$\sum_{i-1}^{20} X_i^2 = 2960 \qquad \sum_{i=1}^{20} Y_i^2 = 2080$$

$$\sum_{i=1}^{20} X_i Y_i = 2464$$

חשבו את מדד הקשר הלינארי בין X ל- Y.

5) במוסד אקדמי ציון ההתאמה מחושב כך: מכפילים את הציון הממוצע בבגרות ב-3 ומפחיתים 2 נקודות. ידוע שעבור 40 מועמדים סטיית התקן של ממוצע הציון בבגרות הייתה 2.
מה מקדם המתאם בין ציון ההתאמה לציון הממוצע בבגרות שלהם?

6) להלן רשימת טענות, לגבי כל טענה קבעו נכון/לא נכון ונמקו.

א. מתווך דירות המיר מחירי דירות מדולר לשקל. נניח שדולר אחד הוא 3.5₪. אם מתווך הדירות יחשב את מדד הקשר של פירסון בין מחיר הדירה בשקלים למחיר הדירה בדולרים הוא יקבל 1.

ב. לסדרה של נתונים התקבל $\bar{X} = \bar{Y} = 6$, $S_x = S_y = 1$.
לכן, מדד הקשר של פירסון יהיה 1.

ג. אם השונות המשותפת של X ושל Y הינה 0 אז בהכרח גם מקדם המתאם של פירסון יהיה 0.

שאלות רב-ברירה:

7) נמצא שקיים מקדם מתאם שלילי בין הציון בעברית לציון בחשבון בבחינה לכן:

א. הדבר מעיד שהציונים בכתה היו שליליים.

ב. ככל שהציון של תלמיד יורד בחשבון יש לו נטייה לרדת בעברית.

ג. ככל שהציון של תלמיד עולה בחשבון יש לו נטייה לרדת בעברית.

ד. אף אחת מהתשובות לא נכונה.

© כל הזכויות שמורות לברק קנדל

8) נלקחו 20 מוצרים ונבדק ביום מסוים המחיר שלהם בדולרים והמחיר שלהם בש״ח (באותו היום ערך הדולר היה-4.2₪).
מהו מקדם המתאם בין המחיר בדולר למחיר בש״ח?

א. 1
ב. 0
ג. 4.2
ד. לא ניתן לדעת.

9) להלן דיאגראמת פיזור:
מה יהיה מקדם המתאם בין שני המשתנים?

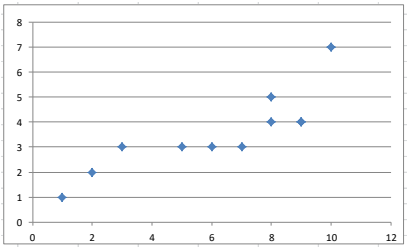

א. 1
ב. 0.85
ג. 0.15
ד. 0

תשובות סופיות

1) א. משתנה תלוי: ציון, משתנה ב״ת: מס׳ חיסורים. ראה דיאגרמה בוידאו. ניתן להסיק שקיים קשר לינארי שלילי וחלקי בין מספר החיסורים לציון התלמיד.
ב. 0.9325-. ג. הקשר יישאר לינארי שלילי חלקי אך עוצמתו תחלש.

2) א. $\bar{y}=16$, $\bar{x}=15.4$ ב. $r_{xy}=0.96$.

3) א. 0.8.

4) 0.8.

5) 1.

6) א. נכון. ב. לא נכון. ג. נכון.

7) ג׳.

8) א׳.

9) ב׳.

© כל הזכויות שמורות לברק קנדל

בדיקת השערות על מקדם המתאם הלינארי – רקע

מדד הקשר הלינארי באוכלוסייה, שנקרא גם מקדם המתאם של פירסון או מדד הקשר של פירסון באוכלוסייה מסומן ב: ρ - פרמטר המאפיין את עוצמת הקשר הלינארי וכיוונו בין שני המשתנים הנחקרים באוכלוסייה. כאשר:
r - מדד הקשר הלינארי במדגם שמהווה אומד לפרמטר ρ.

השערת האפס: תהיה שבאוכלוסייה לא קיים כלל קשר לינארי בין שני המשתנים $H_0:\rho=0$.

ההנחה שעליה אנו מתבססים בתהליך היא ששני המשתנים הנחקרים מתפלגים דו נורמלית.

סטטיסטי המבחן: $t=\frac{r\sqrt{n-2}}{\sqrt{1-r^2}}\sim t(n-2)$

סטטיסטי זה מתפלג t עם $n-2$ דרגות חופש.

השערת האפס:	$H_0:\rho=0$	$H_0:\rho=0$	$H_0:\rho=0$
השערת המחקר:	$H_1:\rho\neq 0$	$H_1:\rho<0$	$H_1:\rho>0$
כלל ההכרעה: אזור דחייה של השערת האפס	$t\geq t_{1-\alpha}$ או $t\leq -t_{1-\alpha}$	$t\leq -t_{1-\alpha}$	$t\geq t_{1-\alpha}$

© כל הזכויות שמורות לברק קנדל

טבלת ערכים קריטיים של t - נספח: טבלת התפלגות T

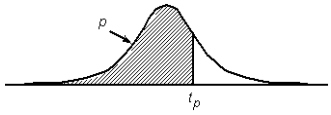

P

דרגות חופש	0.75	0.90	0.95	0.975	0.99	0.995	0.9995
1	1.000	3.078	6.314	12.709	31.821	63.657	636.619
2	0.816	1.886	2.920	4.303	6.965	9.925	31.598
3	0.765	1.638	2.353	3.182	4.541	5.841	12.941
4	0.741	1.533	2.132	2.776	3.747	4.604	8.610
5	0.727	1.476	2.015	2.571	3.365	4.032	6.859
6	0.718	1.440	1.943	2.447	3.143	3.707	5.959
7	0.711	1.415	1.895	2.365	2.998	3.499	5.405
8	0.706	1.397	1.860	2.306	2.896	3.355	5.041
9	0.703	1.383	1.833	2.262	2.821	3.250	4.781
10	0.700	1.372	1.812	2.228	2.764	3.169	4.587
11	0.697	1.363	1.796	2.201	2.718	3.106	4.437
12	0.695	1.356	1.782	2.179	2.681	3.055	4.318
13	0.694	1.350	1.771	2.160	2.650	3.012	4.221
14	0.692	1.345	1.761	2.145	2.624	2.977	4.140
15	0.691	1.341	1.753	2.131	2.602	2.947	4.073
16	0.690	1.337	1.746	2.120	2.583	2.921	4.015
17	0.689	1.333	1.740	2.110	2.567	2.898	3.965
18	0.688	1.330	1.734	2.101	2.552	2.878	3.922
19	0.688	1.328	1.729	2.093	2.539	2.861	3.883
20	0.687	1.325	1.725	2.086	2.528	2.845	3.850
21	0.686	1.323	1.721	2.080	2.518	2.831	3.819
22	0.686	1.321	1.717	2.074	2.508	2.819	3.792
23	0.685	1.319	1.714	2.069	2.500	2.807	3.767
24	0.685	1.318	1.711	2.064	2.492	2.797	3.745
25	0.684	1.316	1.708	2.060	2.485	2.787	3.725
26	0.684	1.315	1.706	2.056	2.479	2.779	3.707
27	0.684	1.314	1.703	2.052	2.473	2.771	3.690
28	0.683	1.313	1.701	2.048	2.467	2.763	3.674
29	0.683	1.311	1.699	2.045	2.462	2.756	3.659
30	0.683	1.310	1.697	2.042	2.457	2.750	3.646
40	0.681	1.303	1.684	2.021	2.423	2.704	3.551
60	0.679	1.296	1.671	2.000	2.390	2.660	3.460
120	0.677	1.289	1.658	1.980	2.358	2.617	3.373
∞	0.674	1.282	1.645	1.960	2.326	2.576	3.291

© כל הזכויות שמורות לברק קנדל

שאלות

1) להלן נתונים על הוותק בעבודה (בשנים) ועל השכלה (בשנים) במדגם של 10 עובדים:

נחקר	1	2	3	4	5	6	7	8	9	10
X -וותק	13	18	2	8	16	9	5	28	17	24
Y -השכלה	12	14	17	8	11	12	13	8	12	15

מקדם המתאם חושב והתקבל: 0.31-.

א. האם קיים מתאם בין וותק העובד להשכלתו? בדקו ברמת מובהקות של 5%?

ב. אם הוותק של העובד היה נמדד בחודשים האם התשובה לסעיף א' הייתה משתנה?

2) מחקר התעניין לבדוק את הקשר בין גיל נשים בהריון לרמת ההמוגלובין שלהן בדם בזמן הריון. נדגמו 7 נשים והתקבלו התוצאות הבאות:

נחקרת	1	2	3	4	5	6	7
המוגלובין	14.7	13.5	9.7	12	10.8	13	10.3
גיל	39	34	30	29	28	26	23

במדגם חושב מדד הקשר של פירסון להיות 0.7.

א. האם ניתן לומר שבמדגם אם אישה היא יותר מבוגרת אזי בהכרח יש לה יותר המוגלובין בדם?

ב. האם ניתן לומר, ברמת מובהקות של 5%, שקיים מתאם בין גיל האישה שבהריון לבין רמת ההמוגלובין שלה בדם?

3) בתחנה המטאורולוגית רצו לבדוק את הקשר שבין הטמפרטורה במעלות צלזיוס לכמות המשקעים במ"מ. הם אספו נתונים על 10 ימים במהלך חודש ינואר. המתאם שהתקבל היה 0.8-.

א. בדקו ברמת מובהקות של 2.5% האם קיים קשר לינארי שלילי בחודש ינואר בין הטמפרטורה במעלות צלזיוס לבין המשקעים במעלות צלזיוס.

ב. כיצד הייתה משתנה התשובה לסעיף א אם הינו מוסיפים עוד תצפיות למדגם?

ג. על סמך טבלת T המצורפת עבור אילו רמות מובהקות ניתן להחליט שקיים קשר לינארי שלילי מובהק?

4) מתווך דירות חישב את מקדם המתאם בין שטח דירה במרכז תל אביב לבין המחיר של הדירה עבור 17 דירות. מקדם המתאם שקיבל היה 0.6.

א. בדוק ברמת מובהקות של 5% האם ניתן להגיד שקיים קשר ישר עולה בין שטח הדירה לבין מחיר הדירה במרכז תל אביב?

ב. מהי מובהקות התוצאה לבדיקת ההשערה שקיים קשר ישר עולה בין שטח הדירה לבין מחיר הדירה בתל אביב.

© כל הזכויות שמורות לברק קנדל

תשובות סופיות

1) א. לא נדחה את H_0 .
ב. לא תשתנה.

2) א. לא
ב. לא נדחה את H_0 .

3) א. נדחה את H_0 .
ב. לא ניתן לדעת.
ג. לפחות 0.005.

4) א. נדחה את H_0 .
ב. $0.005 < P_V < 0.01$.

© כל הזכויות שמורות לברק קנדל

סטטיסטיקה ב

פרק 17 - רגרסיה

תוכן העניינים

1. כללי 145

מדדי קשר – רגרסיה ליניארית:

רקע:

במידה וקיים קשר חזק בין שני המשתנים הכמותיים נהוג לבצע ניבוי. לבנות קו ניבויים הנקרא גם קו רגרסיה המנבא משתנה אחד על סמך האחר. מדובר בקו שמנבא את Y על סמך X.
השיטה למציאת הקו הנ"ל נקראת שיטת הריבועים הפחותים והקו המתקבל נקרא קו הרגרסיה או קו הניבויים או קו הריבועים הפחותים.

a - נותן את ערך Y כאשר X הנו אפס על גבי קו הניבויים. הוא נקרא החותך של הקו.

b - הוא שיפוע הקו נותן בכמה בעצם Y משתנה כאשר X גדל ביחידה אחת על גבי קו הניבויים.

להלן המשוואות למציאת הפרמטרים של קו הרגרסיה: $b = r\frac{S_r}{S_x}$, $Y = bX + a$.

לצורך בניית קו ניבויים לניבוי X על סמך Y נצטרך לעדכן את הנוסחאות בהתאם.

© כל הזכויות שמורות לברק קנדל

שאלות:

1) נסמן ב- X את ההכנסה של משפחה באלפי ₪. נסמן ב- Y את ההוצאות של משפחה באלפי ₪. נלקחו 20 משפחות והתקבלו התוצאות הבאות:

$$\sum_{i=1}^{20} Y_i = 200 \ , \ \sum_{i=1}^{20} X_i = 240$$

$$\sum_{i=1}^{20} \left(Y_i - \overline{Y}\right) = 76 \ , \ \sum_{i=1}^{20} \left(X_i - \overline{X}\right)^2 = 76 \ .$$

$$\sum_{i=1}^{20} \left(X_i - \overline{X}\right)\left(Y_i - \overline{Y}\right) = 60.8$$

א. חשבו את מדד הקשר הלינארי בין X ל- Y. מיהו המשתנה התלוי?

ב. מצאו את קו הרגרסיה לניבוי ההוצאה של משפחה על סמך הכנסה שלה. הסבירו את משמעות הפרמטרים של קו הרגרסיה.

ג. משפחת כהן הכניסה 15,000₪. מה ההוצאה הצפויה שלה?

2) נסמן ב- X את ההשכלה של אדם בשנות לימוד.
נסמן ב- Y את הכנסתו באלפי ₪. במחקר התקבלו התוצאות הבאות:
$\mathrm{COV}\left(X,Y\right) = 7.5 \ , \ \overline{Y} = 8 \ , \ \overline{X} = 14 \ , \ S_Y = 5 \ , \ S_X = 2$.

א. חשבו את מדד הקשר של פירסון בין ההשכלה להכנסה.

ב. מה ההכנסה הצפויה לאדם שהשכלתו 12 שנים?

ג. מה ההשכלה הצפויה לאדם שהכנסתו 10,000₪?

3) חוקר רצה לחקור את הקשר הקווי שבין הציון המבחן בסטטיסטיקה לבין מספר שעות ההכנה של הסטודנטים למבחן. במדגם של 100 סטודנטים שנבחנו בקורס נרשמו התוצאות הבאות: הציון הממוצע של הסטודנטים היה 65 עם סטיית תקן של 27. מספר שעות ההכנה הממוצע היה 30 עם סטיית תקן של 18. מקדם המתאם בין הציון לשעות ההכנה היה 0.8.

א. על פי משוואת הרגרסיה, שעת הכנה נוספת משפרת את ציון המבחן ב-?

ב. על פי משוואת הרגרסיה, תלמיד שייגש למבחן ללא שעות הכנה כלל יקבל ציון?

ג. מהו קו הרגרסיה לניבוי הציון לפי שעות ההכנה?

4) נתונים 2 משתנים X ו- Y. כמו כן נתון: $\overline{X} = 1.5$, $S_x = S_y = 4$,
וכן שקו הרגרסיה של Y על בסיס X הינו: $Y = -0.2X + 0.5$.
חשבו מהו מקדם המתאם בין X ל- Y.

© כל הזכויות שמורות לברק קנדל

תשובות סופיות:

1) א. 0.8. ב. $Y = 0.8X + 0.4$. ג. 12.4 אלפי ₪.

2) א. 0.75. ב. 4.25 אלפי ₪. ג. 14.6 שנים.

3) א. 1.2. ב. 29. ג. $Y = 1.2X + 29$.

4) -0.2.

© כל הזכויות שמורות לברק קנדל

סטטיסטיקה ב

פרק 18 - מדדי קשר-רגרסיה -שונות מוסברת ושונות לא מוסברת

תוכן העניינים

1. כללי 148

מדדי קשר – רגרסיה – שונות מוסברת ושונות לא מוסברת:

רקע:

המטרה ברגרסיה היא להסביר את השונות של המשתנה התלוי.
למשל, להסביר את השונות של המשכורת באמצעות הוותק או להסביר את השוני בציונים באמצעות כמות החיסורים.

r^2 - החלק מהשונות של המשתנה התלוי מוסבר. השונות המוסברת נקראת גם שונות ניבויים. השונות הלא מוסברת נקראת גם שונות טעויות.

© כל הזכויות שמורות לברק קנדל

שאלות:

1) נמצא קשר חיובי בעוצמה של 0.7 בין שטח דירה למחירה. כמו כן, נתון שסטיית התקן של מחירי הדירות הינה 200.

א. איזה אחוז מהשונות של מחירי הדירות מוסבר על ידי שטח הדירה?

ב. איזה אחוז מהשונות של מחירי הדירות לא מוסבר על ידי שטח הדירה?

ג. מהי השונות המוסברות ומהי השונות הלא מוסברת של מחירי הדירות?

2) להלן רשימת טענות, לגבי כל טענה קבעו נכון/לא נכון ונמקו!

א. אם שונות הטעויות שווה ל-0 (השונות הלא מוסברת) אז מקדם המתאם של פירסון יהיה 1.

ב. אם מקדם המתאם של פירסון בין שני משתנים הוא 1 אזי שונות הטעויות (השונות הלא מוסברת) תהיה 0.

ג. אם השונות המשותפת של X ושל Y היא 0 אז בהכרח גם מקדם המתאם של פירסון יהיה 0.

שאלות רב-ברירה:

3) בקשר בין שני משתנים התקבל: $r^2 = 0.64$, לכן:

א. ללא יוצא מן הכלל ככל שערכי משתנה אחד עולה השני יעלה.

ב. 64% מהשונות של משתנה אחד מוסבר על ידי המשתנה השני.

ג. הקשר בין שני המשתנים הוא בעוצמה של 0.64.

ד. כל התשובות נכונות.

4) אם מגדילים את r^2, ניתן לומר כי:

א. אחוז השונות המוסברת יקטן.

ב. אחוז השונות המוסברת יגדל.

ג. אחוז השונות המוסברת יישאר ללא שינוי.

ד. סטיית התקן משתנה.

ה. לא ניתן לדעת.

© כל הזכויות שמורות לברק קנדל

5) בקורס מבוא לכלכלה ניתנו במשך השנה שני מבחנים: מבחן בסוף סמסטר א' X ומבחן בסוף סמסטר ב' Y. כאשר בנו את קו הרגרסיה של הציון במבחן סוף סמסטר ב' לפי הציון במבחן סוף סמסטר א התקבלה שונות טעויות של 80, ושונות ניבויים של 20.
לפי נתונים אלו, מקדם המתאם בין הציון במבחן סוף סמסטר א' לבין הציון במבחן סוף סמסטר ב' הוא:

א. 0.44.

ב. 0.44 -.

ג. עוצמת ההקשר הלינארי היא 0.44, אך אין אפשרות לדעת את סימנה.

ד. אין אפשרות לחשב את מקדם המתאם.

ה. 0.35.

תשובות סופיות:

1) א. 49%. ב. 51%.
ג. שונות מוסברת: 19,600, שונות לא מוסברת: 20,400.

2) א. לא נכון. ב. נכון. ג. נכון.

3) ב'.

4) ב'.

5) ג'.

© כל הזכויות שמורות לברק קנדל

סטטיסטיקה ב

פרק 19 - מבחני חי בריבוע (מבחן אי תלות, טיב התאמה ומדד הקשר של קרמר)

תוכן העניינים

1. מבחן לאי תלות. ..... (ללא ספר)

2. מקדם המתאם של קרמר. 151

3. מבחן טיב התאמה. ..... (ללא ספר)

מדדי קשר-מדד הקשר של קרמר – רקע

מתי משתמשים במדד הזה? -כאשר אחד המשתנים הוא מסולם שמי והשני מכל סולם אפשרי. מדד הקשר מקבל ערכים בין 0 ל-1.
ככל שהמדד יותר קרוב לאחד קיים קשר בעוצמה יותר חזקה בין המשתנים.

דוגמה (פתרון בהקלטה) :

במחקר רוצים לבדוק את הקשר בין מין לדעה בנושא מסוים, שאלו 100 גברים ו-100 נשים האם הם בעד/נגד/נמנעים באיזשהו נושא. להלן טבלת השכיחויות המשותפת שהתקבלה.

X/Y	בעד	נגד	נמנע	$f(x)$
גבר	50	40	10	100
אישה	30	60	10	100
$f(y)$	80	100	20	$n=200$

בהקשר של קרמר הטבלה נקראת טבלת O (observed)

X - מין (גבר/אישה) – סולם שמי.

Y - דעה (בעד/נמנע/נגד) – סולם שמי/סדר.

שלבים בחישוב r_c :

שלב א':

נבנה את טבלת E (Expected)

נעתיק את המסגרת של טבלת O ואז כל $E_i = \frac{f(x)\cdot f(y)}{n}$.

X/Y	בעד	נגד	נמנע	$f(x)$
גבר				100
אישה				100
$f(y)$	80	100	20	n=200

שלב ב':

נחשב $\chi^2 = \sum_i \frac{(O_i - E_i)^2}{E_i}$.

שלב ג':

נחשב: $r_c = \sqrt{\frac{1}{n(L-1)}\chi^2}$.

כאשר L מבטא את המספר הקטן מבין מספר השורות או העמודות.

© כל הזכויות שמורות לברק קנדל

שאלות

1) להלן תוצאות מחקר שבדק את הקשר בין מין להשכלה. לגבי כל נחקר נבדק המין שלו והשכלתו.
להלן התוצאות:

מין / השכלה	נמוכה	תיכונית	גבוהה
גבר	120	40	20
אישה	20	20	80

האם קיים קשר בין מין להשכלה? נמקו!

2) נלקחו 200 אנשים שמתוכם 60 הצהירו שהם עוסקים בפעילות גופנית סדירה.
מתוך אלו שעוסקים בפעילות גופנית סדירה 50 נמצאו במצב בריאותי תקין.
מתוך אלו שלא עוסקים בפעילות גופנית סדירה 90 נמצאו במצב בריאותי תקין.

א. בנו טבלת שכיחות משותפת לנתונים שהוצגו בשאלה.

ב. האם קיים קשר בין פעילות גופנית למצב בריאותי?
חשבו לפי מדד הקשר של קרמר.

תשובות סופיות

1) קיים קשר בעוצמה בינונית בין המין להשכלה מקדם המתאם של קרמר הוא 0.595.

2) א. להלן טבלה: ב. מדד קרמר 0.19 מעיד על קשר בעוצמה נמוכה.

y/x	תקין	לא תקין	$f(x)$
כן	50	10	60
לא	90	50	140
$f(y)$	140	60	200

© כל הזכויות שמורות לברק קנדל

סטטיסטיקה ב

פרק 20 - מדדי קשר -תרגול של בחירת מדד הקשר המתאים

תוכן העניינים

1. בחירת מדד מתאים 153

מדדי קשר – בחירת מדד מתאים:

רקע:

בפרק זה נתרגל את התהליך של בחירת מדד הקשר (מקדם המתאם) המתאים.
נתרכז בשלושת מדדי הקשר הנפוצים ביותר:

- מדד הקשר של קרמר.
- מדד הקשר של ספירמן.
- מדד הקשר של פירסון (מדד הקשר הלינארי).

בחירת מדד הקשר נעשה לפי סולמות המדידה של שני המשתנים שאנחנו רוצים לבדוק את הקשר בינם. הנושא של סולמות מדידה נלמד כבר בפרק אחר, כמו כן כל מדד קשר נלמד בפרק נפרד. אנו מתרכזים ב 3 סולמות מדידה:

- סולם שמי/ זהות (nominal).
- סולם סדר (ordinal).
- סולם כמותי (scale): לכאן אנו מאחדים את סולם רווחים ומנה יחד.

שלושת מדדי הקשר שלעיל דנים בקשר בין שני משתנים. מדדי הקשר הם סימטריים, כלומר אין זה משנה איזה משתנה נגדיר בתור משתנה X ואיזה יוגדר בתור משתנה Y.

להלן טבלה שמסכמת את בחירת המדד המתאים:

X / Y	שמי	סדר	כמותי
שמי	קרמר	קרמר	קרמר
סדר	קרמר	ספירמן	ספירמן
כמותי	קרמר	ספירמן	פירסון

© כל הזכויות שמורות לברק קנדל

דוגמה (פתרון בהקלטה):

במפעל לייצור מצברים לרכב בדקו במשך 40 ימים את התפוקה היומית (מספר מצברים במאות) ואת מספר הפועלים שעבדו באותו היום.
איזה מדד קשר מתאים כדי לבדוק האם קיים קשר בין התפוקה היומית לכמות עובדים באותו היום במפעל?

א. פירסון.
ב. ספירמן.
ג. קרמר.
ד. חסרים נתונים כדי לדעת זאת.

© כל הזכויות שמורות לברק קנדל

שאלות:

1) בקרב תלמידי כיתות א' בבית הספר גבריאלי אשר בתל אביב בדקו לכל תלמיד את גובהו בס"מ ואת משקלו בק"ג. מהו מדד הקשר המתאים כדי לבדוק האם קיים קשר בין גובה התלמיד למשקלו?

א. פירסון.
ב. ספירמן.
ג. קרמר.
ד. אין מספיק נתונים כדי לדעת.

2) בסקר שנעשה על אזרחים במדינה בדקו לכל אזרח את השכלתו ואת שכרו. מהו מדד הקשר המתאים כדי לבדוק האם קיים קשר בין השכלה לשכר?

א. פירסון.
ב. ספירמן.
ג. קרמר.
ד. אין מספיק נתונים כדי לדעת.

3) בגן הילדים של שולה אספו נתונים על 25 הילדים שבגן. על כל ילד בדקו את רמת הביטחון העצמי שלו (X = מדד שמקבל ערכים בין 1 - נמוך ועד 5 - גבוה), ואת אוצר המילים שלו (Y = לפי מבחן שנעשה לכל ילד בו ספרו את מספר המילים שידע מתוך רשימה של 20 מילים). איסוף הנתונים נעשה על ידי איש מקצוע שצפה בילדים ובחן אותן.
מהו מקדם המתאם המתאים לבדיקת התלות בין X לבין Y?

א. פירסון.
ב. ספירמן.
ג. קרמר.
ד. אין מספיק נתונים כדי לדעת.

4) הועלתה השערה בבית הספר למדעי ההתנהגות שיש קשר בין המרצה להצלחת הסטודנט. לצורך בדיקת הטענה בדקו לגבי כל סטודנט שלמד סטטיסטיקה אצל איזה מרצה הוא למד (היו 3 מרצים שונים) והאם הוא עבר את הבחינה. מהו מדד הקשר המתאים במקרה זה?

א. פירסון.
ב. ספירמן.
ג. קרמר.
ד. אין מספיק נתונים כדי לדעת.

© כל הזכויות שמורות לברק קנדל

5) בבורסה בתל אביב רצו לבדוק את הקשר בין גובה הריבית במשק בסוף החודש (באחוזים), לבין תשואת מניית אקטר (באחוזים) בסוף החודש.
מהו מדד הקשר המתאים?

א. פירסון.
ב. ספירמן.
ג. קרמר.
ד. אין מספיק נתונים כדי לדעת.

6) בעל מסעדה ביצע סקר על לקוחותיו, בין השאלות שנשאלו בסקר:

- מה מידת שביעות הרצון של הלקוח מאדיבות השירות של המלצר בסקלה של 1 עד 5.
- מה גילו של הלקוח בשנים.
- מה גובה התשר (טיפ) ב-₪ אשר נתן הלקוח למלצר בלכתו מהמסעדה.

מהו המדד המתאים כדי לבדוק האם קיים מתאם חיובי בין מידת שביעות הרצון של הלקוח מאדיבות השירות לבין גובה התשר שהוא נתן למלצר?

א. פירסון.
ב. ספירמן.
ג. קרמר.
ד. אין מספיק נתונים כדי לדעת.

7) בעל מסעדה ביצע סקר על לקוחותיו, בין השאלות שנשאלו בסקר:

- מה מידת שביעות הרצון של הלקוח מאדיבות השירות של המלצר בסקלה של 1 עד 5.
- מה גילו של הלקוח בשנים.
- מה גובה התשר (טיפ) ב-₪ אשר נתן הלקוח למלצר בלכתו מהמסעדה.

מהו המדד המתאים כדי לבדוק האם קיים מתאם בין גיל הלקוח לגובה התשר שהעניק לשירות?

א. פירסון.
ב. ספירמן.
ג. קרמר.
ד. אין מספיק נתונים כדי לדעת.

© כל הזכויות שמורות לברק קנדל

הנתונים הבאים מתאימים ל-3 השאלות הבאות:

חוקרים ערכו מדגם של ילדים מכיתות ב' ו-ג' מ-4 בתי ספר שונים. הועבר לילדים שאלון בו תואר מצב מסוים והילדים התבקשו לציין את רמת החרדה שלהם באשר לאותו מצב. המשתנים שלגביהם נאספו נתונים:

- מגדר (1 - בן, 2 - בת).
- כיתה (0 - ג', 1 - ב').
- בית ספר (A, B, C, D).
- רמת חרדה (ציון שהילד היה צריך לתת בסקלה של 1 עד 10).
- גיל התלמיד בחודשים.

8) מהו מדד הקשר המתאים כדי לבדוק את הקשר בין גיל התלמיד לבין רמת החרדה שלו מהמצב?

א. פירסון.
ב. ספירמן.
ג. קרמר.
ד. אין מספיק נתונים כדי לדעת.

9) מהו מדד הקשר המתאים כדי לבדוק את הקשר בין המגדר לבין רמת החרדה שלו מהמצב?

א. פירסון.
ב. ספירמן.
ג. קרמר.
ד. אין מספיק נתונים כדי לדעת.

10) מהו מדד הקשר המתאים כדי לבדוק את הקשר בין המגדר לבין בית הספר?

א. פירסון.
ב. ספירמן.
ג. קרמר.
ד. אין מספיק נתונים כדי לדעת.

© כל הזכויות שמורות לברק קנדל

11) בטבלה שלהלן נתונות שכיחויות ההצלחה והכישלון של 150 חולים:

תוצאה/ התרופה	A	B	C
נרפא	35	13	45
לא נרפא	15	37	5

החולים קיבלו 3 תרופות שונות ובדקו עבור כל חולה אם התרופה הצליחה בריפוי. מהו מדד הקשר המתאים?

א. פירסון.

ב. ספירמן.

ג. קרמר.

ד. אין מספיק נתונים כדי לדעת.

12) שני מוסיקאים מפורסמים נתנו ציון בסולם של 1-10 לקולם של 8 מתמודדים בתוכנית ראליטי ידועה. ציון 10 ניתן לקול שמצא חן ביותר בעיני המוסיקאי. מפיק התוכנית רצה לבדוק האם יש קורלציה בין המוסיקאים מבחינת הטעם. בטבלה הבאה נתונים הציונים של כל אחד מהמוסיקאים את שמונת המתמודדים:

	1	2	3	4	5	6	7	8
מוסיקאי א'	6	5	7	4	3	1	1	4
מוסיקאי ב'	5	7	5	2	3	3	2	7

מהו מדד הקשר המתאים?

א. פירסון.

ב. ספירמן.

ג. קרמר.

ד. אין מספיק נתונים כדי לדעת.

13) להלן טבלה המסכמת את השכר באלפי ₪ של עובדים בחברה ואת רמת המוטיבציה שלהם מ-1 עד 5:

שכר	12	18	20	15	30
מוטיבציה	4	4	5	3	5

מהו מקדם המתאם המתאים לבדיקת רמת ההתאמה בין המוטיבציה לשכר של העובד?

א. פירסון.

ב. ספירמן.

ג. קרמר.

ד. אין מספיק נתונים כדי לדעת.

© כל הזכויות שמורות לברק קנדל

14) להלן טבלה על נתונים שנאספו על מספר תצפיות:

X	1	2	3	4	5
Y	12	14	17	17	20

אם מעוניינים לבדוק עד כמה קיים קשר לנארי בין שני המשתנים.
מהו המדד המתאים?

א. פירסון.

ב. ספירמן.

ג. קרמר.

ד. אין מספיק נתונים כדי לדעת.

תשובות סופיות:

1) א'	**2)** ד'	**3)** ב'	**4)** ג'	**5)** א'
6) ב'	**7)** א'	**8)** ב'	**9)** ג'	**10)** ג'
11) ג'	**12)** ב'	**13)** ב'	**14)** א'	

© כל הזכויות שמורות לברק קנדל