מכינה במתמטיקה לתלמידי כלכלה

תוכן העניינים

1. מבוא לאלגברה 1
2. משוואות אלגבריות 47
3. גיאומטריה אנליטית - הישר 64
4. הפונקציה הריבועית ..... (ללא ספר)
5. אי שיוויונים אלגבריים 76
6. בעיות בתכנון ליניארי ..... (ללא ספר)
7. חקירת משוואה ממעלה ראשונה 85
8. חקירת משוואה ממעלה שנייה 97
9. נוסחאות וייטה 111
10. משוואות טריגונומטריות ואי שוויונות טריגונומטריים 113
11. חוקי החזקות והשורשים 134
12. משוואות ואי-שוויונים מעריכיים 144
13. חוקי הלוגריתמים, משוואות ואי-שוויונים לוגריתמים 154
14. בעיות גדילה ודעיכה - להעשרה ..... (ללא ספר)
15. טריגונומטריה במשולש ישר זווית 170
16. זהויות טריגונומטריות 175
17. חשבון דיפרנציאלי - נגזרות ומשיקים 196
18. חשבון דיפרנציאלי - חקירת פונקצית פולינום 211
19. חשבון דיפרנציאלי - חקירת פונקצית מנה ושורש 224
20. חשבון דיפרנציאלי - בעיות קיצון 262
21. חשבון דיפרנציאלי - פונקציות מעריכיות 284
22. חשבון דיפרנציאלי - פונקציות לוגריתמיות 300
23. חשבון אינטגרלי - האינטגרל הכללי 316

תוכן העניינים

24. חשבון אינטגרלי - האינטגרל המסוים וחישובי שטחים 323
25. חשבון אינטגרלי - פונקציה מעריכית, לוגריתמית וחזקה 351

מכינה במתמטיקה לתלמידי כלכלה

פרק 1 - מבוא לאלגברה

תוכן העניינים

1. מספרים מכוונים 1
2. חזקות ושורשים עם מספרים מכוונים 5
3. סדר פעולות חשבון עם מספרים מכוונים 7
4. אחוזים 8
5. כפל וחילוק שברים 14
6. חיבור וחיסור שברים 16
7. בעיות יסודיות באחוזים 20
8. חזרה על תבניות מספר 22
9. כינוס איברים 24
10. פישוט ביטויים על ידי פתיחת סוגריים 26
11. פישוט ביטויים באמצעות נוסחאות הכפל המקוצר 29
12. פירוק לגורמים של ביטויים אלגברים 31
13. פירוק הטרינום 34
14. שברים אלגברים 36
15. כפל וחילוק של שברים אלגברים 40
16. חיבור וחיסור של שברים אלגברים 42
17. שברים כפולים 46

מספרים מכוונים:

סיכום כללי:

מספרים מכוונים הם מספרים שיכולים לקבל סימן חיובי או שלילי, כגון:

- בקניון גדול ישנן קומות 1, 2, 3, 4, וכן חניונים הממוקמים בקומות 1-, 2- ו-3-.
- גובה פני הים מוגדר להיות 0 מטרים. העיר חיפה נמצאת כ-103 מטרים מעל פני הים בעוד שים המלח נמצא בגובה 426- מטרים.

כללים:

- כאשר מחברים שני מספרים בעלי סימנים זהים, מחברים את המספרים עצמם והסימן נשאר.
- כאשר מחברים שני מספרים בעלי סימנים מנוגדים, מחסירים את המספרים זה מזה (הקטן מהגדול) וסימן התוצאה כסימן המספר הגדול מביניהם.
- כפל וחילוק יתבצע בשני חלקים:
  - ביצוע הפעולה על המספרים עצמם.
  - קביעת הסימן של התוצאה באופן הבא:
    - כפל או חילוק של שני מספרים בעלי אותו סימן - התוצאה תהיה חיובית.
    - כפל או חילוק של שני מספרים שוני סימן - התוצאה תהיה שלילית.

הערה:

אם יש רצף של מכפלות (או חילוקים), סימן התוצאה תלוי במספר הפעמים שבהם מופיע סימן שלילי (-). אם הסימן מופיע מספר זוגי של פעמים התוצאה חיובית, ואם הוא מופיע מספר אי-זוגי של פעמים אזי התוצאה שלילית.

שאלות:

1) סמנו את המספרים הבאים על ציר המספרים בהתאמה:

$-3\frac{1}{2}$, 4 , $1\frac{1}{3}$, -5 , $-\frac{1}{2}$, 2 , 0 , $\frac{1}{2}$, -2

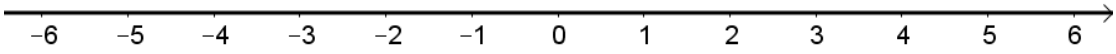

2) חשבו את ערכי הביטויים הבאים:

א. $3+2$

ב. $-3-2$

ג. $3-2$

ד. $-3+2$

ה. $-1-4$

ו. $7+10$

ז. $-6+5$

ח. $-7+3$

3) חשבו את ערכי הביטויים הבאים:

א. $5+7-23+1$

ב. $5-8-12+17$

ג. $3-14+2+6$

ד. $-4-11+2+9$

ה. $6-21+3-7$

ו. $-7-13+5-3$

4) חשב את ערכי הביטויים הבאים:

א. $4\cdot 9$

ב. $4\cdot(-7)$

ג. $(-6)\cdot(-5)$

ד. $(-5)\cdot(-3)$

ה. $(-2)\cdot 8$

ו. $(-8)\cdot 5$

ז. $(-2)\cdot(-3)\cdot(-3)$

ח. $2\cdot 3\cdot 3$

ט. $(-2)\cdot 3\cdot(-3)$

י. $(-2)\cdot(-3)\cdot 3$

יא. $2\cdot 3\cdot(-3)$

יב. $(-2)\cdot(-3)\cdot(-3)\cdot(-2)$

יג. $(-1)\cdot(-2)\cdot(-4)\cdot 2$

יד. $1\cdot(-2)\cdot(-4)\cdot 2$

5) מהו הסימן של תוצאת המכפלה בכל מקרה:

א. $(-2)\cdot(-4)\cdot(-3)\cdot(-10)\cdot(-6)\cdot(-5)$

ב. $(-1)\cdot 2\cdot 4\cdot(-3)\cdot(-10)\cdot 6\cdot(-5)$

ג. $(-1)\cdot 2\cdot 4\cdot(-3)\cdot(-10)\cdot(-6)\cdot(-5)$

ד. $(-1)\cdot 2\cdot 4\cdot(-3)\cdot(-10)\cdot 6\cdot 5$

6) חשבו את ערכי הביטויים הבאים:

א. $(-25):(-5)$

ב. $(-30):3$

ג. $40:(-10)$

ד. $(-32):(-4)$

ה. $(-6):18$

ו. $4:(-16)$

7) חשבו את ערכי הביטויים הבאים:

א. $\frac{-60}{12}$

ב. $\frac{42}{-6}$

ג. $\frac{32}{-4}$

ד. $\frac{-12}{-3}$

8) מה התוצאה של כל אחת מהפעולות הבאות:

א. $0:5$

ב. $(-2)\cdot 0$

ג. $0\cdot(-3)\cdot 4$

ד. $6:0$

ה. $0+4$

ו. $0-4$

תשובות סופיות:

1) להלן מערכת הצירים:

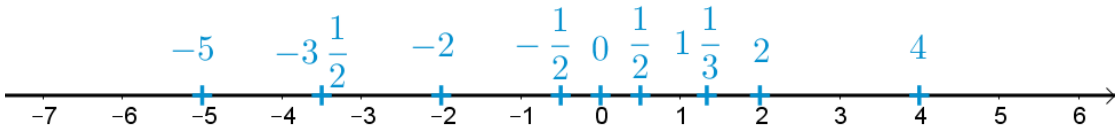

2) א. 5 ב. -5 ג. 1 ד. -1 ה. -5
ו. 17 ז. -1 ח. -4.

3) א. -10 ב. 2 ג. -3 ד. -4 ה. -19 ו. -18.

4) א. 36 ב. -28 ג. 30 ד. 15 ה. -16
ו. -40 ז. -18 ח. 18 ט. 18 י. 18
יא. -18 יב. 36 יג. -16 יד. 16.

5) א. + ב. + ג. - ד. -.

6) א. 5 ב. -10 ג. -4 ד. 8 ה. $-\frac{1}{3}$ ו. $-\frac{1}{4}$.

7) א. -5 ב. -7 ג. -8 ד. 4.

8) א. 0 ב. 0 ג. 0 ד. לא מוגדר ה. 4 ו. -4.

חזקות ושורשים עם מספרים מכוונים:

סיכום כללי:

הגדרה:

פעולת החזקה היא צורה מקוצרת שמייצגת פעולת כפל של אותו מספר בעצמו מספר פעמים. סימון החזקה הוא באופן הבא:

$$a^n = \underbrace{a \cdot a \cdot a \cdot \ldots \cdot a}_{n}$$

כאשר a נקרא הבסיס ו- n נקראת החזקה.

הערות:

- כאשר הבסיס חיובי, התוצאה תמיד תהיה חיובית ללא קשר האם החזקה היא זוגית או אי-זוגית.
- כאשר הבסיס שלילי, התוצאה תהיה חיובית אם החזקה היא זוגית ושלילית אם החזקה היא אי-זוגית.

הגדרה:

פעולת השורש היא הפוכה לפעולת החזקה והיא מאפשרת למצוא את בסיס החזקה. סימון השורש הוא באופן הבא:

$$\sqrt[n]{a}$$

כאשר a נקרא הבסיס ו- n נקרא סדר השורש.

הערות:

- שורש למספר זוגי יכול להיות מסדר זוגי או אי-זוגי.
- שורש למספר שלילי יכול להיות מסדר אי-זוגי בלבד.

שאלות:

1) חשב את ערכי הביטויים הבאים:

א. 3^2
ב. 3^3
ג. $(-3)^3$
ד. $(-2)^3$
ה. 4^3
ו. 3^4
ז. $(-5)^3$
ח. 10^4
ט. $-(-3)^4$
י. -5^4
יא. -4^3
יב. $-(-2)^6$

2) חשב את ערכי הביטויים הבאים:

א. $\sqrt[3]{-27}$
ב. $\sqrt[4]{625}$
ג. $\sqrt[4]{-16}$
ד. $\sqrt[5]{-32}$
ה. $-\sqrt[4]{81}$
ו. $-\sqrt[3]{1000}$

תשובות סופיות:

1) א. 9 ב. 27 ג. -27 ד. -8 ה. 64 ו. 81.
ז. -125 ח. 10000 ט. -81 י. -625 יא. -64 יב. -64.

2) א. -3 ב. 5 ג. לא מוגדר. ד. -2 ה. -3 ו. -10.

סדר פעולות חשבון עם מספרים מכוונים:

סיכום כללי:

סדר פעולות חשבון:

- פעולות כפל וחילוק קודמות לפעולות חיבור וחיסור.
- פעולות חזקה ושורש קודמות לפעולות כפל וחילוק.
- סוגריים קודמים לכל.

שאלות:

1) חשב את ערכי הביטויים הבאים:

א. $\sqrt{81}+3\cdot 2^3-40:8$

ב. $(-3)^2:9-2\cdot(-4^2)$

ג. $\sqrt{144}-20:4+3\cdot(-2)^2$

ד. $3+4\cdot[-3+4\cdot(-2)]+\sqrt{10+6}$

ה. $(-3)^4:(-9)-5\cdot(-2)^3$

ו. $-\sqrt{9}+5^2:(-4-1)-24:12\cdot 3$

ז. $-2^5:(-8)+4^2-3\cdot 5$

ח. $\sqrt[3]{-27}+4\cdot 3^2-2\cdot 3^3$

ט. $[6\cdot(-1)^4-10\cdot(-1)^3]\cdot(-1)^5$

י. $(8-\sqrt[3]{64})\cdot(2\cdot(-4)-\sqrt[5]{243})$

יא. $\frac{3^2\cdot(8-2\cdot 3)^3}{(5^2\cdot 3-72)\cdot(-4)}+2\cdot\{15-20:(4+3\cdot 2)\}$

תשובות סופיות:

1) א. 28 ב. 33 ג. 19 ד. -37 ה. 31 ו. -14

ז. 5 ח. -21 ט. -16 י. -44 יא. 20

אחוזים:

סיכום כללי:

הגדרה כללית - שבר:

השבר הוא חלק מתוך השלם. מקובל לסמן שבר באמצעות קו שבר המפריד בין המונה (החלק העליון) למכנה (החלק התחתון) באופן הבא:

$$\frac{\text{מונה}}{\text{מכנה}}$$

ישנם שלושה סוגים אפשריים של שברים:

- שבר פשוט – בו המונה קטן מהמכנה (ולכן תמיד יהיה קטן מ-1).
- שבר מדומה – בו המונה גדול מהמכנה (יהיה גדול בערכו מ-1).
- שבר מעורב – המכיל שילוב של מספר שלם ושבר כלשהו.

שבר עשרוני:

שבר שהמכנה שלו הוא מספר המהווה כפולות של 10 כגון: 10, 100, 1000 ...
שבר עשרוני מיוצג ע"י נקודה עשרונית אשר מבדילה בין החלק שלם לחלק השברי באופן הבא:

$$\underbrace{XX}_{\text{שלמים}}.\underbrace{YYY}_{\text{שברים}}$$

כדי להמיר שבר פשוט לשבר עשרוני המכנה צריך להיות בכפולות של 10.

הגדרה - אחוז:

השבר $\frac{1}{100}$ מוגדר להיות אחוז אחד ומסומן באופן הבא: 1%.

באופן זה השבר $\frac{45}{100}$ יכתב: 45% , והשבר $\frac{145}{100}$ יכתב: 145%.

שאלות:

12) צבע את החלקים המתאימים בכל עיגול:

א. צבע $\frac{1}{2}$ מהעיגול

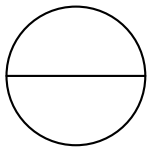

ב. צבע $\frac{1}{6}$ מהעיגול

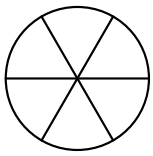

ג. צבע $\frac{3}{8}$ מהעיגול

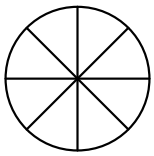

ד. צבע $\frac{2}{5}$ מהעיגול

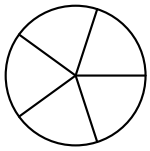

13) כתוב את השבר המתאים לחלקים הצבועים בכל אחד מהמקרים הבאים:

א. שבר:

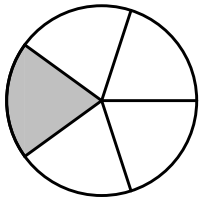

ב. שבר:

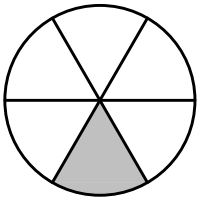

ג. שבר:

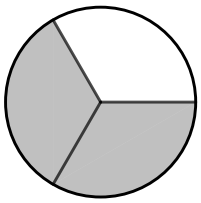

ד. שבר:

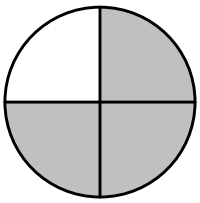

14) הרחב את השברים הבאים:

א. השבר $\frac{1}{2}$ לפי מכנה 4, לפי מכנה 18, לפי מכנה 40.

ב. השבר $\frac{3}{5}$ לפי מכנה 10, לפי מכנה 25, לפי מכנה 60.

ג. השבר $\frac{5}{8}$ לפי מכנה 16, לפי מכנה 32, לפי מכנה 88.

15) צמצם את השברים הבאים ככל הניתן:

א. $\frac{25}{30}$ ב. $\frac{10}{30}$ ג. $\frac{6}{24}$ ד. $\frac{4}{20}$

ה. $\frac{35}{56}$ ו. $\frac{24}{42}$ ז. $\frac{36}{48}$ ח. $\frac{33}{121}$

16) המר את השברים המדומים הבאים לשברים מעורבים:

א. $-\frac{20}{3}$ ב. $\frac{19}{4}$ ג. $\frac{12}{5}$ ד. $\frac{22}{5}$

ה. $-\frac{34}{6}$ ו. $-\frac{50}{7}$ ז. $\frac{47}{8}$ ח. $\frac{60}{9}$

17) המר את השברים המעורבים הבאים לשברים מדומים:

א. $1\frac{2}{3}$ ב. $3\frac{5}{6}$ ג. $4\frac{1}{2}$ ד. $6\frac{1}{4}$

ה. $11\frac{3}{4}$ ו. $-2\frac{5}{8}$ ז. $-6\frac{2}{7}$ ח. $12\frac{7}{9}$

18) קבע איזה שבר גדול יותר בכל אחד מהמקרים הבאים:

א. $\frac{3}{10}$ או $\frac{4}{10}$ ב. $\frac{7}{8}$ או $\frac{7}{6}$

ג. $\frac{2}{3}$ או $\frac{5}{6}$ ד. $\frac{5}{18}$ או $\frac{7}{12}$

19) המר את השברים העשרוניים הבאים לשברים פשוטים מצומצמים או מעורבים:

א. 0.7	ב. 0.07	ג. 0.007	ד. 0.34
ה. 0.304	ו. 0.65	ז. 1.2	ח. 1.02
ט. 1.42	י. 3.5	יא. 6.03	יב. 5.125

20) המר את השברים הבאים לשברים עשרוניים:

א. $\frac{3}{10}$	ב. $\frac{3}{100}$	ג. $\frac{3}{1000}$	ד. $\frac{23}{1000}$
ה. $\frac{1}{2}$	ו. $\frac{3}{4}$	ז. $\frac{2}{5}$	ח. $\frac{4}{25}$
ט. $\frac{7}{50}$	י. $\frac{3}{20}$	יא. $\frac{7}{8}$	יב. $\frac{9}{16}$
יג. $9\frac{1}{10}$	יד. $3\frac{1}{5}$	טו. $4\frac{7}{8}$	טז. $-4\frac{1}{16}$

21) כתוב את השברים הבאים בצורתם העשרונית
(היעזר במחשבון וכתוב עד 3 ספרות אחרי הנקודה העשרונית):

א. $\frac{2}{3}$	ב. $\frac{5}{6}$	ג. $\frac{3}{7}$	ד. $\frac{2}{11}$

22) המר מאחוזים לשברים פשוטים:

א. 25%	ב. 32%	ג. 64%	ד. 80%
ה. 120%	ו. 5%	ז. 300%	ח. 150%

23) המר משברים פשוטים לאחוזים:

א. $\frac{3}{4}$	ב. $\frac{1}{8}$	ג. $\frac{4}{5}$	ד. $\frac{7}{20}$
ה. $\frac{11}{40}$	ו. $\frac{70}{125}$	ז. $\frac{5}{6}$	ח. $\frac{4}{9}$

תשובות סופיות:

12) תשובה מודגמת בסרטון.

13) א. $\frac{1}{5}$ ב. $\frac{1}{6}$ ג. $\frac{2}{3}$ ד. $\frac{3}{4}$.

14) א. $\frac{40}{80},\frac{18}{36},\frac{4}{8}$ ב. $\frac{180}{300},\frac{75}{125},\frac{30}{50}$ ג. $\frac{440}{700},\frac{160}{256},\frac{80}{128}$

15) א. $\frac{5}{6}$ ב. $\frac{1}{3}$ ג. $\frac{1}{4}$ ד. $\frac{1}{5}$ ה. $\frac{5}{8}$ ו. $\frac{4}{7}$

ז. $\frac{3}{4}$ ח. $\frac{3}{11}$

16) א. $-6\frac{2}{3}$ ב. $4\frac{3}{4}$ ג. $2\frac{2}{5}$ ד. $4\frac{2}{5}$ ה. $-5\frac{4}{6}$ ו. $-7\frac{1}{7}$

ז. $5\frac{7}{8}$ ח. $6\frac{2}{3}$

17) א. $\frac{5}{3}$ ב. $\frac{23}{6}$ ג. $\frac{9}{2}$ ד. $\frac{25}{4}$ ה. $\frac{47}{4}$ ו. $-\frac{21}{8}$

ז. $-\frac{44}{7}$ ח. $\frac{115}{9}$

18) א. $\frac{4}{10}$ ב. $\frac{7}{6}$ ג. $\frac{5}{6}$ ד. $\frac{7}{12}$

19) א. $\frac{7}{10}$ ב. $\frac{7}{100}$ ג. $\frac{7}{1000}$ ד. $\frac{17}{50}$ ה. $\frac{38}{125}$ ו. $\frac{13}{20}$

ז. $1\frac{1}{5}$ ח. $1\frac{1}{50}$ ט. $1\frac{21}{50}$ י. $3\frac{1}{2}$ יא. $6\frac{3}{100}$ יב. $5\frac{1}{8}$

20) א. 0.3 ב. 0.03 ג. 0.003 ד. 0.023 ה. 0.5 ו. 0.75

ז. 0.4 ח. 0.16 ט. 0.14 י. 0.15 יא. 0.875

יב. 0.5625 יג. 9.1 יד. 3.2 טו. 4.875 טז. -4.0625

21) א. $0.\overline{6}$ ב. $0.8\overline{3}$ ג. 0.428 ד. $0.1\overline{8}$

22) א. $\frac{1}{4}$ ב. $\frac{8}{25}$ ג. $\frac{16}{25}$ ד. $\frac{4}{5}$ ה. $1\frac{1}{5}$ ו. $\frac{1}{20}$

ז. 3 ח. $1\frac{1}{2}$

23) א. 75% ב. 12.5% ג. 80% ד. 35% ה. 27.5% ו. 56%

ז. 83.333% ח. 44.444%

כפל וחילוק שברים:

סיכום כללי:

- כשכופלים שני שברים יש לכפול מונה במונה ומכנה במכנה.
  - במידה ומדובר במספר שלם הכופל שבר, יש לכפול אותו במונה.
  - במידה ומדובר בשברים מעורבים, יש להפוך אותם תחילה לשברים מדומים ורק אז לבצע את פעולת הכפל.
- כדי לחלק שברים, יש לכפול את השבר הראשון בהופכי של השבר השני.
  - הופכי של שבר מסוים מתקבל ע"י החלפת המונה במכנה.

שאלות:

1) חשב את ערכי הביטויים הבאים:

א. $\frac{3}{5}\cdot\frac{3}{4}$ ב. $\frac{2}{7}\cdot\frac{5}{6}$ ג. $\frac{2}{9}\cdot\frac{8}{10}$

ד. $3\cdot\frac{4}{5}$ ה. $6\cdot\frac{2}{3}$ ו. $\frac{12}{25}\cdot 5$

ז. $1\frac{3}{5}\cdot 2\frac{1}{4}$ ח. $3\frac{1}{2}\cdot 4\frac{2}{5}$ ט. $3\frac{3}{7}\cdot 2\frac{2}{5}$

י. $\left(\frac{4}{5}\right)^3$ יא. $\frac{4}{5^3}$ יב. $\frac{4^3}{5}$

2) חשב את ערכי הביטויים הבאים:

א. $\frac{2}{5}:\frac{4}{9}$ ב. $\frac{3}{4}:\frac{1}{2}$ ג. $\frac{3}{25}:\frac{7}{10}$

ד. $8:\frac{2}{9}$ ה. $10:\frac{2}{3}$ ו. $\frac{5}{6}:3$

ז. $\frac{2}{5}:5$ ח. $3\frac{3}{4}:5\frac{5}{8}$ ט. $2\frac{2}{5}:1\frac{3}{15}$

תשובות סופיות:

1) א. $\frac{9}{20}$ ב. $\frac{5}{21}$ ג. $\frac{8}{45}$ ד. $2\frac{2}{5}$ ה. 4 ו. $2\frac{2}{5}$

ז. $3\frac{3}{5}$ ח. $15\frac{2}{5}$ ט. $8\frac{8}{35}$ י. $\frac{64}{125}$ יא. $\frac{4}{125}$ יב. $12\frac{4}{5}$

2) א. $\frac{9}{10}$ ב. $1\frac{1}{2}$ ג. $\frac{6}{35}$ ד. 36 ה. 15 ו. $\frac{5}{18}$

ז. $\frac{2}{25}$ ח. $\frac{2}{3}$ ט. 2

חיבור וחיסור שברים:

סיכום כללי:

כפולה משותפת מינימלית:

בהינתן זוג מספרים a ו- b, המספר הקטן ביותר אשר תוצאת חלוקתו במספרים הנ"ל מניבה מספר שלם נקרא הכפולה המינימלית שלהם.

הערות:

- כפולה מינימלית יכולה להיות גם עבור יותר משני מספרים.
- הכפולה המינימלית תהיה המכנה המשותף בעת פעולות חיבור וחיסור של שברים.

כללי החיבור והחיסור של שברים:

- חיבור וחיסור של שברים בעלי אותו המכנה מתבצע על המספרים שבמונה בלבד כאשר המכנה נשאר כפי שהוא.

דוגמא: $\frac{2}{7}+\frac{3}{7}=\frac{2+3}{7}=\frac{5}{7}$, $\frac{2}{7}-\frac{3}{7}=\frac{2-3}{7}=\frac{-1}{7}$.

- חיבור וחיסור של שברים בעלי מכנים שונים מתבצע ע"י פעולת מכנה משותף.

דוגמא: $\frac{2}{5}+\frac{1}{3}=\frac{6}{15}+\frac{5}{15}=\frac{6+5}{15}=\frac{11}{15}$, $\frac{1}{4}-\frac{5}{6}=\frac{3}{12}-\frac{10}{12}=\frac{3-10}{12}=-\frac{7}{12}$.

- חיבור של שבר עם מספר שלם יתבצע באופן ישיר.

דוגמא: $3+\frac{1}{4}=3\frac{1}{4}$.

חיסור של שבר ממספר שלם יתבצע ע"י הוצאת שלמים מהשבר.

דוגמא: $3-\frac{1}{4}=2\frac{4}{4}-\frac{1}{4}=2\frac{3}{4}$.

דרך נוספת היא ע"י העברת המספר השלם לשבר מדומה: $3-\frac{1}{4}=\frac{12}{4}-\frac{1}{4}=\frac{11}{4}=2\frac{3}{4}$.

- חיבור וחיסור של שברים מעורבים יתבצע ע"י העברתם לשברים מדומים תחילה.

דוגמא: $3\frac{2}{5}+2\frac{1}{6}=\frac{17}{5}+\frac{13}{6}=\frac{17\cdot 6}{30}+\frac{13\cdot 5}{30}=\frac{102+65}{30}=\frac{167}{30}=5\frac{17}{30}$.

ניתן גם לפצל ולבצע את פעולת החיבור (או החיסור) של המספרים השלמים תחילה,

ולאחר מכן לבצע את הפעולה עבור השברים.

דוגמא: $2\frac{3}{4}-5\frac{1}{3}=(2-5)+\left(\frac{3}{4}-\frac{1}{3}\right)=-3+\left(\frac{9}{12}-\frac{4}{12}\right)=-3+\frac{5}{12}=-2\frac{7}{12}$.

שאלות:

1) מצא את הכפולה המשותפת המינימלית של המספרים הבאים:

א. 2 ו-3 ב. 2 ו-4 ג. 3 ו-5 ד. 6 ו-10

ה. 4 ו-10 ו. 4 ו-6 ז. 3, 5 ו-10 ח. 2, 3 ו-8

2) חשב את ערכי הביטויים הבאים:

א. $\frac{1}{5}+\frac{3}{5}$ ב. $\frac{5}{9}+\frac{2}{9}$

ג. $\frac{4}{13}+\frac{9}{13}$ ד. $\frac{7}{8}+\frac{7}{8}$

ה. $\frac{7}{8}-\frac{3}{8}$ ו. $\frac{8}{9}-\frac{7}{9}$

ז. $\frac{2}{12}-\frac{5}{12}$ ח. $\frac{2}{5}-\frac{6}{5}$

ט. $\frac{2}{8}+\frac{5}{8}+\frac{6}{8}$ י. $\frac{7}{15}+\frac{8}{15}-\frac{6}{15}$

3) חשב את ערכי הביטויים הבאים:

א. $\frac{1}{2}+\frac{4}{3}$ ב. $\frac{3}{5}+\frac{1}{10}$

ג. $\frac{4}{6}-\frac{1}{12}$ ד. $\frac{3}{6}-\frac{5}{8}$

ה. $\frac{5}{4}+\frac{7}{2}+\frac{2}{8}$ ו. $\frac{7}{3}+\frac{6}{5}+\frac{3}{10}$

ז. $\frac{4}{7}-\frac{1}{6}+\frac{1}{2}$ ח. $\frac{1}{4}+\frac{2}{8}-\frac{3}{5}$

4) חשב את ערכי הביטויים הבאים:

א. $2+\frac{5}{6}$

ב. $2-\frac{5}{6}$

ג. $2\frac{1}{4}+\frac{5}{6}$

ד. $2\frac{1}{4}-\frac{5}{6}$

ה. $3\frac{2}{3}+4\frac{1}{4}$

ו. $5\frac{7}{8}-6\frac{1}{2}$

ז. $2+\frac{5}{6}-\frac{1}{9}$

ח. $\frac{3}{4}-1\frac{1}{5}+\frac{8}{20}$

5) חשב את ערכי הביטויים הבאים:

א. $\frac{1}{2}\cdot\left(1-\frac{3}{4}\right)+2\frac{1}{3}$

ב. $\frac{3}{14}:\frac{2}{7}+\frac{1}{3}\cdot 2\frac{1}{4}-\frac{2}{5}$

ג. $\frac{5}{11}\cdot 2\frac{3}{4}-6:\frac{2}{5}$

ד. $2\frac{4}{5}:\frac{9}{10}\cdot\frac{6}{7}+\frac{1}{6}$

ה. $\frac{5}{6}:\frac{3}{4}+\frac{2}{3}\cdot 3\frac{1}{4}$

תשובות סופיות:

1)	א. 6	ב. 4	ג. 15	ד. 30	ה. 20	ו. 12
	ז. 30	ח. 24				
2)	א. $\frac{4}{5}$	ב. $\frac{7}{9}$	ג. 1	ד. $1\frac{3}{4}$	ה. $\frac{1}{2}$	ו. $\frac{1}{9}$
	ז. $-\frac{1}{4}$	ח. $-\frac{4}{5}$	ט. $1\frac{5}{8}$	י. $\frac{3}{5}$		
3)	א. $1\frac{5}{6}$	ב. $\frac{7}{10}$	ג. $\frac{7}{12}$	ד. $-\frac{1}{8}$	ה. 5	ו. $3\frac{5}{6}$
	ז. $\frac{19}{21}$	ח. $-\frac{1}{10}$				
4)	א. $2\frac{5}{6}$	ב. $1\frac{1}{6}$	ג. $3\frac{1}{12}$	ד. $1\frac{5}{12}$	ה. $7\frac{11}{12}$	ו. $-\frac{5}{8}$
	ז. $2\frac{13}{18}$	ח. $-\frac{1}{20}$				
5)	א. $2\frac{11}{24}$	ב. $1\frac{1}{10}$	ג. $-13\frac{3}{4}$	ד. $2\frac{5}{6}$	ה. $3\frac{5}{18}$	

בעיות יסודיות באחוזים:

סיכום כללי:

נוסחה לביצוע חישובים עם אחוזים:

$$\text{תמורת האחוז} = \text{שלם} \cdot \frac{\text{אחוז}}{100}$$

למשל, בהינתן גודל שלם 120, אשר יש לחשב כמה הם 40 אחוזים ממנו, נקבל לפי הנוסחה: $\frac{40}{100}\cdot 120 = 48$, כלומר: **תמורת האחוז 40 מהגודל 120 היא 48**.

שאלות:

1) בכיתה 30 תלמידים. 60% מתוכם בנות.

א. כמה בנות בכיתה?

ב. כמה בנים בכיתה?

2) בכיתה 28 בנות המהוות 70% מכלל התלמידים בכיתה.

א. כמה תלמידים בכיתה?

ב. כמה בנים בכיתה?

3) מחיר בגד-ים הוא 300 ₪. בסוף העונה הוא נמכר ב-20% הנחה.

א. מהו מחירו בסוף העונה?

ב. מה גודל ההנחה?

4) מחיר ההשקה של בושם מסוים הוא 500 ₪. לאחר מכן מועלה מחירו ב-8%.

א. מה מחירו הסופי?

ב. מה גודל ההתייקרות?

5) מחיר ליטר דלק הוא 5 ₪ לליטר. בחנוכה מוזל מחירו ב-7%.
בפסח מועלה מחירו ב-7%. מה מחירו בסוף השנה?

6) מוצר מסויים מתייקר בסוכות ב-12%. בפורים מוזל המוצר ב-12%.
מחירו בסוף השנה הוא 394.24 ₪.
מה מחירו בתחילת השנה?

7) ענה על השאלות הבאות:

א. באולם קולנוע 200 צופים, מתוכם 176 בנים. מה אחוז הבנים בקהל?
ב. בכיתה 30 תלמידים, מתוכם 18 בנות. מה אחוז הבנות בכיתה?
ג. מחיר מוצר התייקר מ-80 ₪ ל-120 ₪. בכמה אחוזים התייקר המוצר?
ד. מחיר מוצר הוזל מ-120 ₪ ל-80 ₪. בכמה אחוזים הוזל המוצר?
ה. מחיר מוצר התייקר מ-150 ₪ ל-200 ₪. בכמה אחוזים התייקר המוצר?
ו. מחיר מוצר מוזל הוזל מ-200 ₪ ל-150 ₪. בכמה אחוזים הוזל המוצר?

תשובות סופיות:

1) א. 18 בנות. ב. 12 בנים.
2) א. 40 תלמידים. ב. 12 בנים.
3) א. 240 ₪ ב. 60 ₪
4) א. 540 ₪ ב. 40 ₪
5) 4.9755 ₪
6) 400 ₪
7) א. 88% ב. 60% ג. 50% ד. 33.33% ה. 33.33% ו. 25%

חזרה על תבניות מספר:

סיכום כללי:

משתנה הוא סמל המתאר כמות או גודל כלשהם אשר אינם ידועים ועשויים להשתנות.

תבנית מספר היא ביטוי אלגברי אשר מכיל משתנה (או משתנים).
ניתן להציב במשתנים ערכים מספריים שונים ולקבל תוצאות שונות עבור תבנית המספר עצמה.

במתמטיקה, תפקידה של תבנית המספר הוא להביע גודל מסוים אשר לערכו יש משמעויות שונות. דוגמא לכך היא: קנייה של x פריטים, אשר כל אחד עולה 3 שקלים, יניבו תבנית מספר של $3\cdot x$ אשר מייצגת את הסכום הכולל של הפריטים.

שאלות:

1) חשב את ערכי הביטויים האלגבריים הבאים עבור ה- x הנתון:

א. $2x+5$ כאשר $x=3$

ב. x^2+3x כאשר $x=2$

ג. $-x^2+2x+3$ כאשר $x=5$

ד. $-x^2-9x+5$ כאשר $x=5$

ה. x^3+1 כאשר $x=-2$

ו. $4-x^3$ כאשר $x=-1$

ז. $(x+1)(2-x)$ כאשר $x=4$

ח. $x^2(3x-4)$ כאשר $x=3$

2) חשב את ערכי הביטויים האלגבריים הבאים עבור ה- x הנתון:

א. $27x^5-2x^3+x$ כאשר $x=\frac{1}{3}$

ב. $\frac{1}{3}x^2+\frac{1}{2}x+6$ כאשר $x=-\frac{2}{3}$

3) הצב את הערכים המספריים במקום הפרמטרים וחשב את ערך תבנית המספר:

א. $a^2+2ab+b^2$ עבור: $a=3\ ,\ b=-5$.

ב. $(x-3)^2+3x^2b$ עבור: $x=5\ ,\ b=-1$.

ג. $-x^3-2xy+y^4$ עבור: $x=-2\ ,\ y=-1$.

ד. $\frac{(a-2c)^4}{a}-a^2$ עבור: $a=2\ ,\ c=-2$.

ה. $\frac{4a^2-3b}{c}$ עבור: $a=-1\ ,\ b=2\ ,\ c=-4$.

ו. $\sqrt{c-3a}$ עבור: $a=-1\ ,\ c=13$ ועבור: $a=\frac{1}{3}\ ,\ c=82$.

ז. $\frac{p^3+2\sqrt{q+1}}{m}$ עבור: $m=3\ ,\ q=48\ ,\ p=-5$.

תשובות סופיות:

1) א. 11 ב. 10 ג. -12 ד. -65 ה. -7 ו. 5

ז. -10 ח. 45

2) א. $\frac{10}{27}$ ב. $5\frac{22}{27}$

3) א. 4 ב. -71 ג. 5 ד. 644 ה. $\frac{1}{2}$

ו. הצבה ראשונה: 4, הצבה שניה: 9 ז. -37

כינוס איברים:

סיכום כללי:

תבניות אלגבריות יכולות להכיל איברים רבים ולכן נרצה לכנס אותם על מנת לפשט את התבנית. כדי לכנס איברים ניקח את כל קבוצת האיברים מאותו הסוג ונחבר את המקדמים שלהם. דוגמא: $3x+6x-5x=(3+6-5)x=4x$.
איברים שונים נבדלים זה מזה בערך התבנית האלגברית שלהם.
כך: $3x$ שונה מ- $4y$ ושונה מ- $2xy$. באותו האופן, האיברים x ו- x^2 הם שונים.

שאלות:

1) כנס איברים דומים:

א. $5x+7x-4x$	ב. $9x^2-2x^2-3x^2-2x^2$
ג. $-10xy+15xy+xy-2yx$	ד. $x^2y-3yx^2+x^2y$
ה. $8a^2+10a-5a^2-11a+a^2$	ו. $2x^2-3m^2-x^2+3m^2$
ז. $3xy+y-30y+6yx-7y$	ח. $mn^2+4m^2n+6n^2m-10nm^2+mn^2$
ט. $-6+x^3+4-3x^3+17x^3-17$	י. $y^2+x^2-5x^2+5y^2+4x^2-6y^2$
יא. $7x^2-3x-4x+2$	יב. $5xy+2x-3yx-x+1$
יג. $3-x-x^2+4x+5x^2-12$	יד. $x+xy+y-6yx-6y-6x$
טו. $mn+n-5m+5nm-14n+3m$	טז. $ab^2+6ba^2-6b+16a^2b+3b-6b^2a$
יז. $z^3-4z^2+7-z^3-8+8z^2$	יח. $4x^2z+6xz^2-6-xz^2+12+10zx^2$
יט. $2-x^3-3-4x^2+2x+x^3+x^2-2$	כ. $x^3-3x-4x^2+2x+x^3+x^2-2x^3$
כא. $2a^2b+3x^2y+5a^2b+10x^2y$	כב. $12x^2y^3+13a^2-20x^2y^3+2a^2$
כג. $2y^2-4x^3y^2-10y^2-x^3y^2$	כד. $-2x^3y+5x^2-4yx^3-6x^2$
כה. $2a^2b+2b+3a^2+5b$	כו. $5a^2b-8ab^2+20a^2b-14ab^2$

כז. $-12x^2+2y^2+3x^2y+14xy^2-5xy^2-6y^2+2xy+11x^2+x^2y-9xy$

כח. $21x^3y^3+x^2y^2-3xy^3+x^3y-15x^2y^2-7x^3y+12x^3y^3-4xy^3+4xy^3-6x^3y$

תשובות סופיות:

1) א. $8x$ ב. $2x^2$ ג. $4xy$

ד. $-x^2y$ ה. $4a^2-a$ ו. x^2

ז. $9xy-36y$ ח. $8mn^2-6nm^2$ ט. $15x^3-19$

טו. $-13n-2m+6mn$ טז. $-5ab^2+22a^2b-3b$ י. 0

יא. $7x^2-7x+2$ יב. $2xy+x+1$ יג. $4x^2+3x-9$

יד. $-5x-5y-5xy$ יז. $4z^2-1$ יח. $14x^2z+5xz^2+6$

יט. $-3x^2+2x-3$ כ. $-3x^2-x$ כא. $7a^2b+13x^2y$

כב. $-8x^2y^3+15a^2$ כג. $-8y^2-5x^3y^2$ כד. $-6x^3y-x^2$

כה. $2a^2b+3a^2+7b$ כו. $25a^2b-22ab^2$

כז. $-x^2-4y^2+4x^2y+9xy^2-7xy$

כח. $33x^3y^3-14x^2y^2-3xy^3-12x^3y$

פישוט ביטויים ע"י פתיחת סוגריים:

סיכום כללי:

בעת ביצוע כפל בין שני איברים יש לכפול את המקדמים בנפרד ואת האותיות (משתנים) בנפרד.

כלל הפילוג:

- $a(b+c)=ab+ac$.
- $(a+b)(c+d)=ac+ad+bc+bd$.

שאלות:

1) פשט את הביטויים הבאים:

א. $2x\cdot 3x$ ב. $-4x\cdot(-7x)$ ג. $-2x\cdot(-4x)\cdot(-3)$

ד. $8m^2\cdot 4m^3$ ה. $3a^3\cdot(-2a^2)$ ו. $-b\cdot 4b^2\cdot\frac{b^2}{2}$

ז. $a\cdot 3b$ ח. $4a^2\cdot 7b^2$ ט. $ab\cdot(-2a^2b)$

2) פשט את הביטויים הבאים ע"י פתיחת סוגריים:

א. $2(3x-4)$ ב. $2(-3x^2+5x-1)$

ג. $(7x-2)4$ ד. $(1-2x)(-2)$

ה. $a(3a-1)$ ו. $b(b^2-3b+4)$

ז. $2x(5x+3)$ ח. $5x(x^2+2x-3)$

ט. $3t^2(4t-t^2+6)$ י. $\frac{5}{2}(4d^4-3d)d$

3) פשט את הביטויים הבאים:

א. $5x+(3x-2)+(-4-2x)$

ב. $7x+(-4x-5)+3x+(-1+7x)$

ג. $8-(2x-5)-(4x+2)$

ד. $-6x-(-3x-1)-(-7-4x)+1$

ה. $(3-2x^2+4)2+3(x-x^2)-6(7-5x)+4x^2$

ו. $3y^2-(y+1-2y^2)+6(5y-6)-(-y-4)3+5(y^2+1)-7$

4) פשט את הביטויים הבאים:

א. $(x-1)(x+2)$

ב. $(x+3)(x-7)$

ג. $(3-x)(x+4)$

ד. $(3x+4)(5x+1)$

ה. $3(4x+1)(2x-3)$

ו. $-2(3x-1)(5-2x)$

5) פשט את ערכי הביטויים הבאים:

א. $(x-1)(x+3)+2(3-x)$

ב. $(a+4)(a-2)-(a+5)(a-3)$

ג. $(2m-3)(4m+3)+5(2m^2-6)$

ד. $-x^2y^2(x^3y+x^2)+2xy(2x^3y-x^4y^2)$

תשובות סופיות:

1) א. $6x^2$ ב. $28x^2$ ג. $-24x^2$ ד. $32m^5$ ה. $-6a^5$ ו. $-2b^5$
ז. $3ab$ ח. $28a^2b^2$ ט. $-2a^3b^2$

2) א. $6x-8$ ב. $-6x^2+10x-2$ ג. $28x-8$ ד. $-2+4x$
ה. $3a^2-a$ ו. b^3-3b^2+4b ז. $10x^2+6x$ ח. $5x^3+10x^2-15x$
ט. $12t^3-3t^4+18t^2$ י. $10d^5-7.5d^2$

3) א. $6x-6$ ב. $13x-6$ ג. $-6x+11$ ד. $x+9$ ה. $-3x^2+33x-28$
ו. $10y^2+32y-27$

4) א. x^2+x-2 ב. $x^2-4x-21$ ג. $-x^2-x+12$
ד. $15x^2+23x+4$ ה. $24x^2-30x-9$ ו. $12x^2-34x+10$

5) א. x^2+3 ב. 7 ג. $18m^2-6m-39$ ד. $-3x^5y^3+3x^4y^2$

פישוט ביטויים באמצעות נוסחאות הכפל המקוצר:

סיכום כללי:

- נוסחת ריבוע של סכום/הפרש: $(a\pm b)^2=a^2\pm 2ab+b^2$.
- נוסחה להפרש ריבועים: $(a+b)(a-b)=a^2-b^2$.

שאלות:

1) פשט את הביטויים הבאים:

א. $(x+5)^2$ ב. $(x+2)^2$ ג. $(4x+5)^2$

ד. $(6x+2)^2$ ה. $(7x+y)^2$ ו. $(5x+2y)^2$

ז. $(x^2+7)^2$ ח. $(x^2+y^2)^2$ ט. $(x^3+2y^2x)^2$

2) פשט את הביטויים הבאים:

א. $(x-6)^2$ ב. $(x-2)^2$ ג. $(5-x)^2$

ד. $(6x-1)^2$ ה. $\left(3x-\frac{1}{2}\right)^2$ ו. $\left(\frac{1}{3}x-5\right)^2$

ז. $(3m-2n)^2$ ח. $\left(x^2-\frac{3}{5}y\right)^2$ ט. $(x^2y^2-7)^2$

3) פשט את הביטויים הבאים:

א. $(x-5)(x+5)$ ב. $(3+x)(x-3)$

ג. $(3x-1)(3x+1)$ ד. $(5-7x)(7x+5)$

ה. $\left(\frac{1}{2}x+6\right)\left(\frac{1}{2}x-6\right)$ ו. $\left(5y-\frac{1}{4}x\right)\left(\frac{1}{4}x+5y\right)$

ז. $(x^2+y)(x^2-y)$ ח. $(3a^2b^3-4)(3a^2b^3+4)$

4) פשט את הביטויים הבאים:

א. $(x+1)(x+2)-3x$

ב. $(x-5)(5x-1)+2(4+x)$

ג. $x(2x-1)(2x+1)-4x^2(x+1)$

ד. $-(y+3x)(y-3x)+(y-3x)^2$

ה. $x(x+3)-(6+x)(6x+2)-(x+2)^2$

ו. $-5(x+7)(x-7)+3(2x+5)(5-x)+(x+1)^2$

תשובות סופיות:

1) א. $x^2+10x+25$ ב. x^2+4x+4 ג. $16x^2+40x+25$

ד. $36x^2+24x+4$ ה. $49x^2+14xy+y^2$ ו. $25x^2+20xy+4y^2$

ז. $x^4+14x+49$ ח. $x^4+2x^2y^2+y^4$ ט. $x^6+4x^4y^2+4y^4x^2$

2) א. $x^2-12x+36$ ב. x^2-4x+4 ג. $25-10x+x^2$

ד. $36x^2-12x+1$ ה. $9x^2-3x+\frac{1}{4}$ ו. $\frac{1}{9}x^2-3\frac{1}{3}x+25$

ז. $9m^2-12mn+4n^2$ ח. $x^4-\frac{6}{5}x^2y+\frac{9}{25}y^2$ ט. $x^4y^4-14x^2y^2+49$

3) א. x^2-25 ב. x^2-9 ג. $9x^2-1$ ד. $25-49x^2$

ה. $\frac{1}{4}x^2-36$ ו. $25y^2-\frac{1}{16}x^2$ ז. x^4-y^2 ח. $9a^4b^6-16$

4) א. x^2+2 ב. $5x^2-24x+13$ ג. $-4x^2-x$

ד. $18x^2-6xy$ ה. $-6x^2-39x-16$ ו. $-10x^2+17x+321$

פירוק לגורמים של ביטויים אלגברים:

סיכום כללי:

פירוק לגורמים הוא פעולה הפוכה לפתיחת סוגריים – נרצה להוציא את הגורמים המשותפים לאיברים מחוץ לסוגריים.

- פירוק לגורמים ע"י הוצאת איבר אחד משותף:
  - הוצאת מספר משותף: $2x-8=2(x-4)$.
  - הוצאת אות משותפת: $x^2-12x=x(x-12)$.
  - הוצאת מספר ואות יחד: $3x^2-21x=3x(x-7)$.
- פירוק לגורמים ע"י נוסחאות הכפל המקוצר:
  - נוסחת הבינום של ניוטון: $a^2\pm 2ab+b^2=(a\pm b)^2$.
  - נוסחה להפרש ריבועים: $a^2-b^2=(a+b)(a-b)$.

שאלות:

1) פשט את הביטויים הבאים ע"י הוצאת גורם משותף:

א. $3x-12$ ב. $6y-4$

ג. $20-8a$ ד. $4a^3+8b$

ה. $75m^2+25m+15$ ו. $40a^2-8b^2+64c^2$

2) פשט את הביטויים הבאים ע"י הוצאת גורם משותף:

א. y^2+5y ב. $3x-11x^3$

ג. $6y^2+5y^3+4y$ ד. $\frac{1}{2}a^7-\frac{1}{4}a^5+a^3$

3) פשט את הביטויים הבאים ע"י הוצאת גורם משותף:

א. $2x^2-8x$
ב. $3t^2+12t$
ג. $5n^3-20n^2+50n$
ד. $8y^2+6y^3-2y^4$
ה. $4x^2y^2+16x^2y-20xy^2$
ו. $27mn-3n^2m+9n^3m$

4) פשט את הביטויים הבאים ע"י שימוש בנוסחאות הכפל המקוצר:

א. $x^2+10x+25$
ב. $x^2+12x+36$
ג. $y^2-18y+81$
ד. $y^2-22y+121$
ה. $4x^2+4x+1$
ו. $16y^2-8y+1$
ז. $9x^2-24x+16$
ח. $25x^2+70x+49$

5) פשט את הביטויים הבאים ע"י שימוש בנוסחאות הכפל המקוצר:

א. r^2-25
ב. x^2-81
ג. $25y^2-49$
ד. $121x^2-1$
ה. x^2y^2-4
ו. $9y^4-169x^4$

6) פשט את הביטויים הבאים ע"י הוצאת גורם משותף ונוסחאות הכפל המקוצר:

א. $y-y^3$
ב. x^3-10x^2+25x
ג. m^4-1
ד. $196x^4-140x^3+25x^2$

תשובות סופיות:

1) א. $3(x-4)$ ב. $2(3y-2)$ ג. $4(5-2a)$

ד. $4(a^3+2b)$ ה. $5(15m^2+5m+3)$ ו. $8(5a^2-b^2+8c^2)$

2) א. $y(y+5)$ ב. $x(3-11x^2)$ ג. $y(6y+5y^2+4)$

ד. $a^3\left(\frac{1}{2}a^4-\frac{1}{4}a^2+1\right)$

3) א. $2x(x-4)$ ב. $3t(t+4)$ ג. $5n(n^2-4n+10)$

ד. $2y^2(4+3y-y^2)$ ה. $4xy(xy+4x-5y)$ ו. $3mn(9-n-3n^2)$

4) א. $(x+5)^2$ ב. $(x+6)^2$ ג. $(y-9)^2$ ד. $(y-11)^2$

ה. $(2x+1)^2$ ו. $(4y-1)^2$ ז. $(3x-4)^2$ ח. $(5x+7)^2$

5) א. $(r+5)(r-5)$ ב. $(x+9)(x-9)$ ג. $(5y+7)(5y-7)$

ד. $(11x+1)(11x-1)$ ה. $(xy+2)(xy-2)$ ו. $(3y^2+13x^2)(3y^2-13x^2)$

6) א. $y(1+y)(1-y)$ ב. $x(x-5)^2$ ג. $(m^2+1)(m+1)(m-1)$

ד. $x^2(14x-5)^2$

פירוק הטרינום:

סיכום כללי:

טרינום משמעו תלת איבר מהצורה: ax^2+bx+c כאשר a, b ו-c הם מספרים כלשהם.

שיטת הטרינום מאפשרת לפרק את תלת האיבר ל-4 איברים ע"י פיצול האיבר bx לשני איברים באופן כזה שמאפשר להוציא גורם משותף.

הכלל הוא למצוא שני מספרים, m_1 ו-m_2, שמקיימים: $m_1\cdot m_2=ac$ ו-$m_1+m_2=b$.

לאחר מכן ניתן לפרק את הטרינום: $ax^2+bx+c=ax^2+m_1x+m_2x+c$.

השלב האחרון הוא הוצאת גורם משותף מכל זוג: $\underbrace{ax^2+m_1x}+\underbrace{m_2x+c}$.

הערה:

במקרה שנוסחת השורשים ידועה, ניתן להיעזר בה כדי למצוא את המספרים m_1 ו-m_2 באופן הבא: $m_2=\frac{-b-\sqrt{b^2-4ac}}{2a}$, $m_1=\frac{-b+\sqrt{b^2-4ac}}{2a}$ ולאחר מכן ניתן לכתוב את הטרינום כמכפלה: $ax^2+bx+c=a(x-m_1)(x-m_2)$. אם קיים פתרון (שורש) אחד $m_1=m_2=\frac{-b}{2a}$ אז נכתוב: $ax^2+bx+c=a(x-m_1)^2$ ואם לא קיימים פתרונות אז לא קיים פירוק כלל.

שאלות:

1) פרק את הביטויים הבאים לפי פירוק טרינום:

א. x^2+5x+4	ב. $x^2-8x+15$	ג. $x^2-33x+62$
ד. $2x^2+7x-15$	ה. $3x^2-11x+6$	ו. $6x^2+5x+1$
ז. $2x^2+x-6$	ח. $x^2-18x+81$	ט. x^2+2x+8

2) פרק את הביטויים הבאים ע"י שימוש בנוסחת השורשים.
הערה: במידה ולא למדת על נוסחת השורשים התעלם משאלה זו.

א. $6x^2+5x+1$	ב. x^2+5x+4
ג. $4x^2+20x+25$	ד. $3x^2-x+20$

תשובות סופיות:

1) א. $(x+1)(x+4)$ ב. $(x-3)(x-5)$ ג. $(x-2)(x-31)$

ד. $(2x-3)(x+5)$ ה. $(3x-2)(x-3)$ ו. $(3x+1)(2x+1)$

ז. $(x+2)(2x-3)$ ח. $(x-9)^2$ ט. אין פירוק.

2) א. $6\left(x+\frac{1}{3}\right)\left(x+\frac{1}{2}\right)$ ב. $(x+1)(x+4)$ ג. $(2x+5)^2$ ד. אין פירוק.

שברים אלגבריים:

סיכום כללי:

הגדרה:

שבר אלגברי מורכב משתי תבניות, אשר אחת מחלקת את השנייה.

דוגמא לשברים אלגבריים: $\frac{4}{x-x^3}$, $\frac{3x}{x^2+1}$, $\frac{x+1}{x+2}$.

במקרה בו המכנה הוא מספר, לא מדובר בשבר אלגברי מכיוון שניתן לכתוב את הביטוי ללא צורך בחילוק בין ביטויים שונים כגון: $\frac{3x+5}{4}=\frac{3}{4}x+\frac{5}{4}$.

תחום הגדרה של שבר:

היות ושבר אלגברי הוא תבנית אשר יכולה לקבל ערכים שונים בעת הצבות שונות, חשוב להגביל את המספרים שניתן להציב באופן כזה שלא תתקבל חלוקה באפס.

דוגמא: השבר $\frac{1}{x+4}$ לא מוגדר כאשר $x=-4$ מכיוון שמתקבל: $\frac{1}{0}$.

במקרים אלו נדרוש **תנאי** על המשתנה אשר יכתב באופן הבא: $x\neq-4$ ומשמעו היא ש-x יכול לקבל על ערך מספרי אפשרי למעט 4-, מכיוון שבמקרה זה השבר לא מוגדר.

כלל צמצום שברים אלגברים:

ניתן לצמצם שברים אלגברים ע"י הבאת המונה והמכנה למכפלה של ביטויים.
במידה וקיימות פעולות החיבור והחיסור בין איברים שונים לא ניתן לבצע צמצום של איברים דומים בין המונה והמכנה. להלן מספר דוגמאות הנוגעות לצמצומים:

- צמצום ע"י הוצאת גורם משותף: $\frac{2x+8}{x+4}=\frac{2\cancel{(x+4)}}{\cancel{x+4}}=\frac{2\cdot1}{1}=2$.
- צמצום ע"י נוסחת כפל מקוצר: $\frac{3x-15}{x^2-10x+25}=\frac{3\cancel{(x-5)}}{(x-5)^{\cancel{2}}}=\frac{3\cdot1}{x-5}=\frac{3}{x-5}$.
- צמצום ע"י פירוק טרינום: $\frac{x^2-2x-3}{x^2-3x-4}=\frac{\cancel{(x+1)}(x-3)}{\cancel{(x+1)}(x-4)}=\frac{x-3}{x-4}$.

שאלות:

1) מצא את תחום ההגדרה של השברים האלגבריים הבאים:

א. $\frac{x+4}{x+3}$

ב. $\frac{5}{x-6}$

ג. $\frac{x+7}{2x-8}$

ד. $\frac{x^2+1}{x^2-4x}$

ה. $\frac{3}{x^2+2x+1}$

ו. $\frac{x^2}{x^2-4}$

ז. $\frac{6}{y^4-y^2}$

ח. $\frac{8x-2}{3x^3-15x^2+12x}$

2) צמצם את השברים הבאים (במידה ולא ניתן צמצם הסבר מדוע):

א. $\frac{ax}{a}$

ב. $\frac{a-x}{a}$

ג. $\frac{a-ax}{a}$

ד. $\frac{x+1}{y+1}$

ה. $\frac{x}{x+y}$

ו. $\frac{6x}{6y}$

ז. $\frac{x^2y}{xy^2}$

ח. $\frac{x^2+y^2}{x^2y^2}$

ט. $\frac{4x^2y}{xy}$

י. $\frac{3x^2}{x^2+3}$

3) צמצם את השברים הבאים ע"י הוצאת גורם משותף וכתוב את תחום הגדרתם:

א. $\frac{3x+12}{x+4}$

ב. $\frac{m^2+4m}{4m+16}$

ג. $\frac{2a-12}{a^2-6a}$

ד. $\frac{x^2-5x}{15-3x}$

ה. $\frac{3-18y^2}{6y^2-1}$

ו. $\frac{4x^3-2x^2}{6x-3}$

ז. $\frac{3y}{y^3-3y^2}$

ח. $\frac{3z^3-12z^2+4z}{z^2+5z}$

4) צמצם את השברים הבאים ע"י פירוק לגורמים וכתוב את תחום הגדרתם:

א. $\frac{x^2+10x+25}{2x+10}$

ב. $\frac{8n-n^2}{n^2-16n+64}$

ג. $\frac{z^3-4z^2}{2z^2-16z+32}$

ד. $\frac{4m^2+20m+25}{4m^2+10m}$

ה. $\frac{18y^2-24y+8}{2y-3y^2}$

ו. $\frac{a^3+4a^2b+4ab^2}{3ab+6b^2}$

5) צמצם את השברים הבאים ע"י טרינום ריבועי וכתוב את תחום הגדרתם:

א. $\frac{x+2}{x^2-3x-10}$

ב. $\frac{m^2-12m+32}{m-4}$

ג. $\frac{4y-10}{2y^2+y-15}$

ד. $\frac{3z^2+26z+16}{3z+2}$

ה. $\frac{x^2+5x-36}{x^3+9x^2}$

ו. $\frac{9n^2-12n}{4+5n-6n^2}$

ז. $\frac{x^2+4x+4}{x^2+5x+6}$

ח. $\frac{x^2-14x+49}{x^2+x-56}$

ט. $\frac{3a^2b-10ab^2+3b^3}{-3a^3b+11a^2b^2-6ab^3}$

י. $\frac{m^3n-m^2n^2-m^2+mn}{2m^2n^3+mn^2-3n}$

תשובות סופיות:

1) א. $x \neq -3$ ב. $x \neq 6$ ג. $x \neq 4$ ד. $x \neq 0 , x \neq 4$

ה. $x \neq -1$ ו. $x \neq -2 , x \neq 2$ ז. $y \neq 0 , y \neq -1 , y \neq 1$

ח. $x \neq 0 , x \neq 1 , x \neq 4$

2) א. x ב. לא ניתן לצמצם. ג. $1-x$

ד. לא ניתן לצמצם. ה. לא ניתן לצמצם. ו. $\frac{x}{y}$ ז. $\frac{x}{y}$

ח. לא ניתן לצמצם. ט. $4x$ י. לא ניתן לצמצם.

3) א. $3 , x \neq -4$ ב. $\frac{m}{4} , m \neq -4$ ג. $\frac{2}{a} , a \neq 0,6$

ד. $-\frac{x}{3} , x \neq 5$ ה. $-3 , y \neq \pm\frac{1}{\sqrt{6}}$ ו. $\frac{2x^2}{3} , x \neq \frac{1}{2}$

ז. $\frac{3}{y(y-3)} , y \neq 0,3$ ח. $\frac{3z^2-12z+4}{z+5} , z \neq 0,-5$

4) א. $\frac{x+5}{2} , x \neq -5$ ב. $\frac{n}{8-n} , n \neq 8$ ג. $\frac{z^2}{2(z-4)} , z \neq 4$

ד. $\frac{2m+5}{2m} , m \neq 0,-\frac{5}{2}$ ה. $\frac{2(2-3y)}{y} , y \neq 0,\frac{2}{3}$ ו. $\frac{a(a+2b)}{3b} , b \neq 0, a \neq -2b$

5) א. $\frac{1}{x-5} , x \neq 5,-2$ ב. $m-8 , m \neq 4$ ג. $\frac{2}{y+3} , x \neq -3,\frac{5}{2}$

ד. $z+8 , z \neq -\frac{2}{3}$ ה. $\frac{x-4}{x^2} , x \neq 0,-9$ ו. $\frac{-3n}{2n+1} , n \neq -\frac{1}{2},\frac{4}{3}$

ז. $\frac{x+2}{x+3} , x \neq -2,-3$ ח. $\frac{x-7}{x+8} , x \neq 7,-8$

ט. $\frac{3a-b}{a(2b-3a)} , a \neq 0 , b \neq 0, a \neq 3b , 2b \neq 3a$ י. $\frac{m(m-n)}{n(2mn+3)} , mn \neq 1,-\frac{3}{2},n \neq 0$

כפל וחילוק של שברים אלגברים:

סיכום כללי:

כפל שברים יתבצע ע"י הכפלת כל מונה בנפרד והכפלת כל מכנה בנפרד.

חילוק שברים יתבצע ע"י לקיחת ההופכי של שבר המחלק וביצוע פעולת כפל.

- דוגמא לכפל שברים: $\frac{x+1}{x^2}\cdot\frac{x}{3x+3}=\frac{x+1}{x^2}\cdot\frac{x}{3(x+1)}=\frac{\cancel{x}\cancel{(x+1)}}{3x^{\cancel{2}}\cancel{(x+1)}}=\frac{1}{3x}$.

- דוגמא לחילוק שברים: $\frac{4x}{y}:\frac{12}{y^2+y}=\frac{4x}{y}\cdot\frac{y^2+y}{12}=\frac{\overset{1}{\cancel{4}}x}{\cancel{y}}\cdot\frac{\cancel{y}(y+1)}{\underset{3}{\cancel{12}}}=\frac{x(y+1)}{3}$.

שאלות:

1) פשט את הביטויים הבאים:

א. $\frac{x}{3}\cdot\frac{x}{8}$

ב. $\frac{x}{3}\cdot\frac{9}{x^2}$

ג. $7y\cdot\frac{5}{y^2}$

ד. $6x^2\cdot\frac{3}{40x}$

ה. $(x^2+3x)\cdot\frac{2}{3x+9}$

ו. $(a^2-25)\cdot\frac{20}{5a+25}$

ז. $\frac{w^2-9}{w}\cdot\frac{w^2}{2w+6}$

ח. $\frac{y+4}{y^2+16}\cdot\frac{y^2-16}{2y+8}$

ט. $\frac{z^2+30z+225}{6z+90}\cdot\frac{12}{2z-10}$

י. $\frac{5n^2}{n^2-121}\cdot\frac{2n^2+44n+242}{n+2}\cdot\frac{n^2+4n+4}{n}$

2) פשט את הביטויים הבאים:

א. $\frac{x}{8}:\frac{x}{6}$

ב. $\frac{y}{25}:\frac{5}{y}$

ג. $a^2:\frac{1}{6a}$

ד. $\frac{5}{6a}:a^2$

ה. $(d^2-3d):\frac{5d-15}{5d}$

ו. $\frac{t}{t+4}:\frac{3t}{t+4}$

ז. $\frac{y^2+8y+16}{8y^2}:\frac{y^2-16}{7y^2}$

ח. $\frac{a^2-64}{a^2-36}:\frac{a+8}{a+6}$

תשובות סופיות:

1) א. $\frac{x^2}{24}$ ב. $\frac{3}{x}$ ג. $\frac{35}{y}$ ד. $\frac{9x}{20}$ ה. $\frac{2x}{3}$

ו. $4(a-5)$ ז. $\frac{w(w-3)}{2}$ ח. $\frac{y^2-16}{2y^2+32}$ ט. $\frac{z+15}{z-5}$ י. $\frac{10n(n+11)(n+2)}{n-11}$

2) א. $\frac{3}{4}$ ב. $\frac{y^2}{125}$ ג. $6a^3$ ד. $\frac{5}{6a^3}$ ה. d^2 ו. $\frac{1}{3}$

ז. $\frac{7(y+4)}{8(y-4)}$ ח. $\frac{a-8}{a-6}$

חיבור וחיסור של שברים אלגברים:

סיכום כללי:

ביצוע פעולת החיבור והחיסור תתבצע באופן זהה לשברים מספריים.

נרצה להרחיב את השברים כך שהמכנה של שניהם יהיה זהה, ולאחר מכן נחבר את המונים.

כדי להרחיב את השברים נעזר בפעולת מציאת מכנה משותף.
לשם כך נעזר בפירוקים השונים כדי להביא את הביטויים שבכל מכנה לצורתם המופשטת.

דוגמא לחיבור שברים בעלי אותו מכנה:

$$\frac{1}{x}+\frac{x+1}{x}=\frac{1+(x+1)}{x}=\frac{x+2}{x}$$

דוגמא לחיבור מספר לשבר אלגברי:

$$2+\frac{3}{x+2}=\frac{2(x+2)}{x+2}+\frac{3}{x+2}=\frac{2(x+2)+3}{x+2}=\frac{2x+7}{x+2}$$

דוגמא לחיבור שברים עם מכנים שונים (ע"י פעולת מכנה משותף):

$$\frac{1}{x+1}+\frac{1}{x}=\frac{x}{x(x+1)}+\frac{x+1}{x(x+1)}=\frac{x+x+1}{x(x+1)}=\frac{2x+1}{x(x+1)}$$

דוגמא לחיבור שברים ע"י שימוש בפירוק לגורמים (כדי למצוא מכנה משותף מינימלי):

$$\frac{1}{x^2-3x}+\frac{3}{x-3}=\frac{1}{x^2-3x}+\frac{3x}{x^2-3x}=\frac{1+3x}{x^2-3x}$$

דוגמא לחיבור שברים ע"י נוסחאות הכפל המקוצר (כדי למצוא מכנה משותף מינימלי):

$$\frac{3}{x^2-6x+9}-\frac{2}{x^2-9}=\frac{3}{(x-3)^2}-\frac{2}{(x-3)(x+3)}=\frac{3(x+3)-2(x-3)}{(x-3)^2(x+3)}=\frac{x+15}{(x-3)^2(x+3)}$$

שאלות:

1) פשט את הביטויים הבאים:

א. $\frac{a}{6}+\frac{a-5}{6}$

ב. $\frac{5}{x}+\frac{4x+3}{x}$

ג. $\frac{x-2}{x+1}+\frac{3+4x}{x+1}$

ד. $\frac{7z}{2z-3}-\frac{4z}{2z-3}-\frac{z+3}{2z-3}$

2) פשט את הביטויים הבאים:

א. $\frac{1}{ab}-\frac{5}{bc}$

ב. $\frac{1}{xy}+\frac{5}{yz}+\frac{4}{xz}$

ג. $\frac{c}{ab}-\frac{ad}{bc}+\frac{2b}{cd}$

ד. $-\frac{5}{x}+\frac{x+1}{xy^2}$

ה. $\frac{1}{(y+1)^2}+\frac{3}{y+1}$

ו. $\frac{3}{z(z-3)}-\frac{2}{z(z-2)}$

3) פשט את הביטויים הבאים:

א. $1-\frac{2}{x}$

ב. $1+\frac{3}{y^2}$

ג. $2+\frac{2}{x+1}$

ד. $3-\frac{1}{x}+\frac{1}{3x}$

ה. $\frac{a+1}{a^2}-\frac{3-a}{4a}-3$

ו. $\frac{x}{9yz}+\frac{z}{3y^2x}+\frac{3-y}{12xz}-3\frac{1}{2}$

4) פשט את הביטויים הבאים:

א. $\frac{3}{x+1}+\frac{1}{x}$

ב. $\frac{4}{y+2}-\frac{3}{y}$

ג. $\frac{a+1}{a+2}+\frac{3}{a}$

ד. $\frac{1}{z+3}+\frac{2}{3z}-\frac{3}{z}$

5) פשט את הביטויים הבאים:

א. $\frac{24}{a^2-9}+\frac{4}{a+3}$

ב. $\frac{3}{x^2-16}+\frac{2}{(x+4)^2}$

ג. $\frac{y}{(y-2)^2}+\frac{3y}{4-y^2}$

ד. $\frac{3z}{z^2+4z+3}-\frac{z+0.5}{z^2+2z+1}$

ה. $\frac{x-1}{x^2+3x-40}+\frac{2}{-x^2+8x-15}$

ו. $\frac{2a+3}{2a^2+15a+7}+\frac{a+3}{a^2+14a+49}$

ז. $\frac{x}{x-3}+\frac{9-x}{x^2-8x+15}$

ח. $\frac{1}{a-b}+\frac{2}{a+2b}-\frac{3b}{a^2+ab-2b^2}$

6) פשט את הביטויים הבאים:

א. $\frac{4}{x}\cdot\frac{x^2}{8}+\frac{9}{x+1}\cdot\frac{x+1}{18}$

ב. $\left(\frac{2}{x}+1\right)\cdot\frac{x^2}{7x+14}$

ג. $\frac{7}{y^2}:\frac{6}{y^3}-\frac{y-4}{63}\cdot\frac{3y-4}{y^2-8y+16}$

ד. $\left(3x-\frac{2}{x^2}+\frac{1}{x}\right):\frac{6x^3+2x-4}{x^2}$

ה. $\left(\frac{2x+1}{20x^2-28x-3}-\frac{3x+1}{30x^2-17x-2}\right):\frac{18x+3}{6x^2-13x+6}$

תשובות סופיות:

1) א. $\frac{2a-5}{6}$ ב. $\frac{4x+8}{x}$ ג. $\frac{5x+1}{x+1}$ ד. 1

2) א. $\frac{c-5a}{abc}$ ב. $\frac{z+5x+4y}{xyz}$ ג. $\frac{c^2d-a^2d^2+2ab^2}{abcd}$

ד. $\frac{-5y^2+x+1}{xy^2}$ ה. $\frac{3y+4}{(y+1)^2}$ ו. $\frac{1}{(z-2)(z-3)}$

3) א. $\frac{x-2}{x}$ ב. $\frac{y^2+3}{y^2}$ ג. $\frac{2x+4}{x+1}$

ד. $\frac{9x-2}{3x}$ ה. $\frac{-11a^2+a+4}{4a^2}$ ו. $\frac{4x^2y+12z^2+9y^2-3y^3-126xy^2z}{36xy^2z}$

4) א. $\frac{4x+1}{x(x+1)}$ ב. $\frac{y-6}{y(y+2)}$ ג. $\frac{a^2+4a+6}{a(a+2)}$ ד. $-\frac{4z+21}{3z(z+3)}$

5) א. $\frac{4}{a-3}$ ב. $\frac{5x+4}{(x-4)(x+4)^2}$ ג. $\frac{2y(4-y)}{(y-2)^2(y+2)}$

ד. $\frac{(4z+3)(z-1)}{2(z+1)^2(z+3)}$ ה. $\frac{x^2-6x-13}{(x+8)(x-5)(x-3)}$ ו. $\frac{4(a^2+6a+6)}{(a+7)^2(2a+1)}$

ז. $\frac{x-3}{x-5}$ ח. $\frac{3}{a+2b}$

6) א. $\frac{x+1}{2}$ ב. $\frac{x}{7}$ ג. $\frac{147y^2-594y+8}{126(y-4)}$ ד. $\frac{1}{2}$

ה. $\frac{1}{3(10x+1)}$

שברים כפולים:

סיכום כללי:

שבר כפול מורכב באופן הבא: $\frac{\frac{a}{b}}{\frac{c}{d}}$ כאשר מתקיים: $\frac{\frac{a}{b}}{\frac{c}{d}}=\frac{a}{b}:\frac{c}{d}=\frac{a}{b}\cdot\frac{d}{c}=\frac{ad}{bc}$.

נובע מכאן כי ניתן לצמצם ביטויים בין שני המכנים או שני המונים בלבד.

שאלות:

1) פשט את הביטויים הבאים:

א. $\frac{\frac{4x}{12}}{x}$

ב. $\frac{\frac{y+1}{2y+2}}{5}$

ג. $\frac{\frac{5}{t}}{30t^2}$

ד. $\frac{\frac{t^2-81}{9t^2}}{6t+54}$

ה. $\frac{\frac{3y^3-y^2}{25}}{\frac{y^2}{3-y}}$

ו. $\frac{\frac{4x}{x+1}}{\frac{8}{x^2+2x+1}}$

ז. $\frac{\frac{8c^2}{3c^3-9c^2-12c}}{\frac{40}{15c+15}}$

ח. $\frac{\frac{t^2-t-20}{16t+8}}{\frac{25-t^2}{2t+1}}$

ט. $\frac{\frac{1}{x}-4+\frac{x}{x+1}}{\frac{1-3x(x+1)}{5x+5}}$

תשובות סופיות:

1) א. $\frac{x^2}{3}$ ב. 2.5 ג. $\frac{1}{6t^3}$ ד. $\frac{t-9}{54t^2}$ ה. $\frac{(3y-1)(3-y)}{25}$

ו. $\frac{x(x+1)}{2}$ ז. $\frac{c}{c-4}$ ח. $\frac{t+4}{-8(t+5)}$ ט. $\frac{5}{x}$.

מכינה במתמטיקה לתלמידי כלכלה

פרק 2 - משוואות אלגבריות

תוכן העניינים

1. משוואה ממעלה ראשונה 47
2. מערכת שתי משוואות בשני נעלמים ממעלה ראשונה 49
3. משוואות עם אינסוף פתרונות וללא פתרון 52
4. משוואה ממעלה שנייה 53
5. משוואות דו-ריבועיות 55
6. משוואות עם פרמטרים 57
7. משוואות עם שורשים 59
8. משוואות עם ערך מוחלט 61
9. מערכת משוואות ממעלה שנייה 62

משוואה ממעלה ראשונה:

סיכום כללי:

משוואה ממעלה ראשונה היא מהצורה: $ax=b$ (כלומר, החזקה של הנעלם היא 1).

פתרון של משוואה ממעלה ראשונה הוא: $x=\frac{b}{a}$ כאשר $a\neq 0$.

שלבי הפתרון הם:

1. ביצוע מכנה משותף (במידה וצריך).
2. פתיחת סוגריים אם ישנם.
3. העברת אגפים וכינוס אברים דומים (בידוד הנעלם באגף אחד והמספרים באגף שני).
4. בידוד הנעלם ומציאתו ע"י חילוק במקדם שלו.

שאלות:

1) פתור את המשוואות הבאות (משוואות יסודיות ממעלה ראשונה):

א. $6x+2=8$

ב. $7-2x=7$

ג. $2x+x=24$

ד. $2x+6=8+x$

ה. $-7x+5+2x=4x-13$

ו. $6x-3+5-7x=x-5x-7$

ז. $2-5x+7=-3x+8$

ח. $x-2+5x=4-3x-5+7x+7$

2) פתור את המשוואות הבאות (משוואות עם פתיחת סוגריים):

א. $3(x-1)-4=2$

ב. $7x-4(3-4x)=-x$

ג. $6(4-x)-(6-x)=3x$

ד. $5x-(3x-7)4=21$

ה. $x(x-5)=x^2-7x+8$

ו. $(7-x)(1-x)-(x-3)^2=0$

3) פתור את המשוואות הבאות (משוואות עם מכנה מספרי):

א. $\frac{x}{3}-\frac{x}{9}=-4$

ב. $\frac{4x}{15}-\frac{3x}{10}=1$

ג. $\frac{2}{3}x+\frac{4}{5}x=x-\frac{7}{15}$

ד. $\frac{5x+1}{6}-\frac{6x-1}{5}=\frac{3x+1}{4}-1$

ה. $\frac{2}{5}(x-3)-\frac{3}{15}(4-x)=x+2$

ו. $5\left(\frac{x}{3}-\frac{x}{7}\right)-x=1$

4) פתור את המשוואות הבאות (משוואות עם נעלם במכנה):

א. $\frac{1}{4}-\frac{2}{x}=0$

ב. $\frac{1}{2}-\frac{x}{x-1}=0$

ג. $\frac{3}{x}=\frac{1}{x+2}$

ד. $\frac{5}{2x-1}=\frac{4}{3x+2}$

ה. $\frac{x+5}{3x^2}-\frac{1}{6x}=\frac{1}{x}$

ו. $\frac{1}{4x}+\frac{3}{x}=\frac{13}{2}$

5) פתור את המשוואות הבאות (משוואות עם מכנה משותף ע"י פירוק לגורמים):

א. $\frac{x^2+2}{3x^2+5x}=\frac{3x-1}{9x+15}$

ב. $\frac{7}{x^2-1}+\frac{2}{x+1}+\frac{3}{2-2x}=0$

ג. $\frac{3}{(2-x)^2}+\frac{5}{12-3x^2}=0$

ד. $\frac{4x^2-24x+36}{x-3}=12$

תשובות סופיות:

1) א. $x=1$ ב. $x=0$ ג. $x=8$ ד. $x=2$ ה. $x=2$ ו. $x=-3$

ז. $x=\frac{1}{2}$ ח. $x=4$.

2) א. $x=3$ ב. $x=\frac{1}{2}$ ג. $x=2\frac{1}{4}$ ד. $x=1$ ה. $x=4$ ו. $x=-1$.

3) א. $x=-18$ ב. $x=-30$ ג. $x=-1$ ד. $x=1$ ה. $x=-10$ ו. $x=-21$.

4) א. $x=8$ ב. $x=-1$ ג. $x=-3$ ד. $x=-2$ ה. $x=2$ ו. $x=\frac{1}{2}$.

5) א. $x=-6$ ב. $x=-7$ ג. $x=-7$ ד. $x=6\ ,\ x\neq 3$.

מערכת שתי משוואות בשני נעלמים ממעלה ראשונה:

סיכום כללי:

הגדרה:

מערכת שתי משוואות בשני נעלמים ממעלה ראשונה (ליניאריות) היא מהצורה הבאה:

$$\begin{cases} a_1x+b_1y=c_1 \\ a_2x+b_2y=c_2 \end{cases}$$

כאשר a_1 , b_1 , c_1 ו- a_2 , b_2 , c_2 הם מקדמים מספריים.

דוגמאות למערכות של משוואות: $\begin{cases} x+y=3 \\ 2x-y=1 \end{cases}$, $\begin{cases} y=3x-1 \\ \frac{x+3}{2}=y+6 \end{cases}$.

פתרון של מערכת משוואות:

פתרון של מערכת המשוואות הוא זוג סדור המקיים את כל המשוואות שבמערכת.

הצגה גרפית של מערכת משוואות:

פתרון גרפי של מערכת משוואות הוא נקודת החיתוך של הישרים המייצגים כל משוואה.

יתכנו שלושה מצבים הדדיים בין שני ישרים:

- הישרים נחתכים:
במקרה זה נקודת החיתוך תהיה פתרון המערכת.

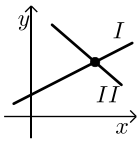

- הישרים מקבילים:
במקרה זה לא יהיה פתרון למערכת.

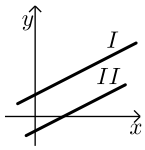

- הישרים מתלכדים:
במקרה זה יהיו אינסוף פתרונות למערכת המשוואות.

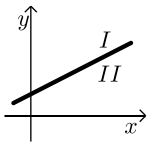

פתרון אלגברי של מערכת משוואות:

- פתרון ע"י שיטת ההצבה:
נבודד את אחד הנעלמים ממשוואה אחת ונציב אותו במשוואה השנייה.
נבחר בשיטה זו במקרים בהם קל לבודד נעלם באחת המשוואות.

- פתרון ע"י השוואת מקדמים:

1. כופלים (או מחלקים) משוואה אחת (או שתיהן) במספר השונה מאפס כך שתתקבלנה משוואות שקולות בעלות מקדמים נגדיים או זהים עבור אחד המשתנים.
2. מחברים (או מחסרים) את המשוואות ומקבלים משוואה חדשה עם נעלם אחד.
3. מוצאים את ערך הנעלם מהמשוואה החדשה ומציבים אותו באחת המשוואות המקוריות למציאת ערך הנעלם השני.

הערה:

נוח להשתמש בשיטת השוואת המקדמים ע"י כך שמעבירים את המערכת הנתונה למערכת שקולה שבה המשתנים באגף אחד והמספר החופשי באגף השני.

שאלות:

1) פתור את המשוואות הבאות:

א. $\begin{cases} 3x+y=11 \\ y=5 \end{cases}$

ב. $\begin{cases} y=x-3 \\ y=2x+4 \end{cases}$

ג. $\begin{cases} -3x+2y=-16 \\ x=5y+14 \end{cases}$

ד. $\begin{cases} 5x-2y=-2 \\ x+4y=4 \end{cases}$

ה. $\begin{cases} -5x+7y=-26 \\ x+3y=-8 \end{cases}$

ו. $\begin{cases} 2x+3y=5 \\ 5x+7y=11 \end{cases}$

2) פתור את המשוואות הבאות:

א. $\begin{cases} x+3y=5 \\ x-3y=3 \end{cases}$

ב. $\begin{cases} 5x+2y=14 \\ 5x+3y=23 \end{cases}$

ג. $\begin{cases} 5y=2x \\ 4x=5y+8 \end{cases}$

ד. $\begin{cases} 4x=3y-29 \\ 5y=9-13x \end{cases}$

3) פתור את המשוואות הבאות:

א. $\begin{cases} x+2y=1 \\ 4x+8y=5 \end{cases}$

ב. $\begin{cases} 2(x-y)+4y=1+x \\ 2-7y+x=3(x-y) \end{cases}$

4) פתור את המשוואות הבאות:

א. $\begin{cases} 3y-x+2=4x+2-3y \\ 2x-3-y=5y-4x+3 \end{cases}$

ב. $\begin{cases} \frac{x-3}{8}-\frac{x+y}{16}=\frac{y-1}{4} \\ 3(2x-y)-4x-11=0 \end{cases}$

ג. $\begin{cases} \frac{3x-1}{4}-\frac{2}{5}(x-y)=\frac{3}{10}(x+3) \\ \frac{x+1}{4}-\frac{y}{2}=1 \end{cases}$

5) פתור את המשוואות הבאות:

א. $\begin{cases} \frac{3}{x}+\frac{1}{y}=4 \\ \frac{5}{x}-\frac{1}{y}=4 \end{cases}$

ב. $\begin{cases} \frac{3}{x}+\frac{3}{y}=2 \\ \frac{9}{x}-\frac{4}{y}=-7 \end{cases}$

ג. $\begin{cases} 4x-\frac{7}{y}=-3 \\ 5x+\frac{2}{y}=7 \end{cases}$

6) פתור את המשוואות הבאות:

א. $\begin{cases} x(y+2)+y=xy-5 \\ x-y=2 \end{cases}$

ב. $\begin{cases} xy=20 \\ y(3x-4)=20 \end{cases}$

ג. $\begin{cases} 5x-4xy=22 \\ 6x+xy=-20 \end{cases}$

תשובות סופיות:

1) א. $(2,5)$ ב. $(-7,-10)$ ג. $(4,-2)$ ד. $(0,1)$ ה. $(1,-3)$ ו. $(-2,3)$.

2) א. $\left(4,\frac{1}{3}\right)$ ב. $\left(-\frac{4}{5},9\right)$ ג. $(4,1.6)$ ד. $(-2,7)$.

3) א. אין פתרון. ב. אינסוף פתרונות.

4) א. $(6,5)$ ב. $(7,1)$ ג. $(7,2)$.

5) א. $(1,1)$ ב. $(-3,1)$ ג. $(1,1)$.

6) א. $(-1,-3)$ ב. $(2,10)$ ג. $(-2,4)$.

משוואות עם אינסוף פתרונות וללא פתרון:

סיכום כללי:

משוואה ממעלה ראשונה:

למשוואה ממעלה ראשונה מהצורה: $ax=b$ יתכן פתרון יחיד אם ורק אם $a\neq 0$ מכיוון שניתן לחלק ולכתוב: $x=\frac{b}{a}$.

כאשר $a=0$ מתקבלת המשוואה $0x=b$ ויתכנו שני מצבים:

1. אם $b=0$ את המשוואה היא $0x=0$ ויש אינסוף פתרונות המקיימים אותה.
2. אם $b\neq 0$ את המשוואה היא $0x=b\neq 0$ ואין אף ערך של x המקיים אותה.

שאלות:

פתור את המשוואות הבאות:

1) $x+4=6+x$

2) $3x+6-x=4+2x+2$

3) $6(x-2)=2x+5+4x$

4) $5x-3+x=4x+2x-3$

5) נתונה המשוואה: $3-2(x+2)=5x+\square$.

א. איזה מספר יש להציב ב-$\square$ על מנת שפתרון המשוואה יהיה 1?

ב. איזה מספר יש להציב ב-$\square$ על מנת שפתרון המשוואה יהיה 0?

ג. מצא ביטוי אלגברי שיש להציב ב-$\square$ על מנת שלמשוואה יהיו אינסוף פתרונות.

ד. מצא ביטוי אלגברי שיש להציב ב-$\square$ על מנת שלמשוואה לא יהיה פתרון.

תשובות סופיות:

1) אף פתרון.

2) אינסוף פתרונות.

3) אין פתרון.

4) אינסוף פתרונות.

5) א. 8- ב. 1- ג. $-7x-1$

ד. $-7x+k$ (כאשר k הוא מספר כלשהו חוץ מ-1-).

משוואה ממעלה שנייה:

סיכום כללי:

משוואה מהצורה: $ax^2+bx+c=0$, $(a\neq 0)$ נקראת משוואה ריבועית.

פתרונות המשוואה יסומנו ב- x_1 ו- x_2 ויחושבו לפי נוסחת השורשים:

$$x_{1,2}=\frac{-b\pm\sqrt{b^2-4ac}}{2a}.$$

למשוואה ריבועית יתכנו שלושה סוגים של פתרונות:

1. **משוואה עם שני פתרונות ממשיים שונים.**
אם מתקבל מספר חיובי בתוך השורש שבנוסחת השורשים אזי למשוואה יהיו שני פתרונות ממשיים שונים.
דוגמא: $x^2+5x-4=0$.

2. **משוואה עם פתרון ממשי אחד בלבד.**
אם מתקבל אפס בתוך השורש שבנוסחת השורשים אזי למשוואה יהיה פתרון ממשי אחד בלבד.
דוגמא: $x^2+4x+4=0$.

3. **משוואה ללא פתרונות ממשיים כלל.**
אם מתקבל מספר שלילי בתוך השורש שבנוסחת השורשים אזי למשוואה לא יהיו פתרונות ממשיים כלל.
דוגמא: $x^2+x+4=0$.

שאלות:

1) פתור את המשוואות הבאות:

א. $x^2+3x-10=0$

ב. $-x^2+10x-16=0$

ג. $25x^2-20x+4=0$

ד. $2x^2-6x+5=0$

2) פתור את המשוואות הבאות:

א. $4x^2-5x+7=4-x^2+13$

ב. $-x(x-5)=(1-3x)(1-x)+4$

ג. $2(x-5)^2-(2x-3)^2=10x+21$

ד. $(2x-1)^2+x(2x+3)=(x-1)(x-7)$

3) פתור את המשוואות הבאות (משוואה חסרת b):

א. $x^2-36=0$

ב. $32x^2-18=0$

ג. $4x-x(x+2)=3(x-1)-x-6$

ד. $(2x-1)^2+(2x+1)^2=10$

4) פתור את המשוואות הבאות (משוואה חסרת c):

א. $-7x^2-14x=0$

ב. $5x^2-x=0$

ג. $6x(x-2)-1=4x-3(x+1)+2$

ד. $(5x-2)^2=(x-2)(x+3)+10$

5) פתור את המשוואות הבאות:

א. $\frac{4x+1}{3}-\frac{x+2}{2}=\frac{2}{x}$

ב. $\frac{x^2-9}{x+3}+x=x^2-18$

ג. $\frac{3}{2x+2}-\frac{2x-5}{2(x-1)^2}-\frac{4}{1-x^2}=0$

ד. $\frac{x}{2x^2-72}+\frac{2}{x^2+12x+36}=\frac{8x-15}{24-4x}+2$

תשובות סופיות:

1) א. $x_1=2\ ,\ x_2=-5$ ב. $x_1=2\ ,\ x_2=8$ ג. $x=\frac{2}{5}$ ד. אין פתרון.

2) א. $x_1=2\ ,\ x_2=-1$ ב. $x_1=1\ ,\ x_2=1\frac{1}{4}$ ג. $x_1=1\ ,\ x_2=-10$

ד. $x_1=0.6\ ,\ x_2=-2$.

3) א. $x=\pm 6$ ב. $x=\pm\frac{3}{4}$ ג. $x=\pm 3$ ד. $x=\pm 1$

4) א. $x_1=0\ ,\ x_2=-2$ ב. $x_1=0\ ,\ x_2=\frac{1}{5}$ ג. $x_1=0\ ,\ x_2=2\frac{1}{6}$

ד. $x_1=0\ ,\ x_2=\frac{7}{8}$.

5) א. $x_1=2\ ,\ x_2=-1.2$ ב. $x=5\ ,\ x\neq -3$ ג. $x_1=0\ ,\ x_2=-5$

ד. $x_1=-7.6\ ,\ x_2=-4\frac{2}{7}$.

משוואות דו-ריבועיות:

סיכום כללי:

משוואה דו-ריבועית היא משוואה מהצורה: $ax^4+bx^2+c=0$ כאשר הנעלם הוא x.
פתרון המשוואה יבוצע ע"י מעבר לפרמטר: $x^2=t \to at^2+bt+c=0$ ומציאתו.
לאחר מכן יש להחזיר את ההצבה ולמצוא את ערכי x.

ניתן להביא משוואות לצורה זו ולהגדיר ביטוי המופיע בחזקות 2 ו-4
כגון: $\left(x^2-1\right)^2+3\left(x^2-1\right)-2=0$ באמצעות פרמטר: $t=x^2-1$
ובכך לפתור משוואה: $t^2+3t-2=0$ ולהחזיר את ההצבה עבור מציאת x.
דרך הפתרון תקפה לכל משוואה בה הנעלם מופיע בחזקות כפולות כגון 3 ו-6, או 4 ו-8.

שאלות:

פתור את המשוואות הבאות:

1) $5x^4+3x^2-8=0$

2) $x^4-3x^2+2=0$

3) $13x^2\left(3x^2-1\right)-2=3\left(x^2-1\right)\left(x^2+1\right)$

4) $x^2\left(x^2+1\right)=10\left(3x^2-10\right)$

5) $x^6+x^3=56$

6) $x^3+4=\frac{32}{x^3}$

7) $x-9\sqrt{x}+14=0$

8) $x^8-4x^4-50=31x^4-84$

9) $125x^6-1=124\left(x^6+x^3+1\right)$

10) $\left(2x^2-x\right)^2-4\left(2x^2-x\right)+3=0$

11) $\left(x^2+2x\right)^2+7x^2+14x=-6$

12) $\frac{21}{x^2-4x+10}=6+x^2-4x$

13) $\frac{12}{x^2+2x-8}=1+\frac{7.5}{x^2+2x-3}$

14) $\frac{x^2+2x+2}{x^2+2x+3}=\frac{7}{6}-\frac{x^2+2x+1}{x^2+2x+2}$

15) $\frac{3}{3x^2-15}+\frac{1}{x^2+5}=\frac{10}{x^4-25}$

16) $\frac{x^2-1}{4x^2-28}+2=\frac{9}{x^4-8x^2+7}+\frac{x^2}{2x^2-2}$

17) $\left(2x+\frac{3}{x}\right)^2+35=12\left(2x+\frac{3}{x}\right)$

18) $\frac{3x^4}{\left(x+2\right)^2}+\frac{3x^2}{x+2}=6$

19) $\left(2x-x^2+3\right)\left(2x-x^2-2\right)=0$

20) $\left(x^2-5x+6\right)\left(x^2-5x-8\right)=-24$

תשובות סופיות:

1) $x=\pm 1$

2) $x=\pm 1\ ,\ \pm\sqrt{2}$

3) $x=\pm\frac{1}{2}\ ,\ \pm\frac{1}{3}$

4) $x=\pm 2\ ,\ \pm 5$

5) $x_1=\sqrt[3]{7}\ ,\ x_2=-2$

6) $x=-2\ ,\ \sqrt[3]{4}$

7) $x=49$

8) $x_{1,2}=\pm\sqrt[4]{34}\ ,\ x_{3,4}=\pm 1$

9) $x=5\ ,-1$

10) $x_1=1.5\ ,\ x_2=-1\ ,\ x_3=1\ ,\ x_4=-\frac{1}{2}$

11) $x=-1$

12) $x_{1,2}=1\ ,\ 3$

13) $x_1=0\ ,\ x_2=-2\ ,\ x_3=3.06\ ,\ x_4=-5.06$

14) $x_1=0\ ,\ x_2=-2$

15) אין פתרונות.

16) $x=\pm\sqrt{\frac{3}{7}}$

17) $x=\frac{1}{2}\ ,\ 1\ ,\ \frac{3}{2}\ ,\ 3$

18) $x=-1\ ,\ 2$

19) $x=3\ ,\ -1$

20) $x=\pm 1\ ,\ 4\ ,\ 6$

משוואות עם פרמטרים:

סיכום כללי:

משוואה עם פרמטר הינה משוואה שמכילה שני סוגים של גדלים – משתנים ופרמטרים.
את המשתנים מקובל לסמן באותיות x , y , z ואת הפרמטרים מסמנים בשאר האותיות.
פתרון המשוואה יתקבל ע"י בידוד המשתנה כך שיבוטא באמצעות הפרמטר/ים שבמשוואה.

למשל פתרון המשוואה: $mx=4$ (כאשר x הוא הנעלם ו- m הוא פרמטר) הוא: $x=\frac{4}{m}$

אשר מבוטא באמצאות הפרמטר m.

בכתיבת פתרון של משוואה עם פרמטרים יש לציין את תחום ההגדרה של הפרמטר עבורו הפתרון הוא בעל משמעות.
בדוגמא הנ"ל תחום ההגדרה הוא: $m\neq 0$.

שאלות:

1) פתור את המשוואות הבאות:

א. $3x-b=(b+1)x-6$

ב. $\frac{1}{3}(a-3x)=\frac{1}{a}(ax-3)$

ג. $(x-2a)(x-2b)=x^2-2(a^2+b^2)$

ד. $\frac{m+1}{x-1}=\frac{m-1}{x+1}$

ה. $\frac{x}{a^2-a}-\frac{1}{2a}=\frac{ax+x}{2a^3-4a^2+2a}-\frac{2}{a^3-2a^2+a}$

2) פתור את מערכות המשוואות הבאות:

א. $\begin{cases} x+my=1 \\ x+y=m \end{cases}$

ב. $\begin{cases} ax+y=2 \\ x+ay=4 \end{cases}$

ג. $\begin{cases} \frac{x}{m}+y=m \\ x-m^2y=1 \end{cases}$

ד. $\begin{cases} (m-1)x-(2m+3)y=5 \\ (m+2)x-(2m-1)y=10m \end{cases}$

ה. $\begin{cases} (2a+b)x-(2a-b)y=8ab \\ (2a-b)x+(2a+b)y=8a^2-2b^2 \end{cases}$

3) פתור את המשוואות הריבועיות הבאות:

א. $x^2-2mx+m^2-1=0$

ב. $x^2-2x+4a=a^2+3$

ג. $x^2+m(x+10)=2m^2-5x$

ד. $\frac{1}{a-x}+\frac{1}{a}+\frac{1}{a+x}=0$

ה. $(m^2+1)x^2-m^2x-1=0$

ו. $\frac{a}{x}+\frac{1}{b}=\frac{x}{a}+b$

ז. $x+\frac{1}{x}=\frac{a-b}{a+b}+\frac{a+b}{a-b}$

תשובות סופיות:

1) א. $x=\frac{b-6}{2-b}\ ,\ b\neq 2$ ב. $x=\frac{a^2+9}{6a}\ ,\ a\neq 0$ ג. $x=a+b$ ד. $x=-m$ ה. $x=a+1$

2) א. $m\neq 1\ ,\ (m+1,-1)$ ב. $a\neq \pm 1\ ,\ \left(\frac{2a-4}{a^2-1},\frac{4a-2}{a^2-1}\right)$

ג. $m\neq 0-1\ ,\ \left(m^2-m+1,\frac{m-1}{m}\right)$ ד. $m\neq 1,-2\ ,\ (2m+1,m-2)$

ה. $b\neq \pm 2a\ ,\ (2a+b,2a-b)$

3) א. $x=m+1\ ,\ \mathrm{m}-1$ ב. $x=a-1\ ,\ 3-a$ ג. $x=m-5\ ,\ -2m$

ד. $a\neq 0\ ,\ x\neq \pm a\ ,\ x=\pm a\sqrt{3}$ ה. $x=1\ ,\ -\frac{1}{m^2+1}$

ו. $a,b\neq 0\ ,\ x=\frac{a}{b}\ ,\ -ab$ ז. $\frac{a-b}{a+b}\ ,\ x=\frac{a+b}{a-b}\ ,\ a\neq \pm b$.

משוואות עם שורשים:

סיכום כללי:

פתרון משוואה מהצורה: $\sqrt{x}=a$ יתקבל ע"י העלאה בריבוע של שני אגפי המשוואה באופן הבא: $\left(\sqrt{x}\right)^2=\left(a\right)^2 \quad \rightarrow \quad x=a^2$.

הערות:

1) יש לזכור בעת העלאה בריבוע של שני אגפי המשוואה יש לבדוק את כל הפתרונות המתקבלים ע"י הצבתם במשוואה המקורית.
2) למשוואה מהצורה $\sqrt{x}=a$ שבה $a<0$ אין פתרון.
3) יש לסדר תחילה משוואות שבהן הביטוי עם שורש אינו מבודד.
4) במשוואות שבהן יותר מביטוי אחד עם שורש יש לבודד תחילה את אחד הביטויים, להעלות בריבוע ולאחר מכן לחזור על התהליך ולבצע העלאה בריבוע פעם נוספת.

שאלות:

פתור את המשוואות הבאות:

1) $\sqrt{2x+5}=7$
2) $\sqrt{x+2}=x$
3) $\sqrt{3x+1}+x=13$
4) $\sqrt{2x+7}+4=x$
5) $\sqrt{x-1}+3=x$
6) $\sqrt{10x+6}+9=x$
7) $\sqrt{x+6}-2=2x$
8) $\sqrt{24-x}+3=2x$
9) $\sqrt{x+16}+4=2x$
10) $2x=16-3\sqrt{x-1}$
11) $\sqrt{3x+5}=\sqrt{x+17}$
12) $\sqrt{x^2-5x+12}=2\sqrt{6-x}$
13) $\sqrt{x-1}\cdot\sqrt{2x-5}=\sqrt{11-x^2}$
14) $\sqrt{2x-1}+3=\sqrt{7x+1}$
15) $\sqrt{9x-8}-3\sqrt{x+4}=-2$
16) $\sqrt{2x-3}+\sqrt{3-x}=2$
17) $\sqrt{x+3}+\sqrt{x-2}=\sqrt{4x+1}$
18) $\sqrt{2x-2}+\sqrt{5x-4}=\sqrt{3x-2}$
19) $3\sqrt{x-1}+\sqrt{2x-3}=2\sqrt{x+2}$

תשובות סופיות:

1) $x=22$

2) $x=2$

3) $x=8$

4) $x=9$

5) $x=5$

6) $x=25$

7) $x=0.25$

8) $x=3.75$

9) $x=4.25$

10) $x=5$

11) $x=6$

12) $x=4\ ,\ -3$

13) $x=3$

14) $x=5$

15) $x=12$

16) $x=2\ ,\ 2\frac{8}{9}$

17) $x=6$

18) $x=1$

19) $x=2$

משוואות עם ערך מוחלט:

סיכום כללי:

הגדרה:

ערך מוחלט הינו המרחק של מספר מ-0 ומוגדר באופן הבא: $|x|=\begin{cases} x & x\ge 0 \\ -x & x<0 \end{cases}$.

משוואה עם ערך מוחלט:

משוואה עם ערך מוחלט היא מהצורה: $|x|=a$.

כדי לפתור משוואה עם ערכים מוחלטים יש למצוא את נקודות האפס של כל ערך מוחלט (קרי: הנקודות בהן הביטוי שבתוך הערך המוחלט מתאפס) ולפצל את המשוואה הנתונה לתחומים עבור כל תחום.

שאלות:

פתור את המשוואות הבאות:

1) $|3x+14|=7$

2) $|3x-24|=x$

3) $|12-x|=3x$

4) $2x-|8-x|=10$

5) $|4x-5|=|2x+13|$

6) $|14-3x|=2|x+5|$

7) $|x|+7=|2x|$

8) $|x+2|+6=|2x-4|$

9) $|x+2|+|2x-6|=|4x+8|$

10) $|10-3x|-|x+4|=|2x-6|$

תשובות סופיות:

1) $x=-\frac{7}{3}\ ,\ -7$

2) $x=6\ ,\ 12$

3) $x=3$

4) $x=6$

5) $x=9\ ,\ -1\frac{1}{3}$

6) $x=24\ ,\ \frac{4}{5}$

7) $x=\pm 7$

8) $x=12\ ,\ -1\frac{1}{3}$

9) $x=0\ ,\ -12$

10) $x=0$

מערכת משוואות ממעלה שנייה:

סיכום כללי:

מערכת משוואות ריבועיות מיוחסת למערכת של שתי משוואות (לפחות) שאחת מהן מכילה את אחד מהנעלמים בריבוע. למערכת משוואות ריבועיות יכולים להתקבל עד 4 פתרונות שונים. יש לפתור את המערכת לפי הטכניקות הרגילות של בידוד והצבה או השוואת מקדמים.

שאלות:

פתור את מערכות המשוואות הבאות:

1) $\begin{cases} x^2+y^2=20 \\ x+y=6 \end{cases}$

2) $\begin{cases} 2x^2+y^2=36 \\ x^2+3y=10 \end{cases}$

3) $\begin{cases} 3x^2+4y^2=16 \\ 5x^2-3y^2=17 \end{cases}$

4) $\begin{cases} x^2-2y^2=17 \\ xy=-10 \end{cases}$

5) $\begin{cases} x^2-xy-20y^2=0 \\ x+6y=1 \end{cases}$

6) $\begin{cases} x^2-2xy+8y^2=8 \\ 3xy-2y^2=4 \end{cases}$

7) $\begin{cases} x^2-y^2=33 \\ x+y=11 \end{cases}$

8) $\begin{cases} 16x^2-y^2=391 \\ 4x-y=23 \end{cases}$

9) $\begin{cases} 4xy+x=-15 \\ \frac{3}{y}-2x=16 \end{cases}$

10) $\begin{cases} \frac{3}{x}+\frac{1}{y}=5 \\ \frac{4}{y}-\frac{1}{x}=-19 \end{cases}$

11) $\begin{cases} \frac{3}{x}+\frac{5}{y}=21 \\ \frac{8}{x}-\frac{1}{y}=13 \end{cases}$

12) $\begin{cases} xy=24 \\ (y-x)^2-7(y-x)+10=0 \end{cases}$

13) $\begin{cases} x^2y-xy^2=84 \\ x^2-2xy+y^2+5x-5y=24 \end{cases}$

14) $\begin{cases} \sqrt{\frac{x}{y}}+\sqrt{\frac{y}{x}}=\frac{10}{3} \\ x^2+y^2=9xy+25 \end{cases}$

תשובות סופיות:

1) $(2,4)$, $(4,2)$

2) $(\pm 4,-2)$

3) $(\pm 2,\pm 1)$

4) $(5,-2)$, $(-5,2)$

5) $\left(-2,\frac{1}{2}\right)$, $\left(\frac{5}{11},\frac{1}{11}\right)$

6) $\left(3,\frac{1}{2}\right)$, $\left(-3,-\frac{1}{2}\right)$, $(2,1)$, $(-2,-1)$

7) $(7,4)$

8) $(5,-3)$

9) $\left(-5,\frac{1}{2}\right)$, $\left(-24,-\frac{3}{32}\right)$

10) $\left(\frac{1}{3},-\frac{1}{4}\right)$

11) $\left(\frac{1}{2},\frac{1}{3}\right)$

12) $(4,6)$, $(-6,-4)$, $(3,8)$, $(-8,-3)$

13) $(-1.65,6.35)$, $(-6.35,1.65)$, $(7,4)$, $(-4,-7)$

14) $(5,45)$, $(-5,-45)$, $(45,5)$, $(-45,-5)$

מכינה במתמטיקה לתלמידי כלכלה

פרק 3 - גיאומטריה אנליטית - הישר

תוכן העניינים

1. מושגי יסוד בגיאומטריה אנליטית 64
2. משוואת הישר 68
3. מצבים הדדיים בין ישרים 72
4. שאלות מסכמות 74

מושגי יסוד בגיאומטריה אנליטית:

סיכום כללי:

נוסחאות כלליות:

- המרחק בין הנקודות $A(x_1,y_1)$ ו- $B(x_2,y_2)$ יחושב ע"י הנוסחה הבאה:
$$d=\sqrt{(x_2-x_1)^2+(y_2-y_1)^2}.$$
- אמצע הקטע M שקצוותיו הם: $A(x_1,y_1)$ ו- $B(x_2,y_2)$ הוא:
$$x_M=\frac{x_1+x_2}{2}\ ,\ y_M=\frac{y_1+y_2}{2}.$$
- שיפוע ישר בין שתי נקודות $A(x_1,y_1)$ ו- $B(x_2,y_2)$ הוא: $m_{AB}=\frac{y_2-y_1}{x_2-x_1}=\frac{y_1-y_2}{x_1-x_2}$.

שאלות:

שאלות העוסקות באמצע קטע:

1) מצא את אמצעי הקטעים שקודקודיהם נתונים ע"י הנקודות A ו-B:

א. $A(1,4)\ ,\ B(5,-8)$ ב. $A(-3,0)\ ,\ B(3,-2)$

ג. $A(4,5)\ ,\ B(-4,-5)$ ד. $A\left(\frac{1}{2},\frac{3}{4}\right)\ ,\ B\left(7\frac{1}{2},-2\right)$

ה. $A(6,-1)\ ,\ B(-3,-1)$ ו. $A(4,7)\ ,\ B(4,-12)$

2) נתון קטע AB שאמצעו בנקודה M.
מצא את שיעורי נקודת הקצה B אם נתונים שיעורי הנקודות של A ושל M:

א. $A(4,-2)\ ,\ M(2,1)$ ב. $A(-6,-8)\ ,\ M(0,0)$

ג. $A(13,-11)\ ,\ M(4,-7)$ ד. $A\left(\frac{1}{3},-\frac{4}{3}\right)\ ,\ M\left(\frac{2}{3},-\frac{1}{3}\right)$

3) נתון משולש שווה שוקיים ABC שבו A הוא קדקוד הראש.
ידוע כי שיעורי הקודקודים B ו-C הם $B(2,-4)\ ,\ C(6,1)$.
מעבירים תיכון AD לבסיס BC.
מצא את שיעורי הנקודה D.

4) באיור שלפניך C היא נקודת האמצע של AB, ו-D היא נקודת האמצע של AC.
ידוע כי: $A(-2,1)$, $B(6,5)$.
מצא את שיעורי הנקודה D.

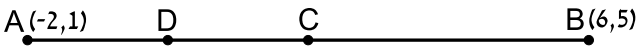

5) באיור שלפניך C היא נקודת האמצע של AB, ו-D היא נקודת האמצע של AC.
ידוע כי: $D(1,-2)$, $C(-3,4)$.
מצא את שיעורי הנקודות A ו-B.

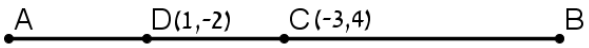

6) הנקודות $B(-10,4)$, $A(2,-7)$ ו-$C(6,11)$ הן שלושה קודקודים של מקבילית ABCD.
מצא את שיעורי הקודקוד הרביעי.

שאלות העוסקות במרחק בין שתי נקודות:

7) מצא את המרחק בין זוגות הנקודות הבאות:

א. $A(4,7),B(-3,7)$	ב. $A(6,2),B(1,2)$
ג. $A(-3,10),B(0,6)$	ד. $A(6,-9),B(1,3)$
ה. $A(4,7),B(13,-1)$	ו. $A(6,6),B(-9,-9)$

8) חשב את היקף המשולש ABC שקודקודיו הם: $A(3,-2)$, $B(4,9)$, $C(0,14)$.

9) נתונות נקודות $A(14,4)$, $B(6,y)$ שמרחקן הוא 10 יחידות אורך.
מצא את y .

10) נתונות נקודות $A(x,-12)$, $B(15,-2)$ שמרחקן הוא 26 יחידות אורך.
מצא את x .

11) נתונה נקודה B ברביע השלישי, ששיעור ה- y שלה גדול פי 3 משיעור ה- x שלה ומרחקה מהנקודה $A(-4,1)$ הוא 5. מצא את שיעורי הנקודה B.

12) במשולש שווה שוקיים ABC $(AB=AC)$ ידוע כי אורכי השוקיים הוא $\sqrt{45}$ יחידות אורך. שיעורי הקודקוד A הם $(0,4)$ ושיעורי ה- y של הקודקודים B ו-C הוא 2-.
מצא את קודקודי המשולש B ו-C (הנח B ברביע הרביעי).

13) אורך האלכסון AC במלבן ABCD הוא $d_{AC}=\sqrt{50}$ וידוע כי: $A(-3,-2)$, $B(-4,1)$.
מצא את היקף המלבן.

שאלות העוסקות בשיפוע בין שתי נקודות:

14) מצא את השיפוע בין זוגות הנקודות הבאים:

א. $A(5,2)$, $B(4,1)$

ב. $A(3,-2)$, $B(-3,1)$

ג. $A(7,8)$, $B(6,15)$

ד. $A(0,5)$, $B(7,0)$

ה. $A(6,9)$, $B(6,-7)$

ו. $A(4,-1)$, $B(18,-1)$

15) מצא את שיפועי הישרים שצלעות המשולש שקודקודיו הם:
$A(6,5)$, $B(2,13)$, $C(4,-7)$ מונחים עליהם.

תשובות סופיות:

1) א. $(3,-2)$ ב. $(0,-1)$ ג. $(0,0)$ ד. $\left(4,-\frac{5}{8}\right)$
ה. $(1.5,-1)$ ו. $(4,-2.5)$.

2) א. $B(0,4)$ ב. $B(6,8)$ ג. $B(-5,-3)$ ד. $B\left(1,\frac{2}{3}\right)$.

3) $D(4,-1.5)$.

4) $D(0,2)$.

5) $B(-11,16)$, $A(5,-8)$.

6) $D(18,0)$.

7) א. $d_{AB}=7$ ב. $d_{AB}=5$ ג. $d_{AB}=5$ ד. $d_{AB}=13$
ה. $d_{AB}=\sqrt{145}$ ו. $d_{AB}=15\sqrt{2}$.

8) 33.727 יחידות אורך $\approx P_{ABC}$.

9) $y=10$ או $y=-2$.

10) $x=-9$ או $x=39$.

11) $B(-1,-3)$.

12) $C(-3,-2)$, $B(3,-2)$.

13) 18.97 יחידות אורך $\approx P_{ABCD}=6\sqrt{10}$.

14) א. $m_{AB}=1$ ב. $m_{AB}=-\frac{1}{2}$ ג. $m_{AB}=-7$ ד. $m_{AB}=-\frac{5}{7}$
ה. שיפוע לא מוגדר. ו. $m_{AB}=0$.

15) $m_{AC}=6$, $m_{BC}=-10$, $m_{AB}=-2$.

משוואת הישר:

סיכום כללי:

שיפועים של ישרים:

- שיפועי ישרים מאונכים מקיימים: $m_1 \cdot m_2 = -1$.
- הקשר בין שיפוע ישר לזווית שהוא יוצר עם הכיוון החיובי של ציר ה-x: $m = \tan\alpha$.

משוואת הישר:

- משוואת ישר מפורשת היא מהצורה: $y = mx + n$.
  כאשר: m הוא שיפוע הישר ו-n הוא שיעור ה-y של נקודת החיתוך של הישר עם ציר ה-y.
- נוסחה למציאת משוואת ישר: $y - y_1 = m(x - x_1)$.

שאלות:

16) עבור כל אחד ממשוואות הישרים הבאות, מצא את נקודות החיתוך עם הצירים וסרטט את הישרים במערכת הצירים שלפניך.

א. $y = x + 4$ **ב.** $y = -x + 5$

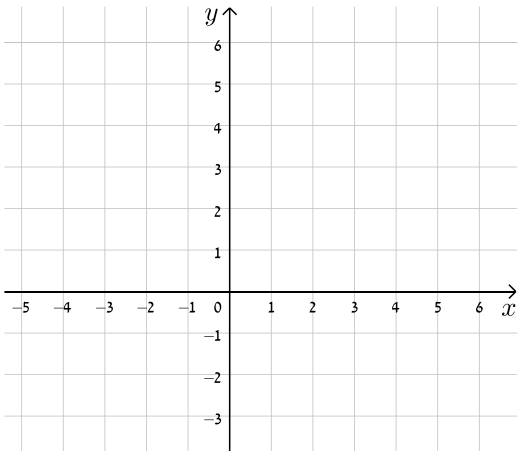

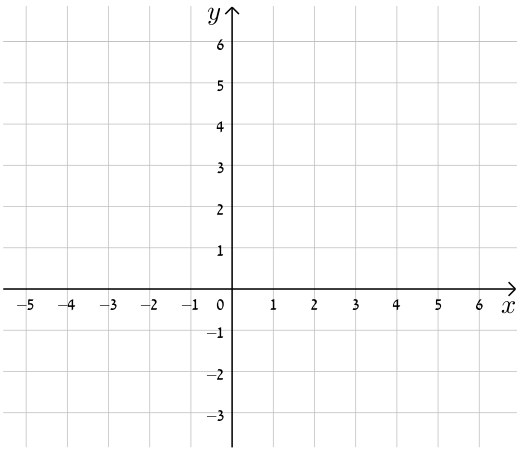

ג. $y=2x-3$

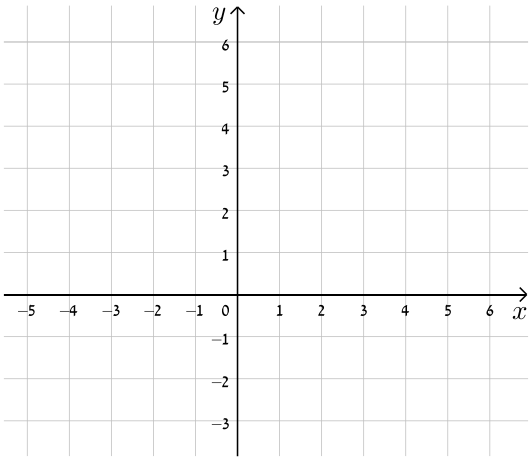

ד. $y=-3x+5$

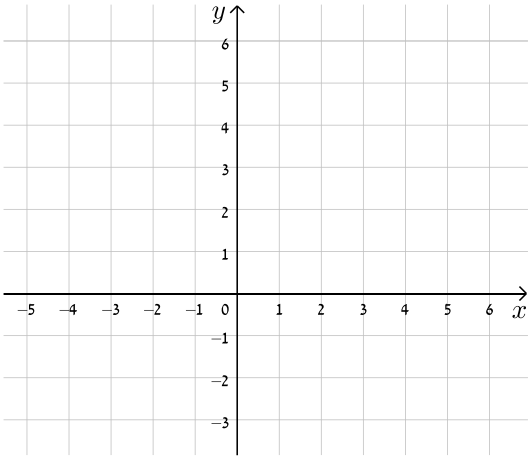

ה. $y=3x-1$

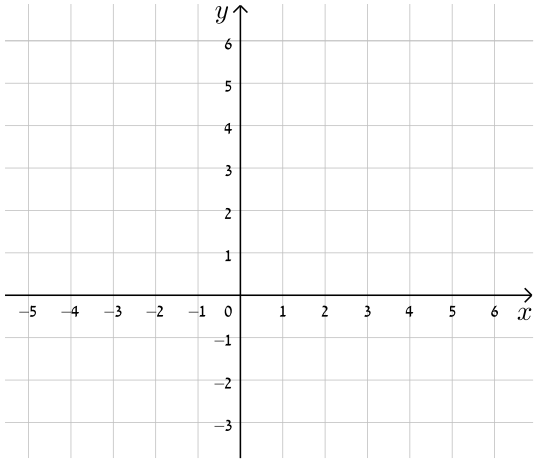

ו. $y=8-4x$

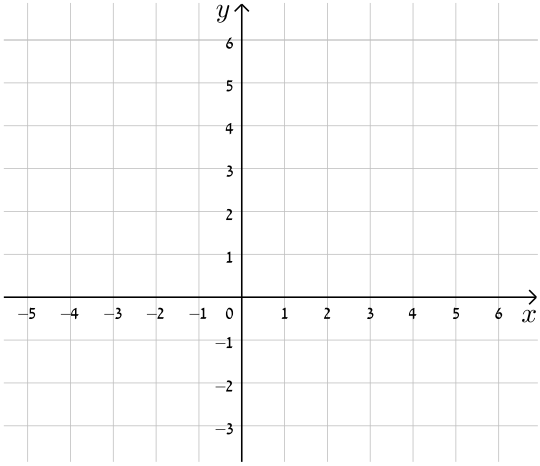

17) כתוב את משוואת הישר המתאימה לכל אחד מהישרים הבאים:

א.

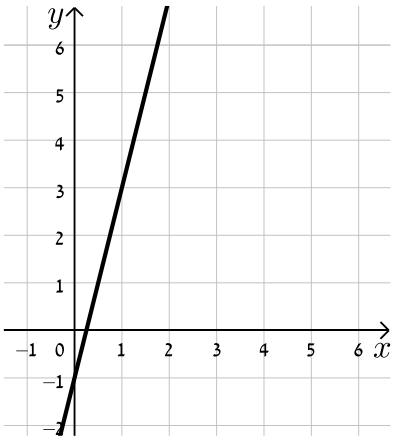

ב.

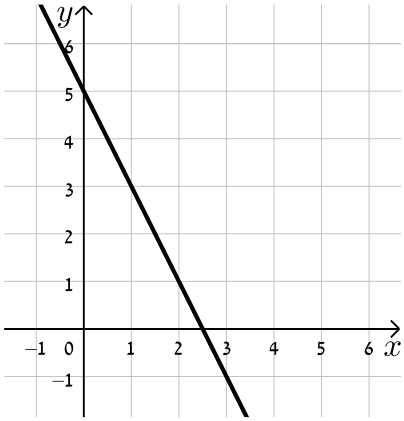

ג.

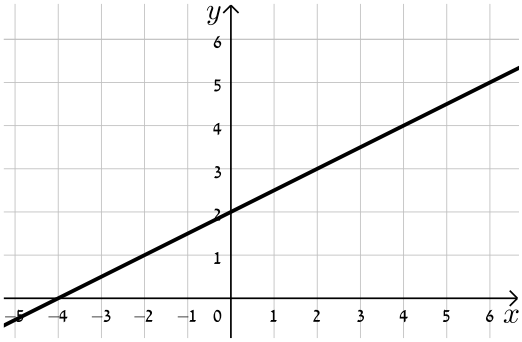

ד.

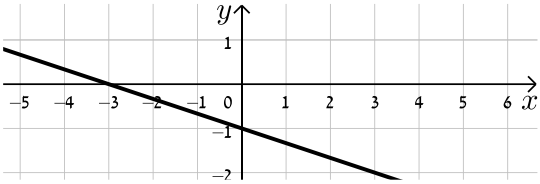

18) התאם בין משוואות הישרים הבאים לישרים בשרטוט:

א. $y=x+3$.

ב. $y=-x-1$.

ג. $y=2x+3$.

ד. $y=x-1$.

ה. $y=\frac{1}{2}x$.

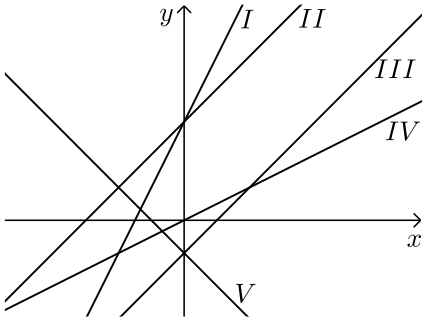

19) נתונה משוואת הישר הבאה: $y=2x+3$. קבע אלו מבין הנקודות הבאות נמצאות עליו: $A(-1,1)$, $B(3,3)$, $C(0,4)$, $D(6,15)$.

20) נתונה משוואת הישר הבאה: $y=mx-2.5$. ידוע כי הנקודה $A(4,2)$ נמצאת על הישר. מצא את m וקבע האם גם הנקודה $B(7,-2)$ נמצאת עליו.

21) הנקודות $B(4,1)$, $A(5,-3)$ נמצאות על ישר שמשוואתו היא: $y=mx+n$.
מצא את m ואת n.

תשובות סופיות:

16) להלן הגרפים של משוואות הישרים:

א.

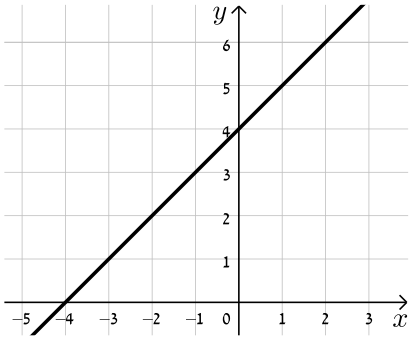

ב.

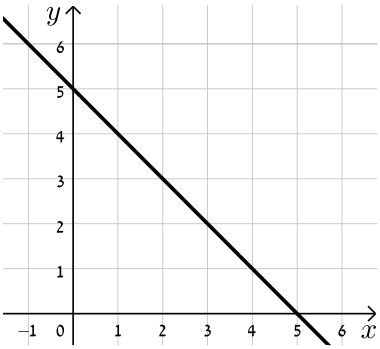

ג.

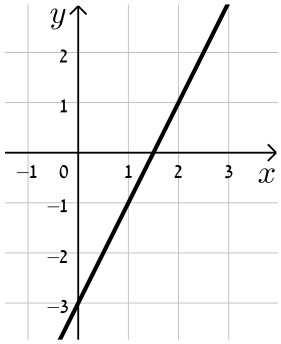

ד.

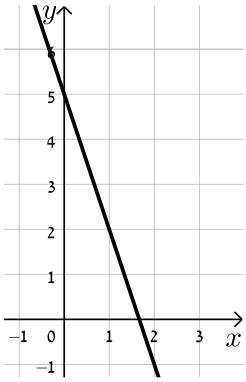

ה.

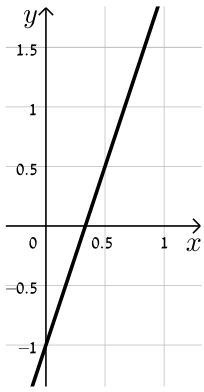

ו.

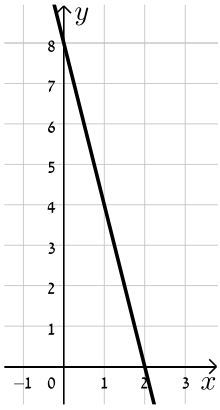

17) א. $y=4x-1$ ב. $y=-2x+5$ ג. $y=\frac{1}{2}x+2$ ד. $y=-\frac{1}{3}x-1$.

18) א.II. ב.V. ג.I. ד.III. ה.IV.

19) נמצאות: A , D. לא נמצאות: B , C.

20) $m=\frac{9}{8}$, B לא נמצאת.

21) $m=-4$, $n=17$.

מצבים הדדיים בין ישרים:

סיכום כללי:

מצב הדדי בין שני ישרים:

- ישרים מקבילים מקיימים: $n_1 \neq n_2$, $m_1 = m_2$.
- ישרים חותכים מקיימים: $m_1 \neq m_2$.
- ישרים מתלכדים מקיימים: $n_1 = n_2$, $m_1 = m_2$.

שאלות:

22) מצא את נקודות החיתוך שבין זוגות הישרים הבאים:

א. $\begin{cases} y = 3x + 4 \\ y = -2x - 1 \end{cases}$ ב. $\begin{cases} y = x - 12 \\ y = 4x + 6 \end{cases}$ ג. $\begin{cases} y = 2x - 4 \\ y = x + 6 \end{cases}$

23) קבע את המצב ההדדי בין זוגות הישרים הבאים:

א. $\begin{cases} y = 3x + 4 \\ y = 2x + 4 \end{cases}$ ב. $\begin{cases} y = x - 7 \\ y = x + 6 \end{cases}$

ג. $\begin{cases} y = 6x - 15 \\ y = 3x + 41 \end{cases}$ ד. $\begin{cases} y = x + 8 \\ y = x + 8 \end{cases}$

24) קבע אלו מבין זוגות הישרים הבאים הם מאונכים זה לזה:

א. $\begin{cases} y = 3x + 1 \\ y = 3x - 1 \end{cases}$ ב. $\begin{cases} y = 2x \\ y = \frac{1}{2}x + 4 \end{cases}$

ג. $\begin{cases} y = -4x - 5 \\ y = \frac{1}{4}x + 5 \end{cases}$ ד. $\begin{cases} y = x - 6 \\ y = -x + 6 \end{cases}$

25) משוואת הצלע AB של המלבן ABCD היא $y = 6x - 2$.

א. מה הם שיפועי הצלעות האחרות של המלבן?

ב. כיצד תשתנה תשובתך לסעיף הקודם אם משוואת הישר הנ"ל הייתה שייכת לצלע BC במקום AB?

26) במשולש ABC נתונים שיעורי הקודקודים: $A(5,-1)$, $B(3,7)$, $C(-5,5)$.
הוכח שהמשולש ישר זווית ושווה שוקיים.

27) מצא את משוואות הישרים הבאים:

א. ישר העובר דרך הנקודה $A(1,3)$ ושיפועו $m=2$.

ב. ישר העובר דרך הנקודה $A(0,-4)$ ושיפועו $m=\frac{1}{3}$.

ג. ישר העובר דרך הנקודה $A(5,9)$ ושיפועו $m=0$.

ד. ישר העובר דרך הנקודות $A(5,-12)$ ו-$B(6,-6)$.

ה. ישר העובר דרך הנקודה $A(-6,4)$ ומקביל לישר: $y=2x-3$.

ו. ישר העובר דרך הנקודה $A(3,-5)$ ומקביל לציר ה-y.

ז. ישר העובר דרך הנקודה $A(-7,-3)$ ומאונך לישר: $y=x+3$.

ח. ישר העובר דרך נקודת החיתוך של הישרים: $y=11x-4$ ו-$y=3x-12$
ומקביל לישר: $y=7x+5$.

תשובות סופיות:

22) א. $(-1,1)$ ב. $(-6,-18)$ ג. $(10,16)$.

23) א. נחתכים. ב. מקבילים. ג. נחתכים. ד. מתלכדים.

24) מאונכים: ג', ד'. לא מאונכים: א', ב'.

25) א. $m_{AB}=m_{CD}=6$, $m_{BC}=m_{AD}=-\frac{1}{6}$.

ב. הכל הפוך: $m_{AB}=m_{CD}=-\frac{1}{6}$, $m_{BC}=m_{AD}=6$.

26) שאלת הוכחה.

27) א. $y=2x+1$ ב. $y=\frac{1}{3}x-4$ ג. $y=9$ ד. $y=6x-42$

ה. $y=2x+16$ ו. $x=3$ ז. $y=-x-10$ ח. $y=7x-8$.

שאלות מסכמות:

שאלות:

28) במשולש ABC מעבירים את התיכון AD לצלע BC.
ידוע כי: $A(3,-2)$, $B(2,4)$, $D(-2,2)$.

א. כתוב את משוואת הישר של התיכון AD.
ב. מצא את שיעורי הקודקוד C.
ג. כתוב את משוואת הישר של הצלע AC.

29) נתון מעוין ABCD שבו נתונים הקודקודים $A(-9,1)$ ו-$B(5,-7)$.
משוואת הישר עליו מונח האלכסון AC היא $x+3y+6=0$.

א. מצא את משוואת הישר עליו מונח האלכסון BD.
ב. מצא את משוואת הישר עליו מונחת הצלע BC.

30) שלוש המשוואות הבאות מייצגות את הישרים המופיעים בשרטוט:
$x-4y-4=0$, $x-y+2=0$ ו-$2x+y-8=0$.
הקטע AC מקביל לציר ה- y .

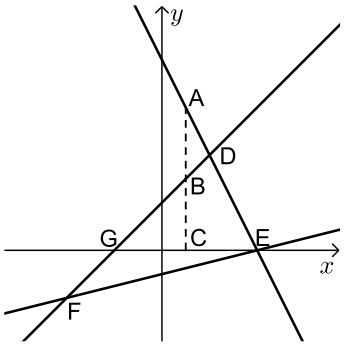

א. חשב את שטח המשולש DEF.
ב. נתון: $d_{BC}=3$.
חשב את אורך הקטע AB.

31) BD הוא התיכון לצלע AC במשולש ABC שבו נתון הקודקוד $A(-6,1)$.
משוואת התיכון BD היא $x-y=1$ ומשוואת הצלע BC היא $3x+5y=67$.
מצא את שיעורי הקודקוד C.

32) נתון טרפז ABCD $(AB \parallel CD)$ ובו משוואת השוק BC היא: $x=2$.
משוואת הבסיס CD היא $2x+3y=7$ וידוע כי $A(-4,1)$.

א. מצא את משוואת הבסיס AB.
ב. מצא את שיעורי הקודקודים B ו-C.
ג. מעבירים את האלכסון AC.
הראה כי המשולש ABC הוא ישר זווית ומצא את שטחו.

תשובות סופיות:

28) א. $y=-\frac{4}{5}x+\frac{2}{5}$ ב. $C(-6,0)$ ג. $y=-\frac{2}{9}x-\frac{4}{3}$.

29) א. $l_{BD}: y=3x-22$. ב. $l_{BC}: y=-\frac{1}{8}x-6\frac{3}{8}$.

30) א. 18 יח"ש $=S_{EDF}$. ב. 3 יחידות אורך $=AB$.

31) $C(14,5)$.

32) א. $y=-\frac{2}{3}x-\frac{5}{3}$ ב. $C(2,1)$, $B(2,-3)$ ג. 12 יחידות שטח $=S_{ABC}$.

מכינה במתמטיקה לתלמידי כלכלה

פרק 4 - הפונקציה הריבועית

תוכן העניינים

1. הפונקציה הריבועית היסודית y=x^2 ..... (ללא ספר)
2. משפחת הפרבולות מהצורה y=x^2+c ..... (ללא ספר)
3. משפחת הפרבולות מהצורה y=(x-p)^2 ..... (ללא ספר)
4. משפחת הפרבולות מהצורה y=(x-p)^2+k ..... (ללא ספר)
5. משפחת הפרבולות עם מקדם a כללי ..... (ללא ספר)
6. משפחת הפרבולות מהצורה y=a(x-p)^2+k ..... (ללא ספר)
7. הצגה סטנדרטית של הפונקציה הריבועית ..... (ללא ספר)
8. סרטוט של גרף הפונקציה הריבועית הכללית ..... (ללא ספר)
9. מציאת נקודות האפס של פונקציה ריבועית עם a כללי ..... (ללא ספר)
10. ייצוגים שונים של פונקציה ריבועית ..... (ללא ספר)
11. חיתוך בין ישר ופרבולה ..... (ללא ספר)
12. חיתוך בין שתי פרבולות ..... (ללא ספר)
13. שאלות מסכמות ..... (ללא ספר)

מכינה במתמטיקה לתלמידי כלכלה

פרק 5 - אי שיוויונים אלגבריים

תוכן העניינים

1. אי-שוויונים ממעלה ראשונה..... 76
2. אי-שוויונים ממעלה שנייה..... 77
3. אי-שוויונים ממעלה שלישית..... 78
4. אי-שוויונים עם מנה..... 79
5. אי-שוויונים כפולים מערכות או, וגם..... 80
6. שאלות מסכמות – אי-שוויונים..... 81
7. תחום הגדרה..... 83

אי-שוויונים ממעלה ראשונה:

סיכום כללי:

מה מותר?

- לחבר או לחסר כל מספר או ביטוי.
- לכפול או לחלק בכל מספר או ביטוי חיובי.
- לכפול או לחלק בכל מספר או ביטוי שלילי תוך הפיכת סימן אי-השוויון.
- להעלות בחזקה אי זוגית.
- להעלות בחזקה זוגית אם שני אגפי אי-השוויון אינם שליליים.

מה אסור?

- לכפול או לחלק בביטוי שלא יודעים את סימנו.
- להעלות בחזקה זוגית כשיש אגף שלילי.

שאלות:

פתור את אי-השוויונים הבאים:

1) $45x-26>109$

2) $6x>2(3x-1)$

3) $2(x-5)\geq\frac{1}{2}(4x+6)$

4) $(x-2)^2+4<(x+2)^2+20$

5) $\frac{8x-4}{2}<\frac{9(x+1)}{3}$

6) $4(6x-8)<8(3x-4)$

7) $\frac{x-6}{3}-\frac{x-4}{4}\geq 12-x$

8) $\frac{7-x}{10}-\frac{3x-1}{5}+\frac{x+4}{3}<7$

תשובות סופיות:

1) $x>3$

2) כל x

3) אף x

4) $x>-2$

5) $x<5$

6) אף x

7) $x\geq 12$

8) $x>-13$

אי-שוויונים ממעלה שנייה:

שאלות:

פתור את אי-השוויונים הבאים:

9) $x^2 < 144$

10) $x^2 - 12x > -32$

11) $(x+2)(x+5) < 0$

12) $(x+2)(x+4) < 35$

13) $-x^2 + 13x + 30 < 0$

14) $(x-3)(x-7) \geq 8x - 56$

15) $(x-5)^2 + x(x+2) < 89$

16) $(5x+6)^2 \leq 4(x-3)^2$

17) $-3x^2 + 12x > 0$

18) $x^2 - 10x + 25 > 0$

19) $(x-3)^2 > (x-1)(x+6) - x^2 - 3x$

20) $2x^2 + 2x + 24 \geq 0$

תשובות סופיות:

9) $-12 < x < 12$

10) $x < 4 , x > 8$

11) $-5 < x < -2$

12) $-9 < x < 3$

13) $x < -2 , x > 15$

14) $x \leq 7 , x \geq 11$

15) $-4 < x < 8$

16) $-4 \leq x \leq 0$

17) $0 < x < 4$

18) $x > 5 , x < 5$

19) $x < 3 , x > 5$

20) כל x

אי-שוויונים ממעלה שלישית:

שאלות:

פתור את אי-השוויונים הבאים:

21) $(x-1)(x-2)(x-3)>0$

22) $x(x^2+x+1)>0$

23) $(-2x^2-3x+2)(x+1)\le 0$

24) $x^3-25x\ge 0$

25) $(x^2+3x+5)(x-2)>0$

26) $(x^2+8x+20)(3x-5)\le 0$

27) $(x^2-x-6)(x-1)<0$

28) $x^3-6x^2+9x\le 0$

29) $(x^2+6)(x+3)>0$

30) $(x-2)(x-4)(x-1)<0$

תשובות סופיות:

21) $1<x<2\ ,\ x>3$

22) $x>0$

23) $-2\le x\le -1\ ,\ x\ge \frac{1}{2}$

24) $-5\le x\le 0\ ,\ x\ge 5$

25) $x>2$

26) $x\le 1\frac{2}{3}$

27) $x<-2\ ,\ 1<x<3$

28) $x\le 0\ ,\ x=3$

29) $x>-3$

30) $x<1\ ,\ 2<x<4$

אי-שוויונים עם מנה:

שאלות:

פתור את אי-השוויונים הבאים:

31) $\frac{x-1}{x^2-9}>0$

32) $\frac{x-1}{3x+2}\geq -3$

33) $\frac{1}{x^2-16}>0$

34) $\frac{x-3}{2x^2-10x+12}>0$

35) $\frac{2x-1}{x-5}\leq 0$

36) $\frac{1}{-3(x-1)}<0$

37) $\frac{x-1}{x+2}\leq 1$

38) $\frac{1}{x^2-5x+6}<0$

39) $\frac{x^2-7x+6}{-x^2+3x-7}\geq 0$

40) $\frac{1}{x^2-8x+12}\geq 0$

תשובות סופיות:

31) $-3<x<1\,,\,x>3$

32) $x<-\frac{2}{3}\,,\,x\geq -\frac{1}{2}$

33) $x<-4\,,\,x>4$

34) $2<x<3\,,\,x>3$

35) $\frac{1}{2}\leq x<5$

36) $x>1$

37) $x>-2$

38) $2<x<3$

39) $1\leq x\leq 6$

40) $x<2\,,\,x>6$

אי-שוויונים כפולים מערכות או, וגם:

שאלות:

פתור את אי-השוויונים הבאים:

41) $3<x+1<5$

42) $0<\frac{1}{x+4}<2$

43) $-1<\frac{x-1}{x+1}<1$

44) $0<\frac{8-3x}{5-2x}<4$

45) $6x-38\le x-3\le 5x+7$

46) $6<\frac{2x+10}{3}\le\frac{7x-20}{5}$

47) $-1\le\frac{2x-6}{4}<\frac{x+2}{3}$

48) $\frac{4x+5}{15}>\frac{3x-8}{5}+\frac{9-x}{3}>11$

תשובות סופיות:

41) $2<x<4$

42) $x>-3\frac{1}{2}$

43) $x>0$

44) $x<2\frac{2}{5}\ ,\ x>2\frac{2}{3}$

45) $-2.5\le x\le 7$

46) $x\ge 10$

47) $1\le x<13$

48) ϕ

שאלות מסכמות – אי-שוויונים:

שאלות:

פתור את אי-השוויונים הבאים:

1) $x \le -\frac{3}{4} \cap \{-2 < x \le 5 \cup 0 < x < 8\}$

2) $x(x+5)-3x+12 \le 2x-1-x(4-x)$

3) $\frac{(x-3)(x+4)}{2-x} \le 0$

4) $\frac{(x-5)(3x+1)}{(2-x)(x+7)} < 0$

5) $\frac{(2x-3)(x-12)}{(x+1)(4-x)} \ge 0$

6) $x(x+3)(2x-5) < 0$

7) $\frac{(x-6)^2(x+1)}{x-2} > 0$

8) $\frac{5-2x}{(x-8)^2} \le 0$

9) $\frac{x-3}{x^2+2} > 0$

10) $\frac{x^2-4x}{x^2+2x-3} > 0$

11) $\frac{x^2-6x+9}{x^3-x} > 0$

12) $\frac{x-7}{x^2+x+3} > 0$

13) $\frac{x}{x^2-4} + \frac{1}{x+2} < \frac{1}{x-2}$

14) $\frac{2x^2}{x^2-6x+8} \ge \frac{x}{x-4} - \frac{x}{x-2}$

15) $6 < 5x - x^2 \cap x^2 > 3x+10$

16) $\frac{3}{x-1} - \frac{2}{x} > 0 \cup \frac{1}{x-3} < \frac{1}{1-x}$

17) $1 < \frac{x-1}{x-4} \le 2$

18) לאלו ערכי x נמצאת הפונקציה $f(x) = \frac{x}{x-3}$ מעל הפונקציה $g(x) = \frac{x+1}{x+3}$?

תשובות סופיות:

1) $-2 < x \le -\frac{3}{4}$

2) $x \le -4$

3) $-4 \le x < 2 \, , \, x \ge 3$

4) $x < -7 \, , \, -\frac{1}{3} < x < 2 \, , \, x > 5$

5) $-1 < x \le 1.5 \, , \, 4 < x \le 12$

6) $x < -3 \, , \, 0 < x < 2.5$

7) $x < -1 \, , \, 2 < x < 6 \, , \, x > 6$

8) $2.5 \le x < 8 \, , \, x > 8$

9) $x > 3$

10) $x < -3 \, , \, 0 < x < 1 \, , \, x > 4$

11) $-1 < x < 0 \, , \, 1 < x < 3 \, , \, x > 3$

12) $x > 7$

13) $x < -2 \, , \, 2 < x < 4$

14) $x \le 0 \, , \, 1 \le x < 2 \, , \, x > 4$

15) אף x

16) $x \ne 1$

17) $x \ge 7$

18) $-3 < x < -\frac{3}{5} \, , \, x > 3$

תחום הגדרה:

שאלות:

1) מצא את תחום ההגדרה של הפונקציות הבאות:

א. $f(x)=\sqrt{3x-4}$

ב. $f(x)=\sqrt{x^2-5x-6}$

ג. $f(x)=\sqrt{12x-x^2-x^3}$

ד. $f(x)=\sqrt{\frac{x+5}{x^2-4}}$

ה. $f(x)=\frac{1}{\sqrt{x+2}-x}$

ו. $f(x)=\frac{\sqrt{3x^2-2x-1}}{2x-3}$

2) מצא את תחום ההגדרה של הפונקציות הבאות:

א. $f(x)=\sqrt{\sqrt{x+2}-3}$

ב. $f(x)=\frac{1}{x+\sqrt{x+6}}$

ג. $f(x)=\sqrt{\frac{2x^2+x-3}{x^2+5x+9}}$

ד. $f(x)=\frac{\sqrt{x^2+5x+6}}{x-1}$

3) תחום ההגדרה של הפונקציה: $f(x)=\sqrt{ax-x^2-4}$ הוא $1\le x\le 4$.
מצא את ערכו של הפרמטר a.

4) תחום ההגדרה של הפונקציה: $f(x)=\sqrt{\frac{x+a}{x-a}}$ הוא $x\le -2\ ,\ x>2$.
מצא את ערכו של הפרמטר a.

5) נתונה הפונקציה: $f(x)=\sqrt{\sqrt{x+6}-a}$, (a פרמטר חיובי).

א. הבע באמצעות a את תחום הגדרתה.

ב. מגדירים פונקציה נוספת: $g(x)=\sqrt{\frac{2x}{x+5}}$.
ידוע כי תחום ההגדרה של שתי הפונקציות מכסה את כל ציר המספרים.
מצא את תחום הערכים האפשרי של הפרמטר a.

תשובות סופיות:

1) א. $x \ge 1\frac{1}{3}$ ב. $x \le -1 , x \ge 6$ ג. $x \le -4 , 0 \le x \le 3$

ד. $-5 \le x < -2 , x > 2$ ה. $-2 \le x < 2 , x > 2$ ו. $x \le -\frac{1}{3} , 1 \le x < \frac{3}{2} , x > \frac{3}{2}$

2) א. $x \ge 7$ ב. $-6 \le x \ne -2$ ג. $x \le -1\frac{1}{2} , x \ge 1$

ד. $-2 \le x \ne 1 , x \le -3$.

3) $a = 5$.

4) $a = 2$.

5) א. $x \ge a^2 - 6$ ב. $0 < a \le 1$.

מכינה במתמטיקה לתלמידי כלכלה

פרק 6 - בעיות בתכנון ליניארי

תוכן העניינים

1. כללי ..... (ללא ספר)

מכינה במתמטיקה לתלמידי כלכלה

פרק 7 - חקירת משוואה ממעלה ראשונה

תוכן העניינים

1. פתרון משוואות ממעלה ראשונה עם פרמטר 85
2. חקירת משוואות ממעלה ראשונה 86
3. חקירה של מערכת שתי משוואות ממעלה ראשונה 89
4. חקירת משוואות ממעלה ראשונה עם שורשים 94
5. חקירת משוואות ממעלה ראשונה עם ערך מוחלט 95

פתרון משוואות ממעלה ראשונה עם פרמטר:

סיכום כללי:

שלבי עבודה:

- נפתור את המשוואה.
- נאתר את ערכי הפרמטר המאפסים את המכנה בכל שלבי הפתרון.
- נבדוק לכל ערך כזה בנפרד כמה פתרונות יש למשוואה על ידי הצבתו במשוואה המקורית.

שאלות:

1) פתרו את המשוואה: $kx+6k=2x+3k^2$.

2) פתרו את המשוואה: $a^2(x-1)=3ax+4(x-a)$.

3) פתרו את מערכת המשוואות: $\begin{cases}2kx+5y=2k^2\\2x-y=-10\end{cases}$.

4) פתרו את מערכת המשוואות הבאה: $\begin{cases}bx-(1-2b)y=1\\(2b+1)x+3(by-1)=0\end{cases}$

תשובות סופיות:

1) $x=3k \quad (k\neq 2)$.

2) $x=\dfrac{a}{a+1}$.

3) $(k-5,2k)$.

4) $b\neq 0\ ,\ \pm 1 \quad , \quad \left(\dfrac{2-b}{b(b+1)},\dfrac{1}{b+1}\right)$

חקירה של משוואה ממעלה ראשונה:

שאלות:

1) נתונה המשוואה הבאה: $m^2(2x-1)=9(x-1)-x(6+5m)$.

מצאו לאילו ערכי m יש למשוואה:

א. פתרון יחיד (ומצאו אותו).

ב. אינסוף פתרונות.

ג. אף פתרון.

2) נתונה המשוואה: $k^2(5-2x)=3(15-2kx)$.

א. מצאו לאלו ערכי k למשוואה:

i. פתרון יחיד.

ii. אף פתרון.

iii. אינסוף פתרונות.

ב. מצאו לאלו ערכי k פתרון המשוואה:

i. חיובי.

ii. מקיים את אי-השוויון: $2x-3>x$.

3) נתונה המשוואה: $\frac{mx}{m-2}=\frac{2m}{m-5}-\frac{6x}{m^2-7m+10}$.

מצאו לאלו ערכי m למשוואה:

א. פתרון יחיד.

ב. אף פתרון.

ג. אינסוף פתרונות.

4) לפניכם המשוואה: $m\cdot\frac{x-1}{x}-\frac{m+6}{m}=\frac{-3}{x}$.

א. פתרו את המשוואה בהנחה שיש לה פתרון יחיד.

ב. מצאו עבור אלו ערכי m יש למשוואה:

i. פתרון יחיד.

ii. אינסוף פתרונות.

iii. אף פתרון.

ג. האם עבור ערכי ה- m הנותנים אינסוף פתרונות, כל x יהיה פתרון של המשוואה?

ד. עבור אלו ערכי m יהיה פתרון המשוואה גדול מ-2?

5) נתונה המשוואה: $x\left(m^2-9\right)=2\left(m\left(3x+1\right)+1-x\right)$.

א. פתרו את המשוואה בהנחה שיש לה פתרון יחיד.

ב. חקרו את המשוואה ומצא עבור אלו ערכי m יש למשוואה:

i. פתרון יחיד.

ii. אינסוף פתרונות.

iii. אף פתרון.

ג. עבור איזה ערך של m פתרון המשוואה יהיה: $x=2$?

6) נתונה המשוואה: $\frac{5}{k-4}-\frac{kx}{3k+15}=\frac{k^2+29}{k^2+k-20}$.

א. פתרו את המשוואה בהנחה שיש לה פתרון יחיד.

ב. האם קיים ערך של k עבורו יש למשוואה אינסוף פתרונות?

ג. עבור איזה ערך של k פתרון המשוואה הוא: 4-?

7) לפניכם המשוואה הבאה: $\frac{m^2x}{m-5}+\frac{2mx-m^2+1}{m-5}=1$.

מצאו עבור אלו ערכי m יש למשוואה:

א. פתרון יחיד (ובטאו אותו באמצעות m).

ב. אינסוף פתרונות.

ג. אף פתרון.

8) לפניכם המשוואה הבאה: $\frac{\left(m^2+1\right)x-4}{x-2}=m+1$.

מצאו עבור אלו ערכי m יש למשוואה:

א. פתרון יחיד (ובטאו אותו באמצעות m).

ב. אינסוף פתרונות.

ג. אף פתרון.

9) לפניכם המשוואה הבאה: $\frac{5m-2}{mx-1}=-3$.

מצאו עבור אלו ערכי m יש למשוואה:

א. פתרון יחיד (ובטאו אותו באמצעות m).

ב. אינסוף פתרונות.

ג. אף פתרון.

10) לפניכם המשוואה הבאה: $\frac{x}{x+m+2}=\frac{x+1}{x-m+1}$.

מצאו עבור אלו ערכי m יש למשוואה:

א. פתרון יחיד (ובטאו אותו באמצעות m).

ב. אינסוף פתרונות.

ג. אף פתרון.

תשובות סופיות:

1) א. $\frac{1}{2}$, $m\neq -3$, $\frac{m-3}{2m-1}$ ב. $m=-3$ ג. $m=\frac{1}{2}$

2) א. 1. $k\neq 0,3$ 2. $k=0$ 3. $k=3$.

ב. 1. $k>0$ או $k<-3$ וגם $k\neq 3$ 2. $0<k<15$ וגם $k\neq 3$.

3) א. $m\neq 2,3,5$ ב. $m=2,3,5$ ג. אף m.

4) א. $m\neq 3$, $x=\frac{1}{m+2}$ ב. פתרון יחיד: $m\neq 0,-2,3$, אף פתרון:

$m=0,-2$, אינסוף פתרונות: $m=3$. ג. לא, רק: $x\neq 0$.

ד. $-2<m<-1.5$.

5) א. $m\neq 7,-1$, $x=\frac{1}{m-7}$ ב. פתרון יחיד: $m\neq 7,-1$, אף פתרון: $m=7$,

אינסוף פתרונות: $m=-1$.

6) א. $k\neq 0,4,-5$, $x=\frac{3}{k}-3$ ב. אף k ג. $k=-3$.

7) א. $m\neq 0\ ,\ -2\ ,\ 5$ ב. אף m ג. $m=0\ ,\ -2\ ,\ 5$

8) א. $m\neq 0\ ,\ \pm 1$ ב. $m=1$ ג. $m=0\ ,\ -1$

9) א. $m\neq 0\ ,\ \frac{2}{5}$ ב. אף m ג. $m=\frac{2}{5}\ ,\ 0$

10) א. $m\neq 0\ ,\ -1\ ,\ -2\ ,\ -\frac{1}{2}$ ב. אף m ג. $m=0\ ,\ -1\ ,\ -2\ ,\ -\frac{1}{2}$

חקירה של מערכת שתי משוואות ממעלה ראשונה:

סיכום כללי:

שלבי עבודה:

- נפתור את מערכת המשוואות.
- נאתר את ערכי הפרמטר המאפסים את המכנה בכל שלבי הפתרון.
- נבדוק לכל ערך כזה בנפרד כמה פתרונות יש למערכת על ידי הצבתו.

המשמעות הגרפית של חקירת מערכת משוואות ממעלה ראשונה:

בהינתן מערכת שתי משוואות מהצורה: $\begin{cases} a_1x+b_1y=c_1 \\ a_2x+b_2y=c_2 \end{cases}$ נאמר כי:

אם: $\frac{a_1}{a_2}\neq\frac{b_1}{b_2}$ אז הישרים נחתכים (כלומר למערכת פתרון יחיד).

אם: $\frac{a_1}{a_2}=\frac{b_1}{b_2}\neq\frac{c_1}{c_2}$ אז הישרים מקבילים (כלומר למערכת אף פתרון).

אם: $\frac{a_1}{a_2}=\frac{b_1}{b_2}=\frac{c_1}{c_2}$ אז הישרים מתלכדים (כלומר למערכת אינסוף פתרונות).

שאלות:

1) נתונה מערכת המשוואות: $\begin{cases} x+3ay=a \\ ax+3y=4a-3 \end{cases}$.

א. מצאו לאלו ערכי a למערכת המשוואות:

i. פתרון יחיד.

ii. אף פתרון.

iii. אינסוף פתרונות.

ב. מצאו לאלו ערכי a נקודת החיתוך בין הישרים (המיוצגים על ידי המשוואות) נמצאת ברביע השלישי.

2) נתונות מערכת המשוואות הבאה: $\begin{cases}(m+4)x+5y=m+8\\ x+my=m+2\end{cases}$.

א. פתרו את מערכת המשוואות בהנחה שיש לה פתרון יחיד.

ב. מצאו עבור אלו ערכי m יש למערכת:

i. פתרון יחיד.

ii. אינסוף פתרונות.

iii. אף פתרון.

ג. פתרון המערכת מייצג נקודה במערכת צירים.

הוכיחו כי נקודה זו נמצאת על הישר: $y(m-1)=2(m-1)x+4-m$.

ד. עבור אלו ערכי m פתרון המערכת:

i. יהיה ברביע השני.

ii. יהיה מתחת לציר ה- x.

iii. יהיה מימין לציר ה- y.

3) לפניכם מערכת המשוואות הבאה: $\begin{cases}\frac{x^2}{4}-2x+3y=\left(k-\frac{x}{2}\right)^2+4\\ x-10=k(1-y)\end{cases}$.

א. מצאו לאלו ערכי k יש למערכת המשוואות:

i. פתרון יחיד.

ii. אינסוף פתרונות.

iii. אף פתרון.

ב. פתרו את מערכת המשוואות בהנחה שיש לה פתרון יחיד.

4) לפניכם מערכת המשוואות הבאה: $\begin{cases}k(x-1)=1-2y\\ \frac{2x+3}{k}=3-y\end{cases}$.

א. מצאו לאלו ערכי k יש למערכת המשוואות:

i. פתרון יחיד.

ii. אינסוף פתרונות.

iii. אף פתרון.

ב. פתרו את מערכת המשוואות בהנחה שיש לה פתרון יחיד.

5) לפניכם מערכת המשוואות הבאה: $\begin{cases} k^2(1-x)=k+9x+12y \\ x=1-\dfrac{2(y+1)}{k} \end{cases}$.

א. מצאו לאלו ערכי k יש למערכת המשוואות:

i. פתרון יחיד.

ii. אינסוף פתרונות.

iii. אף פתרון.

ב. פתרו את מערכת המשוואות בהנחה שיש לה פתרון יחיד.

6) נתונה מערכת המשוואות הבאה: $\begin{cases} (2-k)x-y=k \\ 3x+ky=-1 \end{cases}$.

א. מצאו את הערך של k עבורו $(2,7)$ הוא פתרון של מערכת המשוואות.

ב. האם יש למשוואה פתרונות נוספים עבור הערך של k שמצאת בסעיף הקודם?

ג. האם קיים ערך של k עבורו למערכת המשוואות לא יהיו פתרונות כלל?
אם כן מצאו אותו.

7) לפניכם מערכת המשוואות הבאה: $\begin{cases} ax+b^2y=a^2 \\ 3x+by=9b \end{cases}$.

א. פתרו את מערכת המשוואות בהנחה שיש לה פתרון יחיד.

ב. הראו שכאשר $a=3b$ יש למערכת אינסוף פתרונות.

ג. עבור אלו ערכי a ו- b הפתרון היחיד של המערכת יהיה $(4,3)$?

8) לפניך מערכת המשוואות הבאה: $\begin{cases} amx+y=m^2 \\ bx+my=-9m \end{cases}$.

א. מצאו ערכי הפרמטרים a ו- b אם ידוע כי כאשר $m=4$ פתרון המשוואה הוא $(4,0)$.

ב. הוכיחו את הטענות הבאות:

i. לכל ערך של m יש למערכת פתרון ממשי.

ii. פתרון המערכת תמיד יהיה $(m,0)$.

ג. העזרו בסעיף הקודם וקבע איזו משוואה מבין שלושת המשוואות הבאות לא תכיל את הפתרון היחיד הנ"ל:

i. $7y+2m=2x$.

ii. $my=2x-m$.

iii. $m(y-mx)=2x-m(m^2+2)$.

9) לפניך הישרים הבאים: $\begin{cases} x+(k-9)y=8 \\ x-\dfrac{14y}{k}=1 \end{cases}$.

א. עבור אלו ערכי k הישרים הללו מקבילים?

ב. הביעו באמצעות k את נקודת החיתוך של הישרים.

ג. עבור איזה ערך של k נקודת החיתוך של הישרים תהיה על הישר: $y=x-8$?

10) לפניכם שני הישרים: $\begin{cases} (k^2+6)x+ay=15 \\ kx+ay=3 \end{cases}$, a,k פרמטרים, $a\neq 0$.

א. הוכיחו כי לכל ערך של k הישרים הללו נחתכים.

ב. מצאו את a אם ידוע כי כאשר $k=6$ נקודת החיתוך היא $\left(\frac{1}{3},1\right)$.

ג. עבור איזה ערך של k נקודת החיתוך תהיה $(2,1)$?

ד. הראו כי נקודת החיתוך של הישרים נמצאת על גרף הפונקציה: $\frac{4y}{x}=k^2-5k+6$.

תשובות סופיות:

1) א. i. $a \neq \pm 1$ ii. $a = -1$ iii. $a = 1$ ב. $-1 < a < 0$

2) א. $\left(\frac{m-2}{m-1}, \frac{m}{m-1}\right)$, $m \neq 1, -5$

ב. פתרון יחיד: $m \neq 1, -5$, אינסוף פתרונות: $m = -5$, אף פתרון: $m = 1$.

ג. הוכחה.

ד. i. $1 < m < 2$ ii. $0 < m < 1$ iii. $m > 2$, $m < 1$, $m \neq -5$.

3) א. i. $k \neq 3, -1$ ii. $k = 3$ iii. $k = -1$ ב. $\left(\frac{k^2+3k+10}{k+1}, \frac{8}{k+1}\right)$.

4) א. i. $k \neq 0, \pm 2$ ii. $k = 2$ iii. $k = 0, -2$ ב. $\left(\frac{k-3}{k+2}, \frac{3k+1}{k+2}\right)$.

5) א. i. $k \neq 0, 3$ ii. $k = 3$ iii. $k = 0$ ב. $\left(\frac{k-4}{k-3}, \frac{6-k}{2k-6}\right)$.

6) א. $k = -1$ ב. כן. ג. $k = 3$.

7) א. $\left(a+3b, -\frac{3a}{b}\right)$ ג. $a = -2$, $b = 2$.

8) א. $a = 1$, $b = -9$ ג. ii

9) א. $k = 2, 7$ ב. $\left(\frac{k^2-9k+112}{k^2-9k+14}, \frac{7k}{k^2-9k+14}\right)$ ג. $k = 8$

10) א. הוכחה. ב. $a = 1$ ג. $k = 1$.

חקירת משוואות ממעלה ראשונה עם שורשים:

שאלות:

1) לפניכם המשוואה: $(m-1)x=\sqrt{m-1}$.

מצאו עבור אלו ערכי m יש למשוואה:

א. פתרון יחיד (ובטאו אותו באמצעות m).

ב. אינסוף פתרונות.

ג. אף פתרון.

2) לפניכם המשוואה: $\frac{x-m}{\sqrt{3x-2}}+\sqrt{3x-2}=\frac{mx}{\sqrt{3x-2}}$.

מצאו עבור אלו ערכי m יש למשוואה:

א. פתרון יחיד (ובטאו אותו באמצעות m).

ב. אינסוף פתרונות.

ג. אף פתרון.

תשובות סופיות:

1) א. פתרון יחיד: $m>1$ והוא: $x=\frac{1}{\sqrt{m-1}}$ ב. $m=1$ ג. $m<1$.

2) א. פתרון יחיד: $\frac{6}{5}<m<4$ והוא: $x=\frac{m+2}{4-m}$. ב. אינסוף: $\varnothing$. ג. אף פתרון: $m\ge 4$, $m\le\frac{6}{5}$.

חקירה של משוואות ממעלה ראשונה עם ערך מוחלט:

סיכום כללי:

הגדרת ערך מוחלט: $|x|=\begin{cases} x & x\ge 0 \\ -x & x<0 \end{cases}$.

- משוואה מהצורה: $|A|=|B|$ תפוצל לשתי משוואות: $A=B$ או: $A=-B$.
  יש לחקור כל מקרה בנפרד ולאחד פתרונות.
- עבור משוואות המכילות ביטויים עם ערכים מוחלטים יש להפריד עבור כל מקרה לפי הגדרת הערך המוחלט. לבסוף יש לאחד פתרונות.
- למשוואה מהצורה: $|x|=k$ (כאשר x הוא המשתנה ו- k הוא פרמטר) יתכנו:
  - שני פתרונות אם $k>0$.
  - פתרון אחד (והוא $x=0$) אם $k=0$.
  - אף פתרון אם $k<0$.

שאלות:

1) חקור את המשוואה הבאה: $|x-2m|=|x+1|$.

2) חקור את המשוואה הבאה: $|mx-3x|=|x-m|$.

3) חקור את המשוואה הבאה: $\frac{mx^2}{|x|-1}-m|x|=2m+1$.

4) נתונה מערכת המשוואות הבאה: $\begin{cases} y+|x-2|=3 \\ |x+y|=m \end{cases}$.

מצא עבור אלו ערכי m יש למערכת:

א. פתרון אחד בלבד.

ב. שני פתרונות שונים.

ג. אינסוף פתרונות.

תשובות סופיות:

1) פתרון יחיד: $m \neq -\frac{1}{2}$. אף פתרון: $\varnothing$. אינסוף: $m = -\frac{1}{2}$.

2) פתרון יחיד: $m = 0$ והוא $x = 0$. אף פתרון: $\varnothing$.

שני פתרונות: $m \neq 0$ והם: $x_{1,2} = -\frac{2m}{3}, \frac{12m}{5}$.

3) עבור: $m = -\frac{1}{2}$ יש פתרון יחיד: $x = 0$.

עבור: $m > 0$, $-\frac{1}{2} < m < 0$, $m < -1$ יש שני פתרונות.

עבור: $m = 0$, $-1 < m < -0.5$ אין פתרון כלל.

4) א. $m = 0, m > 5$ ב. $0 < m < 5$ ג. $m = 5$.

מכינה במתמטיקה לתלמידי כלכלה

פרק 8 - חקירת משוואה ממעלה שנייה

תוכן העניינים

1. פתרון משוואות ממעלה שנייה עם פרמטר 97
2. חקירה של משוואה ממעלה שנייה 98
3. חקירות עם קדקוד פרבולה 107

פתרון משוואות ממעלה שנייה עם פרמטר:

סיכום כללי:

משוואות מהצורה: $ax^2+bx+c=0$ המכילות פרמטר כלשהו, m, המגולם בתוך הביטויים של המקדמים a , b ו-c נקראות משוואות עם פרמטר.

פתרון של משוואה עם פרמטר יתבצע באופן רגיל, אך יכול להכיל את הפרמטר.

שאלות:

1) פתור את המשוואה: $x^2+mx-12m^2=0$.

2) פתור את המשוואה: $2x^2+5m^2=(11m+1)x-5m$.

תשובות סופיות:

1) $x_1=3m$, $x_2=-4m$.

2) $x_1=5m$, $x_2=\frac{m+1}{2}$.

חקירה של משוואה ממעלה שנייה:

סיכום כללי:

המשוואה הריבועית:

תהא המשוואה הריבועית: $ax^2+bx+c=0$ כאשר $a\neq 0$.
נגדיר: $\Delta=b^2-4ac$ ונאמר כי:

- למשוואה יהיו שני פתרונות ממשיים שונים אם: $\Delta>0$.
- למשוואה יהיה פתרון ממשי אחד אם: $\Delta=0$.
- למשוואה לא יהיו שני פתרונות ממשיים כלל אם: $\Delta<0$.

אם $a=0$ תתקבל משוואה ליניארית מהצורה: $bx+c=0$.

- למשוואה זו יהיה פתרון ממשי אחד אם $b\neq 0$.
- למשוואה לא יהיו פתרונות כלל אם: $b=0$ ו-$c\neq 0$.

אם $b=0$ וגם $c=0$ למשוואה יהיו אינסוף פתרונות ממשיים.

הפונקציה הריבועית:

תהא הפונקציה הריבועית: $y=ax^2+bx+c$ כאשר $a\neq 0$.
נגדיר: $\Delta=b^2-4ac$ ונאמר כי לפונקציה נקודות חיתוך עם ציר ה-x באופן הבא:

- אם $a>0$ תתקבל פרבולה ישרה (מחייכת):
  - עבור $\Delta>0$ הפרבולה תחתוך את ציר ה-x בשתי נקודות שונות.
  - עבור $\Delta=0$ הפרבולה תשיק לציר ה-x (חיתוך בנקודה אחת).
  - עבור $\Delta<0$ הפרבולה תהיה מרחפת (ללא חיתוך עם ציר ה-x כלל).
- אם $a>0$ תתקבל פרבולה הפוכה (עצובה):
  - עבור $\Delta>0$ הפרבולה תחתוך את ציר ה-x בשתי נקודות שונות.
  - עבור $\Delta=0$ הפרבולה תשיק לציר ה-x (חיתוך בנקודה אחת).
  - עבור $\Delta<0$ הפרבולה תהיה מרחפת (ללא חיתוך עם ציר ה-x כלל).

- אם $a=0$ תתקבל פונקציה ליניארית: $y=bx+c$ ולה:
  - עבור $b>0$ יתקבל ישר עולה החותך את ציר ה-x ב-$\left(-\frac{c}{b},0\right)$.
  - עבור $b<0$ יתקבל יורד עולה החותך את ציר ה-x ב-$\left(-\frac{c}{b},0\right)$.
- אם $b=0$ יתקבל ישר $y=c$ וכעת:
  - אם $c>0$ הישר כולו מעל לציר ה-x ומקביל לו.
  - אם $c<0$ הישר כולו מתחת לציר ה-x ומקביל לו.
  - אם $c=0$ הישר מתלכד עם ציר ה-x.

ניתן לסכם את כל המקרים באופן הבא:

פירוט מילולי	תנאים	$\Delta>0$	$\Delta=0$	$\Delta<0$
תיאור גרפי של $y=ax^2+bx+c$ עבור $a\neq 0$	$a>0$	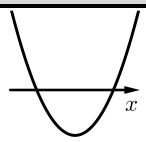	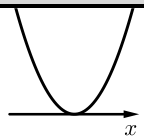	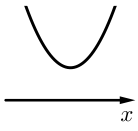
	$a<0$	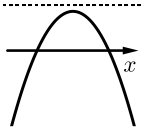	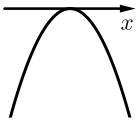	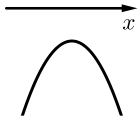
		$b>0$	$b<0$	
תיאור גרפי של $y=bx+c$ כאשר $a=0$ ו- $b\neq 0$	$a=0$ $b\neq 0$	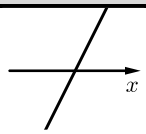	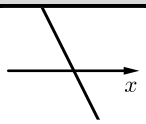	
		$c>0$	$c<0$	$c=0$
תיאור גרפי של $y=c$ כאשר $a=0$ ו- $b=0$	$a=0$ $b=0$			

שאלות:

1) נתונה המשוואה: $(3-m)x^2+4mx-2m=0$, $(m\neq 3)$.

מצא לאלו ערכי m למשוואה:

א. שני פתרונות ממשיים שונים.

ב. פתרון ממשי אחד.

ג. אין פתרונות ממשיים כלל.

2) נתונה הפונקציה: $y=2mx^2+mx-1$.

מצא לאלו ערכי m הפונקציה אינה חותכת את ציר ה-x.

3) נתונה הפונקציה: $y=(m^2-9)x^2+(m+3)x+4$, $(m\neq \pm 3)$.

מצא לאלו ערכי m הפונקציה נמצאת מעל ציר ה-x לכל ערך של x.

4) נתון אי השוויון: $mx^2>(m+4)(x-1)-x^2$.

מצא לאלו ערכי m אי השוויון מתקיים לכל ערך של x.

5) נתונה המשוואה הבאה: $-m(x-1)^2+2(m+16)=x(6-x(2m-3))+1$.

א. מצא עבור אלו ערכי m יש למשוואה:

i. שני פתרונות ממשיים שונים.

ii. פתרון ממשי אחד.

iii. אף פתרון ממשי.

ב. מצא את הפתרון היחיד עבור ערכי ה-m המתאימים במידה והוא קיים.

6) נתונה המשוואה הבאה: $m^2x(9x+1)+1=0$.

א. מצא עבור אלו ערכי m יש למשוואה:

i. שני פתרונות ממשיים שונים.

ii. פתרון ממשי אחד.

iii. אף פתרון ממשי.

ב. מצא את הפתרון היחיד עבור ערכי ה-m המתאימים במידה והוא קיים.

7) נתונה המשוואה: $mx^2-(9m+4)x+20m+16=0$.

א. הראה שעבור כל ערך של m יש למשוואה לפחות פתרון ממשי אחד.

ב. פתור את משוואה והראה כי אחד השורשים הוא מספר קבוע שאינו תלוי ב-m.

8) לפניך הפונקציה הבאה: $f(x)=(m^2-m-2)x^2+2(m-2)x+4$.

ענה על השאלות הבאות:

א. עבור אלו ערכי m גרף הפונקציה חותך את ציר ה-x בשתי נקודות שונות?

ב. עבור אלו ערכי m גרף הפונקציה חותך את ציר ה-x בנקודת אחת בלבד?

ג. עבור אלו ערכי m גרף הפונקציה לא חותך את ציר ה-x כלל?

ד. עבור אלו ערכי m גרף הפונקציה חיובי לכל ערך של x?

ה. עבור אלו ערכי m גרף הפונקציה שלילי לכל ערך של x?

9) נתונה הפונקציה: $f(x)=kx^2-5kx+6k+1$.

א. עבור אלו ערכי k גרף הפונקציה יהיה כולו מעל לציר ה-x?

ב. עבור איזה ערך של k יתקבל גרף פרבולה הנוגעת בציר ה-x?

10) עבור אלו ערכי m גרף הפונקציה: $f(x)=(k^2-5k-6)x^2+(2-3k)x+2$

הוא אי-שלילי לכל ערך של x?

11) נתונות הפונקציות: $f(x)=x^2+4x+2m+2$ ו-$g(x)=(1-m)x^2-3mx-1.5$.

א. מצא עבור אלו ערכי m נחתכים הגרפים של הפונקציות:

i. בשתי נקודות שונות.

ii. בנקודה אחת בלבד.

iii. באף נקודה.

ב. מצא לאלו ערכי m יהיה גרף הפונקציה $f(x)$ כולו מתחת לגרף הפונקציה $g(x)$.

12) נתונה הפונקציה: $f(x)=2kx^2+6kx+8k+2$.

א. עבור איזה ערך של k גרף הפונקציה יהיה ישר העובר ברביעים הראשון והשני בלבד?

מגדירים פונקציה נוספת: $g(x)=kx^2-6x-10$.

ב. האם קיימים ערכי k עבורם גרף הפונקציה $f(x)$ הוא מעל גרף הפונקציה $g(x)$ לכל x? הראה חישוב מתאים.

ג. הוכח כי קיים ערך של k עבורו גרפים של שתי הפונקציות משיקים זה לזה ומצא אותו.

13) נתונה הפונקציה הריבועית: $f(x)=2x^2-(5m+7)x+3m^2+8m+5$.

א. הראה כי גרף הפונקציה חותך את ציר ה-x לפחות פעם אחת לכל ערך של m.

ב. מצא את שורשי הפונקציה.

ג. עבור אלו ערכי m סכום השורשים גדול מ-3.5.

ד. מהם שורשי הפונקציה כאשר: $m=0$?

14) נתונה המשוואה הבאה: $(k+1)x^2+(k^2-4k-5)x-54=0$.

א. ענה על שני החלקים הבאים:

i. עבור אלו ערכי k יהיו פתרונות המשוואה שני מספרים נגדיים?

ii. מהם פתרונות המשוואה עבור ערכי ה-k שמצאת?

ב. הראה כי לא קיים ערך של k עבורו פתרונות המשוואה:
$(k-4)x^2+(6k-k^2-8)x+5k-10=0$ הם מספרים נגדיים.

15) נתונה הפונקציה הבאה: $f(x)=mx^2+(m-2)x+m^2+3m-10$.

א. מצא עבור אלו ערכי m גרף הפונקציה עובר בראשית הצירים.

ב. מצא את נקודות החיתוך שבין הגרפים המתקבלים עבור כל ערכי ה-m שמצאת בסעיף א'.

16) מצא עבור אלו ערכי m למשוואה: $(4-m)x^2+(m+2)x+m^2-12m-28=0$
יהיו שני פתרונות ממשיים שונים שאחד מהם הוא אפס.

17) נתונה משפחת הפרבולות הבאה: $f(x)=2x^2+(m+1)x+m^2+2m-2.5$.

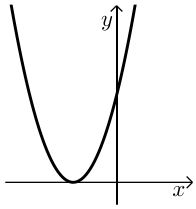

א. מצא ערך של m עבורו גרף הפרבולה השייכת למשפחת הפונקציות הנ"ל היא מהצורה:

ב. עבור ערך ה-m שמצאת בסעיף הקודם מצא את התחום של k עבורו יהיה לגרף הפרבולה ולישר $y=kx-4$ שתי נקודות חיתוך.

18) נתונה הפונקציה הבאה: $f(x)=(m^2-5m+4)x^2+(2m-2)x+1$.

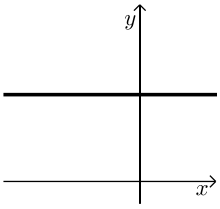

א. עבור אלו ערכים של m הפונקציה תחתוך את ציר ה-x בשתי נקודות שונות?

ב. מצא ערך של m עבורו גרף הפונקציה השייך למשפחת הפונקציות הנ"ל יהיה מהצורה שבצד, וכתוב את משוואת הישר המתקבלת במקרה זה.

ג. הגרף שאת משוואתו מצאת בסעיף הקודם חותך את גרף הפונקציה $f(x)$ בשתי נקודות שונות. הראה כי אחת מהן אינה תלויה ב-m.

ד. עבור אלו ערכי m נקודת החיתוך שתלויה ב-m תהיה מימין לנקודת החיתוך שמצאת בסעיף הקודם?

19) נתונה הפונקציה: $f(x)=\frac{4x(mx+2)+4-m}{4}$, m פרמטר חיובי.

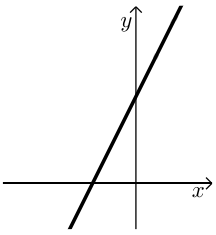

א. הראה כי לכל הגרפים המייצגים את משפחת הפונקציות הנ"ל יש נקודת חיתוך עם ציר ה-x שאינה תלויה ב-m ומצא את נקודה זו.

ב. עבור איזה ערך של m גרף הפונקציה יהיה מיוצג ע"י ישר מהצורה:

ג. הראה כי קיים תחום של x אשר לא תלוי ב-m ובו גרף הפונקציה נמצא תמיד מתחת לישר שמצאת בסעיף הקודם ומצא את תחום זה.

20) נתונה הפונקציה: $f(x)=3m^2x^2+4mx+2$.

א. הוכח כי הפונקציה נמצאת תמיד מעל לציר ה-x עבור כל ערך של m.

ב. מגדירים פונקציה חדשה באופן הבא: $y=\frac{mx^2+2x(m+2)+m}{3m^2x^2+4mx+2}$.

מצא עבור אלו ערכי m הפונקציה y היא שלילית.

21) נתונה הפונקציה: $f(x)=mx^2+(2m+1)x-\frac{1}{4}$.

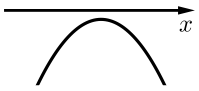

א. עבור אלו ערכי m גרף הפונקציה השייך למשפחת הפונקציות הנ"ל יהיה מהצורה:

ב. מגדירים פונקציה חדשה באופן הבא: $y=\dfrac{(m^2-9)x^2+(m+3)x-1}{mx^2+(2m+1)x-\frac{1}{4}}$.

הראה כי הפונקציה y חיובית בתחום שמצאת בסעיף הקודם.

ג. דרך נקודת החיתוך של גרף הפונקציה y עם ציר ה- y מעבירים ישר המקביל לציר ה- x.

i. כתוב את משוואת ישר זה.

ii. מצא עבור אלו ערכים של m גרף הפונקציה חותך את הישר בנקודה שבה: $x=-9$.

תשובות סופיות:

1) א. $m>0$ או $m<-3$ וגם $m\neq 3$ ב. $m=0\ ,\ -3$ ג. $-3<m<0$.

2) $-8<m\leq 0$.

3) $m>3\frac{2}{5}$ או $m<-3$.

4) $m>0$.

5) א. i. $m>3$ ii. אף m iii. $m<3$.
ב. לא קיים מקרה בו יש למשוואה פתרון יחיד.

6) א. i. $m<-6\ ,\ m>6$ ii. $m=\pm 6$ iii. $m\neq 0\ ,\ -6<m<6$
ב. בשני המקרים יתקבל: $x=-\frac{1}{18}$.

7) א. מתקבל: $\Delta=(m+4)^2$ שתמיד אי-שלילי ובמקרה הלא-ריבועי מתקבלת משוואה עם פתרון אחד. ב. $\frac{5m+4}{m}$, $m_{1,2}=4$.

8) א. $-2<m<2\ ,\ m\neq -1$ ב. $m=-1,-2$ ג. $m<-2\ ,\ m\geq 2$
ד. $-2<m<-1\ ,\ m=2$. ה. אף m.

9) א. $0\leq k<4$ ב. $k=4$.

10) $-26\leq k\leq -2$.

11) א. i. $m<-8\ ,\ m>-2\ ,\ m\neq 0$ ii. $m=0,-2,-8$ iii. $-8<m<-2$.
ב. $-8<m<-2$.

12) א. $k=0$ ב. לא. אין פתרון לאי-שוויון: $f(x)>g(x)$.
ג. עבור אי-השוויון של סעיף ב' מתקבל: $\Delta=4(k+3)^2$ ולכן כאשר $k=-3$ הגרפים נוגעים זה בזה בנקודה אחת.

13) א. הוכחה. ב. $x_{1,2}=m+1\ ,\ 1.5m+2.5$
ג. $m>0$ ד. $x_{1,2}=1\ ,\ 2.5$.

14) א. i. $k=5$ ii. $x=\pm 3$ ב. הוכחה.

15) א. $m=2,-5$ ב. $(-1,2)\ ,\ (0,0)$.

16) $m=14$.

17) א. $m=1$. כאשר: $m=-3$ נקבל גרף: $y=2x^2-2x+0.5$ המשיק לציר x מימין לראשית ולכן נפסל. ב. $k<-4\ ,\ k>8$.

18) א. $m>1\ ,\ m\neq 4$ ב. $f(x)=1\ ,\ m=1$ ג. הנקודה היא: $(0,1)$
ד. $m\neq 1\ ,\ m<4$.

19) א. הנקודה היא: $(-0.5,0)$ ב. $m=0$ ג. $-0.5<x<0.5$.

20) א. מתקבל: $\Delta = -8m^2$ ולכן לגרף הפרבולה אין חיתוכים כלל ומכיוון ש-A אי-שלילי הרי שמדובר בפרבולה מרחפת חיובית. במקרה הישר מתקבל ישר המקביל לציר ה-x שגם כן כולו חיובי.

ב. מאחר והמכנה תמיד חיובי (ממקודם) יש לדרוש תנאים שיקיימו מונה שלילי ($\Delta < 0$, $a < 0$ - עבור המונה) נקבל: $m < -1$.

21) א. $-1 < m < -\frac{1}{4}$ ב. הוכחה. ג. i. $y = 4$

ii. $-1\frac{7}{9}$, $m = 5$.

חקירות עם קדקוד פרבולה:

סיכום כללי:

תהא הפונקציה הריבועית: $y=ax^2+bx+c$ כאשר $a\neq 0$. נגדיר: $\Delta=b^2-4ac$.

התיאור הגרפי של הפונקציה הריבועית הוא פרבולה.

עבור $a\neq 0$ נקבל כי קדקוד הפרבולה הוא: $\left(-\frac{b}{2a},-\frac{\Delta}{4a}\right)$.

- שאלות העוסקות בקדקוד חיובי/שלילי נדרוש: $-\frac{\Delta}{4a}>0$ או $-\frac{\Delta}{4a}<0$ בהתאמה.
- שאלות העוסקות בקדקוד הנמצא מימין/משמאל לציר ה- y נדרוש $-\frac{b}{2a}>0$ או $-\frac{b}{2a}<0$ בהתאמה.
- שאלות העוסקות בקדקוד שנמצא מעל/מתחת לישר $y=n$ או מימין/משמאל לישר $x=k$ נדרוש $-\frac{\Delta}{4a}\gtrless n$ ו- $-\frac{b}{2a}\gtrless k$ בהתאמה.
- שאלות העוסקות בקדקוד שבאחד הרביעים נדרוש $-\frac{b}{2a}\gtrless 0$ ו- $-\frac{\Delta}{4a}\gtrless 0$ לפי הרביע המבוקש.

שאלות:

1) נתונה הפונקציה: $f(x)=(m+3)x^2+(3m+14)x+2m+7$.

א. עבור אלו ערכי m גרף הפונקציה הוא פרבולה החותכת את ציר ה- x בשתי נקודות?

ב. הבע באמצעות m את שיעורי קדקוד הפרבולה של גרף הפונקציה הנתונה.

ג. עבור אלו ערכי m קדקוד הפרבולה יהיה וודאי מתחת לישר: $y=-4$?

ד. עבור אלו ערכי m מתקיימים התנאים של סעיף א' ו-ג' יחד?

2) נתונה הפרבולה הבאה: $f(x)=x^2-3(m-2)x+2m^2-8m+7$.

א. הוכח את הטענות הבאות:

i. גרף הפרבולה חותך את ציר ה-x בשתי נקודות עבור כל ערך של m.

ii. קדקודי כל הפרבולות המיוצגות ע"י תבנית הפונקציה הנתונה נמצאים מתחת לציר ה-x.

ב. עבור איזה ערך של m גרף הפרבולה יחתוך את ציר ה-x בשתי נקודות הנמצאות באותו מרחק מראשית הצירים?

ג. עבור ערך ה-m שמצאת בסעיף הקודם מצא את נקודות החיתוך על ציר ה-x.

ד. הראה כי קדקוד הפרבולה המתקבלת בעת הצבת ערך ה-m הנ"ל נמצא על ציר ה-y.

3) נתונה הפונקציה: $f(x)=(m^2-2m-3)x^2+8x+0.5$.

א. עבור אלו ערכי m גרף הפונקציה הוא פרבולה?

ב. עבור אלו ערכי m גרף הפונקציה הוא פרבולה החותכת את ציר ה-x בשתי נקודות?

ג. הבע באמצעות m את שיעורי קדקוד הפרבולה.

ד. הוכח כי קדקודי כל הפרבולות נמצאים על הישר: $2y=8x+1$ עבור כל ערך של m עבורו מתקבלת פרבולה.

4) נתונה הפונקציה: $f(x)=(k^2-2k+15)x^2+kx+12$.

א. הוכח כי עבור כל ערך של k גרף הפונקציה לא נוגע בציר ה-x כלל.

ב. הוכח כי קדקוד הפרבולה המיוצגת ע"י התבנית הנ"ל תמיד מעל לציר ה-x.

ג. עבור איזה ערך של k קדקוד הפרבולה יהיה על ציר ה-y?

ד. מצא את שיעורי קדקוד הפרבולה במקרה זה.

5) נתונה הפונקציה הבאה: $f(x)=(k^2-9)x^2+(k+3)x-1$.

א. עבור אלו ערכי k גרף הפונקציה אינו חותך את ציר ה-x?

ב. הבע באמצעות k את שיעורי קדקוד הפרבולה המיוצגת ע"י התבנית של $f(x)$.

ג. מצא עבור אלו ערכי k קדקוד הפרבולה יהיה ברביע הראשון.

ד. האם קיים ערך של k עבורו קדקוד הפרבולה נמצא על ציר ה-y? נמק את תשובתך.

6) נתונה הפונקציה: $f(x)=(m^2-4)x^2+5mx+6$.

א. הראה כי הפונקציה חותכת את ציר ה-x לפחות פעם אחת עבור כל ערך של m.

ב. עבור אלו ערכי m גרף הפונקציה הוא פרבולת מינימום?

ג. הראה כי קדקוד הפרבולה המתקבל עבור ערכי ה-m שמצאת בסעיף הקודם נמצא תמיד מתחת לציר ה-x.

7) נתונה הפונקציה: $f(x)=(m^2-8m+12)x^2+(m-2)x+2$.

א. עבור אלו ערכי m גרף הפונקציה יהיה כולו מעל לציר ה-x?

ב. עבור אלו ערכי m גרף הפונקציה הוא פרבולה מרחפת חיובית שקדקודה משמאל לישר: $x=-\frac{1}{2}$.

ג. האם ייתכן כי גרף הפונקציה יכול להיות פרבולת מקסימום שקדקודה הוא משמאל לישר: $x=-\frac{1}{2}$? נמק והראה חישוב מתאים.

8) נתונות הפונקציות הבאות: $f(x)=(m^2-4)x^2+2x+1$, $g(x)=(m+2)x^2+(5-m)x+3$.

א. ענה על השאלות הבאות:

i. מצא ערך של m עבורו הגרפים משיקים זה לזה.

ii. מצא ערך של m עבורו הגרפים חותכים זה את זה בנקודה אחת בלבד.

iii. הסבר מדוע בכל מקרה התקבל ערך m שונה.

ב. עבור אלו ערכי m הגרפים של הפונקציות הם פרבולות מינימום המקיימות שקדקוד הפרבולה המיוצגת ע"י הפונקציה $f(x)$ נמצא מימין לקדקוד הפרבולה המיוצגת ע"י $g(x)$?

9) נתונות הפונקציות הבאות: $f(x)=(m^2-9)x^2+7x+5$, $g(x)=(m-3)x^2+(4m-3)x+1$.

א. עבור אלו ערכי m הגרפים נחתכים בשתי נקודות שונות?

ב. ענה על השאלות הבאות:

i. עבור איזה ערך של m הגרפים הם פרבולות נוגעות זו בזו?

ii. עבור איזה ערך של m הגרפים חותכים זה את זה בנקודה אחת בלבד.

iii. הסבר את ההבדל בין הערכים של m שהתקבלו בחלק i ובחלק ii.

ג. מצא את נקודת החיתוך של שני הגרפים.

ד. עבור אלו ערכי m הסכום של שיעורי ה-x של נקודות קדקודי הפרבולות של שתי הפונקציות יהיה קטן מ-1?

תשובות סופיות:

1) א. $m \neq -3$, $m > -4$, $m < -28$ ב. $\left(\frac{-3m-14}{2m+6}, \frac{-m^2-32m-112}{4m+12}\right)$.

ג. $m > -3$ ד. $m > -3$.

2) א. i. מתקבל: $\Delta = m^2 - 4m + 8$ שחיובי תמיד.

ii שיעור ה- y של הקדקוד הוא: $-\frac{\Delta}{4}$ אשר שלילי תמיד. ב. $m = 2$

ג. $(\pm 1, 0)$ ד. הקדקוד: $(0, -1)$.

3) א. $m \neq 3, -1$ ב. $-5 < m < 7$, $m \neq 3, -1$ ג. $\left(\frac{-4}{m^2-2m-3}, \frac{m^2-2m-35}{2(m^2-2m-3)}\right)$.

ד. יש להציב את הקדקוד בישר ולקבל שוויון אמת.

4) א. המקדם a תמיד חיובי ומתקבל: $\Delta = -47k^2 + 96k - 720$ שתמיד שלילי.

מכאן שמדובר בפרבולה מרחפת עבור כל k. ג. $k = 0$ ד. $(0, 12)$

5) א. $-3 \leq k < 1.8$ ב. $\left(\frac{1}{2(3-k)}, \frac{9-5k}{4(k-3)}\right)$ ג. $1.8 < k < 3$.

ד. לא. מכיוון שלא קיים ערך של k עבורו שיעור ה- x של קדקוד הפרבולה יהיה אפס.

6) א. מתקבל: $\Delta = m^2 + 96$ המעיד כי תמיד יש לפונקציה שני חיתוכים וכאשר $m = \pm 2$

מתקבלים שני ישרים החותכים את ציר ה- x. ב. $m < -2$, $m > 2$.

7) א. $m \leq 2$, $m > 6\frac{4}{7}$. ב. $6\frac{4}{7} < m < 7$. ג. לא.

8) א. i. $m = -1\frac{4}{9}$ ii. $m = -2$ iii. במקרה i מדובר בפרבולות אשר

יכולות להשיק ובמקרה ii מדובר בשני ישרים אשר רק נחתכים. ב. $3 < m < 4$.

9) א. $m \neq 3, -2$, $m < 3\frac{1}{16}$ ב. i. $m = 3\frac{1}{16}$ ii. $m = 3, -2$

iii. במקרה i מדובר במשוואה ריבועית ובנקודת השקה, ובמקרה ii מדובר

במשוואה ליניארית ובנקודת חיתוך.

ג. עבור $m = -2$ מתקבלת: $\left(-\frac{2}{9}, 3\frac{16}{81}\right)$, עבור: $m = 3$ מתקבלת: $(2, 19)$.

ד. $m > 3$, $-2.72 < m < 1.22$, $m < -3$.

מכינה במתמטיקה לתלמידי כלכלה

פרק 9 - נוסחאות וייטה

תוכן העניינים

1. הגדרת נוסחאות וייטה וחישובים יסודיים 111
2. חקירת משוואות עם נוסחאות וייטה ..... (ללא ספר)

הגדרת נוסחאות וייטה וחישובים יסודיים:

סיכום כללי:

הגדרה:

נתונה הפונקציה הריבועית: $y=ax^2+bx+c$, כאשר: $\Delta>0$, $a\neq 0$.

אם x_1 ו- x_2 הם שורשי המשוואה: $ax^2+bx+c=0$ אז מתקיים: $x_1\cdot x_2=\frac{c}{a}$, $x_1+x_2=-\frac{b}{a}$.

לקשרים אלו קוראים בשם **נוסחאות וייטה** והם תקפים רק במשואה ריבועית שבה $\Delta>0$.

שאלות:

1) לפניך משוואות ריבועיות. מבלי לפתור, מצא את הסכום ואת מכפלת השורשים שלהם:

א. $x^2+5x-8=0$.

ב. $3x^2-7x+4=0$.

ג. $x^2+9x-14=0$.

ד. $13x-6x^2+7=0$.

2) נתונה משוואה ריבועית: $ax^2+3x+5=0$. מצא את a אם ידוע כי למשוואה שני שורשים ממשיים שונים אשר סכומם הוא 3.

3) נתונה משוואה ריבועית: $\alpha x^2+(\beta-\alpha)x-16=0$, ($\alpha$, β פרמטרים).
מצא את ערכי הפרמטרים α ו- β אם ידוע כי למשוואה שני שורשים ממשיים שונים אשר סכומם הוא 2- ומכפלתם היא 16-.

4) כתוב משוואה ריבועית אשר לה שני שורשים ממשיים שונים, x_1 ו- x_2 שמקיימים: $x_1+x_2=5$ ו- $x_1\cdot x_2=-2$.
כמה משוואות כאלה תיתכנה? נמק.

תשובות סופיות:

1) א. $x_1+x_2=-5\ ,\ x_1x_2=-8$ ב. $x_1+x_2=2\frac{1}{3}\ ,\ x_1x_2=1\frac{1}{3}$

ג. $x_1+x_2=-9\ ,\ x_1x_2=-14$ ד. $x_1+x_2=\frac{6}{13}\ ,\ x_1x_2=\frac{7}{13}$.

2) $a=-1$.

3) $\alpha=1\ ,\ \beta=3$.

4) אם $a=1$ אז: $x^2-5x-2=0$.

יש אינסוף משוואות מהצורה: $ax^2-5ax-2a=0$.

מכינה במתמטיקה לתלמידי כלכלה

פרק 10 - משוואות טריגונומטריות ואי שוויונות טריגונומטריים

תוכן העניינים

1. משוואות טריגונומטריות כלליות 113
2. משוואות הנפתרות עי טכניקה אלגברית 116
3. משוואות הנפתרות על ידי זהויות יסוד 118
4. משוואות הנפתרות על ידי זהויות של מעגל היחידה 120
5. משוואות הנפתרות על ידי חלוקה בקוסינוס 121
6. משוואות הנפתרות על ידי זהויות של סכום והפרש זוויות 122
7. משוואות הנפתרות על ידי זהויות של זווית כפולה 123
8. משוואות מהצורה $a\sin(x)+b\cos(x)=c$ 124
9. משוואות הנפתרות על ידי זהויות של סכום והפרש פונקציות 125
10. משוואות עם תחום נתון 127
11. משוואות עם זוויות ברדיאנים 128
12. אי שוויונים טריגונומטריים 132

משוואות טריגונומטריות כלליות:

סיכום כללי:

פתרון כללי של משוואות טריגונומטריות (במעלות):

להלן נוסחאות הפתרון של המשוואות הטריגונומטריות היסודיות
כאשר x הוא משתנה ו- α היא זווית נתונה/ידועה:

המשוואה	הפתרון
$\sin x = \sin\alpha$	$x_1 = \alpha + 360°k \ , \ x_2 = 180° - \alpha + 360°k$
$\cos x = \cos\alpha$	$x_{1,2} = \pm\alpha + 360°k$
$\tan x = \tan\alpha$	$x = \alpha + 180°k$
$\cot x = \cot\alpha$	$x = \alpha + 180°k$

כאשר k מספר שלם.

שאלות:

1) כתוב את הפתרון הכללי של המשוואות הבאות (פונקציית הסינוס):

א. $\sin x = \frac{1}{2}$ ב. $\sin x = \frac{\sqrt{2}}{2}$ ג. $\sin x = -\frac{\sqrt{3}}{2}$ ד. $\sin x = -\frac{1}{2}$

2) כתוב את הפתרון הכללי של המשוואות הבאות (פונקציית הקוסינוס):

א. $\cos x = \frac{1}{2}$ ב. $\cos x = -\frac{\sqrt{3}}{2}$

3) כתוב את הפתרון הכללי של המשוואות הבאות (פונקציית הטנגנס):

א. $\tan x = \frac{1}{\sqrt{3}}$ ב. $\tan x = -1$

4) כתוב את הפתרון הכללי של המשוואות הבאות (זווית כללית):

א. $\sin x = 0.7$ ב. $\cos x = -0.6$ ג. $\tan x = 5$

5) כתוב את הפתרון הכללי של המשוואות הבאות (משוואות לא מסודרות):

א. $\sin 3x = \frac{1}{2}$ ב. $2\cos 2x = -\sqrt{3}$

ג. $\tan 5x = -1$ ד. $3\sin 2x = 2$

ה. $3\cos 3x = 1$ ו. $2\tan 4x = 1$

6) כתוב את הפתרון הכללי של המשוואות הבאות (ארגומנט מורכב):

א. $\sin(2x+30°) = -\frac{\sqrt{3}}{2}$ ב. $\cos(75°-3x) = \frac{\sqrt{2}}{2}$ ג. $\tan(50°-x) = 1.3$

7) כתוב את הפתרון הכללי של המשוואות הבאות (פונקציות עם ארגומנטים שונים):

א. $\sin x = \sin 3x$ ב. $\sin 2x = \sin(x+30°)$

ג. $\sin x = \sin(120°-x)$ ד. $\cos x = \cos 3x$

ה. $\cos x = \cos(40°-x)$ ו. $\tan x = \tan 3x$

ז. $\tan 2x = \tan(60°-x)$

8) כתוב את הפתרון הכללי של המשוואות הבאות (משוואות מיוחדות):

א. $\sin x = 0$ ב. $\sin x = 1$

ג. $\sin x = -1$ ד. $\cos x = 0$

ה. $\cos x = 1$ ו. $\cos x = -1$

ז. $\tan x = 0$ ח. $\tan x = 1$

תשובות סופיות:

1) א. $x_1 = 30° + 360°k \ , \ x_2 = 150° + 360°k$
ב. $x_1 = 45° + 360°k \ , \ x_2 = 135° + 360°k$
ג. $x_1 = -60° + 360°k \ , \ x_2 = 240° + 360°k$
ד. $x_1 = -30° + 360°k \ , \ x_2 = 210° + 360°k$.

2) א. $x_{1,2} = \pm 60° + 360°k$
ב. $x_{1,2} = \pm 150° + 360°k$.

3) א. $x = 30° + 180°k$
ב. $x = 135° + 180°k$.

4) א. $x_1 = 44.427° + 360°k \ , \ x_2 = 135.573° + 360°k$
ב. $x_{1,2} = 126.87° + 360°k$
ג. $x = 78.69° + 180°k$.

5) א. $x_1 = 10° + 120°k \ , \ x_2 = 50° + 120°k$
ב. $x_1 = 75° + 180°k \ , \ x_2 = -75° + 180°k$
ג. $x = -9° + 36°k$
ד. $x_1 = 20.9° + 180°k \ , \ x_2 = 69.09° + 180°k$
ה. $x_{1,2} = \pm 23.5° + 120°k$
ו. $x = 6.64° + 45°k$.

6) א. $x_1 = 105° + 180°k \ , \ x_2 = -45° + 180°k$
ב. $x_1 = 10° + 120°k \ , \ x_2 = 40° + 120°k$
ג. $x = -2.431° + 180°k$.

7) א. $x_1 = 180°k \ , \ x_2 = 45° + 90°k$
ב. $x_1 = 30° + 360°k \ , \ x_2 = 50° + 120°k$
ג. $x = 60° + 180°k$
ד. $x = 90°k$
ה. $x = 20° + 180°k$
ו. $x = 180°k$
ז. $x = 20° + 60°k$.

8) א. $x = 180°k$
ב. $x = 90° + 360°k$
ג. $x = 180° + 360°k$
ד. $x = 90° + 180°k$
ה. $x = 360°k$
ו. $x = 180° + 360°k$
ז. $x = 180°k$
ח. $x = 45° + 180°k$.

משוואות הנפתרות ע"י טכניקה אלגברית:

סיכום כללי:

נעזר בטכניקה אלגברית בכדי להביא משוואה מורכבת לצורה של משוואה יסודית.

טכניקות שכיחות:

- הוצאת שורש ריבועי.
- פירוק לגורמים (ע"י הוצאת גורם משותף, ע"י נוסחאות הכפל המקוצר וע"י פירוק טרינום).
- פתרון משוואה ריבועית.

שאלות:

כתוב את הפתרון הכללי של המשוואות הבאות (טכניקה אלגברית):

1) $\cos^2 x = \frac{3}{4}$

2) $\sin^2 x = \frac{1}{4}$

3) $\tan^2 2x = 3$

4) $\sin x \cos 3x = 0$

5) $\sin 2x - 2\sin^2 2x = 0$

6) $2\cos^2 x + \sqrt{3}\cos x = 0$

7) $2\sin^2 x - \sin x - 1 = 0$

8) $3\sin^2 x - \sin x = 2$

9) $6\sin^2 x - \sin x - 1 = 0$

10) $\cos^2 x + 2\cos x = 3$

11) $\tan^2 x - 3\tan x - 4 = 0$

12) $\tan^2 x = 4\tan x - 1$

13) $\cos x - \frac{2}{\cos x} + 1 = 0$

14) $\frac{\sin x}{\cos x - 1} = 0$

15) $\frac{\cos 2x}{\tan x + 1} = 0$

תשובות סופיות:

1) $x_{1,2}=\pm 30°+360°k$, $x_{3,4}=\pm 150°+360°k$.

2) $x_1=30°+360°k$, $x_2=150°+360°k$, $x_3=330°+360°k$, $x_4=210°+360°k$.

3) $x_1=30°+90°k$, $x_2=-30°+90°k$.

4) $x_1=180°k$, $x_2=30°+60°k$.

5) $x_1=90°k$, $x_2=15°+180°k$, $x_3=75°+180°k$.

6) $x_1=90°+180°k$, $x_{2,3}=\pm 150°+360°k$.

7) $x_1=90°+360°k$, $x_2=210°+360°k$, $x_3=-30°+360°k$.

8) $x_1=90°+360°k$, $x_2=-41.8°+360°k$, $x_3=221.8°+360°k$.

9) $x_1=30°+360°k, x_2=150°+360°k, x_3=-19.4°+360°k, x_4=199.4°+360°k$.

10) $x=360°k$.

11) $x_1=-45°+180°k$, $x_2=75.964°+180°k$.

12) $x_1=75°+180°k$, $x_2=15°+180°k$.

13) $x=360°k$.

14) $x=180°+360°k$.

15) $x=45°+90°k$, $x\neq -45°+180°k$.

משוואות הנפתרות ע"י זהויות יסוד:

סיכום כללי:

כאשר משוואה מכילה יותר מפונקציה טריגונומטרית אחת, יש תחילה להעביר אותה למשוואה שקולה המכילה פונקציה טריגונומטרית אחת.
לאחר מכן ניתן לבצע פעולות אלגבריות בכדי לקבל משוואות יסודיות ולכתוב את הפתרון עבור כל אחת. לשם כך נעזר בזהויות טריגונומטריות.

תזכורת – זהויות היסוד הטריגונומטריות:

קשרים בין פונקציות	$\tan\alpha=\frac{\sin\alpha}{\cos\alpha}$, $\cot\alpha=\frac{\cos\alpha}{\sin\alpha}$	$\sin^2\alpha+\cos^2\alpha=1$ $\tan\alpha\cdot\cot\alpha=1$
זוויות משלימות ל- $90°$	$\cos\alpha=\sin(90°-\alpha)$	$\sin\alpha=\cos(90°-\alpha)$
	$\cot\alpha=\tan(90°-\alpha)$	$\tan\alpha=\cot(90°-\alpha)$
קשרים בין פונקציות	$\cot^2\alpha+1=\frac{1}{\sin^2\alpha}$	$\tan^2\alpha+1=\frac{1}{\cos^2\alpha}$

שאלות:

כתוב את הפתרון הכללי של המשוואות הבאות:

1) $\sin x=\cos x$

2) $\sin x=\cos(x+45°)$

3) $\cos x=\frac{2}{3}\sin^2 x$

4) $2\cos^2 x=3\sin x$

5) $\sin^2 x-\cos x=\frac{1}{4}$

6) $\cos^2 x-\sin^2 x=\sin x$

7) $\sin^2 x+2\cos^2 x=1.5$

8) $\sin x-\tan x=0$

תשובות סופיות:

1) $x = 45° + 180°k$.
2) $x = 22.5° + 180°k$.
3) $x_{1,2} = \pm 60° + 360°k$.
4) $x_1 = 30° + 360°k$, $x_2 = 150° + 360°k$.
5) $x_{1,2} = \pm 60° + 360°k$.
6) $x_1 = 30° + 120°k$, $x_2 = -90° + 360°k$
7) $x_{1,2} = \pm 45° + 360°k$, $x_{3,4} = \pm 135° + 360°k$.
8) $x = 180°k$.

משוואות הנפתרות ע"י זהויות של מעגל היחידה:

סיכום כללי:

כאשר משוואה מכילה יותר מפונקציה טריגונומטרית אחת, יש תחילה להעביר אותה למשוואה שקולה המכילה פונקציה טריגונומטרית אחת.
לאחר מכן ניתן לבצע פעולות אלגבריות בכדי לקבל משוואות יסודיות ולכתוב את הפתרון עבור כל אחת. לשם כך נעזר בזהויות טריגונומטריות.

תזכורת – זהויות של מעגל היחידה:

רביע	סינוס	קוסינוס	טנגנס
I II III	$\sin(180^o-\alpha)=\sin\alpha$ $\sin(180^o+\alpha)=-\sin\alpha$	$\cos(180^o-\alpha)=-\cos\alpha$ $\cos(180^o+\alpha)=-\cos\alpha$ $\cos(-\alpha)=\cos\alpha$	$\tan(180^o-\alpha)=-\tan\alpha$ $\tan(180^o+\alpha)=\tan\alpha$ $\tan(-\alpha)=-\tan\alpha$
סימנים	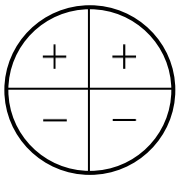	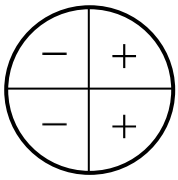	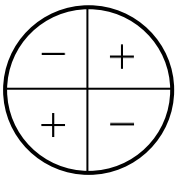

זהויות עבור זוויות הגדולות מ-360 מעלות:

$$\boxed{\begin{array}{l}\tan(\alpha+180°k)=\tan\alpha\\ \cot(\alpha+180°k)=\cot\alpha\end{array}}\quad,\quad\boxed{\begin{array}{l}\sin(\alpha+360°k)=\sin\alpha\\ \cos(\alpha+360°k)=\cos\alpha\end{array}}$$

שאלות:

כתוב את הפתרון הכללי של המשוואות הבאות:

1) $\sin x=-\sin 3x$
2) $\cos 2x=-\cos 3x$
3) $\sin(x+30°)=-\cos x$
4) $\sin 3x=-\cos(180°-x)$

תשובות סופיות:

1) $x_1=90°k\ ,\ x_2=-90°+180°k$
2) $x_1=180°+360°k\ ,\ x_2=36°+72°k$
3) $x=120°+180°k$
4) $x_1=22.5°+90°k\ ,\ x_2=45°+180°k$

משוואות הנפתרות על ידי חלוקה בקוסינוס:

סיכום כללי:

טכניקה יעילה כדי להעביר משוואה מהצורה: $\sin x = a\cos x$ לפונקציה טריגונומטרית אחת היא ע"י חלוקה ב-$\cos x$ (בתנאי ש-$\cos x \neq 0$).
כך מתקבלת המשוואה:

$$\sin x = a\cos x \quad / : \cos x \neq 0$$
$$\frac{\sin x}{\cos x} = a\frac{\cos x}{\cos x}$$
$$\tan x = a$$
$$x = \tanh^{-1}(a) + 180°k$$

הערה:

יש לבדוק האם ערכי x שמקיימים $\cos x = 0$ מהווים פתרון למשוואה.
אם כן אז יש להוסיף אותם לפתרון הסופי.

שאלות:

כתוב את הפתרון הכללי של המשוואות הבאות:

1) $\sin x = 2\cos x$
2) $3\sin x = \cos x$
3) $4\sin x = 7\cos x$
4) $2\sin x = -5\cos x$
5) $\sin^2 x = 8\cos^2 x$
6) $3\sin^2 x = \cos^2 x$

תשובות סופיות:

1) $x = 63.43° + 180°k$.
2) $x = 18.43° + 180°k$.
3) $x = 60.25° + 180°k$.
4) $x = -68.19° + 180°k$.
5) $x_1 = 70.52° + 180°k$, $x_2 = -70.52° + 180°k$.
6) $x_1 = 30° + 180°k$, $x_2 = -30° + 180°k$.

משוואות הנפתרות על ידי זהויות של סכום והפרש זוויות:

סיכום כללי:

כאשר משוואה מכילה יותר מפונקציה טריגונומטרית אחת, יש תחילה להעביר אותה למשוואה שקולה המכילה פונקציה טריגונומטרית אחת.
לאחר מכן ניתן לבצע פעולות אלגבריות בכדי לקבל משוואות יסודיות ולכתוב את הפתרון עבור כל אחת. לשם כך נעזר בזהויות טריגונומטריות.

תזכורת – זהויות של סכום והפרש זוויות:

סכום והפרש עבור סינוס וקוסינוס	$\sin(\alpha\pm\beta)=\sin\alpha\cos\beta\pm\sin\beta\cos\alpha$ $\cos(\alpha\pm\beta)=\cos\alpha\cos\beta\mp\sin\alpha\sin\beta$
סכום והפרש עבור טנגנס וקוטנגנס	$\tan(\alpha\pm\beta)=\dfrac{\tan\alpha\pm\tan\beta}{1\mp\tan\alpha\tan\beta}$ $\cot(\alpha\pm\beta)=\dfrac{\cot\alpha\cot\beta\mp1}{\cot\beta\pm\cot\alpha}$

שאלות:

כתוב את הפתרון הכללי של המשוואות הבאות:

1) $2\sin x=\sin(60°-x)$

2) $\sin(x+45°)\sin(x-45°)=\frac{1}{2}$

3) $\frac{\cos 3x}{\sin x}-\frac{\sin 3x}{\cos x}=2$

4) $3\cos^2 x-\sin^2 x=\sin 3x$

תשובות סופיות:

1) $x=19.11°+180°k$.

2) $x=90°+180°k$.

3) $x=15°+60°k$.

4) $x_{1,2}=\pm60°+180°k$, $x_3=90°+360°k$.

משוואות הנפתרות ע"י זהויות של זווית כפולה:

סיכום כללי:

כאשר משוואה מכילה יותר מפונקציה טריגונומטרית אחת, יש תחילה להעביר אותה למשוואה שקולה המכילה פונקציה טריגונומטרית אחת.
לאחר מכן ניתן לבצע פעולות אלגבריות בכדי לקבל משוואות יסודיות ולכתוב את הפתרון עבור כל אחת. לשם כך נעזר בזהויות טריגונומטריות.

תזכורת – זהויות של זווית כפולה:

סינוס זווית כפולה	$\sin 2\alpha = 2\sin\alpha\cos\alpha$
קוסינוס זווית כפולה	$\cos 2\alpha = \cos^2\alpha - \sin^2\alpha = 2\cos^2\alpha - 1 = 1 - 2\sin^2\alpha$

שאלות:

כתוב את הפתרון הכללי של המשוואות הבאות:

1) $\sin x - \sin 2x = 0$

2) $\sqrt{2}\sin x + \sin 2x = 0$

3) $4\cos x = \sin 2x$

4) $2\cos 2x + \sin 4x = 0$

5) $3\cos x - \cos 2x = 0$

6) $\cos 2x = 2\sin x$

7) $\sin x + \cos 2x = 1$

8) $2\sin^2 x = \cos 2x + 2$

תשובות סופיות:

1) $x_1 = 360°k$, $x_2 = 60° + 120°k$

2) $x_1 = 180°k$, $x_{2,3} = \pm 135° + 360°k$

3) $x = 90° + 180°k$

4) $x_1 = 45° + 90°k$, $x_2 = 135° + 180°k$

5) $x_{1,2} = \pm 106.307° + 360°k$

6) $x_1 = 21.1° + 360°k$, $x_2 = 158.9° + 360°k$

7) $x_1 = 180°k$, $x_2 = 30° + 360°k$, $x_3 = 150° + 360°k$.

8) $x_1 = -60 + 360°k$, $x_2 = 60° + 360°k$, $x_3 = 120° + 360°k$, $x_4 = 240° + 360°k$.

משוואות מהצורה: a sin(x) + b cos(x) = c :

סיכום כללי:

ניתן להביא משוואה מהצורה: $a\sin x+b\cos x=c$ לצורה: $\sin x+\frac{b}{a}\cos x=\frac{c}{a}$.

מציאת זווית α המקיימת: $\alpha=\tan^{-1}\left(\frac{b}{a}\right)$ תאפשר לכתוב: $\sin x+\tan\alpha\cdot\cos x=\frac{c}{a}$.

שימוש בזהות: $\tan\alpha=\frac{\sin\alpha}{\cos\alpha}$ ובזהות: $\sin(\alpha+\beta)=\sin\alpha\cos\beta+\sin\beta\cos\alpha$ יובילו:

$$\sin x+\frac{\sin\alpha}{\cos\alpha}\cdot\cos x=\frac{c}{a}\quad /\cdot\cos\alpha$$

$$\sin x\cos\alpha+\sin\alpha\cos x=\frac{c}{a}\cos\alpha$$

$$\sin(x+\alpha)=\frac{c}{a}\cos\alpha$$

אם נסמן: $\frac{c}{a}\cos\alpha=k$ נקבל את המשוואה: $\sin(x+\alpha)=k$ כאשר α ו- k ידועים.
מכאן הפתרון הוא ישיר לפי משוואת סינוס.

שאלות:

פתור את המשוואות הבאות:

1) $10\sin x+3\cos x=5$

2) $5\cos x-6\sin x=1$

3) $\sqrt{3}\sin 2x+3\cos 2x=\sqrt{12}$

4) $\frac{1}{2}\sin x+\sqrt{3}\cos^2\frac{x}{2}=\cos\frac{x}{2}$

5) $\cos x+\cos(60°+x)=\sqrt{2}+\cos(60°-x)$

תשובות סופיות:

1) $x_1=11.91°+360°k\ ,\ x_2=134.69°+360°k$

2) $x_1=227.156°+360°k\ ,\ x_2=32.44°+360°k$

3) $x=15°+180°k$

4) $x_1=-60°+720°k\ ,\ x_2=180°+360°k$

5) $x_1=-105°+360°k\ ,\ x_2=15°+360°k$

משוואות הנפתרות ע"י זהויות של סכום והפרש פונקציות:

סיכום כללי:

כאשר משוואה מכילה יותר מפונקציה טריגונומטרית אחת, יש תחילה להעביר אותה למשוואה שקולה המכילה פונקציה טריגונומטרית אחת.
לאחר מכן ניתן לבצע פעולות אלגבריות בכדי לקבל משוואות יסודיות ולכתוב את הפתרון עבור כל אחת. לשם כך נעזר בזהויות טריגונומטריות.

תזכורת – זהויות של סכום והפרש פונקציות:

סכום והפרש פונקציות עבור סינוס	$\sin\alpha+\sin\beta=2\sin\frac{\alpha+\beta}{2}\cos\frac{\alpha-\beta}{2}$ $\sin\alpha-\sin\beta=2\sin\frac{\alpha-\beta}{2}\cos\frac{\alpha+\beta}{2}$
סכום והפרש פונקציות עבור קוסינוס	$\cos\alpha+\cos\beta=2\cos\frac{\alpha+\beta}{2}\cos\frac{\alpha-\beta}{2}$ $\cos\alpha-\cos\beta=-2\sin\frac{\alpha+\beta}{2}\sin\frac{\alpha-\beta}{2}$

שאלות:

כתוב את הפתרון הכללי של המשוואות הבאות:

1) $\sin x+\sin 3x=\sin 2x$.

2) $\cos 2x-\cos 6x=\sin 2x$.

3) $\sin x+\sin 3x=4\sin^3 x$.

4) $\sin 6x-\sin 4x=1-\cos 2x$.

5) $(\sin 5x+\sin 7x)^2=(\cos 5x+\cos 7x)^2$.

6) $2\cos^2\frac{x}{2}+\cos 3x+\cos 5x=1$.

7) $1+\sin x+\sin 7x=\cos 8x$.

8) $2\sin 3x(\cos 2x+\cos x)=\sin x+\sin 2x$.

9) $\sin(x+60^\circ)-\sin x=\sin(2x+60^\circ)-\sin 2x$.

10) $\cos^2 3x - \cos^2 x = \sin x \cos x$.

11) $\sin 8x \sin 2x + \cos 10x = 0$.

12) $\cos x + 3\sin x = 1 + 2\cos\frac{3x}{2}\cos\frac{x}{2}$.

13) $4\sin 2x \sin 5x \sin 7x - \sin 4x = 0$.

14) $4\cos x \cos 2x \cos 3x = 1$.

תשובות סופיות:

1) $x_{1,2} = \pm 60° + 360°k$, $x_3 = 90°k$.

2) $x_1 = 45° + 90°k$, $x_2 = 180°k$.

3) $x_1 = 37.5° + 90°k$, $x_2 = 7.5° + 90°k$, $x_3 = 90°k$.

4) $x_1 = 15° + 60°k$, $x_2 = 180°k$, $x_3 = -22.5° + 90°k$.

5) $x_1 = 36°k$, $x_2 = \left(\frac{180}{7}\right)° + \left(\frac{180}{7}\right)°k$.

6) $x_{1,2} = \pm 30° + 90°k$, $x_3 = 90° + 180°k$.

7) $x_1 = -\left(12\frac{6}{7}\right)°k + \left(51\frac{3}{7}\right)°k$, $x_2 = 45°k$.

8) $x_1 = 40°k$, $x_2 = 180° + 360°k$.

9) $x_1 = -20° + 120°k$, $x_2 = 360°k$.

10) $x_1 = 52.5° + 90°k$, $x_2 = -7.5° + 90°k$, $x_3 = 90°k$.

11) $x_1 = 45° + 90°k$, $x_2 = 11.25° + 22.5°k$.

12) $x_1 = 30° + 360°k$, $x_2 = 150° + 360°k$.

13) $x_1 = 7.5° + 15°k$, $x_2 = 90°k$.

14) $x_1 = 60° + 180°k$, $x_2 = 22.5 + 45°k$.

משוואות עם תחום נתון:

סיכום כללי:

כדי למצוא את הפתרונות של משוואה טריגונומטרית בתחום נתון, נמצא תחילה את הפתרון הכללי שלה ולאחר מכן נציב ערכים ב- k ונבחר את הערכים שנמצאים בתחום הנתון.

שאלות:

מצא את כל הפתרונות של המשוואות הבאות בתחום הנתון לידן:

1) $8\sin x-4=0$, $[0°:180°]$.
2) $\sin 2x=\sin(x+60°)$, $[-90°:90°]$.
3) $3\cos(2x+30°)+1=0$, $[-90°:90°]$.
4) $\cos(50°-x)=-\cos x$, $[0°:360°]$.
5) $2\sin 3x-5\cos 3x=0$, $[-30°:30°]$.
6) $2\cos^2 3x=\sin 6x+1$, $[0°:180°]$.
7) $\cos 4x+1=3\sin 2x$, $[-180°:180°]$.
8) $\cos 2x+\cos^2 x+\sin x=0$, $[-180°:180°]$.

תשובות סופיות:

1) $x=30°\ ,\ 150°$.
2) $x=-80°\ ,\ 40°\ ,\ 60°$.
3) $x=39.736°\ ,\ -69.736°$.
4) $x=115°\ ,\ 295°$.
5) $x=22.733°$.
6) $x=7.5°\ ,\ 37.5°\ ,\ 67.5°\ ,\ 97.5°\ ,\ 127.5°\ ,\ 157.5°$.
7) $x=-165°\ ,\ -105°\ ,\ 15°\ ,\ 75°$.
8) $x=-138.19°\ ,\ -41.81°\ ,\ 90°$.

משוואות עם זוויות ברדיאנים:

סיכום כללי:

הגדרת הרדיאן:

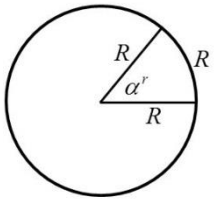

זווית של רדיאן אחד מוגדרת להיות הזווית המרכזית המתאימה לקשת שאורכה שווה לרדיוס המעגל.

עבור מעגל שרדיוסו R, תימצאנה 2π רדיאנים על היקפו, שכן היקף מעגל הוא $P=2\pi\cdot R$.

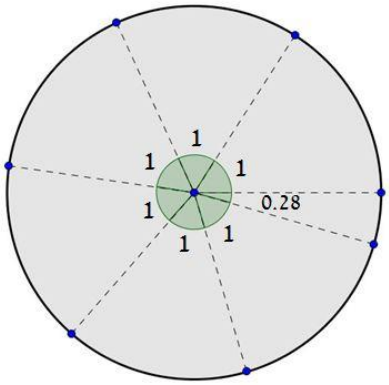

באיור שלפניך ניתן לראות חלוקה של מעגל ל-$2\pi=6.28$ קשתות אשר שוות לרדיוס המעגל.
הזווית של כל קשת כזאת שווה לרדיאן אחד,
כאשר הזווית האחרונה שווה ל-0.28 מרדיאן.
מקבלים 2π רדיאנים.

קשר בין רדיאנים למעלות:

- נוסחת מעבר מזווית α° (במעלות) לזווית α^r (ברדיאנים): $\alpha^r=\frac{\pi}{180}\alpha^\circ$.
- נוסחת מעבר מזווית α^r (ברדיאנים) לזווית α° (במעלות): $\alpha^\circ=\frac{180}{\pi}\alpha^r$.

פתרונות משוואות טריגונומטריות ברדיאנים:

להלן נוסחאות הפתרון של המשוואות הטריגונומטריות היסודיות כאשר x הוא משתנה ו- α היא זווית ידועה הנתונה ברדיאנים:

המשוואה	הפתרון
$\sin x=\sin\alpha$	$x_1=\alpha+2\pi k\ ,\ x_2=\pi-\alpha+2\pi k$
$\cos x=\cos\alpha$	$x_{1,2}=\pm\alpha+2\pi k$
$\tan x=\tan\alpha$	$x=\alpha+\pi k$
$\cot x=\cot\alpha$	$x=\alpha+\pi k$

כאשר k מספר שלם.

שאלות:

1) המר את הזוויות הבאות ממעלות לרדיאנים:

א. $30°$	ב. $90°$	ג. $75°$	ד. $120°$
ה. $210°$	ו. $315°$	ז. $18°$	ח. $285°$
ט. $-15°$	י. $-80°$	יא. $510°$	יב. $-390°$

2) המר את הזוויות הבאות מרדיאנים למעלות:

א. π	ב. 2π	ג. 4π	ד. 1.5π
ה. $\frac{1}{2}\pi$	ו. $\frac{\pi}{4}$	ז. $\frac{\pi}{6}$	ח. $\frac{1}{18}\pi$
ט. $\frac{13}{18}\pi$	י. $\frac{19}{12}\pi$	יא. $1\frac{1}{6}\pi$	יב. $2\frac{1}{4}\pi$

3) פתור את המשוואות הבאות בתחום שלידן (משוואות יסודיות שונות):

א. $2\sin 3x=1$, $\left[0:\frac{1}{3}\pi\right]$

ב. $\sqrt{3}+2\cos x=0$, $[0:\pi]$

ג. $3-3\tan\frac{x}{2}=0$, $[0:2\pi]$

ד. $\sin\left(2x-\frac{\pi}{4}\right)=\frac{\sqrt{2}}{2}$, $[0:\pi]$

ה. $4\cos\left(x+\frac{\pi}{3}\right)-2=0$, $\left[0:\frac{1}{2}\pi\right]$

ו. $\sin x=\sin\left(\frac{2}{3}\pi-2x\right)$, $\left[-\frac{5\pi}{18}:\frac{5\pi}{18}\right]$

ז. $5-5\tan(4x-0.1\pi)=0$, $\left[0:\frac{\pi}{3}\right]$

ח. $\sin\left(2x-\frac{\pi}{5}\right)=0.7$, $\left[-\frac{\pi}{4}:\frac{\pi}{4}\right]$

4) פתור את המשוואות הבאות בתחום שלידן (טכניקה אלגברית):

א. $\sin^2 x=\frac{3}{4}$, $\left[0:\frac{\pi}{2}\right]$

ב. $16\cos^2 2x-1=0$, $\left[-\frac{\pi}{8}:\frac{\pi}{8}\right]$

ג. $2\tan^2 x-18=0$, $[0:\pi]$

ד. $3\sin x\cos x+3\cos x=0$, $\left[-\frac{\pi}{3}:\frac{\pi}{3}\right]$

ה. $\sin^2 x-5\sin x\cos x=0$, $\left[-\frac{\pi}{2}:\frac{\pi}{2}\right]$

ו. $2\sin^2 x-5\sin x+2=0$, $[-\pi:\pi]$

ז. $4\cos^2 x-\sqrt{2}\cos x-1=0$, $[-\pi:0]$

ח. $\tan^2 x-7\tan x+10=0$, $[0:2\pi]$

5) פתור את המשוואות הבאות בתחום שלידן (שימוש בזהויות יסוד):

א. $0 \le x \le \pi \ , \ \sin x = \cos\left(x + \frac{\pi}{4}\right)$

ב. $0 \le x \le \pi \ , \ \tan x = 4\sin x$

ג. $0 \le x \le 2\pi \ , \ 2\sin^2 x = 3\cos x$

6) פתור את המשוואות הבאות בתחום שלידן (שימוש בזהויות ממעגל היחידה):

א. $[-\pi : \pi] \ , \ \sin\left(x - \frac{\pi}{6}\right) = -\sin x$

ב. $[0 : \pi] \ , \ \sin\left(2x + \frac{2}{9}\pi\right) = -\cos 2x$

ג. $[0 : \pi] \ , \ \sin 4x = -\cos(\pi - x)$

ד. $\left[-\frac{\pi}{2} : \frac{\pi}{2}\right] \ , \ \tan x = -\tan 2x$

7) פתור את המשוואות הבאות בתחום שלידן (זהויות של זווית כפולה):

א. $-\pi \le x \le \pi \ , \ \sin 2x + \cos^2 x = 0$

ב. $[-\pi : \pi] \ , \ \cos 4x + 1 = 3\sin 2x$

ג. $-\frac{\pi}{2} \le x \le \frac{\pi}{2} \ , \ 2\sin^2 x = \cos 2x + 2$

ד. $0 \le x \le \pi \ , \ \cos 4x + \sin^2 x = 1$

תשובות סופיות:

1) א. $\frac{\pi}{6}$ ב. $\frac{\pi}{2}$ ג. $\frac{5\pi}{12}$ ד. $\frac{2\pi}{3}$ ה. $\frac{7\pi}{6}$

ו. $\frac{7\pi}{4}$ ז. $\frac{\pi}{10}$ ח. $\frac{19\pi}{12}$ ט. $-\frac{\pi}{12}$ י. $-\frac{4\pi}{9}$

יא. $\frac{17\pi}{6}$ יב. $-\frac{13\pi}{6}$.

2) א. $180°$ ב. $360°$ ג. $720°$ ד. $270°$ ה. $90°$

ו. $45°$ ז. $30°$ ח. $10°$ ט. $130°$ י. $285°$

יא. $210°$ יב. $405°$.

3) א. $\frac{5\pi}{18}$, $x=\frac{\pi}{18}$ ב. $x=\frac{5\pi}{6}$ ג. $x=\frac{\pi}{2}$ ד. $\frac{\pi}{2}$, $x=\frac{\pi}{4}$

ה. $x=0$ ו. $x=\frac{2\pi}{9}$ ז. $x=0.0875\pi$ ח. $x=0.224\pi$.

4) א. $x=\frac{\pi}{3}$ ב. ϕ ג. $x=0.398\pi, 0.602\pi$ ד. ϕ

ה. $x=0, 0.437\pi$ ו. $\frac{5\pi}{6}$, $x=\frac{\pi}{6}$

ז. -0.615π , $x=-\frac{\pi}{4}$ ח. 1.437π , 1.352π , 0.437π , $x=0.352\pi$.

5) א. $x=\frac{\pi}{8}$ ב. π , 0.42π , $x=0$ ג. $\frac{5\pi}{3}$, $x=\frac{\pi}{3}$

6) א. $-\frac{11\pi}{12}$, $x=\frac{\pi}{12}$ ב. $\frac{59\pi}{72}$, $x=\frac{23\pi}{72}$

ג. $\frac{9\pi}{10}$, $\frac{5\pi}{6}$, $\frac{\pi}{2}$, $\frac{\pi}{6}$, $x=\frac{\pi}{10}$ ד. 0 , $x=\pm\frac{\pi}{3}$.

7) א. 0.852π , -0.148π , $x=\pm\frac{\pi}{2}$ ב. $\frac{11\pi}{12}$, $\frac{5\pi}{12}$, $\frac{\pi}{12}$, $x=-\frac{7\pi}{12}$

ג. $x=\pm\frac{\pi}{3}$ ד. π , 0.61π , 0.38π , $x=0$.

אי שוויונים טריגונומטריים:

סיכום כללי:

כדי לפתור אי-שוויון טריגונומטרי בתחום מסוים נבצע את השלבים הבאים:

1. נהפוך את סימן אי השוויון לסימן שוויון ונפתור את המשוואה המתקבלת.
2. נסדר את כל הפתרונות על ציר מספרים ונבחר ערך בכל תחום.
3. נציב את הערכים באי השוויון המקורי ונאמר כי:
   - אם מתקבל פסוק אמת אז תחום זה מהווה פתרון של אי השוויון.
   - אם מתקבל פסוק שקר אז תחום זה אינו פתרון של אי השוויון.
4. נרכז את כל התחומים ונכתוב את הפתרון המלא.

הערה:

במידה והמשוואה אינה מוגדרת עבור ערך מסוים הערך הזה מוכנס גם לציר המספרים.

שאלות:

פתור את אי השוויונים הבאים בתחום הרשום לידם:

1) $\sin x < \frac{1}{2}$ $[0,180°]$

2) $2\cos x - \sqrt{3} \geq 0$ $[0,1.5\pi]$

3) $2\cos^2 x + \sin x \geq 1$ $(-90°,90°)$

4) $\sin x + \sin 2x + \sin 3x < 0$ $[0,\pi]$

5) $1 < 2\sin(x+10°) < \sqrt{3}$ $[0°,180°]$

6) $\sin x + \sqrt{3}\cos x \geq 1$ $(0 < x < \pi)$

7) $\tan x + \cot x > 0$ $[0,2\pi]$

8) $|\tan(x)| > \frac{1}{\sqrt{3}}$ $(-\pi < x < \pi)$

תשובות סופיות:

1) $0^\circ \le x < 30^\circ$, $150^\circ \le x \le 180^\circ$.

2) $0 \le x \le \frac{\pi}{6}$.

3) $-30^\circ \le x < 90^\circ$.

4) $\frac{\pi}{2} < x < \frac{2\pi}{3}$.

5) $20^\circ < x < 50^\circ$, $110^\circ < x < 140^\circ$.

6) $0 < x \le \frac{\pi}{2}$.

7) $0 < x < \frac{\pi}{2}$, $\pi < x < \frac{3}{2}\pi$.

8) $x \ne \frac{\pi}{2}$, $\frac{\pi}{6} < x < \frac{5\pi}{6}$ או : $x \ne -\frac{\pi}{2}$, $-\frac{5\pi}{6} < x < -\frac{\pi}{6}$.

מכינה במתמטיקה לתלמידי כלכלה

פרק 11 - חוקי החזקות והשורשים

תוכן העניינים

1. חוקי החזקות 134
2. חוקי השורשים 139
3. כתיבה מדעית של מספרים 143

חוקי החזקות:

סיכום כללי:

סיכום חוקי החזקות:

1. $a^0=1$
2. $a^1=a$
3. $a^n\cdot a^m=a^{m+n}$
4. $\frac{a^n}{a^m}=a^{n-m}$
5. $\left(a^n\right)^m=a^{n\cdot m}$
6. $a^m\cdot b^m=\left(a\cdot b\right)^m$
7. $\frac{a^m}{b^m}=\left(\frac{a}{b}\right)^m$
8. $a^{-m}=\frac{1}{a^m}$
9. $\left(\frac{a}{b}\right)^{-m}=\left(\frac{b}{a}\right)^m$

שאלות:

1) פשט את הביטויים הבאים בעזרת החוקים: $a^na^m=a^{n+m}$ ו- $\frac{a^n}{a^m}=a^{n-m}$.

א. a^2a^6 ב. $t^3t^5t^7$ ג. $b^2b^5b^{12}b^3$

ד. $\frac{k^8}{k^3}$ ה. $\frac{n^{14}}{n^9}$ ו. $\frac{c^6}{c^2}$

ז. $\frac{a^3a^{19}}{a^{15}}$ ח. $\frac{x^{30}}{x^9x^{18}}$ ט. $\frac{y^3y^{15}}{y^4y^{14}}$

י. $3^23^33^4$ יא. $\frac{2^{16}2^2}{2^{10}}$ יב. $\frac{5^{20}5^35^{16}}{5^45^{22}5^8}$

2) פשט את הביטויים הבאים בעזרת החוקים: $a^na^m=a^{n+m}$ ו- $\frac{a^n}{a^m}=a^{n-m}$.

א. $\frac{3^42^7}{2^63^2}$ ב. $\frac{a^{10}b^{13}a^3}{b^4b^6b^2a^{12}}$ ג. $\frac{x^8y^5y^9x^2}{y^4x^4}$

3) לפניך הביטוי הבא: $\frac{3^62^{17}3^32^4}{3^42^32^2}$.

מצא n כך שיתקיים שוויון בין הביטוי $243\cdot 2^n$ לבין הביטוי הנתון.

4) חשב ללא מחשבון את ערכי הביטויים הבאים:

א. $\frac{2^3\cdot 2^7}{2^4\cdot 2^5}$ ב. $\frac{9^3\cdot 27^2}{3^9\cdot 81}$

ג. $\frac{10^9\cdot 25^5\cdot 8^{-1}}{40^3\cdot 125^5}$ ד. 2^3+2^5

5) פשט את הביטויים הבאים בעזרת החוק: $\left(a^n\right)^m=a^{n\cdot m}$.

א. $\left(a^2\right)^4$ ב. $\left(c^3\right)^{10}$ ג. $\left(x^3x^{10}\right)^2$

ד. $\frac{\left(b^2\right)^3}{b^2b^3}$ ה. $\frac{n^7n^8}{\left(n^3\right)^4}$ ו. $\frac{d^{20}\left(d^4\right)^2}{d^{12}\left(d^3\right)^2}$

ז. $\frac{2^5\left(2^4\right)^2 2^3}{\left(2^32^2\right)^3}$ ח. $\frac{3^6\left(3^33^2\right)^6}{3^{28}\left(3^2\right)^3}$ ט. $\frac{\left(8^3\right)^8 8^{11}}{\left(8^28\right)^3 8^8}$

י. $\frac{\left(2^4\right)^5\left(3^6\right)^7 2^{20}}{3^{35}2^{40}}$ יא. $\frac{\left(3^2\right)^6 5^{31}3^7}{\left(5^2\right)^{10} 5^{11}3^{18}}$ יב. $\frac{\left(3^2\right)^7 5^{10}\left(5^3\right)^2}{3^95^{16}}$

6) לפניך הביטויים הבאים: $\left(\left(3^2\right)^3\right)^4$ ו- $\left(\left(3^6\right)^n\right)^2$.
מצא n כך שיתקיים שוויון בין שני הביטויים.

7) חשב ללא מחשבון את הביטויים הבאים:

א. $\frac{2^33^5}{2^{\,2}3^4}$ ב. $\frac{5^{20}3^{14}3^8}{3^{20}5^{12}5^8}$ ג. $\frac{7^{12}2^22^6}{2^57^{10}7}$

8) פשט את הביטויים הבאים:

א. $3^29\cdot 81^2$ ב. $64^22^38^2$ ג. $125\cdot 25\cdot 5^5$

ד. $\frac{2^4\cdot 16^5}{8\cdot 512}$ ה. $\frac{\left(4^2\right)^3 16}{64\cdot 2^3}$ ו. $\frac{\left(\left(3^4\right)^4\right)^5}{81^327^43^5}$

9) פשט את הביטויים הבאים:

א. $\dfrac{\left(2a^2b\right)^3\cdot\left(ab^{-3}\right)^2}{4ab^{-2}\cdot\left(\dfrac{a^2}{b}\right)^4}$

ב. $\dfrac{\left(k^2\right)^{m+2}\cdot k^{1-3m}}{\left(k^{2m}\right)^3\cdot\dfrac{1}{k^{7m-4}}}$

ג. $\dfrac{4^{b+3}}{4^{b+1}+4^{b+2}}$

ד. $\dfrac{1}{x^2}\cdot\dfrac{x^{n+3}+x^{n+5}}{x^{n+2}}$

10) פשט את הביטויים הבאים בעזרת החוקים: $\left(ab\right)^n=a^nb^n$ ו- $\left(\dfrac{a}{b}\right)^n=\dfrac{a^n}{b^n}$

א. $\left(a^2b\right)^3$

ב. $\left(m^4n^3\right)^5$

ג. $\left(x^{12}y^3\right)^3$

ד. $\left(\dfrac{a^3}{b^2}\right)^4$

ה. $\left(\dfrac{i^4}{k^3}\right)^7$

ו. $\left(\dfrac{a^{14}b^4}{a^6ab^3}\right)^3$

ז. $\left(\dfrac{x^3y^5y^2x^6}{y^4x^7}\right)^6$

ח. $\left(\dfrac{t^7r^{20}t^3}{r^2r^{12}t^8}\right)^2$

ט. $\left(\dfrac{\left(b^{12}c\right)^2c^{14}}{c\left(c^3b^5\right)^4b^3}\right)^2$

11) חשב ללא מחשבון את הביטויים הבאים:

א. $\left(\dfrac{3^92^62^2}{3^62^53^2}\right)^2$

ב. $\left(\dfrac{\left(5^4\right)^2\cdot3^6}{3^55^7}\right)^2$

ג. $\left(\dfrac{7^3\cdot16\cdot128\cdot49}{\left(2^27\right)^5}\right)^3$

12) בטא את הביטויים הבאים מחדש בעזרת שימוש בחזקה שלילית:

א. $\dfrac{1}{4^6}$

ב. $\dfrac{1}{5^3}$

ג. $\dfrac{1}{2^{10}}$

ד. $\dfrac{1}{8}$

ה. $\dfrac{1}{81}$

ו. $\dfrac{1}{125}$

13) בטא את הביטויים הבאים מחדש בעזרת שימוש בחזקה חיובית וחשב את ערכם:

א. $\dfrac{1}{4^{-3}}$

ב. $\dfrac{1}{3^{-2}}$

ג. $\dfrac{1}{5^{-3}}$

14) חשב את הביטויים הבאים:

א. $3^2\cdot 3^{-5}\cdot 3^7$

ב. $2^{-8}\cdot 512\cdot 2^2$

ג. $5^6\cdot 5^{-3}\cdot 5^{-2}$

ד. $2^{14}\cdot 3^{-6}\cdot 2^{16}\cdot 3^4\cdot 2^{-30}$

ה. $\frac{2^{-5}\cdot 5^3\cdot 2^{14}}{5^2\cdot 5^{-10}\cdot 5^8\cdot 2^6}$

ו. $\frac{3^{-6}\cdot 7^7\cdot 7^{-4}}{3^{-4}\cdot 3^{-3}\cdot 7^3}$

15) פשט את הביטויים הבאים לצורה ללא חזקות שליליות.

א. $\left(\frac{5^{-4}}{3^2}\right)^{-6}$

ב. $\frac{\left(4^4\right)^{-4}3^{-11}}{\left(3^{-2}4^3\right)^{-6}}$

ג. $\frac{2^{-3}5^4}{5^4\cdot 125\cdot\left(5^2 2\right)^{-3}\cdot 2^{-4}}$

16) פשט את הביטויים הבאים:

א. $\frac{a^{n+2}\cdot a^{2-3n}}{\left(a^3\right)^{n+1}}$

ב. $\frac{\left(k^2\right)^{m+2}\cdot k^{1-3m}}{\left(k^{2m}\right)^3\cdot\frac{1}{k^{7m-4}}}$

ג. $\frac{\left(m^{n+2}\right)^3\cdot m^{-4n-2}}{\frac{1}{m^{6n+2}}\cdot\left(m^3\right)^{n-2}}$

תשובות סופיות:

1) א. a^8 ב. t^{15} ג. b^{22} ד. k^5 ה. n^5 ו. c^4

ז. a^7 ח. x^3 ט. 1 י. 3^9 יא. 2^8 יב. 5^5.

2) א. 18 ב. ab ג. x^6y^{10}.

3) $n=16$.

4) א. 2 ב. $\frac{1}{3}$ ג. $\frac{5}{8}$ ד. 40.

5) א. a^8 ב. c^{30} ג. x^{26} ד. b ה. n^3 ו. d^{10}

ז. 2 ח. 9 ט. 8^{18} י. 3^7 יא. 3 יב. 3^5.

6) $n=2$.

7) א. 6 ב. 9 ג. 56.

8) א. 3^{12} ב. 2^{21} ג. 5^{10} ד. 2^{12} ה. 2^7 ו. 3^{51}.

9) א. $\frac{2b^3}{a}$ ב. k ג. $3\frac{1}{5}$ ד. $\frac{1}{x}+x$.

10) א. a^6b^3 ב. $m^{20}n^{15}$ ג. $x^{36}y^9$ ד. $\frac{a^{12}}{b^8}$ ה. $\frac{i^{28}}{k^{21}}$ ו. $a^{21}b^3$

ז. $x^{12}y^{18}$ ח. t^4r^{12} ט. b^2c^6.

11) א. 576 ב. 225 ג. 8

12) א. 4^{-6} ב. 5^{-3} ג. 2^{-10} ד. 2^{-3} ה. 3^{-4} ו. 5^{-3}.

13) א. 64 ב. 9 ג. 125.

14) א. 81 ב. 8 ג. 5 ד. $\frac{1}{9}$ ה. 1000 ו. 3.

15) א. $5^{24}\cdot 3^{12}$ ב. $\frac{4^2}{3^{23}}$ ג. $5^3\cdot 2^4$.

16) א. a^{1-5n} ב. k ג. m^{2n+12}.

חוקי השורשים:

סיכום כללי:

סיכום חוקי השורשים:

1. $\sqrt{a}=a^{\frac{1}{2}}$
2. $\sqrt[m]{a}=a^{\frac{1}{m}}$
3. $\sqrt[m]{a^n}=a^{\frac{n}{m}}$
4. $\sqrt[m]{a}\cdot\sqrt[m]{b}=\sqrt[m]{a\cdot b}$
5. $\frac{\sqrt[m]{a}}{\sqrt[m]{b}}=\sqrt[m]{\frac{a}{b}}$
6. $\sqrt[n]{\sqrt[m]{a}}=\sqrt[m\cdot n]{a}$

שאלות:

17) הבא את הביטויים הבאים לצורה: $\sqrt[n]{a^m}$.

א. $3^{\frac{1}{4}}$ ב. $2^{\frac{3}{5}}$ ג. $6^{\frac{5}{6}}$

ד. $-12^{\frac{2}{7}}$ ה. $-(-4)^{\frac{1}{3}}$ ו. $-(-3)^{\frac{3}{4}}$

ז. $5^{-\frac{1}{4}}$ ח. $27^{-\frac{1}{3}}$ ט. $64^{-\frac{5}{6}}$

18) חשב ללא מחשבון את ערכם של הביטויים הבאים:

א. $\sqrt{49}$ ב. $-\sqrt{25}$ ג. $\sqrt[3]{8}$

ד. $-\sqrt[7]{128}$ ה. $\sqrt[3]{(-2)^6}$ ו. $\left(\sqrt[5]{1024}\right)^2$

ז. $\left(\sqrt[5]{-243}\right)^3$ ח. $\sqrt[4]{-16}$ ט. $\sqrt[4]{-25^2}$

י. $\sqrt[4]{(-25)^2}$

19) חשב ללא מחשבון את ערכם של הביטויים הבאים:

א. $8^{\frac{2}{3}}$ ב. $32^{-\frac{3}{5}}$ ג. $128^{-\frac{2}{7}}$

ד. $\left(\frac{1}{25}\right)^{-1.5}$ ה. $\left(2\frac{1}{4}\right)^{-2.5}$ ו. $\left(\frac{64}{343}\right)^{-\frac{2}{3}}$

ז. $81^{\frac{3}{4}}\cdot 64^{-\frac{1}{3}}$ ח. $343^{-\frac{2}{3}}\cdot 100^{\frac{1}{2}}$ ט. $16^{\frac{1}{4}}\cdot 8^{-\frac{1}{3}}\cdot 4^{-\frac{1}{2}}$

20) חשב ללא מחשבון את ערך הביטוי הבא: $\frac{\sqrt[5]{2^2}\cdot\sqrt{8}}{\sqrt[5]{128}}$.

21) פשט את הביטויים הבאים:

א. $\sqrt{2}\cdot\sqrt{8}$ ב. $\sqrt{3}\cdot\sqrt{27}$ ג. $\sqrt{4}\cdot\sqrt{5}\cdot\sqrt{20}$

ד. $\frac{\sqrt{72}}{\sqrt{2}}$ ה. $\frac{\sqrt[3]{81}}{\sqrt[3]{3}}$ ו. $\frac{\sqrt[5]{96}}{\sqrt[5]{3}}$

ז. $\frac{\sqrt[5]{2^2}\cdot\sqrt{8}}{\sqrt[5]{128}}$ ח. $\frac{\sqrt[3]{500}\cdot\sqrt{5}}{\sqrt[4]{25^2}\cdot\sqrt[3]{4}}$ ט. $\frac{\sqrt[3]{8^2}\sqrt[4]{25}}{\sqrt[4]{400}\sqrt{2}}$

22) הכנס לתוך שורש את המספרים החופשיים:

א. $3\sqrt{2}$ ב. $5\sqrt{3}$ ג. $\frac{\sqrt{36}}{2}$

ד. $2\sqrt[3]{3}$ ה. $x\sqrt{x}$

23) הכנס את כל המקדמים בביטויים הבאים לתוך השורש:

א. $2\sqrt{5}$ ב. $4\sqrt[3]{2}$ ג. $2\sqrt[5]{3}$

ד. $\frac{\sqrt{24}}{2}$ ה. $\frac{\sqrt[3]{24}}{2}$ ו. $\frac{3\sqrt[4]{5000}}{10}$

ז. $-5\sqrt[3]{2}$ ח. $-5\sqrt[4]{2}$ ט. $-5\sqrt[5]{-2}$

24) הוצא מהשורש את הכופל הגדול ביותר:

א. $\sqrt{12}$ ב. $\sqrt{48}$ ג. $\sqrt{63}$

ד. $\sqrt[3]{54}$ ה. $\sqrt{x^5}$

25) חלץ מן הביטויים הבאים את המקדם הגבוה ביותר ככל הניתן:

א. $\sqrt{40}$ ב. $\sqrt{50}$ ג. $\sqrt{320}$

ד. $\sqrt[3]{108}$ ה. $\sqrt[3]{56}$ ו. $\sqrt[5]{160}$

ז. $\sqrt[4]{162}$ ח. $\sqrt[5]{972}$ ט. $\sqrt[6]{192}$

26) פשט את הביטויים הבאים:

א. $\sqrt{18}-\sqrt{8}$ ב. $\sqrt{7}+\sqrt{63}$ ג. $\sqrt[3]{16}+\sqrt[3]{128}$

ד. $\sqrt[4]{405}-\sqrt[4]{80}$ ה. $\frac{20}{\sqrt{5}}$ ו. $\frac{\sqrt{8}}{2}$

ז. $\frac{16}{\sqrt{2}}$ ח. $\frac{6}{\sqrt{3}+\sqrt{12}}$ ט. $\frac{10}{\sqrt[5]{160}-\sqrt[5]{5}}$

27) פשט את הביטויים הבאים:

א. $3^{\frac{1}{4}}\cdot 9^{-2.5}\cdot 27^{\frac{3}{2}}$ ב. $2^{\frac{3}{4}}\cdot 16^{\frac{1}{2}}\cdot 64^{-3}$ ג. $125^{\frac{1}{6}}\cdot 5^{2}\cdot 5^{-\frac{2}{3}}$

ד. $\frac{27^{\frac{4}{3}}\cdot 3^{-\frac{2}{3}}}{9^{\frac{1}{6}}}$ ה. $\frac{49^{\frac{2}{5}}\cdot 7^{-\frac{6}{5}}}{343^{\frac{1}{5}}}$ ו. $\frac{512^{\frac{1}{4}}\cdot 64^{-\frac{3}{4}}}{128^{-\frac{1}{8}}\cdot 2^{-2}}$

תשובות סופיות:

17) א. $\sqrt[4]{3}$ ב. $\sqrt[5]{2^3}$ ג. $\sqrt[6]{6^5}$ ד. $-\sqrt[7]{12^2}$ ה. $-\sqrt[3]{-4}$ ו. ϕ

ז. $\frac{1}{\sqrt[4]{5}}$ ח. $\frac{1}{\sqrt[3]{27}}$ או $\frac{1}{3}$ ט. $\frac{1}{\sqrt[6]{64^5}}$ או $\frac{1}{2^5}$.

18) א. 7 ב. -5 ג. 2 ד. -2 ה. 4 ו. 16

ז. -27 ח. ϕ ט. ϕ י. 5.

19) א. 4 ב. $\frac{1}{8}$ ג. $\frac{1}{4}$ ד. 125 ה. $\frac{32}{243}$ ו. $\frac{49}{16}$

ז. $\frac{27}{4}$ ח. $\frac{10}{49}$ ט. $\frac{1}{2}$.

20) $\sqrt{2}$.

21) א. 4 ב. 9 ג. 20 ד. 6 ה. 3 ו. 2

ז. $\sqrt{2}$ ח. $\sqrt{5}$ ט. $\sqrt{2}$.

22) א. $\sqrt{18}$ ב. $\sqrt{75}$ ג. $\sqrt{9}$ ד. $\sqrt[3]{24}$ ה. $\sqrt{x^3}$.

23) א. $\sqrt{20}$ ב. $\sqrt[3]{128}$ ג. $\sqrt[5]{96}$ ד. $\sqrt{6}$ ה. $\sqrt[3]{3}$

ו. $\sqrt[4]{40\frac{1}{2}}$ ז. $\sqrt[3]{-250}$ ח. $-\sqrt[4]{1250}$ ט. $\sqrt[5]{5^5\cdot 2}$.

24) א. $2\sqrt{3}$ ב. $4\sqrt{3}$ ג. $3\sqrt{7}$ ד. $3\sqrt[3]{2}$ ה. $x^2\sqrt{x}$.

25) א. $2\sqrt{10}$ ב. $5\sqrt{2}$ ג. $8\sqrt{5}$ ד. $3\sqrt[3]{4}$ ה. $2\sqrt[3]{7}$ ו. $2\sqrt[5]{5}$

ז. $3\sqrt[4]{2}$ ח. $3\sqrt[5]{4}$ ט. $2\sqrt[6]{3}$.

26) א. $\sqrt{2}$ ב. $4\sqrt{7}$ ג. $6\sqrt[3]{2}$ ד. $\sqrt[4]{5}$ ה. $4\sqrt{5}$ ו. $\sqrt{2}$

ז. $8\sqrt{2}$ ח. $\frac{2}{\sqrt{3}}$ או $\frac{2\sqrt{3}}{3}$ ט. $\frac{10}{\sqrt[5]{5}}$ או $2\sqrt[5]{5^4}$.

27) א. $\frac{1}{\sqrt[4]{3}}$ ב. $\frac{1}{\sqrt[4]{2^{61}}}$ ג. $\sqrt[6]{5^{11}}$ ד. 27 ה. $\frac{1}{7}$ ו. $\sqrt[8]{2^5}$.

כתיבה מדעית של מספרים:

שאלות:

28) בטא את המספרים הבאים בכתיב מדעי:

א. 15,000,000
ב. 1,500,000
ג. 150,000,000,000
ד. 23,400,000
ה. 0.0003
ו. 0.00000042
ז. 0.000000042
ח. 0.00000000042

29) בטא את המספרים הבאים בכתיב מדעי:

א. $(3,000,000)^2$
ב. $(2,000,000)^2$
ג. $(5,000)^3$
ד. $(50,000)^3$
ה. $(0.0002)^4$
ו. $(0.00004)^3$
ז. $(0.000005)^3$
ח. $(0.000000007)^3$

תשובות סופיות:

28) א. $1.5\cdot10^{7}$ ב. $1.5\cdot10^{6}$ ג. $1.5\cdot10^{11}$ ד. $2.34\cdot10^{7}$ ה. $3\cdot10^{-4}$
ו. $4.2\cdot10^{-7}$ ז. $4.2\cdot10^{-8}$ ח. $4.2\cdot10^{-10}$.

29) א. $9\cdot10^{12}$ ב. $4\cdot10^{12}$ ג. $1.25\cdot10^{11}$ ד. $1.25\cdot10^{14}$ ה. $1.6\cdot10^{-15}$
ו. $6.4\cdot10^{-14}$ ז. $1.25\cdot10^{-16}$ ח. $3.43\cdot10^{-25}$.

מכינה במתמטיקה לתלמידי כלכלה

פרק 12 - משוואות ואי-שוויונים מעריכיים

תוכן העניינים

1. משוואות מעריכיות יסודיות 144
2. משוואות עם חיבור וחיסור איברים 146
3. משוואות עם קבוע אוילר 148
4. משוואות בהן המשתנה גם בבסיס 149
5. משוואות מסכמות שונות 150
6. מערכת משוואות מעריכיות 151
7. אי שוויונים מעריכיים 152
8. אי-שוויונים עם משתנה בבסיס ובמעריך 153

משוואות מעריכיות יסודיות:

סיכום כללי:

- פתרון כללי של משוואת מעריכית מהצורה: $a^x = a^y$ הוא: $x = y$.
- פתרון של משוואה מהצורה: $a^x = 1$ הוא: $x = 0$ שכן: $a^x = 1 = a^0$.
- פתרון של משוואה מהצורה: $a^x = b^x$ הוא: $x = 0$ שכן: $a^x = b^x = 1$ ללא תלות בבסיסים.

שאלות:

1) פתור את המשוואות הבאות (שימוש בחוקי החזקות היסודיים):

א. $2^x = 16$

ב. $5^x \cdot 25^{x+2} = 125$

ג. $10^{x-2} = 10000^{x+1}$

ד. $9^x \cdot 3^{x^2} = 81^{3x-4}$

ה. $\left(2^x \cdot 32\right)^3 = 8$

ו. $\left(5^{x^2}\right)^5 \cdot \frac{1}{5^5} = 625^{x-1}$

ז. $\frac{7^x}{343^3} = 1$

ח. $\left(25 \cdot 0.2^{2x}\right)^2 = \left(\frac{1}{125}\right)^{1-x}$

2) פתור את המשוואות הבאות (הבסיס הוא שבר):

א. $27 \cdot \left(\frac{3}{2}\right)^{5x+2} = 8$

ב. $\left(\frac{3}{4}\right)^{2-x} \cdot \left(\frac{4}{3}\right)^{3x} = \left(\frac{9}{16}\right)^{7+x}$

ג. $25\left(\frac{7}{5}\right)^{x^2-2x} \cdot \left(\frac{5}{7}\right)^{4-x} = 49$

3) פתור את המשוואות הבאות (שימוש בחוקי השורשים):

א. $\sqrt{27} \cdot \left(\frac{1}{3}\right)^{2x} = 9\sqrt{3}$

ב. $\sqrt{3^{x+7}} = 81$

ג. $\left(9\sqrt{27}\right)^{3x} \cdot 3^{2-x} = \frac{1}{9}$

ד. $\sqrt[x]{16} \cdot \left(\frac{1}{2^x}\right)^3 = \frac{1}{16}$

ה. $2^{\sqrt{x}} \frac{1}{\sqrt{2^x}} = 8\left(\sqrt{8}\right)^{-\sqrt{x}}$

ו. $5^x \frac{1}{25^5} = 125^{\sqrt{x}}$

4) פתור את המשוואות הבאות (מכפלת בסיסים שונים):

א. $2^x = 7^x$

ב. $3^x \cdot \frac{625}{\sqrt{25^x}} = 81$

ג. $2^{3x} \cdot 5^{3x} = 1000000$

ד. $2^{x+1} \cdot 3^{x-2} \cdot 7^x = 392$

ה. $243 \cdot 2^{x-1} \cdot 18^{x-9} = \frac{1}{3^{x-2}}$

ו. $108 \cdot \frac{1}{2^{1-2x}} = 72^x \cdot \sqrt{0.5}$

ז. $2^{2x+2} \cdot 5^{x+1} = \left(2\sqrt{5}\right)^{4-x}$

תשובות סופיות:

1) א. $x=4$ ב. $x=-\frac{1}{3}$ ג. $x=-2$ ד. $x=2,8$ ה. $x=-4$

ו. $x=1,-\frac{1}{5}$ ז. $x=9$ ח. $x=1$.

2) א. $x=-1$ ב. $x=-2$ ג. $x=3,-2$.

3) א. $x=-\frac{1}{2}$ ב. $x=1$ ג. $x=-\frac{8}{19}$ ד. $x=2,-\frac{2}{3}$ ה. $x=4,9$ ו. $x=25$.

4) א. $x=0$ ב. $x=4$ ג. $x=2$ ד. $x=2$ ה. $x=5$

ו. $x=1.5$ ז. $x=\frac{2}{3}$.

משוואות עם חיבור וחיסור איברים:

סיכום כללי:

במשוואות הכוללות חיבור וחיסור של איברים, נאתר את הבסיס עם המעריך הקטן ביותר ונסמן אותו ב-t, למשל במשוואה: $4^x-3\cdot 2^x=4$ נסמן: $2^x=t$.

נבטא את כל איברים המשוואה באמצעות t ונפתור אותה עבורו.
לאחר מכן נחזיר את ההצבה למציאת ערכי ה-x המתאימים.

שאלות:

1) פתור את המשוואות הבאות (משוואות יסודיות עם חיבור וחיסור ממעלה ראשונה):

א. $2^x+6\cdot 2^x=56$

ב. $8^x+3\cdot 8^x=256$

ג. $5\cdot 3^x-3^{x+1}=162$

ד. $2\cdot 6^x+6^{x+2}-6^{x-1}=227$

2) פתור את המשוואות הבאות (משוואות כלליות עם חיבור וחיסור ממעלה ראשונה):

א. $81^{x+1}+18\cdot 3^{4x-3}=735$

ב. $5^{3x+2}+4\cdot 125^x=29$

ג. $\left(2^{3x+1}\right)^2-64^{x-\frac{1}{3}}=15$

ד. $\sqrt{10000^{x+1}}-\sqrt[4]{10^{8x+1}}=\sqrt[4]{1000}\cdot\left(\sqrt[4]{10^7}-1\right)$

ה. $6^{-x}-5\cdot 36^{-\left(\frac{x}{2}+1\right)}=186$

ו. $5^{-x}+25^{\frac{1}{2}-\frac{x}{2}}-5^{-x-1}=145$

ז. $2\cdot 10^{x+1}+10^{x+2}=3\cdot 5^{x+1}$

ח. $4^{x+2}-6\cdot 4^x=7\cdot 12^{x+1}+6\cdot 12^x$

3) פתור את המשוואות הבאות (משוואות עם חיבור וחיסור ממעלה שנייה):

א. $9^x-36\cdot 3^x+243=0$

ב. $16^{x+1}-65\cdot 4^x+4=0$

ג. $6^x-4\cdot 6^{-x}+3=0$

ד. $4^{-x}-3\cdot 4^x+2=0$

ה. $\left(\frac{4}{9}\right)^x-\frac{5}{2}\cdot\left(\frac{3}{2}\right)^{-x-1}=-\frac{2}{3}$

ו. $\left(2^{\frac{1}{3}x+2}\right)^2-5\cdot 2^{\frac{1}{3}x+1}+1=0$

4) פתור את המשוואות הבאות (משוואות כלליות):

א. $\frac{20}{9^x+1}=3-\frac{8}{9^x-1}$

ב. $\frac{7^x}{7^x-4}+\frac{8}{7^x+5}=3$

5) פתור את המשוואות הבאות (משוואות מסכמות):

א. $\frac{1}{25^{1-x}}-6\cdot 5^{x-1.5}+1=0$

ב. $3^x-\sqrt{16\cdot 3^{x+1}}=-9$

ג. $36^x-6^{x+1}\cdot 3^x+8\cdot 9^x=0$

ד. $4\cdot 9^x-10\cdot 6^x+6\cdot 4^x=0$

ה. $25\cdot 5^{2x}+16\cdot 15^x=9^{x+1}$

ו. $9^x+4^x-6^x=\frac{7}{6^{1-x}}$

ז. $\frac{8^{2x}-8}{7}=4^x-2$

ח. $2^{3x}-2^{2x+2}-2^x+4=0$

תשובות סופיות:

1) א. $x=3$ ב. $x=2$ ג. $x=4$ ד. $x=1$.

2) א. $x=\frac{1}{2}$ ב. $x=0$ ג. $x=\frac{1}{3}$ ד. $x=\frac{1}{4}$

ה. $x=-3$ ו. $x=-2$ ז. $x=-3$ ח. $x=-2$

3) א. $x=2,3$ ב. $x=1,-2$ ג. $x=0$ ד. $x=0$

ה. $x=0,1$ ו. $x=-6,-9$.

4) א. $x=1,-\frac{1}{2}$ ב. $x=1$.

5) א. $x=\frac{1}{2},1\frac{1}{2}$ ב. $x=1,3$ ג. $x=1,2$ ד. $x=1,0$

ה. $x=-2$ ו. $x=1,-1$ ז. $x=0,\frac{1}{2}$ ח. $x=0,2$.

משוואות עם קבוע אוילר:

סיכום כללי:

קבוע אוילר מסומן באות e וערכו שווה (בערך) ל-2.71828.
למספר זה משמעויות רבות במתמטיקה ובמדעים ועל כן הוחלט לסמן אותו באות משלו ולשלב אותו במשוואות מתמטיות ועוד.

דרך הפתרון של משוואה שבה הבסיס הוא e זהה לחלוטין לשל משוואה מעריכית רגילה כפי שנלמד בפרק זה.

שאלות:

1) פתור את המשוואות הבאות (משוואות יסודיות עם קבוע אוילר):

א. $e^{3x}=e^{2x-1}$ ב. $e^{5x-1}=e\cdot e^{6x+1}$

ג. $e^{x-5}=\left(e^{1-x}\right)^3$ ד. $e^x\cdot\sqrt{e^{3x-1}}=\left(\frac{1}{e^x}\right)^{1-3x}$

2) פתור את המשוואות הבאות (משוואות עם חיבור וחיסור):

א. $e^2\cdot e^x-e^{x+1}=e-1$ ב. $\sqrt[3]{e^{x+1}}\cdot e^2=e^x\sqrt{e}$

ג. $e^{2x}+e^x-2=0$ ד. $e^{1+x}+e^{1-x}=e^2+1$

3) פתור את המשוואות הבאות (המשתנה גם בבסיס):

א. $xe^x=\sqrt[4]{e}\cdot x$ ב. $e^{3x}=x\cdot e^{3x}$

ג. $xe^{x^2}=\frac{x}{\sqrt{e^x}}$ ד. $\sqrt[3]{e^{3x-1}}\cdot x=xe^x$

תשובות סופיות:

1) א. $x=-1$ ב. $x=-3$ ג. $x=2$ ד. $x=1\,,\ \frac{1}{6}$.

2) א. $x=-1$ ב. $x=\frac{11}{4}$ ג. $x=0$ ד. $x=1\,,\ -1$.

3) א. $x=0\,,\ \frac{1}{4}$ ב. $x=1$ ג. $x=0\,,\ -\frac{1}{2}$ ד. $x=0$.

משוואות בהן המשתנה גם בבסיס:

סיכום כללי:

במשוואות עם משתנה בבסיס יש לדרוש תנאי עבורו הבסיס חיובי.
יש לקחת את חיתוך תחומי ההגדרה (במידה וקיימים ביטויים עם שורשים או שברים) יחד עם תוצאת השוואת המעריכים.

הערה:

יש לבדוק את ערכי ה- x עבורם הבסיס שווה ל-1 ולראות האם מתקבל פסוק אמת או פסוק שקר. בהתאם יש להוסיף או להוריד אותו מתחום המספרים המהווים את פתרון המשוואה.

שאלות:

פתור את המשוואות הבאות:

1) $\left(\sqrt{3-x}\right)^{\sqrt{x}}=\left(\sqrt[3]{3-x}\right)^{x}\cdot\sqrt{\sqrt[3]{3-x}}$.

2) $\left(1+\frac{1}{x}\right)^{x^2+x}=1$.

3) $\frac{|x-3|^{x^2-2}}{|x-3|^{x-1}}=|x-3|^{-1}$.

תשובות סופיות:

1) $x=\frac{1}{4}\ ,\ 1\ ,\ 2$

2) אין פתרון.

3) $x=0\ ,\ 1\ ,\ 2\ ,4$

משוואות מסכמות שונות:

שאלות:

פתור את המשוואות הבאות:

1) $5\left(2^x-2\right)+2=4^x-2^x$.

2) $\frac{6}{4^{x-1}-1}+\frac{2^{x+1}}{2^x+2}=\frac{2^x+4}{2^x-2}$.

3) $\frac{4^x}{4^x-10}-\frac{4}{2^{2x-1}-3}=\frac{32}{16^x-4^{x+2}+60}$.

4) $3^{2x^2+2}-3^{x^2+3}+9=3^{x^2+1}$.

5) $\sqrt[x]{10}=4\cdot\sqrt[2x]{10}+60$.

6) $\sqrt[x-1]{8\cdot 2^{x+1}}=\left(\sqrt[x]{2}\right)^2\cdot\sqrt[x-1]{\sqrt[x]{32}}$.

7) $10\cdot 4^{x+2}-16\cdot 10^x-90\cdot 6^x+36\cdot 15^x=0$.

תשובות סופיות:

1) $x=1,2$.
2) $x=3$.
3) $x=1.5$.
4) $x=1,-1$.
5) $x=\frac{1}{2}$.
6) $x=-3$.
7) $x=1,-2$.

מערכת משוואות מעריכיות:

שאלות:

1) פתור את מערכת המשוואות הבאה: $\begin{cases} y=3^x \\ y=18-3^x \end{cases}$.

2) פתור את מערכת המשוואות הבאה: $\begin{cases} 5^{2x}-5^y=5^x-25 \\ y-x=2 \end{cases}$.

3) פתור את מערכת המשוואות הבאה: $\begin{cases} \frac{1}{3^y-4}+\frac{3}{3^x-2}-\frac{1}{3^x+2}=3 \\ 4^y=\sqrt{256^x} \end{cases}$.

4) פתור את מערכת המשוואות הבאה: $\begin{cases} 5^x+2^y=13 \\ 2\cdot 5^x-2^y=2 \end{cases}$.

5) פתור את מערכת המשוואות הבאה: $\begin{cases} 2\cdot 3^x-3\cdot 2^y=42 \\ 3^{x+1}-2^{y+1}=73 \end{cases}$.

6) פתור את מערכת המשוואות הבאה: $\begin{cases} 5^{2x+1}+8\cdot 10^x-2^{2y+4}=0 \\ \left(\sqrt{3}\right)^y=27^{\frac{x-1}{6}} \end{cases}$.

7) פתור את מערכת המשוואות הבאה: $\begin{cases} 6\cdot 4^x-7\cdot 6^{y-1}+2\cdot 3^{x+y}=6^y \\ \sqrt[4]{5^x}\cdot\sqrt{\left(5\sqrt{5}\right)^y}=\sqrt[4]{125}\cdot 5^x \end{cases}$.

תשובות סופיות:

1) $(2,9)$ 2) $(0,2)$, $(2,4)$ 3) $(1,2)$ 4) $(1,3)$

5) $(3,2)$ 6) $(-1,-2)$ 7) $(1,2)$, $(-1,0)$

אי שוויונים מעריכיים:

סיכום כללי:

פתרון אי-השוויון: $a^x > a^y$ הוא: $x > y$ עבור: $a > 1$ ו- $x < y$ עבור: $0 < a < 1$.

שאלות:

פתור את אי השיוויונים הבאים:

1) $3^{2x+1} < 27^{1-\frac{1}{3}x}$

2) $\sqrt{2^x} \le 4^{x^2-1\frac{1}{4}}$

3) $e^{\sqrt{x}+1} > e^{2x}$

4) $\left(\frac{1}{7}\right)^{5x} \ge \left(\frac{1}{7}\right)^{1-3x}$

5) $25^x + 5 < 6 \cdot 5^x$

6) $e^{2x} - 2e^x + 1 \le 0$

הערה:

השאלות הבאות דורשות הכרות עם מושג הלוגריתם הטבעי (ln) וכן חוקי הלוגריתמים אשר ילמדו בהמשך.

7) $e^x > 3$

8) $e^{2x} - 5e^x + 4 > 0$

תשובות סופיות:

1) $x < \frac{2}{3}$

2) $x \ge 1\frac{1}{4}$ או $x \le -1$

3) $0 \le x < 1$

4) $x \le \frac{1}{8}$

5) $0 < x < 1$

6) $x = 0$

7) $x > \ln 3$

8) $x > \ln 4$ או $x < 0$

אי-שוויונים עם משתנה בבסיס ובמעריך:

סיכום כללי:

דרך הפתרון של אי שוויון עם משתנה בבסיס ובמעריך:

- יש לדרוש בסיס חיובי ולחבר אי-שוויון בהתאם.
- יש לפתור את אי השוויון לפי השוואת מעריכים.
- יש למצוא את חיתוך הפתרונות.

נתון: $f(x)^{g(x)} > f(x)^{h(x)}$ נדרוש: $f(x)>0$.

דרך הפתרון: אם: $f(x)>1$ אז: $g(x)>h(x)$.

אם: $0<f(x)<1$ אז: $g(x)<h(x)$.

לבסוף נמצא את חיתוך התחומים.

שאלות:

פתור את אי השוויונים הבאים:

1) $x^{2x-1} > x^{x+2}$

2) $(x-2)^{2x-5} < (x-2)^{x+1}$

3) $x^{2x-6} < 1$

4) $x^{2x^2+2} < x^{5x}$

5) $(x^2-6x+13)^{x^2-2x} \geq (x^2-6x+13)^3$

6) $(x+1)^{|x|} < x^2+2x+1$

תשובות סופיות:

1) $0<x<1\ ,\ x>3$.

2) $3<x<6$.

3) $1<x<3$.

4) $0<x<0.5\ ,\ 1<x<2$.

5) $x\leq -1\ ,\ x\geq 3$.

6) $0<x<2$.

מכינה במתמטיקה לתלמידי כלכלה

פרק 13 - חוקי הלוגריתמים, משוואות ואי-שוויונים לוגריתמים

תוכן העניינים

1. הגדרת הלוגריתם ומשוואות יסודיות 154
2. חוקי הלוגריתמים 157
3. חישובים עם חזקה לוגריתמית 161
4. מעבר בין בסיסים 162
5. הלוגריתם הטבעי 164
6. משוואות עם בסיסים שונים 166
7. מערכת משוואות לוגריתמיות 167
8. מערכת משוואות לוגריתמיות ומעריכיות 168
9. אי-שוויונים לוגריתמים 169

הגדרת הלוגריתם ומשוואות יסודיות:

סיכום כללי:

הגדרה:

הלוגריתם מוגדר באופן הבא: $\log_a b = x \Leftrightarrow a^x = b$ כאשר: $a \neq 1$, $b > 0$, a.

הסבר:

לוגריתם על בסיס a של b מוגדר בתור החזקה שיש להעלות את a על מנת שיהיה שווה ל- b. ערך חזקה זו הוא x. ערך לוגריתם יכול להיות חיובי, שלילי או אפס. נחשב ערכי לוגריתמים ונפתור משוואות לוגריתמיות ע"י מעבר לפי ההגדרה למשוואה מעריכית מתאימה.

כללים יסודיים בלוגריתמים:

מהגדרת הלוגריתם נובע כי: $\log_a a = 1$ וכן: $\log_a 1 = 0$ לכל $a > 0$, $a \neq 1$.

שאלות:

1) חשב ללא מחשבון את ערכי הביטויים הלוגריתמים הבאים:

א. $\log_2 32$ ב. $\log 1000$ ג. $\log_{25} 5$

ד. $\log_8 4$ ה. $\log_4 \frac{1}{16}$ ו. $\log_a a^4$

ז. $\log_a \frac{1}{a\sqrt{a}}$

2) פתור את המשוואות הלוגריתמיות הבאות (יסודי - שימוש בהגדרת הלוג):

א. $\log_{36} 6 = x$ ב. $\log_2 x = 16$

ג. $\log_{\frac{1}{9}} x = -1.5$ ד. $\log_x 64 = 3$

ה. $\log_x 25 = 2$ ו. $\log_x (3x+4) = 2$

3) פתור את המשוואות הלוגריתמיות הבאות (כללי - שימוש בהגדרת הלוג):

א. $\log_6(4x-2)=1$

ב. $\log_4(4-x)=\frac{1}{2}$

ג. $\log_8(x^4-73)=1$

ד. $\log_3\frac{x+3}{3-3x}=-2$

ה. $\log_x(2x^2+x-12)=2$

ו. $\log_{\sqrt{x+1}}(2x^2-5)=2$

4) פתור את המשוואות הלוגריתמיות הבאות (שימוש בהגדרת הלוג מספר פעמים):

א. $\log_4(\log_3 x)=1$

ב. $3\log_{27}(\log_2(x+3))=1$

ג. $\log_{\frac{1}{16}}(\log_3(5x^2+1))=-\frac{1}{2}$

ד. $\log_6(3+\log_2(6+\log_4(x^2+15)))=1$

5) פתור את המשוואות הלוגריתמיות הבאות (מתקבלת משוואה מעריכית):

א. $\log_2(3^x+37)=6$

ב. $\log_3(3\cdot 2^x-303)=4$

ג. $\log_5(126\cdot 5^x-25)=2x+1$

ד. $3\log_2\left(3\cdot 4^{1+\frac{1}{3}x}-11\cdot 2^{\frac{x}{3}}+3\right)=12+2x$

6) פתור את המשוואות הלוגריתמיות הבאות (הצבה):

א. $(\log_2 x)^4=10000$

ב. $2(\log_3 x)^2+\log_3 x=10$

ג. $\frac{3\cdot\log_{14}x+1}{(\log_{14}x)^2}=4$

ד. $\sqrt{\log_{\frac{1}{81}}x}+\sqrt{\log_{\frac{1}{81}}x+2}=2$

תשובות סופיות:

1) א. 5 ב. 3 ג. $\frac{1}{2}$ ד. $\frac{2}{3}$ ה. -2
ו. 4 ז. -1.5

2) א. $x=\frac{1}{2}$ ב. $x=65,536$ ג. $x=27$ ד. $x=4$
ה. $x=5$ ו. $x=4$

3) א. $x=2$ ב. $x=2$ ג. $x=\pm 3$ ד. $x=-2$ ה. $x=3$ ו. $x=2$

4) א. $x=81$ ב. $x=5$ ג. $x=\pm 4$ ד. $x=\pm 1$

5) א. $x=3$ ב. $x=7$ ג. $x=-1,\ 2$ ד. $x=-6$

6) א. $x=1024,\ \frac{1}{1024}$ ב. $x=9,\ \frac{1}{9\sqrt{3}}$
ג. $x=14,\ \frac{1}{\sqrt[4]{14}}$ ד. $x=\frac{1}{3}$

חוקי הלוגריתמים:

סיכום כללי:

להלן 3 חוקי הלוגריתמים עבור בסיס $a>0\neq 1$ וארגומנטים x ו- y חיוביים:

- מכפלה לסכום: $\log_a(x\cdot y)=\log_a x+\log_a y$.
- מנה להפרש: $\log_a\left(\frac{x}{y}\right)=\log_a x-\log_a y$.
- מקדם למעריך: $\log_a b^n=n\log_a b$ (כאשר $b>0$ ו- n מספר ממשי כלשהו).

שאלות:

שאלות חישוב כלליות:

1) חשב ללא מחשבון את ערכי הביטויים הבאים (שימוש בחוקי הלוגים):

א. $\log_3 12+\log_3 2.25$

ב. $\log_{\frac{1}{5}} 40+\log_{\frac{1}{5}} 12.5+\log_{\frac{1}{5}}\frac{1}{4}$

ג. $\log_2 200-\log_2 100$

ד. $\log_3 60-\log_3 540$

ה. $\log_4 8+\log_4 12-\log_4 6$

ו. $\log_7 1.5-\log_7 147+\log_7 2$

ז. $3\log_5 2-\log_5 1.6$

ח. $\log_{\sqrt{4}} 6.4+2\log_{\sqrt{4}}\sqrt{10}$

ט. $\frac{1}{2}\left(\log_7\frac{7}{2}+\log_7 2\right)+\log_7 14-\frac{1}{3}\log_7 8$

י. $\frac{1}{4}\log 81-\log 1.5-\frac{1}{2}\log 40$

2) חשב ללא מחשבון את ערכי הביטויים הבאים (שימוש בחוקי הלוגים):

א. $\frac{\log_5 16}{\log_5 8}$

ב. $\frac{\log_9 62.5+\log_9 2}{\log_9 0.2}$

ג. $\frac{\log_3 5-\log_3 2+\log_3 50}{\log_3 225-2}$

ד. $\frac{2-2\log_3 4+\log_3 8\frac{8}{9}}{4-\log_3 0.01-2\log_3 18}$

משוואות לוגריתמיות:

3) פתור את המשוואות הבאות (שימוש ישיר בחוקי הלוגריתמים):

א. $\log_2 x+\log_2(x-6)=4$

ב. $\log_3 x+\log_3(x+2)=1$

ג. $\log_2(x+30)-\log_2 x=4$

ד. $\log_5(x+146)-\log_5(x+2)=2$

ה. $2\log_3(2x-1)-\log_3(22x+9)=-1$

ו. $2\log_5(x-2)=\log_5(4x-15)+\log_5 x$

4) פתור את המשוואות הבאות (פתרון בשיטת לוג שווה לוג):

א. $\log_5(4x-3)=\log_5 7$.

ב. $2\log_2(2x-2)-\log_2(16-x)=\log_2(x-1)+1$.

5) פתור את המשוואות הבאות (מתקבלת משוואה מעריכית):

א. $\log_3(3\cdot 5^x+39)=3+\log_3(5^x-3)$.

ב. $\log_2(3-4^{x+1})-\log_2 11=x$.

6) פתור את המשוואות הבאות (שימוש הפוך בחוקי הלוגריתמים):

א. $\log_4 x\cdot\log_4(16x)=8$.

ב. $\log_2\left(\frac{x}{4}\right)\cdot\log_2(1024x)=-11$.

ג. $\log_2 x^2\log_2\left(\frac{x}{16}\right)=-\log_2(64x)$.

ד. $(\log_4 4x)^2=\log_4 4x^2+1$.

ה. $\log_3(9x^2)\cdot\log_3(9x^3)=\log_3\left(\frac{81}{x}\right)+2$.

ו. $\frac{\log_2\left(\frac{x^3}{32}\right)}{(\log_2 x)^2}+\frac{\log_2(2x)}{\log_2 x}=1\frac{7}{9}$.

שאלות הבעה:

7) נתון: $\log_3 2 = a$. הבע באמצעות a את ערכי הביטויים הבאים:

א. $\log_3 16$ ב. $\log_3 6$

ג. $\log_3 24$ ד. $\log_3 1.5$

8) נתון: $\log_2 5 = b$, $\log_2 3 = a$. הבע באמצעות a ו- b את ערכי הביטויים הבאים:

א. $\log_2 45$ ב. $\log_2 60$ ג. $\log_2 \sqrt{7.5}$

9) נתון: $\log_{18} 2 + \log_{18} 3 = a$.

הבע באמצעות a את $\log_{18} 27$ ואת $\log_{18} 16$.

שאלות נוספות:

בכל אחת מהמשוואות הבאות, חשב את ערך הביטוי שמשמאל וקבל את התוצאה מימין:

10) $\log 4 \log 40 + \log 5 \log 16 = \log 64$.

11) $2\log^2 2 + \log 25 \cdot \log 20 = 2$.

12) $\log_{12} 16 \cdot \log_{12} 4 + \log_{12} 9 \cdot \log_{12} 48 = 2$

13) $\log_5 10 \cdot \log_5 75 - \log_5 3 \cdot \log_5 2 - \log_5 3 - \log_5 4 = 2$.

תשובות סופיות:

1) א. 3 ב. -3 ג. 1 ד. -2 ה. 2
ו. -2 ז. 1 ח. 6 ט. 1.5 י. -0.5.

2) א. $\frac{4}{3}$ ב. -3 ג. 1.5 ד. 0.5.

3) א. $x=8$ ב. $x=3,\frac{1}{27}$ ג. $x=2$ ד. $x=4$ ה. $x=3$ ו. $x=4$.

4) א. $x=2.5$ ב. $x=6$.

5) א. $x=1$ ב. $x=-2$.

6) א. $x=16,\frac{1}{256}$ ב. $x=2,\frac{1}{512}$ ג. $x=4,\ 2\sqrt{2}$ ד. $x=4,\frac{1}{4}$
ה. $x=\frac{1}{9},\sqrt[6]{3}$ ו. $x=8,\ \sqrt[7]{2^{15}}$.

7) א. $4a$ ב. $a+1$ ג. $3a+1$ ד. $1-a$.

8) א. $2a+b$ ב. $2+a+b$ ג. $\frac{1}{2}a+\frac{1}{2}b-\frac{1}{2}$.

9) $4(2a-1)\ ,\ 3(1-a)$.

10) הוכחה.

11) הוכחה.

12) הוכחה.

13) הוכחה.

חישובים עם חזקה לוגריתמית:

סיכום כללי:

מהגדרת הלוגריתם ניתן לנסח את הקשר הבא: $a^{\log_a x}=x$ כאשר $a>0\neq 1$.

שאלות:

1) חשב ללא מחשבון את ערכי הביטויים הבאים (חזקה לוגריתמית):

א. $6^{\log_6 8}$ ב. $4^{\log_2 5}$

2) נתונה התבנית: $3\cdot 4^x$. חשב את ערכה עבור:

א. $x=\log_4 7$ ב. $x=\log_4\sqrt{3}$

ג. $x=2\log_4 0.1$ ד. $x=\sqrt{\log_2 5}$

3) נתונה התבנית: $\frac{1}{6}\cdot 9^x-2\cdot 3^x+1$. חשב את ערכה עבור:

א. $x=-1$ ב. $x=\log_3 5$

ג. $x=\log_3\sqrt{6}$

4) חשב:

א. $\left(\frac{1}{6}\right)^{\log_{\sqrt{36}}81}$ ב. $\sqrt[3]{2^{3-\log_{\sqrt{8}}5}}$

תשובות סופיות:

1) א. 8 ב. 25.

2) א. 21 ב. $3\sqrt{3}$ ג. 0.03 ד. 15.

3) א. $\frac{19}{54}$ ב. $-4\frac{5}{6}$ ג. $2-2\sqrt{6}$.

4) א. $\frac{1}{81}$ ב. $\frac{2}{\sqrt[9]{25}}$.

מעבר בין בסיסים:

סיכום כללי:

מעבר מבסיס a לבסיס m (כאשר: $a>0\ \neq 1$ ו-$m>0\neq 1$, וכן: $b>0$)
יתבצע באופן הבא: $\log_a b=\frac{\log_m b}{\log_m a}$.

שאלות:

שאלות חישוב כלליות:

1) חשב את ערכי הביטויים הבאים:

א. $\log_4 7\cdot\log_7 4$

ב. $\log_{0.1} 3\cdot\log_9 1000$

ג. $\log_{\sqrt{3}} 5\cdot\log_{\sqrt{125}} 9$

ד. $\log_4 169\cdot\log_{25} 64\cdot\log_{13} 625$

2) הוכח את השוויונים הבאים:

א. $\log_2 25\cdot\log_5 3\cdot\log_9 2=1$.

ב. $\log_{16} 9\cdot\log_5 4\cdot\log_3 5=1$

משוואות לוגריתמיות:

3) פתור את המשוואות הבאות:

א. $\log_2 x+\log_{32} x=6$

ב. $\log_3 x\cdot\log_{27} x=3$

ג. $\log_2 4x\cdot\log_8\frac{x}{16}=-\frac{5}{3}$

ד. $\log_x 5-6\log_{125} x=1$

שאלות הבעה:

4) נתון: $\log_4 6=a$. הבע באמצעות a את ערכי הביטויים הבאים:

א. $\log_2 3$

ב. $\log_{32} 36$

ג. $\log_{216} 96$.

5) נתון: $\log_3 5=b$, $\log_2 3=a$. הבע באמצעות a ו- b את ערכי הביטויים הבאים:

א. $\log_3 50$

ב. $\log_2\sqrt{30}$

ג. $\log_5 22.5$

6) נתון $\log 9 = 2b$, $\log_3 7 = a$. הבע באמצעות a ו- b את:

א. $\log 21$.

ב. $\log_3\left(\frac{10}{7}\right)$.

ג. $\log_7 10$.

ד. $\log_{30} 63$.

שאלות נוספות:

בכל אחת מהמשוואות הבאות, חשב את ערך הביטוי שמשמאל וקבל את התוצאה מימין:

7) $\log_6 9 \cdot \log_{15} 30 + \log_6 5 \cdot \log_{15} 4 = 2$.

8) $\log\sqrt{3} \cdot \log_6 50 + \log\sqrt{2} \cdot \log_6 300 = 1$.

תשובות סופיות:

1) א. 1 ב. -1.5 ג. $2\frac{2}{3}$ ד. 12.

2) א. שאלת הוכחה. ב. שאלת הוכחה.

3) א. $x = 32$ ב. $x = 27, \frac{1}{27}$ ג. $x = 8, \frac{1}{2}$ ד. $x = \frac{1}{5}, \sqrt{5}$.

4) א. $2a - 1$ ב. $0.8a$ ג. $\frac{a+2}{3a}$.

5) א. $2b + \frac{1}{a}$ ב. $\frac{a}{2} + \frac{ab}{2} + \frac{1}{2}$ ג. $\frac{2}{b} + 1 - \frac{1}{ab}$.

6) א. $b + ab$ ב. $\frac{1}{b} - a$ ג. $\frac{1}{ab}$ ד. $\frac{ab+2b}{b+1}$.

7) הוכחה.

8) הוכחה.

הלוגריתם הטבעי:

סיכום כללי:

לוגריתם על בסיס e (קבוע אוילר) מסומן: $\log_e \Rightarrow \ln$ והוא נקרא הלוגריתם הטבעי.

למשל: $\ln 3 = \log_e 3$ או $\ln\frac{1}{4} = \log_e \frac{1}{4}$. לוג זה נקרא בשם לן.

מהגדרת הלוגריתם מתקיים: $\ln a = b \to e^b = a$ כאשר $a > 0$ ו- b מספרים כלשהם.

שאלות:

1) חשב ללא מחשבון את ערכי הביטויים הלוגריתמיים הטבעיים הבאים:

א. $\ln e^2$ ב. $\ln\frac{1}{e^4}$ ג. $\ln\frac{1}{e\sqrt{e}}$

2) פתור את המשוואות הלוגריתמיות הבאות (שימוש בהגדרת הלוג):

א. $\ln x = 2$ ב. $\ln x = -\frac{1}{2}$

3) פתור את המשוואות הבאות (הצבה וחוקי הלוגריתמים):

א. $\ln\left(e^{2x} - \frac{1}{2}\right) + \ln 2 = x$

ב. $3\ln^2 x + \ln x = 2$

ג. $\ln\left(e^2 x^3\right) \cdot \ln\frac{1}{x} = \ln\left(ex^2\right)$

4) פתור את המשוואות הלוגריתמיות הבאות (הוצאת לוג משני אגפי המשוואה)

א. $x^{\ln x} = e^6 x$ ב. $\left(\frac{1}{x}\right)^{2-3\ln x} = \frac{1}{e} \cdot x^{1+\ln x}$

5) חשב ללא מחשבון את ערכי הביטויים הבאים (חזקה לוגריתמית):

א. $e^{\ln 3}$ ב. $e^{2\ln 3}$

תשובות סופיות:

1) א. 2 ב. -4 ג. -1.5.

2) א. $x=e^2$ ב. $x=\frac{1}{\sqrt{e}}$.

3) א. $x=0$ ב. $x=\sqrt[3]{e^2},\frac{1}{e}$ ג. $x=\frac{1}{\sqrt[3]{e}},\frac{1}{e}$.

4) א. $x=e^3,\frac{1}{e^2}$ ב. $x=\sqrt{e},e$.

5) א. 3 ב. 9.

משוואות עם בסיסים שונים:

סיכום כללי:

לעיתים תתקבל משוואה מעריכית שבה לא ניתן למצוא חזקה שלמה, כגון: $3^x = 4$.
במקרים אלו נעזר בהגדרת הלוג כדי לבטא את ערך המעריך: $x = \log_3 4$.

את ערך הביטוי $\log_3 4$ ניתן לחשב ע"י מחשבון או ע"י מעבר לבסיס 10: $\log_3 4 = \frac{\log 4}{\log 3}$.

שאלות:

1) פתור את המשוואות הבאות (בסיסים שונים):

א. $3^x = 6$ ב. $2^x - 9 = 0$

ג. $49^x - 8 \cdot 7^x + 15 = 0$ ד. $2 \cdot 3^{\frac{2x}{3}} + 5 \cdot 3^{\frac{x}{3}} + 2 = 0$

2) פתור את המשוואות הבאות (משוואות עם בסיס ולוגריתם טבעי):

א. $e^{3x} = 3$ ב. $4 + 3e^x = 9$

ג. $3e^{2x} - 4e^x + 1 = 0$ ד. $e\left(e^x + 1\right) = 2\sqrt{e^{x+2}} + 9e$

3) פתור את המשוואות הבאות (משוואות כלליות עם פתרונות לא שלמים):

א. $\log_2\left(7 - 5^x\right) = \log_2 \frac{10}{5^x}$ ב. $\log_2\left(4e^{2x} + 6\right) - 1 = \log_2\left(7e^x\right)$

תשובות סופיות:

1) א. $x = \log_3 6 = 1.63$ ב. $x = \log_2 9 = 3.17$

ג. $x = \log_7 3 = 0.564$, $x = \log_7 5 = 0.827$ ד. אין פתרון.

2) א. $x = \frac{1}{3}\ln 3 = 0.36$ ב. $x = \ln\frac{5}{3} = 0.51$ ג. $x = 0$, $x = -\ln 3 = -1.09$

ד. $x = \ln 16 = 2.7725$.

3) א. $x = 1$, $x = \log_5 2 = 0.43$ ב. $x_1 = \ln\frac{1}{2} = -0.693$, $x = \ln 3 = 1.098$

מערכת משוואות לוגריתמיות:

שאלות:

פתור את מערכות המשוואות הבאות:

1) $\begin{cases} y=\log_2 x \\ y=6-\log_2 x \end{cases}$

2) $\begin{cases} \log_6^2 x-\log_6(2y-2)=2 \\ \frac{1}{2}x=y-1 \end{cases}$

3) $\begin{cases} \log_3(x+y)=\log_3(4x+y)-2 \\ \log_5(5x+3y)=2 \end{cases}$

4) $\begin{cases} \log_2(\log_3(x-y))=1 \\ \log_5(x+y-11)=\log_{25}x+\frac{1}{2}\log_5(y+2) \end{cases}$

5) $\begin{cases} \log_5 x+6\log_4 y=11 \\ 10\log_5 x-2\log_4 y=17 \end{cases}$

6) $\begin{cases} \log_2 x^2+\log_3\frac{1}{y}=9 \\ \log_2\sqrt{x}+\log_{\sqrt[3]{3}} y=-1 \end{cases}$

7) $\begin{cases} \log_5 x+2^{\log_2 y}=6 \\ x^y=5^8 \end{cases}$

8) $\begin{cases} xy=27 \\ x^{\log_3 y}=9 \end{cases}$

9) $\begin{cases} 2^{\log_{\frac{1}{2}}(2x-y)}=7^{\log_7\frac{2x+y}{15}} \\ \log_3 x+\log_3 y=\frac{1}{\log_{28}3} \end{cases}$

תשובות סופיות:

1) $(8,3)$

2) $(36,19),\left(\frac{1}{6},1\frac{1}{12}\right)$

3) $(8,-5)$

4) $(16,7)$

5) $(25,8)$

6) $\left(16,\frac{1}{3}\right)$

7) $(25,4),(625,2)$

8) $(3,9),(9,3)$

9) $(4,7)$

מערכת משוואות לוגריתמיות ומעריכיות:

שאלות:

פתור את מערכות המשוואות הבאות:

1) $\begin{cases} y=\log_2\left(4^x-2\right) \\ y=2x-1 \end{cases}$

2) $\begin{cases} 25^y=\left(5\sqrt{5}\right)^{x+1} \\ \log_5\sqrt{x}+\log_5\sqrt{y}=\log_5 3 \end{cases}$

3) $\begin{cases} 3y+5\log_6 x=1 \\ 216\cdot x^{2-y}=6^{1-4y} \end{cases}$

4) $\begin{cases} x\cdot\log_2 3=\dfrac{y}{\log_9 2} \\ \log_3\left(9^x+27\right)=2y+\log_3 12 \end{cases}$

5) $\begin{cases} \left(2^x-1\right)^2-4y+3=0 \\ x=\log_2\left(y+1\right) \end{cases}$

6) $\begin{cases} x=\log_4\left(5-9^y\right) \\ \log_2\left(2^x+3\right)=\log_4\left(29-\left(3^y-3\right)^2\right) \end{cases}$

תשובות סופיות:

1) $(1,1)$

2) $(3,3)$

3) $(36,-3),\left(6,-1\frac{1}{3}\right)$

4) $\left(1,\frac{1}{2}\right),(2,1)$

5) $(1,1),(2,3)$

6) $(1,0)$

אי-שוויונים לוגריתמים:

סיכום כללי:

פתרון אי-השוויון: $\log_a x > \log_a y$ הוא: $x > y$ עבור: $a > 1$ ו- $x < y$ עבור: $0 < a < 1$.

שאלות:

פתור את אי-השוויונים הבאים:

1) $\log_2 x < \log_2 (5x - 20)$

2) $\log_6 (x^2 - 5x) < 1$

3) $\log_3 x > \log_9 (15 - 2x)$

4) $\log_{\frac{1}{2}} (1 - 3x) \geq \log_{\frac{1}{2}} (7 - x)$

5) $\ln x \geq \ln (x^2 - 12)$

6) $\ln x < 3$

7) $\ln^2 x - 6 \ln x < 7$

8) $\frac{6}{\ln^2 x} \geq 2 - \frac{1}{\ln x}$

תשובות סופיות:

1) $x > 5$

2) $-1 < x < 0 \ , \ 5 < x < 6$

3) $3 < x < 7\frac{1}{2}$

4) $-3 \leq x \leq \frac{1}{3}$

5) $2\sqrt{3} < x \leq 4$

6) $0 < x < e^3$

7) $\frac{1}{e} < x < e^7$

8) $\frac{1}{\sqrt{e^3}} \leq x \leq e^2$ וגם $x \neq 1$

מכינה במתמטיקה לתלמידי כלכלה

פרק 14 - בעיות גדילה ודעיכה - להעשרה

תוכן העניינים

1. שאלות חימום ..... (ללא ספר)
2. שאלות העוסקות במציאת הכמות הסופית ..... (ללא ספר)
3. שאלות העוסקות במציאת הכמות ההתחלתית ..... (ללא ספר)
4. שאלות העוסקות במציאת אחוז הגדילה או הדעיכה ..... (ללא ספר)
5. שאלות העוסקות במציאת הזמן ..... (ללא ספר)
6. שאלות שונות ..... (ללא ספר)

מכינה במתמטיקה לתלמידי כלכלה

פרק 15 - טריגונומטריה במשולש ישר זווית

תוכן העניינים

1. משולש ישר זווית 170

משולש ישר זווית:

סיכום כללי:

הגדרות הפונקציות הטריגונומטריות:

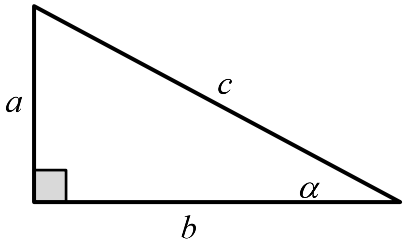

$$\sin\alpha = \frac{\text{הניצב שמול הזווית}}{\text{היתר}} = \frac{a}{c}$$

$$\cos\alpha = \frac{\text{הניצב שליד הזווית}}{\text{היתר}} = \frac{b}{c}$$

$$\tan\alpha = \frac{\text{הניצב שמול הזווית}}{\text{הניצב שליד הזווית}} = \frac{a}{b}$$

משפט פיתגורס: $a^2+b^2=c^2$

שאלות:

1) מצא את ערכו של x / α במשולשים ישרי הזווית הבאים:

א.

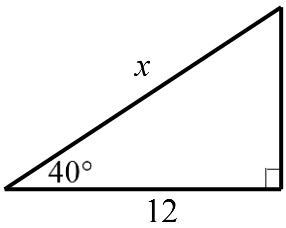

ב.

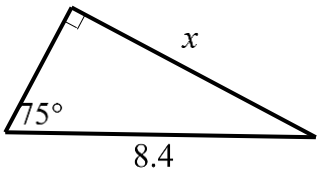

ג.

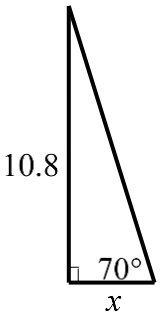

ד.

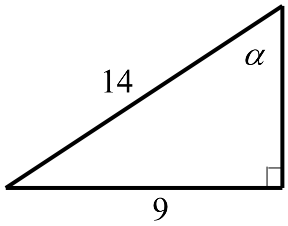

ה.

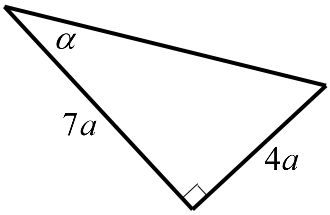

2) המשולש ABC שבציור הוא משולש ישר זווית $(\sphericalangle B=90°)$.

AD הוא התיכון לניצב BC.

נתון: $\sphericalangle C=28°$, AB = 6 ס"מ.

מצא את AD ואת $\sphericalangle BAD$.

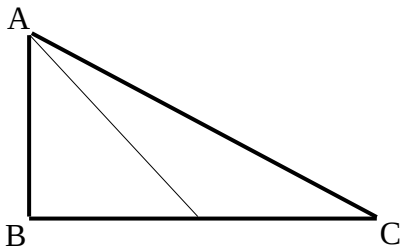

3) המשולש ABC שבציור הוא משולש ישר זווית $(\sphericalangle B=90^\circ)$. BD הוא התיכון ליתר ו-AE הוא חוצה הזווית $\sphericalangle A$.
נתון: BD = 5.6 ס"מ , BC = 8 ס"מ.
מצא את BE ואת $\sphericalangle BAE$.

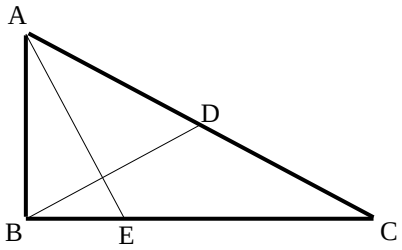

4) מצא את זוויותיו של מעוין שאורכי אלכסוניו 24 ס"מ ו-18 ס"מ.

5) המשולש ABC חסום במעגל כך שהצלע AC היא קוטר המעגל.
המשיק למעגל בנקודה A והמשך הצלע CB נפגשים בנקודה D.
נתון: BD=4 ס"מ , $\sphericalangle DAB=32^\circ$.
מצא את אורכו של רדיוס המעגל.

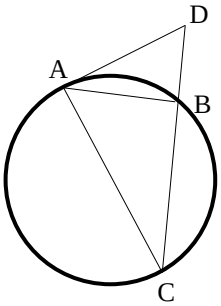

6) במשולש שווה שוקיים שבו השוק ארוכה ב-4 ס"מ מהבסיס נתון כי זווית הראש היא 34.92°. מצא את שטח המשולש.

7) המשולש ABC שבציור הוא משולש ישר זווית $(\sphericalangle B=90^\circ)$.
נתון: $\sphericalangle A=\alpha$, $AB=a$.
הבע באמצעות α ו-a את היקף המשולש.

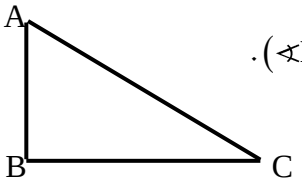

8) המשולש ABC שבציור הוא משולש ישר זווית $(\sphericalangle B=90^\circ)$.
AD הוא התיכון לניצב BC.
נתון: $\sphericalangle C=\alpha$, $AB=b$.
הבע באמצעות α ו-b את אורכי הקטעים BD ו-AD.

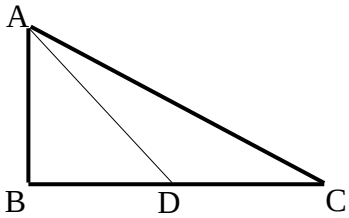

9) במשולש ישר זווית אחת הזוויות החדות היא α ואורך חוצה זווית זו הוא k.
הבע באמצעות α ו-k את שטח המשולש ואת אורך היתר.

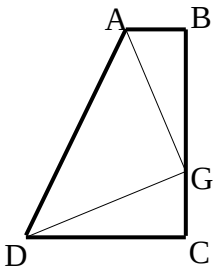

10) טרפז ABCD הוא טרפז ישר זווית $(\sphericalangle B=\sphericalangle C=90^\circ)$.
הנקודה G נמצאת על השוק BC כך ש- $AG\perp DG$.
נתון: $AG=DG=m$, $\sphericalangle BAG=\beta$.
הבע באמצעות β ו- m את שטח הטרפז.

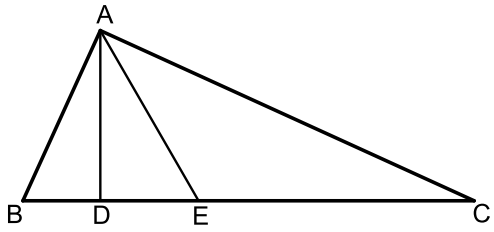

11) המשולש ABC הוא ישר זווית $(\sphericalangle A=90^\circ)$.
הקטעים AD ו-AE הם בהתאמה גובה ליתר וחוצה זווית.
מסמנים: $DE=k$, $\sphericalangle DAE=\alpha$.

א. הבע באמצעות k ו- α את שטח המשולש ABC.

ב. חשב את שטח המשולש ABC אם ידוע כי: $\alpha=30$ ו- $k=2$.

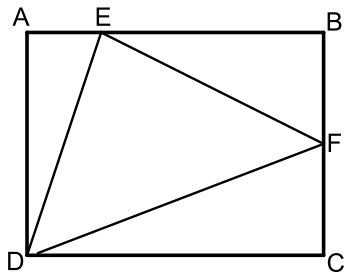

12) במלבן ABCD מסמנים את הנקודות E ו-F הנמצאות על הצלעות AB ו-BC בהתאמה כך ש-E מקיימת: $3AE=BE$ ו-F היא אמצע הצלע BC.
אורך הצלע AD שווה לאורך הקטע BE.
מעבירים את הקטעים DF , EF ו-DE כך שנוצר במשולש DEF.

א. סמן ב- t את אורך הקטע AE והבע באמצעות t את אורכי צלעות המשולש DEF.

ב. חשב את זוויות המשולש EDF.

13) משולש שווה שוקיים שאורך שוקו k וזווית הבסיס שלו היא β חוסם מעגל.
הבע באמצעות β ו- k את רדיוס המעגל.

14) בטרפז ישר זווית חסום מעגל. אורך השוק הארוכה בטרפז היא b והזווית שהיא יוצרת עם הבסיס הגדול היא α.
הבע באמצעות α ו- b את אורכו של הבסיס הגדול בטרפז ואת שטחו.

הערה: השאלות הבאות משלבות ידע בגיאומטריה ובטריגונומטריה יחד:

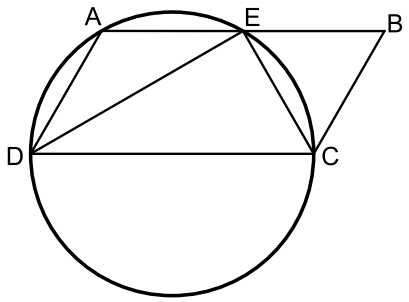

15) דרך הקודקודים A , C ו-D של המקבילית ABCD מעבירים מעגל. היקף המעגל חוצה את הצלע AB בנקודה E, $(AE = BE)$.
נתון כי DC הוא קוטר במעגל וכי המיתר DE חוצה את זווית D.

א. הוכח כי המיתר CE חוצה את זוויות C.

ב. רדיוס המעגל יסומן ב- R.
הבע באמצעות R את היקף המקבילית.

ג. מצא את רדיוס המעגל אם ידוע כי שטח המקבילית הוא $16\sqrt{3}$ סמ"ר.

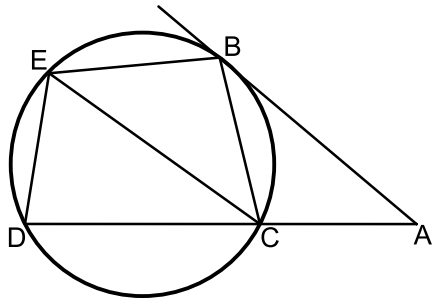

16) מהנקודה A שמחוץ למעגל מעבירים משיק AB וישר חותך ACD.
מעבירים את המיתרים BC ו-BE אשר זהים באורכם.
כמו כן מעבירים את המיתר DE.
אורך המיתר CE שונה מאורך המשיק AB.

א. הוכח כי המרובע ABEC הוא טרפז.

ב. הוכח כי: $2\cdot\sphericalangle BEC = \sphericalangle EDC$.

ג. נתונים: $\sphericalangle A = 40°$, AC = 6 ס"מ, AB = 9 ס"מ , CE = 8 ס"מ.
חשב את שטח המרובע ABEC.

תשובות סופיות:

1) א. $x=15.665$ ב. $x=8.114$ ג. $x=3.931$ ד. $\alpha=40.005°$ ה. $\alpha=29.745°$.

2) $\sphericalangle BAD=43.24°$, 8.236 ס"מ = AD.

3) $\sphericalangle BAE=22.792°$, 3.294 ס"מ = BE.

4) $106.26°$, $106.26°$, $73.74°$, $73.74°$.

5) 6.04 ס"מ = R.

6) 28.618 סמ"ר = S.

7) $P=a\left(1+\tan\alpha+\frac{1}{\cos\alpha}\right)$.

8) $BD=\frac{b}{2\tan\alpha}$, $AD=\sqrt{b^2+\frac{b^2}{4\tan^2\alpha}}$.

9) $S=\frac{k^2\cos^2\frac{\alpha}{2}\tan\alpha}{2}$, $AC=\frac{k\cos\frac{\alpha}{2}}{\cos\alpha}$.

10) $\frac{(m\sin\beta+m\cos\beta)^2}{2}$.

11) א. $S=\frac{k^2}{\cos 2\alpha\tan^2\alpha}$ ב. 24 סמ"ר.

12) א. $DF=t\sqrt{18.25}$, $EF=t\sqrt{11.25}$, $DE=t\sqrt{10}$ ב. $47.14°$, $51°$, $81.86°$.

13) $R=k\cos\beta\tan\frac{\beta}{2}$.

14) $S=\frac{1}{2}b^2\sin\alpha(1+\sin\alpha)$, $\frac{1}{2}b\sin\alpha+\frac{\frac{1}{2}b\sin\alpha}{\tan\frac{\alpha}{2}}$.

15) א. שאלת הוכחה. ב. $6R$ ג. 4 ס"מ.

16) א. שאלת הוכחה. ב. שאלת הוכחה. ג. 32.78 סמ"ר.

מכינה במתמטיקה לתלמידי כלכלה

פרק 16 - זהויות טריגונומטריות

תוכן העניינים

1. זהויות יסוד 175
2. ערכי הפונקציות הטריגונומטריות עבור זוויות מיוחדות 179
3. מעגל היחידה 181
4. סכום והפרש זוויות 184
5. זווית כפולה 188
6. סכום והפרש פונקציות 191
7. מכפלת פונקציות 194

זהויות יסוד:

סיכום כללי:

קשרים בין פונקציות	$\tan\alpha=\frac{\sin\alpha}{\cos\alpha}$, $\cot\alpha=\frac{\cos\alpha}{\sin\alpha}$	$\sin^2\alpha+\cos^2\alpha=1$ $\tan\alpha\cdot\cot\alpha=1$
זוויות משלימות ל- $90°$	$\cos\alpha=\sin(90°-\alpha)$	$\sin\alpha=\cos(90°-\alpha)$
	$\cot\alpha=\tan(90°-\alpha)$	$\tan\alpha=\cot(90°-\alpha)$
קשרים בין פונקציות	$\cot^2\alpha+1=\frac{1}{\sin^2\alpha}$	$\tan^2\alpha+1=\frac{1}{\cos^2\alpha}$

שאלות:

הוכחת זהויות יסודית:

הוכח את הזהויות הבאות תוך שימוש בזהויות היסוד:

1) $\tan\alpha\cdot\cos\alpha=\sin\alpha$

2) $\frac{1-\sin^2\alpha}{\cos^2\alpha}=1$

3) $\frac{\sin\alpha}{\sqrt{1-\sin^2\alpha}}=\tan\alpha$

4) $\sin^2\alpha+2\cos^2\alpha=1+\cos^2\alpha$

5) $\frac{\sin^2\alpha}{1+\cos\alpha}+\frac{\sin^2\alpha}{1-\cos\alpha}=2$

6) $(\sin\alpha+\cos\alpha)^2+(\sin\alpha-\cos\alpha)^2=2$

7) $\frac{\cos(90°-\alpha)}{\cos\alpha}=\tan\alpha$

8) $\sin^2(\alpha+45°)+\sin^2(45°-\alpha)=1$

9) $\sqrt{1+\tan^2\alpha}\cdot\sqrt{1-\cos^2\alpha}=\tan\alpha$

10) $\frac{\sin\alpha(1-\cos^2\alpha)}{\cos^3\alpha}=\tan^3\alpha$

11) $\frac{\sin(90°-\alpha)-\cos^3\alpha}{\sin^3\alpha}=\cot\alpha$

12) $\cos^2\alpha(1+\tan^2\alpha)=1$

13) $\frac{\sin\alpha\cdot\cos\alpha}{1-\cos^2\alpha}=\cot\alpha$

14) $\frac{\sin^3\alpha}{\sin(90°-\alpha)-\cos^3\alpha}=\tan\alpha$

15) $\tan^2\alpha-\sin^2\alpha=\tan^2\alpha\sin^2\alpha$

16) $\frac{1-2\sin^2\alpha\cos^2\alpha}{\sin^2\alpha\cdot\cos^2\alpha}=\tan^2\alpha+\cot^2\alpha$

הוכחות מתקדמות:

17) הוכח את הזהות הבאה: $\frac{1+\cos\alpha}{1-\cos\alpha}+\frac{1-\cos\alpha}{1+\cos\alpha}=2+4\cot^2\alpha$.

18) הוכח את הזהות הבאה: $\frac{1+\tan\alpha}{1-\tan\alpha}+\frac{1-\tan\alpha}{1+\tan\alpha}=\frac{2}{\cos^2\alpha-\sin^2\alpha}$.

19) הוכח את הזהות הבאה: $(\cot\alpha-\tan\alpha)(\cot\alpha+\tan\alpha)=(1+\cot^2\alpha)(1+\tan\alpha)(1-\tan\alpha)$.

20) הוכח את הזהות הבאה: $\frac{\sin^4\alpha+\cos^2\alpha-\sin^2\alpha}{\cos^4\alpha+\sin^2\alpha-\cos^2\alpha}=\cot^4\alpha$.

21) הוכח את הזהות הבאה: $1-\sin^2\alpha(1+\cos^2\alpha)=\cos^4\alpha$.

22) הוכח את הזהות הבאה: $\left(\sqrt{\frac{1+\cos\alpha}{1-\cos\alpha}}+\sqrt{\frac{1-\cos\alpha}{1+\cos\alpha}}\right)^2=4+4\cot^2\alpha$.

23) הוכח את הזהות הבאה: $\sin^2\alpha\cos^2\beta-\sin^2\beta\cos^2\alpha=\sin^2\alpha-\sin^2\beta$.

24) הוכח את הזהות הבאה: $\frac{\tan\alpha+\tan\beta}{\cot\alpha+\cot\beta}=\tan\alpha\tan\beta$.

הבעת ביטויים וחישובים באמצעות זהויות יסוד:

25) נתון כי: $\sin\alpha+\cos\alpha=k$.

הבע באמצעות k את ערכי הביטויים הבאים:

א. $\sin\alpha\cdot\cos\alpha$.

ב. $\sin\alpha-\cos\alpha$.

ג. $\tan\alpha+\cot\alpha$.

ד. $\sin^3\alpha+\cos^3\alpha$.

26) נתון כי: $\sin\alpha=\frac{\sqrt{5}}{5}$.

מבלי למצוא את α חשב את: $\tan^2\alpha-2\cot^2\alpha$.

27) נתון כי: $\tan\alpha=\sqrt{7}$.

מבלי למצוא את α חשב את: $\dfrac{\sqrt{7}\sin\alpha+6\cos\alpha}{\sqrt{28}\sin\alpha-\cos\alpha}$.

28) חשב את ערך המכפלה הבאה: $\tan 1^\circ\cdot\tan 2^\circ\cdot\tan 3^\circ\cdot\cdots\cdot\tan 88^\circ\cdot\tan 89^\circ$.

תשובות סופיות:

1) שאלת הוכחה.
2) שאלת הוכחה.
3) שאלת הוכחה.
4) שאלת הוכחה.
5) שאלת הוכחה.
6) שאלת הוכחה.
7) שאלת הוכחה.
8) שאלת הוכחה.
9) שאלת הוכחה.
10) שאלת הוכחה.
11) שאלת הוכחה.
12) שאלת הוכחה.
13) שאלת הוכחה.
14) שאלת הוכחה.
15) שאלת הוכחה.
16) שאלת הוכחה.
17) שאלת הוכחה.
18) שאלת הוכחה.
19) שאלת הוכחה.
20) שאלת הוכחה.
21) שאלת הוכחה.
22) שאלת הוכחה.
23) שאלת הוכחה.
24) שאלת הוכחה.
25) א. $\frac{k^2-1}{2}$ ב. $\pm\sqrt{2-k^2}$ ג. $\frac{2}{k^2-1}$ ד. $\frac{k}{2}\left(3-k^2\right)$
26) -7.75
27) 1
28) 1

ערכי הפונקציות הטריגונומטריות עבור זוויות מיוחדות:

סיכום כללי:

	$\alpha=0°$	$\alpha=30°$	$\alpha=45°$	$\alpha=60°$	$\alpha=90°$
$\sin\alpha$	0	$\frac{1}{2}$	$\frac{\sqrt{2}}{2}$	$\frac{\sqrt{3}}{2}$	1
$\cos\alpha$	1	$\frac{\sqrt{3}}{2}$	$\frac{\sqrt{2}}{2}$	$\frac{1}{2}$	0
$\tan\alpha$	0	$\frac{\sqrt{3}}{3}$	1	$\sqrt{3}$	ϕ
$\cot\alpha$	ϕ	$\sqrt{3}$	1	$\frac{\sqrt{3}}{3}$	0

הערות:

- ערכי הפונקציות הטריגונומטריות עבור זוויות של $0°$ ו-$90°$ תִּלמדנה בהמשך אך ניתנו כעת כדי להשלים את תמונת ערכי הזוויות.
- ניתן לזכור את הטבלה ע"י כתיבה של שורת הסינוס לפי: $\frac{\sqrt{0}}{2},\frac{\sqrt{1}}{2},\frac{\sqrt{2}}{2},\frac{\sqrt{3}}{2},\frac{\sqrt{4}}{2}$
  אשר נותנים את הערכים של השורה הראשונה לאחר פישוט קל.
  עבור שורת ה-$\cos\alpha$ יש להפוך את הערכים ולבסוף יש לחלק כל זוג ביטויים כדי לכתוב את ערכי $\tan\alpha$ ולסובב עבור ערכי $\cot\alpha$.

שאלות:

חשב ללא מחשבון את ערכי הביטויים הבאים תוך שימוש בערכי הפונקציות הטריגונומטריות של זוויות מיוחדות:

1) $\sin 30° + \cos 30°$.

2) $\frac{\sin 30° \cdot \cos 30°}{\sin 60°}$.

3) $\tan 45° + \frac{\sin 45°}{\cos 45°}$.

4) $\frac{1+\cos 60^\circ}{2\sin 60^\circ}$.

5) $\cos^2 45^\circ + \sin^2 30^\circ$.

6) $\frac{\tan^2 60^\circ \cdot \cos^2 30^\circ}{\cos^2 60^\circ}$.

7) $\frac{\tan 30^\circ \cdot \cot 60^\circ - \cot 45^\circ \cdot \tan 45^\circ}{4\left(\sin^2 60^\circ - \frac{1}{4}\right)}$.

8) $\frac{27\cot^4 60^\circ}{\sin 30^\circ \cdot \cos 45^\circ \cdot \tan 60^\circ}$.

תשובות סופיות:

1) $\frac{1+\sqrt{3}}{2}$

2) $\frac{1}{2}$

3) 2

4) $\frac{3}{2\sqrt{3}}$

5) $\frac{3}{4}$

6) 9

7) $-\frac{1}{3}$

8) $2\sqrt{6}$

מעגל היחידה – הגדרה וזהויות:

סיכום כללי:

הגדרת מעגל היחידה:

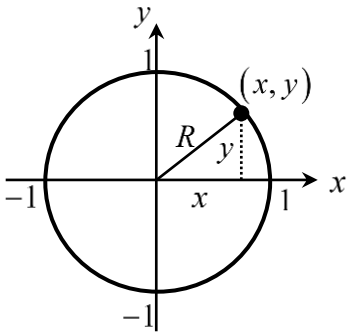

- מעגל קנוני שרדיוסו 1 מוגדר להיות המעגל הטריגונומטרי.
- הנקודות $(1,0)$, $(0,1)$, $(-1,0)$, $(0,-1)$ מתאימות לזוויות של $0°$, $90°$, $180°$, $270°$.

הזהויות של המעגל הטריגונומטרי:

רביע	סינוס	קוסינוס	טנגנס
II III VI	$\sin(180°-\alpha)=\sin\alpha$ $\sin(180°+\alpha)=-\sin\alpha$ $\sin(-a)=-\sin\alpha$	$\cos(180^o-\alpha)=-\cos\alpha$ $\cos(180^o+\alpha)=-\cos\alpha$ $\cos(-\alpha)=\cos\alpha$	$\tan(180^o-\alpha)=-\tan\alpha$ $\tan(180^o+\alpha)=\tan\alpha$ $\tan(-\alpha)=-\tan\alpha$
סימנים	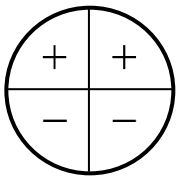	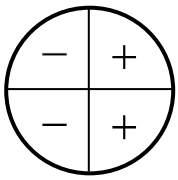	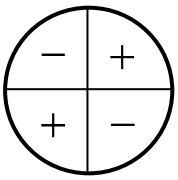

זהויות עבור זווית הגדולות מ-360 מעלות:

ניתן להוסיף או להוריד 'סיבובים' שלמים לזווית לפי:

$$\boxed{\begin{aligned}\sin(\alpha+360°k)&=\sin\alpha\\ \cos(\alpha+360°k)&=\cos\alpha\end{aligned}}\quad,\quad\boxed{\begin{aligned}\tan(\alpha+180°k)&=\tan\alpha\\ \cot(\alpha+180°k)&=\cot\alpha\end{aligned}}$$

כאשר k הוא מספר שלם מציין את מספר הסיבובים.

שאלות:

1) העבר את הביטויים הבאים לביטויים עם זווית ברביע הראשון.
אין צורך לחשב את ערך הביטוי:

א. $\sin 120°$	ב. $\cos 150°$
ג. $\tan 160°$	ד. $\cot 130°$
ה. $\sin 215°$	ו. $\cos 245°$
ז. $\tan 230°$	ח. $\cot 200°$
ט. $\sin 300°$	י. $\cos 310°$

2) חשב את ערכי הביטויים הבאים ע"י שימוש בזהויות המעגל הטריגונומטרי:

א. $\sin 150°$	ב. $\cos 210°$	ג. $\tan 120°$
ד. $\sin 330°$	ה. $\tan 225°$	ו. $\sin 315°$
ז. $\cos 120°$	ח. $\tan(-30°)$	ט. $\cos(-45°)$
י. $\sin 510°$	יא. $\cos 930°$	יב. $\tan(-225°)$

3) חשב את ערכי הביטויים הבאים ללא שימוש במחשבון:

א. $\left(\sin 240° \cdot \tan 150° + \cos(-60°)\right)^2$.

ב. $8\sin^2 150° \cdot \tan 135° - 2 \cdot \sin 135° \cdot \cos(-135°)$.

ג. $\dfrac{\cot 225°}{\sin(-225°) - \cos 135°} + \tan^2 210°$.

4) הוכח כי אם α, β ו- γ הן זוויות במשולש, אז מתקיים:

א. $\sin(\alpha + \beta) = \sin\gamma$.

ב. $\sin\left(\dfrac{\gamma + \beta}{2}\right) = \cos\dfrac{\alpha}{2}$.

תשובות סופיות:

1) א. $\sin 60°$ ב. $-\cos 30°$ ג. $-\tan 20°$ ד. $-\cot 50°$
ה. $-\sin 35°$ ו. $-\cos 65°$ ז. $\tan 50°$ ח. $\cot 20°$
ט. $-\sin 60°$ י. $\cos 50°$

2) א. $\frac{1}{2}$ ב. $-\frac{\sqrt{3}}{2}$ ג. $-\sqrt{3}$ ד. $-\frac{1}{2}$
ה. 1 ו. $-\frac{\sqrt{2}}{2}$ ז. $-\frac{1}{2}$ ח. $-\frac{\sqrt{3}}{3}$
ט. $\frac{\sqrt{2}}{2}$ י. $\frac{1}{2}$ יא. $-\frac{\sqrt{3}}{2}$ יב. -1

3) א. 1 ב. -1 ג. $\frac{1}{\sqrt{2}}+\frac{1}{3}$.

4) שאלת הוכחה.

סכום והפרש זוויות:

סיכום כללי:

סכום והפרש עבור $\sin(\alpha\pm\beta)$ ו- $\cos(\alpha\pm\beta)$ יחושב לפי:

$$\boxed{\begin{aligned}\sin(\alpha\pm\beta)&=\sin\alpha\cos\beta\pm\sin\beta\cos\alpha\\ \cos(\alpha\pm\beta)&=\cos\alpha\cos\beta\mp\sin\alpha\sin\beta\end{aligned}}.$$

סכום והפרש עבור $\tan(\alpha\pm\beta)$ ו- $\cot(\alpha\pm\beta)$

$$\boxed{\begin{aligned}\tan(\alpha\pm\beta)&=\frac{\tan\alpha\pm\tan\beta}{1\mp\tan\alpha\tan\beta}\\ \cot(\alpha\pm\beta)&=\frac{\cot\alpha\cot\beta\mp1}{\cot\beta\pm\cot\alpha}\end{aligned}}.$$

הערה:

בסרטון התיאוריה אין התייחסות מיוחדת לזהויות עבור $\tan(\alpha\pm\beta)$ ו- $\cot(\alpha\pm\beta)$.

שאלות:

1) חשב את ערכי הביטויים הבאים תוך שימוש בזהויות של סכום והפרש זוויות וללא שימוש במחשבון:

א. $\sin 75°$	ב. $\sin 15°$	ג. $\sin 105°$
ד. $\sin(-15°)$	ה. $\cos 75°$	ו. $\cos 15°$
ז. $\cos(-105°)$	ח. $\cos 165°$	ט. $\cos(-195°)$

2) חשב ללא שימוש במחשבון את ערכי הביטויים הבאים:

א. $\sin 65°\cos 25°+\sin 25°\cos 65°$.

ב. $5\cos 50°\cos 20°+5\sin 50°\sin 20°$.

3) הוכח את הזהויות הבאות:

א. $\sin(60°+\alpha)+\sin(60°-\alpha)=\sqrt{3}\cos\alpha$.

ב. $\cos(45°-\alpha)-\cos(45°+\alpha)=\sqrt{2}\sin\alpha$.

ג. $\sin(\alpha+\beta)\cdot\sin(\alpha-\beta)=\sin^2\alpha-\sin^2\beta$.

ד. $\tan\alpha-\tan\beta=\dfrac{\sin(\alpha-\beta)}{\cos\alpha\cos\beta}$.

4) נתון: $\cos\beta=\dfrac{8}{17}$, $\cos\alpha=\dfrac{4}{5}$ ו- α,β זוויות חדות.

מבלי למצוא את הערכים של α ו- β חשב:

א. $\sin(\alpha+\beta)$.

ב. $\cos(\alpha+\beta)$.

ג. $\tan(\alpha+\beta)$.

5) הוכח את הזהות: $\sin(\alpha+\beta)-\sin(\alpha-\beta)=2\sin\beta\cos\alpha$.

6) הוכח את הזהות: $(\sin\alpha+\cos\alpha)(\sin2\alpha+\cos2\alpha)=\sin3\alpha+\cos\alpha$.

7) הוכח את הזהות: $\tan7\alpha-\tan5\alpha-\tan2\alpha=\tan7\alpha\tan5\alpha\tan2\alpha$.

8) הוכח את הזהות: $\dfrac{\sin(\alpha-\beta)}{\cos(\alpha+\beta)}=\dfrac{\tan\alpha-\tan\beta}{1-\tan\alpha\tan\beta}$.

9) הוכח את הזהות: $\cot\alpha-\cot\beta=\dfrac{\sin(\beta-\alpha)}{\sin\alpha\sin\beta}$.

10) הוכח את הזהות הבאה:

$\sin\alpha\cos\beta\cos\gamma+\cos\alpha\sin\beta\cos\gamma+\cos\alpha\cos\beta\sin\gamma-\sin\alpha\sin\beta\sin\gamma=\sin(\alpha+\beta+\gamma)$.

11) הוכח כי מתקיים: $\sin 65^\circ \cos 25^\circ + \sin 25^\circ \cos 65^\circ = 1$.

12) הוכח כי מתקיים: $\tan 18^\circ \tan 27^\circ + \tan 18^\circ + \tan 27^\circ = 1$.

13) נתון כי: $\sin 76^\circ = m$. הבע את $\sin 31^\circ$ באמצעות m.

14) הזוויות α ו- β הן זוויות חדות.

נתון כי: $\tan\alpha = \frac{(2-k)\sqrt{3}}{3k}$ ו- $\tan\beta = \frac{(2k-1)\sqrt{3}}{3}$.

הראה כי מתקיים: $\alpha + \beta = 60^\circ$.

15) היעזר בנוסחה: $\tan(\alpha \pm \beta) = \frac{\tan\alpha \pm \tan\beta}{1 \mp \tan\alpha \tan\beta}$ ומצא את $\tan x$ ו- $\tan y$

אם ידוע כי: $\tan(x+y) = -3$ ו- $\tan(x-y) = \frac{1}{3}$. הבחן בין שני מקרים.

תשובות סופיות:

1) א. $\frac{\sqrt{6}+\sqrt{2}}{4}$ ב. $\frac{\sqrt{6}-\sqrt{2}}{4}$ ג. $\frac{\sqrt{6}+\sqrt{2}}{4}$ ד. $\frac{\sqrt{2}-\sqrt{6}}{4}$ ה. $\frac{\sqrt{6}-\sqrt{2}}{4}$

ו. $\frac{\sqrt{6}+\sqrt{2}}{4}$ ז. $\frac{\sqrt{2}-\sqrt{6}}{4}$ ח. $-\frac{\sqrt{6}+\sqrt{2}}{4}$ ט. $-\frac{\sqrt{6}+\sqrt{2}}{4}$

2) א. 1 ב. $\frac{5\sqrt{3}}{2}$

3) שאלת הוכחה.

4) א. $\frac{84}{85}$ ב. $-\frac{13}{85}$ ג. $-6\frac{6}{13}$

5) שאלת הוכחה.

6) שאלת הוכחה.

7) שאלת הוכחה.

8) שאלת הוכחה.

9) שאלת הוכחה.

10) שאלת הוכחה.

11) שאלת הוכחה.

12) שאלת הוכחה.

13) שאלת הוכחה.

14) $\frac{\sqrt{2}}{2}\left(m-\sqrt{1-m^2}\right)$.

15) שאלת הוכחה.

16) 1 ו-2 או $-\frac{1}{2}$ ו- 1-.

זווית כפולה:

סיכום כללי:

נפתח זווית כפולה לפי הצורות הבאות:

$$\boxed{\begin{array}{l}\sin 2\alpha = 2\sin\alpha\cos\alpha \\ \cos 2\alpha = \cos^2\alpha - \sin^2\alpha = 2\cos^2\alpha - 1 = 1 - 2\sin^2\alpha\end{array}}$$

שאלות:

1) הוכח את הזהויות הבאות:

א. $4\sin\alpha\cos\alpha\cos 2\alpha = \sin 4\alpha$

ב. $(\sin\alpha - \cos\alpha)^2 = 1 - \sin 2\alpha$

ג. $(\sin 3\alpha - \cos 3\alpha)^2 = 1 - \sin 6\alpha$

ד. $\cos^4\alpha - \sin^4\alpha = \cos 2\alpha$

ה. $\frac{\cos\alpha}{\sin\alpha} - \frac{\sin\alpha}{\cos\alpha} = 2\cot 2\alpha$

ו. $\frac{\cos 2\alpha - 2\sin^2\alpha\cos 2\alpha}{\sin 4\alpha} = \frac{1}{2}\cot 2\alpha$

ז. $\cos^2 2\alpha = 4\sin^4\alpha - 4\sin^2\alpha + 1$

ח. $\cos 4\alpha = 8\cos^4\alpha - 8\cos^2\alpha + 1$

2) הוכח את הזהות: $\sin^3\alpha = \frac{3\sin\alpha - \sin 3\alpha}{4}$ ע"י כתיבה של $\sin 3\alpha$

לפי: $\sin(\alpha + 2\alpha)$ ושימוש בזהויות שנלמדו.

3) הוכח את הזהות: $\cos^3\alpha = \frac{3\cos\alpha + \cos 3\alpha}{4}$ ע"י כתיבה של $\cos 3\alpha$

לפי: $\cos(\alpha + 2\alpha)$ ושימשו בזהויות שנלמדו.

4) נתונה זווית חדה α המקיימת: $\sin\alpha = \frac{40}{41}$. מבלי להיעזר במחשבון חשב:

א. $\cos\alpha$.

ב. $\tan\alpha$.

ג. $\sin 2\alpha$.

ד. $\cos 2\alpha$.

ה. $\tan 2\alpha$.

5) נתונה זווית חדה α המקיימת: $\tan\alpha=\frac{5}{12}$. מבלי להיעזר במחשבון חשב:

א. $\sin\alpha$.

ב. $\cos\alpha$.

ג. $\sin 2\alpha$.

ד. $\cos 2\alpha$.

6) נתונה זווית α ברביע הראשון וזווית β ברביע השני המקיימות: $\sin\alpha=\frac{5}{13}$ ו- $\cos\beta=-0.8$. מבלי למצוא את α ו- β חשב את הביטויים הבאים:

א. $\sin(\alpha+\beta)$.

ב. $\cos(\alpha+\beta)$.

ג. $\sin(2\alpha+\beta)$.

7) נתון כי $\sin\alpha+\cos\alpha=1.2$ עבור $0°<\alpha<90°$. חשב את $\sin 2\alpha$.

8) פשט את הביטוי הבא: $\sqrt{\frac{1+\cos 8\alpha}{2}}$.

9) ללא שימוש במחשבון, חשב את ערך הביטוי הבא: $\frac{\sin 16°\cos 16°}{3-6\sin^2 29°}$.

10) ללא שימוש במחשבון, חשב את ערך הביטוי הבא: $\frac{\sin^2 78°-\cos^2 78°}{\sin 66°}$.

11) ללא שימוש במחשבון, חשב את ערך הביטוי הבא: $\frac{5\tan 15°\left(1-2\cos^2 15°\right)}{1-\tan^2 15°}$.

תשובות סופיות:

1) שאלת הוכחה.

2) שאלת הוכחה.

3) שאלת הוכחה.

4) א. $\frac{9}{41}$ ב. $4\frac{4}{9}$ ג. $\frac{720}{1681}$ ד. $-\frac{1519}{1681}$

ה. $-\frac{720}{1519}$

5) א. $\frac{5}{13}$ ב. $\frac{12}{13}$ ג. $\frac{120}{169}$ ד. $\frac{119}{169}$

6) א. $\frac{16}{65}$ ב. $-\frac{63}{65}$ ג. $-\frac{123}{845}$

7) 0.44.

8) $\cos 4\alpha$.

9) $\frac{1}{6}$.

10) 1.

11) -1.25.

סכום והפרש פונקציות טריגונומטריות:

סיכום כללי:

להלן נוסחאות הסכום וההפרש של פונקציות טריגונומטריות:

$$\sin\alpha+\sin\beta=2\sin\frac{\alpha+\beta}{2}\cos\frac{\alpha-\beta}{2}$$
$$\sin\alpha-\sin\beta=2\sin\frac{\alpha-\beta}{2}\cos\frac{\alpha+\beta}{2}$$
$$\cos\alpha+\cos\beta=2\cos\frac{\alpha+\beta}{2}\cos\frac{\alpha-\beta}{2}$$
$$\cos\alpha-\cos\beta=-2\sin\frac{\alpha+\beta}{2}\sin\frac{\alpha-\beta}{2}$$

הערה:

בסרטון התיאוריה אין התייחסות לזהויות הסכום וההפרש של טנגנס ושל קוטנגנס עקב חוסר השימוש בהן בפתרון שאלות.

שאלות:

1) הוכח את הזהות הבאה: $\sin 5\alpha+\sin 3\alpha=2\sin 4\alpha\cos\alpha$.

2) הוכח את הזהות הבאה: $\sin 7\alpha-\sin 2\alpha=2\sin 2.5\alpha\cos 4.5\alpha$.

3) הוכח את הזהות הבאה: $\cos\alpha+\cos 5\alpha=2\sin 2\alpha\cos 3\alpha$.

4) הוכח את הזהות הבאה: $\cos 5\alpha-\cos 2\alpha=-2\sin 3.5\alpha\cos 1.5\alpha$.

5) הוכח את הזהות הבאה: $\sin 3\alpha=2\sin 2\alpha\cos\alpha-\sin\alpha$.

6) הוכח את הזהות הבאה: $\sin^2\alpha-\sin^2\beta=\sin(\alpha+\beta)\sin(\alpha-\beta)$.

7) הוכח את הזהות הבאה: $\sin(2\alpha+\beta)-2\cos(\alpha+\beta)\sin\alpha=\sin\beta$.

8) הוכח את הזהות הבאה: $\frac{\sin 5\alpha-\sin\alpha}{\sin 4\alpha-\sin 2\alpha}=2\cos\alpha$.

9) הוכח את הזהות הבאה: $\frac{\sin 7\alpha - \sin 3\alpha}{\cos 4\alpha + \cos 6\alpha} = 2\sin\alpha$.

10) הוכח את הזהות הבאה: $\frac{\sin\alpha + \sin 2\alpha + \sin 3\alpha}{\cos\alpha + \cos 2\alpha + \cos 3\alpha} = \tan 2\alpha$.

11) הוכח את הזהות הבאה: $\tan\alpha + \tan 3\alpha = \frac{2\sin 4\alpha}{\cos 4\alpha + \cos 2\alpha}$.

12) פשט את הביטוי: $\frac{1+\cos\alpha+\cos 2\alpha+\cos 3\alpha}{\cos\alpha + 2\cos^2\alpha - 1}$ ומצא את ערכו מבלי להיעזר במחשבון אם ידוע כי $\sin\frac{\alpha}{2} = \frac{5}{6}$.

13) נתון כי α ו- β הן זוויות חדות המקיימות: $\sin\alpha = \frac{2mn}{m^2+n^2}$ ו- $\sin\beta = \frac{n^2-m^2}{m^2+n^2}$.
הראה כי: $\alpha + \beta = 90°$.

14) היעזר במעבר מכפל לסכום או הפרש
והוכח כי: $\cos 6\alpha\cos 2\alpha - \cos 5\alpha\cos\alpha = -\sin 7\alpha\sin\alpha$.

15) היעזר במעבר מכפל לסכום או הפרש
והוכח כי: $\sin 4\alpha\sin 2\alpha - \sin 5\alpha\sin\alpha + \cos 3\alpha\cos\alpha = \cos 2\alpha$.

16) חשב ללא מחשבון את ערך הביטוי הבא: $\sin 52.5° \cdot \sin 7.5°$.

17) חשב ללא מחשבון את ערך הביטוי הבא: $\frac{\sin 35°\sin 55°}{\cos 40°\cos 20° - 0.25}$.

18) חשב ללא מחשבון את ערך הביטוי הבא: $\cos 20°\cos 40°\cos 80°$.

19) חשב ללא מחשבון את ערך הביטוי הבא: $\sin 5°\cdot\sin 25°\cdot\sin 35°\cdot\sin 55°\cdot\sin 65°\cdot\sin 85°$.

תשובות סופיות:

1) שאלת הוכחה.
2) שאלת הוכחה.
3) שאלת הוכחה.
4) שאלת הוכחה.
5) שאלת הוכחה.
6) שאלת הוכחה.
7) שאלת הוכחה.
8) שאלת הוכחה.
9) שאלת הוכחה.
10) שאלת הוכחה.
11) שאלת הוכחה.
12) $-\frac{7}{9}$.
13) שאלת הוכחה.
14) שאלת הוכחה.
15) שאלת הוכחה.
16) $\frac{\sqrt{2}-1}{4}$.
17) 1.
18) $\frac{1}{8}$.
19) $\frac{1}{64}$.

מכפלת פונקציות:

סיכום כללי:

להלן נוסחאות המעבר מסכום למכפלה וממכפלה לסכום:

$$\begin{cases} \sin\alpha\cos\beta=\frac{1}{2}\left[\sin(\alpha+\beta)+\sin(\alpha-\beta)\right] \\ \cos\alpha\cos\beta=\frac{1}{2}\left[\cos(\alpha+\beta)+\cos(\alpha-\beta)\right] \\ \sin\alpha\sin\beta=\frac{1}{2}\left[\cos(\alpha-\beta)-\cos(\alpha+\beta)\right] \end{cases}$$

$$\begin{cases} \sin\alpha+\sin\beta=2\sin\frac{\alpha+\beta}{2}\cos\frac{\alpha-\beta}{2} \\ \sin\alpha-\sin\beta=2\sin\frac{\alpha-\beta}{2}\cos\frac{\alpha+\beta}{2} \\ \cos\alpha+\cos\beta=2\cos\frac{\alpha+\beta}{2}\cos\frac{\alpha-\beta}{2} \\ \cos\alpha-\cos\beta=-2\sin\frac{\alpha+\beta}{2}\sin\frac{\alpha-\beta}{2} \end{cases}$$

שאלות:

1) הוכח את הזהות הבאה: $\sin 7\alpha\cos\alpha=\frac{1}{2}(\sin 8\alpha+\sin 6\alpha)$.

2) הוכח את הזהות הבאה: $\cos 11\alpha\sin 3\alpha=\frac{1}{2}(\sin 14\alpha-\sin 8\alpha)$.

3) הוכח את הזהות הבאה: $\cos 4\alpha\cos 10\alpha=\frac{1}{2}(\cos 6\alpha+\cos 14\alpha)$.

4) הוכח את הזהות הבאה: $\sin 3\alpha\sin 7\alpha=\frac{1}{2}(\cos 4\alpha-\cos 10\alpha)$.

5) הוכח את הזהות הבאה: $2\sin 7\alpha\sin 2\alpha+\cos 9\alpha=\cos 5\alpha$.

6) הוכח את הזהות הבאה: $\sin 7\alpha\cos 4\alpha-\sin 4\alpha\cos\alpha=\sin 3\alpha\cos 8\alpha$.

7) הוכח את הזהות הבאה: $\sin\alpha\sin 3\alpha=\cos 2\alpha-\cos 3\alpha\cos\alpha$.

8) הוכח את הזהות הבאה: $2\left(\sin^2\beta-\sin^2\alpha\right)=\cos 2\alpha-\cos 2\beta$.

9) הוכח את הזהות הבאה: $\frac{2}{\cot\beta-\tan\alpha}=\tan(\alpha+\beta)-\frac{\sin(\alpha-\beta)}{\cos(\alpha+\beta)}$.

תשובות סופיות:

1) הוכחה.
2) הוכחה.
3) הוכחה.
4) הוכחה.
5) הוכחה.
6) הוכחה.
7) הוכחה.
8) הוכחה.
9) הוכחה.

מכינה במתמטיקה לתלמידי כלכלה

פרק 17 - חשבון דיפרנציאלי - נגזרות ומשיקים

תוכן העניינים

1. הקדמה כללית 196
2. גזירת פונקציות 197
3. מציאת שיפוע המשיק לגרף הפונקציה 203
4. מציאת משוואת המשיק לגרף הפונקציה 204
5. שאלות עם פרמטרים 207
6. שאלות העוסקות במציאת משוואת משיק מנקודה חיצונית 209

הקדמה כללית:

סיכום כללי:

פונקציות נפוצות:

הפונקציה $f(x)=x^2$: הפונקציה $f(x)=x^3$: הפונקציה $f(x)=\sqrt{x}$: הפונקציה $f(x)=|x|$:

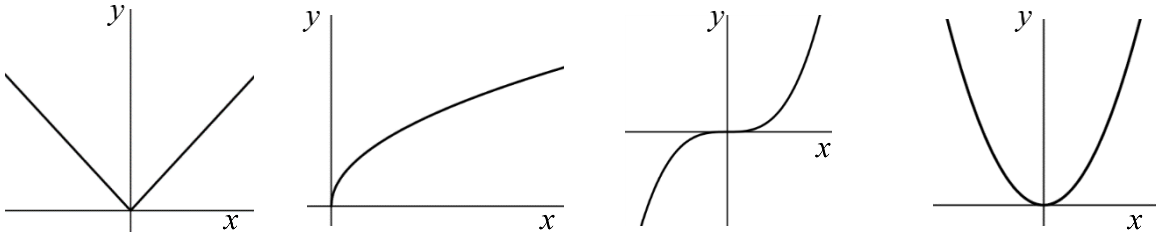

פונקציה עם מכנה, למשל: $f(x)=\dfrac{5x^3+4x}{x^2-1}$:

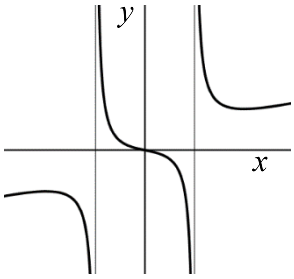

שיפוע של פונקציה:

- השיפוע m של פונקציה $f(x)$ בנקודה $A(x_1,y_1)$ שעל הפונקציה הוא ערך הנגזרת בנקודה $A(x_1,y_1)$, כלומר: $m=f'(x_1)$.
- השיפוע של המשיק לפונקציה $f(x)$ בנקודה $A(x_1,y_1)$ שעל הפונקציה שווה לשיפוע הפונקציה בנקודה $A(x_1,y_1)$.
- משוואת המשיק לפונקציה $f(x)$ בנקודה $A(x_1,y_1)$ שעליה מתקבלת על ידי הנוסחה למציאת ישר: $y-y_1=m(x-x_1)$.

הנגזרת:

לכל פונקציה $f(x)$ קיימת פונקציה, הנקראת פונקציית הנגזרת (או רק "הנגזרת") ומסומנת $f'(x)$, המתקבלת ממנה על פי כללי הגזירה.

גזירת פונקציות:

סיכום כללי:

כללי הגזירה:

- כלל גזירה מס' 1: $f(x)=x^n \Rightarrow f'(x)=n\cdot x^{n-1}$.
- כלל גזירה מס' 2 (כפל בקבוע): $f(x)=ax^n \Rightarrow f'(x)=n\cdot ax^{n-1}$.
- כלל גזירה מס' 3 (נגזרת של קבוע): $f(x)=a \Rightarrow f'(x)=0$.
- כלל גזירה מס' 4 (סכום והפרש): $f(x)=u\pm v \Rightarrow f'(x)=u'\pm v'$.
- כלל גזירה מס' 5 (פונקציה מורכבת): $f(x)=u^n \Rightarrow f'(x)=n\cdot u^{n-1}\cdot u'$.
- כלל גזירה מס' 6 (נגזרת של $\frac{1}{x}$): $f(x)=\frac{1}{x} \Rightarrow f'(x)=-\frac{1}{x^2}$.
- כלל גזירה מס' 7 (מכפלה): $f(x)=u\cdot v \Rightarrow f'(x)=u'v+v'u$.
- כלל גזירה מס' 8 (מנה): $f(x)=\frac{u}{v} \Rightarrow f'(x)=\frac{u'v-uv'}{v^2}$.
- כלל גזירה מס' 9 (שורש): $f(x)=\sqrt{x} \Rightarrow f'(x)=\frac{1}{2\sqrt{x}}$.

שאלות:

1) גזור את הפונקציות הבאות:

א. $f(x)=x^3$	ב. $f(x)=x^7$	ג. $f(x)=x^2$
ד. $f(x)=x$	ה. $f(x)=x^{-3}$	ו. $f(x)=x^{-1}$
ז. $f(x)=x^{\frac{1}{2}}$	ח. $f(x)=x^{\frac{1}{3}}$	ט. $f(x)=x^{\frac{3}{4}}$

2) גזור את הפונקציות הבאות:

א. $f(x)=2x^3$	ב. $f(x)=3x^7$	ג. $f(x)=\frac{1}{2}x^4$
ד. $f(x)=\frac{x^6}{7}$	ה. $f(x)=8x$	ו. $f(x)=3x^{-2}$
ז. $f(x)=\frac{4}{x}$	ח. $f(x)=6x^{\frac{1}{2}}$	ט. $f(x)=\frac{x^{\frac{2}{3}}}{3}$

3) גזור את הפונקציות הבאות:

א. $f(x)=12$

ב. $f(x)=\frac{7}{8}$

4) גזור את הפונקציות הבאות:

א. $f(x)=x^3+2x^2-3x+5$

ב. $f(x)=\frac{1}{4}x^4-\frac{x^3}{6}+\frac{3x}{4}-\frac{2}{5}$

ג. $f(x)=7x^2+23x-6$

ד. $f(x)=6x^2+8x+4$

ה. $f(x)=\frac{1}{2}x^2-x^3$

ו. $f(x)=\frac{x^4}{8}+67$

5) גזור את הפונקציות הבאות:

א. $f(x)=(5x-2)^3$

ב. $f(x)=(x^3+6)^5$

ג. $f(x)=3(x-x^2)^2$

ד. $f(x)=\frac{(5-x)^3}{4}$

ה. $f(x)=\frac{2(x+1)^4}{3}$

6) גזור את הפונקציות הבאות:

א. $f(x)=\frac{3}{x}$

ב. $f(x)=-\frac{2}{x}$

ג. $f(x)=\frac{1}{x^2}$

ד. $f(x)=\frac{3}{x^3}$

ה. $f(x)=\frac{1}{x^2-3x}$

ו. $f(x)=\frac{2}{3-x}$

ז. $f(x)=\frac{6}{x+5}$

7) גזור את הפונקציות הבאות:

א. $f(x)=(5x+1)(x-3)$

ב. $f(x)=(5x+1)^3(x-3)$

ג. $f(x)=x^3(6-x)^4$

ד. $f(x)=3x^2\cdot x$

ה. $f(x)=x^2\cdot x^3$

ו. $f(x)=x(3x+7)$

ז. $f(x)=3x^3(3x-1)$

ח. $f(x)=(x-2)(2x^2+3)$

ט. $f(x)=(3x-2)(x^2+10x)$

י. $f(x)=(3x^4-4x)(2x^2+5x+2)$

יא. $f(x)=x(x-2)(3x-4)$

8) גזור את הפונקציות הבאות:

א. $f(x)=(x^2-4)^2$

ב. $f(x)=2x^3(3x+5)^2$

ג. $f(x)=(x^3+2)^2(x-1)^3$

ד. $f(x)=(x^2+1)^3(2x-1)^2$

9) גזור את הפונקציות הבאות:

א. $f(x)=\frac{3x-1}{1+2x}$

ב. $f(x)=\frac{x^2+1}{5x-12}$

ג. $f(x)=\frac{x^2-1}{x^2+3}$

ד. $f(x)=\frac{x^2+8}{x-1}$

ה. $f(x)=\frac{1}{x}$

ו. $f(x)=\frac{3}{x^3}$

ז. $f(x)=\frac{(x-1)^2}{x+1}$

ח. $f(x)=\frac{(x^2+3)^2}{x^2-2}$

ט. $f(x)=\frac{x^3-x^2}{2(1-x)}$

י. $f(x)=\frac{x-2}{x^2-4}$

10) גזור את הפונקציות הבאות:

א. $f(x)=\sqrt{x}$

ב. $f(x)=4\sqrt{x+1}$

ג. $f(x)=\sqrt{x^3-1}$

ד. $f(x)=(3x+1)\sqrt{x}$

ה. $f(x)=x^2\sqrt{x+3}$

ו. $f(x)=\frac{x+3}{\sqrt{x}}$

11) גזור את הפונקציות הבאות:

א. $f(x)=\sqrt{x+1}$

ב. $f(x)=\sqrt{2x}$

ג. $f(x)=\sqrt{3x^2+1}$

ד. $f(x)=\sqrt{10-3x}$

ה. $f(x)=\sqrt{2x^2+7x}$

ו. $f(x)=3x^2-8\sqrt{x}$

ז. $f(x)=x^2\sqrt{1-2x}$

ח. $f(x)=\frac{\sqrt{x}}{x}$

ט. $f(x)=\frac{x\sqrt{x^2+4}}{2}$

י. $f(x)=\frac{x+3}{\sqrt{1-x^2}}$

יא. $f(x)=\frac{2x^3-x^2+x-5\sqrt{x}}{x\sqrt{x}}$

יב. $f(x)=\sqrt{\frac{3-x}{x}}$

יג. $f(x)=\sqrt{\frac{1+x^2}{1-x}}$

יד. $f(x)=\frac{x^2+7}{\sqrt{x^2-5}}$

טו. $f(x)=\frac{\sqrt{x}}{x-1}$

טז. $f(x)=\frac{\sqrt{x+1}}{x-1}$

12) גזור את הפונקציות הבאות:

א. $f(x)=ax^4-bx$

ב. $f(x)=\frac{ax^2}{3}-\frac{x}{b}+c$

ג. $f(x)=\frac{x-2a}{x-4a}$

ד. $f(x)=a\sqrt{bx^2+c}$

13) גזור פעמיים את הפונקציות הבאות:

א. $f(x)=\frac{x^2+2x+4}{2x}$

ב. $f(x)=\frac{x^2-5x+6}{2x+10}$

ג. $f(x)=\frac{2x^2}{(x+1)^2}$

ד. $f(x)=\frac{x^3}{x^2-4}$

ה. $f(x)=\frac{x^3}{(x+1)^2}$

ו. $f(x)=\left(\frac{x+1}{x-1}\right)^3$

תשובות סופיות:

1) א. $3x^2$ ב. $7x^6$ ג. $2x$ ד. 1 ה. $-\frac{3}{x^4}$ ו. $-\frac{1}{x^2}$

ז. $\frac{1}{2\sqrt{x}}$ ח. $\frac{1}{3\sqrt[3]{x^2}}$ ט. $\frac{3}{4\sqrt[4]{x}}$.

2) א. $6x^2$ ב. $21x^6$ ג. $2x^3$ ד. $\frac{6x^5}{7}$ ה. 8.

ו. $-\frac{6}{x^3}$ ז. $-\frac{4}{x^2}$ ח. $\frac{3}{\sqrt{x}}$ ט. $\frac{2}{9\sqrt[3]{x}}$.

3) א. 0 ב. 0.

4) א. $3x^2+4x-3$ ב. $x^3-\frac{x^2}{2}+\frac{3}{4}$ ג. $14x+23$ ד. $12x+8$ ה. $x-3x^2$ ו. $0.5x^3$.

5) א. $15(5x-2)^2$ ב. $15x^2(x^3+6)^4$ ג. $6(x-x^2)(1-2x)$

ד. $-\frac{3}{4}(5-x)^2$ ה. $\frac{8(x+1)^3}{3}$.

6) א. $-\frac{3}{x^2}$ ב. $\frac{2}{x^2}$ ג. $-\frac{2}{x^3}$ ד. $-\frac{9}{x^4}$ ה. $-\frac{2x-3}{(x^2-3x)^2}$

ו. $\frac{2}{(3-x)^2}$ ז. $-\frac{6}{(x+5)^2}$.

7) א. $10x-14$ ב. $(5x+1)^2(20x-44)$ ג. $x^2(6-x)^3(18-7x)$.

ד. $9x^2$ ה. $5x^4$ ו. $6x+7$ ז. $36x^3-9x^2$ ח. $6x^2-8x+3$

ט. $9x^2+56x-20$ י. $36x^5+75x^4+24x^3-24x^2-40x-8$

יא. $9x^2-20x+8$.

8) א. $4x(x^2-4)$ ב. $30x^2(x+1)(3x+5)$ ג. $3(x-1)^2(x^3+2)(3x^3-2x^2+2)$

ד. $2(2x-1)(x^2+1)^2(8x^2-3x+2)$.

9) א. $\frac{5}{(1+2x)^2}$ ב. $\frac{5x^2-24x-5}{(5x-12)^2}$ ג. $\frac{8x}{(x^2+3)^2}$ ד. $\frac{(x-4)(x+2)}{(x-1)^2}$

ה. $-\frac{1}{x^2}$ ו. $-\frac{9}{x^4}$ ז. $\frac{x^2+2x-3}{(x+1)^2}$

ח. $\frac{2x(x^2+3)(x^2-7)}{(x^2-2)^2}$ ט. $-x$ י. $-\frac{1}{(x+2)^2}$.

10) א. $\frac{1}{2\sqrt{x}}$ ב. $\frac{2}{\sqrt{x+1}}$ ג. $\frac{3x^2}{2\sqrt{x^3-1}}$ ד. $\frac{9x+1}{2\sqrt{x}}$ ה. $\frac{x(5x+12)}{2\sqrt{x+3}}$

ו. $\frac{x-3}{2x\sqrt{x}}$

11) א. $\frac{1}{2\sqrt{x+1}}$ ב. $\frac{1}{\sqrt{2x}}$ ג. $\frac{3x}{\sqrt{3x^2+1}}$ ד. $-\frac{3}{2\sqrt{10-3x}}$ ה. $\frac{4x+7}{2\sqrt{2x^2+7x}}$

ו. $6x-\frac{4}{\sqrt{x}}$ ז. $\frac{2x-5x^2}{\sqrt{1-2x}}$ ח. $-\frac{1}{2x\sqrt{x}}$ ט. $\frac{x^2+2}{\sqrt{x^2+4}}$ י. $\frac{1-3x}{(1-x^2)^{1.5}}$

יא. $3\sqrt{x}-\frac{1}{2\sqrt{x}}-\frac{1}{2x\sqrt{x}}+\frac{5}{x^2}$ יב. $-\frac{3}{2x\sqrt{3x-x^2}}$ יג. $\frac{-x^2+2x+1}{2(1-x)^{1.5}\sqrt{1+x^2}}$

יד. $\frac{x^3-17x}{(x^2-5)^{1.5}}$ טו $-\frac{x+1}{2\sqrt{x}(x-1)^2}$ טז. $-\frac{x+3}{2(x-1)^2\sqrt{x+1}}$.

12) א. $4ax^3-b$ ב. $\frac{2ax}{3}-\frac{1}{b}$ ג. $\frac{-2a}{(x-4a)^2}$ ד. $\frac{abx}{\sqrt{bx^2+c}}$.

13) א. $f''(x)=\frac{4}{x^3}$, $f'(x)=\frac{2x^2-8}{4x^2}$.

ב. $f''(x)=\frac{448}{(2x+10)^3}$, $f'(x)=\frac{2x^2+20x-62}{(2x+10)^2}$.

ג. $f''(x)=\frac{4(1-2x)}{(x+1)^4}$, $f'(x)=\frac{4x}{(x+1)^3}$.

ד. $f''(x)=\frac{8x(x^2+12)}{(x^2-4)^3}$, $f'(x)=\frac{x^2(x^2-12)}{(x^2-4)^2}$.

ה. $f''(x)=\frac{6x}{(x+1)^4}$, $f'(x)=\frac{x^2(x+3)}{(x+1)^3}$.

ו. $f''(x)=\frac{12(x+1)(x+3)}{(x-1)^5}$, $f'(x)=-\frac{6(x+1)^2}{(x-1)^4}$

מציאת שיפוע המשיק לגרף הפונקציה:

שאלות:

14) מצא את שיפוע הפונקציה $f(x)=2x^3-7x$ בנקודה $(2\ ,\ 2)$.

15) מצא את שיפוע הפונקציה $f(x)=\frac{1}{x^2-3}$ בנקודה בה $x=-2$.

16) מצא את שיפוע המשיק לפונקציה $f(x)=4\sqrt{x}$ בנקודה בה $x=1$.

תשובות סופיות:

14) $m=17$
15) $m=4$
16) $m=2$

מציאת משוואת המשיק לגרף הפונקציה:

שאלות:

17) מצא את משוואת המשיק לפונקציה $f(x)=2(4x+3)^3$ בנקודה בה $x=-1$.

18) מצא את משוואת המשיק לפונקציה $f(x)=\frac{8}{x+1}$ בנקודה בה $y=2$.

19) מצא את משוואות המשיקים לפונקציה $f(x)=x^2-2x-8$ בנקודות החיתוך שלה עם ציר ה-x.

20) מצא את משוואת המשיק לפונקציה $f(x)=x^4-2x$ ששיפועו 2.

21) מצא את משוואת המשיק לפונקציה $f(x)=\frac{x^3+3x-1}{x^2-2}$ בנקודה שבה $x=1$.

22) נתון כי הישר $2y-3x=3$ משיק לגרף הפונקציה $f(x)=3\sqrt{x}$.
מצא את נקודת ההשקה.

23) מצא את משוואת המשיק לפונקציה $f(x)=\frac{1}{x}+\sqrt{x}$ בנקודה בה $x=1$.

24) מצא את משוואת המשיק לפונקציה $f(x)=3x^2-8\sqrt{x}$ בנקודה בה $x=4$.

25) נתונה הפונקציה הבאה $f(x)=4x-2\sqrt{x}$.

א. מצא את משוואת המשיק לגרף הפונקציה המקביל לישר $f(x)=3x-\frac{1}{2}$.

ב. מצא את נקודת החיתוך של המשיק עם ציר ה-x.

26) מצא את משוואת המשיק לפונקציה $f(x)=\frac{4}{\sqrt{x-1}}$ ששיפועו 2-.

27) מצא את משוואות המשיק לפונקציה $f(x)=\frac{x-3}{\sqrt{x^2-x+2}}$ בנקודה שבה $x=2$.

28) מצא את משוואות המשיקים לפונקציה $f(x)=\frac{1}{3x^3}$ היוצרים עם הכיוון החיובי של ציר ה-x זווית של $135°$.

29) מצא את משוואת המשיקים המשותפים לפונקציות הבאות: $y=-\frac{1}{4}x^2-5$, $y=x^2$.

30) נתונה הפונקציה: $f(x)=\frac{\sqrt{x^2+3}}{x}$ ונתון הישר: $y=2x$.

א. מצא את נקודת החיתוך של הפונקציה והישר הנמצאת ברביע הראשון.

ב. מצא את משוואות המשיק לגרף הפונקציה בנקודה שמצאת בסעיף הקודם.

ג. חשב את השטח שנוצר בין המשיק והצירים.

31) באיור שלפניך מתוארים הגרפים של הפונקציות: $f(x)=\sqrt{x}$, $g(x)=x^2$.

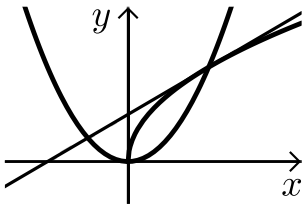

א. מצא את נקודות החיתוך של הגרפים.

ב. מצא את משוואת המשיק לגרף הפונקציה $f(x)$ העובר דרך נקודת החיתוך שמצאת הנמצאת ברביע הראשון.

ג. מצא את נקודת החיתוך הנוספת של המשיק שמצאת עם גרף הפונקציה $g(x)$.

תשובות סופיות:

17) $y=24x+22$

18) $y=-\frac{1}{2}x+3\frac{1}{2}$

19) $y=6x-24\ ,\ y=-6x-12$

20) $y=2x-3$

21) $y=-12x+9$

22) $(1\ ,\ 3)$

23) $y=-\frac{1}{2}x+2\frac{1}{2}$

24) $y=22x-56$

25) א. $y=3x-1$ ב. $\left(\frac{1}{3}\ ,\ 0\right)$

26) $y=-2x+8$

27) $y=\frac{11}{16}x-\frac{15}{8}$

28) $y=-x+1\frac{1}{3}\ ,\ y=-x-1\frac{1}{3}$

29) $y=2x-1\ ,\ y=-2x-1$

30) א. $(1\ ,\ 2)$ ב. $y=-1.5x+3.5$ ג. $S=4\frac{1}{12}$.

31) א. $(1\ ,\ 1)\ ,\ (0\ ,\ 0)$ ב. $y=0.5x+0.5$ ג. $(-0.5\ ,\ 0.25)$.

שאלות עם פרמטרים:

שאלות:

32) שיפוע המשיק לפונקציה $f(x)=ax^2-4x$ בנקודה שבה $x=3$ הוא 8.
מצא את ערכו של הפרמטר a ואת משוואת המשיק.

33) נתונה הפונקציה $f(x)=\sqrt{ax}$, $(a>0)$.
המשיק לפונקציה בנקודה שבה $x=\frac{1}{2}$ הוא בעל שיפוע 1.
מצא את ערך הפרמטר a.

34) נתונה הפונקציה: $y=x^3+a\sqrt{x}$ (a פרמטר).
שיפוע המשיק לגרף הפונקציה בנקודה שבה $x=1$ הוא 5.
מצא את ערך הפרמטר a.

35) נתונה הפונקציה: $y=2\sqrt{x}-\frac{A}{x}$ (A פרמטר).
שיפוע המשיק לגרף הפונקציה בנקודה שבה $x=1$ הוא 2.
מצא את ערך הפרמטר A.

36) הישר $y=4x+b$ משיק לגרף הפונקציה $f(x)=\frac{2}{x^2}+3$.
מצא את b ואת נקודת ההשקה.

37) שיפוע המשיק לפונקציה $f(x)=\frac{2}{ax+3}$ בנקודה שבה $y=2$ הוא -4.
מצא את ערכו של הפרמטר a ואת משוואת המשיק.

38) הישר $y=ax+\frac{1}{2}$ משיק לגרף הפונקציה $g(x)=\frac{2}{x+c}$ בנקודה $x=0$.
מצא את ערכי הפרמטרים a ו-c.

39) הישר $y=3x$ משיק לגרף הפונקציה $f(x)=x\sqrt{x}+b$.
מצא את b ואת נקודת ההשקה.

40) שיפוע המשיק לפונקציה $f(x)=\frac{a}{\sqrt{bx-1}}$ בנקודה $(1\ ,\ 6)$ הוא -6.
מצא את ערכי הפרמטרים a ו- b ואת משוואת המשיק.

41) לאילו ערכי k ישיק הישר $y=-5x+6$ לגרף הפונקציה $f(x)=x^3-2x^2-4x+k$?
לכל ערך כזה של k מצא את נקודת ההשקה.

42) הפונקציות $y=\frac{1}{x}$ ו- $y=-\frac{1}{2}x^2+k$ משיקות זו לזו.
מצא את k ואת נקודת ההשקה.

תשובות סופיות:

32) $a=2\ ,\ y=8x-18$

33) $a=2$

34) $a=4$

35) $\mathrm{A}=1$

36) $(-1\ ,\ 5)\ ,\ y=4x+9$

37) $a=2\ ,\ y=-4x-2$

38) $a=-\frac{1}{8}\ ,\ c=4$

39) $b=4\ ,\ (4\ ,\ 12)$

40) $b=2\ ,\ a=6\ ,\ y=-6x+12$

41) $k=6:(1\ ,\ 1)$ או: $\left(\frac{1}{3}\ ,\ \frac{13}{3}\right):k=\frac{158}{27}$.

42) $(1\ ,\ 1)\ ,\ k=1.5$

שאלות העוסקות במציאת משוואת משיק מנקודה חיצונית:

שאלות:

43) ענה על הסעיפים הבאים:

א. בטא באמצעות t את משוואת המשיק לפונקציה $f(x)=x^2+1$ בנקודה שבה $x=t$.

ב. מצא את ערכיו של t אם נתון שהמשיק עובר בנקודה $(-1\ ,\ 1)$.

44) מצא את משוואות המשיקים לגרף הפונקציה: $f(x)=5x-x^2$ העוברים דרך הנקודה $(3\ ,\ 7)$.

45) מצא את משוואות המשיקים לגרף הפונקציה: $f(x)=x^2+5x-6$ העוברים דרך הנקודה $(0\ ,-10)$.

46) מצא את משוואות המשיקים לגרף הפונקציה: $f(x)=12x-x^3$ העוברים דרך הנקודה $(2\ ,\ 24)$.

47) מצא את משוואת המשיק לפונקציה $f(x)=\frac{1}{\sqrt{x}}$ העובר בנקודה $(3\ ,\ 0)$.

48) מצא משוואת המשיק לפונקציה: $f(x)=\frac{1}{\sqrt{x}}$ אם ידוע ששטח המשולש שהוא יוצר עם הצירים הוא 4.5 יחידות שטח.

49) מצא את משוואות המשיקים לגרף הפונקציה: $f(x)=\frac{2}{\sqrt{x-2}}$ העוברים דרך הנקודה $(2\ ,\ 3)$.

תשובות סופיות:

43) א. $y=2tx-t^2+1$ ב. $t=0,-2$.

44) $y=-3x+16$, $y=x+4$

45) $y=x-10$, $y=9x-10$

46) $y=-15x+54$, $y=12x$

47) $y=-\frac{1}{2}x+1\frac{1}{2}$

48) $y=-\frac{1}{16}x+\frac{3}{4}$

49) $y=-x+5$

מכינה במתמטיקה לתלמידי כלכלה

פרק 18 - חשבון דיפרנציאלי - חקירת פונקצית פולינום

תוכן העניינים

1. נקודות קיצון של פונקציות 211
2. חקירת פונקציה פולינומית 214
3. פונקציה זוגית ואי-זוגית 218

נקודות קיצון של פונקציות:

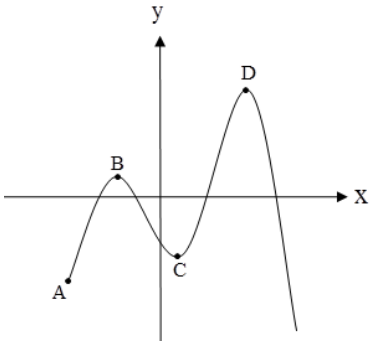

סיכום כללי:

נקודות קיצון (נקודות מינימום/מקסימום):

- מינימום או מקסימום מקומי (פנימי) – B , C , D.
- מינימום או מקסימום קצה – A.
- מינימום או מקסימום מוחלט – D.

נקודות קיצון מקומיות:

- שיפוע המשיק לפונקציה בנקודות קיצון מקומיות הוא אפס.
- בנקודה שבה שיפוע המשיק לפונקציה הוא אפס תיתכן נקודת קיצון מקומית. נקודה כזו נקראת נקודה חשודה כקיצון. ניתן לבדוק אם היא אכן נקודת קיצון.

שלבים למציאת נקודות קיצון מקומיות:

- נגזור את הפונקציה.
- נשווה את הנגזרת לאפס ונחלץ את ערכי ה- x של הנקודות החשודות כקיצון.
- נציב את ערכי ה- x מסעיף ב' בפונקציה המקורית לקבלת ערכי ה- y .
- נקבע אם הנקודה היא נקודת קיצון ונסווג את סוג הקיצון על ידי טבלה.

שאלות:

1) מצא את נקודות הקיצון של הפונקציה $f(x)=10x-x^2$.

2) נתונה הפונקציה $f(x)=x^3-12x$.

א. מהן נקודות הקיצון של הפונקציה?

ב. מהם תחומי העלייה והירידה של הפונקציה?

3) נתונה הפונקציה $f(x)=x^4-10x^2+9$.

א. מהן נקודות הקיצון של הפונקציה?

ב. מהם תחומי העלייה והירידה של הפונקציה?

4) נתונה הפונקציה $f(x)=x^4-4x^3+32$.

א. מהן נקודות הקיצון של הפונקציה?

ב. מהם תחומי העלייה והירידה של הפונקציה?

5) לפונקציה $f(x)=ax-x^3-5$ יש נקודת קיצון בנקודה שבה $x=-1$.
מצא את ערכו של הפרמטר a .

6) נתונה הפונקציה $f(x)=ax^3+x^2$. ידוע שהנקודה $x=1$ נקודת קיצון.
מצא את הקבוע a

7) לפונקציה $f(x)=\mathrm{A}x^3+\mathrm{B}x^2-1$ יש נקודת קיצון ששיעוריה : $(2,3)$.
מצא את ערכי הפרמטרים A , B.

8) לפונקציה $f(x)=\mathrm{A}x^3+\mathrm{B}x^2-4x$ יש נקודת קיצון ב- $x=-1$ ו- $x=4$.
מצא את הפרמטרים ואת שיעור ה- y של שתי נקודות הקיצון.

9) נתונה הפונקציה $f(x)=ax^3+bx^2$. ידוע שהנקודה $(1,2)$ נקודת קיצון.
מצא את הפרמטרים a , b .

10) לפונקציה $f(x)=ax^4+bx^2+35$ יש נקודת קיצון ששיעוריה $(2,3)$.
מצא את ערכי הפרמטרים a , b .

תשובות סופיות:

1) $\max(5,25)$.

2) א. $\max(-2,16)$, $\min(2,-16)$ ב. עולה: $x>2$, $x<-2$ יורדת: $-2<x<2$.

3) א. $\min(-\sqrt{5},-16)$, $\min(\sqrt{5},-16)$, $\max(0,9)$

ב. עולה: $-\sqrt{5}<x<0$, $x>\sqrt{5}$ יורדת: $0<x<\sqrt{5}$, $x<-\sqrt{5}$.

4) א. $\min(3,5)$ ב. עולה: $x>3$ יורדת: $x<3$.

5) $a=3$.

6) $a=-\frac{2}{3}$.

7) $A=-1$, $B=3$.

8) $\left(4,-18\frac{2}{3}\right)$, $\left(-1,2\frac{1}{6}\right)$, $B=-\frac{3}{2}$, $A=\frac{1}{3}$.

9) $a=-4$, $b=6$.

10) $b=-16$, $a=2$.

חקירת פונקציה פולינומית:

שאלות:

11) נתונה הפונקציה $f(x)=10x-x^2$.

חקור את הפונקציה על פי הסעיפים הבאים:

א. מהו תחום ההגדרה של הפונקציה?

ב. מצא את נקודות הקיצון של הפונקציה.

ג. מצא את תחומי העלייה והירידה של הפונקציה.

ד. מצא את נקודות החיתוך של הפונקציה עם הצירים.

ה. שרטט סקיצה של גרף הפונקציה.

12) נתונה הפונקציה $f(x)=x^3-12x$.

חקור את הפונקציה על פי הסעיפים הבאים:

א. מציאת תחום ההגדרה.

ב. מציאת נקודות קיצון של הפונקציה.

ג. כתיבת תחומי העלייה והירידה של הפונקציה.

ד. מציאת נקודות החיתוך של גרף הפונקציה עם הצירים.

ה. שרטוט סקיצה של גרף הפונקציה.

13) נתונה הפונקציה $f(x)=x^4-10x^2+9$.

חקור את הפונקציה על פי הסעיפים הבאים:

א. מציאת תחום ההגדרה.

ב. מציאת נקודות קיצון של הפונקציה.

ג. כתיבת תחומי העלייה והירידה של הפונקציה.

ד. מציאת נקודות החיתוך של גרף הפונקציה עם הצירים.

ה. שרטוט סקיצה של גרף הפונקציה.

14) נתונה הפונקציה $f(x)=x^4-4x^3+32$ חקור את הפונקציה על פי הסעיפים הבאים:

א. מציאת תחום ההגדרה.

ב. מציאת נקודות קיצון של הפונקציה.

ג. כתיבת תחומי העלייה והירידה של הפונקציה.

ד. מציאת נקודות החיתוך של גרף הפונקציה עם הצירים.

ה. שרטוט סקיצה של גרף הפונקציה.

15) נתונה הפונקציה $f(x)=x^3$ חקור את הפונקציה על פי הסעיפים הבאים:

א. מציאת תחום ההגדרה.

ב. מציאת נקודות קיצון של הפונקציה.

ג. כתיבת תחומי העלייה והירידה של הפונקציה.

ד. מציאת נקודות החיתוך של גרף הפונקציה עם הצירים.

ה. שרטוט סקיצה של גרף הפונקציה.

16) נתונה הפונקציה: $f(x)=2x^3-3ax^2+54x-50$.

א. לאלו ערכים של הפרמטר a עולה הפונקציה בכל תחום הגדרתה?

ב. הצב בפונקציה $a=6$ וחקור את הפונקציה על פי הסעיפים הבאים:
תחום הגדרה, נקודות קיצון, תחומי עלייה וירידה, נקודת חיתוך עם ציר ה- y, סרטוט.

17) נתונה הפונקציה: $y=-3x^3+6x^2-4x+d$ (d פרמטר).
ידוע כי הפונקציה חותכת את ציר ה- x בנקודה שבה: $x=2$.

א. מצא את d.

ב. האם יש לפונקציה נקודות קיצון?

ג. כתוב את תחומי העלייה וירידה של הפונקציה.

ד. מצא את נקודת החיתוך של הפונקציה עם ציר ה- y.

ה. סרטט סקיצה של גרף הפונקציה.

18) לפניך גרף הפונקציה $f(x)=x^3-3x$:

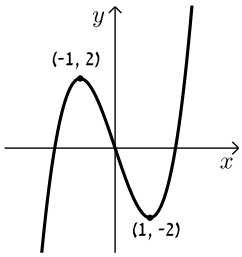

א. מהו מספר הפתרונות של המשוואה $f(x)=5$?

ב. מהו מספר הפתרונות של המשוואה $f(x)=2$?

ג. מהו מספר הפתרונות של המשוואה $f(x)=0.5$?

ד. עבור איזה ערך של k למשוואה $f(x)=k$ יש בדיוק פתרון אחד?

ה. עבור איזה ערך של k למשוואה $f(x)=k$ יש בדיוק שני פתרונות?

ו. עבור איזה ערך של k למשוואה $f(x)=k$ יש בדיוק שלושה פתרונות?

ז. האם קיים ערך של k עבורו למשוואה $f(x)=k$ אין פתרון?

תשובות סופיות:

11) א. כל x ב. $\max(5,25)$ ג. עלייה: $x<5$, ירידה: $x>5$

ד. $(10,0)$, $(0,0)$. ה. להלן גרף:

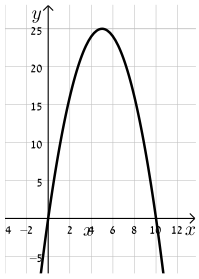

12) א. כל x ב. $\max(-2,16)$, $\min(2,-16)$

ג. עלייה: $x>2$, $x<-2$, ירידה: $-2<x<2$

ד. $(-\sqrt{12},0)$, $(\sqrt{12},0)$, $(0,0)$. ה. להלן גרף:

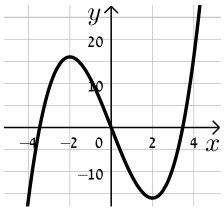

13) א. כל x ב. $\min(-\sqrt{5},-16)$, $\min(\sqrt{5},-16)$, $\max(0,9)$

ג. עלייה: $-\sqrt{5}<x<0$, $x>\sqrt{5}$, ירידה: $x<-\sqrt{5}$, $0<x<\sqrt{5}$.

ד. $(\pm3,0)$, $(\pm1,0)$, $(0,9)$. ה. להלן גרף:

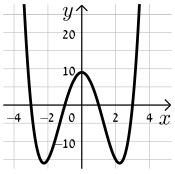

14) א. כל x ב. $\min(3,5)$ ג. תחומי עלייה: $x>3$, תחומי ירידה: $x<3$

ד. $(0,32)$. ה. להלן גרף:

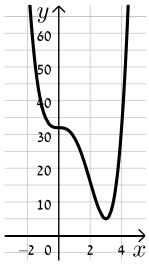

15) א. כל x ב. אין. ג. עולה לכל x

ד. $(0,0)$. ה. להלן גרף:

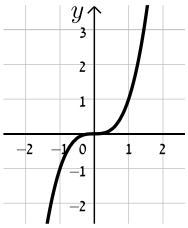

16) א. $-6<a<6$ ב. תחום הגדרה: כל x, נקודות קיצון: אין, תחומי עלייה: כל x, תחומי ירידה: אין, נקודת חיתוך עם הצירים: $(0,-50)$, להלן גרף:

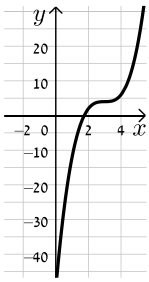

17) א. $d=8$ ב. לא. ג. יורדת בתחום $x\neq\frac{2}{3}$

ד. $(0,8)$. ה. להלן גרף:

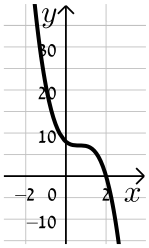

18) א. 1. ב. 2. ג. 3. ד. $k>2\ ,\ k<-2$

ה. $k=\pm 2$ ו. $-2<k<2$ ז. לא.

פונקציה זוגית ואי-זוגית:

סיכום כללי:

הגדרות:

- פונקציה $f(x)$ תיקרא זוגית אם לכל x בתחום הגדרתה מתקיים: $f(x)=f(-x)$.
- פונקציה $f(x)$ תיקרא אי-זוגית אם לכל x בתחום הגדרתה מתקיים: $f(-x)=-f(x)$.

שאלות:

1) קבע אלו מהפונקציות הבאות הן זוגיות/אי-זוגיות לא זו ולא זו:

א. $f(x)=3x-5$

ב. $f(x)=3x^2$

ג. $f(x)=2x^3$

ד. $f(x)=x^3-2x^2$

ה. $f(x)=4x^4-3x^2+1$

ו. $f(x)=4x^5-3x^3-1$

2) הפונקציות המסורטטות להלן מוגדרות לכל x.
השלם את ציור הגרף של הפונקציה כך שתתקבל פונקציה זוגית:

א.

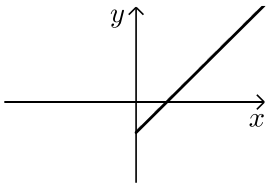

ב.

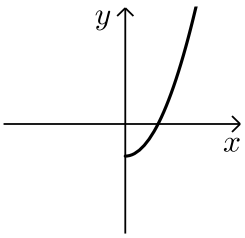

ג.

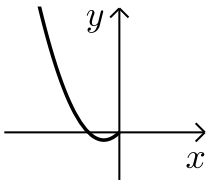

ד.

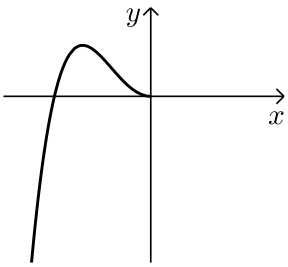

3) הפונקציות המסורטטות להלן מוגדרות לכל x.
השלם את ציור הגרף של הפונקציה כך שתתקבל פונקציה אי-זוגית:

א.

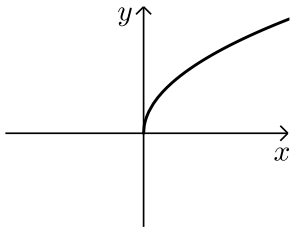

ב.

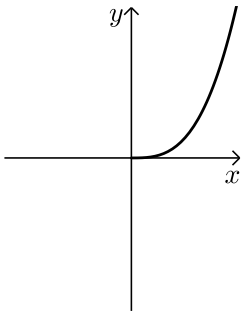

ג.

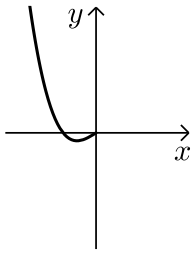

ד.

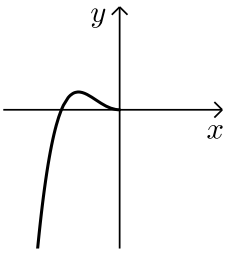

4) נתונה הפונקציה הבאה: $f(x)=x^4-4x^2$ בתחום: $[0:3]$.

א. חקור את הפונקציה בתחום הנ"ל לפי הסעיפים הבאים:

i. תחום הגדרה.

ii. מציאת נקודות חיתוך עם הצירים.

iii. מציאת נקודות קיצון וסיווגן.

iv. כתיבת תחומי עלייה וירידה.

v. סרטוט סקיצה של גרף הפונקציה.

ב. הוכח כי הפונקציה $f(x)$ היא פונקציה זוגית.

ג. התבסס על ממצאיך מהסעיפים הקודמים וסרטט את הפונקציה בתחום: $[-3:3]$ (הוסף את סרטוט גרף הפונקציה בתחום $[-3:0]$ לגרף שסרטטת בסעיף הקודם).

5) נתונה הפונקציה הבאה: $f(x)=x^6-3x^2+3$.

א. חקור את הפונקציה בתחום: $[0:4]$ לפי הסעיפים הבאים:
תחום הגדרה, מציאת חיתוך עם ציר ה- y, מציאת נקודות קיצון וסיווגן, כתיבת תחומי עלייה וירידה, סרטוט סקיצה בתחום הנ"ל.

ב. האם הפונקציה היא זוגית? אי-זוגית? לא זו ולא זו?
נמק באמצעות חישוב מתאים.

ג. הסתמך על ממציאך מהסעיפים הקודמים והוסף לסקיצה שסרטטת בסעיף א', את עקום הפונקציה בתחום $[-4:0]$.

ד. הוכח כי הפונקציה חיובית לכל x בתחום הגדרתה.

6) לפניך הפונקציה: $f(x)=-2x^6+3x^4+a$, a פרמטר.
ידוע כי לפונקציה ערך מירבי של 1.

א. מצא את a וכתוב את הפונקציה $f(x)$.

ב. חקור את הפונקציה בתחום: $[-2:0]$ לפי הסעיפים הבאים:
כתיבת תחום הגדרה, מציאת נקודות חיתוך עם הצירים,
מציאת נקודות קיצון וסיווגן, כתיבת תחומי עלייה וירידה, סרטוט סקיצה.

ג. האם הפונקציה היא זוגית? אי-זוגית? לא זה ולא זה?
נמק באמצעות חישוב מתאים.

ד. הסתמך על ממציאך מהסעיפים הקודמים וסרטט את גרף הפונקציה בתחום: $[-2:2]$.

7) נתונה הפונקציה הבאה: $f(x)=3x^3-9x$.

א. חקור את הפונקציה בתחום: $[0:5]$ לפי הסעיפים הבאים:
כתיבת תחום הגדרה, מציאת נקודות חיתוך עם הצירים,
מציאת נקודות קיצון וסיווגן, כתיבת תחומי עלייה וירידה, סרטוט סקיצה.

ב. הוכח כי הפונקציה היא אי-זוגית.

ג. התבסס על ממציאך מהסעיפים הקודמים וסרטט את הפונקציה בתחום: $[-5:5]$ (הוסף את סרטוט גרף הפונקציה בתחום $[-5:0]$ לגרף שסרטטת בסעיף הקודם).

8) לפניך הפונקציה הבאה: $f(x)=5x^3-3x^5+b$, b פרמטר.
ידוע כי הישר $y=2x$ עובר דרך כל הנקודות על גרף הפונקציה שמקיימות: $f'(x)=0$.

א. מצא את b וכתוב את הפונקציה $f(x)$.

ב. חקור את הפונקציה בתחום: $[0:2]$ לפי הסעיפים הבאים:

i. תחום הגדרה.

ii. מציאת נקודות חיתוך עם הצירים.

iii. מציאת נקודות קיצון וסיווגן.

iv. כתיבת תחומי עלייה וירידה.

v. סרטוט סקיצה של גרף הפונקציה.

ג. בדוק האם הפונקציה היא זוגית/אי-זוגית או לא זו ולא זו.
נמק את קביעתך באמצעות חישוב מתאים.

ד. הסתמך על ממציאך מהסעיפים הקודמים והוסף לסקיצה של גרף הפונקציה את הגרף בתחום $[-2:0]$.

9) נתונה הפונקציה: $f(x)=\frac{x^7-x}{3}$.

א. חקור את הפונקציה בתחום: $[-4:0]$ לפי הסעיפים הבאים:

i. תחום הגדרה.

ii. מציאת נקודות חיתוך עם הצירים.

iii. מציאת נקודות קיצון וסיווגן
(בתשובתך השאר עד 2 ספרות לאחר הנקודה העשרונית).

iv. כתיבת תחומי עלייה וירידה.

v. סרטוט סקיצה של גרף הפונקציה.

ב. האם הפונקציה היא זוגית? אי-זוגית? או לא זו ולא זו?
נמק ע"י חישוב מתאים.

ג. הסתמך על ממציאך מהסעיפים הקודמים והוסף לסקיצה שעשית את גרף הפונקציה בתחום $[0:4]$.

תשובות סופיות:

1) זוגית: ב', ה'. אי-זוגית: ג', לא זו ולא זו: א', ד', ו'.

2) להלן הגרפים:

א.
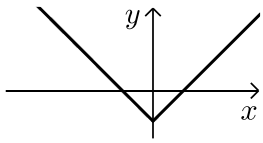

ב.
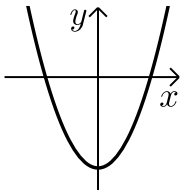

ג.
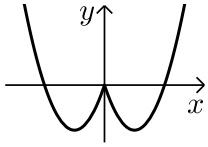

ד.
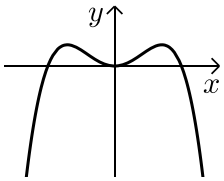

3) להלן הגרפים:

א.
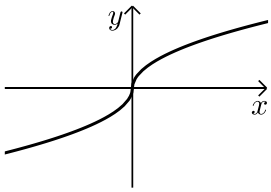

ב.
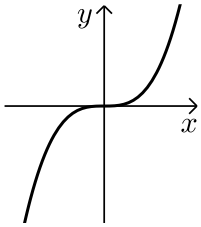

ג.
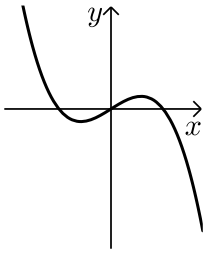

ד.
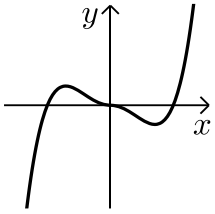

4) א. i. $0 \le x \le 3$ ii. $(0,0),(2,0)$ iii. $\max(3,45)$ קצה, $\min\left(\sqrt{2},-4\right)$,

$\max(0,0)$ קצה. iv. עולה: $\sqrt{2} < x < 3$, יורדת: $0 < x < \sqrt{2}$ ב. סעיף הוכחה.

סרטוט עבור חלק v:

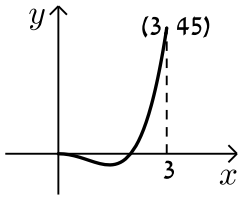

סרטוט עבור סעיף ג:

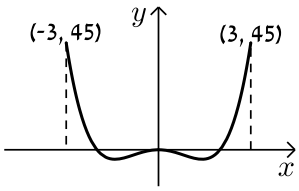

5) א. תחום הגדרה: $0 \le x \le 4$, חיתוך עם ציר ה- y: $(0,3)$,

נקודות קיצון: $\max(4,4051)$ קצה, $\min(1,1)$, $\max(0,3)$ קצה,

עולה: $1 < x < 4$, יורדת: $0 < x < 1$ ב. זוגית.

ד. הוכחה עפ"י הסרטוט.

סרטוט עבור סעיף א:

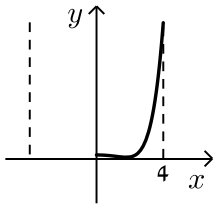

סרטוט עבור סעיף ג:

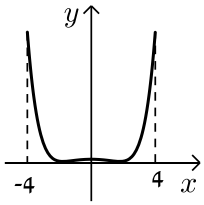

6) א. $a=0$ ב. תחום הגדרה: $-2\le x\le 0$, חיתוך עם הצירים: $(0,0)$, $(-1.225,0)$, נקודות קיצון: $\min(-2,-80)$ קצה, $\max(-1,1)$, $\min(0,0)$ קצה,
עולה: $-2<x<-1$, יורדת: $-1<x<0$. ג. זוגית.

סרטוט עבור סעיף א:

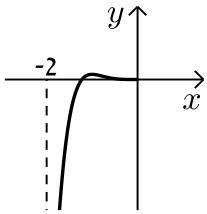

סרטוט עבור סעיף ד:

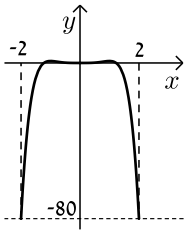

7) א. תחום הגדרה: $0\le x\le 5$, חיתוך עם הצירים: $(\sqrt{3},0)$, $(0,0)$,
נקודות קיצון: $\max(5,330)$ קצה, $\min(1,-6)$, $\max(0,0)$ קצה,
עולה: $1<x<5$, יורדת: $0<x<1$, ב. אי-זוגית.

סרטוט עבור סעיף א:

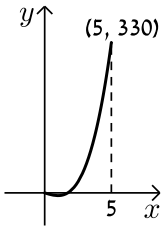

סרטוט עבור סעיף ג:

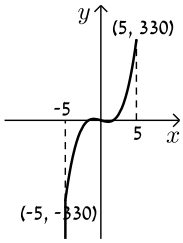

8) א. $b=0$ ב. i. $0\le x\le 2$ ii. $(0,0)$, $(1.29,0)$ iii. $\min(2,-56)$ קצה,
$\max(1,2)$, $\min(0,0)$ קצה. iv. עולה: $0<x<1$, יורדת: $1<x<2$
ג. אי-זוגית.

סרטוט עבור חלק v:

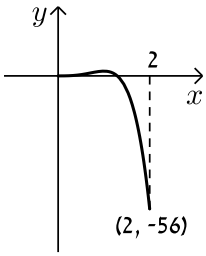

סרטוט עבור סעיף ד:

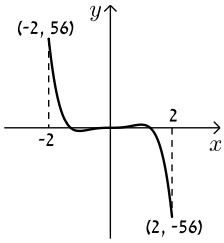

9) א. i. $-4\le x\le 0$ ii. $(0,0)$, $(-1,0)$ iii. $\min(0,0)$ קצה, $\max(-0.723,0.207)$,
$\min(-4,-5460)$ קצה. iv. עולה: $-4<x<-0.723$,
יורדת: $-0.723<x<0$ ג. אי-זוגית.

סרטוט עבור חלק v:

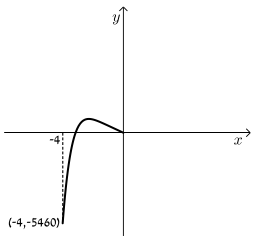

סרטוט עבור סעיף ד:

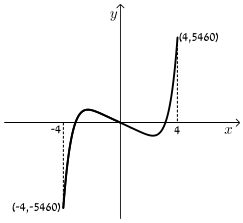

מכינה במתמטיקה לתלמידי כלכלה

פרק 19 - חשבון דיפרנציאלי - חקירת פונקצית מנה ושורש

תוכן העניינים

1. מציאת תחום הגדרה 224
2. מציאת נקודות קיצון ותחומי עלייה וירידה 226
3. מציאת אסימפטוטות המקבילות לצירים 227
4. חקירת פונקצית מנה 232
5. חקירת פונקצית שורש 241
6. תחומי קעירות ונקודות פיתול 249
7. חקירת פונקציה עם פרמטר 255
8. פונקציות ללא תבנית מפורשת 258

מציאת תחום הגדרה:

סיכום כללי:

- כל פולינום מוגדר לכל x.
- בפונקציה עם מכנה, אסור שיתקבל אפס במכנה.
- בפונקציה עם שורש זוגי, אסור שיתקבל מספר שלילי בתוך השורש.

שאלות:

1) מצא את תחום ההגדרה של הפונקציות הבאות:

א. $f(x)=x^2+\frac{1}{2}x$

ב. $f(x)=4x^3-x^2+\frac{x}{2}+1$

ג. $f(x)=x^3-x^2-4x+1$

ד. $f(x)=\frac{2x}{x-3}$

ה. $f(x)=\frac{1}{x^2-4}$

ו. $f(x)=\frac{5x^3+4x}{x^2-1}$

ז. $f(x)=\frac{x^2}{x^2-x-2}$

ח. $f(x)=\frac{x^2+1}{x^2-2x-8}$

ט. $f(x)=\frac{6}{x^2+1}$

י. $f(x)=\frac{4x+1}{x^2+1}$

יא. $f(x)=\frac{1}{x^3-x}$

יב. $f(x)=\frac{x^2}{x^3-4x}$

2) מצא את תחום ההגדרה של הפונקציות הבאות:

א. $f(x)=\sqrt{x}$

ב. $f(x)=2\sqrt{x-3}$

ג. $f(x)=\sqrt{x-4}$

ד. $f(x)=3x\sqrt{1-2x}$

ה. $f(x)=\sqrt{x^2+3x-10}$

ו. $f(x)=\sqrt{x^2+x-2}$

ז. $f(x)=\frac{5x}{\sqrt{x+4}}$

ח. $f(x)=\frac{\sqrt{x^2+5x+6}}{x-1}$

ט. $f(x)=\sqrt{\frac{2x^2+x-3}{x^2+5x+9}}$

י. $f(x)=\frac{x-2}{\sqrt{x^3-9x}}$

יא. $f(x)=\frac{1}{x+\sqrt{x+6}}$

יב. $f(x)=\frac{x+1}{x-\sqrt{2-x}}$

יג. $f(x)=\frac{1}{\sqrt{1-|x|}}$

יד. $f(x)=\sqrt{\sqrt{x+2}-3}$

תשובות סופיות:

1) א. כל x ב. כל x ג. כל x ד. $x \neq 3$ ה. $x \neq \pm 2$ ו. $x \neq \pm 1$
ז. $x \neq -1, 2$ ח. $x \neq 4, -2$ ט. כל x י. כל x יא. $x \neq \pm 1, 0$ יב. $x \neq \pm 2, 0$.

2) א. $x \geq 0$ ב. $x \geq 3$ ג. $x \geq 4$ ד. $x \leq \frac{1}{2}$ ה. $x \leq -5 , x \geq 2$
ו. $x \leq -2 , x \geq 1$ ז. $x > -4$ ח. $x \leq -3 , -2 \leq x < 1 , x > 1$ ט. $x \leq -1.5 , x \geq 1$
י. $-3 < x < 0 , x > 3$ יא. $-6 \leq x < -2 , x > -2$ יב. $x < 1 , 1 < x \leq 2$
יג. $-1 < x < 1$ יד. $x \geq 7$.

מציאת נקודות קיצון ותחומי עלייה וירידה:

שאלות:

3) נתונה הפונקציה: $f(x)=\frac{6x}{x^2-10x+9}$.

א. מהן נקודות הקיצון של הפונקציה?

ב. מהם תחומי העלייה והירידה של הפונקציה?

תשובות סופיות:

3) א. $\max\left(3,-1\frac{1}{2}\right)$, $\min\left(-3,-\frac{3}{8}\right)$.

ב. עולה: $-3<x<3$, $x\neq 1$, יורדת: $3<x\neq 9$, $x<-3$.

מציאת אסימפטוטות המקבילות לצירים:

סיכום כללי:

אסימפטוטה אנכית:

הגדרה: הישר: $x=k$ הוא אסימפטוטה אנכית של פונקציה מהצורה: $y=\frac{f(x)}{g(x)}$

אם הוא מקיים: $g(k)=0$ וגם: $f(k)\neq 0$. בצורה מתמטית: אם: $\lim\limits_{x\to k^+}\frac{f(x)}{g(x)}=\pm\infty$

או: $\lim\limits_{x\to k^-}\frac{f(x)}{g(x)}=\pm\infty$ או שניהם אז הישר: $x=k$ הוא אסימפטוטה אנכית לפונקציה $y=\frac{f(x)}{g(x)}$.

הסבר כללי:

בעבור ערכי x שמאפסים את המכנה, אבל לא את המונה יש אסימפטוטה אנכית.
כאשר ערך x מאפס את המכנה וגם את המונה יש לפרק את המונה והמכנה
(על ידי נוסחאות כפל מקוצר או טרינום למשל) ולצמצם.
אם אחרי הצמצום אותו ערך של x עדיין מאפס את המכנה תתקבל אסימפטוטה אנכית,
אך אם ערך x זה לא מאפס את המכנה אחרי שצומצם אין אסימפטוטה אנכית אלא
נקודת אי הגדרה.

אסימפטוטה אופקית:

הגדרה: ישר מהצורה: $y=n$ הוא אסימפטוטה אופקית לפונקציה מהצורה: $y=\frac{f(x)}{g(x)}$

אם מתקיים: $\lim\limits_{x\to\infty^+}\frac{f(x)}{g(x)}=n$ או: $\lim\limits_{x\to\infty^-}\frac{f(x)}{g(x)}=n$ או שניהם.

אופן החישוב הכללי:

נתונה הפונקציה $f(x)=\frac{ax^m+\ldots}{bx^n+\ldots}$ (יש בפונקציה קו שבר אחד!)

- אם $m>n$, לפונקציה אין אסימפטוטה אופקית.
- אם $m=n$, לפונקציה יש אסימפטוטה אופקית שמשוואתה $y=\frac{a}{b}$.
- אם $m<n$, לפונקציה יש אסימפטוטה אופקית שמשוואתה $y=0$.

חוקי גבולות לאינסוף:

במקרים רבים נרצה לדעת האם פונקציה מסוימת מתכנסת לערך כלשהו כאשר x שואף לערכים ההולכים וגדלים (לאינסוף, או למינוס אינסוף).
עבור ערכי x שהולכים וגדלים (או קטנים) נרשום: $x=\infty$ או $x=-\infty$ בהתאמה.

ישנם 4 מצבים בהם ערך הפונקציה בשאיפת x לאחד הקצוות ניתן לחישוב ישיר:

- הגבול: $\lim_{x\to\infty}\frac{1}{x}="\frac{1}{\infty}"=0$.
- הגבול: $\lim_{x\to 0}\frac{1}{x}$ ניתן לפיצול לשני מקרים:
  - אם: $x\to 0^+$ (מתקרב ל- 0 מהכיוון החיובי) אז: $\lim_{x\to 0^+}\frac{1}{x}="\frac{1}{0^+}"=+\infty$.
  - אם: $x\to 0^-$ (מתקרב ל- 0 מהכיוון השלילי) אז: $\lim_{x\to 0^-}\frac{1}{x}="\frac{1}{0^-}"=-\infty$.
- הגבול מהצורה $\infty\cdot\infty$ (מכפלת שני ביטויים של x אשר כל אחד מהם שואף לאינסוף בפני עצמו) מקיים: $\infty\cdot\infty=\infty$.
- הגבול מהצורה $\infty+\infty$ (סכום שני ביטויים של x אשר כל אחד מהם שואף לאינסוף בפני עצמו) מקיים: $\infty+\infty=\infty$.

ישנם 3 מקרים בהם לא ניתן לדעת מהו ערך הפונקציה בלקיחת הגבול בצורה ישירה והם:

- הגבול מהצורה: $\frac{\infty}{\infty}$ (מנת שני ביטויים שהולכים וגדלים עם שאיפת x).
- הגבול מהצורה: $\frac{0}{0}$ (מנת שני ביטויים שהולכים וקטנים עם שאיפת x).
- הגבול מהצורה: $\infty-\infty$ (הפרש של שני ביטויים שהולכים וגדלים עם שאיפת x).
במקרים אלו נעזר בפישוטים שהוצגו לעיל על מנת למצוא את ערך הגבול עצמו.

שאלות:

4) מצא את האסימפטוטות המקבילות לצירים של הפונקציה: $f(x)=\frac{1}{x-2}+3$.

5) מצא את האסימפטוטות המקבילות לצירים של הפונקציה: $f(x)=\frac{5x^2+1}{x^2-9}$.

6) מצא את האסימפטוטות המקבילות לצירים של הפונקציה: $f(x)=\frac{2x^2-5x+2}{1+3x^2}$.

7) מצא את האסימפטוטות המקבילות לצירים של הפונקציה: $f(x)=\frac{3x}{x^2-2x-15}$.

8) מצא את האסימפטוטות המקבילות לצירים של הפונקציה: $f(x)=\frac{6x^3-5x+1}{1+2x^2}$.

9) מצא את האסימפטוטות המקבילות לצירים של הפונקציה: $f(x)=\frac{ax+b}{x-b}$.

10) מצא את האסימפטוטות המקבילות לצירים של הפונקציה: $f(x)=\frac{x^2-4}{x^2-3x+2}$
ואת נקודת אי הרציפות שלה.

11) מצא את האסימפטוטות המקבילות לצירים של הפונקציה: $f(x)=\frac{x^2}{2x^2-4x}$
ואת נקודת אי הרציפות שלה.

12) מצא את האסימפטוטות המקבילות לצירים של הפונקציה: $f(x)=\frac{\sqrt{x-1}}{x^2-4}$.

13) מצא את האסימפטוטות המקבילות לצירים של הפונקציה: $f(x)=\frac{x}{\sqrt{4-x}}$.

14) מצא את האסימפטוטות המקבילות לצירים של הפונקציה: $f(x)=\frac{\sqrt{x}}{1-\sqrt{x}}$.

15) מצא את האסימפטוטות המקבילות לצירים של הפונקציה: $f(x)=\frac{2x}{x-\sqrt{x}}$.

16) מצא את האסימפטוטות המקבילות לצירים של הפונקציה: $f(x)=\frac{3x}{\sqrt{x^2+5}}$.

17) מצא את האסימפטוטות המקבילות לצירים של הפונקציה: $f(x)=\frac{5x}{\sqrt{x^2-16}}$.

18) נתונה הפונקציה: $f(x)=\frac{4x^2+1}{ax^2-x+b}$.
האסימפטוטה האופקית של הפונקציה ואחת האסימפטוטות האנכיות של הפונקציה נפגשות בנקודה $(-1,2)$.
מצא את ערכי הפרמטרים a ו- b.

19) נתונה הפונקציה: $f(x)=\frac{ax+8}{x+b\sqrt{x}}$.
הפונקציה חותכת את האסימפטוטה האופקית שלה בנקודה $(16,2)$.
מצא את ערכי הפרמטרים a ו- b.

תשובות סופיות:

4) $x=2\ ,\ y=3$.

5) $x=\pm 3\ ,\ y=5$.

6) $y=\frac{2}{3}$.

7) $x=-3\ ,\ x=5\ ,\ y=0$.

8) אין.

9) $x=b\ ,\ y=a$.

10) $x=1\ ,\ y=1$, נקודת אי-הגדרה: $(2,4)$.

11) $x=2\ ,\ y=\frac{1}{2}$, נקודת אי-הגדרה: $(0,0)$.

12) $x=2\ ,\ y=0$.

13) $x=4$.

14) $x=1\ ,\ y=-1$.

15) $x=1\ ,\ y=2$.

16) $y=\lim\limits_{x\to\infty}\left(f(x)\right)=3\ ,\ y=\lim\limits_{x\to-\infty}\left(f(x)\right)=-3$.

17) $x=4\ ,\ x=-4\ ,\ y=5\ ,\ y=-5$.

18) $b=-3\ ,\ a=2$.

19) $b=1\ ,\ a=2$.

חקירת פונקצית מנה:

שאלות:

20) נתונה הפונקציה: $f(x)=\frac{6x^2-10x+6}{3x^2-10x+3}$. חקור את הפונקציה לפי הסעיפים הבאים:

א. מציאת תחום ההגדרה.

ב. מציאת נקודות הקיצון של הפונקציה.

ג. כתיבת תחומי העלייה והירידה של הפונקציה.

ד. מציאת נקודות החיתוך של גרף הפונקציה עם הצירים.

ה. מציאת אסימפטוטות המקבילות לצירים.

ו. שרטוט סקיצה של גרף הפונקציה.

21) נתונה הפונקציה: $f(x)=x+\frac{1}{x}$. חקור את הפונקציה לפי הסעיפים הבאים:

א. מציאת תחום ההגדרה.

ב. מציאת נקודות הקיצון של הפונקציה.

ג. כתיבת תחומי העלייה והירידה של הפונקציה.

ד. מציאת נקודות החיתוך של גרף הפונקציה עם הצירים.

ה. שרטוט סקיצה של גרף הפונקציה.

22) נתונה הפונקציה: $f(x)=\frac{2x+1}{x-3}$. חקור את הפונקציה לפי הסעיפים הבאים:

א. מציאת תחום ההגדרה.

ב. מציאת נקודות הקיצון של הפונקציה.

ג. כתיבת תחומי העלייה והירידה של הפונקציה.

ד. מציאת נקודות החיתוך של גרף הפונקציה עם הצירים.

ה. מציאת אסימפטוטות המקבילות לצירים.

ו. שרטוט סקיצה של גרף הפונקציה.

23) נתונה הפונקציה: $f(x)=\frac{6x}{x^2-5x+4}$. חקור את הפונקציה לפי הסעיפים הבאים:

א. מציאת תחום ההגדרה.
ב. מציאת נקודות הקיצון של הפונקציה.
ג. כתיבת תחומי העלייה והירידה של הפונקציה.
ד. מציאת נקודות החיתוך של גרף הפונקציה עם הצירים.
ה. שרטוט סקיצה של גרף הפונקציה.

24) נתונה הפונקציה: $f(x)=\frac{x^2-3x}{x^2+3}$. חקור את הפונקציה לפי הסעיפים הבאים:

א. מציאת תחום ההגדרה.
ב. מציאת נקודות הקיצון של הפונקציה.
ג. כתיבת תחומי העלייה והירידה של הפונקציה.
ד. מציאת נקודות החיתוך של גרף הפונקציה עם הצירים.
ה. שרטוט סקיצה של גרף הפונקציה.

25) נתונה הפונקציה הבאה: $y=\frac{2x^2-5x+2}{4x}$. חקור לפי הסעיפים הבאים:

א. תחום הגדרה.
ב. נקודות קיצון.
ג. קביעת סוג הקיצון ותחומי עלייה וירידה.
ד. חיתוך עם הצירים.
ה. מציאת אסימפטוטה אנכית.
ו. סרטוט סקיצה.

26) נתונה הפונקציה: $f(x)=\frac{x^2-5x+6}{x-3}$. חקור את הפונקציה לפי הסעיפים הבאים:

א. מציאת תחום הגדרה.
ב. מציאת נקודות קיצון של הפונקציה.
ג. כתיבת תחומי העלייה והירידה של הפונקציה.
ד. מציאת נקודות החיתוך של גרף הפונקציה עם הצירים.
ה. מציאת אסימפטוטות המקבילות לצירים.
ו. סרטוט סקיצה של גרף הפונקציה.

27) נתונה הפונקציה: $f(x)=\frac{x^2-3x+2}{x^2-1}$. חקור את הפונקציה לפי הסעיפים הבאים:

א. מציאת תחום הגדרה.

ב. מציאת נקודות קיצון של הפונקציה.

ג. כתיבת תחומי העלייה והירידה של הפונקציה.

ד. מציאת נקודות החיתוך של גרף הפונקציה עם הצירים.

ה. מציאת אסימפטוטות המקבילות לצירים.

ו. סרטוט סקיצה של גרף הפונקציה.

28) לגרף הפונקציה: $f(x)=\frac{ax+4}{x^2}$ יש נקודת קיצון שבה $x=-8$.

א. מצא את a וכתוב את הפונקציה.

ב. כתוב את תחומי העלייה והירידה של הפונקציה.

ג. מצא את נקודות החיתוך של הפונקציה עם הצירים.

ד. מצא את האסימפטוטות המקבילות לצירים.

ה. סרטט סקיצה של גרף הפונקציה.

29) נתונה הפונקציה: $f(x)=\frac{3x^2}{2x^2-8}$.

א. מהו תחום הגדרה של הפונקציה?

ב. מצא את נקודות הקיצון של הפונקציה.

ג. קבע את סוג הקיצון ותחומי העלייה והירידה של הפונקציה.

ד. מצא את נקודות החיתוך עם הצירים של הפונקציה.

ה. מצא את האסימפטוטות המקבילות לצירים של הפונקציה.

ו. סרטט סקיצה של גרף הפונקציה.

30) נתונה הפונקציה: $y=\frac{a^2x-4}{2x^2-1}$, (a קבוע).

ידוע כי שיפוע המשיק לגרף הפונקציה בנקודה שבה: $x=1$ הוא: $m=4$.

א. מצא את כל הערכים האפשריים עבור a.

ב. מצא את נקודות החיתוך של גרף הפונקציה עם הצירים.

ג. מצא את נקודת החיתוך בין המשיק הנתון ומשיק העובר דרך נקודת החיתוך של גרף הפונקציה עם ציר ה- y.

31) נתונה הפונקציה הבאה: $f(x)=1.5x-\frac{5x+1}{x+5}$. חקור לפי הסעיפים הבאים:

א. תחום הגדרה.

ב. נקודות קיצון וסוגן.

ג. תחומי עלייה וירידה.

ד. חיתוך עם הצירים.

ה. מציאת אסימפטוטות המקבילות לצירים.

ו. סרטוט סקיצה.

32) נתונה הפונקציה: $f(x)=\frac{x-a}{x-1}$, $(a\neq 1)$.

א. מצא את תחום ההגדרה של הפונקציה.

ב. מצא את האסימפטוטות של הפונקציה המקבילות לצירים.

ג. הבע באמצעות a את השיעורים של נקודת החיתוך של גרף הפונקציה עם ציר ה- x ועם ציר ה- y.

ד. ענה על הסעיפים הבאים:

i. מצא עבור אילו ערכים של a הפונקציה $f(x)$ עולה לכל x בתחום ההגדרה.

ii. ישר המשיק לגרף הפונקציה $f(x)$ בנקודה שבה $x=a$ מקביל לישר המשיק לגרף הפונקציה בנקודה שבה: $x=2$.
מצא את הערך של a אם נתון כי הפונקציה עולה לכל x.

33) נתונה הפונקציה: $f(x)=\frac{x^2+ax+6}{x-2}$, ($a$ פרמטר).
ידוע שאחת מנקודות הקיצון של הפונקציה נמצאת על ציר ה- y.

א. מצא את הערך של a.

ב. הצב את הערך של a שמצאת בסעיף א' ומצא:

i. את תחום ההגדרה של הפונקציה.

ii. את נקודות החיתוך של גרף הפונקציה עם הצירים (אם יש כאלה).

iii. את השיעורים של נקודות הקיצון של הפונקציה, וקבע את סוגן.

iv. את האסימפטוטות של הפונקציה המקבילות לצירים (אם יש כאלה).

ג. עבור אלו ערכי x הפונקציה שלילית?

ד. נתון הישר: $y=k$. עבור אלו ערכי k אין נקודות משותפות לישר ולגרף הפונקציה? נמק.

34) נתונה הפונקציה: $y=\frac{x+3}{x-2}+A$, (A פרמטר). גרף הפונקציה עובר בנקודה $(3A\ ,\ A)$.

א. מצא את ערך הפרמטר A.

ב. כתוב את תחום ההגדרה של הפונקציה.

ג. הוכח כי גרף הפונקציה יורד לכל x.

ד. מצא את נקודת החיתוך של גרף הפונקציה עם ציר ה- y.

ה. סרטט סקיצה של גרף הפונקציה.

ו. נתון הישר: $y=k$.
האם קיים ערך של k עבורו הישר חותך את גרף הפונקציה בשתי נקודות שונות? נמק.

35) נתונה הפונקציה: $f(x)=\frac{ax^2-20x+28}{x^2+2a}$.

ידוע כי גרף הפונקציה חותך את האסימפטוטה האופקית שלו בנקודה $(0.5\ ,\ 3)$.

א. מצא את ערך הפרמטר a וכתוב את הפונקציה ואת תחום הגדרתה.

ב. מצא את נקודות הקיצון של הפונקציה וקבע את סוגן.

ג. כתוב את תחומי העלייה והירידה של הפונקציה.

ד. מצא את נקודות החיתוך של גרף הפונקציה עם הצירים.

ה. סרטט סקיצה של גרף הפונקציה.

ו. העזר בגרף הפונקציה וקבע עבור אלו ערכים של k הישר: $y=k$ יחתוך את גרף הפונקציה בנקודה אחת בלבד.

36) ענה על הסעיפים הבאים:

א. הוכח כי לגרף הפונקציה: $f(x)=\frac{9-x^2}{x^2-k}$ יש נקודת קיצון שנמצאת על ציר ה- y.

ב. הוכח כי הפונקציה $f(x)$ מוגדרת לכל x אם ידוע כי שיעור ה- y של נקודת הקיצון הוא 3.

ג. מצא את נקודות החיתוך של גרף הפונקציה עם ציר ה- x.

ד. מצא את האסימפטוטה האופקית של הפונקציה.

ה. סרטט סקיצה של גרף הפונקציה וקבע בכמה נקודות יחתוך אותו הישר $y=-1$.
נמק את תשובתך.

תשובות סופיות:

20) א. $x \neq 3$, $x \neq \frac{1}{3}$ ב. $\max\left(1,-\frac{1}{2}\right)$, $\min\left(-1,1\frac{3}{8}\right)$.

ג. תחומי עלייה: $-1<x<1$ וגם $x \neq \frac{1}{3}$, תחומי ירידה: $1<x\neq 3$ או $x<-1$.

ד. $(0,2)$ ה. $y=2$, $x=\frac{1}{3}$, $x=3$. ו. להלן סקיצה:

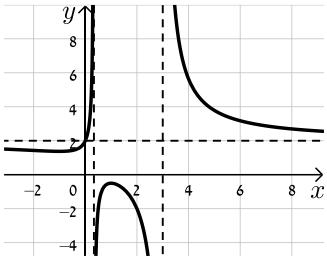

21) א. $x \neq 0$ ב. $\max(-1,-2)$, $\min(1,2)$

ג. עולה: $x>1$ או $x<-1$, יורדת: $-1<x<1$, $x \neq 0$ ד. אין

ה. להלן סקיצה:

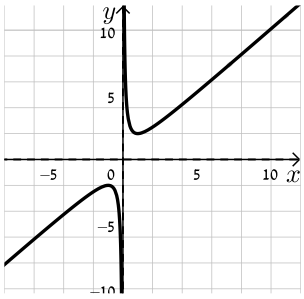

22) א. $x \neq 3$ ב. אין. ג. הפונקציה יורדת בכל ת.ה

ד. $\left(0,-\frac{1}{3}\right)$, $\left(-\frac{1}{2},0\right)$ ה. $x=3$, $y=2$.

ו. להלן סקיצה:

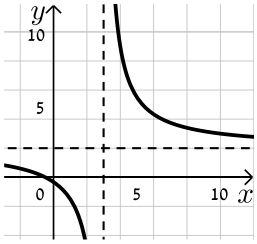

23) א. $x \neq 1$, $x \neq 4$ ב. $\max(2,-6)$, $\min\left(-2,-\frac{2}{3}\right)$

ג. תחומי עלייה: $-2<x<2$, $x \neq 1$, תחומי ירידה: $x>2$, $x \neq 4$ או $x<-2$

ד. $(0,0)$ (אסימפטוטות: $x=4$, $x=1$, $y=0$).

ה. להלן סקיצה:

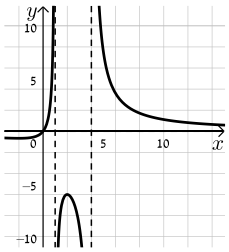

24) א. כל x ב. $\min\left(1,-\frac{1}{2}\right)$, $\max\left(-3,1\frac{1}{2}\right)$

ג. עולה: $x>1$ או $x<-3$, יורדת: $-3<x<1$ ד. $(3,0),(0,0)$ (אסימפטוטה: $y=1$).

ה. להלן סקיצה:

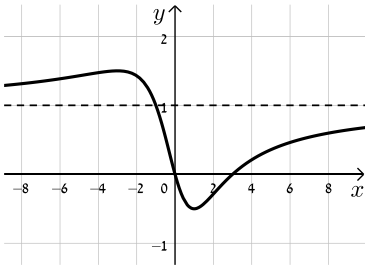

25) א. $x\neq 0$ ב. $\min(1,-0.25)$, $\max(-1,-2.25)$

ג. עולה: $x>1$, $x<-1$, יורדת: $-1<x<1$, $x\neq 0$ ד. $(0.5,0),(2,0)$ ה. $x=0$.

ו. להלן סקיצה:

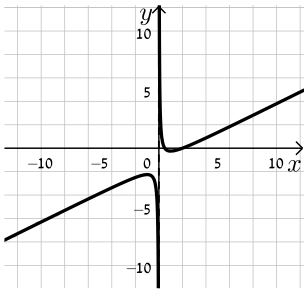

26) א. $x\neq 3$ ב. אין ג. הפונקציה עולה בכל תחום הגדרתה

ד. $(0,-2),(2,0)$ ה. אין, יש נקודת אי הגדרה ששיעוריה $(3,1)$.

ו. להלן סקיצה:

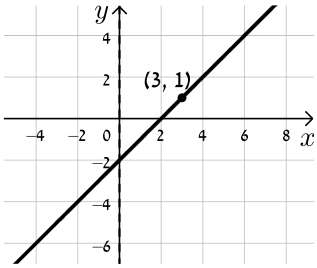

27) א. $x\neq \pm 1$ ב. אין ג. הפונקציה עולה בכל תחום הגדרתה

ד. $(0,-2),(2,0)$ ה. $x=-1$, $y=1$, יש נקודת אי הגדרה: $\left(1,-\frac{1}{2}\right)$.

ו. להלן סקיצה:

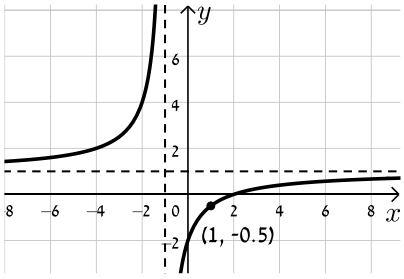

28) א. $a=1$, $f(x)=\frac{x+4}{x^2}$ ב. עולה: $-8<x<0$ יורדת: $x<-8$, $x>0$

ג. $(-4,0)$ ד. $x=0$, $y=0$.

ה. להלן סקיצה:

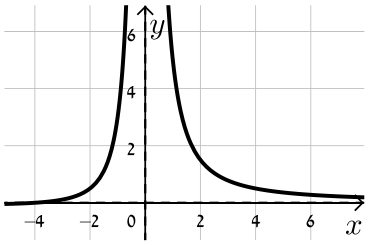

29) א. $x\neq\pm2$ ב. $\max(0,0)$ ג. יורדת: $x>0$, $x\neq2$, עולה: $x<0$, $x\neq-2$

ד. $(0,0)$ ה. $x=\pm2$, $y=1.5$. ו. להלן סקיצה:

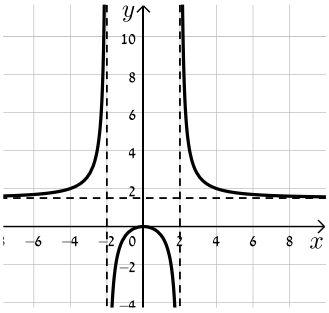

30) א. $a=\pm2$ ב. $(0,4)$, $(1,0)$

ג. המשיק: $y=-4x+4$ אשר עובר בנקודה $(1,0)$. נקודת החיתוך: $(1,0)$.

31) א. $x\neq-5$ ב. $\max(-9,-24.5)$, $\min(-1,-0.5)$

ג. עולה: $x>-1$, $x<-9$, יורדת: $-9<x<-1$, $x\neq-5$

ד. $(0,-0.2)$, $\left(\frac{1}{3},0\right)$, $(-2,0)$ ה. $x=-5$. ו. להלן סקיצה:

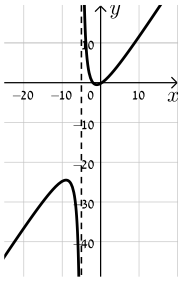

32) א. $x\neq1$ ב. $x=1$, $y=1$ ג. $(a,0),(0,a)$ ד. i. $a>1$ ii. $a=2$.

33) א. $a=-3$ ב. i. $x\neq2$ ii. $(0,-3)$ iii. $\max(0,-3)$, $\min(4,5)$

iv. $x=2$ ג. $x<2$ ד. $-3<k<5$.

34) א. $A=-1$ ב. $x\neq2$ ד. $(0,-2.5)$

ה. להלן סקיצה:

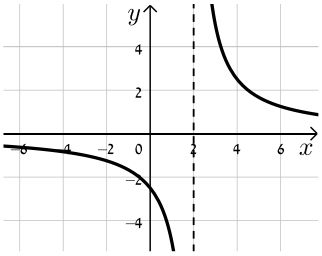

ו. לא

35) א. $a=3$, $f(x)=\dfrac{3x^2-20x+28}{x^2+6}$, כל x.

ב. $\min\left(3,-\dfrac{1}{3}\right)$, $\max(-2,8)$

ג. עולה: $x>3$, $x<-2$, יורדת: $-2<x<3$

ד. $(2,0),\left(0,4\dfrac{2}{3}\right),\left(4\dfrac{2}{3},0\right)$

ה. להלן סקיצה:

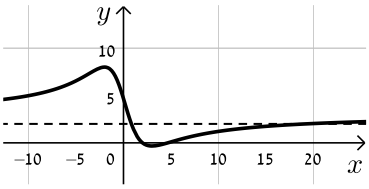

ו. 3 , $-\dfrac{1}{3}$, $k=8$.

36) ב. $k=-3$

ג. $(3,0),(-3,0)$

ד. $y=-1$

ה. באף נקודה.

ו. להלן סקיצה:

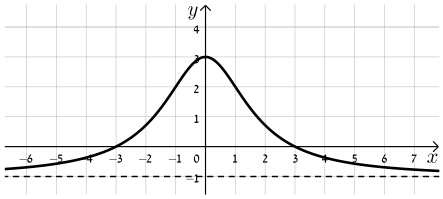

חקירת פונקצית שורש:

שאלות:

37) נתונה הפונקציה: $f(x)=\sqrt{x-3}$. חקור את הפונקציה לפי הסעיפים הבאים:

א. מציאת תחום ההגדרה.
ב. מציאת נקודות הקיצון של הפונקציה.
ג. כתיבת תחומי העלייה והירידה של הפונקציה.
ד. מציאת נקודות החיתוך של גרף הפונקציה עם הצירים.
ה. מציאת אסימפטוטות המקבילות לצירים.
ו. שרטוט סקיצה של גרף הפונקציה.

38) נתונה הפונקציה: $f(x)=(x-4)\sqrt{x-1}$. חקור את הפונקציה לפי הסעיפים הבאים:

א. מציאת תחום ההגדרה.
ב. מציאת נקודות הקיצון של הפונקציה.
ג. כתיבת תחומי העלייה והירידה של הפונקציה.
ד. מציאת נקודות החיתוך של גרף הפונקציה עם הצירים.
ה. מציאת אסימפטוטות המקבילות לצירים.
ו. שרטוט סקיצה של גרף הפונקציה.

39) נתונה הפונקציה: $f(x)=x\sqrt{6-x}$. חקור את הפונקציה לפי הסעיפים הבאים:

א. מציאת תחום ההגדרה.
ב. מציאת נקודות הקיצון של הפונקציה.
ג. כתיבת תחומי העלייה והירידה של הפונקציה.
ד. מציאת נקודות החיתוך של גרף הפונקציה עם הצירים.
ה. שרטוט סקיצה של גרף הפונקציה.

40) נתונה הפונקציה: $f(x)=\frac{4\sqrt{x}}{x^2+3}$. חקור את הפונקציה לפי הסעיפים הבאים:

א. מציאת תחום ההגדרה.

ב. מציאת נקודות הקיצון של הפונקציה.

ג. כתיבת תחומי העלייה והירידה של הפונקציה.

ד. מציאת נקודות החיתוך של גרף הפונקציה עם הצירים.

ה. מציאת אסימפטוטות המקבילות לצירים.

ו. שרטוט סקיצה של גרף הפונקציה.

41) נתונה הפונקציה: $f(x)=\frac{\sqrt{9-x^2}}{x}$. חקור את הפונקציה לפי הסעיפים הבאים:

א. מציאת תחום ההגדרה.

ב. מציאת נקודות הקיצון של הפונקציה.

ג. כתיבת תחומי העלייה והירידה של הפונקציה.

ד. מציאת נקודות החיתוך של גרף הפונקציה עם הצירים.

ה. מציאת אסימפטוטות המקבילות לצירים.

ו. שרטוט סקיצה של גרף הפונקציה.

42) נתונה הפונקציה הבאה: $f(x)=\frac{\sqrt{x^2-2x}}{x^2}$.

א. מה הוא תחום ההגדרה של הפונקציה?

ב. מצא את נקודות קיצון של הפונקציה וקבע את סוגן.

ג. מצא את נקודת החיתוך של גרף הפונקציה עם ציר ה-x.

ד. סרטט סקיצה של גרף הפונקציה.

43) נתונה הפונקציה הבאה: $f(x)=\frac{x^2-4}{\sqrt{x}}$.

א. מצא את נקודת החיתוך של הפונקציה עם ציר ה-x.

ב. האם ניתן להעביר משיק לגרף הפונקציה המקביל לציר ה-x? נמק והראה חישוב מתאים.

ג. כתוב את משוואת המשיק לגרף הפונקציה העובר דרך נקודת החיתוך שלה עם ציר ה-x.

ד. חשב את שטח המשולש הכלוא בין המשיק והצירים.

44) נתונה הפונקציה הבאה: $f(x)=\frac{x+3}{\sqrt{x}-1}$.

א. מהו תחום הגדרה של הפונקציה?

ב. כמה נקודות יש לגרף הפונקציה שהמשיק העובר דרכן מקביל לציר ה-x? מצא אותן.

ג. כתוב את משוואות המשיקים בנקודות שמצאת בסעיף הקודם.

45) נתונה הפונקציה: $f(x)=\frac{\sqrt{9-x^2}}{x}$. חקור לפי הסעיפים הבאים:

א. מציאת תחום הגדרה.

ב. מציאת נקודות קיצון של הפונקציה.

ג. כתיבת תחומי העלייה והירידה של הפונקציה.

ד. מציאת נקודות החיתוך של גרף הפונקציה עם הצירים.

ה. מציאת אסימפטוטות המקבילות לצירים.

ו. סרטוט סקיצה של גרף הפונקציה.

46) נתונה הפונקציה הבאה: $f(x)=\frac{ax+6}{\sqrt{9-x^2}}$, a פרמטר.

מעבירים משיק לגרף הפונקציה בנקודת החיתוך שלה עם ציר ה-y.

ידוע כי הוא מקביל לישר: $3y-x=0$.

א. מצא את ערך הפרמטר a.

ב. כתוב את תחום ההגדרה של הפונקציה.

ג. מצא את נקודת הקיצון של הפונקציה.

ד. כתוב את התחומי העלייה והירידה של הפונקציה.

47) נתונות שתי הפונקציות הבאות: $g(x)=\frac{\sqrt{x-k}}{x}$, $f(x)=\frac{x}{\sqrt{x+k}}$, ($k$ פרמטר חיובי).

ידוע כי הפונקציות חותכות זו את זו בנקודה שבה: $x=0.8$.

א. מצא את k.

ב. האם הפונקציות נחתכות בנקודה נוספת מלבד לנקודה הנתונה? אם כן מצא אותה.

ג. מצא את משוואת המשיק לגרף הפונקציה $f(x)$ בנקודה שבה: $x=0.52$.

48) נתונה הפונקציה הבאה: $f(x)=\frac{kx}{\sqrt{k-x^2}}$, k פרמטר חיובי.

א. ענה על הסעיפים הבאים:

i. מהו תחום ההגדרה של הפונקציה? (בטא באמצעות k).

ii. מהן האסימפטוטות האנכיות של הפונקציה?

ב. הראה כי הפונקציה עולה עבור כל ערך של k בתחום הגדרתה.

ג. כתוב את משוואת המשיק לגרף הפונקציה בנקודת החיתוך שלה עם ציר ה-x. (בטא באמצעות k).

ד. המשיק אשר מצאת בסעיף הקודם חותך את אחת האסימפטוטות של הפונקציה בנקודה A. ידוע כי שטח המשולש הכלוא בין המשיק, ציר ה-x והאסימפטוטה הנ"ל הוא: 4 יח"ש $S=$. מצא את ערך הפרמטר k.

49) נתונה הפונקציה: $f(x)=\frac{x+2}{x+4}$. מגדירים פונקציה נוספת: $g(x)=\sqrt{f(x)}$.

א. כתוב בצורה מפורשת את הפונקציה $g(x)$.

ב. לפניך מספר טענות המתייחסות לפונקציות $f(x)$ ו-$g(x)$.
קבע אילו מהטענות הבאות נכונות ואלו אינן נכונות.
הצדק את קביעותיך באמצעות חישוב מתאים:

i. לפונקציות תחום הגדרה זהה.

ii. שתי הפונקציות עולות בכל תחום הגדרתן.

iii. שתי הפונקציות חותכות את ציר ה-x באותה נקודה.

iv. לשתי הפונקציות יש אסימפטוטה משותפת.

ג. מצא את נקודות החיתוך של כל פונקציה עם ציר ה-y.

אסף פתר את סעיפים א' ו-ב' והחליט לטעון את הטענה הבאה:

היות והפונקציה $g(x)$ מוגדרת להיות: $g(x)=\sqrt{f(x)}$ אזי ניתן למצוא את שיעור ה-y של כל נקודה שעל גרף הפונקציה $f(x)$ ע"י כך שנמצא תחילה את שיעור ה-y של הנקודה בעלת אותו שיעור x על הגרף של $g(x)$ ונעלה אותה בריבוע.

ד. האם אסף צודק? נמק בצורה איכותית (חישובים אינם נדרשים) את שיקולך.

50) לפניך הפונקציות הבאות: $g(x)=\frac{x}{\sqrt{x-1}}$, $f(x)=\frac{x}{\sqrt{x}-1}$.

א. קבע אילו מהטענות הבאות נכונות ואלו אינן נכונות.
הצדק את קביעותיך באמצעות חישוב מתאים:

i. לשתי הפונקציות יש את אותו תחום ההגדרה.

ii. לשתי הפונקציות יש נקודות קיצון הנמצאות על הישר: $y=x$.

iii. הפונקציות לא חותכות זו את זו.

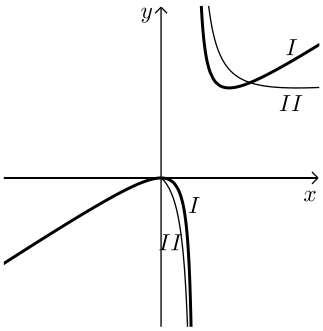

מגדירים פונקציה נוספת והיא: $h(x)=(g(x))^2$.

ב. כתוב באופן מפורש את הפונקציה החדשה: $h(x)$.

ג. האם תחום ההגדרה של הפונקציה $h(x)$ זהה לשל $g(x)$?

ד. באיור הסמוך ישנם שני גרפים.
קבע על סמך הסעיפים הקודמים איזו פונקציה כל גרף
מתאר מבין הפונקציות: $h(x)$, $g(x)$, $f(x)$. נמק את בחירותיך.

51) לפניך שלוש פונקציות: $h(x)=\frac{\sqrt{k-x^2}}{x^2}$, $g(x)=\frac{x^2}{\sqrt{k-x^2}}$, $f(x)=x^2\sqrt{k-x^2}$, $(k>0)$.

א. קבע אילו מהטענות הבאות נכונות ואלו אינן נכונות. הצדק את קביעותיך
באמצעות חישוב מתאים:

i. לפונקציות $f(x)$ ו-$g(x)$ תחום הגדרה זהה, השונה מתחום ההגדרה של $h(x)$.

ii. קיימת פונקציה אשר אינה חותכת את ציר ה-x כלל.

iii. הפונקציות: $h(x)$ ו-$g(x)$ הפוכות זו מזו בתחומי העלייה והירידה שלהן
(כאשר אחת עולה השנייה יורדת).

iv. לפונקציה: $f(x)$ יש נקודת קיצון אחת בלבד.

מסמנים נקודה $A(0,\sqrt{12})$ על ציר ה-y . ידוע כי מרחקה מאחת מנקודות החיתוך
של גרף הפונקציה $f(x)$ עם ציר ה-x שאינה בראשית הוא: $d=6$.

ב. מצא את k .

ג. מצא את נקודות הקיצון של גרף
הפונקציה $f(x)$ וקבע את סוגן.

ד. לפניך איור ובו מסורטטות הסקיצות של
שלושת הפונקציות.
קבע עפ"י הסעיפים הקודמים איזה גרף
שייך לכל פונקציה.

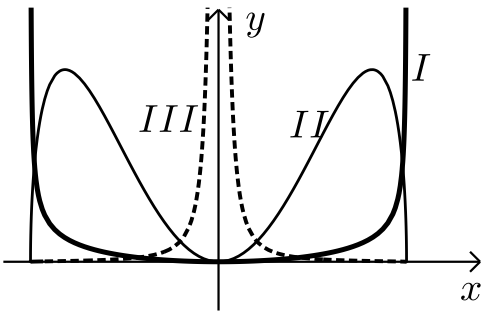

תשובות סופיות:

37) א. $x \geq 3$ ב. $\min(3,0)$ קצה ג. הפונקציה עולה בכל ת.ה.

ד. $(3,0)$ ה. אין. ו. להלן סקיצה:

38) א. $x \geq 1$ ב. $\min(2,-2)$, $\max(1,0)$ קצה

ג. עולה: $x > 2$, יורדת: $1 < x < 2$. ד. $(1,0),(4,0)$ ה. אין.

ו. להלן סקיצה:

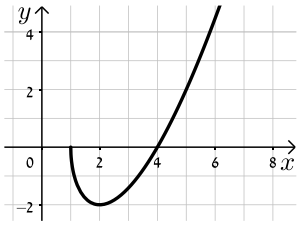

39) א. $x \leq 6$ ב. $\max(4,4\sqrt{2})$, $\min(6,0)$ קצה

ג. עלייה: $x < 4$, ירידה: $4 < x < 6$ ד. $(6,0),(0,0)$.

ה. להלן סקיצה:

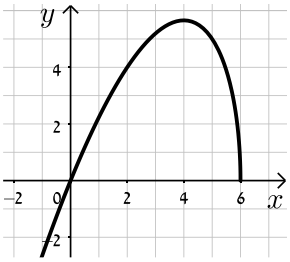

40) א. $x \geq 0$ ב. $\max(1,1)$, $\min(0,0)$ קצה

ג. עולה: $0 < x < 1$, יורדת: $x > 1$ ד. $(0,0)$ ה. $y = 0$.

ו. להלן סקיצה:

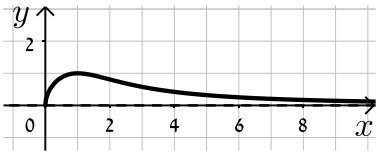

41) א. $-3\le x\le 3$ וגם $x\ne 0$ ב. $\max(-3,0)$ קצה, $\min(3,0)$ קצה

ג. עולה: אף x, יורדת: $-3\le x\le 3$, $x\ne 0$ ד. $(-3,0),(3,0)$

ה. $x=0$. ו. להלן סקיצה:

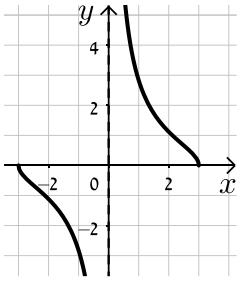

42) א. $x<0$, $x\ge 2$ ב. $\max\left(3,\frac{1}{\sqrt{27}}\right)$, $\min(2,0)$ ג. $(2,0)$.

ד. להלן סקיצה:

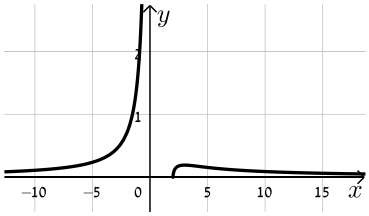

43) א. $(2,0)$ ב. לא ג. $y=2\sqrt{2}x-4\sqrt{2}$ ד. $S=4\sqrt{2}$.

44) א. $x\ge 0$, $x\ne 1$ ב. $(9,6)$ ג. $y=6$.

45) א. $-3\le x\le 3$ וגם $x\ne 0$ ב. $\max(-3,0)$ קצה, $\min(3,0)$ קצה

ג. עולה: אף x, יורדת: $-3\le x\le 3$ וגם $x\ne 0$ ד. $(-3,0),(3,0)$

ה. $x=0$ ו. להלן סקיצה:

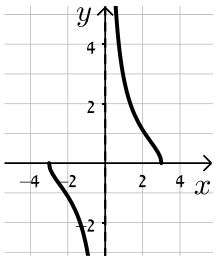

46) א. $a=1$ ב. $-3<x<3$ ג. $\left(-1.5,\sqrt{3}\right)$

ד. יורדת: $-3<x<-1.5$, עולה: $-1.5<x<3$.

47) א. $k=0.48$ ב. כן, $(0.6,0.57)$ ג. $y=0.74x+0.1352$.

48) א. i. $-\sqrt{k}<x<\sqrt{k}$ ii. $x=\pm\sqrt{k}$ ב. $f'(x)=\frac{k^2}{\left(k-x^2\right)^{1.5}}>0$

ג. $y=\sqrt{k}x$ ד. $k=4$.

49) א. $g(x)=\sqrt{\frac{x+2}{x+4}}$ ב. i. לא נכון ii. נכון

iii. נכון iv. נכון ג. $f(x):\left(0,\frac{1}{2}\right)$, $g(x):\left(0,\frac{1}{\sqrt{2}}\right)$

ד. אסף צודק.

50) א. i. לא נכון ii. נכון iii. נכון ב. $h(x)=\frac{x^2}{x-1}$

ג. לא, $h(x):x\neq 1$ ד. $\mathrm{I}=h(x)$, $\mathrm{II}=f(x)$.

51) א. i. לא נכון ii. לא נכון iii. נכון iv. נכון

ב. $k=24$ ג. $\min(0,0)$, $\max\left(\pm 4,32\sqrt{2}\right)$

ד. $\mathrm{I}=g(x)$, $\mathrm{II}=f(x)$, $\mathrm{III}=h(x)$.

תחומי קעירות ונקודות פיתול:

סיכום כללי:

תחומי קעירות – הגדרה:

- פונקציה $f(x)$ קעורה כלפי מטה (קמורה) בתחום $[x_0, x_1]$ אם לכל x בתחום הנ"ל המשיק לפונקציה נמצא מעל לגרף הפונקציה.
  כדי למצוא תחומי קעירות כלפי מטה יש למצוא תחום שבו: $f''(x) < 0$.
- פונקציה $f(x)$ קעורה כלפי מעלה (קעורה) בתחום $[x_0, x_1]$ אם לכל x בתחום הנ"ל המשיק לפונקציה נמצא מתחת לגרף הפונקציה.
  כדי למצוא תחומי קעירות כלפי מעלה יש למצוא תחום שבו: $f''(x) > 0$.

נקודת פיתול – הגדרות:

- נקודת פיתול היא נקודה שבה הפונקציה עוברת מתחום קעירות כלפי מטה לקעירות כלפי מעלה ולהיפך.
- נקודת פיתול מקיימת: $f''(x) = 0$ כאשר ערך הנגזרת השנייה משנה את סימנו בתחום שלפני ואחרי הנקודה המאפסת אותו.
- בנקודת פיתול המשיק לגרף הפונקציה חותך אותה ולא רק משיק לה מכיוון אחד.

שאלות:

52) מצא את נקודות הפיתול ואת תחומי הקעירות של הפונקציה: $f(x) = x^4 - 6x^3 + 12x^2$.

53) מצא את נקודות הפיתול ואת תחומי הקעירות של הפונקציה: $f(x) = \frac{3x-2}{x^2}$.

54) מצא את נקודות הקיצון והפיתול של הפונקציה: $f(x) = \frac{2x}{\sqrt{x-1}}$.

55) מצא את נקודות הקיצון והפיתול של הפונקציה: $f(x) = x(x-2)^3$.

56) נתונה הפונקציה: $f(x)=\frac{a}{x^2+b}$, a,b פרמטרים.

הנקודה $(-1\,,\,1)$ היא נקודת פיתול של הפונקציה.

מצא את ערכי הפרמטרים a,b.

57) נתונה הפונקציה: $f(x)=\frac{1}{x}-\frac{1}{x^2}+2$. חקור את הפונקציה לפי הסעיפים הבאים:

א. מציאת תחום הגדרה.
ב. מציאת נקודות קיצון של הפונקציה.
ג. כתיבת תחומי העלייה והירידה של הפונקציה.
ד. מציאת נקודות החיתוך של גרף הפונקציה עם הצירים.
ה. מציאת אסימפטוטות המקבילות לצירים.
ו. מציאת נקודות פיתול.
ז. מציאת תחומי הקעירות כלפי מעלה ומטה.
ח. סרטוט סקיצה של גרף הפונקציה.

58) נתונה הפונקציה: $f(x)=\frac{2x}{x-\sqrt{x}}$. חקור את הפונקציה לפי הסעיפים הבאים:

א. מציאת תחום הגדרה.
ב. מציאת נקודות קיצון של הפונקציה.
ג. כתיבת תחומי העלייה והירידה של הפונקציה.
ד. מציאת נקודות החיתוך של גרף הפונקציה עם הצירים.
ה. מציאת אסימפטוטות המקבילות לצירים.
ו. מציאת נקודות פיתול.
ז. מציאת תחומי הקעירות כלפי מעלה ומטה.
ח. סרטוט סקיצה של גרף הפונקציה.

59) חקור את הפונקציות הבאות לפי הסעיפים הבאים:

i. מציאת תחום הגדרה.
ii. מציאת נקודות חיתוך עם הצירים.
iii. מציאת נקודות קיצון וקביעת סוגן.
iv. מציאת תחומי העלייה והירידה של הפונקציה.
v. מציאת אסימפטוטות המקבילות לצירים.
vi. מציאת נקודות הפיתול של הפונקציה.
vii. מציאת תחומי הקעירות של הפונקציה.
viii. סרטוט סקיצה של גרף הפונקציה.

א. $f(x)=\frac{x-1}{x^2}$

ב. $f(x)=\frac{2x^2}{(x+1)^2}$

ג. $f(x)=\frac{x^3}{x^2-4}$

ד. $f(x)=\frac{x^3}{(x+1)^2}$

ה. $f(x)=\left(\frac{x+1}{x-1}\right)^3$

ו. $f(x)=\frac{x^2-1}{(x-2)(x-5)}$

ז. $f(x)=\frac{x^2-4x+3}{x^2-4}$

ח. $f(x)=\frac{x^3-x^2}{x^2-1}$

הערה: בסעיפים ו ו-ז יש לבצע חקירה ללא סעיפים vi ו-vii.

תשובות סופיות:

52) $(2,16),(1,7)$, קעירות כלפי מעלה: $x>2$ או $x<1$, קעירות כלפי מטה: $1<x<2$.

53) $(2,1)$, קעירות כלפי מעלה: $x>2$, קעירות כלפי מטה: $0\neq x<2$.

54) קיצון: $\min(2,4)$, פיתול: $\left(4,\frac{8}{\sqrt{3}}\right)$.

55) קיצון: $\min\left(\frac{1}{2},-\frac{27}{16}\right)$, פיתול: $(1,-1),(2,0)$.

56) $a=4$, $b=3$.

57) א. $x\neq 0$ ב. $\max\left(2,2\frac{1}{4}\right)$ ג. עולה: $0<x<2$ יורדת: $x>2$, $x<0$

ד. $\left(\frac{1}{2},0\right),(-1,0)$ ה. $x=0$, $y=2$ ו. $\left(3,2\frac{2}{9}\right)$.

ז. קעירות כלפי מעלה: $x>3$, קעירות כלפי מטה: $0\neq x<3$.

ח. להלן סקיצה:

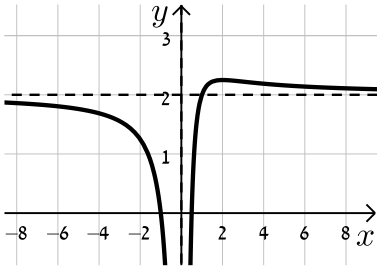

58) א. $1\neq x>0$ ב. אין. ג. יורדת בכל תחום הגדרתה.

ד. אין. ה. $x=1$, $y=2$ נקודת אי הגדרה: $(0,0)$. ו. $\left(\frac{1}{9},-1\right)$

ז. קעירות כלפי מעלה: $x>1$ או $0<x<\frac{1}{9}$, קעירות כלפי מטה: $\frac{1}{9}<x<1$.

ח. להלן סקיצה:

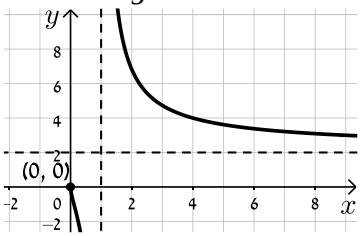

59) א. i. $x\neq 0$ ii. $(1,0)$ iii. $x=0$, $y=0$ iv. $\max(2,0.25)$

v. עולה: $0<x<2$, יורדת: $x<0$, $x>2$ vi. $\left(3,\frac{2}{9}\right)$

vii. קעורה כלפי מעלה: $x>3$, קעורה כלפי מטה: $0<x<3$, $x<0$.

ב. i. $x\neq -1$ ii. $(0,0)$ iii. $x=-1$, $y=2$ iv. $\min(0,0)$

v. עולה: $x<-1$, $x>0$, יורדת: $-1<x<0$ vi. $\left(\frac{1}{2},\frac{2}{9}\right)$

vii. קעורה כלפי מעלה: $-1<x<\frac{1}{2}$, $x<-1$, קעורה כלפי מטה: $x<\frac{1}{2}$.

ג. i. $x\neq\pm2$ ii. $(0,0)$ iii. $x=\pm2$

iv. $\max\left(-\sqrt{12},-5.2\right)$, $\min\left(\sqrt{12},5.2\right)$.

v. עולה: $x>\sqrt{12}$, $x<-\sqrt{12}$, יורדת: $2<x<\sqrt{12}$, $-2<x<2$, $-\sqrt{12}<x<-2$

vi. $(0,0)$.

vii. קעורה כלפי מעלה: $x>2$, $-2<x<0$, קעורה כלפי מטה: $0<x<2$, $x<-2$.

ד. i. $x\neq-1$ ii. $(0,0)$ iii. $x=-1$ iv. $\max(-3,-6.75)$

v. עולה: $x>-1$, $x<-3$, יורדת: $-3<x<-1$ vi. $(0,0)$

vii. קעורה כלפי מעלה: $x>0$, קעורה כלפי מטה: $-1<x<0$, $x<-1$.

ה. i. $x\neq1$ ii. $(-1,0),(0,-1)$ iii. $x=1$, $y=1$ iv. אין.

v. יורדת בכל ת.ה. vi. $\left(-3,\frac{1}{8}\right),(-1,0)$

vii. קעורה כלפי מעלה: $-3<x<-1$, $x>1$, קעורה כלפי מטה: $-1<x<1$, $x<-3$.

ו. i. $x\neq2,5$ ii. $(0,-0.1),(-1,0),(1,0)$ iii. $x=2$, $x=5$, $y=1$

iv. $\max(2.78,-3.89)$, $\min(0.359,-0.11)$

v. עולה: $2<x<2.78$, $0.359<x<2$, יורדת: $x>5$, $2.78<x<5$, $x<0.359$.

ז. i. $x\neq\pm2$ ii. $(3,0),(1,0),(0,-0.75)$ iii. $x=\pm2$, $y=1$

iv. אין. v. יורדת בכל ת.ה.

ח. i. $x\neq\pm1$ ii. $(0,0)$ iii. $x=-1$ iv. $\max(-2,-4)$, $\min(0,0)$.

v. עולה: $x>0$, $x<-2$, $x\neq1$, יורדת: $-1<x<0$, $-2<x<-1$

vi. אין. vii. קעורה כלפי מעלה: $x>-1$, $x\neq1$, קעורה כלפי מטה: $x<-1$.

סקיצות:

א.

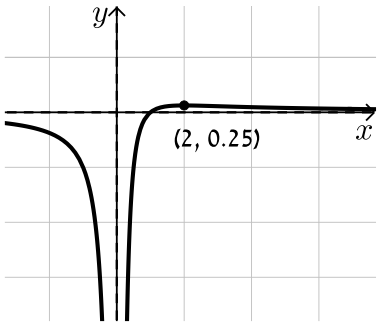

ב.

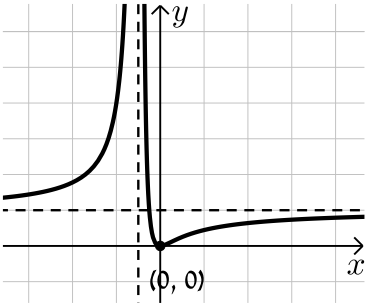

ג.

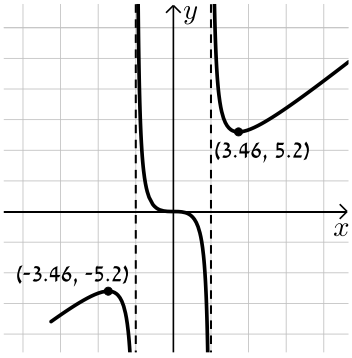

ד.

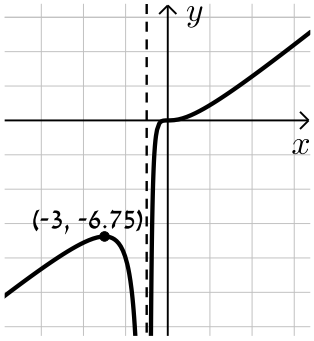

ה.

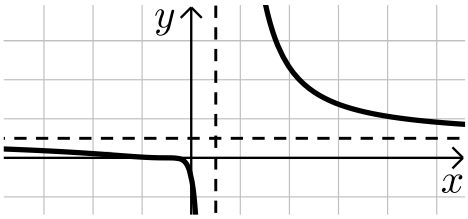

ו.

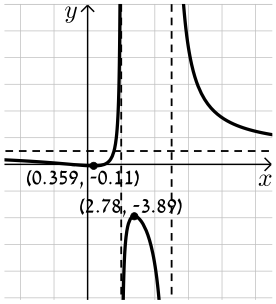

ז.

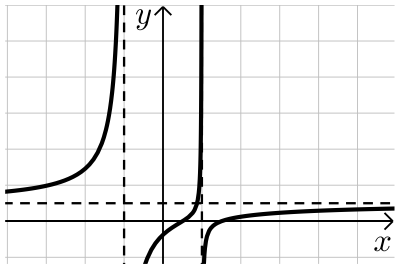

ח.

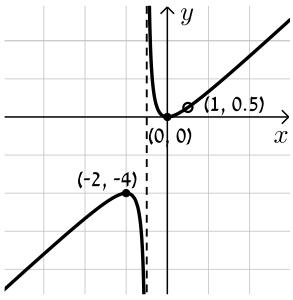

חקירת פונקציה עם פרמטר:

סיכום כללי:

סיווג נקודות קיצון באמצעות "y :

אם הנקודה $A(x_1, y_1)$ היא נקודת קיצון אז:

- אם $f''(x_1) > 0$ הנקודה $A(x_1, y_1)$ היא נקודת מינימום.
- אם $f''(x_1) < 0$ הנקודה $A(x_1, y_1)$ היא נקודת מקסימום.

שאלות:

1) מצא וסווג את נקודות הקיצון של הפונקציה: $f(x) = x^3 - 12x$.

2) מצא וסווג את נקודות הקיצון של הפונקציה: $f(x) = x^2 - 6x - 16$.

3) מצא וסווג את נקודות הקיצון של הפונקציה: $f(x) = x^3 - 3b^2x$, $b > 0$ פרמטר.
שרטט סקיצה של גרף הפונקציה.

4) נתונה הפונקציה: $f(x) = \frac{2x}{a^2 + x^2}$ $(a > 0)$. חקור לפי הסעיפים הבאים:

א. מציאת תחום ההגדרה.
ב. מציאת נקודות קיצון של הפונקציה.
ג. כתיבת תחומי העלייה והירידה של הפונקציה.
ד. מציאת נקודות החיתוך של גרף הפונקציה עם הצירים.
ה. מציאת אסימפטוטות המקבילות לצירים.
ו. שרטוט סקיצה של גרף הפונקציה.

5) נתונה הפונקציה: $f(x)=\frac{1-x^2}{(x-b)^2}$, $(b>1)$. חקור לפי הסעיפים הבאים:

א. מציאת תחום ההגדרה.

ב. מציאת נקודות קיצון של הפונקציה.

ג. כתיבת תחומי העלייה והירידה של הפונקציה.

ד. מציאת נקודות החיתוך של גרף הפונקציה עם הצירים.

ה. מציאת אסימפטוטות המקבילות לצירים.

ו. שרטוט סקיצה של גרף הפונקציה.

6) נתונה הפונקציה: $f(x)=4x\sqrt{b^2-x^2}$, $(b>0)$.

חקור לפי הסעיפים הבאים:

א. מציאת תחום ההגדרה.

ב. מציאת נקודות קיצון של הפונקציה.

ג. כתיבת תחומי העלייה והירידה של הפונקציה.

ד. מציאת נקודות החיתוך של גרף הפונקציה עם הצירים.

ה. שרטוט סקיצה של גרף הפונקציה.

7) נתונה הפונקציה: $f(x)=\frac{x^2-m}{ax-4}$, a,m פרמטרים קבועים כאשר: $a>0$.

ידוע כי אחת מנקודות הקיצון של הפונקציה נמצאת על ציר ה- y.

א. מצא את הערך של הפרמטר m.

ב. הצב את הערך של m שמצאת בסעיף א' והבא באמצעות a את:

i. תחום ההגדרה של הפונקציה.

ii. נקודות הקיצון של הפונקציה וקבע את סוגן.

iii. האסימפטוטות לגרף הפונקציה המקבילות לצירים.

ג. סרטט סקיצה וסמן בה את נקודות הקיצון ואת משוואות האסימפטוטות שהבעת באמצעות a בסעיף הקודם.

ד. ידוע כי נקודת הקיצון שאינה על ציר ה- y נמצאת במרחקים שווים מהצירים. מצא את הערך של הפרמטר a.

ה. נתון הישר: $y=k$. מצא עבור אילו ערכים של k אין לישר ולגרף הפונקציה נקודות משותפות כלל.

תשובות סופיות:

1) $\max(-2,16)$, $\min(2,-16)$

2) $\min(3,-25)$

3) $\max(-b,2b^3)$, $\min(b,-2b^3)$

4) א. כל x ב. $\min\left(-a,-\frac{1}{a}\right)$, $\max\left(a,\frac{1}{a}\right)$.

ג. עולה: $-a<x<a$ יורדת: $x>a$, $x<-a$.

ד. $(0,0)$ ה. אסימפטוטה אופקית: $y=0$

5) א. $x\neq b$ ב. $\max\left(\frac{1}{b},\frac{1}{b^2-1}\right)$ ג. עולה: $x>b$, $x<\frac{1}{b}$ יורדת: $\frac{1}{b}<x<b$.

ד. $\left(0,\frac{1}{b^2}\right)$, $(-1,0)$, $(1,0)$ ה. $x=b$, $y=-1$.

6) א. $-b\le x\le b$ ב. $\min\left(-\frac{b}{\sqrt{2}},-2b^2\right)$, $\max\left(\frac{b}{\sqrt{2}},2b^2\right)$, $\min(-b,0)$ קצה,

$\min(b,0)$ קצה. ג. עולה: $-\frac{b}{\sqrt{2}}<x<\frac{b}{\sqrt{2}}$, יורדת: $\frac{b}{\sqrt{2}}<x<b$, $-b<x<-\frac{b}{\sqrt{2}}$.

ד. $(0,0)$, $(-b,0)$, $(b,0)$.

7) א. $m=0$ ב. i. $x\neq\frac{4}{a}$ ב. ii. $\min\left(\frac{8}{a},\frac{16}{a^2}\right)$, $\max(0,0)$

ב. iii. $x=\frac{4}{a}$ ד. $a=2$ ה. $0<k<4$.

סקיצות לשאלות:

3)
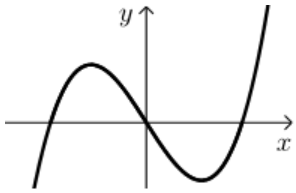

4)
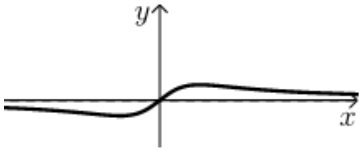

5)
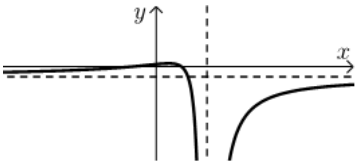

6)
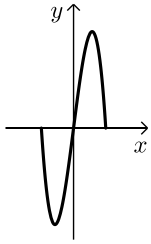

7)
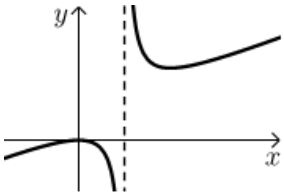

פונקציות ללא תבנית מפורשת:

סיכום כללי:

הגדרת פונקציה:

פונקציה f היא התאמה בין ערך x לערך y ומסומנת באופן הבא: $f: x \to y$.
כך שלכל x מתאים ערך אחד בלבד של y. סימון אחר: $y = f(x)$.
הנגזרת של פונקציה $f(x)$ מסומנת $f'(x)$.

כללי הגזירה לפי כלל השרשרת:

- סימון הנגזרת: $(f(x))' = f'(x)$.
- גזירה של פונקציה בחזקה: $(f^2(x))' = 2f(x)f'(x)$.
- גזירה של הרכבת פונקציות: $(f(g(x)))' = f'(g(x)) \cdot g'(x)$.

שאלות:

1) הפונקציה $f(x)$ מקיימת: $f(1) = 3$ ו- $f'(1) = -2$.
חשב את ערכי הביטויים הבאים:

א. $f(1) + 4$.

ב. $f'(1) + 4$.

ג. $\dfrac{f(1)+1}{f'(1)-1}$.

ד. $\sqrt{f(1) + f'(1)}$.

2) נתונה פונקציה f המקיימת: $f(4) = 0$ ו- $f'(4) = 1$.
מגדירים: $g(x) = 2x + f(2x)$.
חשב את $g(2)$ ואת $g'(2)$.

3) נתונה פונקציה המקיימת: $f(8)=-1$ ו-$f'(8)=1$.

א. נתון: $g(x)=x^2\sqrt{f(4x)+f'(x+6)}$. חשב את $g(2)$.

ב. נתון: $h(x)=\dfrac{f(x+2)+x+2}{f'(14-x)-14+x}$. חשב את $h(6)$.

4) נתונה פונקציה המקיימת: $f(9)=-4$, $f'(9)=3$.

מגדירים: $g(x)=f^2(3x)+f'(x^2)$. חשב את $g(3)$.

5) פונקציה f מקיימת: $f(4)=2$, $f'(4)=1$.

מגדירים: $g(x)=f^2(x)+f(x)+x$.

חשב את $g(4)$ ואת $g'(4)$.

6) פונקציה f מקיימת: $f(1)=-3$, $f'(1)=3$. מגדירים: $g(x)=\dfrac{x\cdot f(x)}{x+f(x)}$.

חשב את $g(1)$ ואת $g'(1)$.

7) פונקציה f מקיימת: $f(-2)=6$, $f'(-2)=2$. מגדירים: $g(x)=\sqrt{f^2(x)+1}$.

חשב את $g(-2)$ ואת $g'(-2)$.

8) פונקציה f מקיימת: $f\left(\frac{1}{2}\right)=3$, $f'\left(\frac{1}{2}\right)=\frac{4}{3}$. מגדירים: $g(x)=3x\cdot f(2x)$.

חשב את $g\left(\frac{1}{4}\right)$ ואת $g'\left(\frac{1}{4}\right)$.

9) פונקציה f מקיימת: $f(6)=\frac{2}{3}$, $f'(6)=-\frac{3}{2}$. מגדירים: $g(x)=\dfrac{x+3+f(x+3)}{f(2x)+3}$.

חשב את $g(3)$ ואת $g'(3)$.

10) נתונה פונקציה המקיימת: $f(8)=-3$. מגדירים: $g(x)=\frac{f(4x)+1}{f(x+6)+2}$.

א. חשב את $g(2)$.

ב. חשב את $f'(8)$ אם ידוע כי: $g'(2)=1$.

ג. חשב את $f'(8)$ אם ידוע כי: $g'(2)=\left(f'(8)\right)^2$ וכי $f'(8)<0$.

11) נתונה פונקציה המקיימת: $f(3)=-2$.

מגדירים: $g(x)=\frac{x^2\cdot f(x-2)}{f(2x-7)}$ וידוע כי $g'(5)=-15$.

חשב את $g(5)$ ואת $f'(3)$.

12) נתונה פונקציה שמקיימת: $f(4)=\frac{1}{2}$.

מגדירים: $g(x)=x^2\cdot f(x^2)+f'^2(x^2)$.

א. הבע את $g'(x)$ באמצעות f.

ב. חשב את $g(-2)$ ואת $g(2)$ אם ידוע כי $f'(4)=1$.

ג. חשב את $f'(4)$ אם ידוע כי $g'(2)=11$ ו- $f''(4)=\frac{1}{4}$.

תשובות סופיות:

1) א. 7 ב. 2 ג. $-\frac{4}{3}$ ד. 1.

2) $g(2)=4\,,\,g'(2)=4$.

3) א. $g(2)=0$ ב. $h(6)=-1$.

4) $g(3)=19$.

5) $g(4)=10\,,\,g'(4)=6$.

6) $g(1)=1.5\,,\,g'(1)=3$.

7) $g(-2)=\sqrt{37}\,,\,g'(2)=\frac{12}{\sqrt{37}}$.

8) $g\left(\frac{1}{4}\right)=\frac{9}{4}\,,\,g'\left(\frac{1}{4}\right)=11$.

9) $g(3)=1\frac{9}{11}\,,\,g'(3)=\frac{327}{242}=1.351$.

10) א. $g(2)=2$ ב. $f'(8)=-\frac{1}{2}$ ג. $f'(8)=-2$.

11) $g(5)=25\,,\,f'(3)=-2$.

12) א. $g'(x)=2x\,f\left(x^2\right)+2x^3 f'\left(x^2\right)+4x\,f'\left(x^2\right)f''\left(x^2\right)$

ב. $g(2)=3\,,\,g'(-2)=3$ ג. $f'(4)=\frac{1}{2}$.

מכינה במתמטיקה לתלמידי כלכלה

פרק 20 - חשבון דיפרנציאלי - בעיות קיצון

תוכן העניינים

1. בעיות קיצון יסודיות עם מספרים 262
2. בעיות קיצון בהנדסת המישור 264
3. בעיות קיצון בפונקציות וגרפים 268
4. בעיות קיצון בהנדסת המרחב 272
5. בעיות קיצון עם תשובה נתונה 274
6. בעיות קיצון שונות בהנדסת המישור 275
7. בעיות קיצון שונות בהנדסת המרחב 279
8. בעיות קיצון שונות בפונקציות וגרפים 281

בעיות קיצון יסודיות עם מספרים:

סיכום כללי:

שלבי עבודה:

- נגדיר את אחד הגדלים בשאלה כ- x .
- נבטא את שאר הגדלים בשאלה באמצעות x .
- נבנה פונקציה שמבטאת את מה שרצינו שיהיה מינימלי/מקסימלי.
- נגזור את הפונקציה, נשווה לאפס ונחלץ ערך/ערכי ה- x .
- נוודא שערך ה- x מהסעיף הקודם הוא אכן מינימום/מקסימום באמצעות "y (או טבלה).
- ננסח את התשובה לשאלה המקורית.

שאלות:

1) מבין כל זוגות המספרים שסכומם 14 מצא את הזוג שמכפלתו מקסימלית.

2) נתונים שלושה מספרים שסכומם 24. המספר הראשון שווה למספר השני.
מצא מהם המספרים אם ידוע שמכפלתם מקסימלית.

3) מצא את המספר החיובי שאם נוסיף לו את המספר ההופכי לו הסכום המתקבל יהיה מינימלי.

4) נתונים שלושה מספרים שסכומם הוא 36. ידוע שמספר אחד זהה לשני.

א. מה צריכים להיות שלושת המספרים כדי שמכפלתם תהיה מקסימלית?

ב. כיצד תשתנה התוצאה אם מספר אחד יהיה גדול פי 2 מהשני במקום שווה לו?

ג. באיזה מקרה תהיה מכפלה גדולה יותר?

5) x ו- y הם שני מספרים המקיימים: $x+6y=60$.

א. הבע את y באמצעות x .

ב. מה צריכים להיות המספרים x ו- y כדי שמכפלת ריבועיהם תהיה מקסימלית?

ג. מהי המכפלה הנ"ל?

תשובות סופיות:

1) 7 , 7.
2) 8 , 8 , 8.
3) 1.
4) א. 12, 12, 12 ב. 8, 12, 16 ג. מקרה א'.
5) א. $y=10-\frac{x}{6}$ ב. $x=30$, $y=5$ ג. $M=22500$.

בעיות קיצון בהנדסת המישור:

שאלות:

6) מבין כל המשולשים שווי השוקיים שהיקפם 24 ס"מ מצא את אורך בסיסו של המשולש בעל השטח הגדול ביותר.

7) ענה על הסעיפים הבאים:

א. מבין כל המשולשים שווי השוקיים שהיקפם a, מצא את בסיסו של המשולש בעל השטח הגדול ביותר.

ב. הוכח: מבין כל המשולשים שווי השוקיים בעלי אותו היקף, המשולש בעל השטח הגדול ביותר הוא משולש שווה צלעות.

8) במשולש ישר זווית סכום אורכי הניצבים הוא 12 ס"מ.

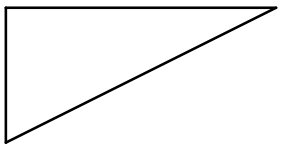

א. מה צריך להיות אורך כל ניצב, כדי שטח המשולש יהיה מקסימלי?

ב. מהו השטח המקסימלי?

ג. מה יהיה אורך היתר במשולש במקרה זה?

9) במשולש ישר זווית ABC ($\sphericalangle B=90°$) הנקודה E נמצאת על היתר AC כך שהמרובע EDBF הוא מלבן.

נתון: AB = 20 ס"מ , BC = 16 ס"מ.

מצא את שטחו של המלבן בעל השטח הגדול ביותר.

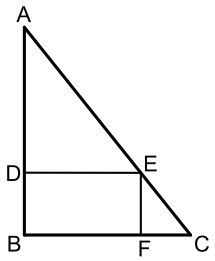

10) במשולש ישר זווית ABC ($\sphericalangle B=90°$) הנקודה E נמצאת על היתר AC כך שהמרובע EDBF הוא מלבן.

נתון: $AB=a$, $BC=b$.

מצא את שטחו של המלבן בעל השטח הגדול ביותר.

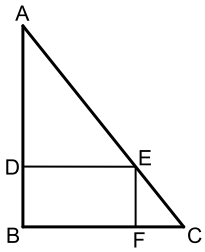

11) במשולש ישר הזווית ABC ($\sphericalangle B=90°$), AD הוא תיכון לניצב BC

ידוע כי סכום אורכי הניצבים הוא 20 ס"מ.

מצא מה צריכים להיות אורכי הניצבים עבורם אורך התיכון AD יהיה מינימלי.

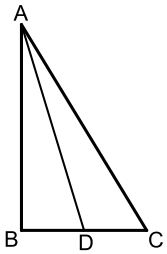

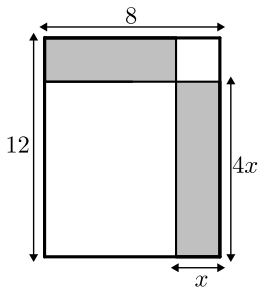

12) נתון מלבן שאורכי צלעותיו הם 8 ס"מ ו-12 ס"מ כמתואר באיור. מקצים קטעים באורכים של x ו-$4x$ על צלעות המלבן כך שנוצרים המלבנים המסומנים.
מצא את x עבורו סכום שטחי המלבנים הוא מינימלי.

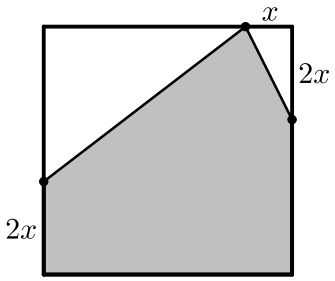

13) נתון ריבוע בעל אורך צלע של 16 ס"מ.
מקצים קטע שאורכו x על הצלע העליונה ושני קטעים שאורכם $2x$ על הצלעות הצדדיות כמתואר באיור כך שנוצר המחומש המסומן.
מצא מה צריך להיות ערכו של x עבורו שטח המחומש יהיה מקסימלי.

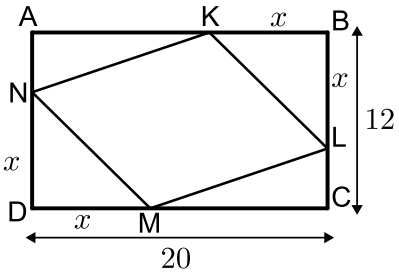

14) הנקודות K , L , M , N מקצות קטעים שווים במלבן ABCD כך ש: $BK = BL = DM = DN = x$.
צלעותיו של המלבן הן 20 ס"מ ו-12 ס"מ.

א. הבע באמצעות x את סכום שטחי המשולשים: $\Delta AKN + \Delta KBL + \Delta CLM + \Delta DNM$.

ב. מצא מה צריך להיות x כדי ששטח המרובע LKNM יהיה מקסימלי.

ג. מה הוא השטח של המרובע LKNM במקרה זה?

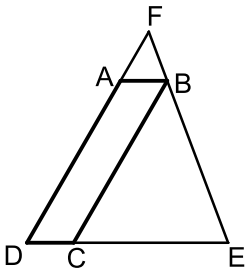

15) המרובע ABCD הוא מקבילית.
מהקדקוד B מעבירים את הצלע EF הנפגשת עם המשכי הצלעות DC ו-AD.
ידוע כי מידות המקבילית הן: AB = 2 ס"מ , AD = 8 ס"מ.
מסמנים את אורך הצלע DE ב-x.

א. הבע באמצעות x את אורך הצלע DF.

ב. מצא את x עבורו סכום הצלעות DE ו-DF הוא מינימלי.

ג. מה הוא הסכום המינימלי?

16) חיים הוא אחד מעובדי חברת "דפוס יהלום בע"מ".
תפקידו של חיים הוא להדביק גלויות על משטחי קרטון בעלי שטח מינימלי כך שיישארו רווחים של 3 ס"מ מקצות הקרטון העליון והתחתון, ו-5 ס"מ מצדי הקרטון (ראה איור).

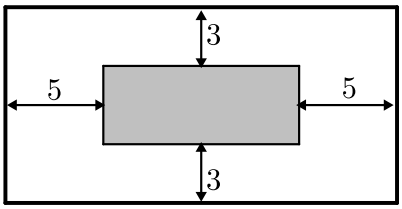

יום אחד קיבל חיים שיחת טלפון מלקוח אנונימי ששאל אותו את השאלה הבאה: "יש לי מגוון גדול של גלויות במידות שונות אשר שטחן זהה והוא 60 סמ"ר.
מה הן המידות של גלויה אשר שטח משטח הקרטון שלה יהיה מינימלי?".

א. עזור לחיים לענות ללקוח על שאלתו והראה דרך חישוב.

ב. מה יהיו מידות הקרטון עבור הגלויה המסוימת?

17) אלינה קיבלה משימה בשיעור מלאכה: יש להכין מסגרת לתמונה מלוח עץ ששטחו הכולל הוא 242 סמ"ר כך שעובי המסגרת בצדדים יהיה 2 ס"מ ובקצוות העליון והתחתון –4 ס"מ (ראה איור).
כדי לבחור את מידות לוח העץ, אלינה צריכה לדעת את השטח המקסימלי שעליה לנסר עבור המקום לתמונה (השטח המסומן).

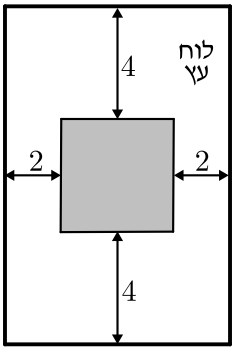

א. מה יהיו מידות לוח העץ שאלינה צריכה להזמין עבור המשימה?

ב. מה יהיה השטח המקסימלי לתמונה עבור המידות שאלינה בחרה?

18) במעגל שמרכזו O ורדיוסו $10\sqrt{5}$ ס"מ העבירו מיתר AB שמרחקו ממרכז המעגל הוא 4 ס"מ.
במקטע שיוצר המיתר חסום מלבן כמתואר בשרטוט.
מצא את היקפו של המלבן בעל ההיקף הגדול ביותר.

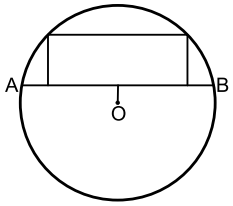

19) במעגל שמרכזו O ורדיוסו R העבירו מיתר AB שמרחקו ממרכז המעגל הוא a.
במקטע שיוצר המיתר חסום מלבן כמתואר בשרטוט.
מצא את היקפו של המלבן בעל ההיקף הגדול ביותר.

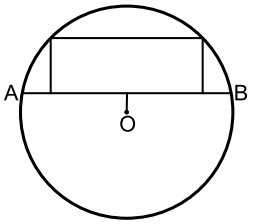

20) שני הולכי רגל יוצאים בו זמנית לדרכם, האחד מעיר A מערבה לעיר B והשני מעיר B דרומה לעיר C.
המרחק בין הערים A ו-B הוא 20 ק"מ.
מהירות הרוכב שיצא מ-A היא 4 קמ"ש ומהירות הרוכב השני 2 קמ' כעבור כמה זמן מיציאת הרוכבים יהיה המרחק ביניהם מינימלי?
מצא גם את המרחק המינימלי.



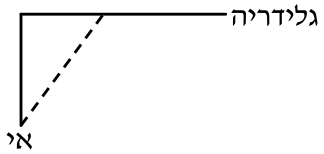

21) אדם נמצא על אי במרחק 0.5 ק"מ מהחוף.
על החוף, במרחק של 3 ק"מ מהנקודה הקרובה ביותר לאי, נמצאת גלידריה.
האדם שוחה במהירות של 8 קמ"ש ורץ על החוף במהירות של 10 קמ"ש.
לאיזה מרחק מהגלידריה עליו לשחות כדי להגיע לגלידריה בזמן הקצר ביותר?

22) אדם מתכנן לבנות מרפסת בביתו ורוצה להציב מעקה סביב המרפסת.
שטח המרפסת המתוכנן הוא 24 מ"ר.
מחיר מעקה בחזית המרפסת (BC) הוא 120 ₪ למטר ומחיר מעקה בצדי המרפסת הוא 40 ₪ למטר.
מה צריכים להיות ממדי המרפסת כדי שמחיר המעקה יהיה מינימלי?

תשובות סופיות:

6) 8 ס"מ.

7) א. $a/3$ ב. הוכחה.

8) א. 6 ס"מ ו-6 ס"מ ב. 18 סמ"ר ג. $6\sqrt{2}\approx 8.48$ ס"מ.

9) 80 סמ"ר $=S$.

10) $\frac{ab}{4}$ יחידות שטח.

11) 4 ס"מ, 16 ס"מ.

12) $x=2.75$.

13) $x=6$.

14) א. $2x^2-32x+240$ ב. $x=8$ ג. 128 סמ"ר $=S$.

15) א. $\mathrm{DF}=\frac{8x}{x-2}$ ב. $x=6\ ,\ L=\frac{x^2+6x}{x-2}$ ג. $L=18$.

16) א. 6 ס"מ על 10 ס"מ. ב. 12 ס"מ על 20 ס"מ.

17) א. 11 ס"מ על 22 ס"מ. ב. $S=98$.

18) 92 ס"מ.

19) $2\sqrt{5}R-2a$ יחידות אורך.

20) 4 שעות, המרחק: $\sqrt{80}$ ק"מ.

21) $2\frac{1}{3}$ ק"מ.

22) $4\cdot 6$.

בעיות קיצון בפונקציות וגרפים:

שאלות:

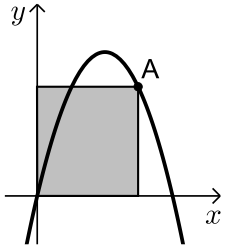

23) נתונה הפונקציה $f(x)=6x-x^2$.
מנקודה A שעל הפונקציה ברביע הראשון הורידו אנכים לצירי השיעורים כך שנוצר מלבן כמתואר בשרטוט.
מה צריכים להיות שיעורי הנקודה A כדי ששטח המלבן יהיה מקסימלי?

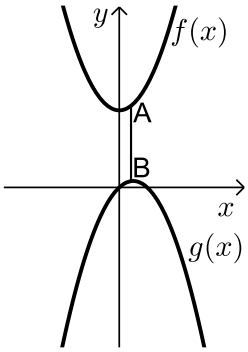

24) נתונות הפונקציות: $f(x)=x^2+12$ ו- $g(x)=2x-x^2$
כמתואר: הנקודות A ו-B נמצאות בהתאמה על הגרפים של הפונקציות: $f(x)$ ו- $g(x)$ כך שהקטע AB מקביל לציר ה- y.
מצא מה צריכים להיות שיעורי הנקודה A כדי שאורך הקטע AB יהיה מינימלי.

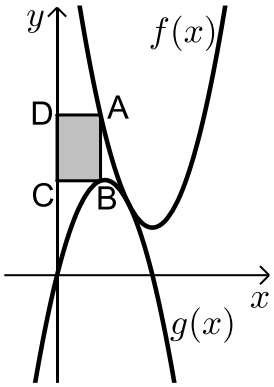

25) באיור שלפניך מתוארים הגרפים של הפונקציות: $f(x)=x^2-8x+18$ ו- $g(x)=-x^2+4x$.
הנקודה A נמצאת על גרף הפונקציה $f(x)$ והנקודה B נמצאת על גרף הפונקציה $g(x)$ כך שהקטע AB מקביל לציר ה- y. מעבירים אנכים מהנקודות A ו-B לציר ה- y כך שנוצר מלבן (המסומן).
נסמן את שיעור ה- x של הנקודה A ב- t.

א. הבע באמצעות t את שטח המלבן המסומן.
ב. מצא את ערכו של t עבורו שטח המלבן הוא מקסימלי.
ג. מה יהיה שטח המלבן במקרה זה?

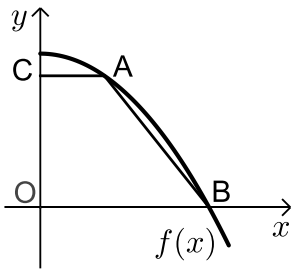

26) נתונה הפונקציה: $f(x)=36-x^2$.
על גרף הפונקציה ברביע הראשון מסמנים נקודה A.
מהנקודה A מעבירים ישר המקביל לציר ה- x שחותך את ציר ה- y בנקודה C. הנקודה B היא נקודת החיתוך של הפונקציה עם ציר ה- x ו-O ראשית הצירים.

א. מה צריכים להיות שיעורי הנקודה A כדי ששטח הטרפז ABOC יהיה מקסימלי?
ב. מה יהיה שטח הטרפז במקרה זה?

27) נתונה הפונקציה: $f(x)=\frac{4}{x}$ ונתון הישר: $y=-x-3$.

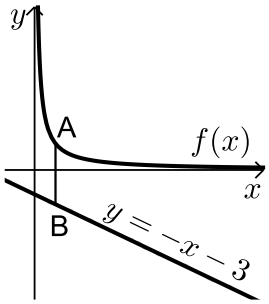

הנקודה A נמצאת על גרף הפונקציה $f(x)$
והנקודה B נמצאת על גרף הישר כך שהקטע AB
מקביל לציר ה- y.
מצא מה צריכים להיות שיעורי הנקודה A כדי
שאורך הקטע AB יהיה מינימלי.

28) נתונות שתי פונקציות: $f(x)=\frac{1}{2}x^2$ ו- $g(x)=-\frac{1}{x}$.

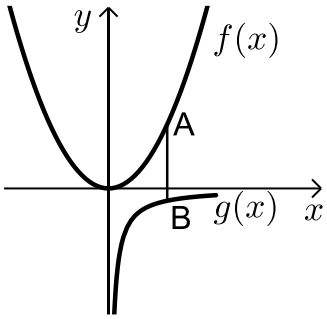

מסמנים נקודה A על גרף הפונקציה $f(x)$
ונקודה B על גרף הפונקציה $g(x)$ כך שהקטע AB
מקביל לציר ה- y.
מצא את שיעורי הנקודות A ו-B עבורן אורך
הקטע AB מינימלי.

29) באיור שלפניך מתוארים הגרפים של

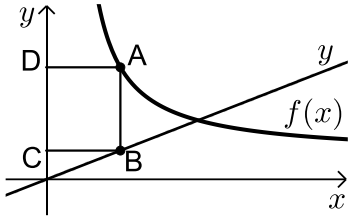

הפונקציה: $f(x)=\frac{x+8}{x-1}$ והישר: $y=\frac{9x}{25}$.
הנקודות A ו-B נמצאות על הגרפים של
הפונקציות כך שהקטע AB מקביל לציר ה- y.
מהנקודות A ו-B מותחים אנכים לציר ה- y כך שנוצר המלבן ABCD.
נסמן את שיעור ה- x של הנקודה A ב- t.

א. הבע באמצעות t את היקף המלבן ABCD.
ב. מצא את t עבורו היקף המלבן הוא מינימלי.
ג. מה יהיה ההיקף במקרה זה?

30) נתונה הפונקציה $f(x)=\frac{2}{x-1}$ והישר $y=2x$.
בין הישר והפונקציה ברביע הראשון חסמו מלבן.
מצא את מידות המלבן שהיקפו מינימלי.

31) נתונה הפונקציה: $f(x)=\frac{x+12}{x^2+3}$ בתחום: $x\geq 0$.

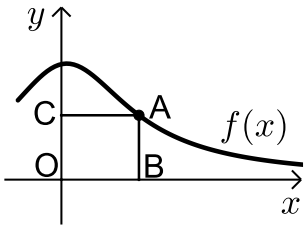

מקצים נקודה A על גרף הפונקציה וממנה מורידים אנכים לצירים כך שנוצר המלבן ABCO כמתואר באיור.

א. מצא מה צריכים להיות שיעורי הנקודה A עבורם שטח המלבן יהיה מקסימלי.

ב. מה צריכים להיות שיעורי הנקודה A עבורם שטח המלבן יהיה מינימלי בתחום הנ"ל.

32) נתונה הפונקציה: $f(x)=\frac{x+10}{x-2}$.

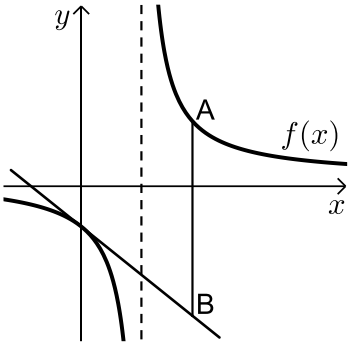

מעבירים משיק לגרף הפונקציה דרך נקודת החיתוך שלה עם ציר ה- y.

א. מצא את משוואת המשיק.

מסמנים נקודה A על גרף הפונקציה $f(x)$ ברביע הראשון ו-B על גרף המשיק כך שהקטע AB מקביל לציר ה- y.

ב. מצא את שיעורי הנקודה A עבורן אורך הקטע AB הוא מינימלי.

ג. מה יהיה אורך הקטע AB במקרה זה?

33) נתונה הפונקציה $f(x)=\frac{1}{x^3}$.

מצא שיעורי נקודה על הפונקציה ברביע הראשון, שסכום הקטעים שהמשיק בה מקצה על הצירים הוא מינימלי.

34) נתונות הפונקציות $f(x)=2\sqrt{x}$ ו- $g(x)=\frac{1}{3}x^3$.

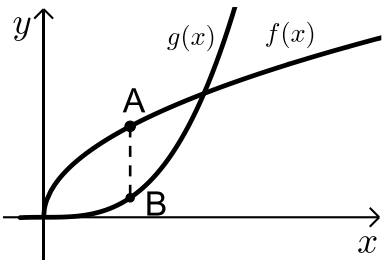

את הנקודה A שעל $f(x)$ חיברו עם הנקודה B, שנמצאת מתחתיה על $g(x)$ כך שהקטע AB מקביל לציר ה- y.

מה צריכים להיות שיעורי הנקודה A כדי שאורך הקטע AB יהיה מקסימלי?

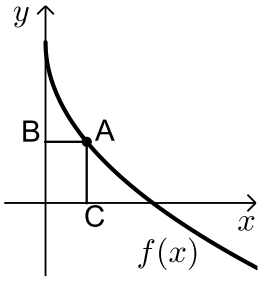

35) באיור שלפניך מתואר גרף הפונקציה: $f(x)=6-3\sqrt{x}$.
הנקודה A נמצאת על גרף הפונקציה ברביע הראשון.
מהנקודה A מותחים אנכים לצירים אשר חותכים אותם בנקודות B ו-C כמתואר באיור.
נסמן את שיעור ה-x של הנקודה A ב-t.

א. הבע באמצעות t את סכום הקטעים AC+AB.

ב. מצא את ערכו של t עבורו סכום הקטעים הנ"ל יהיה מינימלי.

36) נתונות הפונקציות: $f(x)=1-x^2$ ו-$g(x)=bx^2$ $(b>0)$.
הפונקציות נחתכות בנקודות A ו-B.
מצא את ערכו של b שבעבורו הקטע AO מינימלי (O– ראשית הצירים).

תשובות סופיות:

23) $A(4,8)$.

24) $A(0.5,12.25)$.

25) א. $S=2t^3-12t^2+18t$ ב. $t=1$ ג. $S=8$.

26) א. $A(2,32)$ ב. $S=128$.

27) $A(2,2)$.

28) $A\left(1,\frac{1}{2}\right)$, $B(1,-1)$.

29) א. $P=\frac{1.28t^2+0.72t+16}{t-1}$ ב. $t=4\frac{3}{4}$ ג. $P=$ 12.88 ס"מ.

30) $1\cdot 2$.

31) א. $A(2,2)$ ב. $A(0,4)$.

32) א. $y=-3x-5$ ב. $A(4,7)$ ג. $AB=24$.

33) $\left(\sqrt{3},\frac{1}{3\sqrt{3}}\right)$.

34) $A(1,2)$.

35) א. $l=t+6-3\sqrt{t}$ ב. $t=2.25$.

36) $b=1$.

בעיות קיצון בהנדסת המרחב:

שאלות:

37) נתונה תיבה שבסיסה ריבוע ושטח הפנים שלה הוא 96 סמ"ר.
מצא את מידות התיבה שנפחה מקסימלי.

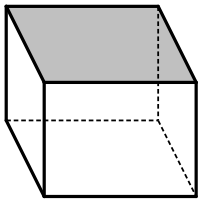

38) נתונה תיבה שבסיסה ריבוע ושטח פניה (ללא המכסה) הוא 75 סמ"ר.
מצא את אורך צלע הבסיס של התיבה שנפחה הוא מקסימלי.

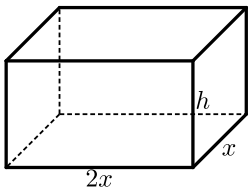

39) נתונה תיבה שבסיסה הוא מלבן שבו צלע אחת גדולה פי 2 מהצלע הסמוכה לה כמתואר באיור.
ידוע כי גובה התיבה h וצלע המלבן הקטנה x מקיימים: $x+h=9$.
מצא מה צריכים להיות מידות בסיס התיבה כדי שנפחה יהיה מקסימלי.

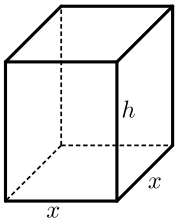

40) נתונה תיבה שגובהה הוא h ובסיסה הוא ריבוע שאורך צלעו היא x.
נתון כי צלע הריבוע וגובה התיבה מקיימים: $4x+h=63$.

א. הבע את h באמצעות x.

ב. הבע את שטח הפנים של התיבה באמצעות x.

ג. מה צריך להיות ערכו של x כדי ששטח הפנים יהיה מקסימלי?

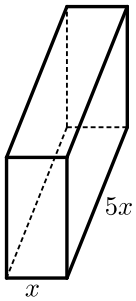

41) ליוסי משטח פח אשר הוא רוצה לבנות תיבה ממנו שנפחה הכולל הוא 225 סמ"ק. יוסי רוצה שאורך הבסיס יהיה גדול פי 5 מרוחבו כמתואר באיור הסמוך. כמות הפח שיש בידי יוסי מוגבלת ולכן הוא רוצה לדעת מה היא הכמות המינימלית של פח שעליו להשתמש בכדי להשיג את מבוקשו.
מצאו את כמות הפח המינימלית.

42) לבניית תיבה שנפחה 144 סמ"ק ואורך בסיסה גדול פי 2 מרוחב בסיסה דרושים שני חומרים להם שני מחירים שונים: החומר לבסיס התחתון יקר פי 3 מהחומר לפאות הצדדיות והבסיס העליון.
מהן מידות התיבה הזולה ביותר שניתן לבנות?

43) מכל הגלילים הישרים שהיקף פרישת המעטפת שלהם הוא k מצא את נפחו של הגליל בעל הנפח המקסימלי.

44) באיור שלפניך מתוארים תיבה שבסיסה ריבוע וגליל החסום בתוך התיבה. רדיוס הגליל יסומן ב- x וגובהו ב- h.
ידוע כי הסכום של x ו- h הוא 12 ס"מ.

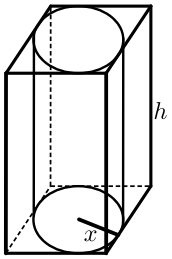

א. הבע באמצעות x את אורך מקצוע הבסיס של התיבה.

ב. ענה על הסעיפים הבאים:

i. הבע באמצעות x את נפח הגליל.

ii. הבע באמצעות x את נפח התיבה.

ג. מצא את x עבורו הנפח הכלוא בין התיבה לגליל יהיה מקסימלי.

45) נתונה פירמידה מרובעת, משוכללת וישרה.
אורך מקצוע צדדי בפירמידה הוא k ושטח המעטפת שלה הוא S.
הוכח: $S < 2k^2$.

תשובות סופיות:

37) $4\cdot4\cdot4$ ס"מ.

38) 5 ס"מ.

39) בסיס: 6 ס"מ, 12 ס"מ. גובה: 3 ס"מ.

40) א. $h = 63 - 4x$ ב. $p = -14x^2 + 252x$ ג. $x = 9$.

41) 3 ס"מ, 15 ס"מ ו-5 ס"מ.

42) $8\cdot6\cdot3$ ס"מ.

43) $\frac{k^3}{216\pi}$ יחידות נפח $= V$.

44) א. $2x$ ב. i. $V = 12\pi x^2 - \pi x^3$ ii. $V = 48x^2 - 4x^3$
ג. $x = 8$.

45) הוכחה.

בעיות קיצון עם תשובה נתונה:

שאלות:

בעיות קיצון בהנדסת המרחב:

1) נתונים שני מספרים חיוביים p ו- q שסכומם a.

הראה שכאשר מתקיים $\frac{p}{q}=\frac{n}{m}$ ערך הביטוי $p^n q^m$ (n ו- m טבעיים) מקסימלי.

2) הוכח שמכל החרוטים הישרים שנפחם πk סמ"ק, החרוט בעל שטח המעטפת המינימלי הוא זה שגובהו $\sqrt[3]{6k}$ ס"מ.
(שטח מעטפת של חרוט הוא πRl , כאשר l הוא הקו היוצר של החרוט).

בעיית קיצון עם תנועה:

3) מהירותו של רכב היא v קמ"ש ועליו לנסוע דרך של S ק"מ.

לרכב יש הוצאות נסיעה של $\frac{v}{400}$ ₪ לכל ק"מ נסיעה ו- $\frac{v^2}{200}+48$ ₪ לכל שעת נסיעה.
הראה שכדי שהוצאותיו יהיו מינימליות על הרכב לנסוע במהירות של 80 קמ"ש.

תשובות סופיות:

1) הוכחה.
2) הוכחה.
3) הוכחה.

בעיות קיצון שונות בהנדסת המישור:

שאלות:

1) בטרפז שווה-שוקיים ABCD (AB||CD) אורך השוק הוא 4 ס"מ ואורך הבסיס הקטן הוא 6 ס"מ.
DE הוא הגובה מקדקוד D (ראה ציור).
מה צריך להיות אורך הקטע AE כדי ששטח הטרפז יהיה מקסימלי?

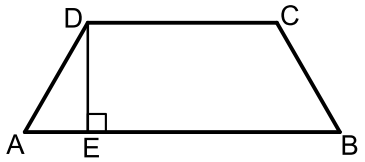

2) נתון מלבן ABCD .
נסמן ב- x את אחת מצלעות המלבן (ראה ציור).
אם היקף המלבן הוא 60 ס"מ:

א. בטא באמצעות x את שטח המלבן.

ב. אם היקף המלבן הוא p מצא מה צריכות להיות אורכי צלעות המלבן כדי ששטחו יהיה מקסימלי.
(הבע את אורכי הצלעות באמצעות p).

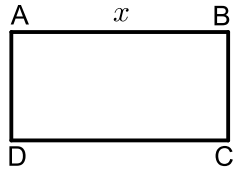

3) נתון מלבן ABCD כך ש- 5 ס"מ $AD = BC =$, 10 ס"מ $= AB = CD$. על צלעות המלבן מקצים קטעים: $AP = AQ = CS = CR = x$ (ראה ציור).
מה צריך להיות ערכו של x כדי ששטח המקבילית PQRS יהיה מקסימלי?

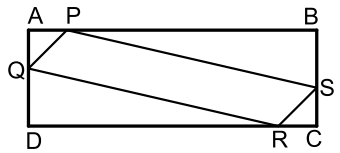

4) במשולש ישר זווית ΔABC $(\sphericalangle C = 90°)$ סכום אורכי הניצבים הוא 8 ס"מ. על היתר AB בונים ריבוע ABDE.
מה צריכים להיות אורכי הניצבים כדי ששטח המחומש AEDBC יהיה מינימלי?

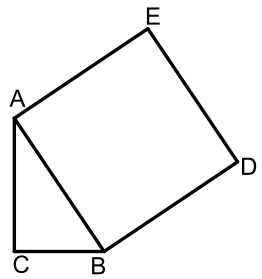

5) בחצי עיגול שרדיוסו 8 ס"מ חוסמים מלבן ABCD , כך שהצלע AB של המלבן מונחת על הקוטר,
והקדקודים C ו-D מונחים על הקשת (ראה ציור).
מה צריך להיות אורך הצלע AB כדי ששטח המלבן יהיה מקסימלי?

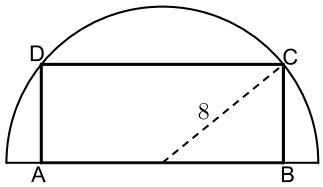

6) במשולש ישר-זווית ΔABC $(\sphericalangle B = 90°)$,
סכום אורכי הניצבים הוא 30 ס"מ.
AD הוא תיכון לניצב BC.
חשב מה צריכים להיות אורכי הניצבים,
על מנת שריבוע אורך התיכון יהיה מינימלי.

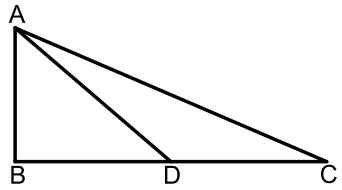

7) בחוברת פרסום, שטח כל עמוד הוא 600 סמ"ר.
רוחב השוליים בראש העמוד ובתחתיתו הוא 8 ס"מ,
ורוחב השוליים בצדדים הוא 3 ס"מ.
מצא מה צריך להיות האורך והרוחב של כל עמוד כדי שהשטח
המיועד לדפוס יהיה מקסימלי (השטח המסומן בציור).

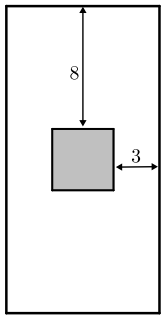

8) בריבוע ABCD הנקודות E , F , G נמצאות על
הצלעות AB , BC , DC בהתאמה, כך
ש- BE = BF , CF = CG (ראה ציור).
נתון כי האורך של צלע הריבוע הוא 6 ס"מ.

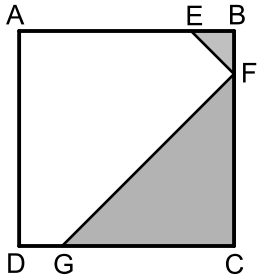

א. סמן ב- x את BF ואת BE , והבע באמצעות x
את הסכום של שטחי המשולשים EBF ו- FCG
(השטח המסומן בציור)

ב. ענה על הסעיפים הבאים:

i. מצא את x שעבורו סכום שטחי המשולשים הוא מינימלי.

ii. חשב את הסכום המינימלי של שטחי המשולשים.

9) נתון ריבוע ABCD שאורך צלעו 10 ס"מ.
E היא נקודה כלשהי מחוץ לריבוע, כך שהמשולש DEC הוא
שווה שוקיים (ED = EC).
שוקי המשולש חותכות את הצלע AB בנקודות M ו- N (ראה ציור).
מצא מה צריך להיות אורך הקטע AM כדי שהסכום של
שטחי המשולשים EMN , AMD , BNC יהיה מינימלי.

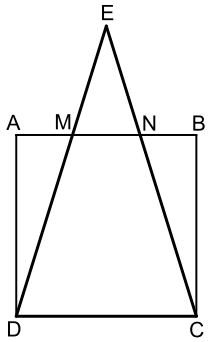

10) נתון מעגל שרדיוסו R. במעגל זה חסום טרפז שו"ש,
כך שהבסיס הגדול של הטרפז הוא קוטר במעגל (ראה ציור).
מבין כל הטרפזים החסומים באופן זה,
הבע באמצעות R את אורך הבסיס הקטן בטרפז
ששטחו מקסימלי.

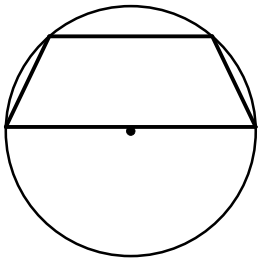

11) נתונה גזרה של רבע עיגול שמרכזו O ורדיוסו 10 ס״מ.
בונים מלבן ABCD, כך שרבע המעגל משיק לצלע DC
בנקודת האמצע שלה, והקדקודים A ו-B נמצאים על
הרדיוסים התוחמים את הגזרה (ראה ציור).
מבין כל האלכסונים של המלבנים ABCD שנוצרים באופן
זה, מצא את אורך האלכסון הקצר ביותר.

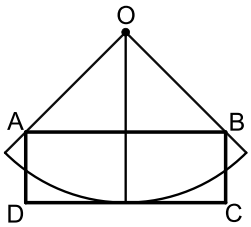

12) ABCDE הוא מחומש המורכב ממשולש ABE
וממלבן EBCD (ראה ציור).
נתון: 2 ס״מ = BC, 4 ס״מ = AE =AB.
מצא את השטח של המחומש ששטחו מקסימלי.

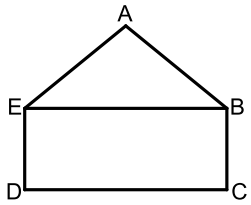

13) מתבוננים בכל המשולשים ישרי הזווית ABC
החוסמים חצי מעגל שרדיוסו R כמתואר בציור.
מהן זוויות המשולש שסכום הניצבים שלו הוא מינימלי?

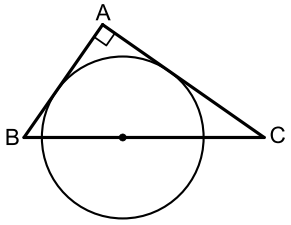

14) במעגל שרדיוסו R חסומים משולשים כך שהגודל
של הזווית בכל אחד מהמשולשים הוא $\frac{2\pi}{5}$.
מצא את הזוויות במשולש בעל ההיקף המקסימלי.

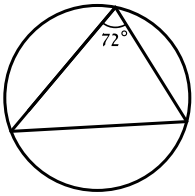

תשובות סופיות:

1) $AE =$ 1.7 ס"מ.

2) א. $x(30-x)$ ב. כל צלע שווה ל- $0.25p$.

3) $x =$ 3.75 ס"מ.

4) $AC = BC = 4$.

5) $AB = 2\sqrt{32}$.

6) $BC =$ 24 ס"מ, $AB =$ 6 ס"מ.

7) אורך: 40 ס"מ, רוחב: 15 ס"מ.

8) א. $S = x^2 - 6x + 18$ ב.i. $x = 3$ ב. ii. 9 סמ"ר.

9) $AM = \frac{5}{\sqrt{2}}$.

10) בסיס קטן $= R$.

11) $4\sqrt{5}$ ס"מ.

12) $12\sqrt{3}$ סמ"ר.

13) $90°$, $45°$, $45°$.

14) $\frac{2}{5}\pi$, $\frac{3}{10}\pi$, $\frac{3}{10}\pi$.

בעיות קיצון שונות בהנדסת המרחב:

שאלות:

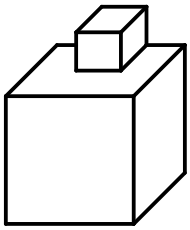

15) גובהו של "מגדל" הבנוי משתי קוביות (לאו דווקא שוות) הוא 8 ס"מ.
מה צריך להיות אורך המקצוע של הקובייה התחתונה כדי שנפח המגדל (סכום נפחי הקוביות) יהיה מינימלי?

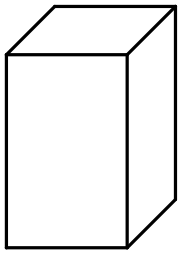

16) בונים תיבה שגובהה y ס"מ, ובסיסה ריבוע, שאורך צלעו x ס"מ (ראה ציור), כך שההיקף של כל אחת מהדפנות הצדדיות שווה ל-12 ס"מ.
מה צריך להיות אורך צלע הבסיס כדי שנפח התיבה יהיה מקסימלי?

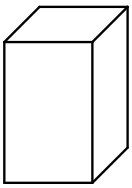

17) יש לבנות תיבה פתוחה מלמעלה, שבסיסה ריבוע ושטח פניה הוא 75 סמ"ר (במקרה זה שטח הפנים מורכב מבסיס אחד ומארבע פאות צדדיות). מכל התיבות שאפשר לבנות, מצא את ממדי התיבה (צלע הבסיס וגובה) שנפחה מקסימלי.

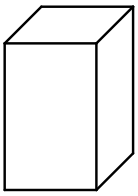

18) יש להכין מחוט תיל "שלד" (מסגרת) של תיבה, שבסיסה ריבוע ונפחה 1000 סמ"ק.
מהו האורך המינימלי של החוט הנחוץ ליצירת התיבה?

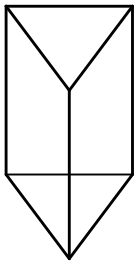

19) מחוט שאורכו a ס"מ יש לבנות מנסרה משולשת ישרה, שבסיסה הוא משולש שווה צלעות. מצא איזה חלק מאורך החוט יש להקצות לצלע הבסיס x ואיזה חלק לגובה y כדי שיתקיים (בטא ע"י a):

א. שטח המעטפת של המנסרה יהיה מקסימלי.

ב. נפח המנסרה יהיה מקסימלי.

20) מכל הפירמידות המרובעות, המשוכללות והישרות, שאורך המקצוע הצדדי שלהן הוא a, מצא את נפחה של הפירמידה בעלת הנפח המקסימלי.

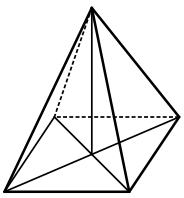

21) מכל הפירמידות הישרות, שבסיסן ריבוע ושטח הפנים שלהן הוא 200 סמ"ר, חשב את נפחה של הפירמידה בעלת הנפח המקסימלי.

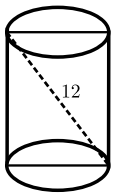

22) אלכסון החתך הצירי של גליל ישר הוא 12 ס"מ (ראה ציור).
מצא מה צריכים להיות גובה הגליל ורדיוס בסיסו כדי שנפחו יהיה מקסימלי.

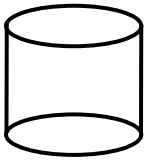

23) נתון מיכל גלילי פתוח מלמעלה שקיבולו 64 מ"ק.
המיכל עשוי כולו מפח.
הראה כי שטח הפח הוא מינימלי כאשר רדיוס הבסיס הוא $\frac{4}{\sqrt[3]{\pi}}$ מטר.

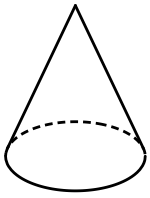

24) מבין כל החרוטים שאורך הקו היוצר שלהם הוא 10 ס"מ (ראה ציור), מהו נפח החרוט שנפחו מקסימלי?

תשובות סופיות:

15) 4 ס"מ.
16) 4 ס"מ.
17) צלע הבסיס: 5 ס"מ, גובה: 2.5 ס"מ.
18) 120 ס"מ.
19) א. $x=\frac{1}{12}a$, $y=\frac{1}{6}a$ ב. $x=y=\frac{1}{9}a$.
20) $\frac{4\sqrt{3}}{27}a^3$.
21) $\frac{500}{3}$ סמ"ק.
22) גובה: $\sqrt{48}$ ס"מ. רדיוס: $\sqrt{24}$ ס"מ.
23) הוכחה.
24) 403.1 סמ"ק.

בעיות קיצון שונות בפונקציות וגרפים:

שאלות:

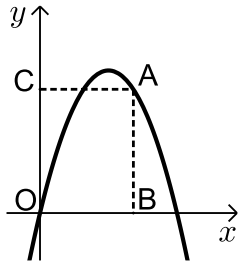

25) מנקודה A , הנמצאת על גרף הפונקציה $y=-x^2+5x$,
מורידים אנכים לצירים כך שנוצר מלבן ABOC (ראה ציור).

א. מה צריכים להיות שיעורי הנקודה A כדי שהיקף המלבן יהיה מקסימלי?

ב. מה צריכים להיות שיעורי הנקודה A כדי שהיקף המלבן יהיה מינימלי?

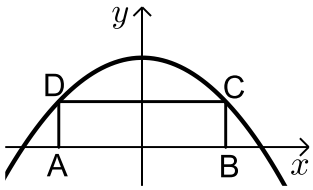

26) בפרבולה $y=9-x^2$ חוסמים מלבן ABCD ,
כך שהצלע AB מונחת על ציר ה- x (ראה ציור).
מה צריך להיות אורך הצלע CD כדי ששטח המלבן יהיה מקסימלי?

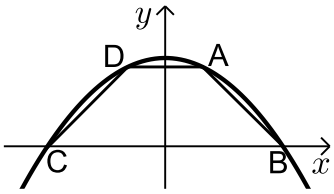

27) טרפז ABCD חסום בין גרף הפרבולה $y=9-x^2$ לבין ציר ה- x (ראה ציור).

א. מה צריכים להיות שיעורי הנקודה A כדי ששטח הטרפז ABCD יהיה מקסימלי?

ב. חשב את השטח המקסימלי של טרפז ABCD.

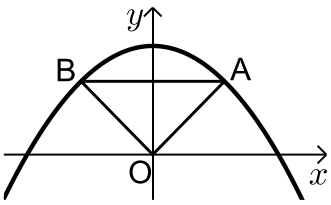

28) נתונה הפרבולה $y=-x^2+12$.
ישר המקביל לציר ה- x חותך את הפרבולה בנקודות A ו- B (ראה ציור).
מחברים את הנקודות A ו- B עם ראשית הצירים, O.

א. מה צריך להיות אורך הקטע AB כדי ששטח המשולש AOB יהיה מקסימלי?

ב. מהו השטח המקסימלי של המשולש AOB ?

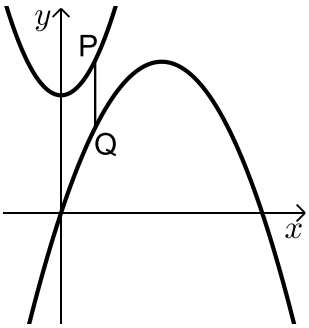

29) נתונים הגרפים של שתי פרבולות: $y=\frac{1}{2}x^2+7$ ו- $y=-\frac{1}{4}x^2+3x$.
קו מקביל לציר ה- y חותך את שתי הפרבולות בנקודות P ו- Q (ראה ציור). מבין כל הקטעים המתקבלים באופן זה, מצא את האורך המינימלי של הקטע PQ.

30) נתון גרף הפונקציה $y=\sqrt{x}$.
על ציר ה-x נתונה הנקודה $A(4.5,0)$ (ראה ציור).
מצא על גרף הפונקציה נקודה M, כך שריבוע המרחק AM יהיה מינימלי.

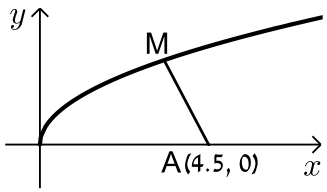

31) מצא על הישר $y=3x-4$ את הנקודה הקרובה ביותר לנקודה $(0,1)$.

32) בציור שלפניך מתוארים הגרפים של
הפונקציות: $f(x)=\sqrt{3x}$, $g(x)=\sqrt{36-6x}$.
מלבן חסום בין הגרפים של הפונקציות ובין ציר ה-x , כמתואר בציור.
מצא את השטח הגדול ביותר האפשרי למלבן שחסום באופן זה.

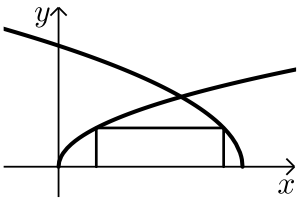

33) דרך איזו נקודה על הפרבולה $y=-x^2+2x$ צריך להעביר משיק, כדי ששטח הטרפז, הנוצר על ידי המשיק והישרים: $x=1$, $x=0$ ו-$y=0$
(השטח המסומן שבציור) יהיה מינימלי?

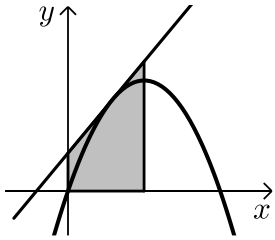

34) נקודה B נמצאת על גרף הפונקציה $y=x^2$ ברביע הראשון.
A היא הנקודה $(0,a)$ כאשר ידוע כי $a>0.5$ (ראה ציור).

א. בטא באמצעות a את שיעורי הנקודה B, שעבורה המרחק AB הוא מינימלי.

ב. מצא עבור איזה ערך של a המרחק המינימלי הוא 2.

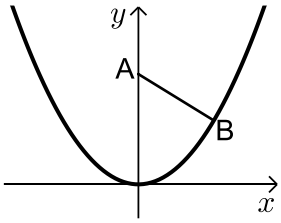

35) נתונה הפרבולה $y=x^2$, ונתון משיק לפרבולה שמשוואתו היא $y=6x-9$. בנקודה (t,t^2) שעל הפרבולה מעבירים משיק נוסף לפרבולה.
המשיקים נחתכים בנקודה M (ראה ציור).

א. הבע את משוואת המשיק הנוסף באמצעות t.

ב. מצא את t שעבורו אורך הקטע, המחבר את הנקודה M עם קדקוד הפרבולה יהיה מינימלי.

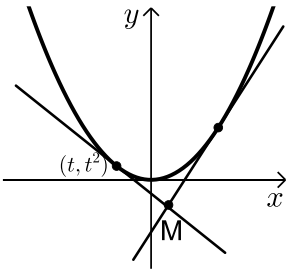

36) במערכת צירים נתונות הנקודות $A(2,2)$ ו-$B(2,-2)$.
ראשית הצירים היא בנקודה O. M היא נקודה על ציר ה-x בתחום $x>0$.
מה צריכים להיות שיעורי הנקודה M,
כדי שהסכום: OM + MA + MB יהיה מינימלי?

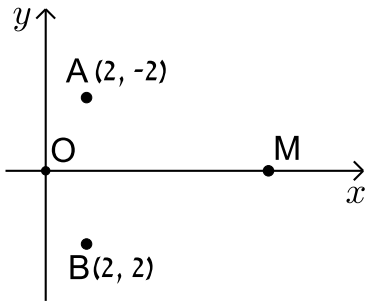

תשובות סופיות:

25) א. $A(3,6)$ ב. $A(0,0)$ או $A(5,0)$.

26) $CD=2\sqrt{3}$.

27) א. $A(1,8)$ ב. 32.

28) א. $AB=4$ ב. $S_{\Delta AOB}=16$.

29) $PQ=4$.

30) $M(4,2)$.

31) $(1.5,0.5)$.

32) 8.

33) $(0.5,0.75)$.

34) א. $B\left(\sqrt{\frac{2a-1}{2}},\frac{2a-1}{2}\right)$ ב. 4.25.

35) א. $y=2xt-t^2$ ב. $t=-\frac{3}{37}$.

36) $M(0.845,0)$.

מכינה במתמטיקה לתלמידי כלכלה

פרק 21 - חשבון דיפרנציאלי - פונקציות מעריכיות

תוכן העניינים

1. הנגזרת של פונקציה מעריכית 284
2. שימושי הנגזרת 288
3. חקירה של פונקציה מעריכית 289

הנגזרת של פונקציה מעריכית:

סיכום כללי:

הגדרות כלליות:

להלן תיאורים גרפיים של פונקציה מעריכית כללית מהצורה: $f(x)=a^x$

עבור: $a>1$ ו-$0<a<1$:

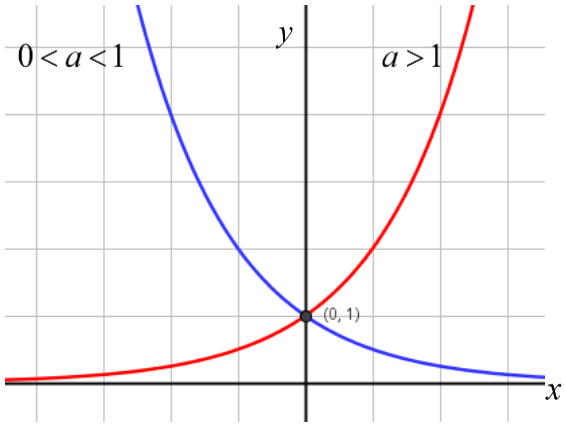

תכונות כלליות:

1. הפונקציות מוגדרות לכל x.
2. הפונקציות תמיד חיוביות.
3. הפונקציות תמיד חותכות את ציר ה- y בנקודה: $(0,1)$.
4. עבור: $a>1$ הפונקציה עולה בכל ת.ה. ועבור: $0<a<1$ הפונקציה יורדת בכל ת.ה.

עבור הפונקציות $f(x)=e^x$ ו- $f(x)=e^{-x}$ נקבל:

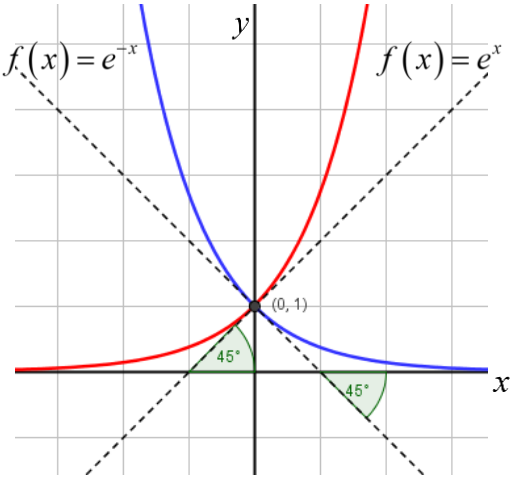

תכונות נוספות:

1. שיפוע המשיק לגרף הפונקציה $f(x)=e^x$ בנקודת החיתוך עם ציר ה- y הוא 1.
2. שיפוע המשיק לגרף הפונקציה $f(x)=e^{-x}$ בנקודת החיתוך עם ציר ה- y הוא 1-.

נגזרות של פונקציות מעריכיות:

הפונקציה	הנגזרת
$y=a^x$	$y'=a^x\cdot\ln a$
$y=a^{f(x)}$	$y'=a^{f(x)}\cdot f'(x)\cdot\ln a$
$y=e^x$	$y'=e^x$
$y=e^{f(x)}$	$y'=e^{f(x)}\cdot f'(x)$

תזכורת - כללי הגזירה:

מספר כלל	הפונקציה	תיאור	הנגזרת
.1	$y=a\cdot f(x)$	מכפלה בקבוע	$y'=a\cdot f'(x)$
.2	$y=f(x)+g(x)$	סכום פונקציות	$y'=f'(x)+g'(x)$
.3	$y=f(x)\cdot g(x)$	מכפלת פונקציות	$y'=f'(x)\cdot g(x)+f(x)\cdot g'(x)$
.4	$y=\frac{f(x)}{g(x)}$	מנת פונקציות	$y'=\frac{f'(x)\cdot g(x)-f(x)\cdot g'(x)}{(g(x))^2}$
.5	$y=f(g(x))$	פונקציה מורכבת	$y'=f'(g(x))\cdot g'(x)$

שאלות:

1) גזור את הפונקציות הבאות (סכום פונקציות):

א. $f(x)=3e^{x}+e^{2x}+e^{-x}+2x+1$

ב. $f(x)=e^{x^2-3x}+ex$

ג. $f(x)=2^{3x}$

ד. $f(x)=3^{x^2}+4^{-x}$

2) גזור את הפונקציות הבאות (מכפלת פונקציות):

א. $f(x)=x\cdot e^{x}$

ב. $f(x)=x^2\cdot e^{4x}$

ג. $f(x)=(x+1)\cdot 2^{x}$

3) גזור את הפונקציות הבאות (מנת פונקציות):

א. $f(x)=\frac{x^2}{e^{x}}$

ב. $f(x)=\frac{e^{x}}{e^{x}+1}$

4) גזור את הפונקציות הבאות (פונקציה מורכבת):

א. $f(x)=5\left(e^{2x}-1\right)^3$

ב. $f(x)=\sqrt{e^{2x}+e^{-2x}}$

ג. $f(x)=\frac{e^{3x}}{\sqrt{e^{x}+1}}$

5) גזור את הפונקציות הבאות (שאלות שונות):

א. $f(x)=e^{2x}$

ב. $f(x)=e^{x}+1$

ג. $f(x)=e^{\frac{1}{x}}$

ד. $f(x)=\left(x^2+1\right)e^{x}$

ה. $f(x)=e^{-x}\left(x^2+4x+1\right)$

ו. $f(x)=e^{3x-2}$

ז. $f(x)=e^{x}\cdot\frac{1}{x}$

ח. $f(x)=x^3e^{2x}$

ט. $f(x)=e^{-2x}(x+4)$

י. $f(x)=e^{2x+1}(1-x)$

יא. $f(x)=\frac{1}{e^{\frac{1}{x}}}$

יב. $f(x)=\frac{x^3}{e^{3x}}$

יג. $f(x)=\frac{2+x^2}{e^{x^2}}$

יד. $f(x)=\frac{e^{x}-e^{-x}}{e^{-x}+e^{x}}$

טו. $f(x)=\frac{x^2+1}{e^{-x}}$

טז. $f(x)=\frac{e^{x}}{1-e^{x+1}}$

תשובות סופיות:

1) א. $3e^{x}+2e^{2x}-e^{-x}+2$ ב. $(2x-3)e^{x^2-3x}+e$ ג. $3\ln 2\cdot 2^{3x}$ ד. $2x\ln 3\cdot 3^{x^2}-\ln 4\cdot 4^{-x}$

2) א. $(1+x)e^{x}$ ב. $2xe^{4x}(1+2x)$ ג. $2^{x}(1+x\ln 2+\ln 2)$

3) א. $\frac{x(2-x)}{e^{x}}$ ב. $\frac{e^{x}}{(e^{x}+1)^{2}}$

4) א. $30e^{2x}(e^{2x}-1)^{2}$ ב. $\frac{e^{2x}-e^{-2x}}{\sqrt{e^{2x}+e^{-2x}}}$ ג. $\frac{5e^{4x}+6e^{3x}}{2\sqrt{(e^{x}+1)^{3}}}$

5) א. $2e^{2x}$ ב. e^{x} ג. $-\frac{e^{1/x}}{x^{2}}$ ד. $(x+1)^{2}e^{x}$

ה. $e^{-x}(-x^{2}-2x+3)$ ו. $3e^{3x-2}$

ז. $\frac{e^{x}(x-1)}{x^{2}}$ ח. $x^{2}e^{2x}(3+2x)$ ט. $-e^{-2x}(2x+7)$

י. $e^{2x+1}(1-2x)$

יא. $\frac{e^{-1/x}}{x^{2}}$ יב. $\frac{3x^{2}(1-x)}{e^{3x}}$ יג. $\frac{-2x(x^{2}+1)}{e^{x^2}}$

יד. $\frac{4}{(e^{x}+e^{-x})^{2}}$ טו. $\frac{(x+1)^{2}}{e^{-x}}$ טז. $\frac{e^{x}}{(1-e^{x+1})^{2}}$

שימושי הנגזרת:

שאלות:

6) מצא את משוואת המשיק לפונקציה $f(x)=e^x$ בנקודה $A(1,e)$.

7) מצא את משוואת המשיק לפונקציה $f(x)=e^{2x}+xe^{-x}$ בנקודה שבה $x=0$.

8) מצא את משוואות המשיקים לפונקציה $f(x)=(e+1)e^x-e^{2x}$ בנקודות החיתוך של הפונקציה עם הישר $y=e$.

9) נתונה הפונקציה: $y=e^{2x}+3ex$.
לפונקציה העבירו משיק דרך הנקודה שבה: $x=2$.
מצא את משוואת המשיק.

10) שיפוע המשיק לפונקציה $f(x)=a\cdot 3^{2x-1}+3^{x-b}$ בנקודה $(1,15)$ הוא $21\ln 3$.
מצא את ערכי הפרמטרים a ו- b.

תשובות סופיות:

6) $y=ex$

7) $y=3x+1$

8) $y=(e-1)x+e$, $y=(-e^2+e)x+e^2$

9) $y=2e^4x+3ex-3e^4$

10) $a=2$, $b=-1$

חקירה של פונקציה מעריכית:

שאלות:

11) מצא את תחום ההגדרה של הפונקציות הבאות:

א. $f(x)=\frac{2x-1}{e^x}$ ב. $f(x)=\frac{3}{e^x-1}$ ג. $f(x)=\frac{x+1}{e^x-5}$

ד. $f(x)=\frac{1}{e^{2x}-3e^x+2}$ ה. $f(x)=\frac{e^x-e^{-x}}{e^x+e^x}$ ו. $f(x)=\frac{\sqrt{e^x-1}}{5x-2}$

ז. $f(x)=\sqrt{e^{2x}-4e^x+3}$

12) מצא את נקודות הקיצון של הפונקציה הבאה: $f(x)=x^2e^x$.

13) מצא את נקודת הקיצון של הפונקציה הבאה: $f(x)=\frac{e^x}{x-2}$.

14) נתונה הפונקציה: $f(x)=\frac{ax^2+bx+9}{e^x}$.
הפונקציה משיקה לציר ה-x בנקודה שבה $x=1.5$.
מצא את ערכי הפרמטרים a ו-b ואת נקודות הקיצון של הפונקציה.

15) נתונה הפונקציה: $f(x)=8^x+p\cdot 2^x+q$. לפונקציה יש נקודת קיצון בנקודה $(\log_2 3,-19)$. מצא את ערכי הפרמטרים p ו-q .

16) מצא את האסימפטוטות של הפונקציה הבאה: $f(x)=e^{2x}+e^x$.

17) מצא את האסימפטוטות של הפונקציה הבאה: $f(x)=\frac{e^x+e^{-x}}{e^{2x}}$.

18) מצא את האסימפטוטות של הפונקציה הבאה: $f(x)=\frac{e^x+5}{e^x-1}$.

19) מצא את האסימפטוטות של הפונקציה הבאה: $f(x)=\frac{e^{2x}+1}{e^{x}-5}$.

20) מצא את האסימפטוטות של הפונקציה הבאה: $f(x)=\frac{e^{x}-e^{-x}}{e^{x}+e^{-x}}$.

21) מצא את האסימפטוטות של הפונקציה הבאה: $f(x)=\frac{e^{x}-2}{e^{2x}-5e^{x}+6}$.

22) מצא את האסימפטוטות של הפונקציה הבאה: $f(x)=\frac{e^{x}}{x^{2}}$.

23) מצא את האסימפטוטות של הפונקציה הבאה: $f(x)=\frac{x^{3}-1}{e^{x}}$.

24) מצא את האסימפטוטות של הפונקציה הבאה: $f(x)=\frac{x-1}{e^{3x}-e}$.

25) מצא את האסימפטוטות של הפונקציה הבאה: $f(x)=(x-3)e^{x}$.

26) מצא את האסימפטוטות של הפונקציה הבאה: $f(x)=xe^{\frac{1}{x}}$.

27) נתונה הפונקציה: $f(x)=\frac{x^{2}+a}{be^{x}}$. לפונקציה יש נקודת פיתול בנקודה $\left(1,\frac{2}{e}\right)$.
מצא את ערכי הפרמטרים a ו- b ואת נקודת הפיתול השנייה של הפונקציה.

28) חקור את הפונקציות הבאות עפ"י הסעיפים הבאים:

1. מציאת תחום ההגדרה של הפונקציה.
2. מציאת נקודות החיתוך של גרף הפונקציה עם הצירים.
3. מציאת נקודות הקיצון של הפונקציה וקביעת סוגן.
4. כתיבת תחומי העלייה והירידה של הפונקציה.

א. $f(x)=(x-1)e^x$

ב. $f(x)=(x^2+1)e^x$

ג. $f(x)=x^2e^{-\frac{1}{4}x^2}$

ד. $f(x)=e^{x^2-x}$

ה. $f(x)=\frac{2}{e^{x^2}+1}$

ו. $f(x)=\frac{e^{2x}+1}{e^{x+1}}$

29) נתונה הפונקציה $f(x)=(x-3)e^x$. חקור על פי הסעיפים הבאים:

א. מציאת תחום ההגדרה של הפונקציה.
ב. מציאת נקודות הקיצון של הפונקציה.
ג. תחומי עלייה וירידה של הפונקציה.
ד. נקודות חיתוך של גרף הפונקציה עם הצירים.
ה. סרטוט סקיצה של גרף הפונקציה.

30) נתונה הפונקציה $f(x)=e^{2x}-8e^x+6x+10$. חקור על פי הסעיפים הבאים:

א. מציאת תחום ההגדרה של הפונקציה.
ב. מציאת נקודות הקיצון של הפונקציה.
ג. תחומי עלייה וירידה של הפונקציה.
ד. מציאת נקודת החיתוך של גרף הפונקציה עם ציר ה- y.
ה. סרטוט סקיצה של גרף הפונקציה.

31) נתונה הפונקציה $f(x)=\frac{4x}{e^{0.5x^2}}$. חקור על פי הסעיפים הבאים:

א. מציאת תחום ההגדרה של הפונקציה.
ב. מציאת נקודות הקיצון של הפונקציה.
ג. תחומי עלייה וירידה של הפונקציה.
ד. נקודות חיתוך של גרף הפונקציה עם הצירים.
ה. סרטוט סקיצה של גרף הפונקציה.

32) נתונה הפונקציה $f(x)=\frac{x^3}{e^x}$. חקור על פי הסעיפים הבאים:

א. מציאת תחום ההגדרה של הפונקציה.
ב. מציאת נקודות הקיצון של הפונקציה.
ג. תחומי עלייה וירידה של הפונקציה.
ד. נקודות חיתוך של גרף הפונקציה עם הצירים.
ה. סרטוט סקיצה של גרף הפונקציה.

33) נתונה הפונקציה $f(x)=2x\cdot 3^x$. חקור את הפונקציה על פי הסעיפים הבאים:

א. מציאת תחום ההגדרה של הפונקציה.
ב. מציאת נקודות הקיצון של הפונקציה.
ג. תחומי עלייה וירידה של הפונקציה.
ד. נקודות חיתוך של גרף הפונקציה עם הצירים.
ה. סרטוט סקיצה של גרף הפונקציה.

34) נתונה הפונקציה $f(x)=2e^{\frac{x}{x^2+1}}$. חקור את הפונקציה על פי הסעיפים הבאים:

א. מציאת תחום ההגדרה של הפונקציה.
ב. מציאת נקודות הקיצון של הפונקציה.
ג. תחומי עלייה וירידה של הפונקציה.
ד. נקודות חיתוך של גרף הפונקציה עם הצירים.
ה. מציאת אסימפטוטות המקבילות לצירים.
ו. סרטוט סקיצה של גרף הפונקציה.
ז. לאלו ערכי m יש למשוואה $f(x)=m$ בדיוק פתרון אחד?

35) נתונה הפונקציה $f(x)=x^2e^{\frac{1}{x}}$. חקור את הפונקציה על פי הסעיפים הבאים:

א. מציאת תחום ההגדרה של הפונקציה.
ב. מציאת נקודות הקיצון של הפונקציה.
ג. תחומי עלייה וירידה של הפונקציה.
ד. נקודות חיתוך של גרף הפונקציה עם הצירים.
ה. מציאת אסימפטוטות המקבילות לצירים.
ו. מציאת נקודות פיתול של הפונקציה.
ז. כתיבת תחומי הקעירות כלפי מעלה ומטה.

ח. סרטוט סקיצה של גרף הפונקציה.

36) נתונה הפונקציה: $f(x)=\frac{e^{3x}}{12x^2+1}$.

א. מצא את תחום ההגדרה של הפונקציה.

ב. מצא את נקודות הקיצון של הפונקציה וקבע את סוגן.

ג. כתוב את תחומי עלייה וירידה של הפונקציה.

ד. מצא את נקודות חיתוך של גרף הפונקציה עם הצירים.

ה. סרטט סקיצה של גרף הפונקציה.

37) שיפוע המשיק לגרף הפונקציה: $f(x)=\frac{1}{e^{3x^2+6x+k}}$ בנקודה שבה $x=1$ הוא $-\frac{12}{e^{10}}$.

א. מצא את ערך הפרמטר k וכתוב את הפונקציה.

ב. מצא את נקודת הקיצון של הפונקציה.

ג. סרטט סקיצה של גרף הפונקציה.

ד. הוכח על סמך הסקיצה את אי-השוויון הבא: $0<\frac{1}{e^{3x^2+6x+1}}\le e^2$.

38) נתונה הפונקציה הבאה: $f(x)=e^{2x}+ae^x+b$. גוזרים את הפונקציה פעמיים

וידוע כי כאשר $x=\ln\frac{2}{3}$ הנגזרות מקיימות: $f'(x)+f''(x)=8$.

א. מצא את a.

משוואת המשיק לגרף הפונקציה בנקודה מסוימת היא: $y=16x+7-16\ln 2$.

ב. מצא את שיעור ה-x של נקודת ההשקה.

ג. מצא את b.

ד. מצא את נקודת החיתוך של הפונקציה עם ציר ה-x.

39) נתונות הפונקציות הבאות: $f(x)=6x-e^x$ ו- $g(x)=ae^x-e^{2x}+b$.

ידוע כי לשתי הפונקציות נקודת קיצון שבה אותו שיעור x וכי שתיהן נפגשות על ציר ה-y.

א. מצא את ערכי הפרמטרים a ו-b.

ב. הראה כי לשתי הפונקציות תחומי עלייה וירידה משותפים.

40) לגרף הפונקציה: $f(x)=ax^2\cdot e^{-bx^2}$ יש נקודת קיצון: $\left(2,\frac{4}{e}\right)$, $a,b\neq 0$.

א. מצא את ערכי הפרמטרים a ו- b וכתוב את הפונקציה.

ב. מצא את נקודות הקיצון הנוספות של הפונקציה וקבע את סוגן.

ג. מצא את נקודות החיתוך של הפונקציה עם הצירים.

ד. סרטט סקיצה של גרף הפונקציה.

ה. מעבירים ישר: $y=k$. באיזה תחום ערכים צריך להימצא k כדי שהישר יחתוך את גרף הפונקציה ב-4 נקודות שונות?

41) לפונקציה: $f(x)=\frac{x^2-6x-7}{e^{ax-1}}$ יש קיצון בנקודה שבה: $x=1$.

א. מצא את ערך הפרמטר a .

ב. האם יש לגרף הפונקציה נקודות קיצון נוספות? אם כן מצא אותן.

ג. כתוב את תחומי העלייה והירידה של הפונקציה.

ד. מצא את נקודות החיתוך של גרף הפונקציה עם הצירים.

ה. סרטט סקיצה של גרף הפונקציה.

42) הישר $x=\sqrt{6}$ הוא אסימפטוטה אנכית של הפונקציה: $f(x)=\frac{e^{2x}}{x^2+m}$.

א. מצא את ערך הפרמטר m וכתוב את הפונקציה.

ב. מצא את נקודות הקיצון של הפונקציה וקבע את סוגן.

ג. מצא את נקודות החיתוך של גרף הפונקציה עם הצירים.

ד. סרטט סקיצה של גרף הפונקציה.

43) נתונה הפונקציה: $f(x)=x^3\cdot e^{2x}$.

א. מצא את הנקודות המקיימות: $f'(x)=0$ וקבע כמה מהן הן נקודות קיצון.

ב. מצא את האסימפטוטות המקבילות לצירים של הפונקציה.

ג. סרטט סקיצה של גרף הפונקציה.

ד. בכמה נקודות חותך הישר $y=-0.01$ את גרף הפונקציה?

44) נתונה הפונקציה הבאה: $f(x)=e^{2x}+ae^{x}+b$. גוזרים את הפונקציה פעמיים

וידוע כי כאשר $x=\ln\frac{2}{3}$ הנגזרות מקיימות: $f'(x)+f''(x)=12$.

א. מצא את a .

משוואת המשיק לגרף הפונקציה בנקודה מסוימת היא: $y=22x+28-22\ln 2$.

ב. מצא את שיעור ה-x של נקודת ההשקה.

ג. מצא את b .

ד. האם הפונקציה חותכת את ציר ה-x ? אם כן מצא את הנקודות.

45) נתונה הפונקציה: $f(x)=x\cdot a^{x}$, $(a>0)$.

לפונקציה יש נקודת קיצון שבה: $x=-\frac{1}{\ln 2}$.

א. מצא את a .

ב. כתוב את תחומי העלייה והירידה של הפונקציה.

הנקודה שבה $x=2$ היא נקודת החיתוך של גרף הפונקציה $f(x)$

עם גרף הפונקציה: $g(x)=x^{2}\cdot 2^{x}-kx\cdot 2^{x}$.

ג. מצא את k .

ד. מצא נקודה נוספת שבה הגרפים נחתכים.

46) נתונה הפונקציה: $f(x)=3^{2x}+2\cdot 3^{1-x}$.

א. מצא את משוואת המשיק לגרף הפונקציה בנקודת החיתוך שלה עם ציר ה-y .

ב. הוכח כי גרף הפונקציה אינו חותך את ציר ה-x .

ג. מצא את נקודת הקיצון של הפונקציה וקבע את סוגה.

תשובות סופיות:

11) א. כל x ב. $x\neq 0$ ג. $x\neq \ln 5$ ד. $x\neq 0$, $x\neq \ln 2$ ה. כל x

ו. $0\le x\neq \frac{2}{5}$ ז. $x\le 0$, $x\ge \ln 3$

12) $\min(0,0)$, $\max\left(-2,\frac{4}{e^2}\right)$

13) $\min\left(3,e^3\right)$

14) $a=4$, $b=-12$, $\max(3.5,0.483)$, $\min(1.5,0)$

15) $q=35$, $p=-27$

16) $y=0$

17) $y=0$

18) $y=1$, $y=-5$, $x=0$

19) $y=-\frac{1}{5}$, $x=\ln 5$

20) $y=1$, $y=-1$

21) $y=0$, $y=-\frac{1}{3}$, $x=\ln 3$, נקודת אי הגדרה: $(\ln 2,-1)$

22) $y=0$, $x=0$

23) $y=0$

24) $y=0$, $x=\frac{1}{3}$

25) $y=0$

26) $x=0$, נקודת אי הגדרה: $(0,0)$

27) $b=1$, $a=1$, $\left(3,\frac{10}{e^3}\right)$

28) א.1. כל x 2. $(0,-1)$, $(1,0)$ 3. $\min(0,-1)$ 4. עולה: $x>0$ יורדת: $x<0$

ב.1. כל x 2. $(0,1)$ 3. $\left(-1,\frac{2}{e}\right)$ פיתול 4. עולה: $x>-1$, $x<-1$

ג.1. כל x 2. $(0,0)$ 3. $\max\left(-2,\frac{4}{e}\right)$, $\min(0,0)$, $\max\left(2,\frac{4}{e}\right)$

4. עולה: $0<x<2$, $x<-2$ יורדת: $-2<x<0$, $x>2$

ד.1. כל x 2. $(0,1)$ 3. $\min\left(0.5,e^{-0.25}\right)$ 4. עולה: $x>0.5$ יורדת: $x<0.5$

ה.1. כל x 2. $(0,1)$ 3. $\max(0,1)$ 4. עולה: $x<0$ יורדת: $x>0$

ו.1. כל x 2. $(0,2e^{-1})$ 3. $\min(0,2e^{-1})$ 4. עולה: $x>0$ יורדת: $x<0$

29) א. כל x ב. $\min(2,-e^2)$ ג. תחומי עלייה: $x>2$ תחומי ירידה: $x<2$

ד. $(0,-3)$, $(3,0)$

30) א. כל x ב. $\min(\ln 3,1.59)$, $\max(0,3)$

ג. תחומי עלייה: $x>\ln 3$ או $x<0$ תחומי ירידה: $0<x<\ln 3$ ד. $(0,3)$

31) א. כל x ב. $\max\left(1,\frac{4}{e^{0.5}}\right)$, $\min\left(-1,-\frac{4}{e^{0.5}}\right)$

ג. תחומי עלייה: $-1<x<1$ תחומי ירידה: $x>1$ או $x<-1$ ד. $(0,0)$

32) א. כל x ב. $\max\left(3,\frac{27}{e^3}\right)$ ג. עולה: $x<3$, יורדת: $x>3$

ד. $(0,0)$

33) א. כל x ב. $\min(-0.91,-0.67)$ ג. עולה: $x>-0.91$ יורדת: $x<-0.91$

ד. $(0,0)$

34) א. כל x ב. $\min\left(-1,\frac{2}{\sqrt{e}}\right)$, $\max(1,2\sqrt{e})$ ג. עולה: $-1<x<1$ יורדת:

$x<-1$, $x>1$ ד. $(0,2)$ ה. $y=2$ ז. $m=\frac{2}{\sqrt{e}}$, $m=2\sqrt{e}$, $m=2$

35) א. $x\neq 0$ ב. $\min\left(\frac{1}{2},\frac{e^2}{4}\right)$ ג. עולה: $x>\frac{1}{2}$, יורדת: $0\neq x<\frac{1}{2}$

ד. אין

36) א. כל x ב. $\min\left(\frac{1}{2},\frac{e^{1.5}}{4}\right)$, $\max\left(\frac{1}{6},\frac{3\sqrt{e}}{4}\right)$ ג. עולה: $x>\frac{1}{2}$, יורדת: $x<\frac{1}{6}$

$\frac{1}{6}<x<\frac{1}{2}$ ד. $(0,1)$

37) א. $k=1$, $f(x)=\frac{1}{e^{3x^2+6x+1}}$ ב. $(-1,e^2)$

ד. ניתן לראות עפ"י הגרף כי ערך הפונקציה $f(x)$ נמצא בתחום $0<f(x)\le e^2$

38) א. $a=4$ ב. $x=\ln 2$ ג. $b=-5$ ד. $(0,0)$

39) א. $a=12$, $b=-12$ ב. עולות: $x<\ln 6$ יורדות: $x>\ln 6$

40) א. $a=1$, $b=0.25$, $f(x)=x^2e^{-\frac{1}{4}x^2}$ ב. $\min(0,0)$, $\max\left(-2,\frac{4}{e}\right)$

ג. $(0,0)$ ה. $0<k<\frac{4}{e}$

41) א. $a=\frac{1}{3}$ ב. כן: $\left(11,\frac{48}{e^{2\frac{2}{3}}}\right)$ ג. עולה: $1<x<11$ יורדת: $x<1$, $x>11$

ד. $(-1,0)$, $(7,0)$, $(0,-7e)$

42) א. $m=-6$, $f(x)=\frac{e^{2x}}{x^2-6}$ ב. $\min\left(3,\frac{e^6}{3}\right)$, $\max\left(-2,-\frac{1}{2e^4}\right)$ ג. $\left(0,-\frac{1}{6}\right)$

43) א. $x=0,-1.5$. נקודת הקיצון היא: $\min\left(-1.5,-3\frac{3}{8}e^{-3}\right)$ ב. $y=0$

ד. 2 נקודות.

44) א. $a=7$ ב. $x=\ln 2$ ג. $b=10$ ד. לא.

45) א. $a=2$ ב. עולה: $x>-\frac{1}{\ln 2}$ יורדת: $x<-\frac{1}{\ln 2}$ ג. $k=1$

ד. $(0,0)$

46) א. $y=-x\ln 81+7$ ג. $\min\left(\frac{1}{3},\sqrt[3]{243}\right)$

סקיצות לשאלות החקירה:

29)

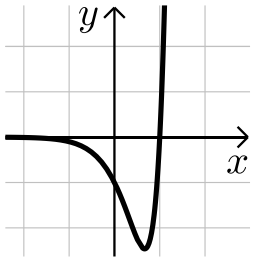

30)

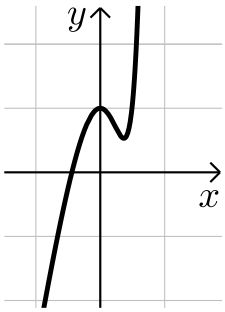

31)

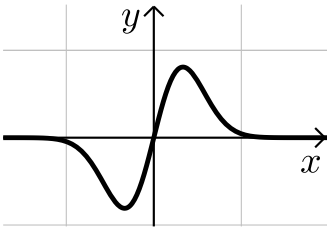

32)

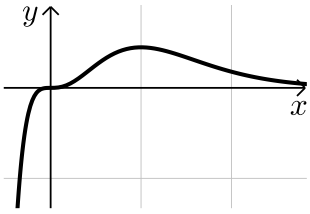

33)

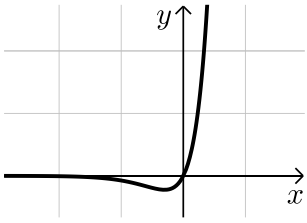

34)

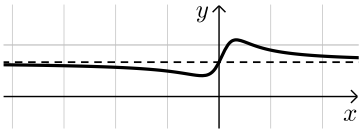

(35

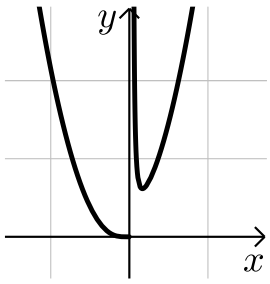

(36

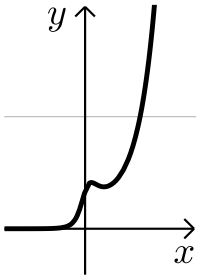

(37

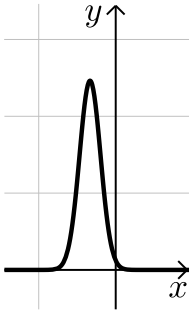

(40

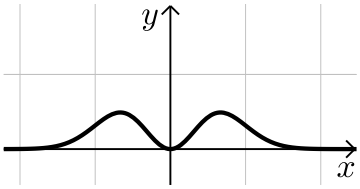

(41

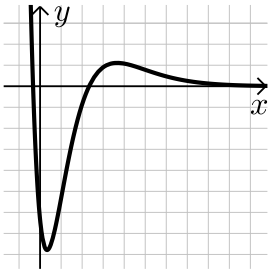

(42

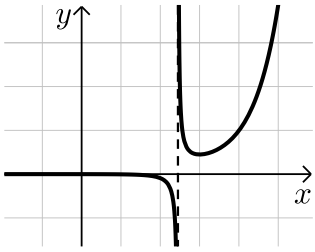

(43

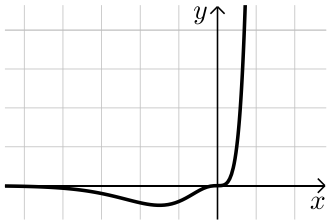

מכינה במתמטיקה לתלמידי כלכלה

פרק 22 - חשבון דיפרנציאלי - פונקציות לוגריתמיות

תוכן העניינים

1. הנגזרת של פונקציה לוגריתמית 300
2. שימושי הנגזרת 305
3. חקירה של פונקציה לוגריתמית 306

הנגזרת של פונקציה לוגריתמית:

סיכום כללי:

הגדרות כלליות:

להלן תיאורים גרפיים של פונקציה לוגריתמית

כללית מהצורה: $f(x)=\log_a x$ עבור $a>1$ ו- $0<a<1$:

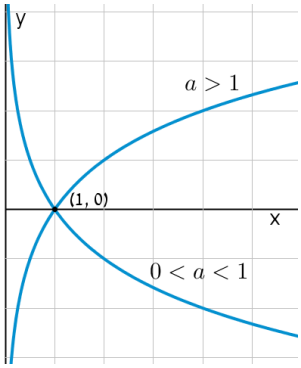

תכונות כלליות:

- לפונקציות תחום הגדרה $x>0$.
- הפונקציות תמיד חותכות את ציר ה- x בנקודה $(1,0)$.
- עבור $a>1$ הפונקציה עולה בכל ת.ה. ועבור $0<a<1$ הפונקציה יורדת בכל ת.ה.

עבור הפונקציות $f(x)=\ln x=\log_e x$ נקבל

כי שיפוע המשיק לגרף הפונקציה בנקודת

החיתוך שלה עם ציר ה- x הוא 1:

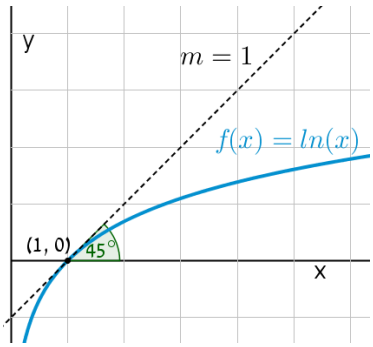

תחום הגדרה של פונקציה לוגריתמית:

תחום ההגדרה של פונקציה לוגריתמית מהצורה: $y=\log(f(x))$ הוא: $f(x)>0$.

נגזרות של פונקציות לוגריתמיות:

הפונקציה	הנגזרת
$y=\log_a x$	$y'=\frac{1}{x\ln a}$
$y=\log_a f(x)$	$y'=\frac{f'(x)}{f(x)\ln a}$
$y=\ln x$	$y'=\frac{1}{x}$
$y=\ln f(x)$	$y'=\frac{f'(x)}{f(x)}$

שאלות:

1) גזור את הפונקציות הבאות (גזירה לוגריתמית יסודית עם ביטויים פנימיים שונים):

א. $f(x)=3\ln x+4\ln(x+2)-\ln(5x-1)$ ב. $f(x)=\ln(x^2-3x)$

ג. $f(x)=\ln\frac{x+1}{x-1}$ ד. $f(x)=\ln(e^x+1)$

ה. $f(x)=\ln(\cos x)$ ו. $f(x)=\log_2 x+5\log_3(2x-1)$

2) גזור את הפונקציות הבאות (מכפלה ומנה של פונקציות):

א. $f(x)=x\ln x$ ב. $f(x)=(3x+1)^2\ln x$ ג. $f(x)=\frac{\ln x}{x}$

ד. $f(x)=\frac{\ln x-2}{\ln x+2}$ ה. $f(x)=\sqrt{\ln x+x}$

3) גזור את הפונקציות הבאות (פונקציות מורכבות):

א. $f(x)=\ln^3 x$ ב. $f(x)=3\ln^2 x$

ג. $f(x)=x^2\ln^2 x$ ד. $f(x)=\frac{\ln^2 x+1}{(\ln x+1)^2}$

4) גזור את הפונקציות הבאות (שאלות שונות):

א. $f(x)=\ln(x+2)$

ב. $f(x)=\ln^2 x+2\ln x-3$

ג. $f(x)=x^2\ln x$

ד. $f(x)=x^3\ln x$

ה. $f(x)=\ln e^{2x}$

ו. $f(x)=e^x\ln x$

ז. $f(x)=e^{-x^2}\ln x$

ח. $f(x)=x^2(2\ln x-1)$

ט. $f(x)=\ln(x^2)$

י. $f(x)=\ln(x^4)$

יא. $f(x)=(\ln x)^4$

יב. $f(x)=x\ln x-\ln x^2$

יג. $f(x)=\frac{(\ln x)^2}{x}$

יד. $f(x)=\ln\sqrt{x}$

טו. $f(x)=\sqrt{\ln x}$

טז. $f(x)=\frac{\ln x}{\sqrt{x}}$

5) גזור את הפונקציות הבאות (שאלות אתגר):

א. $f(x)=\ln\frac{x+2}{x}$

ב. $f(x)=\ln\frac{x-1}{x+1}$

ג. $f(x)=\ln\frac{x-3}{x+3}$

ד. $f(x)=\ln\frac{(x-5)^3}{(x+1)^2}$

ה. $f(x)=\ln\sqrt{x^2-1}$

ו. $f(x)=\ln\left(x+\sqrt{x^2+a^2}\right)$

ז. $f(x)=e^{\sqrt{\ln x}}$

ח. $f(x)=\ln\sqrt{\frac{1}{2-x}}$

ט. $f(x)=\ln\sqrt{\frac{1-x}{1+x}}$

י. $f(x)=\ln\sqrt{\frac{1+5x}{1-5x}}$

יא. $f(x)=\frac{\ln\sqrt[3]{x}}{x}$

יב. $f(x)=\frac{(\ln x)^3}{x}$

יג. $f(x)=\frac{x}{\ln(x^2)}$

יד. $f(x)=\ln^2 x+\frac{1}{\ln^2 x}$

טו. $f(x)=\frac{x}{\ln^4 x}$

תשובות סופיות:

1) א. $f'(x)=\frac{3}{x}+\frac{4}{x+2}-\frac{5}{5x-1}$ ב. $f'(x)=\frac{2x-3}{x^2-3x}$ ג. $f'(x)=\frac{-2}{(x-1)(x+1)}$

ד. $f'(x)=\frac{e^x}{e^x+1}$ ה. $f'(x)=-\tan x$ ו. $f'(x)=\frac{1}{x\ln 2}+\frac{10}{(2x-1)\ln 3}$

2) א. $f'(x)=\ln x+1$ ב. $f'(x)=(3x+1)\left(6\ln x+\frac{3x+1}{x}\right)$ ג. $f'(x)=\frac{1-\ln x}{x^2}$

ד. $f'(x)=\frac{4}{x(\ln x+2)^2}$ ה. $f'(x)=\frac{1+x}{2x\sqrt{\ln x+x}}$.

3) א. $f'(x)=\frac{3\ln^2 x}{x}$ ב. $f'(x)=\frac{6\ln x}{x}$ ג. $f'(x)=2x\ln x(\ln x+1)$

ד. $f'(x)=\frac{2(\ln x-1)}{x(\ln x+1)^3}$.

4) א. $\frac{1}{x+2}$ ב. $\frac{2\ln x+2}{x}$ ג. $x(2\ln x+1)$

ד. $x^2(3\ln x+1)$ ה. 2 ו. $e^x\left(\ln x+\frac{1}{x}\right)$

ז. $e^{-x^2}\left(\frac{1}{x}-2x\ln x\right)$ ח. $4x\ln x$ ט. $\frac{2}{x}$ י. $\frac{4}{x}$

יא. $\frac{4(\ln x)^3}{x}$ יב. $\ln x+1-\frac{2}{x}$ יג. $\frac{2\ln x-\ln^2 x}{x^2}$

יד. $\frac{1}{2x}$ טו. $\frac{1}{2x\sqrt{\ln x}}$ טז. $\frac{2-\ln x}{2x\sqrt{x}}$

5) א. $-\frac{2}{x(x+2)}$ ב. $\frac{2}{x^2-1}$ ג. $\frac{6}{x^2-9}$

ד. $\frac{3}{x-5}-\frac{2}{x+1}$ ה. $\frac{x}{x^2-1}$ ו. $\frac{\sqrt{x^2+a^2}+x}{x\sqrt{x^2+a^2}+x^2+a^2}$

ז. $\frac{e^{\sqrt{\ln x}}}{2x\sqrt{\ln x}}$ ח. $\frac{1}{4-2x}$ ט. $\frac{1}{x^2-1}$

י. $\frac{5}{1-25x^2}$

יא. $\frac{1-3\ln\sqrt[3]{x}}{3x^2}$

יב. $\frac{3\ln^2 x-\ln^3 x}{x^2}$

יג. $\frac{\ln\left(x^2\right)-2}{\ln^2\left(x^2\right)}$

יד. $\frac{2\left(\ln^4 x-1\right)}{x\ln^3 x}$

טו. $\frac{\ln x-4}{\ln^5 x}$.

שימושי הנגזרת:

שאלות:

6) מצא את משוואת המשיק לפונקציה $f(x)=\ln x$ בנקודה $A(e,1)$.

7) שיפוע המשיק לפונקציה $f(x)=\frac{\ln^2 x+a}{\ln x+b}$ בנקודה $\left(\frac{1}{e},-1\right)$ הוא $\frac{e}{3}$.
מצא את ערכי הפרמטרים a ו- b.

8) הגרפים של הפונקציות $f(x)=\ln x$ ו-$g(x)=1$ נחתכים בנקודה A ברביע הראשון.
בנקודה A העבירו משיק ל-$f(x)$.
מצא את משוואת המשיק והוכח שמשיק זה עובר דרך הראשית.

9) לפונקציה $g(x)=\frac{\ln x^2}{x}$ העבירו משיק בנקודה שבה $x=e^2$.
מצא את משוואת המשיק.

10) מצא את משוואת המשיק לגרף הפונקציה $y=x\ln\left(x^2+1\right)$ בנקודה שבה $x=1$.

תשובות סופיות:

6) $y=\frac{1}{e}x$.

7) $a=2\ ,\ b=-2$.

8) $y=\frac{1}{e}x$.

9) $y=-\frac{2}{e^4}x+\frac{6}{e^2}$.

10) $y=\ln 2\cdot x+x-1$.

חקירה של פונקציה לוגריתמית:

שאלות:

11) מצא את תחום ההגדרה של הפונקציות הבאות:

א. $f(x)=\ln x$

ב. $f(x)=\ln(x^2)$

ג. $f(x)=\log_3(x^2-8x-20)$

ד. $f(x)=\ln(e^x-4)$

ה. $f(x)=\dfrac{x-1}{\ln x-1}$

ו. $f(x)=\dfrac{1}{\ln^2 x-2\ln x-3}$

ז. $f(x)=\sqrt{\ln x-1}$

12) מצא את נקודות הקיצון של הפונקציה הבאה: $f(x)=2\ln x-x^2$.

13) מצא את נקודות הקיצון של הפונקציה הבאה: $f(x)=x^2\ln x$.

14) מצא את נקודות הקיצון של הפונקציה הבאה: $f(x)=\dfrac{\sqrt{2\ln x-1}}{x}$.

15) מצא את נקודות הקיצון של הפונקציה הבאה: $f(x)=\log_4^2 x-\log_2 x$.

16) נתונה הפונקציה: $f(x)=\dfrac{a\ln x+b}{x}$. הנקודה $\left(e^2,\dfrac{1}{e^2}\right)$ היא נקודת קיצון של הפונקציה. מצא את ערכי הפרמטרים a ו- b.

17) נתונה הפונקציה: $f(x)=\dfrac{a\ln^2 x+b\ln x}{(\ln x+1)^2}$. הנקודה $\left(\sqrt[3]{e},-\dfrac{1}{8}\right)$ היא נקודת קיצון של הפונקציה. מצא את ערכי הפרמטרים a ו- b.

18) מצא את האסימפטוטות של הפונקציה הבאה: $f(x)=\ln(x-3)$.

19) מצא את האסימפטוטות של הפונקציה הבאה: $f(x)=\dfrac{1}{\ln x-1}$.

20) מצא את האסימפטוטות של הפונקציה הבאה: $f(x)=\frac{2\ln x-1}{\ln x+1}$.

21) מצא את האסימפטוטות של הפונקציה הבאה: $f(x)=\frac{\ln x-2}{\ln^2 x-4}$.

22) מצא את האסימפטוטות של הפונקציה הבאה: $f(x)=\frac{\ln x}{x}$.

23) מצא את האסימפטוטות של הפונקציה הבאה: $f(x)=\frac{x^2-1}{\ln^2 x+1}$.

24) מצא את האסימפטוטות של הפונקציה הבאה: $f(x)=x\ln x+2$.

25) נתונה הפונקציה: $f(x)=\frac{\ln x}{x}$. מצא את נקודת הפיתול של הפונקציה.

26) חקור את הפונקציות הבאות עפ"י הסעיפים הבאים:

i. מציאת תחום ההגדרה של הפונקציה.

ii. מציאת נקודות החיתוך של גרף הפונקציה עם הצירים.

iii. מציאת נקודות הקיצון של הפונקציה וקביעת סוגן.

iv. כתיבת תחומי העלייה והירידה של הפונקציה.

א. $y=\frac{1}{2}x^2-4x+3\ln x$

ב. $y=x\ln x$

ג. $y=x\ln x-x$

ד. $y=\sqrt{x}\ln x$

ה. $y=x^2\ln x$

ו. $y=\ln\left(x^2+1\right)$

27) נתונה הפונקציה $f(x)=2x\ln^2 x$. חקור לפי הסעיפים הבאים:

א. מציאת תחום ההגדרה של הפונקציה.

ב. מציאת נקודות הקיצון של הפונקציה וקביעת סוגן.

ג. כתיבת תחומי העלייה והירידה של הפונקציה.

ד. נקודות החיתוך של גרף הפונקציה עם הצירים.

ה. סרטוט סקיצה של גרף הפונקציה.

28) נתונה הפונקציה $f(x)=\frac{x}{\ln x-1}$. חקור לפי הסעיפים הבאים:

א. תחום הגדרה של הפונקציה.

ב. מציאת נקודות הקיצון של הפונקציה וקביעת סוגן.

ג. כתיבת תחומי העלייה והירידה של הפונקציה.

ד. מציאת נקודות החיתוך של גרף הפונקציה עם הצירים.

ה. סרטוט סקיצה של גרף הפונקציה.

ו. מצא לאלו ערכי k הישר $y=k$ חותך את הפונקציה בשתי נקודות.

29) נתונה הפונקציה $f(x)=\log_4^2 x-\log_2 x$. חקור לפי הסעיפים הבאים:

א. תחום הגדרה של הפונקציה.

ב. מציאת נקודות הקיצון של הפונקציה וקביעת סוגן.

ג. כתיבת תחומי העלייה והירידה של הפונקציה.

ד. מציאת נקודות החיתוך של גרף הפונקציה עם הצירים.

ה. סרטוט סקיצה של גרף הפונקציה.

30) נתונה הפונקציה: $f(x)=\sqrt{\ln x}$.

א. מהו תחום ההגדרה של הפונקציה?

ב. הוכח כי גרף הפונקציה עולה בכל תחום הגדרתו.

מגדירים פונקציה נוספת: $g(x)=\ln x$.

ג. מצא את נקודות החיתוך של שני הגרפים.

ד. הנקודה A נמצאת על גרף הפונקציה $f(x)$ והנקודה B נמצאת על גרף הפונקציה $g(x)$. ידוע כי לנקודות A ו-B אותו שיעור x , $(x_A=x_B)$.
מצא את שיעור ה- x של שתי הנקודות אם ידוע כי המשיקים לגרפים של הפונקציות בנקודות אלו מקבילים.

31) נתונה שתי הפונקציות הבאות: $g(x)=\frac{\ln x}{x}$, $f(x)=\frac{x}{\ln x}$.

א. קבע אילו מהמשפטים הבאים נכונים ואלו שגויים.
נמק זאת ע"י חישוב מתאים ותקן במשפטים השגויים את הטעות.

i. לשתי הפונקציות אותו תחום הגדרה.

ii. לשתי הפונקציות יש נקודת קיצון מאותו סוג ובעלות שיעור x זהה.

iii. לשתי הפונקציות תחומי עלייה וירידה זהים.

iv. לשתי הפונקציות יש אסימפטוטות אנכיות.

ב. בוחרים באקראי שתי נקודות, אחת על כל גרף, כך ששיעור ה- x שלהן זהה.
הוכח כי מכפלת שיעורי ה- y של כל זוג נקודות כאלו שווה ל-1.

32) נתונה הפונקציה הבאה: $y=\ln\left(x^2-6x-7\right)$.

א. מצא את תחום ההגדרה של הפונקציה.

ב. מהן האסימפטוטות של הפונקציה המקבילות לציר ה- y ?

ג. מצא את תחומי העלייה והירידה של הפונקציה.

ד. לפניך 4 גרפים: I , II , III , ו-IV.
איזה מהגרפים מתאים לפונקציה הנתונה. נמק.

I.
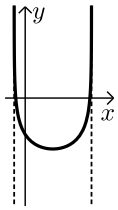

II.
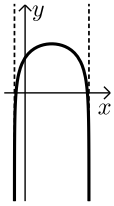

III.
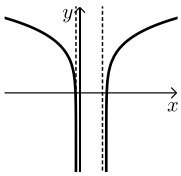

IV.
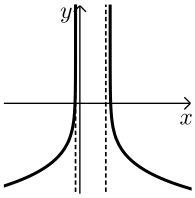

33) נתונה הפונקציה: $y=\ln\left(x^2+2x+1\right)$.

א. מצא את תחום ההגדרה של הפונקציה.

ב. מהי האסימפטוטה של הפונקציה המקבילה לציר ה- y ?

ג. מצא את תחומי העלייה והירידה של הפונקציה.

ד. לפניך 4 גרפים: I , II , III , ו-IV.
איזה מהגרפים מתאים לפונקציה הנתונה. נמק.

I.
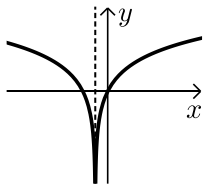

II.
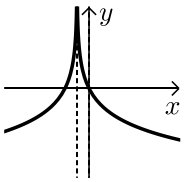

III.
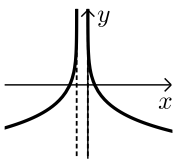

IV.
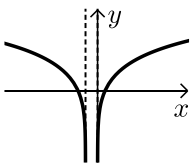

ה. העזר בגרף שבחרת וכתוב את תחומי השליליות של הפונקציה.

34) לפניך הפונקציה הבאה: $f(x)=\ln(1-\ln x)$.

א. מה הוא תחום ההגדרה של הפונקציה?

ב. הוכח כי הפונקציה יורדת בכל תחום הגדרתה.

ג. מצא את נקודות החיתוך של גרף הפונקציה עם ציר ה-x.

ד. סרטט סקיצה של גרף הפונקציה.

35) נתונה הפונקציה הבאה: $y=\ln\frac{2x+1}{x-1}$.

א. מצא את תחום ההגדרה של הפונקציה.

ב. כתוב את האסימפטוטות האנכיות של גרף הפונקציה.

ג. מצא את נקודות החיתוך של גרף הפונקציה עם ציר ה-x.

ד. הראה כי גרף הפונקציה יורד בכל תחום הגדרתו.

ה. סרטט סקיצה של גרף הפונקציה.

36) נתונה הפונקציה הבאה: $f(x)=x\left(\ln^3 x+2\ln^2 x\right)$.

א. הראה כי נגזרת הפונקציה היא: $f'(x)=\ln^3 x+5\ln^2 x+4\ln x$.

ב. מצא את התחום בו הפונקציה עולה.

ג. ענה על השאלות הבאות:

i. מצא את נקודות החיתוך של הפונקציה עם ציר ה-x.

ii. מצא את התחום בו הפונקציה חיובית.

ד. לפניך 4 גרפים. קבע איזה מהם מתאר את הפונקציה $f(x)$ ונמק את בחירתך.

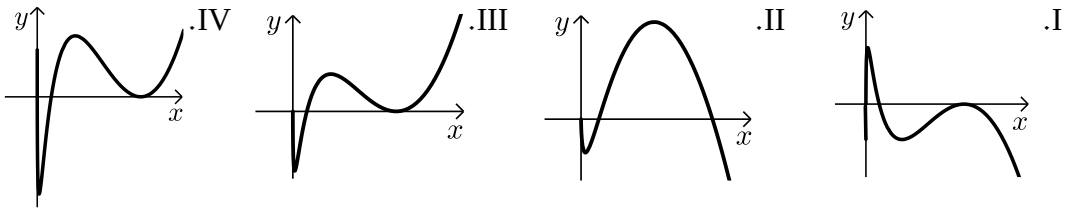

37) נתונה הפונקציה: $f(x)=\ln^3 x-3\ln x$.

א. מה הוא תחום ההגדרה של הפונקציה.

ב. מצא את נקודות החיתוך של הפונקציה עם ציר ה-x.

ג. מצא את נקודות הקיצון של הפונקציה וקבע את סוגן.

ד. סרטט סקיצה של גרף הפונקציה.

ה. מצא את נקודות החיתוך של גרף הפונקציה $f(x)$ עם הפונקציה: $g(x)=\ln x$.

38) ענה על הסעיפים הבאים:

א. פתור את המשוואה הבאה: $\ln(x+e)-\ln(x\sqrt{e})=\ln 2-0.5$.

נתונה הפונקציה: $f(x)=\ln(x+e)-\ln(x\sqrt{e})$.

ב. הראה כי הפונקציה יורדת בכל תחום הגדרתה.

ג. מצא את משוואת המשיק לגרף הפונקציה בנקודה שבה: $x=e$.

39) נתונה הפונקציה הבאה: $y=\dfrac{x+a}{\ln(x+a)}$, a פרמטר חיובי, $a\neq 1$.

א. הבע באמצעות a את:

i. תחום ההגדרה של הפונקציה.

ii. הנקודה המקיימת $y'=0$.

iii. נקודת החיתוך של גרף הפונקציה עם הצירים.

iv. האסימפטוטה האנכית של הפונקציה.

ב. ידוע כי גרף הפונקציה עולה רק בתחום: $x>e-2$. מצא את a.

ג. סרטט סקיצה של גרף הפונקציה בתחום $x>-1$.

ד. נתון הישר: $y=k$. מצא בסקיצה את תחום הערכים של k עבורו לישר ולגרף הפונקציה לא תהיה אף נקודה משותפת.

40) נתונה הפונקציה הבאה: $y=\ln x+\dfrac{1}{x}$.

א. ענה על הסעיפים הבאים:

i. מהו תחום ההגדרה של הפונקציה?

ii. יש לגרף הפונקציה אסימפטוטה מקבילה לציר y?
אם כן מצא אותה.

ב. מצא את נקודת הקיצון של גרף הפונקציה וקבע את סוגה.

ג. כתוב את תחומי העלייה והירידה של גרף הפונקציה.

תשובות סופיות:

11) א. $x>0$ ב. $x\neq 0$ ג. $x>10$ או $x<-2$ ד. $x>\ln 4$
ה. $0<x\neq e$ ו. $x>0$ וגם $x\neq e^{3},e^{-1}$ ז. $x\geq e$.

12) $\max(1,-1)$.

13) $\min\left(\frac{1}{\sqrt{e}},-\frac{1}{2e}\right)$.

14) $\min(\sqrt{e},0)$ קצה, $\max\left(e,\frac{1}{e}\right)$.

15) $\min(4,-1)$.

16) $a=1$, $b=-1$.

17) $a=1$, $b=-1$.

18) $x=3$.

19) נקודת אי הגדרה $(0,0)$, $x=e$, $y=0$.

20) נקודת אי הגדרה $(0,2)$, $x=\frac{1}{e}$, $y=2$.

21) נקודת אי הגדרה $\left(e^{2},\frac{1}{4}\right)$; $(0,0)$, $x=\frac{1}{e^{2}}$, $y=0$.

22) $x=0$, $y=0$.

23) נקודת אי הגדרה $(0,0)$.

24) נקודת אי הגדרה $(0,2)$.

25) $\left(\sqrt{e^{3}},\frac{3}{2\sqrt{e^{3}}}\right)$.

26) א. i. $x>0$ iii. $\max(1,-3.5)$, $\min(3,\ln 27-7.5)$
iv. עולה: $0<x<1$, $x>3$ יורדת: $1<x<3$.
ב. i. $x>0$ ii. $(1,0)$
iii. $\min(e^{-1},-e^{-1})$ iv. עולה: $x>e^{-1}$ יורדת: $0<x<e^{-1}$.
ג. i. $x>0$ ii. $(e,0)$ iii. $\min(1,-1)$ iv. עולה: $x>1$ יורדת: $0<x<1$
ד. i. $x>0$ ii. $(1,0)$ iii. $\min\left(e^{-2},-\frac{2}{e}\right)$ iv. עולה: $x>e^{-2}$ יורדת: $0<x<e^{-2}$

ה. i. $x>0$ ii. $(1,0)$ iii. $\min\left(\frac{1}{\sqrt{e}},-\frac{1}{2e}\right)$ iv. עולה: $x>\frac{1}{\sqrt{e}}$ יורדת: $0<x<\frac{1}{\sqrt{e}}$

ו. i. כל x ii. $(0,0)$ iii. $\min(0,0)$ iv. עולה: $x>0$ יורדת: $x<0$.

27) א. $x>0$ ב. $\min(1,0)$, $\max\left(\frac{1}{e^2},\frac{8}{e^2}\right)$

ג. עלייה: $x>1$ או $0<x<\frac{1}{e^2}$, ירידה: $\frac{1}{e^2}<x<1$. ד. $(1,0)$.

28) א. $0<x\neq e$ ב. $\min(e^2,e^2)$ ג. עלייה: $x>e^2$, ירידה:

$0<x<e^2$ וגם $x\neq e$ ד. אין. ו. $k>e^2$.

29) א. $x>0$ ב. $\min(4,-1)$ ג. עלייה: $x>4$, ירידה: $0<x<4$

ד. $(16,0)$, $(1,0)$.

30) א. $x\geq 1$ ב. מתקבל: $f'(x)=\frac{1}{2x\sqrt{\ln x}}>0$ ג. $(e,1)$, $(1,0)$.

ד. $x=\sqrt[4]{e}$.

31) א. i. לא נכון. תחום ההגדרה של $f(x)$ הוא: $x>0$, $x\neq 1$ ותחום ההגדרה של $g(x)$ הוא: $x>0$.

ii. לא נכון. לשתי הפונקציות נקודת קיצון שבה $x=e$ אך עבור $f(x)$ מדובר במינימום ועבור $g(x)$ מדובר במקסימום.

iii. לא נכון. עבור $f(x)$: עולה: $x>e$ יורדת: $0<x<e$, $x\neq 1$.

ועבור $g(x)$: עולה: $0<x<e$ יורדת: $x>e$. iv. נכון.

ב. לגבי כל נקודה נאמר כי שיעור ה- y שלה הוא: $y=\frac{x}{\ln x}$ ו- $y=\frac{\ln x}{x}$.

נכפול: $y=\frac{x}{\ln x}\cdot\frac{\ln x}{x}=1$.

32) א. $x<-1$, $x>7$ ב. $x=-1,7$ ג. עולה: $x>7$ יורדת: $x<-1$.

ד. III. <u>הסבר</u>: באיורים I ו-II גרף הפונקציה לא בתחום.
באיור IV תחומי העלייה והירידה הפוכים.

33) א. $x\neq -1$ ב. $x=-1$ ג. עולה: $x>-1$ יורדת: $x<-1$

ד. I. <u>הסבר</u>: באיור II תחומי העלייה והירידה הפוכים.
באיורים III ו-IV יש אסימפטוטה מיותרת. ה. $x\neq -1$, $-2<x<0$.

34) א. $0<x<e$. (שימו לב כי תנאי ת.ה. הם: $1-\ln x>0$ וגם $x>0$).

ב. $f'(x)=\frac{-\frac{1}{x}}{1-\ln x}=-\frac{1}{x(1-\ln x)}<0$ - ולכן הפונקציה יורדת בת.ה.

ג. $(1,0)$.

35) א. $x>1$, $x<-\frac{1}{2}$ ב. $x=-\frac{1}{2},1$ ג. $(-2,0)$

ד. מתקבל: $y'=\frac{-3}{(2x+1)(x-1)}<0$.

36) ב. $e^{-4}<x<e^{-1}$, $x>1$.

ג. i. 2 נקודות והן: $(e^{-2},0)$, $(1,0)$. הנקודה שבה: $x=0$ לא קיימת עקב ת.ה.

ii. $x>e^{-2}$, $x\neq 1$. ד. III – בראשית הצירים יש חור ולא אסימפטוטה.

שאר הנתונים כפי שהתקבלו בסעיפים הקודמים.

37) א. $x>0$ ב. $(e^{-\sqrt{3}},0)$, $(e^{\sqrt{3}},0)$, $(1,0)$ ג. $\max(e^{-1},2)$, $\min(e,-2)$

ה. $(e^{-2},-2)$, $(e^{2},2)$, $(1,0)$.

38) א. $x=e$ ב. מתקבל: $y'=\frac{-e}{x(x+e)}<0$ ג. $y=-\frac{1}{2e}x+\ln 2$.

39) א. i. $x>-a$, $x\neq 1-a$ ii. $(e-a,e)$ iii. $\left(0,\frac{a}{\ln a}\right)$

iv. $x=1-a$ ב. $a=2$ ד. $k<e$.

40) א. i. $x>0$ ii. $x=0$ ב. $\min(1,1)$ ג. עולה: $x>1$, יורדת: $0<x<1$.

סקיצות לשאלות:

27)

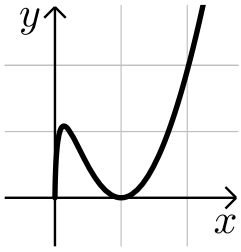

28)

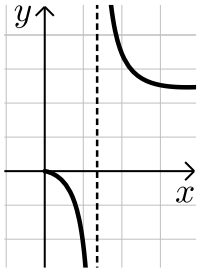

29)

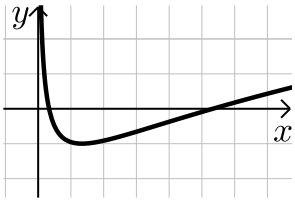

34)

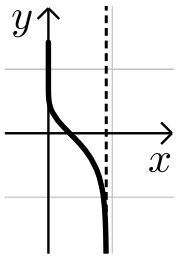

35)

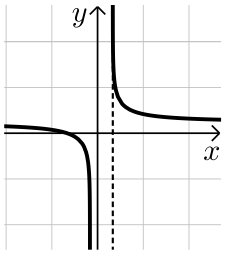

37)

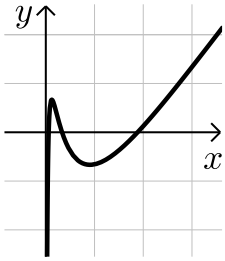

39)

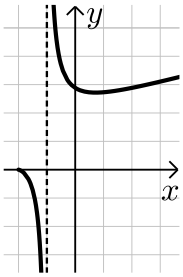

מכינה במתמטיקה לתלמידי כלכלה

פרק 23 - חשבון אינטגרלי - האינטגרל הכללי

תוכן העניינים

1. חישובי אינטגרלים 316
2. מציאת פונקציה קדומה 321

חישובי אינטגרלים:

סיכום כללי:

הגדרה וכללי האינטגרציה:

- כלל האינטגרציה של פונקציה פולינומית: $\boxed{\int x^n dx = \frac{x^{n+1}}{n+1} + c \ , \ (n \neq -1)}$.
- עבור מקדם קבוע a נקבל: $\boxed{\int ax^n dx = \frac{ax^{n+1}}{n+1} + c \ , \ (n \neq -1)}$.
- כללי האינטגרציה של פונקציות טריגונומטריות:

$\boxed{\int \sin x dx = -\cos x + c}$, $\boxed{\int \cos x dx = \sin x + c}$, $\boxed{\int \frac{1}{\cos^2 x} dx = \tan x + c}$, $\boxed{\int \frac{1}{\sin^2 x} dx = -\cot x + c}$

שאלות:

1) מצא את האינטגרלים הבאים:

א. $\int x^3 dx$

ב. $\int 12x^5 dx$

ג. $\int x^4 dx$

ד. $\int 2x^3 dx$

ה. $\int \frac{2}{3} x^5 dx$

ו. $\int 7 dx$

ז. $\int \left(\frac{5}{6} x^4 + 16x^3 - \frac{x^2}{2} + 4x - \frac{1}{3} \right) dx$

ח. $\int \left(\frac{4x^3}{5} - ax^2 - \frac{2ax}{b} + b \right) dx$

2) מצא את האינטגרלים הבאים:

א. $\int x^{-3} dx$

ב. $\int \frac{1}{x^3} dx$

ג. $\int \left(\frac{1}{x^2} + \frac{3}{x^4} - \frac{a}{x^3} + \frac{x}{a} \right) dx$

ד. $\int \frac{2x^3 + x - 2}{x^3} dx$

3) מצא את האינטגרלים הבאים:

א. $\int x^{\frac{1}{2}}dx$

ב. $\int \sqrt{x}dx$

ג. $\int \frac{1}{\sqrt{x}}dx$

ד. $\int \left(\frac{4}{\sqrt{x}}+3\sqrt{x}\right)dx$

4) מצא את האינטגרלים הבאים:

א. $\int (5x-1)^3 dx$

ב. $\int 3(2-7x)^4 dx$

ג. $\int \frac{18}{(6x+5)^2}dx$

ד. $\int \frac{1}{\sqrt{6x-3}}dx$

ה. $\int \sqrt{ax+b}dx$

5) מצא את תוצאת החילוק:

א. $\frac{x^2-5x-14}{x+2}=$

ב. $\frac{x^3+x^2+3x-5}{x-1}=$

ג. $\frac{x^4+x^3-x^2+14x-3}{x+3}=$

ד. $\frac{x^3-4x^2+9}{x-3}=$

ה. $\frac{x^3+5x^2-4x-20}{x+5}=$

6) מצא את האינטגרלים הבאים:

א. $\int \frac{x^2-5x-14}{x+2}dx$

ב. $\int \frac{x^3+x^2+3x-5}{x-1}dx$

ג. $\int \frac{x^4+x^3-x^2+14x-3}{x+3}dx$

ד. $\int \frac{x^3-4x^2+9}{x-3}dx$

ה. $\int \frac{x^3+5x^2-4x-20}{x+5}dx$

ו. $\int \frac{2x^5+x^4-4x^2+1}{2x+1}dx$

7) מצא את האינטגרלים הבאים:

א. $\int -\frac{2x}{(x^2-1)^2}dx$

ב. $\int \frac{x^2}{(x^3+6)^2}dx$

ג. $\int \frac{x-2}{(x^2-4x+1)^2}dx$

ד. $\int \frac{x}{\sqrt{x^2+2}}dx$

ה. $\int \frac{6x-3}{\sqrt{x-x^2}}dx$

ו. $\int 8x(x^2+1)^3 dx$

ז. $\int (2-x^2)(6x-x^3)^2 dx$

8) חשב את האינטגרלים הבאים:

א. $\int\left(\sin x-3\cos x+\frac{4}{\cos^2 x}+5\right)dx$

ב. $\int\left(\cos 3x-2\sin 4x+\frac{4}{\cos^2 3x}\right)dx$

ג. $\int\left(\sin(\pi-x)+\frac{1+\cos^2 x}{\cos^2 x}\right)dx$

9) חשב את האינטגרלים הבאים (שימוש בזהויות):

א. $\int(2\sin x\cos x)dx$

ב. $\int(\sin 3x\cos 3x)dx$

ג. $\int(\sin^4 x-\cos^4 x)dx$

ד. $\int(\sin^2 x)dx$

10) חשב את האינטגרלים הבאים:

א. $\int\left(\frac{\cos x}{\sqrt{\sin x}}\right)dx$

ב. $\int\left(\frac{\sin x}{\cos^2 x}\right)dx$

ג. $\int(\cos x\sin^2 x)dx$

11) חשב את האינטגרלים הבאים:

א. $\int\left(\sin 2x-4\cos\frac{x}{3}\right)dx$

ב. $\int\frac{1}{\cos^2 4x}dx$

ג. $\int\frac{1}{\sin^2 10x}dx$

ד. $\int(\cos^2 x-\sin^2 x)dx$

ה. $\int(\cos^4 x-\sin^4 x)dx$

ו. $\int(\cos x+\sin x)^2 dx$

ז. $\int(\sin x\cos x\cos(2x))dx$

ח. $\int\tan^2 xdx$

ט. $\int\frac{1}{(\sin x\cos x)^2}dx$

י. $\int\cos^2 xdx$

יא. $\int\sin^2 4xdx$

12) חשב את ערכי האינטגרלים הבאים (שאלות אתגר):

א. $\int\left(\cos^4 x+\sin^4 x\right)dx$

ב. $\int\cos^4 x dx$

ג. $\int\sin^4 4x dx$

ד. $\int\frac{1+\cos 2x}{1-\cos 2x}dx$

ה. $\int\frac{\sin^3 x}{1-\cos x}dx$

תשובות סופיות:

1) א. $\frac{x^4}{4}+c$ ב. $2x^6+c$ ג. $\frac{x^5}{5}+c$ ד. $\frac{x^4}{2}+c$ ה. $\frac{x^6}{9}+c$ ו. $7x+c$

ז. $\frac{x^5}{6}+4x^4-\frac{x^3}{6}+2x^2-\frac{1}{3}x+c$ ח. $\frac{x^4}{5}-\frac{ax^3}{3}-\frac{ax^2}{b}+bx+c$.

2) א. $-\frac{x^{-2}}{2}+c$ ב. $-\frac{1}{2x^2}+c$ ג. $-\frac{1}{x}-\frac{1}{x^3}+\frac{a}{2x^2}+\frac{x^2}{2a}+c$ ד. $2x-\frac{1}{x}+\frac{1}{x^2}+c$.

3) א. $\frac{x^{1.5}}{1.5}+c$ ב. $\frac{2}{3}\sqrt{x^3}+c$ ג. $2\sqrt{x}+c$ ד. $8\sqrt{x}+2\sqrt{x^3}+c$.

4) א. $\frac{(5x-1)^4}{20}+c$ ב. $-\frac{3(2-7x)^5}{35}+c$ ג. $-\frac{3}{6x+5}+c$

ד. $\frac{\sqrt{6x-3}}{3}+c$ ה. $\frac{2\sqrt{(ax+b)^3}}{3a}+c$.

5) א. $x-7$ ב. x^2+2x+5 ג. x^3-2x^2+5x-1

ד. x^2-x-3 ה. x^2-4

6) א. $\frac{x^2}{2}-7x+c$ ב. $\frac{x^3}{3}+x^2+5x+c$ ג. $\frac{x^4}{4}-\frac{2x^3}{3}+\frac{5x^2}{2}-x+c$

ד. $\frac{x^3}{3}-\frac{x^2}{2}-3x+c$ ה. $\frac{x^3}{3}-4x+c$ ו. $\frac{x^5}{5}-x^2+x+c$.

7) א. $\frac{1}{x^2-1}+c$ ב. $-\frac{1}{3\left(x^3+6\right)}+c$ ג. $-\frac{1}{2\left(x^2-4x+1\right)}+c$

ד. $\sqrt{x^2+2}+c$ ה. $-6\sqrt{x-x^2}+c$ ו. $\left(x^2+1\right)^4+c$

ז. $\frac{\left(6x-x^3\right)^3}{9}+c$.

8) א. $-\cos x-3\sin x+4\tan x+5x+c$ ב. $\frac{\sin 3x}{3}+\frac{\cos 4x}{2}+\frac{4\tan 3x}{3}+c$

ג. $\cos\left(\pi-x\right)+\tan x+x+c$.

9) א. $-\frac{1}{2}\cos 2x+c$ ב. $-\frac{\cos 6x}{12}+c$ ג. $-\frac{\sin 2x}{2}+c$

ד. $\frac{1}{2}x-\frac{1}{4}\sin 2x+c$.

10) א. $2\sqrt{\sin x}+c$ ב. $\frac{1}{\cos x}+c$ ג. $\frac{1}{3}\sin^3 x+c$.

11) א. $-\frac{1}{2}\cos 2x-12\sin\frac{x}{3}+c$ ב. $\frac{1}{4}\tan 4x+c$ ג. $-\frac{1}{10}\cot 10x+c$

ד. $\frac{1}{2}\sin 2x+c$ ה. $\frac{1}{2}\sin 2x+c$ ו. $x-\frac{1}{2}\cos 2x+c$

ז. $-\frac{1}{16}\cos 4x+c$ ח. $\tan x-x+c$ ט. $\tan x-\cot x+c$

י. $\frac{1}{2}x+\frac{1}{4}\sin 2x+c$ יא. $\frac{1}{2}x-\frac{1}{16}\sin 8x+c$

12) א. $\frac{3}{4}x+\frac{1}{16}\sin 4x+c$ ב. $\frac{3}{8}x+\frac{1}{4}\sin 2x+\frac{1}{32}\sin 4x+c$

ג. $\frac{3}{8}x-\frac{1}{16}\sin 8x+\frac{1}{128}\sin 16x+c$ ד. $-\cot x-x+c$

ה. $-\cos x-\frac{1}{4}\cos 2x+c$

מציאת פונקציה קדומה:

שאלות:

1) נתונה נגזרת של פונקציה: $f'(x)=3x^2-7$.

מצא את הפונקציה אם ידוע שהיא עוברת בנקודה $(2,-1)$.

2) נתונה נגזרת של פונקציה: $f'(x)=2x-6$.

ערך הפונקציה בנקודת הקיצון שלה הוא 5.

מצא את הפונקציה.

3) הנגזרת של פונקציה $f(x)$ היא: $f'(x)=x^2-8x+2$. נתון: $f(-2)=1$.

א. מצא את $f(x)$.

ב. מצא את משוואת המשיק לגרף הפונקציה בנקודה שבה $x=1$.

4) נתונה הנגזרת של פונקציה $f(x)$: $f'(x)=9x^2-4$.

ערך הפונקציה בנקודה $x=1$ הוא 3.

א. מצא את משוואת המשיק לגרף הפונקציה בנקודה שבה: $x=1$.

ב. מצא את $f(x)$.

ג. מצא את נקודות החיתוך של המשיק עם הצירים.

5) הנגזרת של פונקציה $f(x)$ היא: $f'(x)=2x-3$.

לפונקציה משיק ששיפועו הוא 3-.

א. מצא את שיעור ה- x של נקודת ההשקה.

ב. מצא את $f(x)$ אם ידוע כי ערך הפונקציה באותה הנקודה הוא 7.

6) הנגזרת של פונקציה $f(x)$ היא: $f'(x)=-6x-5$.

המשיק לפונקציה בנקודה A יוצר זווית של 45° עם הכיוון החיובי של ציר ה- x.

א. מצא את שיעור ה- x של הנקודה A.

ב. מצא את $f(x)$ אם ידוע כי ערך הפונקציה באותה הנקודה הוא 6-.

ג. מצא את משוואת המשיק.

7) הנגזרת של פונקציה $f(x)$ היא: $f'(x)=3x-4$.
הישר $y=2x+5$ משיק לגרף הפונקציה. מצא את $f(x)$.

תשובות סופיות:

1) $f(x)=x^3-7x+5$.

2) $f(x)=x^2-6x+14$.

3) א. $f(x)=\frac{x^3}{3}-4x^2+2x+23\frac{2}{3}$ ב. $y=-5x+27$.

4) א. $y=5x-2$ ב. $f(x)=3x^3-4x+4$ ג. $(0.4,0)$, $(0,-2)$.

5) א. $x=0$ ב. $f(x)=x^2-3x+7$.

6) א. $x=-1$ ב. $f(x)=-3x^2-5x-8$ ג. $y=x-5$.

7) $f(x)=\frac{3x^2}{2}-4x+11$.

מכינה במתמטיקה לתלמידי כלכלה

פרק 24 - חשבון אינטגרלי - האינטגרל המסוים וחישובי שטחים

תוכן העניינים

1. האינטגרל המסוים 323
2. חישובי שטחים יסודיים 325
3. חישובי שטחים יסודיים עם פרמטרים 331
4. חישובי שטחים כאשר נתונה נגזרת הפונקציה 333
5. חישובי שטחים עם פונקציה רציונאלית 336
6. חישובי שטחים עם פונקצית שורש 338
7. חישובי שטחים עם פונקציות טריגונומטריות 342
8. חישובי שטחים בין גרף הנגזרת והצירים 345

האינטגרל המסוים:

סיכום כללי:

תהא פונקציה $f(x)$ שנגזרתה היא $f'(x)$ ($f(x)$ מוגדרת בתחום $a \le x \le b$).

הקשר שבין האינטגרל המסוים לפונקציה קדומה הוא: $\int_a^b f'(x)dx = f(b) - f(a)$.

הערה:

יש להשתמש בכל כללי האינטגרציה המיידיים של הפונקציות השונות אשר נלמדו.

שאלות:

1) חשב את ערכי הביטויים הבאים:

א. $\int_2^5 (x^2+5x)dx$

ב. $\int_{-4}^{-1} x^2(x-3)dx$

ג. $\int_{-3}^{3} (x^3+4x)dx$

ד. $\int_{-1}^{1} 3(2x-1)^5 dx$

ה. $\int_1^2 \frac{2}{(x-3)^2}dx$

ו. $\int_1^4 \frac{x-1}{x^3}dx$

ז. $\int_{-3}^{0} \frac{2x^2+7x-4}{x+4}dx$

ח. $\int_3^4 \frac{3x^2-7x+2}{x-2}dx$

ט. $\int_1^2 \sqrt{3x-1}dx$

י. $\int_{-5}^{0} \frac{3}{\sqrt{4-x}}dx$

2) חשב את ערכי הביטויים הבאים:

א. $\int_0^{\pi} (\cos x)dx$

ב. $\int_0^{\pi} (\sin 2x+1)dx$

ג. $\int_{-\frac{\pi}{2}}^{\frac{\pi}{2}} (2\sin x - 3\cos 2x)dx$

ד. $\int_0^{\frac{\pi}{3}} \left(\frac{3}{\cos^2 x}+2\right)dx$

3) לפניך האינטגרל הבא: $\int_{1}^{a}(4x-7)\,dx$.

מצא עבור אלו ערכים של a ערך האינטגרל יהיה שווה ל-1-.

4) לפניך האינטגרל הבא: $\int_{a}^{2}(x-3x^2)\,dx$.

א. כתוב ביטוי לערך האינטגרל כתלות ב- a.

ב. מצא עבור אלו ערכים של a ערך האינטגרל יהיה שווה ל- $\frac{a-12}{2}$.

5) לפניך האינטגרל הבא: $\int_{a}^{a+4}\left(\frac{1}{\sqrt{x-a}}-\frac{1}{\sqrt{x+1}}\right)dx$.

א. כתוב את ערך האינטגרל כתלות ב- a.

ב. מצא את ערכו של a עבורו ערך האינטגרל יהיה שווה ל-2.

6) לפניך האינטגרל הבא: $\int_{0}^{a}(\sin x+2\cos 2x)\,dx$, $0<a<3$.

מצא עבור אלו ערכים של a ערך האינטגרל יהיה שווה ל-1.

תשובות סופיות:

1) א. 91.5 ב. -126.75 ג. 0 ד. -182 ה. 1

ו. $\frac{9}{32}$ ז. -12 ח. 9.5 ט. 1.856 י. 6.

2) א. 0 ב. π ג. 0 ד. $3\sqrt{3}+\frac{2}{3}\pi\approx 7.29$.

3) $a=2\,,\,1.5$.

4) א. $a^3-\frac{1}{2}a^2-6$ ב. $a=0\,,\,1\,,\,-\frac{1}{2}$.

5) א. $4+2\left(\sqrt{a+1}-\sqrt{a+5}\right)$ ב. $a=1\frac{1}{4}$.

6) $a=\frac{\pi}{6}\,,\,\frac{\pi}{2}\,,\,\frac{5\pi}{6}$.

חישובי שטחים יסודיים:

שאלות:

1) חשב את השטח המוגבל בין גרף הפונקציה $f(x)=x^2+2x+3$, ציר ה-x והישרים $x=1$ ו-$x=3$.

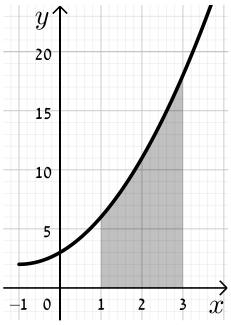

2) נתונה הפונקציה $y=-x^2+4x+5$.

א. מצא את נקודות החיתוך של הפונקציה עם ציר ה-x.

ב. מצא את השטח המוגבל בין גרף הפונקציה, ציר ה-x וציר ה-y.

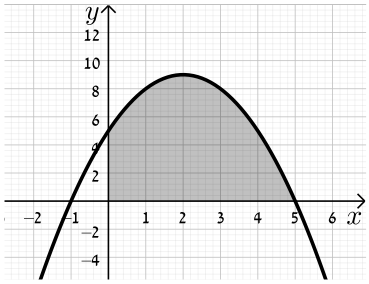

3) מצא את השטח המוגבל תחת הפונקציה $f(x)=x^3-2x^2+x$ וציר ה-x כמתואר באיור.

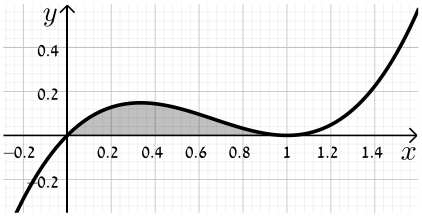

שאלות עם שטח מתחת לציר ה-x:

4) נתונה הפונקציה $f(x)=x(4-x^2)$.

חשב את השטח המוגבל שמתחת הפונקציה וציר ה-x שברביע השלישי.

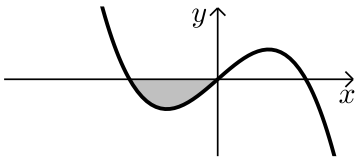

5) נתונה הפונקציה $f(x)=\frac{1}{2}x^4-2x^2$.

חשב את השטח המוגבל שבין הפונקציה לציר ה-x.

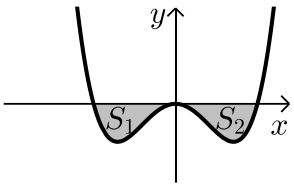

6) חשב את האינטגרל המסוים של
הפונקציה $y=x^2-6x+5$ בין 0 ל-5.
האם התוצאה מייצגת את סכום השטחים: S_1+S_2?
אם כן, הסבר. אם לא, נמק וחשב את סכום זה.

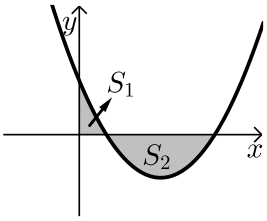

7) נתונה הפונקציה $y=x^3-x^2-2x$.
יוצרים את השטחים S_1 ו-S_2 בין גרף הפונקציה וציר ה-x כמתואר באיור.

א. מצא את נקודות החיתוך של הפונקציה עם ציר ה-x.

ב. חשב את השטח הכלוא בין גרף הפונקציה וציר ה-x.

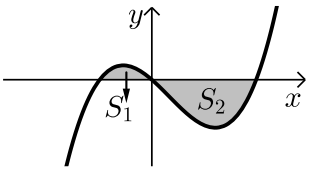

שאלות עם שטחים בין שתי פונקציות:

8) נתונות הפונקציות הבאות: $f(x)=x^2-4x-12$ ו- $g(x)=x-6$.
חשב את גודל השטח הכלוא בין הגרפים של הפונקציות הנ"ל.

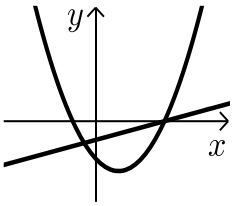

9) נתונות הפונקציות: $y=(x-3)^2$, $y=-x+9$.
חשב את השטח המוגבל בין שתי הפונקציות.

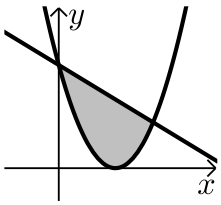

10) נתונות הפונקציות: $f(x)=x^2-1$, $g(x)=7-x^2$.
חשב את גודל השטח הכלוא בין הגרפים של
הפונקציות הנ"ל.

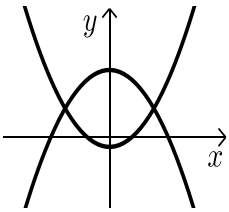

11) נתונות הפונקציות הבאות: $f(x)=-x^2+4x$ ו- $g(x)=-x+4$.
מסמנים את השטח הכלוא בין שני הגרפים ב-S_1
ואת השטח הכלוא בין הגרפים וציר ה-y ב-S_2
כמתואר באיור.

א. מצא את נקודות החיתוך של הפונקציות.

ב. חשב את היחס שבין השטחים: $\frac{S_1}{S_2}$.

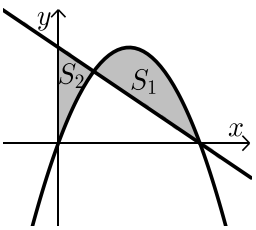

12) נתונה הפונקציה: $f(x)=x^3-4x+5$ והישר $y=5$.

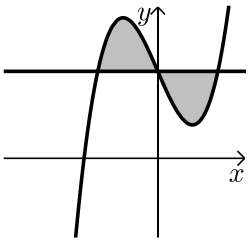

א. מצא את נקודות החיתוך של הפונקציה והישר.

ב. חשב את השטח המוגבל ביניהן.

13) נתונה הפונקציה: $f(x)=x^3-3x^2+3x$.

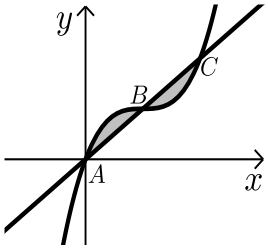

הישר AC חותך את גרף הפונקציה בנקודות הבאות: $A(0,0)$, $B(1,1)$, $C(2,2)$.

חשב את השטח המוגבל בין הפונקציה לישר AC.

14) נתונות הפונקציות $f(x)=(x-2)^2$ ו- $g(x)=-(x-2)^2$ כמתואר באיור.

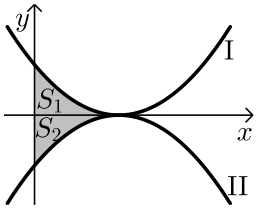

א. התאם בין הפונקציות לגרפים I ו-II.

ב. מסמנים את השטחים שבין כל פונקציה והצירים ב- S_1 ו- S_2 כמתואר באיור.

הראה כי השטחים S_1 ו- S_2 שווים זה לזה.

שאלות עם שטחים מורכבים:

15) נתונות הפונקציות: $f(x)=x^2-2x+1$, $g(x)=x^2-6x+9$.

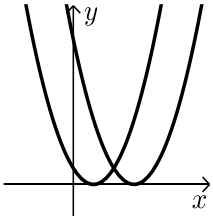

חשב את גודל השטח הכלוא בין הפונקציות ובין ציר ה- x.

16) נתונות הפונקציות: $y=x^2-4x+6$, $y=3x$.

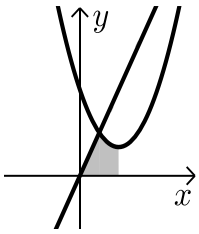

א. מצא את קדקוד הפרבולה.

ב. מצא נקודת חיתוך של הפרבולה עם הישר שמשמאל לקדקוד הפרבולה.

ג. חשב את השטח המסומן שבשרטוט.

17) נתונות הפונקציות: $y=x^2+4x+6$, $y=x^2-4x+14$.

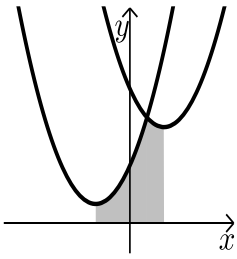

א. מצא את שיעורי ה- x של קודקודי הפרבולות.

ב. חשב את נקודת החיתוך בין שתי הפונקציות.

ג. חשב את השטח המסומן בשרטוט.

18) נתונות הפונקציות: $g(x)=(x+3)^2$, $f(x)=(x-3)^2$.
חשב את השטח המוגבל בין שתי הפונקציות וציר ה-x .

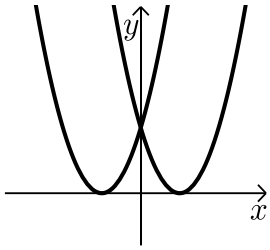

19) נתונות שתי הפונקציות: $y=(x-2)^2$, $y=\frac{1}{2}x+\frac{1}{2}$.

א. מצא את השטח המוגבל בין שתי הפונקציות לציר ה-x .

ב. מצא את השטח המוגבל בין שתי הפונקציות לציר ה-y .

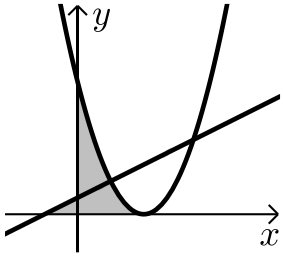

20) נתונות הפרבולות הבאות: $f(x)=-x^2+5x$ ו- $g(x)=-x^2+3x$.
חשב את השטח המוגבל בין הגרפים של הפרבולות וציר ה-x .

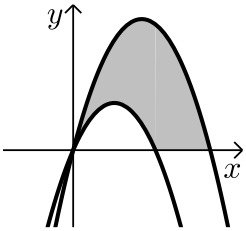

21) נתונה הפונקציה: $f(x)=x^2+6x+12$.
ישר העובר בראשית הצירים חותך את גרף הפונקציה בנקודה שבה $x=-4$ כמתואר באיור.

א. מצא את משוואת הישר.

ב. מצא את נקודת החיתוך השנייה של הישר והפונקציה.

ג. מצא את השטח המוגבל בין הישר, גרף הפונקציה, ציר ה-x והישר $x=-4$.

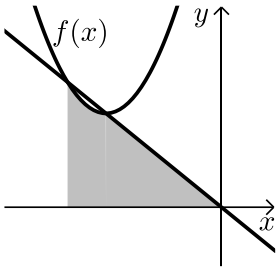

22) נתונה הפונקציה: $y=2x^2$.
מעבירים משיק לגרף הפונקציה מהנקודה: $A(1,2)$.
המשיק חותך את ציר ה-x בנקודה B.
חשב את השטח המוגבל בין הפונקציה, המשיק וציר ה-x .

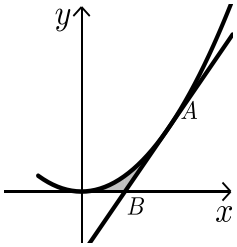

23) נתונה הפונקציה: $f(x)=(x-2)^2$.
מנקודת החיתוך שלה עם ציר ה- y
מעבירים משיק.

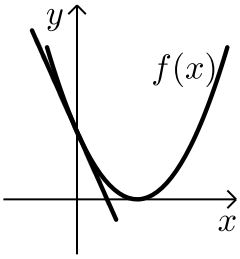

א. מצא את משוואת המשיק.
ב. מצא את נקודת החיתוך של המשיק עם ציר ה- x
ג. חשב את השטח הכלוא בין המשיק, גרף הפונקציה וציר ה- x.

24) משוואת הפרבולה היא: $f(x)=-2x^2+3x+2$.
הנקודות $C(0,2)$, $B(2,0)$ הן נקודות חיתוך
של הפרבולה עם הצירים.
המשיק לפרבולה בנקודה D מקביל לישר BC.

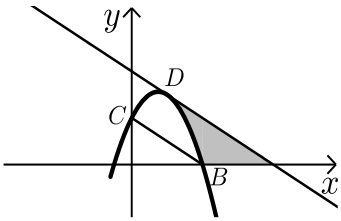

א. מצא את משוואת המשיק.
ב. מצא את השטח המוגבל בין הפרבולה, המשיק וציר ה- x.
ג. מצא את השטח המוגבל בין הפרבולה, המשיק וציר ה- y.

תשובות סופיות:

1) $22\frac{2}{3}$ יח"ש.

2) א. $(5,0)$, $(-1,0)$ ב. $33\frac{1}{3}$ יח"ש.

3) $\frac{1}{12}$ יח"ש.

4) 4 יח"ש.

5) $4\frac{4}{15}$ יח"ש.

6) לא. השטח הוא: 13 יח"ש.

7) א. $(2,0)$, $(0,0)$, $(-1,0)$ ב. $3\frac{1}{12}$ יח"ש.

8) $57\frac{1}{6}$ יח"ש.

9) $20\frac{5}{6}$ יח"ש.

10) $21\frac{1}{3}$ יח"ש.

11) א. $(4,0)$, $(1,3)$ ב. $2\frac{5}{11}$.

12) א. $(2,5)$, $(0,5)$, $(-2,5)$ ב. 8 יח"ש.

13) 0.5 יח"ש.

14) א. $f(x)=\text{I}$, $g(x)=\text{II}$ ב. הוכחה.

15) $\frac{2}{3}$ יח"ש.

16) א. $(2,2)$ ב. $(1,3)$ ג. $3\frac{5}{6}$ יח"ש.

17) א. $x=2$, $x=-2$ ב. $(1,11)$ ג. $25\frac{1}{3}$ יח"ש.

18) 18 יח"ש.

19) א. $\frac{4}{3}$ יח"ש ב. $1\frac{7}{12}$ יח"ש.

20) $16\frac{1}{3}$ יח"ש.

21) א. $y=-x$ ב. $(-3,3)$ ג. $7\frac{5}{6}$ יח"ש.

22) $\frac{1}{6}$ יח"ש.

23) א. $y=-4x+4$ ב. $(1,0)$ ג. $\frac{2}{3}$ יח"ש.

24) א. $y=-x+4$ ב. $2\frac{2}{3}$ יח"ש. ג. $\frac{2}{3}$ יח"ש.

חישובי שטחים יסודיים עם פרמטרים:

שאלות:

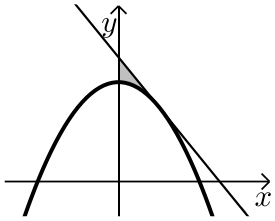

25) נתונה הפרבולה: $y=ax^2+8$.
שיפוע המשיק לגרף הפרבולה בנקודה שבה $x=2$ הוא 2-.
א. חשב את a.
ב. חשב את השטח המוגבל על ידי המשיק, הפרבולה וציר y.

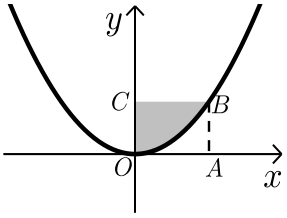

26) הפונקציה המתוארת בשרטוט היא: $y=ax^2$, (a פרמטר).
המרובע ABCO הוא ריבוע.
הקדקוד B נמצא על גרף הפונקציה.
ידוע כי אורך צלע הריבוע היא 2 יחידות.
מצא את ערך הפרמטר a ואת השטח המסומן בסרטוט.

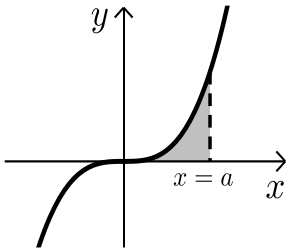

27) נתונה הפונקציה $y=x^3$.
מעבירים אנך לציר ה-x: $x=a$ (a פרמטר חיובי)
כך שנוצר שטח הכלוא בין האנך, גרף הפונקציה וציר ה-x.
א. הבע באמצעות a את השטח המקווקו בציור.
ב. חשב את a אם ידוע כי שטח זה שווה ל-a^2.

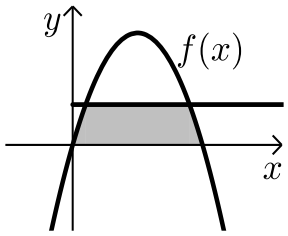

28) נתונה הפונקציה: $f(x)=kx-x^2$.
הישר $y=9$ חותך את גרף הפונקציה בשתי נקודות.
ידוע כי שיעור ה-x של אחת מנקודות החיתוך הוא $x=9$.
א. מצא את ערך הפרמטר k.
ב. מצא את נקודת החיתוך השנייה בין שני הגרפים.
ג. חשב את השטח המוגבל בין גרף הפונקציה, הישר וציר ה-x (השטח המסומן).

תשובות סופיות:

25) א. $a=-\frac{1}{2}$ ב. $\frac{4}{3}$ יח"ש.

26) $a=\frac{1}{2}$, $2\frac{2}{3}$ יח"ש.

27) א. $\frac{a^4}{4}$ ב. $a=2$.

28) א. $k=10$ ב. $(1,9)$ ג. $81\frac{1}{3}$ יח"ש.

חישובי שטחים כאשר נתונה נגזרת הפונקציה:

שאלות:

29) נגזרת הפונקציה $f(x)$ היא: $f'(x)=3x^2-8x-12$.
הישר $y=5$ חותך את גרף הפונקציה $f(x)$
על ציר ה- y.

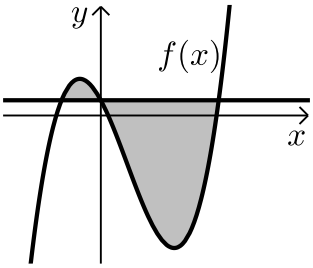

א. מצא את הפונקציה $f(x)$.

ב. מצא את השטח המוגבל בין הישר והפונקציה.

30) הנגזרת של הפונקציה $f(x)$ המתוארת באיור שלפניך היא: $f'(x)=3-2x$.
ישר AB שמשוואתו: $y=6$ חותך את גרף
הפונקציה $f(x)$ בנקודות A ו-B.
מנקודות אלו מורידים אנכים לציר ה- x
כך שנוצר מלבן ABCD.
ידוע ששיעור ה- x של הנקודה A הוא 4.

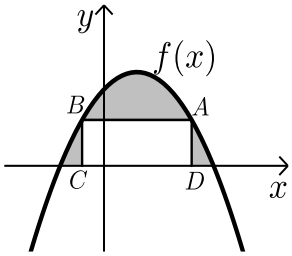

א. מצא את הפונקציה $f(x)$.

ב. חשב את השטח הכלוא בין גרף הפונקציה, המלבן וציר ה- x.

31) באיור שלפניך מתוארות הפונקציות שנגזרותיהן: $f'(x)=4-2x$, $g'(x)=-2x+1$.
ידוע ששתי הפונקציות חותכות את ציר ה- x כאשר: $x=4$.

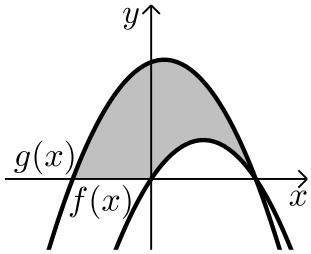

א. מצא את הפונקציות.

ב. חשב את השטח המוגבל בין הגרפים של שתי הפונקציות וציר ה- x (המסומן).

32) נתונה פונקציה $f(x)$.
משוואת המשיק לפונקציה $f(x)$ בנקודה שבה: $x=-2$ היא: $y=x+13$.
הנגזרת של הפונקציה היא: $f'(x)=-4x-7$.

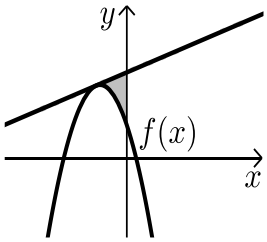

א. מצא את הפונקציה $f(x)$.

ב. חשב את השטח הכלוא בין המשיק, גרף הפונקציה וציר ה- y.

33) נתונה פונקציה $f(x)$ שנגזרתה היא: $f'(x)=3x^2-6x-9$.
ישר ששיפועו 15 משיק לפונקציה ברביע הרביעי בנקודה שבה: $y=-20$.

א. מצא את הפונקציה $f(x)$.

ב. האם יש עוד משיקים לגרף הפונקציה בעלי שיפוע 15?
אם כן- מצא אותם.

ג. ענה על הסעיפים הבאים:

i. הראה כי הנקודה שבה $x=7$ משותפת למשיק שמצאת בסעיף הקודם ולפונקציה $f(x)$.

ii. מצא את השטח הכלוא בין גרף הפונקציה והמשיק שמצאת בסעיף הקודם (ראה איור).

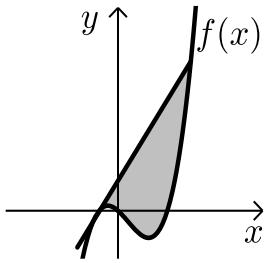

34) באיור שלפניך חותך גרף הפונקציה: $f(x)=x^2$
את גרף הפונקציה $g(x)$ בנקודה שבה $x=2$.
הנגזרת של הפונקציה $g(x)$ היא: $g'(x)=2x-8$.

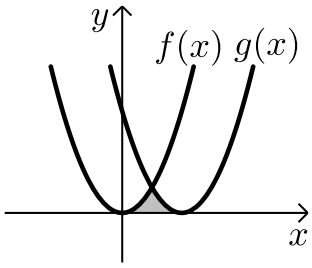

א. מצא את הפונקציה $g(x)$.

ב. חשב את השטח הכלוא בין שני הגרפים וציר ה-x (המסומן).

35) באיור שלפניך מתוארים גרף הפונקציה $f(x)$ והישר $y=2x$.
נגזרת הפונקציה $f(x)$ היא: $f'(x)=2x-6$
וידוע כי הישר חותך את הפונקציה בנקודה שבה ערך ה-y הוא 16.

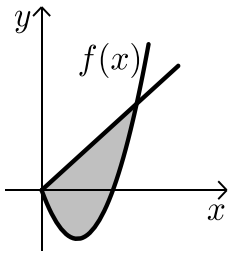

א. מצא את הפונקציה $f(x)$.

ב. האם יש לגרף הפונקציה ולישר עוד נקודות חיתוך? אם כן מצא אותן.

ג. חשב את השטח המוגבל בין גרף הפונקציה והישר.

תשובות סופיות:

29) א. $f(x)=x^3-4x^2-12x+5$ ב. $189\frac{1}{3}$ יח"ש.

30) א. $f(x)=-x^2+3x+10$ ב. $27\frac{1}{6}$ יח"ש.

31) א. $f(x)=4x-x^2$, $g(x)=-x^2+x+12$ ב. 46.5 יח"ש.

32) א. $f(x)=-2x^2-7x+5$ ב. $5\frac{1}{3}$ יח"ש.

33) א. $f(x)=x^3-3x^2-9x$ ב. $y=15x+28$

ג. i. $(7,133)$ ג. ii. 546.75 יח"ש.

34) א. $g(x)=(x-4)^2$ ב. $5\frac{1}{3}$ יח"ש.

35) א. $f(x)=x^2-6x$ ב. $(0,0)$ ג. $85\frac{1}{3}$ יח"ש.

חישובי שטחים עם פונקציה רציונאלית:

שאלות:

1) נתונות שתי פונקציות: $g(x)=x$, $f(x)=\frac{1}{x^2}$.
חשב את גודל השטח הכלוא בין הפונקציות,
הישר $x=2$ וציר ה-x .

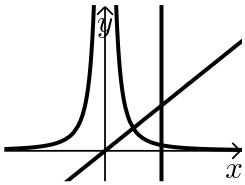

2) ענה על הסעיפים הבאים:

א. מבין כל המשיקים לגרף הפונקציה: $f(x)=\frac{2}{x^2}-\frac{1}{x^3}$
מצא את משוואת המשיק ששיפועו מינימלי.

ב. באיור שלפניך מתוארים הגרפים של הפונקציה
והמשיק שמצאת בסעיף א'.
חשב את השטח הכלוא בין גרף הפונקציה,
המשיק ואנך לציר ה-x היוצא מנקודת החיתוך
של המשיק עם ציר ה-x .

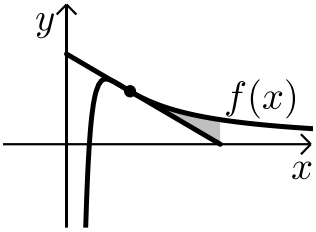

3) נתונות שתי פונקציות: $g(x)=\frac{x^2+2x}{x+2}$, $f(x)=\frac{1}{x^2}$.
חשב את גודל השטח הכלוא בין הפונקציות,
הישר $x=2$ וציר ה-x .

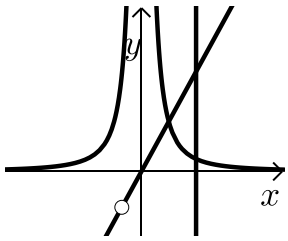

4) באיור שלפניך מתוארים הגרפים של הפונקציות: $f(x)=2x^2$ ו- $g(x)=\frac{a}{x^2}$
(a קבוע) בתחום: $x>0$.
ידוע כי הגרפים נחתכים ברביע הראשון בנקודה
הנמצאת על הישר: $y=4x$.

א. מצא את נקודת החיתוך של הגרפים ואת a .

ב. חשב את השטח המוגבל בין שני הגרפים, ציר ה-x
והישר: $x=4$.

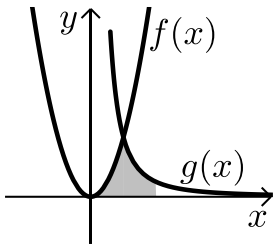

5) גרף הפונקציה: $f(x)=\frac{a-x^2}{x^2}$ (a קבוע) חותך את ציר ה-x בנקודה $(6,0)$.

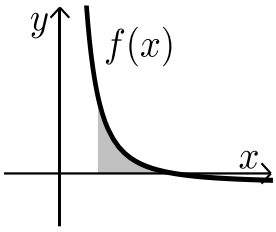

א. מצא את a וכתוב את הפונקציה.

ב. חשב את השטח המוגבל בין גרף הפונקציה, ציר ה-x והישר: $x=2$.

6) נתונה הפונקציה: $f(x)=\frac{A}{(2x+A)^2}$ (A פרמטר חיובי).

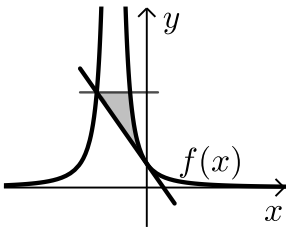

ידוע כי שיפוע הפונקציה בנקודת החיתוך שלה עם ציר ה-y הוא: $-\frac{1}{9}$.

א. מצא את ערך הפרמטר A.

ב. כתוב את משוואת המשיק לגרף הפונקציה בנקודת החיתוך עם ציר ה-y.

ג. הראה כי המשיק חותך את גרף הפונקציה בנקודה שבה: $x=-4.5$.

ד. העבר ישר אופקי מנקודת החיתוך של המשיק וגרף הפונקציה מהסעיף הקודם. מצא את נקודת החיתוך הנוספת של ישר זה עם גרף הפונקציה.

ה. חשב את השטח כלוא בין המשיק, הישר וגרף הפונקציה (היעזר באיור).

תשובות סופיות:

1) 1 יח"ש.

2) א. $y=-x+2$ ב. $\frac{1}{8}$ יח"ש.

3) 1 יח"ש.

4) א. $a=32$, $(2,8)$ ב. $13\frac{1}{3}$ יח"ש.

5) א. $a=36$, $f(x)=\frac{36-x^2}{x^2}$ ב. 8 יח"ש.

6) א. $A=6$ ב. $y=-\frac{1}{9}x+\frac{1}{6}$ ג. הוכחה.

ד. $\left(-1.5,\frac{2}{3}\right)$ ה. $\frac{5}{8}$ יח"ש.

חישובי שטחים עם פונקצית שורש:

שאלות:

1) באיור שלפניך נתונה הפונקציה: $f(x)=\frac{3}{\sqrt{x}}+x$.
מעבירים ישר: $y=4x$ החותך את גרף הפונקציה בנקודה A המסומנת באיור.

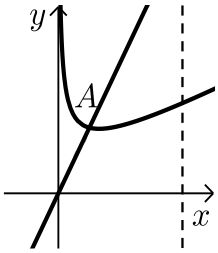

א. מצא את שיעורי הנקודה A.
ב. חשב את השטח הכלוא בין גרף הפונקציה $f(x)$, הישר $y=4x$, ציר ה-x ואנך לציר ה-x: $x=4$.

2) באיור שלפניך נתונה הפונקציה: $f(x)=\frac{1}{\sqrt{2x}}+x$.

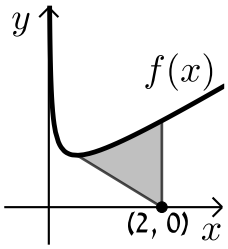

א. מצא את נקודת המינימום שלה.
ב. מנקודת המינימום של הפונקציה מעבירים ישר לנקודה $(2,0)$ שעל ציר ה-x.
מצא את השטח הכלוא בין גרף הפונקציה, הישר ואנך לציר ה-x היוצא מהנקודה $(2,0)$ עד לנקודת החיתוך עם גרף הפונקציה.

3) באיור הבא מתוארים הגרפים של הפונקציות: $f(x)=\frac{16}{\sqrt{x}}$ ו-$g(x)=2x$.

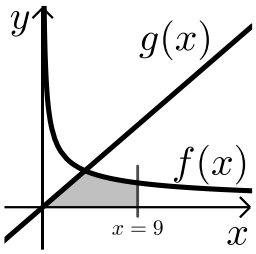

א. מצא את נקודת החיתוך של הגרפים.
ב. חשב את השטח המוגבל בין שני הגרפים, ציר ה-x והישר $x=9$.

4) נתונה הפונקציה: $f(x)=(x-6)\sqrt{x}$.
חשב את גודל השטח הכלוא בין הפונקציה, המשיק לפונקציה בנקודת המינימום שלה וציר ה-y.

5) נתונה הפונקציה $f(x)=\frac{x}{\sqrt{x^2+1}}$ ברביע הראשון.
לפונקציה העבירו משיק העובר בראשית הצירים.
חשב את גודל השטח הכלוא בין הפונקציה,
המשיק והישר $x=\sqrt{3}$.

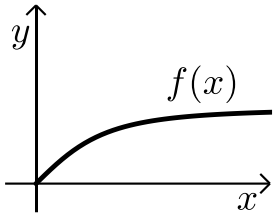

6) באיור שלפניך מתואר גרף הפונקציה: $f(x)=1-\frac{1}{\sqrt{x}}$.
מעבירים שני אנכים לציר ה-x והם: $x=4$
ו-$x=t$ $(t>4)$. נסמן:
S_1 - השטח הכלוא בין גרף הפונקציה וציר ה-x.
S_2 - השטח הכלוא בין גרף הפונקציה, ציר ה-x והאנכים.
ידוע כי: $8S_1=S_2$. מצא את t.

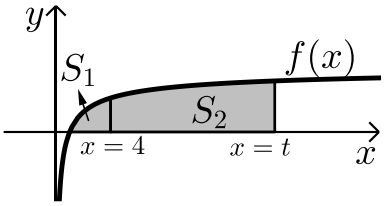

7) נתונה הפונקציה: $f(x)=\frac{x\sqrt{x}-8}{\sqrt{x}}$.

א. ענה על הסעיפים הבאים:
i. מצא את תחום ההגדרה של הפונקציה.
ii. מצא את נקודת החיתוך של הפונקציה עם ציר ה-x.
iii. הראה כי הפונקציה עולה בכל תחום הגדרתה.

ב. מעבירים משיק לגרף הפונקציה ששיפועו הוא: $m=\frac{17}{16}$. מצא את נקודת ההשקה.

ג. חשב את השטח הכלוא בין גרף הפונקציה, ציר ה-x ואנך לציר ה-x מנקודת ההשקה שמצאת בסעיף הקודם.

8) נתונות שתי פונקציות: $g(x)=\sqrt{2x}$, $f(x)=\sqrt{x+b}$ $(b>0)$
גודל השטח הכלוא בין הפונקציות וציר ה-x הוא $2\frac{2}{3}$ יח"ש.
מצא את ערכו של הפרמטר b.

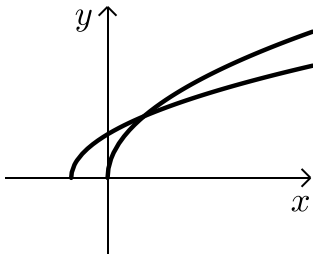

9) באיור שלפניך מתוארים הגרפים של הפונקציות: $f(x)=x^2$
ו- $g(x)=\frac{32}{\sqrt{x}}$ ברביע הראשון.
מעבירים ישר $x=a$ החותך את גרף הפונקציה $g(x)$
ויוצר את השטח הכלוא בין שני הגרפים, ציר ה- x והישר.
ידוע כי שטח זה שווה ל- $S=85\frac{1}{3}$.
מצא את a.

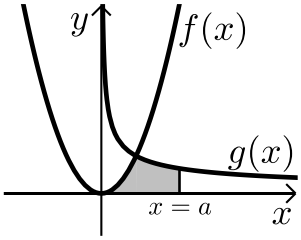

10) באיור שלפניך מתוארים הגרפים של הפונקציות: $f(x)=\frac{3}{\sqrt{x}}$ ו- $g(x)=-\frac{3}{\sqrt{x}}$.
מעבירים שני ישרים: $x=k$ ו- $x=t$ אשר חותכים את הגרפים
של הפונקציות ויוצרים את הקטעים AB ו-CD.
ידוע כי: 2CD=AB.

א. הראה כי: $k=4t$.

ב. השטח הכלוא בין הגרפים של הפונקציות
והישרים: $x=k$ ו- $x=t$ הוא: $S=12$.
מצא את t.

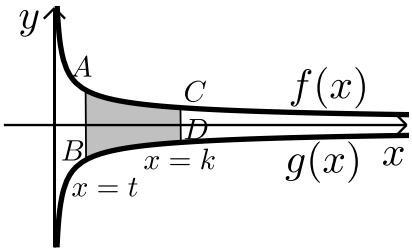

11) ענה על הסעיפים הבאים:

א. מצא עבור איזה ערך של a, $(a>1)$ יתקיים: $\int_1^a\left(\frac{3}{\sqrt{2x-1}}-1\right)dx=0$.

ב. באיור שלפניך מתואר גרף הפונקציה: $f(x)=\frac{3}{\sqrt{2x-1}}-1$.
מעבירים שני אנכים לציר ה- x והם: $x=1$ ו- $x=13$
כך שנוצרים השטחים S_1 ו- S_2.
מצא את נקודת החיתוך של הפונקציה עם ציר ה- x

ג. ענה על הסעיפים הבאים:

i. חשב את השטח הכלוא בין גרף הפונקציה,
ציר ה- x והאנך $x=1$, (S_1).

ii. היעזר בתוצאה שקיבלת ובסעיף א' וקבע לכמה שווה השטח S_2.
נמק את טענתך.

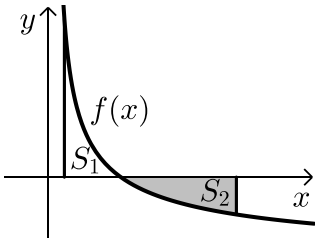

12) באיור שלפניך מתוארת הפונקציה: $f(x)=\frac{9}{\sqrt{2x-1}}$

מעבירים את הישרים המקבילים לצירים: $x=13$

ו- $y=3$ כך שנוצר המלבן ABCD כמתואר באיור.

הישר $y=3$ חותך את גרף הפונקציה בנקודה M.

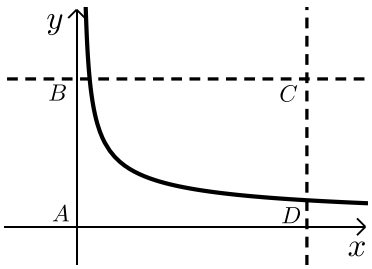

א. מצא את שיעורי הנקודה M.

ב. מסמנים את השטח הכלוא בין גרף הפונקציה והישרים ב- S_1 ואת שטח המלבן ב- S_2.

הראה כי: $\frac{S_1}{S_2}=\frac{2}{13}$.

תשובות סופיות:

1) א. $A(1,4)$ ב. 15.5 יח"ש.

2) א. $\min(0.5,1.5)$ ב. 1.75 יח"ש.

3) א. $(4,8)$ ב. 48 יח"ש.

4) 2.26 יח"ש.

5) 0.5 יח"ש

6) $t=16$.

7) א. i. $x>0$ ii. $(4,0)$ iii. $f'(x)=1+\frac{4}{x\sqrt{x}}>0$

ב. $(16,14)$ ג. 88 יח"ש.

8) $b=2$.

9) $a=9$.

10) א. הוכחה ב. $t=1$.

11) א. $a=13$ ב. $(5,0)$ ג. i. $S_1=2$ ii. $S_2=|-S_1|=2$.

12) א. $M(5,3)$.

חישובי שטחים עם פונקציות טריגונומטריות:

שאלות:

1) נתונות הפונקציות: $f(x)=\sin x$, $g(x)=\cos x$.
חשב את גודל השטח הכלוא בין הפונקציות לציר ה- y ברביע הראשון.

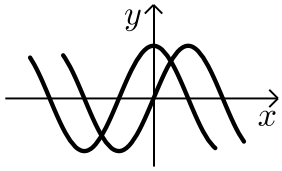

2) נתונה הפונקציה: $f(x)=x+2\sin x$.
בתחום שבין ראשית הצירים לנקודת המקסימום הראשונה מימינה העבירו לפונקציה משיק ששיפועו 1.

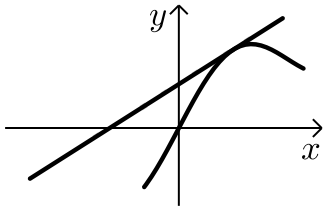

א. מצא את משוואת המשיק.

ב. חשב את גודל השטח הכלוא בין הפונקציה, המשיק וציר ה- x ברביעים הראשון והשני.

3) באיור שלפניך מתואר גרף הפונקציה: $f(x)=\frac{\sin 2x+1}{2}$
בתחום: $-0.25\pi \le x \le 1.75\pi$ מעבירים משיק AB דרך נקודת המקסימום של הפונקציה ומעלים אנך לציר ה- x מנקודת החיתוך הראשונה של גרף הפונקציה עם ציר ה- x בתחום הנתון המסומנת ב-C כך שנוצר המלבן ABCO.
השטח הכלוא בין גרף הפונקציה והצירים יסומן ב- S_1 (ראה סימון בציור).
השטח הכלוא בין צלעות המלבן, גרף הפונקציה וציר ה- y יסומן ב- S_2 .

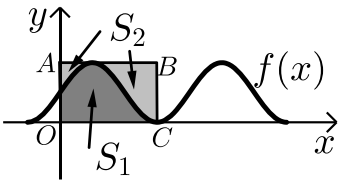

א. מצא את משוואת הצלע AB של המלבן.

ב. חשב את היחס: $\frac{S_1}{S_2}$.

4) באיור שלפניך נתונה הפונקציה: $y=\sin x+x$ בתחום: $0\le x\le 2\pi$.

א. האם יש לפונקציה נקודות קיצון פנימיות בתחום הנתון?

ב. מורידים אנך מגרף הפונקציה לציר ה- x בנקודה שבה: $x=2\pi$.
מעבירים ישר המקביל לציר ה- x מהנקודה שמאפסת את הנגזרת.
הראה כי השטחים S_1 ו- S_2 המסומנים בסרטוט שווים.

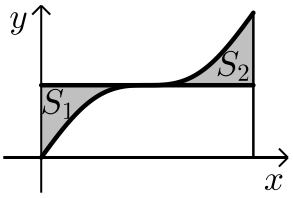

5) באיור שלפניך מתוארים הגרפים של הפונקציה
הבאות: $f(x)=\cos^2 x$ ו- $g(x)=\sin^2 x+\cos x$
בתחום: $0\le x\le \pi$.

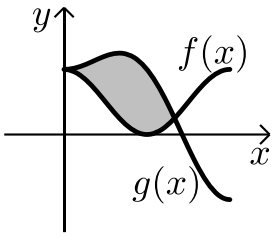

א. מצא את נקודות החיתוך של הגרפים בתחום הנתון.
ב. חשב את השטח הכלוא בין שני הגרפים.
השתמש בזהות: $\cos 2\alpha=\cos^2\alpha-\sin^2\alpha$.

6) הנגזרת של הפונקציה $f(x)$ היא: $f'(x)=-\cos 2x-\sin x$.

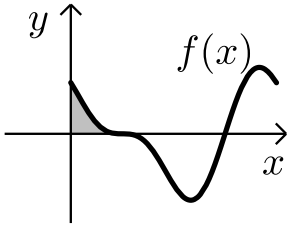

א. מצא את שיעורי ה-x של הנקודות
המקיימות: $f'(x)=0$ בתחום: $0<x<2\pi$.
ידוע כי הנקודה המקיימת $f'(x)=0$ אשר אינה
קיצון נמצאת על ציר ה-x.
ב. מצא את הפונקציה $f(x)$.
ג. באיור שלפניך מתואר גרף הפונקציה בתחום הנתון.
חשב את השטח הכלוא בין גרף הפונקציה והצירים.

7) ענה על הסעיפים הבאים:

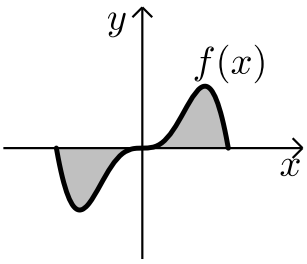

א. נתונה הפונקציה: $y=-x^2\cos x+2x\sin x+2\cos x$
הוכח כי הנגזרת של הפונקציה היא: $y'=x^2\sin x$
באיור שלפניך נתונה הפונקציה: $f(x)=x^2\sin x$
בתחום: $-\pi\le x\le \pi$.
ב. הראה כי גרף הפונקציה עובר בראשית הצירים.
ג. חשב את השטח הכלוא בין גרף הפונקציה
וציר ה-x בתחום הנתון.

8) נתונה הפונקציה: $f(x)=a\cos x+b\sin x$, a,b פרמטרים.
הפונקציה חותכת את ציר ה-x בנקודה שבה $x=\frac{\pi}{4}$ והיא חיובית בתחום $\left[0,\frac{\pi}{4}\right]$.
גודל השטח הכלוא מתחת לפונקציה בתחום $\left[0,\frac{\pi}{4}\right]$ הוא $2\sqrt{2}-2$.
מצא את ערכי הפרמטרים a ו- b.

תשובות סופיות:

1) 0.41 יח"ש.

2) א. $y=x+2$ ב. π יח"ש.

3) א. $y=1$ ב. $\frac{S_1}{S_2}=\frac{3\pi+2}{3\pi-2}=1.538$.

4) א. אין נקודת קיצון, הנקודה (π,π) היא נקודת פיתול.

ב. $S=0.5\pi^2-2=2.934$.

5) א. $\left(\frac{2\pi}{3},\frac{1}{4}\right)$, $(0,1)$ ב. $S=1.5\frac{\sqrt{3}}{2}=1.299$.

6) א. $x=\frac{\pi}{2}$, $\frac{7\pi}{6}$, $\frac{11\pi}{6}$ ב. $f(x)=-\frac{1}{2}\sin 2x+\cos x$ ג. $\frac{1}{2}$ יח"ש.

7) א. הוכחה ב. הוכחה ג. $S=2(\pi^2-4)\approx 11.74$.

8) $a=2$, $b=-2$.

חישובי שטחים בין גרף הנגזרת והצירים:

שאלות:

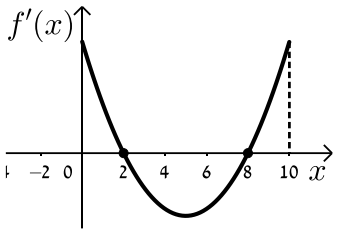

1) הפונקציה $f(x)$ מוגדרת בתחום $0 \le x \le 10$.

בציור מתואר גרף הנגזרת $f'(x)$.

א. סרטט סקיצה של גרף הפונקציה $f(x)$

אם: $f(2)=6$, $f(0)=-4$, $f(5)=0$ וכן: $f(10)>0$.

ב. חשב את השטח המוגבל ע"י **גרף הנגזרת** **והצירים** ברביע הראשון עד לנקודה שבה $x=2$.

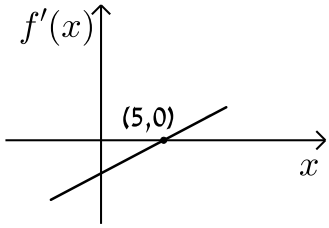

2) לפניך הגרף של הפונקציה $f'(x)$.

הגרף המתואר חותך את ציר ה-x בנקודה אחת בלבד והיא $(5,0)$.

א. מצא את התחומים שבהם $f'(x)$ היא חיובית ואת התחומים שבהם היא שלילית.

ב. קבע מהם תחומי העלייה והירידה של הפונקציה $f(x)$.

ג. כתוב את נקודת הקיצון של הפונקציה $f(x)$ אם ידוע כי שיעור ה-y שלה הוא 2-.

ד. סרטט סקיצה של גרף הפונקציה $f(x)$ אם ידוע כי גרף הפונקציה חותך את ציר ה-y כאשר $y=8$.

ה. חשב את השטח הכלוא בין גרף הנגזרת $f'(x)$ והצירים.

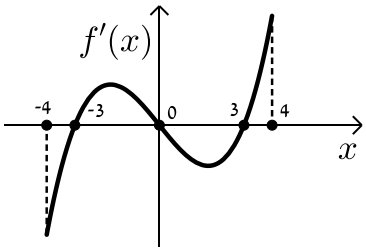

3) בציור מתואר גרף הנגזרת $f'(x)$ של הפונקציה $f(x)$.

א. רשום את תחומי העלייה והירידה של $f(x)$.

ב. מצא את שיעורי ה-x של נקודות הקיצון של $f(x)$ וקבע את סוגן.

ג. נתון כי הפונקציה $f(x)$ עוברת בראשית הצירים וגם מקיימת: $f(-3)=f(3)=m$.

סרטט סקיצה של גרף הפונקציה $f(x)$ בתחום הנ"ל (הבע באמצעות m).

ד. השטח הכלוא בין גרף הנגזרת $f'(x)$ וציר ה-x ברביעים השני והרביעי הוא 16 יח"ש. מצא את m.

4) הנגזרת $f'(x)$ של הפונקציה $f(x)$ מתוארת באיור הבא.

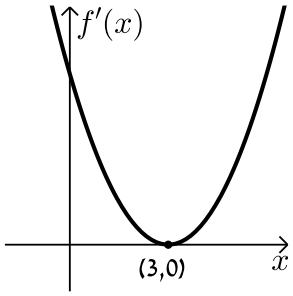

א. האם ל-$f(x)$ יש נקודות קיצון? נמק.

ב. סרטט סקיצה של גרף הפונקציה $f(x)$
אם ידוע כי $f(3)=4$ וכי היא חותכת את ציר ה-y בנקודה שבה $y=-5$.

ג. חשב את השטח הכלוא בין גרף הנגזרת $f'(x)$ והצירים ברביע הראשון.

5) באיור שלפניך מתואר גרף הנגזרת $f'(x)$ של הפונקציה $f(x)$.

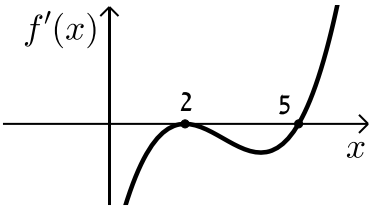

ידוע כי הנקודות $A(5,-4.75)$, $B(2,2)$
ו-$C(0,14)$ נמצאות על $f(x)$.

א. מצא את נקודת הקיצון של הפונקציה $f(x)$.

ב. כתוב את תחומי העלייה והירידה של $f(x)$.

ג. סרטט סקיצה של גרף הפונקציה $f(x)$.

ד. חשב את השטח מוגבל בין גרף הנגזרת $f'(x)$ והצירים בתחום $0\le x\le 5$.

6) באיורים שלפניך מתוארים הגרפים של הפונקציות $f(x)$ ו-$f'(x)$:

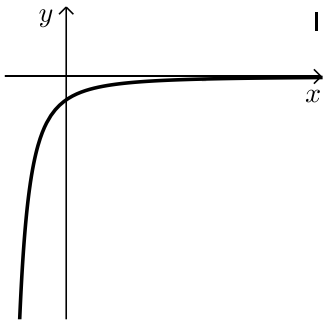

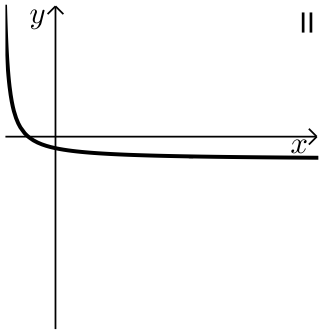

א. זהה איזה גרף שייך לאיזו פונקציה ונמק.

ב. נתון כי $f(10)=-3$ וכי $f(x)$ חותכת את ציר ה-y בנקודה שבה $y=-2$.
מהו השטח המוגבל בין גרף הנגזרת $f'(x)$, הצירים והישר $x=10$?

7) נתון גרף הנגזרת $f'(x)$ הבא:

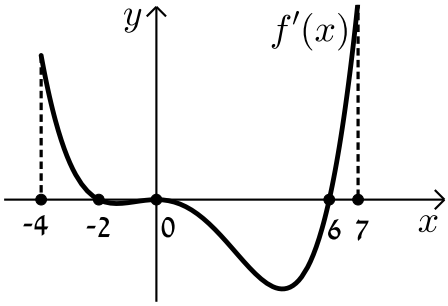

א. סרטט את גרף הפונקציה $f(x)$ בתחום $-4 \le x \le 7$ לפי הנתונים: $f(0)=-2$, $f(-2)=7.6$ ו- $f(6)=-606.8$.

ב. חשב את השטח המוגבל בין גרף הנגזרת וציר ה- x ברביע השלישי.

ג. חשב את השטח המוגבל בין גרף הנגזרת וציר ה- x ברביע הרביעי.

8) נתון גרף הנגזרת $f'(x)$ הבא:

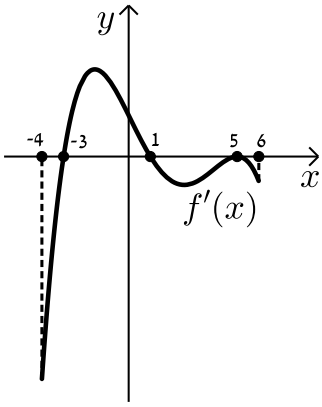

א. סרטט את גרף הפונקציה $f(x)$ בתחום $-4 \le x \le 6$ עבור הנתונים: $f(5)=-83\frac{1}{3}$, $f(1)=36\frac{2}{15}$, $f(-3)=-356\frac{2}{5}$.

ב. חשב את כלל השטח הכלוא בין גרף הנגזרת וציר ה- x בתחום: $-3 \le x \le 5$.

9) בציור שלפניך מתואר גרף הפונקציה $f(x)$ בתחום $0<x<7$:

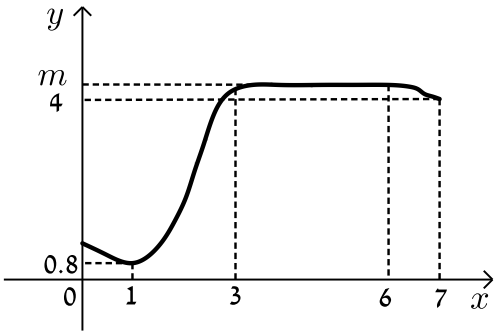

הסתמך על הגרף של $f(x)$ ועל הערכים הרשומים על הציר ים
וענה על השאלות הבאות:

א. מצא עבור אילו ערכים של x השונים מ-6 מתקיים:

i. $f'(x)>0$

ii. $f'(x)=0$

iii. $f'(x)<0$

ב. נתון כי: $\int_3^6 m\,dx=15$, כאשר m הוא פרמטר המסומן על ציר ה-y.

מצא את $f(5)$.

ג. סרטט סקיצה של גרף פונקצית הנגזרת $f'(x)$ בתחום $0<x<3$.

ד. מצא את השטח המוגבל בין הגרף של פונקצית הנגזרת $f'(x)$
וציר ה-x בתחום $1<x<3$.

10) בסרטוט נתונים הגרפים של פונקציה ושל נגזרתה.

א. קבע איזה מהגרפים, I או II, שייך לפונקציה ואיזה שייך לנגזרת. נמק.

ב. כמה נקודות פיתול יש לפונקציה? נמק וסמן אותן על הסרטוט.

ג. נתון: $P(-2,4)$, $Q(2,1)$. מצא את גודלו של השטח הכלוא בין גרף I
לציר ה-x (השטח המסומן בסרטוט).

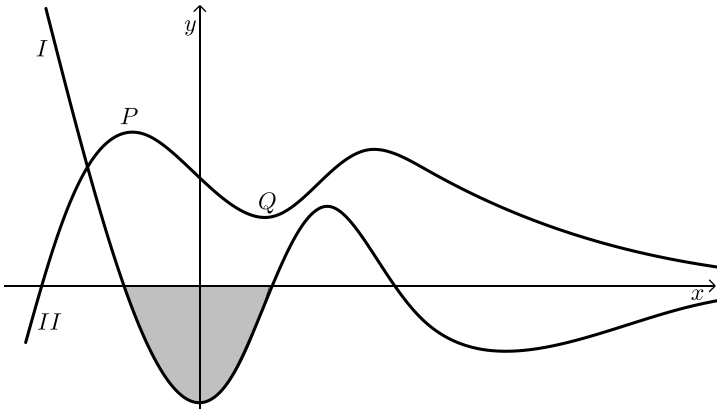

תשובות סופיות:

הערה: סרטוטי הסקיצות מופיעות במרוכז בעמוד הבא.

1) ב. 10 יח"ש.

2) א. חיובית: $x>5$, שלילית: $x<5$. ב. עולה: $x>5$, יורדת: $x<5$

ג. $\min(5,-2)$ ד. הוכחה. ה. 10 יח"ש.

3) א. עולה: $3<x\le 4$, $-3<x<0$, יורדת: $0<x<3$, $-4\le x<-3$

ב. $x_{\min}=3$, $x_{\max}=0$, $x_{\min}=-3$. ג. הוכחה. ד. $m=-8$

4) א. לא. הנקודה $(3,0)$ היא פיתול מכיוון שהפונקציה עולה לפניה ואחריה.

ב. הוכחה. ג. 9 יח"ש.

5) א. $\min(5,-4.75)$. ב. עולה: $x>5$, יורדת: $x<5$.

ג. הוכחה. ד. 18.75 יח"ש.

6) א. $f'(x):\mathrm{I}$, $f(x):\mathrm{II}$ ב. 1 יח"ש.

7) א. הוכחה. ב. 9.6 יח"ש. ג. 604.8 יח"ש.

8) א. הוכחה. ב. 512 יח"ש.

9) א. i. $f'(x)>0:1<x<3$ א. ii. $f'(x)=0:\ x=1\ ,\ 3\le x<6$

א. iii. $f'(x)<0:\ 6<x<7\ ,\ 0<x<1$

ב. $f(5)=5\ ,\ m=5$ ד. 4.2 יח"ש.

10) א. גרף I - $f'(x)$ וגרף II - $f(x)$. ב. 3 נקודות פיתול.

ג. 3 יח"ש.

סרטוטי גרפים לפי מספרי שאלות:

(1

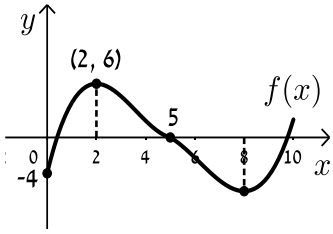

(2

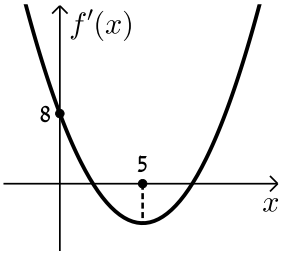

(3

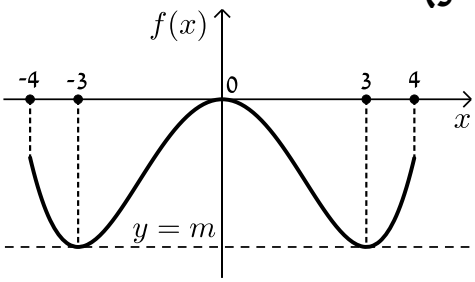

(4

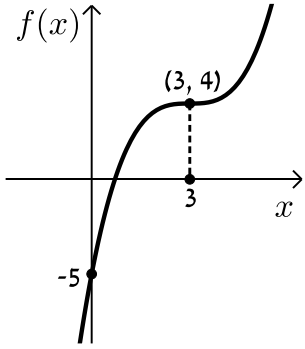

(5

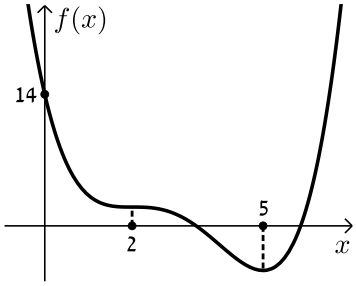

(7

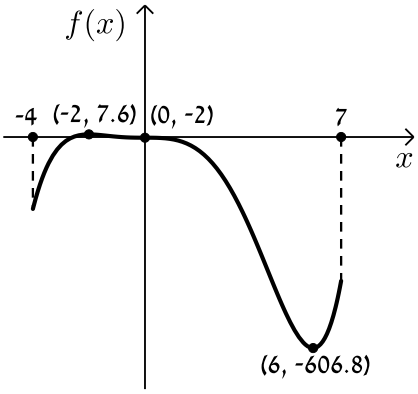

(8

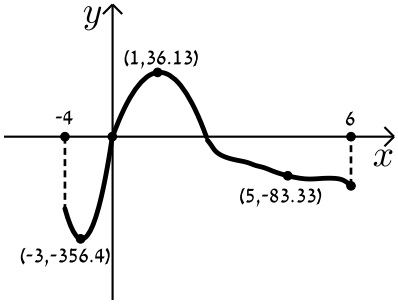

(9

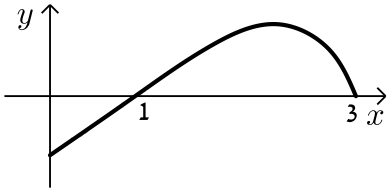

מכינה במתמטיקה לתלמידי כלכלה

פרק 25 - חשבון אינטגרלי - פונקציה מעריכית, לוגריתמית וחזקה

תוכן העניינים

1. פונקציה מעריכית 351
2. פונקציה לוגריתמית 357
3. פונקצית חזקה עם מעריך רציונאלי 363

פונקציה מעריכית:

סיכום כללי:

אינטגרלים מיידים של פונקציות מעריכיות:

אינטגרלים של פונקציות מורכבות	אינטגרלים יסודיים
$\int a^{mx+n}dx=\frac{a^{mx+n}}{m\cdot\ln a}+c$	$\int a^{x}dx=\frac{a^{x}}{\ln a}+c$
$\int e^{mx+n}dx=\frac{e^{mx+n}}{m}+c$	$\int e^{x}dx=e^{x}+c$

שאלות:

אינטגרל כללי:

1) חשב את האינטגרלים הבאים:

א. $\int\left(5e^{x}-e^{3x}+e^{-x}+1\right)dx$

ב. $\int\left(3^{x}+5^{2x}\right)dx$

ג. $\int\left(6\sqrt{e^{4x-1}}\right)dx$

ד. $\int\left(e^{x}+e^{-x}\right)^{2}dx$

2) חשב את האינטגרלים הבאים:

א. $\int\frac{e^{2x}-1}{e^{x}-1}dx$

ב. $\int\frac{3e^{3x}-5e^{2x}+4e^{x}-2}{e^{x}-1}dx$

3) חשב את האינטגרלים הבאים:

א. $\int\left(e^{4x}+e^{-x}\right)dx$

ב. $\int\left(e^{x+1}\right)^{2}dx$

ג. $\int\frac{2^{x}+4^{2x}+10^{3x}}{5^{x}}dx$

ד. $\int\left(4\sqrt{e^{x}}+\frac{1}{\sqrt[3]{e^{4x}}}\right)dx$

4) חשב את האינטגרלים הבאים:

א. $\int\left(\frac{e^x}{\sqrt{e^x+3}}\right)dx$ ב. $\int\left(\frac{3-e^x}{\left(e^x-3x\right)^2}\right)dx$ ג. $\int\left(xe^{x^2}\right)dx$

אינטגרל מסוים:

5) נתונה נגזרת של פונקציה: $f'(x)=2e^x-\frac{1}{e^x}$.

מצא את הפונקציה אם ידוע שהיא עוברת בנקודה $\left(\ln 2,3\frac{1}{4}\right)$.

6) נתונה נגזרת של פונקציה: $f'(x)=e^{2x}+e^x-2$.

מצא את הפונקציה אם ידוע שערך הפונקציה בנקודת המינימום שלה הוא $\frac{1}{2}$.

7) נתונה נגזרת של פונקציה: $f'(x)=6x^2e^{x^3}-\frac{1}{x^2}$.

מצא את הפונקציה אם ידוע שהיא עוברת בנקודה $\left(-1,\frac{2}{e}\right)$.

חישובי שטחים:

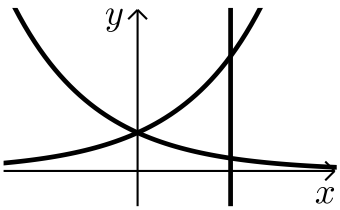

8) נתונות הפונקציות: $f(x)=e^x$, $g(x)=e^{-x}$.
מצא את גודל השטח הכלוא בין הפונקציות
לישר $x=\ln 3$.

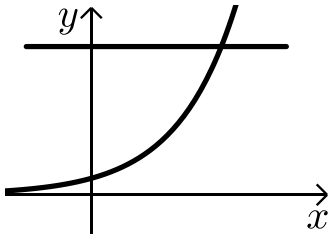

9) נתונה הפונקציה: $f(x)=3^x$.
מצא את גודל השטח הכלוא בין הפונקציה,
הישר $y=9$ וציר ה- y.

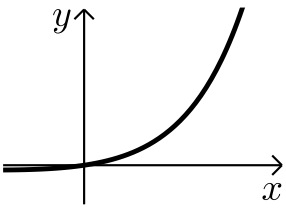

10) נתונה הפונקציה: $f(x)=e^{2x}-e^{x}$.
לפונקציה העבירו משיק בראשית הצירים.
מצא את גודל השטח הכלוא בין הפונקציה,
המשיק והישר $x=2$.

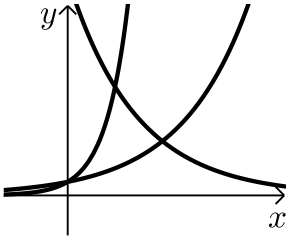

11) נתונות הפונקציות:
$f(x)=e^{x}$, $g(x)=e^{3x}$, $h(x)=16e^{-x}$.
חשב את גודל השטח הכלוא שבין שלוש הפונקציות.

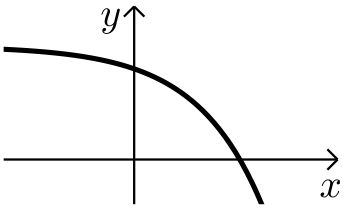

12) נתונה הפונקציה: $f(x)=5-e^{x}$.
העבירו לפונקציה משיק ששיפועו $-e$.
חשב את גודל השטח הכלוא בין
הפונקציה, המשיק וציר ה- x.
ניתן להשאיר e ו-ln בתשובה.

13) נתונה הפונקציה: $f(x)=e^{bx}$, $(0<b)$.
גודל השטח הכלוא בין הפונקציה, המשיק לפונקציה העובר
בראשית הצירים וציר ה- y הוא $\frac{e-2}{4}$.
מצא את ערכו של הפרמטר b.

14) נתונות הפונקציות: $g(x)=e^{-x}$, $f(x)=e^{\frac{1}{2}x}$.
מנקודה הנמצאת על גרף הפונקציה $g(x)$ ברביע הראשון הורידו אנך לשני
הצירים. המשך האנך לציר ה- y חותך את הפונקציה $f(x)$ ומנקודת החיתוך
יורד אנך נוסף לציר ה- x כך שנוצר מלבן.
הוכח כי שטחו המקסימלי של מלבן כזה הוא $\frac{3}{e}$.

15) באיור שלפניך מתוארים הגרפים של הפונקציות: $f(x)=e^{2x}$ ו- $g(x)=e^{-2x}$.
מעבירים אנך לציר ה- x את הישר $x=a$, $a>0$ כמתואר באיור.
אנך זה יוצר את השטחים S_1 ו- S_2.
ידוע כי השטח S_1 גדול פי 3 מהשטח S_2.
מצא את a.

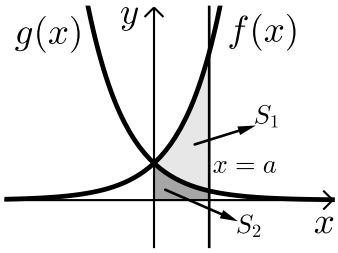

16) נתונה הפונקציה: $f(x)=e^{2x-1}-2ex-2$.
הנקודה A היא נקודת המינימום של הפונקציה.
א. מצא את שיעורי הנקודה A.
מחברים את הנקודה A עם ראשית הצירים.
ב. כתוב את משוואת הישר המחבר את הנקודה A עם הראשית.
ג. חשב את השטח הכלוא בין גרף הפונקציה, הישר וציר ה- x, אם ידוע כי גרף הפונקציה חותך את ציר ה- x בנקודה שבה $x=1.7$.

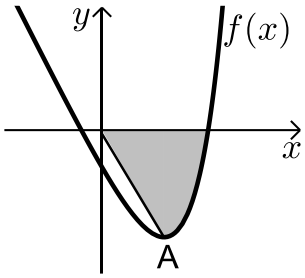

17) נתונה הפונקציה: $f(x)=\frac{e^x+e^{ax}}{4}$.
ידוע כי הפונקציה עוברת דרך הנקודה: $\left(1,\frac{e^3+1}{4e^2}\right)$.
א. מצא את a וכתוב את הפונקציה.
ב. באיור שלפניך מתואר גרף הפונקציה $f(x)$ והישר: $y=0.1x$.
חשב את השטח המוגבל בין גרף הפונקציה, הישר, ציר y והאנך: $x=2$.

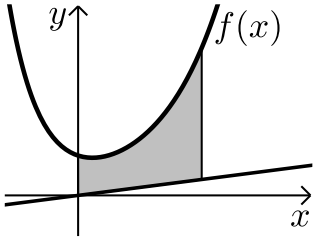

18) באיור שלפניך מתוארים הגרפים של שלוש פונקציות:
I. $f(x)=2^x$ II. $g(x)=4^x$ II. $h(x)=2^{4-2x}$
א. קבע איזה גרף מתאר כל פונקציה.
ב. מצא את שיעורי הנקודות A , B ו-C (נקודות החיתוך שבין הגרפים).
ג. חשב את השטח המסומן באיור.

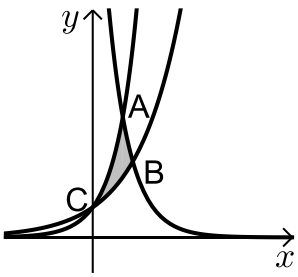

19) ענה על הסעיפים הבאים:

א. גזור את הפונקציה הבאה: $y=e^x(x-1)$.

ב. באיור שלפניך מתוארים הגרפים של הפונקציות: $g(x)=-e^x$, $f(x)=xe^x$.
מעבירים ישר $x=a$, $(a>0)$ החותך את הגרפים של שתי הפונקציות ויוצר את השטח המתואר הכלוא בין הגרפים של שניהם, ציר ה- y והישר.
ידוע כי שטח זה שווה ל- $2e^2$. מצא את a.

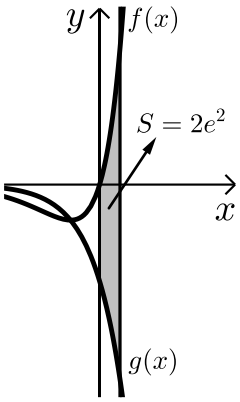

חישובי נפחים:

20) נתונות הפונקציות: $g(x)=e^{-x}$, $f(x)=e^x$.
השטח הכלוא בין הפונקציות והישר: $x=\ln 2$
מסתובב סביב ציר ה- x.
חשב את נפח גוף הסיבוב שנוצר.

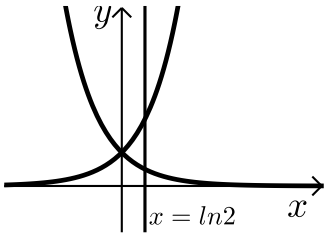

תשובות סופיות:

1) א. $5e^{x}-\frac{e^{3x}}{3}-e^{-x}+x+c$ ב. $\frac{3^{x}}{\ln 3}+\frac{5^{2x}}{2\ln 5}+c$

ג. $3e^{2x-\frac{1}{2}}+c$ ד. $\frac{1}{2}e^{2x}+2x-\frac{1}{2}e^{-2x}+c$

2) א. $e^{x}+x+c$ ב. $\frac{3e^{2x}}{2}-2e^{x}+2x+c$

3) א. $\frac{1}{4}e^{4x}-e^{-x}+c$ ב. $\frac{1}{2}e^{2x+2}+c$

ג. $\frac{0.4^{x}}{\ln 0.4}+\frac{3.2^{x}}{\ln 3.2}+\frac{200^{x}}{\ln 200}+c$ ד. $8\sqrt{e^{x}}-\frac{3}{4}e^{\frac{-4x}{3}}+c$

4) א. $2\sqrt{e^{x}+3}+c$ ב. $\frac{1}{e^{x}-3x}+c$ ג. $\frac{1}{2}e^{x^{2}}+c$

5) $f(x)=2e^{x}+e^{-x}-1.25$

6) $f(x)=\frac{1}{2}e^{2x}+e^{x}-2x-1$

7) $f(x)=2e^{x^{3}}+\frac{1}{x}+1$

8) $S=$ יח"ש $1\frac{1}{3}$

9) $S=$ יח"ש 10.72

10) $S=$ יח"ש 18.41

11) $S=$ יח"ש $3\frac{1}{3}$

12) $S=$ יח"ש 0.192

13) $b=2$

15) $a=\ln 2$

16) א. $A(1,-e-2)$ ב. $y=-(e+2)x$ ג. $S=$ יח"ש 4.744

17) א. $a=-2$, $f(x)=\frac{e^{x}+e^{-2x}}{4}$ ב. 1.52

18) ב. $C(0,1)$, $A(1,4)$, $B\left(1\frac{1}{3},2.52\right)$ ג. $S=$ יח"ש 1.03

19) א. $y'=xe^{x}$ ב. $a=2$

20) $1\frac{1}{8}\pi$ יח"נ.

פונקציה לוגריתמית:

סיכום כללי:

אינטגרלים מיידים של פונקציות לוגריתמיות:

אינטגרל של פונקציה מורכבת	אינטגרל יסודי
$\int \frac{1}{ax+b}dx = \frac{1}{a}\ln\lvert ax+b\rvert + c$	$\int \frac{1}{x}dx = \ln\lvert x\rvert + c$

שאלות:

אינטגרל כללי:

1) חשב את האינטגרלים הבאים:

א. $\int\left(\frac{3}{x}+\frac{2}{x+1}-\frac{4}{3x-1}\right)dx$ ב. $\int \frac{x^2+3x-4}{x}dx$ ג. $\int \frac{x+3}{x^2-9}dx$

2) חשב את האינטגרלים הבאים:

א. $\int \frac{x^2+3x+5}{x+1}dx$ ב. $\int \frac{x^3-x^2+5x-6}{x-2}dx$ ג. $\int \frac{x^4+3}{x+1}dx$

3) חשב את האינטגרלים הבאים:

א. $\int \frac{2x}{x^2-3}dx$ ב. $\int \frac{x-1}{x^2-2x}dx$ ג. $\int \frac{e^x}{e^x+5}dx$

ד. $\int \frac{e^x-e^{-x}}{e^x+e^{-x}}dx$ ה. $\int \frac{\cos x}{\sin x}dx$

אינטגרל מסוים:

4) נתונה נגזרת של פונקציה: $f'(x)=2x-\frac{1}{x-4}$.

מצא את הפונקציה אם ידוע שהיא עוברת בנקודה $(5,28)$.

5) נתונה נגזרת שנייה של פונקציה: $f''(x)=6x-\frac{1}{x^2}$. מצא את הפונקציה אם ידוע שהיא עוברת בנקודה $(1,-2)$ וששיפועה בנקודה זו הוא 3.

חישובי שטחים:

6) נתונה הפונקציה: $f(x)=\frac{1}{x}$.
חשב את גודל השטח הכלוא בין הפונקציה, הישרים $x=-1$ ו-$x=-4$ וציר ה-x.
ניתן להשאיר ln בתשובה.

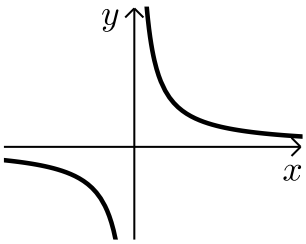

7) נתונות הפונקציות: $f(x)=\frac{4}{8-x}$, $f(x)=\frac{2}{x+1}$.
חשב את גודל השטח הכלוא בין הפונקציות, הישר $x=4$ והצירים.

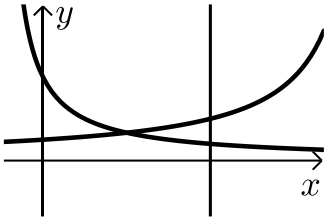

8) נתונה הפונקציה: $f(x)=\frac{x^2+3}{x-1}$.
חשב את גודל השטח הכלוא בין גרף הפונקציה, המשיק לפונקציה בנקודה שבה $x=2$ ואנך לציר ה-x העובר בנקודת המינימום של הפונקציה.
אפשר להשאיר ביטוי עם ln בתשובה.

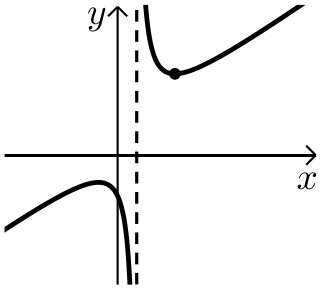

9) באיור שלפניך נתונות הפונקציות: $f(x)=\frac{a}{x-1}$
ו-$g(x)=\frac{a-1}{x-2}$ בתחום: $x<0$.
ידוע כי הגרפים של הפונקציות נחתכים בנקודה שבה $x=3$.

א. מצא את a וכתוב את שתי הפונקציות.

ב. חשב את השטח המוגבל ע"י הגרפים של שתי הפונקציות, ציר ה-y והישר $x=-e$

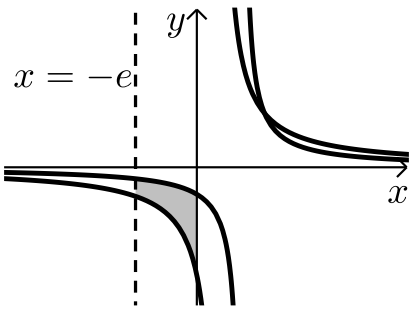

10) נתונה הפונקציה: $f(x)=7+ax+\frac{b}{x}$.

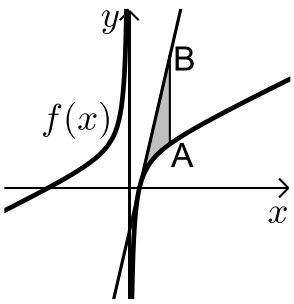

ידוע כי משוואת המשיק לגרף הפונקציה בנקודת החיתוך שלה עם ציר ה-x היא: $y=18x-9$.

א. מצא את a ו-b וכתוב את הפונקציה.

מעבירים ישר המקביל לציר ה-y שחותך את גרף הפונקציה בנקודה A ואת משוואת המשיק בנקודה B.

אורך הקטע AB הוא 18.

ב. מצא את משוואת הישר הנ"ל אם ידוע כי הנקודה A נמצאת מימין לנקודת החיתוך של גרף הפונקציה עם ציר ה-x.

ג. חשב את השטח המוגבל בין גרף הפונקציה, המשיק והישר.

11) הנגזרת של הפונקציה $f(x)$ היא: $f'(x)=-\frac{4}{x^2}$.

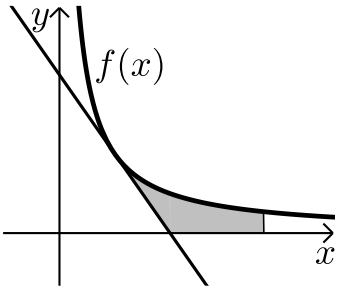

משוואת המשיק לגרף הפונקציה בנקודה שבה: $x=2$ היא: $y=4-x$.

א. מצא את הפונקציה $f(x)$.

ב. באיור שלפניך מתוארים גרף הפונקציה $f(x)$ והמשיק בתחום: $x>0$.

חשב את השטח המוגבל בין גרף הפונקציה, המשיק, ציר ה-x והישר $x=e^2$.

12) באיור שלפניך נתונה הפונקציה: $f(x)=\frac{2}{x}$

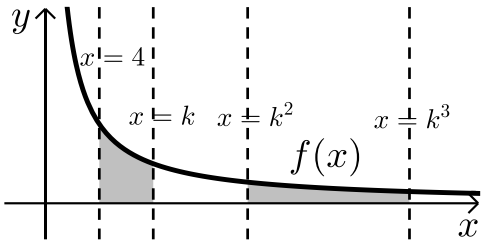

בתחום: $x>0$. מעבירים את הישרים:

$x=4$, $x=k$, $x=k^2$, $x=k^3$

כמתואר $x>4$.

א. הבע באמצעות k את השטחים: S_1 ו-S_2.

ב. הראה כי ההפרש: S_2-S_1 אינו תלוי ב-k וחשב את ערכו.

ג. נתון כי השטח S_2 גדול פי 3 מהשטח S_1. מצא את k.

13) נתונות הפונקציות: $f(x)=-\frac{4}{x}$ ו- $g(x)=\frac{k}{2x+5}$.

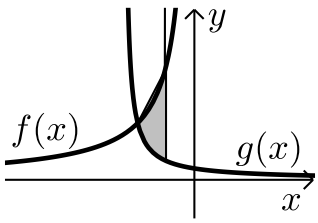

גרף הפונקציה $g(x)$ חותך את ציר ה- y בנקודה שבה $y=0.4$.

א. מצא את הפונקציה $g(x)$.

ב. מצא את נקודת החיתוך של שני הגרפים.

ג. חשב את השטח המוגבל ע"י שני הגרפים והישר $x=-1$.

14) באיור מתוארים הגרפים של הפונקציות:

$f(x)=\ln\left(e^{-x}+1\right)$ ו- $g(x)=\ln\left(e^{-2x}+e^{-3x}\right)$

בתחום: $(x\ge 0)$.

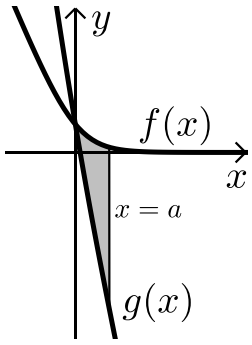

א. הראה כי הגרפים נחתכים על ציר ה- y.

ב. מעבירים ישר $x=a$, $(a>1)$ המאונך לציר ה- x אשר חותך את הגרפים של שתי הפונקציות ויוצר את השטח S (ראה איור).
מצא את ערכו של a עבורו מתקיים: $S=4$.

15) באיור שלפניך מתוארים הגרפים של הפונקציה: $f(x)=\frac{2}{3x-1}$ והישר: $y=x$.

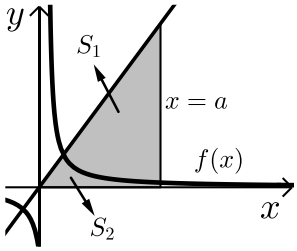

א. מצא את נקודת החיתוך של הפונקציות הנמצאת ברביע הראשון.

מעבירים אנך לציר ה- x - $x=a$ הנמצא מימין לנקודת החיתוך שמצאת בסעיף הקודם.
האנך החותך את הגרפים ויוצר את השטחים S_1 ו- S_2 המתוארים האיור.

ב. מצא את הערך של a עבורו השטח S_2 יהיה שווה ל- $\frac{1}{2}+\frac{2}{3}\ln 7$.

ג. עבור ערך ה- a שמצאת בסעיף הקודם חשב את יחס השטחים: $\frac{S_1}{S_2}$.

חישובי נפחים:

16) נתונה הפונקציה: $f(x)=\frac{1}{\sqrt{x}}$.

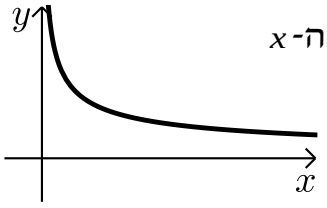

השטח הכלוא בין הפונקציה, הישרים $x=1$ ו-$x=3$ וציר ה-x מסתובב סביב ציר ה-x.
מצא את נפח גוף הסיבוב שנוצר באופן זה.
אפשר להשאיר ln בתשובה.

17) נתונה הפונקציה: $f(x)=\frac{e^x}{\sqrt{e^{2x}+1}}$.

השטח הכלוא בין הפונקציה, הצירים והישר $x=\ln\sqrt{3}$ מסתובב סביב ציר ה-x. חשב את נפח גוף הסיבוב שנוצר.

18) נתונה הפונקציה: $f(x)=\sqrt{x}+\frac{2}{\sqrt{x}}$.

השטח הכלוא בין הפונקציה, הישרים $x=a$ ו-$x=a+3$, $(a>0)$
וציר ה-x מסתובב סביב ציר ה-x.
חשב את נפח גוף הסיבוב המינימלי שנוצר באופן הזה.

תשובות סופיות:

1) א. $3\ln|x|+2\ln|x+1|-\frac{4\ln|3x-1|}{3}+c$ ב. $\frac{x^2}{2}+3x-4\ln|x|+c$ ג. $\ln|x-3|+c$

2) א. $\frac{x^2}{2}+2x+3\ln|x+1|+c$ ב. $\frac{x^3}{3}+\frac{x^2}{2}+7x+8\ln|x-2|+c$

ג. $\frac{x^4}{4}-\frac{x^3}{3}+\frac{x^2}{2}-x+4\ln|x+1|+c$

3) א. $\ln|x^2-3|+c$ ב. $\frac{1}{2}\ln|x^2-2x|+c$ ג. $\ln|e^x+5|+c$

ד. $\ln|e^x+e^{-x}|+c$ ה. $\ln|\sin x|+c$

4) $f(x)=x^2-\ln|x-4|+3$

5) $f(x)=x^3+\ln|x|-x-2$

6) $S=$ יח"ש $\ln 4$

7) $S=$ יח"ש 2.17

8) $S=$ יח"ש $4\ln 2-2$

9) א. $a=2$, $g(x)=\frac{1}{x-2}$, $f(x)=\frac{2}{x-1}$ ב. $S=$ יח"ש 1.76

10) א. $b=-4$, $a=2$, $f(x)=7+2x-\frac{4}{x}$ ב. $x=2$

ג. $S=6+\ln 256\approx$ יח"ש 11.54

11) א. $f(x)=\frac{4}{x}$ ב. $S=$ יח"ש $6-4\ln 2$

12) א. $S_2=2\ln k$, $S_1=2\ln k-\ln 16$ ב. $S_2-S_1=\ln 16$ ג. $k=8$

13) א. $g(x)=\frac{2}{2x+5}$ ב. $(-2,2)$ ג. $S=$ יח"ש $\ln 5\frac{1}{3}\approx 1.674$

14) ב. $a=2$

15) א. $(1,1)$ ב. $a=5$ ג. $\frac{S_1}{S_2}=5.955$

16) $V=$ יח"נ $\pi\ln 3$

17) $V=$ יח"נ $\frac{\pi}{2}\ln 2$

18) $V=$ יח"נ $\pi\left(19\frac{1}{2}+4\ln 4\right)$

פונקצית חזקה עם מעריך רציונאלי:

סיכום כללי:

אינטגרלים מיידים של פונקצית חזקה עם מעריך רציונאלי:

אינטגרל יסודי	אינטגרל של פונקציה מורכבת
$\int \sqrt[n]{x^m}dx=\int x^{\frac{m}{n}}dx=\frac{x^{\frac{m}{n}+1}}{\frac{m}{n}+1}+c$	$\int \sqrt[n]{(ax+b)^m}dx=\int (ax+b)^{\frac{m}{n}}dx=\frac{(ax+b)^{\frac{m}{n}+1}}{a\cdot\left(\frac{m}{n}+1\right)}+c$

תנאי לקיום האינטגרציה: $\frac{m}{n}\neq -1$.

שאלות:

אינטגרל של פונקצית חזקה:

1) חשב את האינטגרלים הבאים:

א. $\int \sqrt[3]{x}dx$

ב. $\int \left(4x-2\sqrt[4]{x}\right)dx$

ג. $\int \left(x\cdot\sqrt[5]{x}\right)dx$

ד. $\int \frac{3}{\sqrt[3]{x}}dx$

ה. $\int \frac{x+4}{\sqrt[4]{x}}dx$

ו. $\int \frac{x^3-3x+5}{\sqrt{x}}dx$

ז. $\int \sqrt[3]{2x-3}dx$

ח. $\int \sqrt[4]{5-x}dx$

ט. $\int \frac{3}{\sqrt[8]{7x+12}}dx$

י. $\int \frac{7}{\sqrt[5]{14-2x}}dx$

2) חשב את ערכי האינטגרלים הבאים:

א. $\int_0^8 \left(x+\sqrt[5]{4x}\right)dx$

ב. $\int_3^{16} \left(\sqrt[4]{5x+1}\right)dx$

ג. $\int_{-10}^{5} \frac{2}{\sqrt[4]{6-x}}dx$

אינטגרל מסוים:

3) נתונה הנגזרת הבאה: $f'(x)=2x-\sqrt[3]{4x}$.
ידוע כי הפונקציה עוברת בנקודה $(2,3)$.
מצא את הפונקציה.

4) נתונה הנגזרת הבאה: $f'(x)=\sqrt[3]{5x+7}$.
ידוע כי הפונקציה חותכת את ציר ה-x בנקודה שבה $x=4$.
מצא את הפונקציה.

5) נתונה הנגזרת הבאה: $f'(x)=\frac{10}{\sqrt[5]{x+1}}+(x-1)^2$.
ידוע כי הפונקציה חותכת את ציר ה-y בנקודה שבה $y=-6$.
מצא את הפונקציה.

חישובי שטחים:

6) באיור שלפניך מופיע גרף הפונקציה: $f(x)=x-4\sqrt[3]{x}$.

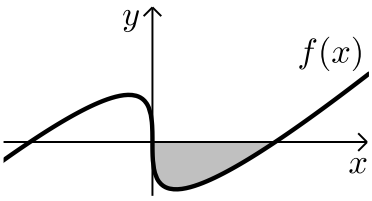

א. מצא את נקודות החיתוך של הפונקציה עם ציר ה-x.
ב. חשב את השטח הנוצר בין גרף הפונקציה והצירים.

7) באיור שלפניך מצויר גרף הפונקציה: $f(x)=\frac{x^2-4}{\sqrt{x}}$.

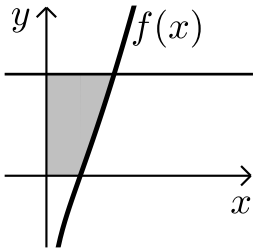

א. מהו תחום ההגדרה של הפונקציה?
ב. מצא את נקודת החיתוך של הפונקציה עם ציר ה-x.
ג. מעבירים אנך לציר ה-y מהנקודה $(4,6)$.
חשב את השטח הנוצר בין גרף הפונקציה, האנך והצירים.

8) באיור שלפניך מתואר גרף הפונקציה: $f(x)=2-\sqrt[4]{x}$.
מעבירים אנכים לצירים מנקודות החיתוך של
גרף הפונקציה עם הצירים כך שנוצר מלבן.
מסמנים את השטח שבין גרף הפונקציה והצירים:
ב- S_1 ואת השטח שבין גרף הפונקציה והאנכים ב- S_2.

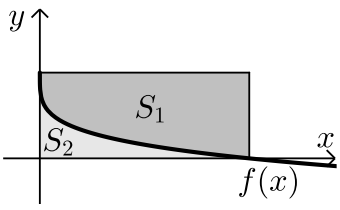

מצא את היחס: $\frac{S_1}{S_2}$.

9) באיור שלפניך נתונים הגרפים של הפונקציות
הבאות: $f(x)=4\sqrt[3]{x}$, $g(x)=\frac{1}{\sqrt[3]{x}}$.

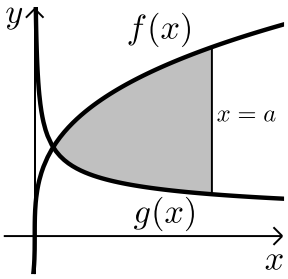

א. מצא את נקודת החיתוך של הגרפים בתחום: $x>0$.
ב. מעבירים אנך לציר ה- x , $x=a$, (a פרמטר).
ידוע כי השטח שנוצר בין שני הגרפים מנקודת
החיתוך שלהם ועד לאנך הוא: $42\frac{3}{16}$ סמ"ר.
מצא את a.

10) נתונה הפונקציה: $f(x)=\sqrt[4]{5x+6}-ax$, (a פרמטר).
ידוע כי גרף הפונקציה חותך את ציר ה- x בנקודה שבה $x=2$.

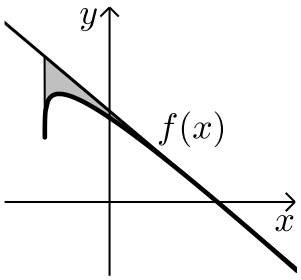

א. מצא את הפרמטר a וכתוב את הפונקציה.
ב. מהו תחום ההגדרה של הפונקציה?
ג. מצא את נקודת קיצון הקצה של הפונקציה.
ד. מצא את משוואת המשיק לגרף הפונקציה העובר
דרך נקודת החיתוך שלה עם ציר ה- x.
ה. באיור שלפניך מתואר גרף הפונקציה $f(x)$
והמשיק שמצאת בסעיף הקודם. מורידים אנך
מהמשיק אל נקודת קיצון הקצה של הפונקציה שמצאת בסעיף ג'.
חשב את השטח הנוצר בין גרף הפונקציה $f(x)$ והמשיק.

11) באיור שלפניך נתונים הגרפים של
הפונקציות: $f(x)=\sqrt[3]{x}$, $g(x)=2-\sqrt[6]{x}$.

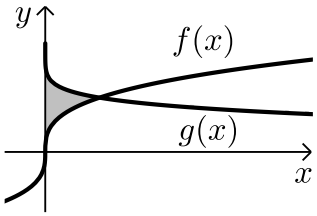

א. מצא את נקודת החיתוך של הגרפים.
ב. חשב את השטח הכלוא בין שני הגרפים וציר ה- y .

12) הנגזרת של הפונקציה $f(x)$ היא: $f'(x)=-\frac{1}{\sqrt[5]{(6-5x)^4}}$.
ידוע כי הפונקציה חותכת את ציר ה- x בנקודה שבה: $x=1.2$.

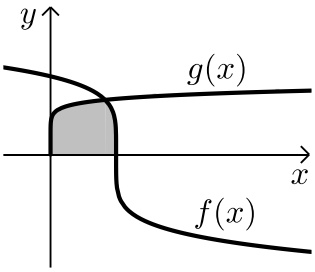

א. מצא את הפונקציה $f(x)$.
ב. חשב את השטח הכלוא בין גרף הפונקציה $f(x)$,
גרף הפונקציה: $g(x)=\sqrt[10]{x}$ וציר ה- x .

13) נתונה הפונקציה: $f(x)=\frac{3}{\sqrt[3]{5-x}}+\frac{1}{2}x^2$.

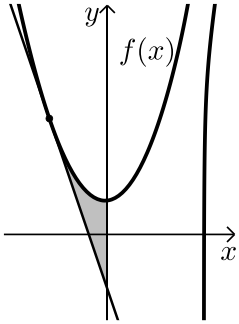

א. מצא את משוואת המשיק לגרף הפונקציה
בנקודה שבה $x=-3$.
ב. חשב את השטח הכלוא בין גרף הפונקציה $f(x)$,
המשיק וציר ה- y .

14) נתונה הפונקציה: $f(x)=\sqrt[3]{x}-4x$.

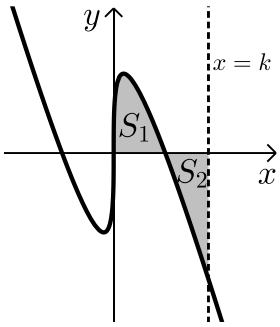

א. מהו תחום ההגדרה של הפונקציה?
ב. מצא את נקודות החיתוך של הפונקציה עם ציר ה- x .
ג. באיור שלפניך מתואר גרף הפונקציה ברביע
הראשון. השטח הכלוא בין גרף הפונקציה
וציר ה- x יסומן ב- S_1 .
מעבירים ישר $x=k$ אשר יוצר את השטח S_2 כמתואר.
מצא את k אם ידוע כי: $S_1=S_2$.

תשובות סופיות:

1) א. $0.75\sqrt[3]{x^4}+c$ ב. $2x^2-1.6\sqrt[4]{x^5}+c$ ג. $\frac{5}{11}\sqrt[5]{x^{11}}+c$

ד. $4.5\sqrt[3]{x^2}+c$ ה. $\frac{4}{7}\sqrt[4]{x^7}+\frac{16}{3}\sqrt[4]{x^3}+c$ ו. $\frac{2}{7}\sqrt{x^7}-2\sqrt{x^3}+10\sqrt{x}+c$

ז. $\frac{3}{8}\sqrt[3]{(2x-3)^4}+c$ ח. $-0.8\sqrt[4]{(5-x)^5}+c$ ט. $\frac{24}{49}\sqrt[8]{(7x+12)^7}+c$

י. $-\frac{35}{8}\sqrt[5]{(14-2x)^4}+c$

2) א. $45\frac{1}{3}$ ב. 33.76 ג. $18\frac{2}{3}$

3) $f(x)=x^2-\frac{3}{16}\sqrt[3]{(4x)^4}+2$

4) $f(x)=\frac{3}{20}\sqrt[3]{(5x+7)^4}-12.15$

5) $f(x)=12.5\sqrt[5]{(x+1)^4}+\frac{1}{3}(x-1)^3-18\frac{1}{6}$

6) א. $(0,0)\ ;\ (8,0)$ ב. $S=$ 16 יח"ש

7) א. $x>0$ ב. $(2,0)$ ג. $S=$ 18.149 יח"ש

8) $\frac{S_1}{S_2}=4$

9) א. $\left(\frac{1}{8},2\right)$ ב. $a=8$

10) א. $a=1$, $f(x)=\sqrt[4]{5x+6}-x$ ב. $x\geq -1.2$ ג. $(-1.2,1.2)$

ד. $y=-\frac{27}{32}x+\frac{27}{16}$ ה. $S=$ 0.48 יח"ש

11) א. $(1,1)$ ב. $S=\frac{11}{28}$ יח"ש

12) א. $f(x)=(6-5x)^{\frac{1}{5}}$ ב. $S=1\frac{5}{66}$ יח"ש

13) א. $y=-2\frac{15}{16}x-\frac{45}{16}$ ב. $S=$ יח"ש 4.56

14) א. כל x ב. $\left(-\frac{1}{8},0\right)$, $\left(\frac{1}{8},0\right)$, $(0,0)$ ג. $k=\left(\frac{3}{8}\right)^{1.5}=0.2296..$