מכינה אקדמית במתמטיקה למדעי המחשב 1400004

תוכן העניינים

1. אלגברה - מבוא לאלגברה 1
2. אלגברה - משוואות אלגבריות 47
3. אלגברה - אי שוויונים אלגבריים 69
4. אלגברה - חקירת משוואה ממעלה ראשונה 85
5. אלגברה - חקירת משוואה ממעלה שנייה 97
6. אלגברה - בעיות מילוליות יסודיות 111
7. אלגברה - בעיות מילוליות מתקדמות 136
8. אלגברה - סדרות 160
9. אלגברה - אינדוקציה מתמטית 184
10. אלגברה - מספרים מרוכבים 198
11. הסתברות קלאסית 214
12. טריגונומטריה - טריגונומטריה במשולש ישר זווית 238
13. טריגונומטריה - זהויות טריגונומטריות 243
14. טריגונומטריה - משוואות טריגונומטריות 264
15. גיאומטריה אנליטית - נקודה וישר 285
16. גיאומטריה אנליטית - המעגל 310
17. גיאומטריה אנליטית - האליפסה והפרבולה 329
18. גיאומטריה אנליטית - ההיפרבולה 339
19. גיאומטריה אנליטית - מקומות גיאומטרים והוכחות 345

מכינה אקדמית במתמטיקה למדעי המחשב 1400004

פרק 1 - אלגברה - מבוא לאלגברה

תוכן העניינים

1. מספרים מכוונים 1
2. חזקות ושורשים עם מספרים מכוונים 5
3. סדר פעולות חשבון עם מספרים מכוונים 7
4. שברים פשוטים, עשרוניים ואחוזים 8
5. כפל וחילוק שברים 14
6. חיבור וחיסור שברים 16
7. בעיות יסודיות באחוזים 20
8. חזרה על תבניות מספר 22
9. כינוס איברים 24
10. פישוט ביטויים על ידי פתיחת סוגריים 26
11. פישוט ביטויים באמצעות נוסחאות הכפל המקוצר 28
12. פירוק לגורמים של ביטויים אלגברים 30
13. פירוק הטרינום 33
14. שברים אלגברים 35
15. כפל וחילוק של שברים אלגברים 39
16. חיבור וחיסור של שברים אלגברים 41
17. שברים כפולים 45

מספרים מכוונים:

סיכום כללי:

מספרים מכוונים הם מספרים שיכולים לקבל סימן חיובי או שלילי, כגון:

- בקניון גדול ישנן קומות 1, 2, 3, 4, וכן חניונים הממוקמים בקומות 1-, 2- ו-3-.
- גובה פני הים מוגדר להיות 0 מטרים. העיר חיפה נמצאת כ-103 מטרים מעל פני הים בעוד שים המלח נמצא בגובה 426- מטרים.

כללים:

- כאשר מחברים שני מספרים בעלי סימנים זהים, מחברים את המספרים עצמם והסימן נשאר.
- כאשר מחברים שני מספרים בעלי סימנים מנוגדים, מחסירים את המספרים זה מזה (הקטן מהגדול) וסימן התוצאה כסימן המספר הגדול מביניהם.
- כפל וחילוק יתבצע בשני חלקים:
  - ביצוע הפעולה על המספרים עצמם.
  - קביעת הסימן של התוצאה באופן הבא:
    - כפל או חילוק של שני מספרים בעלי אותו סימן - התוצאה תהיה חיובית.
    - כפל או חילוק של שני מספרים שוני סימן - התוצאה תהיה שלילית.

הערה:

אם יש רצף של מכפלות (או חילוקים), סימן התוצאה תלוי במספר הפעמים שבהם מופיע סימן שלילי (-). אם הסימן מופיע מספר זוגי של פעמים התוצאה חיובית, ואם הוא מופיע מספר אי-זוגי של פעמים אזי התוצאה שלילית.

שאלות:

1) סמנו את המספרים הבאים על ציר המספרים בהתאמה:

$-3\frac{1}{2}$, 4 , $1\frac{1}{3}$, -5 , $-\frac{1}{2}$, 2 , 0 , $\frac{1}{2}$, -2

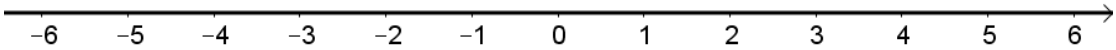

2) חשבו את ערכי הביטויים הבאים:

א. $3+2$	ב. $-3-2$
ג. $3-2$	ד. $-3+2$
ה. $-1-4$	ו. $7+10$
ז. $-6+5$	ח. $-7+3$

3) חשבו את ערכי הביטויים הבאים:

א. $5+7-23+1$	ב. $5-8-12+17$
ג. $3-14+2+6$	ד. $-4-11+2+9$
ה. $6-21+3-7$	ו. $-7-13+5-3$

4) חשב את ערכי הביטויים הבאים:

א. $4\cdot 9$	ב. $4\cdot(-7)$
ג. $(-6)\cdot(-5)$	ד. $(-5)\cdot(-3)$
ה. $(-2)\cdot 8$	ו. $(-8)\cdot 5$
ז. $(-2)\cdot(-3)\cdot(-3)$	ח. $2\cdot 3\cdot 3$
ט. $(-2)\cdot 3\cdot(-3)$	י. $(-2)\cdot(-3)\cdot 3$
יא. $2\cdot 3\cdot(-3)$	יב. $(-2)\cdot(-3)\cdot(-3)\cdot(-2)$
יג. $(-1)\cdot(-2)\cdot(-4)\cdot 2$	יד. $1\cdot(-2)\cdot(-4)\cdot 2$

5) מהו הסימן של תוצאת המכפלה בכל מקרה:

א. $(-2)\cdot(-4)\cdot(-3)\cdot(-10)\cdot(-6)\cdot(-5)$

ב. $(-1)\cdot 2\cdot 4\cdot(-3)\cdot(-10)\cdot 6\cdot(-5)$

ג. $(-1)\cdot 2\cdot 4\cdot(-3)\cdot(-10)\cdot(-6)\cdot(-5)$

ד. $(-1)\cdot 2\cdot 4\cdot(-3)\cdot(-10)\cdot 6\cdot 5$

6) חשבו את ערכי הביטויים הבאים:

א. $(-25):(-5)$

ב. $(-30):3$

ג. $40:(-10)$

ד. $(-32):(-4)$

ה. $(-6):18$

ו. $4:(-16)$

7) חשבו את ערכי הביטויים הבאים:

א. $\frac{-60}{12}$

ב. $\frac{42}{-6}$

ג. $\frac{32}{-4}$

ד. $\frac{-12}{-3}$

8) מה התוצאה של כל אחת מהפעולות הבאות:

א. $0:5$

ב. $(-2)\cdot 0$

ג. $0\cdot(-3)\cdot 4$

ד. $6:0$

ה. $0+4$

ו. $0-4$

תשובות סופיות:

1) להלן מערכת הצירים:

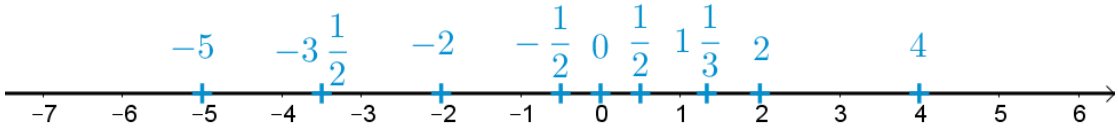

2) א. 5 ב. -5 ג. 1 ד. -1 ה. -5
ו. 17 ז. -1 ח. -4.

3) א. -10 ב. 2 ג. -3 ד. -4 ה. -19 ו. -18.

4) א. 36 ב. -28 ג. 30 ד. 15 ה. -16
ו. -40 ז. -18 ח. 18 ט. 18 י. 18
יא. -18 יב. 36 יג. -16 יד. 16.

5) א. + ב. + ג. - ד. -.

6) א. 5 ב. -10 ג. -4 ד. 8 ה. $-\frac{1}{3}$ ו. $-\frac{1}{4}$.

7) א. -5 ב. -7 ג. -8 ד. 4.

8) א. 0 ב. 0 ג. 0 ד. לא מוגדר ה. 4 ו. -4.

חזקות ושורשים עם מספרים מכוונים:

סיכום כללי:

הגדרה:

פעולת החזקה היא צורה מקוצרת שמייצגת פעולת כפל של אותו מספר בעצמו מספר פעמים. סימון החזקה הוא באופן הבא:

$$a^n = \underbrace{a \cdot a \cdot a \cdot \ldots \cdot a}_{n}$$

כאשר a נקרא הבסיס ו- n נקראת החזקה.

הערות:

- כאשר הבסיס חיובי, התוצאה תמיד תהיה חיובית ללא קשר האם החזקה היא זוגית או אי-זוגית.
- כאשר הבסיס שלילי, התוצאה תהיה חיובית אם החזקה היא זוגית ושלילית אם החזקה היא אי-זוגית.

הגדרה:

פעולת השורש היא הפוכה לפעולת החזקה והיא מאפשרת למצוא את בסיס החזקה. סימון השורש הוא באופן הבא:

$$\sqrt[n]{a}$$

כאשר a נקרא הבסיס ו- n נקרא סדר השורש.

הערות:

- שורש למספר חיובי יכול להיות מסדר זוגי או אי-זוגי.
- שורש למספר שלילי יכול להיות מסדר אי-זוגי בלבד.

שאלות:

1) חשב את ערכי הביטויים הבאים:

א. 3^2
ב. 3^3
ג. $(-3)^3$
ד. $(-2)^3$
ה. 4^3
ו. 3^4
ז. $(-5)^3$
ח. 10^4
ט. $-(-3)^4$
י. -5^4
יא. -4^3
יב. $-(-2)^6$

2) חשב את ערכי הביטויים הבאים:

א. $\sqrt[3]{-27}$
ב. $\sqrt[4]{625}$
ג. $\sqrt[4]{-16}$
ד. $\sqrt[5]{-32}$
ה. $-\sqrt[4]{81}$
ו. $-\sqrt[3]{1000}$

תשובות סופיות:

1) א. 9 ב. 27 ג. -27 ד. -8 ה. 64 ו. 81
ז. -125 ח. 10000 ט. -81 י. -625 יא. -64 יב. -64

2) א.-3 ב. 5 ג. לא מוגדר ד. -2 ה. -3 ו. -10

סדר פעולות חשבון עם מספרים מכוונים:

סיכום כללי:

סדר פעולות חשבון:

- פעולות כפל וחילוק קודמות לפעולות חיבור וחיסור.
- פעולות חזקה ושורש קודמות לפעולות כפל וחילוק.
- סוגריים קודמים לכל.

שאלות:

חשב את ערכי הביטויים הבאים:

1) $\sqrt{81}+3\cdot 2^3-40:8$

2) $(-3)^2:9-2\cdot(-4^2)$

3) $\sqrt{144}-20:4+3\cdot(-2)^2$

4) $3+4\cdot[-3+4\cdot(-2)]+\sqrt{10+6}$

5) $(-3)^4:(-9)-5\cdot(-2)^3$

6) $-\sqrt{9}+5^2:(-4-1)-24:12\cdot 3$

7) $-2^5:(-8)+4^2-3\cdot 5$

8) $\sqrt[3]{-27}+4\cdot 3^2-2\cdot 3^3$

9) $\left[6\cdot(-1)^4-10\cdot(-1)^3\right]\cdot(-1)^5$

10) $\left(8-\sqrt[3]{64}\right)\cdot\left(2\cdot(-4)-\sqrt[5]{243}\right)$

11) $\dfrac{3^2\cdot(8-2\cdot 3)^3}{(5^2\cdot 3-72)\cdot(-4)}+2\cdot\{15-20:(4+3\cdot 2)\}$

תשובות סופיות:

1) 28	**2)** 33	**3)** 19	**4)** -37
5) 31	**6)** -14	**7)** 5	**8)** -21
9) -16	**10)** -44	**11)** 20	

שברים פשוטים, עשרוניים ואחוזים:

סיכום כללי:

הגדרה כללית:

השבר הוא חלק מתוך השלם. מקובל לסמן שבר באמצעות קו שבר המפריד בין המונה (החלק העליון) למכנה (החלק התחתון) באופן הבא:

$$\frac{\text{מונה}}{\text{מכנה}}$$

ישנם שלושה סוגים אפשריים של שברים:

- שבר פשוט – בו המונה קטן מהמכנה (ולכן תמיד יהיה קטן מ-1).
- שבר מדומה – בו המונה גדול מהמכנה (יהיה גדול בערכו מ-1).
- שבר מעורב – המכיל שילוב של מספר שלם ושבר כלשהו.

שבר עשרוני:

שבר שהמכנה שלו הוא מספר המהווה כפולות של 10 כגון: 10, 100, 1000 ...
שבר עשרוני מיוצג ע"י נקודה עשרונית אשר מבדילה בין החלק שלם לחלק השברי באופן הבא:

$$\underbrace{XX}_{\text{שלמים}}.\underbrace{YYY}_{\text{שברים}}$$

כדי להמיר שבר פשוט לשבר עשרוני המכנה צריך להיות בכפולות של 10.

אחוזים - הגדרה:

השבר $\frac{1}{100}$ מוגדר להיות אחוז אחד ומסומן באופן הבא: 1%.

באופן זה השבר $\frac{45}{100}$ יכתב: 45% , והשבר $\frac{145}{100}$ יכתב: 145%.

שאלות:

1) צבע את החלקים המתאימים בכל עיגול:

א. צבע $\frac{1}{2}$ מהעיגול

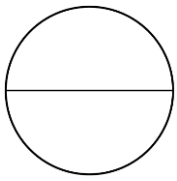

ב. צבע $\frac{1}{6}$ מהעיגול

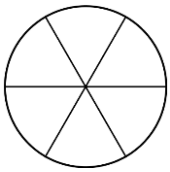

ג. צבע $\frac{3}{8}$ מהעיגול

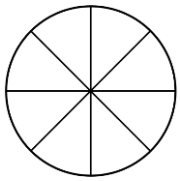

ד. צבע $\frac{2}{5}$ מהעיגול

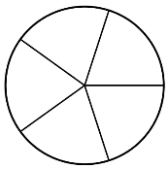

2) כתוב את השבר המתאים לחלקים הצבועים בכל אחד מהמקרים הבאים:

א. שבר:

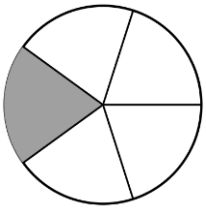

ב. שבר:

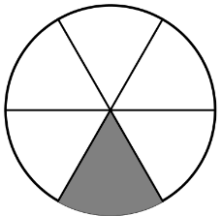

ג. שבר:

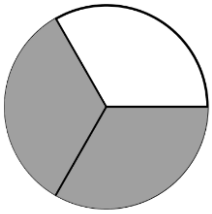

ד. שבר:

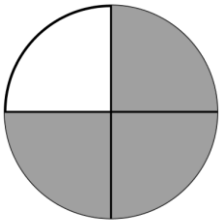

3) הרחב את השברים הבאים:

א. השבר $\frac{1}{2}$ לפי בסיס 4, לפי בסיס 18, לפי בסיס 40.

ב. השבר $\frac{3}{5}$ לפי בסיס 10, לפי בסיס 25, לפי בסיס 60.

ג. השבר $\frac{5}{8}$ לפי בסיס 16, לפי בסיס 32, לפי בסיס 88.

4) צמצם את השברים הבאים ככל הניתן:

א. $\frac{25}{30}$ ב. $\frac{10}{30}$ ג. $\frac{6}{24}$ ד. $\frac{4}{20}$

ה. $\frac{35}{56}$ ו. $\frac{24}{42}$ ז. $\frac{36}{48}$ ח. $\frac{33}{121}$

5) המר את השברים המדומים הבאים לשברים מעורבים:

א. $-\frac{20}{3}$ ב. $\frac{19}{4}$ ג. $\frac{12}{5}$ ד. $\frac{22}{5}$

ה. $-\frac{34}{6}$ ו. $-\frac{50}{7}$ ז. $\frac{47}{8}$ ח. $\frac{60}{9}$

6) המר את השברים המעורבים הבאים לשברים מדומים:

א. $1\frac{2}{3}$ ב. $3\frac{5}{6}$ ג. $4\frac{1}{2}$ ד. $6\frac{1}{4}$

ה. $11\frac{3}{4}$ ו. $-2\frac{5}{8}$ ז. $-6\frac{2}{7}$ ח. $12\frac{7}{9}$

7) קבע איזה שבר גדול יותר בכל אחד מהמקרים הבאים:

א. $\frac{3}{10}$ או $\frac{4}{10}$ ב. $\frac{7}{8}$ או $\frac{7}{6}$

ג. $\frac{2}{3}$ או $\frac{5}{6}$ ד. $\frac{5}{18}$ או $\frac{7}{12}$

8) המר את השברים העשרוניים הבאים לשברים פשוטים מצומצמים או מעורבים:

א. 0.7 ב. 0.07 ג. 0.007 ד. 0.34

ה. 0.304 ו. 0.65 ז. 1.2 ח. 1.02

ט. 1.42 י. 3.5 יא. 6.03 יב. 5.125

9) המר את השברים הבאים לשברים עשרוניים:

א. $\frac{3}{10}$	ב. $\frac{3}{100}$	ג. $\frac{3}{1000}$	ד. $\frac{23}{1000}$
ה. $\frac{1}{2}$	ו. $\frac{3}{4}$	ז. $\frac{2}{5}$	ח. $\frac{4}{25}$
ט. $\frac{7}{50}$	י. $\frac{3}{20}$	יא. $\frac{7}{8}$	יב. $\frac{9}{16}$
יג. $9\frac{1}{10}$	יד. $3\frac{1}{5}$	טו. $4\frac{7}{8}$	טז. $-4\frac{1}{16}$

10) כתוב את השברים הבאים בצורתם העשרונית
(היעזר במחשבון וכתוב עד 3 ספרות אחרי הנקודה העשרונית):

א. $\frac{2}{3}$	ב. $\frac{5}{6}$	ג. $\frac{3}{7}$	ד. $\frac{2}{11}$

11) המר מאחוזים לשברים פשוטים:

א. 25%	ב. 32%	ג. 64%	ד. 80%
ה. 120%	ו. 5%	ז. 300%	ח. 150%

12) המר משברים פשוטים לאחוזים:

א. $\frac{3}{4}$	ב. $\frac{1}{8}$	ג. $\frac{4}{5}$	ד. $\frac{7}{20}$
ה. $\frac{11}{40}$	ו. $\frac{70}{125}$	ז. $\frac{5}{6}$	ח. $\frac{4}{9}$

תשובות סופיות:

1) תשובה מודגמת בסרטון.

2) א. $\frac{1}{5}$ ב. $\frac{1}{6}$ ג. $\frac{2}{3}$ ד. $\frac{3}{4}$

3) א. $\frac{40}{80},\frac{18}{36},\frac{4}{8}$ ב. $\frac{180}{300},\frac{75}{125},\frac{30}{50}$ ג. $\frac{440}{700},\frac{160}{256},\frac{80}{128}$

4) א. $\frac{5}{6}$ ב. $\frac{1}{3}$ ג. $\frac{1}{4}$ ד. $\frac{1}{5}$ ה. $\frac{5}{8}$ ו. $\frac{4}{7}$

ז. $\frac{3}{4}$ ח. $\frac{3}{11}$

5) א. $-6\frac{2}{3}$ ב. $4\frac{3}{4}$ ג. $2\frac{2}{5}$ ד. $4\frac{2}{5}$ ה. $-5\frac{4}{6}$ ו. $-7\frac{1}{7}$

ז. $5\frac{7}{8}$ ח. $6\frac{2}{3}$

6) א. $\frac{5}{3}$ ב. $\frac{23}{6}$ ג. $\frac{9}{2}$ ד. $\frac{25}{4}$ ה. $\frac{47}{4}$ ו. $-\frac{21}{8}$

ז. $-\frac{44}{7}$ ח. $\frac{115}{9}$

7) א. $\frac{4}{10}$ ב. $\frac{7}{6}$ ג. $\frac{5}{6}$ ד. $\frac{7}{12}$

8) א. $\frac{7}{10}$ ב. $\frac{7}{100}$ ג. $\frac{7}{1000}$ ד. $\frac{17}{50}$ ה. $\frac{38}{125}$ ו. $\frac{13}{20}$

ז. $1\frac{1}{5}$ ח. $1\frac{1}{50}$ ט. $1\frac{21}{50}$ י. $3\frac{1}{2}$ יא. $6\frac{3}{100}$ יב. $5\frac{1}{8}$

9) א. 0.3 ב. 0.03 ג. 0.003 ד. 0.023 ה. 0.5 ו. 0.75

ז. 0.4 ח. 0.16 ט. 0.14 י. 0.15 יא. 0.875

יב. 0.5625 יג. 9.1 יד. 3.2 טו. 4.875 טז. -4.0625

10) א. $0.\overline{6}$ ב. $0.8\overline{3}$ ג. 0.428 ד. $0.1\overline{8}$

11) א. $\frac{1}{4}$ ב. $\frac{8}{25}$ ג. $\frac{16}{25}$ ד. $\frac{4}{5}$ ה. $1\frac{1}{5}$ ו. $\frac{1}{20}$

ז. 3 ח. $1\frac{1}{2}$

12) א. 75% ב. 12.5% ג. 80% ד. 35% ה. 27.5% ו. 56%

ז. 83.333% ח. 44.444%

כפל וחילוק שברים:

סיכום כללי:

- כשכופלים שני שברים יש לכפול מונה במונה ומכנה במכנה.
  - במידה ומדובר במספר שלם הכופל שבר, יש לכפול אותו במונה.
  - במידה ומדובר בשברים מעורבים, יש להפוך אותם תחילה לשברים מדומים ורק אז לבצע את פעולת הכפל.
- כדי לחלק שברים, יש לכפול את השבר הראשון בהופכי של השבר השני.
  - הופכי של שבר מסוים מתקבל ע"י החלפת המונה במכנה.

שאלות:

1) חשב את ערכי הביטויים הבאים:

א. $\frac{3}{5}\cdot\frac{3}{4}$ ב. $\frac{2}{7}\cdot\frac{5}{6}$ ג. $\frac{2}{9}\cdot\frac{8}{10}$

ד. $3\cdot\frac{4}{5}$ ה. $6\cdot\frac{2}{3}$ ו. $\frac{12}{25}\cdot 5$

ז. $1\frac{3}{5}\cdot 2\frac{1}{4}$ ח. $3\frac{1}{2}\cdot 4\frac{2}{5}$ ט. $3\frac{3}{7}\cdot 2\frac{2}{5}$

י. $\left(\frac{4}{5}\right)^3$ יא. $\frac{4}{5^3}$ יב. $\frac{4^3}{5}$

2) חשב את ערכי הביטויים הבאים:

א. $\frac{2}{5}:\frac{4}{9}$ ב. $\frac{3}{4}:\frac{1}{2}$ ג. $\frac{3}{25}:\frac{7}{10}$

ד. $8:\frac{2}{9}$ ה. $10:\frac{2}{3}$ ו. $\frac{5}{6}:3$

ז. $\frac{2}{5}:5$ ח. $3\frac{3}{4}:5\frac{5}{8}$ ט. $2\frac{2}{5}:1\frac{3}{15}$

תשובות סופיות:

1) א. $\frac{9}{20}$ ב. $\frac{5}{21}$ ג. $\frac{8}{45}$ ד. $2\frac{2}{5}$ ה. 4 ו. $2\frac{2}{5}$

ז. $3\frac{3}{5}$ ח. $15\frac{2}{5}$ ט. $8\frac{8}{35}$ י. $\frac{64}{125}$ יא. $\frac{4}{125}$ יב. $12\frac{4}{5}$

2) א. $\frac{9}{10}$ ב. $1\frac{1}{2}$ ג. $\frac{6}{35}$ ד. 36 ה. 15 ו. $\frac{5}{18}$

ז. $\frac{2}{25}$ ח. $\frac{2}{3}$ ט. 2

חיבור וחיסור שברים:

סיכום כללי:

כפולה משותפת מינימלית:

בהינתן זוג מספרים a ו- b, המספר הקטן ביותר אשר תוצאת חלוקתו במספרים הנ"ל מניבה מספר שלם נקרא הכפולה המינימלית שלהם.

הערות:

- כפולה מינימלית יכולה להיות גם עבור יותר משני מספרים.
- הכפולה המינימלית תהיה המכנה המשותף בעת פעולות חיבור וחיסור של שברים.

כללי החיבור והחיסור של שברים:

- חיבור וחיסור של שברים בעלי אותו המכנה מתבצע על המספרים שבמונה בלבד כאשר המכנה נשאר כפי שהוא.

  דוגמא: $\frac{2}{7}+\frac{3}{7}=\frac{2+3}{7}=\frac{5}{7}$, $\frac{2}{7}-\frac{3}{7}=\frac{2-3}{7}=\frac{-1}{7}$.

- חיבור וחיסור של שברים בעלי מכנים שונים מתבצע ע"י פעולת מכנה משותף.

  דוגמא: $\frac{2}{5}+\frac{1}{3}=\frac{6}{15}+\frac{5}{15}=\frac{6+5}{15}=\frac{11}{15}$, $\frac{1}{4}-\frac{5}{6}=\frac{3}{12}-\frac{10}{12}=\frac{3-10}{12}=-\frac{7}{12}$.

- חיבור של שבר עם מספר שלם יתבצע באופן ישיר.

  דוגמא: $3+\frac{1}{4}=3\frac{1}{4}$.

  חיסור של שבר ממספר שלם יתבצע ע"י הוצאת שלמים מהשבר.

  דוגמא: $3-\frac{1}{4}=2\frac{4}{4}-\frac{1}{4}=2\frac{3}{4}$.

  דרך נוספת היא ע"י העברת המספר השלם לשבר מדומה: $3-\frac{1}{4}=\frac{12}{4}-\frac{1}{4}=\frac{11}{4}=2\frac{3}{4}$.

- חיבור וחיסור של שברים מעורבים יתבצע ע"י העברתם לשברים מדומים תחילה.

דוגמא: $3\frac{2}{5}+2\frac{1}{6}=\frac{17}{5}+\frac{13}{6}=\frac{17\cdot 6}{30}+\frac{13\cdot 5}{30}=\frac{102+65}{30}=\frac{167}{30}=5\frac{17}{30}$.

ניתן גם לפצל ולבצע את פעולת החיבור (או החיסור) של המספרים השלמים תחילה, ולאחר מכן לבצע את הפעולה עבור השברים.

דוגמא: $2\frac{3}{4}-5\frac{1}{3}=(2-5)+\left(\frac{3}{4}-\frac{1}{3}\right)=-3+\left(\frac{9}{12}-\frac{4}{12}\right)=-3+\frac{5}{12}=-2\frac{7}{12}$.

שאלות:

1) מצא את הכפולה המשותפת המינימלית של המספרים הבאים:

א. 2 ו-3	ב. 2 ו-4	ג. 3 ו-5	ד. 6 ו-10
ה. 4 ו-10	ו. 4 ו-6	ז. 3, 5 ו-10	ח. 2, 3 ו-8

2) חשב את ערכי הביטויים הבאים:

א. $\frac{1}{5}+\frac{3}{5}$	ב. $\frac{5}{9}+\frac{2}{9}$
ג. $\frac{4}{13}+\frac{9}{13}$	ד. $\frac{7}{8}+\frac{7}{8}$
ה. $\frac{7}{8}-\frac{3}{8}$	ו. $\frac{8}{9}-\frac{7}{9}$
ז. $\frac{2}{12}-\frac{5}{12}$	ח. $\frac{2}{5}-\frac{6}{5}$
ט. $\frac{2}{8}+\frac{5}{8}+\frac{6}{8}$	י. $\frac{7}{15}+\frac{8}{15}-\frac{6}{15}$

3) חשב את ערכי הביטויים הבאים:

א. $\frac{1}{2}+\frac{4}{3}$

ב. $\frac{3}{5}+\frac{1}{10}$

ג. $\frac{4}{6}-\frac{1}{12}$

ד. $\frac{3}{6}-\frac{5}{8}$

ה. $\frac{5}{4}+\frac{7}{2}+\frac{2}{8}$

ו. $\frac{7}{3}+\frac{6}{5}+\frac{3}{10}$

ז. $\frac{4}{7}-\frac{1}{6}+\frac{1}{2}$

ח. $\frac{1}{4}+\frac{2}{8}-\frac{3}{5}$

4) חשב את ערכי הביטויים הבאים:

א. $2+\frac{5}{6}$

ב. $2-\frac{5}{6}$

ג. $2\frac{1}{4}+\frac{5}{6}$

ד. $2\frac{1}{4}-\frac{5}{6}$

ה. $3\frac{2}{3}+4\frac{1}{4}$

ו. $5\frac{7}{8}-6\frac{1}{2}$

ז. $2+\frac{5}{6}-\frac{1}{9}$

ח. $\frac{3}{4}-1\frac{1}{5}+\frac{8}{20}$

5) חשב את ערכי הביטויים הבאים:

א. $\frac{1}{2}\cdot\left(1-\frac{3}{4}\right)+2\frac{1}{3}$

ב. $\frac{3}{14}:\frac{2}{7}+\frac{1}{3}\cdot 2\frac{1}{4}-\frac{2}{5}$

ג. $\frac{5}{11}\cdot 2\frac{3}{4}-6:\frac{2}{5}$

ד. $2\frac{4}{5}:\frac{9}{10}\cdot\frac{6}{7}+\frac{1}{6}$

ה. $\frac{5}{6}:\frac{3}{4}+\frac{2}{3}\cdot 3\frac{1}{4}$

תשובות סופיות:

1)	א. 6	ב. 4	ג. 15	ד. 30	ה. 20	ו. 12
	ז. 30	ח. 24				
2)	א. $\frac{4}{5}$	ב. $\frac{7}{9}$	ג. 1	ד. $1\frac{3}{4}$	ה. $\frac{1}{2}$	ו. $\frac{1}{9}$
	ז. $-\frac{1}{4}$	ח. $-\frac{4}{5}$	ט. $1\frac{5}{8}$	י. $\frac{3}{5}$		
3)	א. $1\frac{5}{6}$	ב. $\frac{7}{10}$	ג. $\frac{7}{12}$	ד. $-\frac{1}{8}$	ה. 5	ו. $3\frac{5}{6}$
	ז. $\frac{19}{21}$	ח. $-\frac{1}{10}$				
4)	א. $2\frac{5}{6}$	ב. $1\frac{1}{6}$	ג. $3\frac{1}{12}$	ד. $1\frac{5}{12}$	ה. $7\frac{11}{12}$	ו. $-\frac{5}{8}$
	ז. $2\frac{13}{18}$	ח. $-\frac{1}{20}$				
5)	א. $2\frac{11}{24}$	ב. $1\frac{1}{10}$	ג. $-13\frac{3}{4}$	ד. $2\frac{5}{6}$	ה. $3\frac{5}{18}$	

בעיות יסודיות באחוזים:

סיכום כללי:

נוסחה לביצוע חישובים עם אחוזים:

$$\text{תמורת האחוז} = \text{שלם} \cdot \frac{\text{אחוז}}{100}$$

למשל, בהינתן גודל שלם 120, אשר יש לחשב כמה הם 40 אחוזים ממנו, נקבל לפי הנוסחה: $\frac{40}{100}\cdot 120 = 48$, כלומר: **תמורת האחוז 40 מהגודל 120 היא 48**.

שאלות:

1) בכיתה 30 תלמידים. 60% מתוכם בנות.
א. כמה בנות בכיתה?
ב. כמה בנים בכיתה?

2) בכיתה 28 בנות המהוות 70% מכלל התלמידים בכיתה.
א. כמה תלמידים בכיתה?
ב. כמה בנים בכיתה?

3) מחיר בגד-ים הוא 300 ₪. בסוף העונה הוא נמכר ב-20% הנחה.
א. מהו מחירו בסוף העונה?
ב. מה גודל ההנחה?

4) מחיר ההשקה של בושם מסוים הוא 500 ₪. לאחר מכן מועלה מחירו ב-8%.
א. מה מחירו הסופי?
ב. מה גודל ההתייקרות?

5) מחיר ליטר דלק הוא 5 ₪ לליטר. בחנוכה מוזל מחירו ב-7%.
בפסח מועלה מחירו ב-7%. מה מחירו בסוף השנה?

6) מוצר מסויים מתייקר בסוכות ב-12%. בפורים מוזל המוצר ב-12%.
מחירו בסוף השנה הוא 394.24 ₪. מה מחירו בתחילת השנה?

7) ענה על השאלות הבאות:

א. באולם קולנוע 200 צופים, מתוכם 176 בנים.
מה אחוז הבנים בקהל?

ב. בכיתה 30 תלמידים, מתוכם 18 בנות.
מה אחוז הבנות בכיתה?

ג. מחיר מוצר התייקר מ-80 ₪ ל-120 ₪.
בכמה אחוזים התייקר המוצר?

ד. מחיר מוצר הוזל מ-120 ₪ ל-80 ₪.
בכמה אחוזים הוזל המוצר?

ה. מחיר מוצר התייקר מ-150 ₪ ל-200 ₪.
בכמה אחוזים התייקר המוצר?

ו. מחיר מוצר מוזל הוזל מ-200 ₪ ל-150 ₪.
בכמה אחוזים הוזל המוצר?

תשובות סופיות:

1) א. 18 בנות. ב. 12 בנים.

2) א. 40 תלמידים. ב. 12 בנים.

3) א. 240 ₪ ב. 60 ₪

4) א. 540 ₪ ב. 40 ₪

5) 4.9755 ₪

6) 400 ₪

7) א. 88% ב. 60% ג. 50% ד. 33.33% ה. 33.33% ו. 25%

חזרה על תבניות מספר:

סיכום כללי:

משתנה הוא סמל המתאר כמות או גודל כלשהם אשר אינם ידועים ועשויים להשתנות.

תבנית מספר היא ביטוי אלגברי אשר מכיל משתנה (או משתנים).
ניתן להציב במשתנים ערכים מספריים שונים ולקבל תוצאות שונות עבור תבנית המספר עצמה.

במתמטיקה, תפקידה של תבנית המספר הוא להביע גודל מסוים אשר לערכו יש משמעויות שונות. דוגמא לכך היא: קנייה של x פריטים, אשר כל אחד עולה 3 שקלים, יניבו תבנית מספר של $3\cdot x$ אשר מייצגת את הסכום הכולל של הפריטים.

שאלות:

1) חשב את ערכי הביטויים האלגבריים הבאים עבור ה- x הנתון:

א. $2x+5$ כאשר $x=3$

ב. x^2+3x כאשר $x=2$

ג. $-x^2+2x+3$ כאשר $x=5$

ד. $-x^2-9x+5$ כאשר $x=5$

ה. x^3+1 כאשר $x=-2$

ו. $4-x^3$ כאשר $x=-1$

ז. $(x+1)(2-x)$ כאשר $x=4$

ח. $x^2(3x-4)$ כאשר $x=3$

2) חשב את ערכי הביטויים האלגבריים הבאים עבור ה- x הנתון:

א. $27x^5-2x^3+x$ כאשר $x=\frac{1}{3}$.

ב. $\frac{1}{3}x^2+\frac{1}{2}x+6$ כאשר $x=-\frac{2}{3}$.

3) הצב את הערכים המספריים במקום הפרמטרים וחשב את ערך תבנית המספר:

א. $a^2+2ab+b^2$ עבור: $a=3\,,\,b=-5$.

ב. $(x-3)^2+3x^2b$ עבור: $x=5\,,\,b=-1$.

ג. $-x^3-2xy+y^4$ עבור: $x=-2\,,\,y=-1$.

ד. $\frac{(a-2c)^4}{a}-a^2$ עבור: $a=2\,,\,c=-2$.

ה. $\frac{4a^2-3b}{c}$ עבור: $a=-1\,,\,b=2\,,\,c=-4$.

ו. $\sqrt{c-3a}$ עבור: $a=-1\,,\,c=13$ ועבור: $a=\frac{1}{3}\,,\,c=82$.

ז. $\frac{p^3+2\sqrt{q+1}}{m}$ עבור: $m=3\,,\,q=48\,,\,p=-5$.

תשובות סופיות:

1) א. 11 ב. 10 ג. -12 ד. -65 ה. -7 ו. 5
ז. -10 ח. 45

2) א. $\frac{10}{27}$ ב. $5\frac{22}{27}$

3) א. 4 ב. -71 ג. 5 ד. 644 ה. $\frac{1}{2}$
ו. הצבה ראשונה: 4, הצבה שניה: 9 ז. -37

כינוס איברים:

סיכום כללי:

תבניות אלגבריות יכולות להכיל איברים רבים ולכן נרצה לכנס אותם על מנת לפשט את התבנית. כדי לכנס איברים ניקח את כל קבוצת האיברים מאותו הסוג ונחבר את המקדמים שלהם. דוגמא: $3x+6x-5x=(3+6-5)x=4x$.

איברים שונים נבדלים זה מזה בערך התבנית האלגברית שלהם.

כך: $3x$ שונה מ- $4y$ ושונה מ- $2xy$. באותו האופן, האיברים x ו- x^2 הם שונים.

שאלות:

כנס איברים דומים:

1) $5x+7x-4x$

2) $9x^2-2x^2-3x^2-2x^2$

3) $-10xy+15xy+xy-2yx$

4) $x^2y-3yx^2+x^2y$

5) $8a^2+10a-5a^2-11a+a^2$

6) $2x^2-3m^2-x^2+3m^2$

7) $3xy+y-30y+6yx-7y$

8) $mn^2+4m^2n+6n^2m-10nm^2+mn^2$

9) $-6+x^3+4-3x^3+17x^3-17$

10) $y^2+x^2-5x^2+5y^2+4x^2-6y^2$

11) $7x^2-3x-4x+2$

12) $5xy+2x-3yx-x+1$

13) $3-x-x^2+4x+5x^2-12$

14) $x+xy+y-6yx-6y-6x$

15) $mn+n-5m+5nm-14n+3m$

16) $ab^2+6ba^2-6b+16a^2b+3b-6b^2a$

17) $z^3-4z^2+7-z^3-8+8z^2$

18) $4x^2z+6xz^2-6-xz^2+12+10zx^2$

19) $2-x^3-3-4x^2+2x+x^3+x^2-2$

20) $x^3-3x-4x^2+2x+x^3+x^2-2x^3$

21) $2a^2b+3x^2y+5a^2b+10x^2y$

22) $12x^2y^3+13a^2-20x^2y^3+2a^2$

23) $2y^2-4x^3y^2-10y^2-x^3y^2$

24) $-2x^3y+5x^2-4yx^3-6x^2$

25) $2a^2b+2b+3a^2+5b$

26) $5a^2b-8ab^2+20a^2b-14ab^2$

27) $-12x^2+2y^2+3x^2y+14xy^2-5xy^2-6y^2+2xy+11x^2+x^2y-9xy$

28) $21x^3y^3+x^2y^2-3xy^3+x^3y-15x^2y^2-7x^3y+12x^3y^3-4xy^3+4xy^3-6x^3y$

תשובות סופיות:

1) $8x$
2) $2x^2$
3) $4xy$
4) $-x^2y$
5) $4a^2-a$
6) x^2
7) $9xy-36y$
8) $8mn^2-6nm^2$
9) $15x^3-19$
10) 0
11) $7x^2-7x+2$
12) $2xy+x+1$
13) $4x^2+3x-9$
14) $-5x-5y-5xy$
15) $-13n-2m+6mn$
16) $-5ab^2+22a^2b-3b$
17) $4z^2-1$
18) $14x^2z+5xz^2+6$
19) $-3x^2+2x-3$
20) $-3x^2-x$
21) $7a^2b+13x^2y$
22) $-8x^2y^3+15a^2$
23) $-8y^2-5x^3y^2$
24) $-6x^3y-x^2$
25) $2a^2b+3a^2+7b$
26) $25a^2b-22ab^2$
27) $-x^2-4y^2+4x^2y+9xy^2-7xy$
28) $33x^3y^3-14x^2y^2-3xy^3-12x^3y$

פישוט ביטויים ע"י פתיחת סוגריים:

סיכום כללי:

בעת ביצוע כפל בין שני איברים יש לכפול את המקדמים בנפרד ואת האותיות (משתנים) בנפרד.

כלל הפילוג:

- $a(b+c)=ab+ac$.
- $(a+b)(c+d)=ac+ad+bc+bd$.

שאלות:

1) פשט את הביטויים הבאים:

א. $2x\cdot 3x$ ב. $-4x\cdot(-7x)$ ג. $-2x\cdot(-4x)\cdot(-3)$

ד. $8m^2\cdot 4m^3$ ה. $3a^3\cdot(-2a^2)$ ו. $-b\cdot 4b^2\cdot\frac{b^2}{2}$

ז. $a\cdot 3b$ ח. $4a^2\cdot 7b^2$ ט. $ab\cdot(-2a^2b)$

2) פשט את הביטויים הבאים ע"י פתיחת סוגריים:

א. $2(3x-4)$ ב. $2(-3x^2+5x-1)$

ג. $(7x-2)4$ ד. $(1-2x)(-2)$

ה. $a(3a-1)$ ו. $b(b^2-3b+4)$

ז. $2x(5x+3)$ ח. $5x(x^2+2x-3)$

ט. $3t^2(4t-t^2+6)$ י. $\frac{5}{2}(4d^4-3d)d$

3) פשט את הביטויים הבאים:

א. $5x+(3x-2)+(-4-2x)$ ב. $7x+(-4x-5)+3x+(-1+7x)$

ג. $8-(2x-5)-(4x+2)$ ד. $-6x-(-3x-1)-(-7-4x)+1$

ה. $(3-2x^2+4)2+3(x-x^2)-6(7-5x)+4x^2$

ו. $3y^2-(y+1-2y^2)+6(5y-6)-(-y-4)3+5(y^2+1)-7$

4) פשט את הביטויים הבאים:

א. $(x-1)(x+2)$ ב. $(x+3)(x-7)$

ג. $(3-x)(x+4)$ ד. $(3x+4)(5x+1)$

ה. $3(4x+1)(2x-3)$ ו. $-2(3x-1)(5-2x)$

5) פשט את ערכי הביטויים הבאים:

א. $(x-1)(x+3)+2(3-x)$

ב. $(a+4)(a-2)-(a+5)(a-3)$

ג. $(2m-3)(4m+3)+5(2m^2-6)$

ד. $-x^2y^2(x^3y+x^2)+2xy(2x^3y-x^4y^2)$

תשובות סופיות:

1) א. $6x^2$ ב. $28x^2$ ג. $-24x^2$ ד. $32m^5$ ה. $-6a^5$ ו. $-2b^5$

ז. $3ab$ ח. $28a^2b^2$ ט. $-2a^3b^2$

2) א. $6x-8$ ב. $-6x^2+10x-2$ ג. $28x-8$ ד. $-2+4x$

ה. $3a^2-a$ ו. b^3-3b^2+4b ז. $10x^2+6x$ ח. $5x^3+10x^2-15x$

ט. $12t^3-3t^4+18t^2$ י. $10d^5-7.5d^2$

3) א. $6x-6$ ב. $13x-6$ ג. $-6x+11$ ד. $x+9$ ה. $-3x^2+33x-28$

ו. $10y^2+32y-27$

4) א. x^2+x-2 ב. $x^2-4x-21$ ג. $-x^2-x+12$

ד. $15x^2+23x+4$ ה. $24x^2-30x-9$ ו. $12x^2-34x+10$

5) א. x^2+3 ב. 7 ג. $18m^2-6m-39$ ד. $-3x^5y^3+3x^4y^2$

פישוט ביטויים באמצעות נוסחאות הכפל המקוצר:

סיכום כללי:

- נוסחת ריבוע של סכום/הפרש: $(a\pm b)^2=a^2\pm 2ab+b^2$.
- נוסחה להפרש ריבועים: $(a+b)(a-b)=a^2-b^2$.

שאלות:

1) פשט את הביטויים הבאים:

א. $(x+5)^2$ ב. $(x+2)^2$ ג. $(4x+5)^2$

ד. $(6x+2)^2$ ה. $(7x+y)^2$ ו. $(5x+2y)^2$

ז. $(x^2+7)^2$ ח. $(x^2+y^2)^2$ ט. $(x^3+2y^2x)^2$

2) פשט את הביטויים הבאים:

א. $(x-6)^2$ ב. $(x-2)^2$ ג. $(5-x)^2$

ד. $(6x-1)^2$ ה. $\left(3x-\frac{1}{2}\right)^2$ ו. $\left(\frac{1}{3}x-5\right)^2$

ז. $(3m-2n)^2$ ח. $\left(x^2-\frac{3}{5}y\right)^2$ ט. $(x^2y^2-7)^2$

3) פשט את הביטויים הבאים:

א. $(x-5)(x+5)$ ב. $(3+x)(x-3)$

ג. $(3x-1)(3x+1)$ ד. $(5-7x)(7x+5)$

ה. $\left(\frac{1}{2}x+6\right)\left(\frac{1}{2}x-6\right)$ ו. $\left(5y-\frac{1}{4}x\right)\left(\frac{1}{4}x+5y\right)$

ז. $(x^2+y)(x^2-y)$ ח. $(3a^2b^3-4)(3a^2b^3+4)$

4) פשט את הביטויים הבאים:

א. $(x+1)(x+2)-3x$

ב. $(x-5)(5x-1)+2(4+x)$

ג. $x(2x-1)(2x+1)-4x^2(x+1)$

ד. $-(y+3x)(y-3x)+(y-3x)^2$

ה. $x(x+3)-(6+x)(6x+2)-(x+2)^2$

ו. $-5(x+7)(x-7)+3(2x+5)(5-x)+(x+1)^2$

תשובות סופיות:

1) א. $x^2+10x+25$ ב. x^2+4x+4 ג. $16x^2+40x+25$

ד. $36x^2+24x+4$ ה. $49x^2+14xy+y^2$ ו. $25x^2+20xy+4y^2$

ז. $x^4+14x+49$ ח. $x^4+2x^2y^2+y^4$ ט. $x^6+4x^4y^2+4y^4x^2$

2) א. $x^2-12x+36$ ב. x^2-4x+4 ג. $25-10x+x^2$

ד. $36x^2-12x+1$ ה. $9x^2-3x+\frac{1}{4}$ ו. $\frac{1}{9}x^2-3\frac{1}{3}x+25$

ז. $9m^2-12mn+4n^2$ ח. $x^4-\frac{6}{5}x^2y+\frac{9}{25}y^2$ ט. $x^4y^4-14x^2y^2+49$

3) א. x^2-25 ב. x^2-9 ג. $9x^2-1$ ד. $25-49x^2$

ה. $\frac{1}{4}x^2-36$ ו. $25y^2-\frac{1}{16}x^2$ ז. x^4-y^2 ח. $9a^4b^6-16$

4) א. x^2+2 ב. $5x^2-24x+13$ ג. $-4x^2-x$

ד. $18x^2-6xy$ ה. $-6x^2-39x-16$ ו. $-10x^2+17x+321$

פירוק לגורמים של ביטויים אלגבריים:

סיכום כללי:

פירוק לגורמים הוא פעולה הפוכה לפתיחת סוגריים – נרצה להוציא את הגורמים המשותפים לאיברים מחוץ לסוגריים.

- פירוק לגורמים ע"י הוצאת איבר אחד משותף:
  - הוצאת מספר משותף: $2x-8=2(x-4)$.
  - הוצאת אות משותפת: $x^2-12x=x(x-12)$.
  - הוצאת מספר ואות יחד: $3x^2-21x=3x(x-7)$.
- פירוק לגורמים ע"י נוסחאות הכפל המקוצר:
  - נוסחת הבינום של ניוטון: $a^2\pm 2ab+b^2=(a\pm b)^2$.
  - נוסחה להפרש ריבועים: $a^2-b^2=(a+b)(a-b)$.

שאלות:

1) פשט את הביטויים הבאים ע"י הוצאת גורם משותף:

א. $3x-12$ ב. $6y-4$

ג. $20-8a$ ד. $4a^3+8b$

ה. $75m^2+25m+15$ ו. $40a^2-8b^2+64c^2$

2) פשט את הביטויים הבאים ע"י הוצאת גורם משותף:

א. y^2+5y ב. $3x-11x^3$

ג. $6y^2+5y^3+4y$ ד. $\frac{1}{2}a^7-\frac{1}{4}a^5+a^3$

3) פשט את הביטויים הבאים ע"י הוצאת גורם משותף:

א. $2x^2-8x$
ב. $3t^2+12t$
ג. $5n^3-20n^2+50n$
ד. $8y^2+6y^3-2y^4$
ה. $4x^2y^2+16x^2y-20xy^2$
ו. $27mn-3n^2m+9n^3m$

4) פשט את הביטויים הבאים ע"י שימוש בנוסחאות הכפל המקוצר:

א. $x^2+10x+25$
ב. $x^2+12x+36$
ג. $y^2-18y+81$
ד. $y^2-22y+121$
ה. $4x^2+4x+1$
ו. $16y^2-8y+1$
ז. $9x^2-24x+16$
ח. $25x^2+70x+49$

5) פשט את הביטויים הבאים ע"י שימוש בנוסחאות הכפל המקוצר:

א. r^2-25
ב. x^2-81
ג. $25y^2-49$
ד. $121x^2-1$
ה. x^2y^2-4
ו. $9y^4-169x^4$

6) פשט את הביטויים הבאים ע"י הוצאת גורם משותף ונוסחאות הכפל המקוצר:

א. $y-y^3$
ב. x^3-10x^2+25x
ג. m^4-1
ד. $196x^4-140x^3+25x^2$

תשובות סופיות:

1) א. $3(x-4)$ ב. $2(3y-2)$ ג. $4(5-2a)$

ד. $4(a^3+2b)$ ה. $5(15m^2+5m+3)$ ו. $8(5a^2-b^2+8c^2)$

2) א. $y(y+5)$ ב. $x(3-11x^2)$ ג. $y(6y+5y^2+4)$

ד. $a^3\left(\frac{1}{2}a^4-\frac{1}{4}a^2+1\right)$

3) א. $2x(x-4)$ ב. $3t(t+4)$ ג. $5n(n^2-4n+10)$

ד. $2y^2(4+3y-y^2)$ ה. $4xy(xy+4x-5y)$ ו. $3mn(9-n-3n^2)$

4) א. $(x+5)^2$ ב. $(x+6)^2$ ג. $(y-9)^2$ ד. $(y-11)^2$

ה. $(2x+1)^2$ ו. $(4y-1)^2$ ז. $(3x-4)^2$ ח. $(5x+7)^2$

5) א. $(r+5)(r-5)$ ב. $(x+9)(x-9)$ ג. $(5y+7)(5y-7)$

ד. $(11x+1)(11x-1)$ ה. $(xy+2)(xy-2)$ ו. $(3y^2+13x^2)(3y^2-13x^2)$

6) א. $y(1+y)(1-y)$ ב. $x(x-5)^2$ ג. $(m^2+1)(m+1)(m-1)$

ד. $x^2(14x-5)^2$.

פירוק הטרינום:

סיכום כללי:

טרינום משמעו תלת איבר מהצורה: ax^2+bx+c כאשר a, b ו-c הם מספרים כלשהם.

שיטת הטרינום מאפשרת לפרק את תלת האיבר ל-4 איברים ע"י פיצול האיבר bx לשני איברים באופן כזה שמאפשר להוציא גורם משותף.

הכלל הוא למצוא שני מספרים, m_1 ו-m_2, שמקיימים: $m_1\cdot m_2=ac$ ו-$m_1+m_2=b$.

לאחר מכן ניתן לפרק את הטרינום: $ax^2+bx+c=ax^2+m_1x+m_2x+c$.

השלב האחרון הוא הוצאת גורם משותף מכל זוג: $\underbrace{ax^2+m_1x}+\underbrace{m_2x+c}$.

הערה:

במקרה שנוסחת השורשים ידועה, ניתן להיעזר בה כדי למצוא את המספרים m_1 ו-m_2 באופן הבא: $m_2=\frac{-b-\sqrt{b^2-4ac}}{2a}$, $m_1=\frac{-b+\sqrt{b^2-4ac}}{2a}$ ולאחר מכן ניתן לכתוב את הטרינום כמכפלה: $ax^2+bx+c=a(x-m_1)(x-m_2)$. אם קיים פתרון (שורש) אחד $m_1=m_2=\frac{-b}{2a}$ אז נכתוב: $ax^2+bx+c=a(x-m_1)^2$ ואם לא קיימים פתרונות אז לא קיים פירוק כלל.

שאלות:

1) פרק את הביטויים הבאים לפי פירוק טרינום:

א. x^2+5x+4	ב. $x^2-8x+15$	ג. $x^2-33x+62$
ד. $2x^2+7x-15$	ה. $3x^2-11x+6$	ו. $6x^2+5x+1$
ז. $2x^2+x-6$	ח. $x^2-18x+81$	ט. x^2+2x+8

2) פרק את הביטויים הבאים ע"י שימוש בנוסחת השורשים.
הערה: במידה ולא למדת על נוסחת השורשים התעלם משאלה זו.

א. $6x^2+5x+1$	ב. x^2+5x+4
ג. $4x^2+20x+25$	ד. $3x^2-x+20$

תשובות סופיות:

1) א. $(x+1)(x+4)$ ב. $(x-3)(x-5)$ ג. $(x-2)(x-31)$

ד. $(2x-3)(x+5)$ ה. $(3x-2)(x-3)$ ו. $(3x+1)(2x+1)$

ז. $(x+2)(2x-3)$ ח. $(x-9)^2$ ט. אין פירוק.

2) א. $6\left(x+\frac{1}{3}\right)\left(x+\frac{1}{2}\right)$ ב. $(x+1)(x+4)$ ג. $(2x+5)^2$ ד. אין פירוק.

שברים אלגבריים:

סיכום כללי:

הגדרה:

שבר אלגברי מורכב משתי תבניות, אשר אחת מחלקת את השנייה.

דוגמא לשברים אלגבריים: $\frac{4}{x-x^3}$, $\frac{3x}{x^2+1}$, $\frac{x+1}{x+2}$.

במקרה בו המכנה הוא מספר, לא מדובר בשבר אלגברי מכיוון שניתן לכתוב את הביטוי ללא צורך בחילוק בין ביטויים שונים כגון: $\frac{3x+5}{4}=\frac{3}{4}x+\frac{5}{4}$.

תחום הגדרה של שבר:

היות ושבר אלגברי הוא תבנית אשר יכולה לקבל ערכים שונים בעת הצבות שונות, חשוב להגביל את המספרים שניתן להציב באופן כזה שלא תתקבל חלוקה באפס.

דוגמא: השבר $\frac{1}{x+4}$ לא מוגדר כאשר $x=-4$ מכיוון שמתקבל: $\frac{1}{0}$.

במקרים אלו נדרוש **תנאי** על המשתנה אשר יכתב באופן הבא: $x\neq -4$ ומשמעו היא ש-x יכול לקבל על ערך מספרי אפשרי למעט 4-, מכיוון שבמקרה זה השבר לא מוגדר.

כלל צמצום שברים אלגבריים:

ניתן לצמצם שברים אלגבריים ע"י הבאת המונה והמכנה למכפלה של ביטויים.
במידה וקיימות פעולות החיבור והחיסור בין איברים שונים לא ניתן לבצע צמצום של איברים דומים בין המונה והמכנה. להלן מספר דוגמאות הנוגעות לצמצומים:

- צמצום ע"י הוצאת גורם משותף: $\frac{2x+8}{x+4}=\frac{2\cancel{(x+4)}}{\cancel{x+4}}=\frac{2\cdot 1}{1}=2$.
- צמצום ע"י נוסחת כפל מקוצר: $\frac{3x-15}{x^2-10x+25}=\frac{3\cancel{(x-5)}}{(x-5)^{\cancel{2}}}=\frac{3\cdot 1}{x-5}=\frac{3}{x-5}$.
- צמצום ע"י פירוק טרינום: $\frac{x^2-2x-3}{x^2-3x-4}=\frac{\cancel{(x+1)}(x-3)}{\cancel{(x+1)}(x-4)}=\frac{x-3}{x-4}$.

שאלות:

1) מצא את תחום ההגדרה של השברים האלגבריים הבאים:

א. $\frac{x+4}{x+3}$

ב. $\frac{5}{x-6}$

ג. $\frac{x+7}{2x-8}$

ד. $\frac{x^2+1}{x^2-4x}$

ה. $\frac{3}{x^2+2x+1}$

ו. $\frac{x^2}{x^2-4}$

ז. $\frac{6}{y^4-y^2}$

ח. $\frac{8x-2}{3x^3-15x^2+12x}$

2) צמצם את השברים הבאים (במידה ולא ניתן צמצם הסבר מדוע):

א. $\frac{ax}{a}$

ב. $\frac{a-x}{a}$

ג. $\frac{a-ax}{a}$

ד. $\frac{x+1}{y+1}$

ה. $\frac{x}{x+y}$

ו. $\frac{6x}{6y}$

ז. $\frac{x^2y}{xy^2}$

ח. $\frac{x^2+y^2}{x^2y^2}$

ט. $\frac{4x^2y}{xy}$

י. $\frac{3x^2}{x^2+3}$

3) צמצם את השברים הבאים ע"י הוצאת גורם משותף וכתוב את תחום הגדרתם:

א. $\frac{3x+12}{x+4}$

ב. $\frac{m^2+4m}{4m+16}$

ג. $\frac{2a-12}{a^2-6a}$

ד. $\frac{x^2-5x}{15-3x}$

ה. $\frac{3-18y^2}{6y^2-1}$

ו. $\frac{4x^3-2x^2}{6x-3}$

ז. $\frac{3y}{y^3-3y^2}$

ח. $\frac{3z^3-12z^2+4z}{z^2+5z}$

4) צמצם את השברים הבאים ע"י פירוק לגורמים וכתוב את תחום הגדרתם:

א. $\frac{x^2+10x+25}{2x+10}$

ב. $\frac{8n-n^2}{n^2-16n+64}$

ג. $\frac{z^3-4z^2}{2z^2-16z+32}$

ד. $\frac{4m^2+20m+25}{4m^2+10m}$

ה. $\frac{18y^2-24y+8}{2y-3y^2}$

ו. $\frac{a^3+4a^2b+4ab^2}{3ab+6b^2}$

5) צמצם את השברים הבאים ע"י טרינום ריבועי וכתוב את תחום הגדרתם:

א. $\frac{x+2}{x^2-3x-10}$

ב. $\frac{m^2-12m+32}{m-4}$

ג. $\frac{4y-10}{2y^2+y-15}$

ד. $\frac{3z^2+26z+16}{3z+2}$

ה. $\frac{x^2+5x-36}{x^3+9x^2}$

ו. $\frac{9n^2-12n}{4+5n-6n^2}$

ז. $\frac{x^2+4x+4}{x^2+5x+6}$

ח. $\frac{x^2-14x+49}{x^2+x-56}$

ט. $\frac{3a^2b-10ab^2+3b^3}{-3a^3b+11a^2b^2-6ab^3}$

י. $\frac{m^3n-m^2n^2-m^2+mn}{2m^2n^3+mn^2-3n}$

תשובות סופיות:

1) א. $x \neq -3$ ב. $x \neq 6$ ג. $x \neq 4$ ד. $x \neq 0 , x \neq 4$

ה. $x \neq -1$ ו. $x \neq -2 , x \neq 2$ ז. $y \neq 0 , y \neq -1 , y \neq 1$

ח. $x \neq 0 , x \neq 1 , x \neq 4$

2) א. x ב. לא ניתן לצמצם ג. $1-x$

ד. לא ניתן לצמצם ה. לא ניתן לצמצם ו. $\frac{x}{y}$ ז. $\frac{x}{y}$

ח. לא ניתן לצמצם ט. $4x$ י. לא ניתן לצמצם

3) א. $3 , x \neq -4$ ב. $\frac{m}{4} , m \neq -4$ ג. $\frac{2}{a} , a \neq 0,6$

ד. $-\frac{x}{3} , x \neq 5$ ה. $-3 , y \neq \pm\frac{1}{\sqrt{6}}$ ו. $\frac{2x^2}{3} , x \neq \frac{1}{2}$

ז. $\frac{3}{y(y-3)} , y \neq 0,3$ ח. $\frac{3z^2-12z+4}{z+5} , z \neq 0,-5$

4) א. $\frac{x+5}{2} , x \neq -5$ ב. $\frac{n}{8-n} , n \neq 8$ ג. $\frac{z^2}{2(z-4)} , z \neq 4$

ד. $\frac{2m+5}{2m} , m \neq 0,-\frac{5}{2}$ ה. $\frac{2(2-3y)}{y} , y \neq 0,\frac{2}{3}$ ו. $\frac{a(a+2b)}{3b} , b \neq 0, a \neq -2b$

5) א. $\frac{1}{x-5} , x \neq 5,-2$ ב. $m-8 , m \neq 4$ ג. $\frac{2}{y+3} , x \neq -3,\frac{5}{2}$

ד. $z+8 , z \neq -\frac{2}{3}$ ה. $\frac{x-4}{x^2} , x \neq 0,-9$ ו. $\frac{-3n}{2n+1} , n \neq -\frac{1}{2},\frac{4}{3}$

ז. $\frac{x+2}{x+3} , x \neq -2,-3$ ח. $\frac{x-7}{x+8} , x \neq 7,-8$

ט. $\frac{3a-b}{a(2b-3a)} , a \neq 0 , b \neq 0, a \neq 3b , 2b \neq 3a$ י. $\frac{m(m-n)}{n(2mn+3)} , mn \neq 1,-\frac{3}{2},n \neq 0$

כפל וחילוק של שברים אלגברים:

סיכום כללי:

כפל שברים יתבצע ע"י הכפלת כל מונה בנפרד והכפלת כל מכנה בנפרד.

חילוק שברים יתבצע ע"י לקיחת ההופכי של שבר המחלק וביצוע פעולת כפל.

- דוגמא לכפל שברים: $\frac{x+1}{x^2}\cdot\frac{x}{3x+3}=\frac{x+1}{x^2}\cdot\frac{x}{3(x+1)}=\frac{\cancel{x}\cancel{(x+1)}}{3x^{\cancel{2}}\cancel{(x+1)}}=\frac{1}{3x}$.

- דוגמא לחילוק שברים: $\frac{4x}{y}:\frac{12}{y^2+y}=\frac{4x}{y}\cdot\frac{y^2+y}{12}=\frac{\cancel{4}^{1}x}{\cancel{y}}\cdot\frac{\cancel{y}(y+1)}{\cancel{12}_{3}}=\frac{x(y+1)}{3}$.

שאלות:

1) פשט את הביטויים הבאים:

א. $\frac{x}{3}\cdot\frac{x}{8}$

ב. $\frac{x}{3}\cdot\frac{9}{x^2}$

ג. $7y\cdot\frac{5}{y^2}$

ד. $6x^2\cdot\frac{3}{40x}$

ה. $(x^2+3x)\cdot\frac{2}{3x+9}$

ו. $(a^2-25)\cdot\frac{20}{5a+25}$

ז. $\frac{w^2-9}{w}\cdot\frac{w^2}{2w+6}$

ח. $\frac{y+4}{y^2+16}\cdot\frac{y^2-16}{2y+8}$

ט. $\frac{z^2+30z+225}{6z+90}\cdot\frac{12}{2z-10}$

י. $\frac{5n^2}{n^2-121}\cdot\frac{2n^2+44n+242}{n+2}\cdot\frac{n^2+4n+4}{n}$

2) פשט את הביטויים הבאים:

א. $\frac{x}{8}:\frac{x}{6}$

ב. $\frac{y}{25}:\frac{5}{y}$

ג. $a^2:\frac{1}{6a}$

ד. $\frac{5}{6a}:a^2$

ה. $\left(d^2-3d\right):\frac{5d-15}{5d}$

ו. $\frac{t}{t+4}:\frac{3t}{t+4}$

ז. $\frac{y^2+8y+16}{8y^2}:\frac{y^2-16}{7y^2}$

ח. $\frac{a^2-64}{a^2-36}:\frac{a+8}{a+6}$

תשובות סופיות:

1) א. $\frac{x^2}{24}$ ב. $\frac{3}{x}$ ג. $\frac{35}{y}$ ד. $\frac{9x}{20}$ ה. $\frac{2x}{3}$

ו. $4(a-5)$ ז. $\frac{w(w-3)}{2}$ ח. $\frac{y^2-16}{2y^2+32}$ ט. $\frac{z+15}{z-5}$ י. $\frac{10n(n+11)(n+2)}{n-11}$

2) א. $\frac{3}{4}$ ב. $\frac{y^2}{125}$ ג. $6a^3$ ד. $\frac{5}{6a^3}$ ה. d^2 ו. $\frac{1}{3}$

ז. $\frac{7(y+4)}{8(y-4)}$ ח. $\frac{a-8}{a-6}$

חיבור וחיסור של שברים אלגברים:

סיכום כללי:

ביצוע פעולת החיבור והחיסור תתבצע באופן זהה לשברים מספריים.

נרצה להרחיב את השברים כך שהמכנה של שניהם יהיה זהה, ולאחר מכן נחבר את המונים.

כדי להרחיב את השברים נעזר בפעולת מציאת מכנה משותף.
לשם כך נעזר בפירוקים השונים כדי להביא את הביטויים שבכל מכנה לצורתם המופשטת.

דוגמא לחיבור שברים בעלי אותו מכנה:

$$\frac{1}{x}+\frac{x+1}{x}=\frac{1+(x+1)}{x}=\frac{x+2}{x}$$

דוגמא לחיבור מספר לשבר אלגברי:

$$2+\frac{3}{x+2}=\frac{2(x+2)}{x+2}+\frac{3}{x+2}=\frac{2(x+2)+3}{x+2}=\frac{2x+7}{x+2}$$

דוגמא לחיבור שברים עם מכנים שונים (ע"י פעולת מכנה משותף):

$$\frac{1}{x+1}+\frac{1}{x}=\frac{x}{x(x+1)}+\frac{x+1}{x(x+1)}=\frac{x+x+1}{x(x+1)}=\frac{2x+1}{x(x+1)}$$

דוגמא לחיבור שברים ע"י שימוש בפירוק לגורמים (כדי למצוא מכנה משותף מינימלי):

$$\frac{1}{x^2-3x}+\frac{3}{x-3}=\frac{1}{x^2-3x}+\frac{3x}{x^2-3x}=\frac{1+3x}{x^2-3x}$$

דוגמא לחיבור שברים ע"י נוסחאות הכפל המקוצר (כדי למצוא מכנה משותף מינימלי):

$$\frac{3}{x^2-6x+9}-\frac{2}{x^2-9}=\frac{3}{(x-3)^2}-\frac{2}{(x-3)(x+3)}=\frac{3(x+3)-2(x-3)}{(x-3)^2(x+3)}=\frac{x+15}{(x-3)^2(x+3)}$$

שאלות:

1) פשט את הביטויים הבאים:

א. $\frac{a}{6}+\frac{a-5}{6}$

ב. $\frac{5}{x}+\frac{4x+3}{x}$

ג. $\frac{x-2}{x+1}+\frac{3+4x}{x+1}$

ד. $\frac{7z}{2z-3}-\frac{4z}{2z-3}-\frac{z+3}{2z-3}$

2) פשט את הביטויים הבאים:

א. $\frac{1}{ab}-\frac{5}{bc}$

ב. $\frac{1}{xy}+\frac{5}{yz}+\frac{4}{xz}$

ג. $\frac{c}{ab}-\frac{ad}{bc}+\frac{2b}{cd}$

ד. $-\frac{5}{x}+\frac{x+1}{xy^2}$

ה. $\frac{1}{(y+1)^2}+\frac{3}{y+1}$

ו. $\frac{3}{z(z-3)}-\frac{2}{z(z-2)}$

3) פשט את הביטויים הבאים:

א. $1-\frac{2}{x}$

ב. $1+\frac{3}{y^2}$

ג. $2+\frac{2}{x+1}$

ד. $3-\frac{1}{x}+\frac{1}{3x}$

ה. $\frac{a+1}{a^2}-\frac{3-a}{4a}-3$

ו. $\frac{x}{9yz}+\frac{z}{3y^2x}+\frac{3-y}{12xz}-3\frac{1}{2}$

4) פשט את הביטויים הבאים:

א. $\frac{3}{x+1}+\frac{1}{x}$

ב. $\frac{4}{y+2}-\frac{3}{y}$

ג. $\frac{a+1}{a+2}+\frac{3}{a}$

ד. $\frac{1}{z+3}+\frac{2}{3z}-\frac{3}{z}$

5) פשט את הביטויים הבאים:

א. $\frac{24}{a^2-9}+\frac{4}{a+3}$

ב. $\frac{3}{x^2-16}+\frac{2}{(x+4)^2}$

ג. $\frac{y}{(y-2)^2}+\frac{3y}{4-y^2}$

ד. $\frac{3z}{z^2+4z+3}-\frac{z+0.5}{z^2+2z+1}$

ה. $\frac{x-1}{x^2+3x-40}+\frac{2}{-x^2+8x-15}$

ו. $\frac{2a+3}{2a^2+15a+7}+\frac{a+3}{a^2+14a+49}$

ז. $\frac{x}{x-3}+\frac{9-x}{x^2-8x+15}$

ח. $\frac{1}{a-b}+\frac{2}{a+2b}-\frac{3b}{a^2+ab-2b^2}$

6) פשט את הביטויים הבאים:

א. $\frac{4}{x}\cdot\frac{x^2}{8}+\frac{9}{x+1}\cdot\frac{x+1}{18}$

ב. $\left(\frac{2}{x}+1\right)\cdot\frac{x^2}{7x+14}$

ג. $\frac{7}{y^2}:\frac{6}{y^3}-\frac{y-4}{63}\cdot\frac{3y-4}{y^2-8y+16}$

ד. $\left(3x-\frac{2}{x^2}+\frac{1}{x}\right):\frac{6x^3+2x-4}{x^2}$

ה. $\left(\frac{2x+1}{20x^2-28x-3}-\frac{3x+1}{30x^2-17x-2}\right):\frac{18x+3}{6x^2-13x+6}$

תשובות סופיות:

1) א. $\frac{2a-5}{6}$ ב. $\frac{4x+8}{x}$ ג. $\frac{5x+1}{x+1}$ ד. 1

2) א. $\frac{c-5a}{abc}$ ב. $\frac{z+5x+4y}{xyz}$ ג. $\frac{c^2d-a^2d^2+2ab^2}{abcd}$

ד. $\frac{-5y^2+x+1}{xy^2}$ ה. $\frac{3y+4}{(y+1)^2}$ ו. $\frac{1}{(z-2)(z-3)}$

3) א. $\frac{x-2}{x}$ ב. $\frac{y^2+3}{y^2}$ ג. $\frac{2x+4}{x+1}$

ד. $\frac{9x-2}{3x}$ ה. $\frac{-11a^2+a+4}{4a^2}$ ו. $\frac{4x^2y+12z^2+9y^2-3y^3-126xy^2z}{36xy^2z}$

4) א. $\frac{4x+1}{x(x+1)}$ ב. $\frac{y-6}{y(y+2)}$ ג. $\frac{a^2+4a+6}{a(a+2)}$

ד. $-\frac{4z+21}{3z(z+3)}$

5) א. $\frac{4}{a-3}$ ב. $\frac{5x+4}{(x-4)(x+4)^2}$ ג. $\frac{2y(4-y)}{(y-2)^2(y+2)}$

ד. $\frac{(4z+3)(z-1)}{2(z+1)^2(z+3)}$ ה. $\frac{x^2-6x-13}{(x+8)(x-5)(x-3)}$ ו. $\frac{4(a^2+6a+6)}{(a+7)^2(2a+1)}$

ז. $\frac{x-3}{x-5}$ ח. $\frac{3}{a+2b}$

6) א. $\frac{x+1}{2}$ ב. $\frac{x}{7}$ ג. $\frac{147y^2-594y+8}{126(y-4)}$ ד. $\frac{1}{2}$ ה. $\frac{1}{3(10x+1)}$

שברים כפולים:

סיכום כללי:

שבר כפול מורכב באופן הבא: $\frac{\frac{a}{b}}{\frac{c}{d}}$ כאשר מתקיים: $\frac{\frac{a}{b}}{\frac{c}{d}}=\frac{a}{b}:\frac{c}{d}=\frac{a}{b}\cdot\frac{d}{c}=\frac{ad}{bc}$.

נובע מכאן כי ניתן לצמצם ביטויים בין שני המכנים או שני המונים בלבד.

שאלות:

פשט את הביטויים הבאים:

1) $\frac{\frac{4x}{12}}{x}$

2) $\frac{\frac{y+1}{2y+2}}{5}$

3) $\frac{\frac{5}{t}}{30t^2}$

4) $\frac{\frac{t^2-81}{9t^2}}{6t+54}$

5) $\frac{\frac{3y^3-y^2}{25}}{\frac{y^2}{3-y}}$

6) $\frac{\frac{4x}{x+1}}{\frac{8}{x^2+2x+1}}$

7) $\frac{\frac{8c^2}{3c^3-9c^2-12c}}{\frac{40}{15c+15}}$

8) $\frac{\frac{t^2-t-20}{16t+8}}{\frac{25-t^2}{2t+1}}$

9) $\frac{\frac{1}{x}-4+\frac{x}{x+1}}{\frac{1-3x(x+1)}{5x+5}}$

תשובות סופיות:

1) $\frac{x^2}{3}$

2) 2.5

3) $\frac{1}{6t^3}$

4) $\frac{t-9}{54t^2}$

5) $\frac{(3y-1)(3-y)}{25}$

6) $\frac{x(x+1)}{2}$

7) $\frac{c}{c-4}$

8) $\frac{t+4}{-8(t+5)}$

9) $\frac{5}{x}$

מכינה אקדמית במתמטיקה למדעי המחשב 1400004

פרק 2 - אלגברה - משוואות אלגבריות

תוכן העניינים

1. משוואות ממעלה ראשונה 47
2. מערכת שתי משוואות בשני נעלמים ממעלה ראשונה 49
3. משוואות עם אינסוף פתרונות וללא פתרון 52
4. משוואה ממעלה שנייה 53
5. משוואות דו-ריבועיות 55
6. משוואות עם פרמטרים 57
7. משוואות עם שורשים 59
8. משוואות עם ערך מוחלט 61
9. מערכת משוואות ממעלה שנייה 62
10. משוואות מתקדמות מסכמות 64
11. פישוט ביטויים ומשוואות ממעלה שלישית 67

משוואה ממעלה ראשונה:

סיכום כללי:

משוואה ממעלה ראשונה היא מהצורה: $ax=b$ (כלומר, החזקה של הנעלם היא 1).

פתרון של משוואה ממעלה ראשונה הוא $x=\frac{b}{a}$ כאשר $a\neq 0$.

שלבי הפתרון הם:

1. ביצוע מכנה משותף (במידה וצריך).
2. פתיחת סוגריים אם ישנם.
3. העברת אגפים וכינוס אברים דומים (בידוד הנעלם באגף אחד והמספרים באגף שני).
4. בידוד הנעלם ומציאתו ע"י חילוק במקדם שלו.

שאלות:

1) פתור את המשוואות הבאות (משוואות יסודיות ממעלה ראשונה):

א. $6x+2=8$

ב. $7-2x=7$

ג. $2x+x=24$

ד. $2x+6=8+x$

ה. $-7x+5+2x=4x-13$

ו. $6x-3+5-7x=x-5x-7$

ז. $2-5x+7=-3x+8$

ח. $x-2+5x=4-3x-5+7x+7$

2) פתור את המשוואות הבאות (משוואות עם פתיחת סוגריים):

א. $3(x-1)-4=2$

ב. $7x-4(3-4x)=-x$

ג. $6(4-x)-(6-x)=3x$

ד. $5x-(3x-7)4=21$

ה. $x(x-5)=x^2-7x+8$

ו. $(7-x)(1-x)-(x-3)^2=0$

3) פתור את המשוואות הבאות (משוואות עם מכנה מספרי):

א. $\frac{x}{3}-\frac{x}{9}=-4$

ב. $\frac{4x}{15}-\frac{3x}{10}=1$

ג. $\frac{2}{3}x+\frac{4}{5}x=x-\frac{7}{15}$

ד. $\frac{5x+1}{6}-\frac{6x-1}{5}=\frac{3x+1}{4}-1$

ה. $\frac{2}{5}(x-3)-\frac{3}{15}(4-x)=x+2$

ו. $5\left(\frac{x}{3}-\frac{x}{7}\right)-x=1$

4) פתור את המשוואות הבאות (משוואות עם נעלם במכנה):

א. $\frac{1}{4}-\frac{2}{x}=0$

ב. $\frac{1}{2}-\frac{x}{x-1}=0$

ג. $\frac{3}{x}=\frac{1}{x+2}$

ד. $\frac{5}{2x-1}=\frac{4}{3x+2}$

ה. $\frac{x+5}{3x^2}-\frac{1}{6x}=\frac{1}{x}$

ו. $\frac{1}{4x}+\frac{3}{x}=\frac{13}{2}$

5) פתור את המשוואות הבאות (משוואות עם מכנה משותף ע"י פירוק לגורמים):

א. $\frac{x^2+2}{3x^2+5x}=\frac{3x-1}{9x+15}$

ב. $\frac{7}{x^2-1}+\frac{2}{x+1}+\frac{3}{2-2x}=0$

ג. $\frac{3}{(2-x)^2}+\frac{5}{12-3x^2}=0$

ד. $\frac{4x^2-24x+36}{x-3}=12$

תשובות סופיות:

1) א. $x=1$ ב. $x=0$ ג. $x=8$ ד. $x=2$ ה. $x=2$ ו. $x=-3$

ז. $x=\frac{1}{2}$ ח. $x=4$.

2) א. $x=3$ ב. $x=\frac{1}{2}$ ג. $x=2\frac{1}{4}$ ד. $x=1$ ה. $x=4$ ו. $x=-1$.

3) א. $x=-18$ ב. $x=-30$ ג. $x=-1$ ד. $x=1$ ה. $x=-10$ ו. $x=-21$.

4) א. $x=8$ ב. $x=-1$ ג. $x=-3$ ד. $x=-2$ ה. $x=2$ ו. $x=\frac{1}{2}$.

5) א. $x=-6$ ב. $x=-7$ ג. $x=-7$ ד. $x=6\ ,\ x\neq 3$.

מערכת שתי משוואות בשני נעלמים ממעלה ראשונה:

סיכום כללי:

הגדרה:

מערכת שתי משוואות בשני נעלמים ממעלה ראשונה (ליניאריות) היא מהצורה הבאה:

$$\begin{cases} a_1x+b_1y=c_1 \\ a_2x+b_2y=c_2 \end{cases}$$

כאשר a_1 , b_1 , c_1 ו- a_2 , b_2 , c_2 הם מקדמים מספריים.

דוגמאות למערכות של משוואות: $\begin{cases} x+y=3 \\ 2x-y=1 \end{cases}$, $\begin{cases} y=3x-1 \\ \frac{x+3}{2}=y+6 \end{cases}$.

פתרון של מערכת משוואות:

פתרון של מערכת המשוואות הוא זוג סדור המקיים את כל המשוואות שבמערכת.

הצגה גרפית של מערכת משוואות:

פתרון גרפי של מערכת משוואות הוא נקודת החיתוך של הישרים המייצגים כל משוואה.

יתכנו שלושה מצבים הדדיים בין שני ישרים:

- הישרים נחתכים:
במקרה זה נקודת החיתוך תהיה פתרון המערכת.

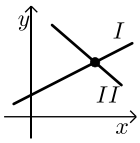

- הישרים מקבילים:
במקרה זה לא יהיה פתרון למערכת.

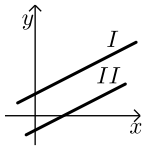

- הישרים מתלכדים:
במקרה זה יהיו אינסוף פתרונות למערכת המשוואות.

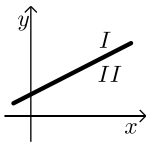

פתרון אלגברי של מערכת משוואות:

- פתרון ע"י שיטת ההצבה:
נבודד את אחד הנעלמים ממשוואה אחת ונציב אותו במשוואה השנייה.
נבחר בשיטה זו במקרים בהם קל לבודד נעלם באחת המשוואות.

- פתרון ע"י השוואת מקדמים:

1. כופלים (או מחלקים) משוואה אחת (או שתיהן) במספר השונה מאפס כך שתתקבלנה משוואות שקולות בעלות מקדמים נגדיים או זהים עבור אחד המשתנים.
2. מחברים (או מחסרים) את המשוואות ומקבלים משוואה חדשה עם נעלם אחד.
3. מוצאים את ערך הנעלם מהמשוואה החדשה ומציבים אותו באחת המשוואות המקוריות למציאת ערך הנעלם השני.

הערה:

נוח להשתמש בשיטת השוואת המקדמים ע"י כך שמעבירים את המערכת הנתונה למערכת שקולה שבה המשתנים באגף אחד והמספר החופשי באגף השני.

שאלות:

1) פתור את המשוואות הבאות:

א. $\begin{cases} 3x+y=11 \\ y=5 \end{cases}$

ב. $\begin{cases} y=x-3 \\ y=2x+4 \end{cases}$

ג. $\begin{cases} -3x+2y=-16 \\ x=5y+14 \end{cases}$

ד. $\begin{cases} 5x-2y=-2 \\ x+4y=4 \end{cases}$

ה. $\begin{cases} -5x+7y=-26 \\ x+3y=-8 \end{cases}$

ו. $\begin{cases} 2x+3y=5 \\ 5x+7y=11 \end{cases}$

2) פתור את המשוואות הבאות:

א. $\begin{cases} x+3y=5 \\ x-3y=3 \end{cases}$

ב. $\begin{cases} 5x+2y=14 \\ 5x+3y=23 \end{cases}$

ג. $\begin{cases} 5y=2x \\ 4x=5y+8 \end{cases}$

ד. $\begin{cases} 4x=3y-29 \\ 5y=9-13x \end{cases}$

3) פתור את המשוואות הבאות:

א. $\begin{cases} x+2y=1 \\ 4x+8y=5 \end{cases}$

ב. $\begin{cases} 2(x-y)+4y=1+x \\ 2-7y+x=3(x-y) \end{cases}$.

4) פתור את המשוואות הבאות:

א. $\begin{cases} 3y-x+2=4x+2-3y \\ 2x-3-y=5y-4x+3 \end{cases}$

ב. $\begin{cases} \frac{x-3}{8}-\frac{x+y}{16}=\frac{y-1}{4} \\ 3(2x-y)-4x-11=0 \end{cases}$

ג. $\begin{cases} \frac{3x-1}{4}-\frac{2}{5}(x-y)=\frac{3}{10}(x+3) \\ \frac{x+1}{4}-\frac{y}{2}=1 \end{cases}$.

5) פתור את המשוואות הבאות:

א. $\begin{cases} \frac{3}{x}+\frac{1}{y}=4 \\ \frac{5}{x}-\frac{1}{y}=4 \end{cases}$

ב. $\begin{cases} \frac{3}{x}+\frac{3}{y}=2 \\ \frac{9}{x}-\frac{4}{y}=-7 \end{cases}$

ג. $\begin{cases} 4x-\frac{7}{y}=-3 \\ 5x+\frac{2}{y}=7 \end{cases}$

6) פתור את המשוואות הבאות:

א. $\begin{cases} x(y+2)+y=xy-5 \\ x-y=2 \end{cases}$

ב. $\begin{cases} xy=20 \\ y(3x-4)=20 \end{cases}$

ג. $\begin{cases} 5x-4xy=22 \\ 6x+xy=-20 \end{cases}$

תשובות סופיות:

1) א. $(2,5)$ ב. $(-7,-10)$ ג. $(4,-2)$ ד. $(0,1)$ ה. $(1,-3)$ ו. $(-2,3)$.

2) א. $\left(4,\frac{1}{3}\right)$ ב. $\left(-\frac{4}{5},9\right)$ ג. $(4,1.6)$ ד. $(-2,7)$.

3) א. אין פתרון. ב. אינסוף פתרונות.

4) א. $(6,5)$ ב. $(7,1)$ ג. $(7,2)$.

5) א. $(1,1)$ ב. $(-3,1)$ ג. $(1,1)$.

6) א. $(-1,-3)$ ב. $(2,10)$ ג. $(-2,4)$.

משוואות עם אינסוף פתרונות וללא פתרון:

סיכום כללי:

משוואה ממעלה ראשונה:

למשוואה ממעלה ראשונה מהצורה: $ax=b$ יתכן פתרון יחיד אם ורק אם $a\neq 0$ מכיוון שניתן לחלק ולכתוב: $x=\frac{b}{a}$.

כאשר $a=0$ מתקבלת המשוואה $0\cdot x=b$ ויתכנו שני מצבים:

1. אם $b=0$ את המשוואה היא $0x=0$ ויש אינסוף פתרונות המקיימים אותה.
2. אם $b\neq 0$ את המשוואה היא $0x=b\neq 0$ ואין אף ערך של x המקיים אותה.

שאלות:

פתור את המשוואות הבאות:

1) $x+4=6+x$

2) $3x+6-x=4+2x+2$

3) $6(x-2)=2x+5+4x$

4) $5x-3+x=4x+2x-3$

5) נתונה המשוואה: $3-2(x+2)=5x+\square$.

א. איזה מספר יש להציב ב-$\square$ על מנת שפתרון המשוואה יהיה 1?

ב. איזה מספר יש להציב ב-$\square$ על מנת שפתרון המשוואה יהיה 0?

ג. מצא ביטוי אלגברי שיש להציב ב-$\square$ על מנת שלמשוואה יהיו אינסוף פתרונות.

ד. מצא ביטוי אלגברי שיש להציב ב-$\square$ על מנת שלמשוואה לא יהיה פתרון.

תשובות סופיות:

1) אף פתרון.

2) אינסוף פתרונות.

3) אין פתרון.

4) אינסוף פתרונות.

5) א. 8- ב. 1- ג. $-7x-1$

ד. $-7x+k$ כאשר k הוא מספר כלשהו השונה מ- 1-.

משוואה ממעלה שנייה:

סיכום כללי:

משוואה מהצורה: $ax^2+bx+c=0$, $(a\neq 0)$ נקראת משוואה ריבועית.

פתרונות המשוואה יסומנו ב- x_1 ו- x_2 ויחושבו לפי נוסחת השורשים:

$$x_{1,2}=\frac{-b\pm\sqrt{b^2-4ac}}{2a}.$$

למשוואה ריבועית יתכנו שלושה סוגים של פתרונות:

1. **משוואה עם שני פתרונות ממשיים שונים.**
אם מתקבל מספר חיובי בתוך השורש שבנוסחת השורשים אזי למשוואה יהיו שני פתרונות ממשיים שונים.
דוגמא: $x^2+5x-4=0$.

2. **משוואה עם פתרון ממשי אחד בלבד.**
אם מתקבל אפס בתוך השורש שבנוסחת השורשים אזי למשוואה יהיה פתרון ממשי אחד בלבד.
דוגמא: $x^2+4x+4=0$.

3. **משוואה ללא פתרונות ממשיים כלל.**
אם מתקבל מספר שלילי בתוך השורש שבנוסחת השורשים אזי למשוואה לא יהיו פתרונות ממשיים כלל.
דוגמא: $x^2+x+4=0$.

שאלות:

1) פתור את המשוואות הבאות:

א. $x^2+3x-10=0$

ב. $-x^2+10x-16=0$

ג. $25x^2-20x+4=0$

ד. $2x^2-6x+5=0$

2) פתור את המשוואות הבאות:

א. $4x^2-5x+7=4-x^2+13$

ב. $-x(x-5)=(1-3x)(1-x)+4$

ג. $2(x-5)^2-(2x-3)^2=10x+21$

ד. $(2x-1)^2+x(2x+3)=(x-1)(x-7)$

3) פתור את המשוואות הבאות (משוואה חסרת b):

א. $x^2-36=0$

ב. $32x^2-18=0$

ג. $4x-x(x+2)=3(x-1)-x-6$

ד. $(2x-1)^2+(2x+1)^2=10$

4) פתור את המשוואות הבאות (משוואה חסרת c):

א. $-7x^2-14x=0$

ב. $5x^2-x=0$

ג. $6x(x-2)-1=4x-3(x+1)+2$

ד. $(5x-2)^2=(x-2)(x+3)+10$

5) פתור את המשוואות הבאות:

א. $\frac{4x+1}{3}-\frac{x+2}{2}=\frac{2}{x}$

ב. $\frac{x^2-9}{x+3}+x=x^2-18$

ג. $\frac{3}{2x+2}-\frac{2x-5}{2(x-1)^2}-\frac{4}{1-x^2}=0$

ד. $\frac{x}{2x^2-72}+\frac{2}{x^2+12x+36}=\frac{8x-15}{24-4x}+2$

תשובות סופיות:

1) א. $x_1=2\ ,\ x_2=-5$ ב. $x_1=2\ ,\ x_2=8$ ג. $x=\frac{2}{5}$ ד. אין פתרון.

2) א. $x_1=2\ ,\ x_2=-1$ ב. $x_1=1\ ,\ x_2=1\frac{1}{4}$ ג. $x_1=1\ ,\ x_2=-10$

ד. $x_1=0.6\ ,\ x_2=-2$.

3) א. $x=\pm 6$ ב. $x=\pm\frac{3}{4}$ ג. $x=\pm 3$ ד. $x=\pm 1$

4) א. $x_1=0\ ,\ x_2=-2$ ב. $x_1=0\ ,\ x_2=\frac{1}{5}$ ג. $x_1=0\ ,\ x_2=2\frac{1}{6}$

ד. $x_1=0\ ,\ x_2=\frac{7}{8}$.

5) א. $x_1=2\ ,\ x_2=-1.2$ ב. $x=5\ ,\ x\neq -3$ ג. $x_1=0\ ,\ x_2=-5$

ד. $x_1=-7.6\ ,\ x_2=-4\frac{2}{7}$.

משוואות דו-ריבועיות:

סיכום כללי:

משוואה דו-ריבועית היא משוואה מהצורה: $ax^4+bx^2+c=0$ כאשר הנעלם הוא x.
פתרון המשוואה יבוצע ע"י מעבר לפרמטר: $x^2=t \to at^2+bt+c=0$ ומציאתו.
לאחר מכן יש להחזיר את ההצבה ולמצוא את ערכי x.

ניתן להביא משוואות לצורה זו ולהגדיר ביטוי המופיע בחזקות 2 ו-4
כגון: $\left(x^2-1\right)^2+3\left(x^2-1\right)-2=0$ באמצעות פרמטר: $t=x^2-1$
ובכך לפתור משוואה: $t^2+3t-2=0$ ולהחזיר את ההצבה עבור מציאת x.
דרך הפתרון תקפה לכל משוואה בה הנעלם מופיע בחזקות כפולות כגון 3 ו-6, או 4 ו-8.

שאלות:

פתור את המשוואות הבאות:

1) $5x^4+3x^2-8=0$

2) $x^4-3x^2+2=0$

3) $13x^2\left(3x^2-1\right)-2=3\left(x^2-1\right)\left(x^2+1\right)$

4) $x^2\left(x^2+1\right)=10\left(3x^2-10\right)$

5) $x^6+x^3=56$

6) $x^3+4=\frac{32}{x^3}$

7) $x-9\sqrt{x}+14=0$

8) $x^8-4x^4-50=31x^4-84$

9) $125x^6-1=124\left(x^6+x^3+1\right)$

10) $\left(2x^2-x\right)^2-4\left(2x^2-x\right)+3=0$

11) $\left(x^2+2x\right)^2+7x^2+14x=-6$

12) $\frac{21}{x^2-4x+10}=6+x^2-4x$

13) $\frac{12}{x^2+2x-8}=1+\frac{7.5}{x^2+2x-3}$

14) $\frac{x^2+2x+2}{x^2+2x+3}=\frac{7}{6}-\frac{x^2+2x+1}{x^2+2x+2}$

15) $\frac{3}{3x^2-15}+\frac{1}{x^2+5}=\frac{10}{x^4-25}$

16) $\frac{x^2-1}{4x^2-28}+2=\frac{9}{x^4-8x^2+7}+\frac{x^2}{2x^2-2}$

17) $\left(2x+\frac{3}{x}\right)^2+35=12\left(2x+\frac{3}{x}\right)$

18) $\frac{3x^4}{(x+2)^2}+\frac{3x^2}{x+2}=6$

19) $\left(2x-x^2+3\right)\left(2x-x^2-2\right)=0$

20) $\left(x^2-5x+6\right)\left(x^2-5x-8\right)=-24$

תשובות סופיות:

1) $x=\pm 1$

2) $x=\pm 1,\pm\sqrt{2}$

3) $x=\pm\frac{1}{2},\pm\frac{1}{3}$

4) $x=\pm 2,\pm 5$

5) $x_1=\sqrt[3]{7}\ ,\ x_2=-2$

6) $x=-2,\sqrt[3]{4}$

7) $x_1=4\ ,\ x_2=49$

8) $x_{1,2}=\pm\sqrt[4]{34}\ ,\ x_{3,4}=\pm 1$

9) $x=5,-1$

10) $x_1=1.5\ ,\ x_2=-1\ ,\ x_3=1\ ,\ x_4=-\frac{1}{2}$

11) $x=-1$

12) $x_{1,2}=1,3$

13) $x_1=0\ ,\ x_2=-2\ ,\ x_3=3.06\ ,\ x_4=-5.06$

14) $x_1=0\ ,\ x_2=-2$

15) אין פתרונות.

16) $x=\pm\sqrt{\frac{3}{7}}$

17) $x=\frac{1}{2},1,\frac{3}{2},3$

18) $x=-1,2$

19) $x=3,-1$

20) $x=\pm 1,4,6$

משוואות עם פרמטרים:

סיכום כללי:

משוואה עם פרמטר הינה משוואה שמכילה שני סוגים של גדלים – משתנים ופרמטרים.
את המשתנים מקובל לסמן באותיות x , y , z ואת הפרמטרים מסמנים בשאר האותיות.
פתרון המשוואה יתקבל ע"י בידוד המשתנה כך שיבוטא באמצעות הפרמטר/ים שבמשוואה.

למשל פתרון המשוואה: $mx=4$ (כאשר x הוא הנעלם ו- m הוא פרמטר) הוא $x=\frac{4}{m}$

אשר מבוטא באמצאות הפרמטר m.

בכתיבת פתרון של משוואה עם פרמטרים יש לציין את תחום ההגדרה של הפרמטר עבורו הפתרון הוא בעל משמעות. בדוגמא הנ"ל תחום ההגדרה הוא $m\neq 0$.

שאלות:

1) פתור את המשוואות הבאות:

א. $3x-b=(b+1)x-6$

ב. $\frac{1}{3}(a-3x)=\frac{1}{a}(ax-3)$

ג. $(x-2a)(x-2b)=x^2-2(a^2+b^2)$

ד. $\frac{m+1}{x-1}=\frac{m-1}{x+1}$

ה. $\frac{x}{a^2-a}-\frac{1}{2a}=\frac{ax+x}{2a^3-4a^2+2a}-\frac{2}{a^3-2a^2+a}$

2) פתור את מערכות המשוואות הבאות:

א. $\begin{cases} x+my=1 \\ x+y=m \end{cases}$

ב. $\begin{cases} ax+y=2 \\ x+ay=4 \end{cases}$

ג. $\begin{cases} \frac{x}{m}+y=m \\ x-m^2y=1 \end{cases}$

ד. $\begin{cases} (m-1)x-(2m+3)y=5 \\ (m+2)x-(2m-1)y=10m \end{cases}$

ה. $\begin{cases} (2a+b)x-(2a-b)y=8ab \\ (2a-b)x+(2a+b)y=8a^2-2b^2 \end{cases}$

3) פתור את המשוואות הריבועיות הבאות:

א. $x^2-2mx+m^2-1=0$

ב. $x^2-2x+4a=a^2+3$

ג. $x^2+m(x+10)=2m^2-5x$

ד. $\frac{1}{a-x}+\frac{1}{a}+\frac{1}{a+x}=0$

ה. $(m^2+1)x^2-m^2x-1=0$

ו. $\frac{a}{x}+\frac{1}{b}=\frac{x}{a}+b$

ז. $x+\frac{1}{x}=\frac{a-b}{a+b}+\frac{a+b}{a-b}$

תשובות סופיות:

1) א. $x=\frac{b-6}{2-b}\ ,\ b\neq 2$ ב. $x=\frac{a^2+9}{6a}\ ,\ a\neq 0$ ג. $x=a+b$ ד. $x=-m$ ה. $x=a+1$

2) א. $m\neq 1\ ,\ (m+1,-1)$ ב. $a\neq \pm 1\ ,\ \left(\frac{2a-4}{a^2-1},\frac{4a-2}{a^2-1}\right)$

ג. $m\neq 0-1\ ,\ \left(m^2-m+1,\frac{m-1}{m}\right)$ ד. $m\neq 1,-2\ ,\ (2m+1,m-2)$

ה. $b\neq \pm 2a\ ,\ (2a+b,2a-b)$

3) א. $x=m+1,\mathrm{m}-1$ ב. $x=a-1,3-a$ ג. $x=m-5,-2m$

ד. $a\neq 0\ ,\ x\neq \pm a\ ,\ x=\pm a\sqrt{3}$ ה. $x=1,-\frac{1}{m^2+1}$

ו. $a,b\neq 0\ ,\ x=\frac{a}{b},-ab$ ז. $a\neq \pm b\ ,\ x=\frac{a+b}{a-b},\frac{a-b}{a+b}$.

משוואות עם שורשים:

סיכום כללי:

פתרון משוואה מהצורה: $\sqrt{x}=a$ יתקבל ע"י העלאה בריבוע של שני אגפי המשוואה באופן הבא: $\left(\sqrt{x}\right)^2=\left(a\right)^2 \quad \rightarrow \quad x=a^2$.

הערות:

1) יש לזכור בעת העלאה בריבוע של שני אגפי המשוואה יש לבדוק את כל הפתרונות המתקבלים ע"י הצבתם במשוואה המקורית.
2) למשוואה מהצורה $\sqrt{x}=a$ שבה $a<0$ אין פתרון.
3) יש לסדר תחילה משוואות שבהן הביטוי עם שורש אינו מבודד.
4) במשוואות שבהן יותר מביטוי אחד עם שורש יש לבודד תחילה את אחד הביטויים, להעלות בריבוע ולאחר מכן לחזור על התהליך ולבצע העלאה בריבוע פעם נוספת.

שאלות:

פתור את המשוואות הבאות:

1) $\sqrt{2x+5}=7$
2) $\sqrt{x+2}=x$
3) $\sqrt{3x+1}+x=13$
4) $\sqrt{2x+7}+4=x$
5) $\sqrt{x-1}+3=x$
6) $\sqrt{10x+6}+9=x$
7) $\sqrt{x+6}-2=2x$
8) $\sqrt{24-x}+3=2x$
9) $\sqrt{x+16}+4=2x$
10) $2x=16-3\sqrt{x-1}$
11) $\sqrt{3x+5}=\sqrt{x+17}$
12) $\sqrt{x^2-5x+12}=2\sqrt{6-x}$
13) $\sqrt{x-1}\cdot\sqrt{2x-5}=\sqrt{11-x^2}$
14) $\sqrt{2x-1}+3=\sqrt{7x+1}$
15) $\sqrt{9x-8}-3\sqrt{x+4}=-2$
16) $\sqrt{2x-3}+\sqrt{3-x}=2$
17) $\sqrt{x+3}+\sqrt{x-2}=\sqrt{4x+1}$
18) $\sqrt{2x-2}+\sqrt{5x-4}=\sqrt{3x-2}$
19) $3\sqrt{x-1}+\sqrt{2x-3}=2\sqrt{x+2}$

תשובות סופיות:

1) $x=22$

2) $x=2$

3) $x=8$

4) $x=9$

5) $x=5$

6) $x=25$

7) $x=0.25$

8) $x=3.75$

9) $x=4.25$

10) $x=5$

11) $x=6$

12) $x=4,-3$

13) $x=3$

14) $x=5$

15) $x=12$

16) $x=2,2\frac{8}{9}$

17) $x=6$

18) $x=1$

19) $x=2$

משוואות עם ערך מוחלט:

סיכום כללי:

הגדרה:

ערך מוחלט הינו המרחק של מספר מ-0 ומוגדר באופן הבא: $|x|=\begin{cases} x & x\ge 0 \\ -x & x<0 \end{cases}$.

משוואה עם ערך מוחלט:

משוואה עם ערך מוחלט היא מהצורה: $|x|=a$.

כדי לפתור משוואה עם ערכים מוחלטים יש למצוא את נקודות האפס של כל ערך מוחלט (קרי: הנקודות בהן הביטוי שבתוך הערך המוחלט מתאפס) ולפצל את המשואה הנתונה לתחומים עבור כל תחום.

שאלות:

פתור את המשוואות הבאות:

1) $|3x+14|=7$

2) $|3x-24|=x$

3) $|12-x|=3x$

4) $2x-|8-x|=10$

5) $|4x-5|=|2x+13|$

6) $|14-3x|=2|x+5|$

7) $|x|+7=|2x|$

8) $|x+2|+6=|2x-4|$

9) $|x+2|+|2x-6|=|4x+8|$

10) $|10-3x|-|x+4|=|2x-6|$

תשובות סופיות:

1) $x=-\frac{7}{3},\ -7$

2) $x=6,12$

3) $x=3$

4) $x=6$

5) $x=9,-1\frac{1}{3}$

6) $x=24,\frac{4}{5}$

7) $x=\pm 7$

8) $x=12,-1\frac{1}{3}$

9) $x=0,-12$

10) $x=0$

מערכת משוואות ממעלה שנייה:

סיכום כללי:

מערכת משוואות ריבועיות מיוחסת למערכת של שתי משוואות (לפחות) שאחת מהן מכילה את אחד מהנעלמים בריבוע. למערכת משוואות ריבועיות יכולים להתקבל עד 4 פתרונות שונים. יש לפתור את המערכת לפי הטכניקות הרגילות של בידוד והצבה או השוואת מקדמים.

שאלות:

פתור את מערכות המשוואות הבאות:

1) $\begin{cases} x^2+y^2=20 \\ x+y=6 \end{cases}$

2) $\begin{cases} 2x^2+y^2=36 \\ x^2+3y=10 \end{cases}$

3) $\begin{cases} 3x^2+4y^2=16 \\ 5x^2-3y^2=17 \end{cases}$

4) $\begin{cases} x^2-2y^2=17 \\ xy=-10 \end{cases}$

5) $\begin{cases} x^2-xy-20y^2=0 \\ x+6y=1 \end{cases}$

6) $\begin{cases} x^2-2xy+8y^2=8 \\ 3xy-2y^2=4 \end{cases}$

7) $\begin{cases} x^2-y^2=33 \\ x+y=11 \end{cases}$

8) $\begin{cases} 16x^2-y^2=391 \\ 4x-y=23 \end{cases}$

9) $\begin{cases} 4xy+x=-15 \\ \frac{3}{y}-2x=16 \end{cases}$

10) $\begin{cases} \frac{3}{x}+\frac{1}{y}=5 \\ \frac{4}{y}-\frac{1}{x}=-19 \end{cases}$

11) $\begin{cases} \frac{3}{x}+\frac{5}{y}=21 \\ \frac{8}{x}-\frac{1}{y}=13 \end{cases}$

12) $\begin{cases} xy=24 \\ (y-x)^2-7(y-x)+10=0 \end{cases}$

13) $\begin{cases} x^2y-xy^2=84 \\ x^2-2xy+y^2+5x-5y=24 \end{cases}$

14) $\begin{cases} \sqrt{\frac{x}{y}}+\sqrt{\frac{y}{x}}=\frac{10}{3} \\ x^2+y^2=9xy+25 \end{cases}$

תשובות סופיות:

1) $(2,4),(4,2)$

2) $(\pm 4,-2)$

3) $(\pm 2,\pm 1)$

4) $(5,-2),(-5,2)$

5) $\left(-2,\frac{1}{2}\right),\left(\frac{5}{11},\frac{1}{11}\right)$

6) $\left(3,\frac{1}{2}\right),\left(-3,-\frac{1}{2}\right),(2,1),(-2,-1)$

7) $(7,4)$

8) $(5,-3)$

9) $\left(-5,\frac{1}{2}\right)$, $\left(-24,-\frac{3}{32}\right)$

10) $\left(\frac{1}{3},-\frac{1}{4}\right)$

11) $\left(\frac{1}{2},\frac{1}{3}\right)$

12) $(4,6)$, $(-6,-4)$, $(3,8)$, $(-8,-3)$

13) $(-1.65,6.35)$, $(-6.35,1.65)$, $(7,4)$, $(-4,-7)$

14) $(5,45)$, $(-5,-45)$, $(45,5)$, $(-45,-5)$

משוואות מסכמות מתקדמות:

סיכום כללי:

תזכורת מהירה:

- משוואה דו-ריבועית יכולה להופיע בכל תצורה (עם שורשים, עם ערכים מוחלטים וכו').
העיקרון הוא זיהוי תבנית של הנעלם אשר חוזרת על עצמה לאורך המשוואה.
סימון התבנית במשתנה זמני ופתרון עבור משתנה זה תוביל למשוואה מוגדרת ופתירה.
לאחר מכן יש להחזיר את ההצבה לתבנית של המשתנה המקורי ולמצוא את ערכיו.

- דרך הפתרון של משוואה עם שורשים היא ע"י בידוד השורש והעלאה בריבוע.
במידה ויש יותר משורש אחד המופיעים בחיבור/חיסור יש לבצע את הפעולה פעמיים.
חשוב לוודא נכונות של כל הפתרונות המתקבלים ע"י הצבה במשוואה המקורית לפני ההעלאות בריבוע.

- דרך הפתרון של משוואה עם ערכים מוחלטים היא ע"י פיצול המשוואה לתחומים לפי סימני הערך המוחלט. זאת יש לבצע ע"י איפוס הביטוי שבכל ערך מוחלט ומציאת ערכי הנעלם המקיימים זאת, חלוקת המשוואה לתחומים מתאימים ופתרונה בכל תחום.
יש לזכור לבדוק האם הפתרון המתקבל נמצא בתחום הפתרון – במידה וכן הוא פתרון של המשוואה, אחרת הוא נפסל.

- משוואה עם פרמטר/ים נפתרת בצורה רגילה (התייחסות לפרמטר/ים כאל קבועים מספריים) כאשר יש לציין את תחומי ההגדרה שלהם. יש לבדוק פתרונות שמתקבלים המבוטאים באמצעות הפרמטר/ים במידה וקיימת הגבלת תחום הגדרה במשוואה.

שאלות:

פתור את המשוואות הבאות:

1) $x+\sqrt{x+6}-6=0$

2) $x^2+5x-\sqrt{x^2+5x}-30=0$

3) $4x^2+16x-4\sqrt{x^2+4x}-3=0$

4) $2x^2+6x-\sqrt{x^2+3x+5}=5$

5) $x^2-\sqrt{16x^2+48}+7=0$

6) $x^2-\sqrt{6x^2-15}=1$

7) $\frac{x^2}{\sqrt{3x-2}}-\sqrt{3x-2}=1-x$

8) $\frac{\sqrt{x^2+4x-12}}{\sqrt{x-1}}+\sqrt{x+5}=\frac{7}{\sqrt{x-1}}$

9) $\sqrt{x^2-3x+2}+\sqrt{x+3}=\sqrt{x-2}+\sqrt{x^2+2x-3}$

10) $\sqrt{x+\sqrt{14x-49}}+\sqrt{x-\sqrt{14x-49}}=\sqrt{14}$

11) $\sqrt{x+6+6\sqrt{x-3}}-\sqrt{x+6-6\sqrt{x-3}}=2$

12) $\frac{4}{x+\sqrt{x^2+x}}-\frac{1}{x-\sqrt{x^2+x}}=\frac{3}{x}$

פתור את המשוואות הבאות עבור $a>0$:

13) $x^2+ax-2a\sqrt{x^2+ax-a^2}=0$

14) $x^2+ax-2a\sqrt{3x^2+3ax-9a^2}=0$

פתור את המשוואות הבאות:

15) $\left|3-\left|2-x\right|+\left|x\right|\right|=1$

16) $\left|4-\left|5-x\right|\right|=\left|x+3\right|$

17) $\left|\frac{x+\left|3-x\right|}{x+2}\right|=18$

18) $\sqrt{25+\left|16x^2-25\right|}=4+4\left|x+1\right|$

19) $\frac{x^3-5x}{\sqrt{2x^2-4x-1}-\left|x\right|+2}=0$

20) הראה כי אין פתרון למשוואה הבאה: $\frac{\left|x+2\right|}{\left|x\right|+2}=\left|2-x\right|+2$.

תשובות סופיות:

1) $x=3$

2) $x_1=4\ ,\ x_2=-9$

3) $x_1=0.5\ ,\ x_2=-4.5$

4) $x_1=1\ ,\ x_2=-4$

5) $x_{1,2}=\pm 1$

6) $x_{1,2}=\pm 2$

7) $x=1$.

8) $x=3$.

9) $x=2$.

10) $3.5\le x\le 7$.

11) $x=4$.

12) $x=1\ ,\ x=\frac{9}{16}$.

13) $x_1=-2a\ ,\ x_2=a$

14) $x_1=-2a\ ,\ x_2=3a$

15) $x\le 0$.

16) $x=-1$.

17) $x=-\frac{39}{18},-\frac{33}{18}$.

18) $x\le\frac{5}{4}\ ,\ x=-\frac{1}{4}$.

19) $x=-\sqrt{5}$.

20) שאלת הוכחה.

ביטויים ומשוואות ממעלה שלישית:

סיכום כללי:

נוסחאות הכפל המקוצר ממעלה שלישית:

$$(a\pm b)^3 = a^3 \pm 3a^2b + 3ab^2 \pm b^3$$

$$a^3 \pm b^3 = (a\pm b)(a^2 \mp ab + b^2)$$

שאלות:

פישוט ביטויים:

פשט את הביטויים הבאים:

1) $(x-3)^3$

2) $(2y+5)^3$

3) $8x^3-1$

4) $8y^3+343$

5) a^6-27

6) $x^3y^6z^9-1$

7) $11+88x^{12}$

8) $64mn^4-8m^4n^7$

9) $\dfrac{x^2+4x+4}{x^3+6x^2+12x+8}$

10) $\dfrac{x^3+64}{x^2+4x}$

משוואות בנעלם אחד עם נוסחאות הכפל המקוצר:

פתור את המשוואות הבאות:

11) $x^3-12x^2+48x-64=0$

12) $125x^3=1-15x+75x^2$

13) $x^3+x-30=0$

14) $x^3-7x-6=0$

משוואות בנעלם אחד עם פירוקים שונים:

פתור את המשוואות הבאות:

15) $2x^3-7x^2+7x-2=0$

16) $2x^3+5x^2-2x-5=0$

מערכת משוואות:

17) פתור את מערכת המשוואות הבאה: $\begin{cases} x^3+y^3=243 \\ x+y=9 \end{cases}$.

18) פתור את מערכת המשוואות הבאה: $\begin{cases} x^3-y^3=91 \\ x^2y-xy^2=30 \end{cases}$.

תשובות סופיות:

1) $x^3-9x+27x-27$

2) $(2x-1)(4x^2+2x+1)$

3) $(a^2-3)(a^4+3a^2+9)$

4) $8(1+2x^4)(1-2x^4+4x^8)$

5) $\frac{1}{x+2}$

6) $x=4$

7) $x=3$

8) $x_{1,2,3}=\frac{1}{2}, 1, 2$

9) $(3,6), (6,3)$

10) $8y^3+60y^2+150y+125$

11) $(2y+7)(4y^2-17y+49)$

12) $(xy^2z^3-1)(x^2y^4z^6+xy^2z^3+1)$

13) $8mn^4(2-mn)(4+2mn+m^2n^2)$

14) $\frac{x^2-4x+16}{x}$

15) $x=\frac{1}{}$

16) $x_{1,2,3}=-2, -1, 3$

17) $x_{1,2,3}=-2.5, -1, 1$

18) $(-5,-6), (6,5)$

מכינה אקדמית במתמטיקה למדעי המחשב 1400004

פרק 3 - אלגברה - אי שוויונים אלגבריים

תוכן העניינים

1. אי שוויונים ממעלה ראשונה 69
2. אי שוויונים ממעלה שנייה 71
3. אי שוויונים ממעלה שלישית 72
4. אי שוויונים עם מנה 73
5. אי שוויונים כפולים מערכות וגם ואו 75
6. שאלות מסכמות 76
7. מציאת תחום הגדרה 78
8. אי שוויונים עם ערך מוחלט 80
9. אי שוויונים עם שורשים 83

אי-שוויונים ממעלה ראשונה:

סיכום כללי:

פעולות המותרות לביצוע בפתרון אי-שוויון:

- לחבר או לחסר כל מספר או ביטוי.
- לכפול או לחלק בכל מספר או ביטוי חיובי.
- לכפול או לחלק בכל מספר או ביטוי שלילי תוך הפיכת סימן אי-השוויון.
- להעלות בחזקה אי זוגית.
- להעלות בחזקה זוגית אם שני אגפי אי-השוויון אינם שליליים.

פעולות אסורות לביצוע בפתרון אי-שוויון:

- לכפול או לחלק בביטוי שלא יודעים את סימנו.
- להעלות בחזקה זוגית כשיש אגף שלילי.

שאלות:

פתור את אי-השוויונים הבאים:

1) $45x-26>109$

2) $6x>2(3x-1)$

3) $2(x-5)\geq\frac{1}{2}(4x+6)$

4) $(x-2)^2+4<(x+2)^2+20$

5) $\frac{8x-4}{2}<\frac{9(x+1)}{3}$

6) $4(6x-8)<8(3x-4)$

7) $\frac{x-6}{3}-\frac{x-4}{4}\geq 12-x$

8) $\frac{7-x}{10}-\frac{3x-1}{5}+\frac{x+4}{3}<7$

תשובות סופיות:

1) $x>3$
2) כל x
3) אף x
4) $x>-2$
5) $x<5$
6) אף x
7) $x\geq 12$
8) $x>-13$

אי-שוויונים ממעלה שנייה:

סיכום כללי:

אי שוויון ריבועי הוא מהצורה: $ax^2+bx+c \gtrless 0$ כאשר $a \neq 0$.

כדי לפתור אי שוויון ריבועי יש למצוא את נקודות האפס של הביטוי הריבועי ולאחר מכן למצוא את תחום ההצבה עבורו הביטוי מקיים את אי השוויון עצמו.

שאלות:

פתור את אי-השוויונים הבאים:

1) $x^2<144$

2) $x^2-12x>-32$

3) $(x+2)(x+5)<0$

4) $(x+2)(x+4)<35$

5) $-x^2+13x+30<0$

6) $(x-3)(x-7)\geq 8x-56$

7) $(x-5)^2+x(x+2)<89$

8) $(5x+6)^2\leq 4(x-3)^2$

9) $-3x^2+12x>0$

10) $x^2-10x+25>0$

11) $(x-3)^2>(x-1)(x+6)-x^2-3x$

12) $2x^2+2x+24\geq 0$

תשובות סופיות:

1) $-12<x<12$

2) $x<4\ ,\ x>8$

3) $-5<x<-2$

4) $-9<x<3$

5) $x<-2\ ,\ x>15$

6) $x\leq 7\ ,\ x\geq 11$

7) $-4<x<8$

8) $-4\leq x\leq 0$

9) $0<x<4$

10) $x>5\ ,\ x<5$

11) $x<3\ ,\ x>5$

12) כל x

אי-שוויונים ממעלה שלישית:

סיכום כללי:

אי שוויונים ממעלה גבוהה מיוחסים לכאלה שניתן לכתוב אותם בצורה של פולינומים, כגון: $x^3-4x^2+4x+1>0$, $x^4+2x^2+1<0$ וכו'.

בפועל נפתור אותם ע"י פירוק לגורמים ומציאת נקודות האפס של כל גורם.

לאחר מכן נבדוק את כל אחד מתחומי המספרים המתקבלים עבור הנעלם ונראה באלו מהם מתקבל פסוק אמת.

שאלות:

פתור את אי-השוויונים הבאים:

1) $(x-1)(x-2)(x-3)>0$

2) $x(x^2+x+1)>0$

3) $(-2x^2-3x+2)(x+1)\le 0$

4) $x^3-25x\ge 0$

5) $(x^2+3x+5)(x-2)>0$

6) $(x^2+8x+20)(3x-5)\le 0$

7) $(x^2-x-6)(x-1)<0$

8) $x^3-6x^2+9x\le 0$

9) $(x^2+6)(x+3)>0$

10) $(x-2)(x-4)(x-1)<0$

תשובות סופיות:

1) $1<x<2\ ,\ x>3$

2) $x>0$

3) $-2\le x\le -1\ ,\ x\ge \frac{1}{2}$

4) $-5\le x\le 0\ ,\ x\ge 5$

5) $x>2$

6) $x\le 1\frac{2}{3}$

7) $x<-2\ ,\ 1<x<3$

8) $x\le 0\ ,\ x=3$

9) $x>-3$

10) $x<1\ ,\ 2<x<4$

אי-שוויונים עם מנה:

סיכום כללי:

אי שוויון מהצורה: $\frac{f(x)}{g(x)}>0$ (או $\frac{f(x)}{g(x)}<0$) נקרא אי-שוויון עם מנה, בו $f(x)$ ו-$g(x)$ הם פולינומים כלשהם.

למשל: $\frac{2x+4}{x^2-3x+4}<0$ בו: $f(x)=2x+4$ ו-$g(x)=x^2-3x+4$.

כדי לפתור אי שוויון עם מנה נמצא את נקודות האפס של $f(x)$ ושל $g(x)$ ונציב מספרים בתחומים המתקבלים. אלו שיתנו פסוק אמת יהוו את פתרון אי השוויון.

הערות:

- ניתן לבצע כפל של המכנה בריבוע בכדי להעביר את אי השוויון לצורה של מכפלות.
- ניתן להעביר אי שוויון המכיל מספר מנות ומספרים שלמים לצורה הנ"ל ע"י פעולות אלגבריות מתאימות תחילה.

שאלות:

פתור את אי-השוויונים הבאים:

1) $\frac{x-1}{x^2-9}>0$

2) $\frac{x-1}{3x+2}\geq -3$

3) $\frac{1}{x^2-16}>0$

4) $\frac{x-3}{2x^2-10x+12}>0$

5) $\frac{2x-1}{x-5}\leq 0$

6) $\frac{1}{-3(x-1)}<0$

7) $\frac{x-1}{x+2}\leq 1$

8) $\frac{1}{x^2-5x+6}<0$

9) $\frac{x^2-7x+6}{-x^2+3x-7}\geq 0$

10) $\frac{1}{x^2-8x+12}\geq 0$

תשובות סופיות:

1) $-3<x<1\,,\,x>3$

2) $x<-\frac{2}{3}\,,\,x\geq-\frac{1}{2}$

3) $x<-4\,,\,x>4$

4) $2<x<3\,,\,x>3$

5) $\frac{1}{2}\leq x<5$

6) $x>1$

7) $x>-2$

8) $2<x<3$

9) $1\leq x\leq 6$

10) $x<2\,,\,x>6$

אי-שוויונים כפולים - מערכת וגם:

סיכום כללי:

אי-שוויון כפול הוא צורה מקוצרת להציג שני אי-שיווינים אשר יש לפתור יחד (קרי: כמערכת 'וגם'). למשל במקום לכתוב: $a<b$ וגם $b<c$, ניתן לכתוב: $a<b<c$.

מכאן כי כדי לפתור אי שוויון כפול יש לפצל אותו תחילה לשני אי-שיווינים ולפתור כל אחד בנפרד. לאחר מכן יש לקחת את חיתוך הפתרונות.

שאלות:

פתור את אי-השוויונים הבאים:

1) $3<x+1<5$

2) $0<\frac{1}{x+4}<2$

3) $-1<\frac{x-1}{x+1}<1$

4) $0<\frac{8-3x}{5-2x}<4$

5) $6x-38\le x-3\le 5x+7$

6) $6<\frac{2x+10}{3}\le\frac{7x-20}{5}$

7) $-1\le\frac{2x-6}{4}<\frac{x+2}{3}$

8) $\frac{4x+5}{15}>\frac{3x-8}{5}+\frac{9-x}{3}>11$

תשובות סופיות:

1) $2<x<4$

2) $x>-3\frac{1}{2}$

3) $x>0$

4) $x<2\frac{2}{5}\ ,\ x>2\frac{2}{3}$

5) $-2.5\le x\le 7$

6) $x\ge 10$

7) $1\le x<13$

8) ϕ

שאלות מסכמות – אי-שוויונים:

שאלות:

פתור את אי-השוויונים הבאים:

1) $x \le -\frac{3}{4} \cap \{-2 < x \le 5 \cup 0 < x < 8\}$

2) $x(x+5)-3x+15 \le 2x-1-x(4-x)$

3) $\frac{(x-3)(x+4)}{2-x} \le 0$

4) $\frac{(x-5)(3x+1)}{(2-x)(x+7)} < 0$

5) $\frac{(2x-3)(x-12)}{(x+1)(4-x)} \ge 0$

6) $x(x+3)(2x-5) < 0$

7) $\frac{(x-6)^2(x+1)}{x-2} > 0$

8) $\frac{5-2x}{(x-8)^2} \le 0$

9) $\frac{x-3}{x^2+2} > 0$

10) $\frac{x^2-4x}{x^2+2x-3} > 0$

11) $\frac{x^2-6x+9}{x^3-x} > 0$

12) $\frac{x-7}{x^2+x+3} > 0$

13) $\frac{x}{x^2-4} + \frac{1}{x+2} < \frac{1}{x-2}$

14) $\frac{2x^2}{x^2-6x+8} \ge \frac{x}{x-4} - \frac{x}{x-2}$

15) $6 < 5x - x^2 \cap x^2 > 3x+10$

16) $\frac{3}{x-1} - \frac{2}{x} > 0 \cup \frac{1}{x-3} < \frac{1}{1-x}$

17) $1 < \frac{x-1}{x-4} \le 2$

18) לאלו ערכי x נמצאת הפונקציה $f(x) = \frac{x}{x-3}$ מעל הפונקציה: $g(x) = \frac{x+1}{x+3}$?

תשובות סופיות:

1) $-2 < x \le -\frac{3}{4}$

2) $x \le -4$

3) $-4 \le x < 2 \, , \, 3 \le x$

4) $x < -7 \, , \, -\frac{1}{3} < x < 2 \, , \, x > 5$

5) $-1 < x \le 1.5 \, , \, 4 < x \le 12$

6) $x < -3 \, , \, 0 < x < 2.5$

7) $x < -1 \, , \, 2 < x < 6 \, , \, x > 6$

8) $2.5 \le x < 8 \, , \, x > 8$

9) $x > 3$

10) $x < -3 \, , \, 0 < x < 1 \, , \, x > 4$

11) $-1 < x < 0 \, , \, 1 < x < 3 \, , \, x > 3$

12) $x > 7$

13) $x < -2 \, , \, 2 < x < 4$

14) $x \le 0 \, , \, 1 \le x < 2 \, , \, x > 4$

15) אף x

16) $x \ne 1$

17) $x \ge 7$

18) $-3 < x < -\frac{3}{5} \, , \, x > 3$

תחום הגדרה:

שאלות:

1) מצא את תחום ההגדרה של הפונקציות הבאות:

א. $f(x)=\sqrt{3x-4}$

ב. $f(x)=\sqrt{x^2-5x-6}$

ג. $f(x)=\sqrt{12x-x^2-x^3}$

ד. $f(x)=\sqrt{\frac{x+5}{x^2-4}}$

ה. $f(x)=\frac{1}{\sqrt{x+2}-x}$

ו. $f(x)=\frac{\sqrt{3x^2-2x-1}}{2x-3}$

2) מצא את תחום ההגדרה של הפונקציות הבאות:

א. $f(x)=\sqrt{\sqrt{x+2}-3}$

ב. $f(x)=\frac{1}{x+\sqrt{x+6}}$

ג. $f(x)=\sqrt{\frac{2x^2+x-3}{x^2+5x+9}}$

ד. $f(x)=\frac{\sqrt{x^2+5x+6}}{x-1}$

3) תחום ההגדרה של הפונקציה: $f(x)=\sqrt{ax-x^2-4}$ הוא $1\le x\le 4$.
מצא את ערכו של הפרמטר a.

4) תחום ההגדרה של הפונקציה: $f(x)=\sqrt{\frac{x+a}{x-a}}$ הוא $x\le -2\ ,\ x>2$.
מצא את ערכו של הפרמטר a.

5) נתונה הפונקציה: $f(x)=\sqrt{\sqrt{x+6}-a}$, (a פרמטר חיובי).

א. הבע באמצעות a את תחום הגדרתה.

ב. מגדירים פונקציה נוספת: $g(x)=\sqrt{\frac{2x}{x+5}}$.
ידוע כי תחום ההגדרה של שתי הפונקציות מכסה את כל ציר המספרים.
מצא את תחום הערכים האפשרי של הפרמטר a.

תשובות סופיות:

1) א. $x \ge 1\frac{1}{3}$ ב. $x \le -1 , x \ge 6$ ג. $x \le -4 , 0 \le x \le 3$

ד. $-5 \le x < -2 , x > 2$ ה. $-2 \le x < 2 , x > 2$ ו. $x \le -\frac{1}{3} , 1 \le x < \frac{3}{2} , x > \frac{3}{2}$

2) א. $x \ge 7$ ב. $-6 \le x \ne -2$ ג. $x \le -1\frac{1}{2} , x \ge 1$

ד. $-2 \le x \ne 1 , x \le -3$.

3) $a = 5$.

4) $a = 2$.

5) א. $x \ge a^2 - 6$ ב. $0 < a \le 1$.

אי שוויונים עם ערך מוחלט:

סיכום כללי:

כללים לפתרון אי שוויון עם ערך מוחלט יחיד:

מקרה	$\lvert x\rvert < a$	$\lvert x\rvert > a$
פתרון	$-a < x < a$	$x < -a \cap x > a$

כללים לפתרון אי שוויון עם מספר ערכים מוחלטים:

- נמצא את הנקודות המאפסות כל ביטוי עם ערך מוחלט.
- מחלקים את אי השוויון לתחומים לפי נקודות האפס.
- פותרים את אי השוויון לכל תחום בנפרד.
- כותבים פתרון כללי (מערכת או) לכל התחומים יחדיו.

שאלות:

1) פתור את אי-השוויונים הבאים:

א. $\lvert x+2\rvert < 3$

ב. $\lvert 2x+1\rvert > 7$

ג. $\lvert 6-2x\rvert < x$

ד. $\lvert 2x+1\rvert - 3x > 4$

2) פתור את אי-השוויונים הבאים:

א. $1 < \lvert 4-3x\rvert < 7$

ב. $\lvert 2x+3\rvert < 8 < \lvert 5-x\rvert$

3) פתור את אי-השוויונים הבאים:

א. $\lvert x^2+6x-4\rvert < 12$

ב. $\lvert x^2+x-10\rvert > 3x-2$

ג. $\lvert x^2-3x\rvert < 4$

ד. $\lvert 6x^2-7x-4\rvert > 1$

ה. $x^2-6\lvert x\rvert+5 \le 0$

ו. $x^2-6\lvert x+1\rvert-1 > 0$

4) פתור את אי-השוויונים הבאים:

א. $|x-3|+|2x+2|>7$

ב. $|x+8|<11-|1-3x|$

ג. $|3-2x|-11>4-|6+x|$

ד. $|2x-6|+|x+5|>14-|1-x|$

ה. $|5+4x|-|3-x|+\left|4-\frac{1}{2}x\right|\le 22$

ו. $|x+3|+|x^2-5x+4|<19$

5) פתור את אי-השוויונים הבאים:

א. $\left|\frac{3x-1}{x-2}\right|\ge 3$

ב. $1\le\left|\frac{x+2}{x-2}\right|\le 2$

ג. $\frac{|x-6|+8x}{x-12}\le 12$

ד. $\left|\frac{x^2+3x+2}{x^2-3x+2}\right|>5$

6) פתור את אי-השוויונים הבאים (ערך מוחלט ושורשים):

א. $\sqrt{x^2-|x-12|}<x$

ב. $2-\sqrt{1-x}\le|x+2|-3$

ג. $\sqrt{|2x+1|-x-1}\le 4-|3x|$

ד. $\frac{|x+2|-|x|}{\sqrt{4-x^3}}>0$

תשובות סופיות:

1) א. $-5<x<1$ ב. $3<x$ או $x<-4$

ג. $2<x<6$ ד. $x<-1$.

2) א. $1\frac{2}{3}<x<3\frac{2}{3}$ או $-1<x<1$ ב. $-5\frac{1}{2}<x<-3$

3) א. $-2<x<2$ או $-8<x<-4$ ב. $4<x$ או $x<2$

ג. $-1<x<4$ ד. $x>\frac{5}{3}$, $-\frac{1}{3}<x<\frac{3}{2}$, $x<-\frac{1}{2}$

ה. $1\le x\le 5$ או $-5\le x\le -1$ ו. $x<-5$, $x>7$

4) א. $2<x$ או $x<-2$ ב. $-1<x<1$

ג. $4<x$ או $x<-6$ ד. $4<x$ או $x<-1$

ה. $-7\frac{3}{7}\le x\le 4$ ו. $-2<x<6$.

5) א. $\frac{7}{6}\le x<2$, $x>2$ ב. $0\le x\le\frac{2}{3}$, $x\ge 6$

ג. $x<12$, $x\ge 46$ ד. $\frac{1}{2}<x<1$, $1<x<2$, $2<x\le 4$

6) א. $x=-1$, $x\ge 3$, $x\ne 12$ ב. $x\le\frac{-15+\sqrt{33}}{2}$

ג. $0\le x\le 1$, $-1\le x\le -\frac{2}{3}$ ד. $-1<x<\sqrt[3]{4}$

אי שוויונים עם שורשים:

סיכום כללי:

מקרים בפתרון אי-שוויונות עם שורשים:

מקרה	אי השוויון	פתרון
$a \geq 0$	$\sqrt{f(x)} < a$	$0 \leq f(x) < a^2$
$a < 0$	$\sqrt{f(x)} < a$	אין פתרון
	$\sqrt{f(x)} > a$	כל x בת.ה. של $f(x)$

שאלות:

פתור את אי השוויונים הבאים:

1) $\sqrt{x+3} < 7$

2) $\sqrt{2x-5} \geq 1$

3) $\sqrt{2x^2+5x-6} > 2-x$

4) $\sqrt{x^2+x-6} < x-3$

5) $\sqrt{x^2+3x+2} - 1 < \sqrt{x^2-x+1}$

6) $\sqrt{x^2+5x+6} - \sqrt{x^2-x+1} < 1$

7) $\frac{1-\sqrt{1-4x^2}}{x} > \frac{3}{2}$

8) $\frac{4}{\sqrt{2-x}} - \sqrt{2-x} < 2$

9) $\sqrt{\frac{1}{x^2} - \frac{3}{4}} < \frac{1}{x} - \frac{1}{2}$

10) $\sqrt{2-\sqrt{3+x}} < \sqrt{4+x}$

11) $\sqrt{x+6} > \sqrt{x+1} + \sqrt{2x-5}$

12) $\sqrt{1+\frac{9}{x}} + 5\sqrt{\frac{x}{x+9}} \geq 4$

תשובות סופיות:

1) $-3 \le x < 46$.

2) $x \ge 3$.

3) $x < -10$, $x > 1$.

4) $\varnothing$.

5) $-1 \le x < \frac{-1+\sqrt{13}}{6}$, $x \le -2$.

6) $-2 \le x < \frac{-13+\sqrt{73}}{16}$, $x \le -3$.

7) $\frac{12}{25} < x \le \frac{1}{2}$.

8) $x < 2\sqrt{5} - 4$.

9) $1 < x \le \frac{2}{\sqrt{3}}$.

10) $-\frac{3+\sqrt{5}}{2} < x \le 1$ שזה: $-2.618 < x \le 1$.

11) $2.5 \le x < 3$.

12) $x < -9$, $x > 0$.

מכינה אקדמית במתמטיקה למדעי המחשב 1400004

פרק 4 - אלגברה - חקירת משוואה ממעלה ראשונה

תוכן העניינים

1. פתרון משוואות ממעלה ראשונה עם פרמטר 85
2. חקירת משוואות ממעלה ראשונה 86
3. חקירה של מערכת שתי משוואות ממעלה ראשונה 89
4. חקירת משוואות ממעלה ראשונה עם שורשים 94
5. חקירת משוואות ממעלה ראשונה עם ערך מוחלט 95

פתרון משוואות ממעלה ראשונה עם פרמטר:

סיכום כללי:

שלבי עבודה:

- נפתור את המשוואה.
- נאתר את ערכי הפרמטר המאפסים את המכנה בכל שלבי הפתרון.
- נבדוק לכל ערך כזה בנפרד כמה פתרונות יש למשוואה על ידי הצבתו במשוואה המקורית.

שאלות:

1) פתרו את המשוואה: $kx+6k=2x+3k^2$.

2) פתרו את המשוואה: $a^2(x-1)=3ax+4(x-a)$.

3) פתרו את מערכת המשוואות: $\begin{cases}2kx+5y=2k^2\\2x-y=-10\end{cases}$.

4) פתרו את מערכת המשוואות הבאה: $\begin{cases}bx-(1-2b)y=1\\(2b+1)x+3(by-1)=0\end{cases}$

תשובות סופיות:

1) $x=3k \quad (k\neq 2)$.

2) $x=\dfrac{a}{a+1}$.

3) $(k-5,2k)$.

4) $b\neq 0\,,\ \pm 1 \quad , \quad \left(\dfrac{2-b}{b(b+1)},\dfrac{1}{b+1}\right)$

חקירה של משוואה ממעלה ראשונה:

שאלות:

1) נתונה המשוואה הבאה: $m^2(2x-1)=9(x-1)-x(6+5m)$.

מצאו לאילו ערכי m יש למשוואה:

א. פתרון יחיד (ומצאו אותו).

ב. אינסוף פתרונות.

ג. אף פתרון.

2) נתונה המשוואה: $k^2(5-2x)=3(15-2kx)$.

א. מצאו לאלו ערכי k למשוואה:

i. פתרון יחיד.

ii. אף פתרון.

iii. אינסוף פתרונות.

ב. מצאו לאלו ערכי k פתרון המשוואה:

i. חיובי.

ii. מקיים את אי-השוויון: $2x-3>x$.

3) נתונה המשוואה: $\frac{mx}{m-2}=\frac{2m}{m-5}-\frac{6x}{m^2-7m+10}$.

מצאו לאלו ערכי m למשוואה:

א. פתרון יחיד.

ב. אף פתרון.

ג. אינסוף פתרונות.

4) לפניכם המשוואה: $m\cdot\frac{x-1}{x}-\frac{m+6}{m}=\frac{-3}{x}$.

א. פתרו את המשוואה בהנחה שיש לה פתרון יחיד.

ב. מצאו עבור אלו ערכי m יש למשוואה:

i. פתרון יחיד.

ii. אינסוף פתרונות.

iii. אף פתרון.

ג. האם עבור ערכי ה- m הנותנים אינסוף פתרונות, כל x יהיה פתרון של המשוואה?

ד. עבור אלו ערכי m יהיה פתרון המשוואה גדול מ-2?

5) נתונה המשוואה: $x\left(m^2-9\right)=2\left(m\left(3x+1\right)+1-x\right)$.

א. פתרו את המשוואה בהנחה שיש לה פתרון יחיד.

ב. חקרו את המשוואה ומצא עבור אלו ערכי m יש למשוואה:

i. פתרון יחיד.

ii. אינסוף פתרונות.

iii. אף פתרון.

ג. עבור איזה ערך של m פתרון המשוואה יהיה: $x=2$?

6) נתונה המשוואה: $\frac{5}{k-4}-\frac{kx}{3k+15}=\frac{k^2+29}{k^2+k-20}$.

א. פתרו את המשוואה בהנחה שיש לה פתרון יחיד.

ב. האם קיים ערך של k עבורו יש למשוואה אינסוף פתרונות?

ג. עבור איזה ערך של k פתרון המשוואה הוא: 4-?

7) לפניכם המשוואה הבאה: $\frac{m^2x}{m-5}+\frac{2mx-m^2+1}{m-5}=1$.

מצאו עבור אלו ערכי m יש למשוואה:

א. פתרון יחיד (ובטאו אותו באמצעות m).

ב. אינסוף פתרונות.

ג. אף פתרון.

8) לפניכם המשוואה הבאה: $\frac{\left(m^2+1\right)x-4}{x-2}=m+1$.

מצאו עבור אלו ערכי m יש למשוואה:

א. פתרון יחיד (ובטאו אותו באמצעות m).

ב. אינסוף פתרונות.

ג. אף פתרון.

9) לפניכם המשוואה הבאה: $\frac{5m-2}{mx-1}=-3$.

מצאו עבור אלו ערכי m יש למשוואה:

א. פתרון יחיד (ובטאו אותו באמצעות m).

ב. אינסוף פתרונות.

ג. אף פתרון.

10) לפניכם המשוואה הבאה: $\frac{x}{x+m+2}=\frac{x+1}{x-m+1}$.

מצאו עבור אלו ערכי m יש למשוואה:

א. פתרון יחיד (ובטאו אותו באמצעות m).

ב. אינסוף פתרונות.

ג. אף פתרון.

תשובות סופיות:

1) א. $\frac{1}{2}$, $m\neq -3$, $\frac{m-3}{2m-1}$ ב. $m=-3$ ג. $m=\frac{1}{2}$

2) א. 1. $k\neq 0,3$ 2. $k=0$ 3. $k=3$.

ב. 1. $k>0$ או $k<-3$ וגם $k\neq 3$ 2. $0<k<15$ וגם $k\neq 3$.

3) א. $m\neq 2,3,5$ ב. $m=2,3,5$ ג. אף m.

4) א. $m\neq 3$, $x=\frac{1}{m+2}$ ב. פתרון יחיד: $m\neq 0,-2,3$, אף פתרון:

$m=0,-2$, אינסוף פתרונות: $m=3$. ג. לא, רק: $x\neq 0$.

ד. $-2<m<-1.5$.

5) א. $m\neq 7,-1$, $x=\frac{1}{m-7}$ ב. פתרון יחיד: $m\neq 7,-1$, אף פתרון: $m=7$,

אינסוף פתרונות: $m=-1$.

6) א. $k\neq 0,4,-5$, $x=\frac{3}{k}-3$ ב. אף k ג. $k=-3$.

7) א. $m\neq 0\ ,\ -2\ ,\ 5$ ב. אף m ג. $m=0\ ,\ -2\ ,\ 5$

8) א. $m\neq 0\ ,\ \pm 1$ ב. $m=1$ ג. $m=0\ ,\ -1$

9) א. $m\neq 0\ ,\ \frac{2}{5}$ ב. אף m ג. $m=\frac{2}{5}\ ,\ 0$

10) א. $m\neq 0\ ,\ -1\ ,\ -2\ ,\ -\frac{1}{2}$ ב. אף m ג. $m=0\ ,\ -1\ ,\ -2\ ,\ -\frac{1}{2}$

חקירה של מערכת שתי משוואות ממעלה ראשונה:

סיכום כללי:

שלבי עבודה:

- נפתור את מערכת המשוואות.
- נאתר את ערכי הפרמטר המאפסים את המכנה בכל שלבי הפתרון.
- נבדוק לכל ערך כזה בנפרד כמה פתרונות יש למערכת על ידי הצבתו.

המשמעות הגרפית של חקירת מערכת משוואות ממעלה ראשונה:

בהינתן מערכת שתי משוואות מהצורה: $\begin{cases} a_1x+b_1y=c_1 \\ a_2x+b_2y=c_2 \end{cases}$ נאמר כי:

אם: $\frac{a_1}{a_2}\neq\frac{b_1}{b_2}$ אז הישרים נחתכים (כלומר למערכת פתרון יחיד).

אם: $\frac{a_1}{a_2}=\frac{b_1}{b_2}\neq\frac{c_1}{c_2}$ אז הישרים מקבילים (כלומר למערכת אף פתרון).

אם: $\frac{a_1}{a_2}=\frac{b_1}{b_2}=\frac{c_1}{c_2}$ אז הישרים מתלכדים (כלומר למערכת אינסוף פתרונות).

שאלות:

1) נתונה מערכת המשוואות: $\begin{cases} x+3ay=a \\ ax+3y=4a-3 \end{cases}$.

א. מצאו לאלו ערכי a למערכת המשוואות:

i. פתרון יחיד.

ii. אף פתרון.

iii. אינסוף פתרונות.

ב. מצאו לאלו ערכי a נקודת החיתוך בין הישרים (המיוצגים על ידי המשוואות) נמצאת ברביע השלישי.

2) נתונות מערכת המשוואות הבאה: $\begin{cases}(m+4)x+5y=m+8\\ x+my=m+2\end{cases}$.

א. פתרו את מערכת המשוואות בהנחה שיש לה פתרון יחיד.

ב. מצאו עבור אלו ערכי m יש למערכת:

i. פתרון יחיד.

ii. אינסוף פתרונות.

iii. אף פתרון.

ג. פתרון המערכת מייצג נקודה במערכת צירים.

הוכיחו כי נקודה זו נמצאת על הישר: $y(m-1)=2(m-1)x+4-m$.

ד. עבור אלו ערכי m פתרון המערכת:

i. יהיה ברביע השני.

ii. יהיה מתחת לציר ה- x.

iii. יהיה מימין לציר ה- y.

3) לפניכם מערכת המשוואות הבאה: $\begin{cases}\frac{x^2}{4}-2x+3y=\left(k-\frac{x}{2}\right)^2+4\\ x-10=k(1-y)\end{cases}$.

א. מצאו לאלו ערכי k יש למערכת המשוואות:

i. פתרון יחיד.

ii. אינסוף פתרונות.

iii. אף פתרון.

ב. פתרו את מערכת המשוואות בהנחה שיש לה פתרון יחיד.

4) לפניכם מערכת המשוואות הבאה: $\begin{cases}k(x-1)=1-2y\\ \frac{2x+3}{k}=3-y\end{cases}$.

א. מצאו לאלו ערכי k יש למערכת המשוואות:

i. פתרון יחיד.

ii. אינסוף פתרונות.

iii. אף פתרון.

ב. פתרו את מערכת המשוואות בהנחה שיש לה פתרון יחיד.

5) לפניכם מערכת המשוואות הבאה: $\begin{cases} k^2(1-x)=k+9x+12y \\ x=1-\dfrac{2(y+1)}{k} \end{cases}$.

א. מצאו לאלו ערכי k יש למערכת המשוואות:

i. פתרון יחיד.

ii. אינסוף פתרונות.

iii. אף פתרון.

ב. פתרו את מערכת המשוואות בהנחה שיש לה פתרון יחיד.

6) נתונה מערכת המשוואות הבאה: $\begin{cases} (2-k)x-y=k \\ 3x+ky=-1 \end{cases}$.

א. מצאו את הערך של k עבורו $(2,7)$ הוא פתרון של מערכת המשוואות.

ב. האם יש למשוואה פתרונות נוספים עבור הערך של k שמצאת בסעיף הקודם?

ג. האם קיים ערך של k עבורו למערכת המשוואות לא יהיו פתרונות כלל?
אם כן מצאו אותו.

7) לפניכם מערכת המשוואות הבאה: $\begin{cases} ax+b^2y=a^2 \\ 3x+by=9b \end{cases}$.

א. פתרו את מערכת המשוואות בהנחה שיש לה פתרון יחיד.

ב. הראו שכאשר $a=3b$ יש למערכת אינסוף פתרונות.

ג. עבור אלו ערכי a ו- b הפתרון היחיד של המערכת יהיה $(4,3)$?

8) לפניך מערכת המשוואות הבאה: $\begin{cases} amx+y=m^2 \\ bx+my=-9m \end{cases}$.

א. מצאו ערכי הפרמטרים a ו- b אם ידוע כי כאשר $m=4$ פתרון המשוואה הוא $(4,0)$.

ב. הוכיחו את הטענות הבאות:

i. לכל ערך של m יש למערכת פתרון ממשי.

ii. פתרון המערכת תמיד יהיה $(m,0)$.

ג. העזרו בסעיף הקודם וקבע איזו משוואה מבין שלושת המשוואות הבאות לא תכיל את הפתרון היחיד הנ"ל:

i. $7y+2m=2x$.

ii. $my=2x-m$.

iii. $m(y-mx)=2x-m(m^2+2)$.

9) לפניך הישרים הבאים: $\begin{cases} x+(k-9)y=8 \\ x-\dfrac{14y}{k}=1 \end{cases}$.

א. עבור אלו ערכי k הישרים הללו מקבילים?

ב. הביעו באמצעות k את נקודת החיתוך של הישרים.

ג. עבור איזה ערך של k נקודת החיתוך של הישרים תהיה על הישר: $y=x-8$?

10) לפניכם שני הישרים: $\begin{cases} (k^2+6)x+ay=15 \\ kx+ay=3 \end{cases}$, a,k פרמטרים, $a\neq 0$.

א. הוכיחו כי לכל ערך של k הישרים הללו נחתכים.

ב. מצאו את a אם ידוע כי כאשר $k=6$ נקודת החיתוך היא $\left(\frac{1}{3},1\right)$.

ג. עבור איזה ערך של k נקודת החיתוך תהיה $(2,1)$?

ד. הראו כי נקודת החיתוך של הישרים נמצאת על גרף הפונקציה: $\frac{4y}{x}=k^2-5k+6$.

תשובות סופיות:

1) א. i. $a \neq \pm 1$ ii. $a = -1$ iii. $a = 1$ ב. $-1 < a < 0$

2) א. $\left(\frac{m-2}{m-1}, \frac{m}{m-1}\right)$, $m \neq 1, -5$

ב. פתרון יחיד: $m \neq 1, -5$, אינסוף פתרונות: $m = -5$, אף פתרון: $m = 1$.

ג. הוכחה.

ד. i. $1 < m < 2$ ii. $0 < m < 1$ iii. $m > 2$, $m < 1$, $m \neq -5$.

3) א. i. $k \neq 3, -1$ ii. $k = 3$ iii. $k = -1$ ב. $\left(\frac{k^2+3k+10}{k+1}, \frac{8}{k+1}\right)$.

4) א. i. $k \neq 0, \pm 2$ ii. $k = 2$ iii. $k = 0, -2$ ב. $\left(\frac{k-3}{k+2}, \frac{3k+1}{k+2}\right)$.

5) א. i. $k \neq 0, 3$ ii. $k = 3$ iii. $k = 0$ ב. $\left(\frac{k-4}{k-3}, \frac{6-k}{2k-6}\right)$.

6) א. $k = -1$ ב. כן. ג. $k = 3$.

7) א. $\left(a+3b, -\frac{3a}{b}\right)$ ג. $a = -2$, $b = 2$.

8) א. $a = 1$, $b = -9$ ג. ii

9) א. $k = 2, 7$ ב. $\left(\frac{k^2-9k+112}{k^2-9k+14}, \frac{7k}{k^2-9k+14}\right)$ ג. $k = 8$

10) א. הוכחה. ב. $a = 1$ ג. $k = 1$.

חקירת משוואות ממעלה ראשונה עם שורשים:

שאלות:

1) לפניכם המשוואה: $(m-1)x=\sqrt{m-1}$.

מצאו עבור אלו ערכי m יש למשוואה:

א. פתרון יחיד (ובטאו אותו באמצעות m).

ב. אינסוף פתרונות.

ג. אף פתרון.

2) לפניכם המשוואה: $\frac{x-m}{\sqrt{3x-2}}+\sqrt{3x-2}=\frac{mx}{\sqrt{3x-2}}$.

מצאו עבור אלו ערכי m יש למשוואה:

א. פתרון יחיד (ובטאו אותו באמצעות m).

ב. אינסוף פתרונות.

ג. אף פתרון.

תשובות סופיות:

1) א. פתרון יחיד: $m>1$ והוא: $x=\frac{1}{\sqrt{m-1}}$ ב. $m=1$ ג. $m<1$.

2) א. פתרון יחיד: $\frac{6}{5}<m<4$ והוא: $x=\frac{m+2}{4-m}$. ב. אינסוף: $\varnothing$. ג. אף פתרון: $m\ge 4$, $m\le\frac{6}{5}$.

חקירה של משוואות ממעלה ראשונה עם ערך מוחלט:

סיכום כללי:

הגדרת ערך מוחלט: $|x|=\begin{cases} x & x\ge 0 \\ -x & x<0 \end{cases}$.

- משוואה מהצורה: $|A|=|B|$ תפוצל לשתי משוואות: $A=B$ או: $A=-B$.
  יש לחקור כל מקרה בנפרד ולאחד פתרונות.
- עבור משוואות המכילות ביטויים עם ערכים מוחלטים יש להפריד עבור כל מקרה לפי הגדרת הערך המוחלט. לבסוף יש לאחד פתרונות.
- למשוואה מהצורה: $|x|=k$ (כאשר x הוא המשתנה ו- k הוא פרמטר) יתכנו:
  - שני פתרונות אם $k>0$.
  - פתרון אחד (והוא $x=0$) אם $k=0$.
  - אף פתרון אם $k<0$.

שאלות:

1) חקור את המשוואה הבאה: $|x-2m|=|x+1|$.

2) חקור את המשוואה הבאה: $|mx-3x|=|x-m|$.

3) חקור את המשוואה הבאה: $\frac{mx^2}{|x|-1}-m|x|=2m+1$.

4) נתונה מערכת המשוואות הבאה: $\begin{cases} y+|x-2|=3 \\ |x+y|=m \end{cases}$.

מצא עבור אלו ערכי m יש למערכת:

א. פתרון אחד בלבד.

ב. שני פתרונות שונים.

ג. אינסוף פתרונות.

תשובות סופיות:

1) פתרון יחיד: $m \neq -\frac{1}{2}$. אף פתרון: $\varnothing$. אינסוף: $m = -\frac{1}{2}$.

2) פתרון יחיד: $m = 0$ והוא $x = 0$. אף פתרון: $\varnothing$.

שני פתרונות: $m \neq 0$ והם: $x_{1,2} = -\frac{2m}{3}, \frac{12m}{5}$.

3) עבור: $m = -\frac{1}{2}$ יש פתרון יחיד: $x = 0$.

עבור: $m > 0$, $-\frac{1}{2} < m < 0$, $m < -1$ יש שני פתרונות.

עבור: $m = 0$, $-1 < m < -0.5$ אין פתרון כלל.

4) א. $m = 0, m > 5$ ב. $0 < m < 5$ ג. $m = 5$.

מכינה אקדמית במתמטיקה למדעי המחשב 1400004

פרק 5 - אלגברה - חקירת משוואה ממעלה שנייה

תוכן העניינים

1. פתרון משוואות ממעלה שנייה עם פרמטר 97
2. חקירה של משוואה ממעלה שנייה 98
3. חקירות עם קדקוד פרבולה 107

פתרון משוואות ממעלה שנייה עם פרמטר:

סיכום כללי:

משוואות מהצורה: $ax^2+bx+c=0$ המכילות פרמטר כלשהו, m, המגולם בתוך הביטויים של המקדמים a, b ו-c נקראות משוואות עם פרמטר.

פתרון של משוואה עם פרמטר יתבצע באופן רגיל, אך יכול להכיל את הפרמטר.

שאלות:

1) פתור את המשוואה: $x^2+mx-12m^2=0$.

2) פתור את המשוואה: $2x^2+5m^2=(11m+1)x-5m$.

תשובות סופיות:

1) $x_1=3m$, $x_2=-4m$.

2) $x_1=5m$, $x_2=\frac{m+1}{2}$.

חקירה של משוואה ממעלה שנייה:

סיכום כללי:

המשוואה הריבועית:

תהא המשוואה הריבועית: $ax^2+bx+c=0$ כאשר $a\neq 0$.
נגדיר: $\Delta=b^2-4ac$ ונאמר כי:

- למשוואה יהיו שני פתרונות ממשיים שונים אם: $\Delta>0$.
- למשוואה יהיה פתרון ממשי אחד אם: $\Delta=0$.
- למשוואה לא יהיו שני פתרונות ממשיים כלל אם: $\Delta<0$.

אם $a=0$ תתקבל משוואה ליניארית מהצורה: $bx+c=0$.

- למשוואה זו יהיה פתרון ממשי אחד אם $b\neq 0$.
- למשוואה לא יהיו פתרונות כלל אם: $b=0$ ו-$c\neq 0$.

אם $b=0$ וגם $c=0$ למשוואה יהיו אינסוף פתרונות ממשיים.

הפונקציה הריבועית:

תהא הפונקציה הריבועית: $y=ax^2+bx+c$ כאשר $a\neq 0$.
נגדיר: $\Delta=b^2-4ac$ ונאמר כי לפונקציה נקודות חיתוך עם ציר ה-x באופן הבא:

- אם $a>0$ תתקבל פרבולה ישרה (מחייכת):
  - עבור $\Delta>0$ הפרבולה תחתוך את ציר ה-x בשתי נקודות שונות.
  - עבור $\Delta=0$ הפרבולה תשיק לציר ה-x (חיתוך בנקודה אחת).
  - עבור $\Delta<0$ הפרבולה תהיה מרחפת (ללא חיתוך עם ציר ה-x כלל).
- אם $a>0$ תתקבל פרבולה הפוכה (עצובה):
  - עבור $\Delta>0$ הפרבולה תחתוך את ציר ה-x בשתי נקודות שונות.
  - עבור $\Delta=0$ הפרבולה תשיק לציר ה-x (חיתוך בנקודה אחת).
  - עבור $\Delta<0$ הפרבולה תהיה מרחפת (ללא חיתוך עם ציר ה-x כלל).

- אם $a=0$ תתקבל פונקציה ליניארית: $y=bx+c$ ולה:
  - עבור $b>0$ יתקבל ישר עולה החותך את ציר ה-x ב-$\left(-\frac{c}{b},0\right)$.
  - עבור $b<0$ יתקבל יורד עולה החותך את ציר ה-x ב-$\left(-\frac{c}{b},0\right)$.
- אם $b=0$ יתקבל ישר $y=c$ וכעת:
  - אם $c>0$ הישר כולו מעל לציר ה-x ומקביל לו.
  - אם $c<0$ הישר כולו מתחת לציר ה-x ומקביל לו.
  - אם $c=0$ הישר מתלכד עם ציר ה-x.

ניתן לסכם את כל המקרים באופן הבא:

פירוט מילולי	תנאים	$\Delta>0$	$\Delta=0$	$\Delta<0$
תיאור גרפי של $y=ax^2+bx+c$ עבור $a\neq 0$	$a>0$	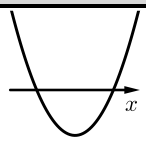	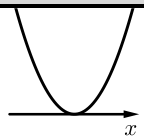	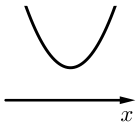
	$a<0$	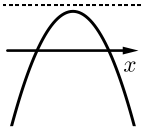	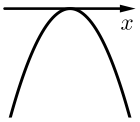	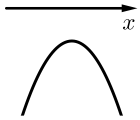
		$b>0$	$b<0$	
תיאור גרפי של $y=bx+c$ כאשר $a=0$ ו- $b\neq 0$	$a=0$ $b\neq 0$	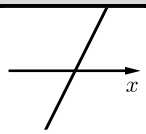	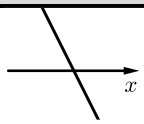	
		$c>0$	$c<0$	$c=0$
תיאור גרפי של $y=c$ כאשר $a=0$ ו- $b=0$	$a=0$ $b=0$			

שאלות:

1) נתונה המשוואה: $(3-m)x^2+4mx-2m=0$, $(m\neq 3)$.

מצא לאלו ערכי m למשוואה:

א. שני פתרונות ממשיים שונים.

ב. פתרון ממשי אחד.

ג. אין פתרונות ממשיים כלל.

2) נתונה הפונקציה: $y=2mx^2+mx-1$.

מצא לאלו ערכי m הפונקציה אינה חותכת את ציר ה-x.

3) נתונה הפונקציה: $y=(m^2-9)x^2+(m+3)x+4$, $(m\neq \pm 3)$.

מצא לאלו ערכי m הפונקציה נמצאת מעל ציר ה-x לכל ערך של x.

4) נתון אי השוויון: $mx^2>(m+4)(x-1)-x^2$.

מצא לאלו ערכי m אי השוויון מתקיים לכל ערך של x.

5) נתונה המשוואה הבאה: $-m(x-1)^2+2(m+16)=x(6-x(2m-3))+1$.

א. מצא עבור אלו ערכי m יש למשוואה:

i. שני פתרונות ממשיים שונים.

ii. פתרון ממשי אחד.

iii. אף פתרון ממשי.

ב. מצא את הפתרון היחיד עבור ערכי ה-m המתאימים במידה והוא קיים.

6) נתונה המשוואה הבאה: $m^2x(9x+1)+1=0$.

א. מצא עבור אלו ערכי m יש למשוואה:

i. שני פתרונות ממשיים שונים.

ii. פתרון ממשי אחד.

iii. אף פתרון ממשי.

ב. מצא את הפתרון היחיד עבור ערכי ה-m המתאימים במידה והוא קיים.

7) נתונה המשוואה: $mx^2-(9m+4)x+20m+16=0$.

א. הראה שעבור כל ערך של m יש למשוואה לפחות פתרון ממשי אחד.

ב. פתור את משוואה והראה כי אחד השורשים הוא מספר קבוע שאינו תלוי ב-m.

8) לפניך הפונקציה הבאה: $f(x)=(m^2-m-2)x^2+2(m-2)x+4$.

ענה על השאלות הבאות:

א. עבור אלו ערכי m גרף הפונקציה חותך את ציר ה-x בשתי נקודות שונות?

ב. עבור אלו ערכי m גרף הפונקציה חותך את ציר ה-x בנקודת אחת בלבד?

ג. עבור אלו ערכי m גרף הפונקציה לא חותך את ציר ה-x כלל?

ד. עבור אלו ערכי m גרף הפונקציה חיובי לכל ערך של x?

ה. עבור אלו ערכי m גרף הפונקציה שלילי לכל ערך של x?

9) נתונה הפונקציה: $f(x)=kx^2-5kx+6k+1$.

א. עבור אלו ערכי k גרף הפונקציה יהיה כולו מעל לציר ה-x?

ב. עבור איזה ערך של k יתקבל גרף פרבולה הנוגעת בציר ה-x?

10) עבור אלו ערכי m גרף הפונקציה: $f(x)=(k^2-5k-6)x^2+(2-3k)x+2$

הוא אי-שלילי לכל ערך של x?

11) נתונות הפונקציות: $f(x)=x^2+4x+2m+2$ ו-$g(x)=(1-m)x^2-3mx-1.5$.

א. מצא עבור אלו ערכי m נחתכים הגרפים של הפונקציות:

i. בשתי נקודות שונות.

ii. בנקודה אחת בלבד.

iii. באף נקודה.

ב. מצא לאלו ערכי m יהיה גרף הפונקציה $f(x)$ כולו מתחת לגרף הפונקציה $g(x)$.

12) נתונה הפונקציה: $f(x)=2kx^2+6kx+8k+2$.

א. עבור איזה ערך של k גרף הפונקציה יהיה ישר העובר ברביעים הראשון והשני בלבד?

מגדירים פונקציה נוספת: $g(x)=kx^2-6x-10$.

ב. האם קיימים ערכי k עבורם גרף הפונקציה $f(x)$ הוא מעל גרף הפונקציה $g(x)$ לכל x? הראה חישוב מתאים.

ג. הוכח כי קיים ערך של k עבורו גרפים של שתי הפונקציות משיקים זה לזה ומצא אותו.

13) נתונה הפונקציה הריבועית: $f(x)=2x^2-(5m+7)x+3m^2+8m+5$.

א. הראה כי גרף הפונקציה חותך את ציר ה-x לפחות פעם אחת לכל ערך של m.

ב. מצא את שורשי הפונקציה.

ג. עבור אלו ערכי m סכום השורשים גדול מ-3.5.

ד. מהם שורשי הפונקציה כאשר: $m=0$?

14) נתונה המשוואה הבאה: $(k+1)x^2+(k^2-4k-5)x-54=0$.

א. ענה על שני החלקים הבאים:

i. עבור אלו ערכי k יהיו פתרונות המשוואה שני מספרים נגדיים?

ii. מהם פתרונות המשוואה עבור ערכי ה-k שמצאת?

ב. הראה כי לא קיים ערך של k עבורו פתרונות המשוואה:
$(k-4)x^2+(6k-k^2-8)x+5k-10=0$ הם מספרים נגדיים.

15) נתונה הפונקציה הבאה: $f(x)=mx^2+(m-2)x+m^2+3m-10$.

א. מצא עבור אלו ערכי m גרף הפונקציה עובר בראשית הצירים.

ב. מצא את נקודות החיתוך שבין הגרפים המתקבלים עבור כל ערכי ה-m שמצאת בסעיף א'.

16) מצא עבור אלו ערכי m למשוואה: $(4-m)x^2+(m+2)x+m^2-12m-28=0$
יהיו שני פתרונות ממשיים שונים שאחד מהם הוא אפס.

17) נתונה משפחת הפרבולות הבאה: $f(x)=2x^2+(m+1)x+m^2+2m-2.5$.

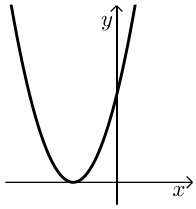

א. מצא ערך של m עבורו גרף הפרבולה השייכת למשפחת הפונקציות הנ"ל היא מהצורה:

ב. עבור ערך ה-m שמצאת בסעיף הקודם מצא את התחום של k עבורו יהיה לגרף הפרבולה ולישר $y=kx-4$ שתי נקודות חיתוך.

18) נתונה הפונקציה הבאה: $f(x)=(m^2-5m+4)x^2+(2m-2)x+1$.

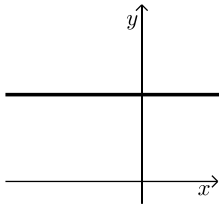

א. עבור אלו ערכים של m הפונקציה תחתוך את ציר ה-x בשתי נקודות שונות?

ב. מצא ערך של m עבורו גרף הפונקציה השייך למשפחת הפונקציות הנ"ל יהיה מהצורה שבצד, וכתוב את משוואת הישר המתקבלת במקרה זה.

ג. הגרף שאת משוואתו מצאת בסעיף הקודם חותך את גרף הפונקציה $f(x)$ בשתי נקודות שונות. הראה כי אחת מהן אינה תלויה ב-m.

ד. עבור אלו ערכי m נקודת החיתוך שתלויה ב-m תהיה מימין לנקודת החיתוך שמצאת בסעיף הקודם?

19) נתונה הפונקציה: $f(x)=\frac{4x(mx+2)+4-m}{4}$, m פרמטר חיובי.

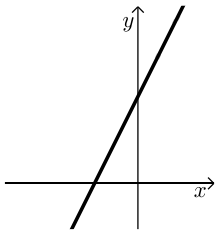

א. הראה כי לכל הגרפים המייצגים את משפחת הפונקציות הנ"ל יש נקודת חיתוך עם ציר ה-x שאינה תלויה ב-m ומצא את נקודה זו.

ב. עבור איזה ערך של m גרף הפונקציה יהיה מיוצג ע"י ישר מהצורה:

ג. הראה כי קיים תחום של x אשר לא תלוי ב-m ובו גרף הפונקציה נמצא תמיד מתחת לישר שמצאת בסעיף הקודם ומצא את תחום זה.

20) נתונה הפונקציה: $f(x)=3m^2x^2+4mx+2$.

א. הוכח כי הפונקציה נמצאת תמיד מעל לציר ה-x עבור כל ערך של m.

ב. מגדירים פונקציה חדשה באופן הבא: $y=\frac{mx^2+2x(m+2)+m}{3m^2x^2+4mx+2}$.

מצא עבור אלו ערכי m הפונקציה y היא שלילית.

21) נתונה הפונקציה: $f(x)=mx^2+(2m+1)x-\frac{1}{4}$.

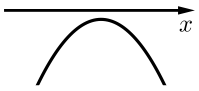

א. עבור אלו ערכי m גרף הפונקציה השייך למשפחת הפונקציות הנ"ל יהיה מהצורה:

ב. מגדירים פונקציה חדשה באופן הבא: $y=\frac{(m^2-9)x^2+(m+3)x-1}{mx^2+(2m+1)x-\frac{1}{4}}$.

הראה כי הפונקציה y חיובית בתחום שמצאת בסעיף הקודם.

ג. דרך נקודת החיתוך של גרף הפונקציה y עם ציר ה- y מעבירים ישר המקביל לציר ה- x.

i. כתוב את משוואת ישר זה.

ii. מצא עבור אלו ערכים של m גרף הפונקציה חותך את הישר בנקודה שבה: $x=-9$.

תשובות סופיות:

1) א. $m>0$ או $m<-3$ וגם $m\neq 3$ ב. $m=0\ ,\ -3$ ג. $-3<m<0$.

2) $-8<m\leq 0$.

3) $m>3\frac{2}{5}$ או $m<-3$.

4) $m>0$.

5) א. i. $m>3$ ii. אף m iii. $m<3$.
ב. לא קיים מקרה בו יש למשוואה פתרון יחיד.

6) א. i. $m<-6\ ,\ m>6$ ii. $m=\pm 6$ iii. $m\neq 0\ ,\ -6<m<6$
ב. בשני המקרים יתקבל: $x=-\frac{1}{18}$.

7) א. מתקבל: $\Delta=(m+4)^2$ שתמיד אי-שלילי ובמקרה הלא-ריבועי מתקבלת משוואה עם פתרון אחד. ב. $\frac{5m+4}{m}$, $m_{1,2}=4$.

8) א. $-2<m<2\ ,\ m\neq -1$ ב. $m=-1,-2$ ג. $m<-2\ ,\ m\geq 2$
ד. $-2<m<-1\ ,\ m=2$. ה. אף m.

9) א. $0\leq k<4$ ב. $k=4$.

10) $-26\leq k\leq -2$.

11) א. i. $m<-8\ ,\ m>-2\ ,\ m\neq 0$ ii. $m=0,-2,-8$ iii. $-8<m<-2$.
ב. $-8<m<-2$.

12) א. $k=0$ ב. לא. אין פתרון לאי-שוויון: $f(x)>g(x)$.
ג. עבור אי-השוויון של סעיף ב' מתקבל: $\Delta=4(k+3)^2$ ולכן כאשר $k=-3$ הגרפים נוגעים זה בזה בנקודה אחת.

13) א. הוכחה. ב. $x_{1,2}=m+1\ ,\ 1.5m+2.5$
ג. $m>0$ ד. $x_{1,2}=1\ ,\ 2.5$.

14) א. i. $k=5$ ii. $x=\pm 3$ ב. הוכחה.

15) א. $m=2,-5$ ב. $(-1,2)\ ,\ (0,0)$.

16) $m=14$.

17) א. $m=1$. כאשר: $m=-3$ נקבל גרף: $y=2x^2-2x+0.5$ המשיק לציר x מימין לראשית ולכן נפסל. ב. $k<-4\ ,\ k>8$.

18) א. $m>1\ ,\ m\neq 4$ ב. $f(x)=1\ ,\ m=1$ ג. הנקודה היא: $(0,1)$
ד. $m\neq 1\ ,\ m<4$.

19) א. הנקודה היא: $(-0.5,0)$ ב. $m=0$ ג. $-0.5<x<0.5$.

20) א. מתקבל: $\Delta = -8m^2$ ולכן לגרף הפרבולה אין חיתוכים כלל ומכיוון ש-A אי-שלילי הרי שמדובר בפרבולה מרחפת חיובית. במקרה הישר מתקבל ישר המקביל לציר ה-x שגם כן כולו חיובי.

ב. מאחר והמכנה תמיד חיובי (ממקודם) יש לדרוש תנאים שיקיימו מונה שלילי ($\Delta < 0$, $a < 0$ - עבור המונה) נקבל: $m < -1$.

21) א. $-1 < m < -\frac{1}{4}$ ב. הוכחה. ג. i. $y = 4$

ii. $-1\frac{7}{9}$, $m = 5$.

חקירות עם קדקוד פרבולה:

סיכום כללי:

תהא הפונקציה הריבועית: $y=ax^2+bx+c$ כאשר $a\neq 0$. נגדיר: $\Delta=b^2-4ac$.

התיאור הגרפי של הפונקציה הריבועית הוא פרבולה.

עבור $a\neq 0$ נקבל כי קדקוד הפרבולה הוא: $\left(-\frac{b}{2a},-\frac{\Delta}{4a}\right)$.

- שאלות העוסקות בקדקוד חיובי/שלילי נדרוש: $-\frac{\Delta}{4a}>0$ או $-\frac{\Delta}{4a}<0$ בהתאמה.
- שאלות העוסקות בקדקוד הנמצא מימין/משמאל לציר ה- y נדרוש $-\frac{b}{2a}>0$ או $-\frac{b}{2a}<0$ בהתאמה.
- שאלות העוסקות בקדקוד שנמצא מעל/מתחת לישר $y=n$ או מימין/משמאל לישר $x=k$ נדרוש $-\frac{\Delta}{4a}\gtrless n$ ו- $-\frac{b}{2a}\gtrless k$ בהתאמה.
- שאלות העוסקות בקדקוד שבאחד הרביעים נדרוש $-\frac{b}{2a}\gtrless 0$ ו- $-\frac{\Delta}{4a}\gtrless 0$ לפי הרביע המבוקש.

שאלות:

1) נתונה הפונקציה: $f(x)=(m+3)x^2+(3m+14)x+2m+7$.

א. עבור אלו ערכי m גרף הפונקציה הוא פרבולה החותכת את ציר ה- x בשתי נקודות?

ב. הבע באמצעות m את שיעורי קדקוד הפרבולה של גרף הפונקציה הנתונה.

ג. עבור אלו ערכי m קדקוד הפרבולה יהיה וודאי מתחת לישר: $y=-4$?

ד. עבור אלו ערכי m מתקיימים התנאים של סעיף א' ו-ג' יחד?

2) נתונה הפרבולה הבאה: $f(x)=x^2-3(m-2)x+2m^2-8m+7$.

א. הוכח את הטענות הבאות:

i. גרף הפרבולה חותך את ציר ה-x בשתי נקודות עבור כל ערך של m.

ii. קדקודי כל הפרבולות המיוצגות ע"י תבנית הפונקציה הנתונה נמצאים מתחת לציר ה-x.

ב. עבור איזה ערך של m גרף הפרבולה יחתוך את ציר ה-x בשתי נקודות הנמצאות באותו מרחק מראשית הצירים?

ג. עבור ערך ה-m שמצאת בסעיף הקודם מצא את נקודות החיתוך על ציר ה-x.

ד. הראה כי קדקוד הפרבולה המתקבלת בעת הצבת ערך ה-m הנ"ל נמצא על ציר ה-y.

3) נתונה הפונקציה: $f(x)=(m^2-2m-3)x^2+8x+0.5$.

א. עבור אלו ערכי m גרף הפונקציה הוא פרבולה?

ב. עבור אלו ערכי m גרף הפונקציה הוא פרבולה החותכת את ציר ה-x בשתי נקודות?

ג. הבע באמצעות m את שיעורי קדקוד הפרבולה.

ד. הוכח כי קדקודי כל הפרבולות נמצאים על הישר: $2y=8x+1$ עבור כל ערך של m עבורו מתקבלת פרבולה.

4) נתונה הפונקציה: $f(x)=(k^2-2k+15)x^2+kx+12$.

א. הוכח כי עבור כל ערך של k גרף הפונקציה לא נוגע בציר ה-x כלל.

ב. הוכח כי קדקוד הפרבולה המיוצגת ע"י התבנית הנ"ל תמיד מעל לציר ה-x.

ג. עבור איזה ערך של k קדקוד הפרבולה יהיה על ציר ה-y?

ד. מצא את שיעורי קדקוד הפרבולה במקרה זה.

5) נתונה הפונקציה הבאה: $f(x)=(k^2-9)x^2+(k+3)x-1$.

א. עבור אלו ערכי k גרף הפונקציה אינו חותך את ציר ה-x?

ב. הבע באמצעות k את שיעורי קדקוד הפרבולה המיוצגת ע"י התבנית של $f(x)$.

ג. מצא עבור אלו ערכי k קדקוד הפרבולה יהיה ברביע הראשון.

ד. האם קיים ערך של k עבורו קדקוד הפרבולה נמצא על ציר ה-y? נמק את תשובתך.

6) נתונה הפונקציה: $f(x)=(m^2-4)x^2+5mx+6$.

א. הראה כי הפונקציה חותכת את ציר ה-x לפחות פעם אחת עבור כל ערך של m.

ב. עבור אלו ערכי m גרף הפונקציה הוא פרבולת מינימום?

ג. הראה כי קדקוד הפרבולה המתקבל עבור ערכי ה-m שמצאת בסעיף הקודם נמצא תמיד מתחת לציר ה-x.

7) נתונה הפונקציה: $f(x)=(m^2-8m+12)x^2+(m-2)x+2$.

א. עבור אלו ערכי m גרף הפונקציה יהיה כולו מעל לציר ה-x?

ב. עבור אלו ערכי m גרף הפונקציה הוא פרבולה מרחפת חיובית שקדקודה משמאל לישר: $x=-\frac{1}{2}$.

ג. האם ייתכן כי גרף הפונקציה יכול להיות פרבולת מקסימום שקדקודה הוא משמאל לישר: $x=-\frac{1}{2}$? נמק והראה חישוב מתאים.

8) נתונות הפונקציות הבאות: $f(x)=(m^2-4)x^2+2x+1$, $g(x)=(m+2)x^2+(5-m)x+3$.

א. ענה על השאלות הבאות:

i. מצא ערך של m עבורו הגרפים משיקים זה לזה.

ii. מצא ערך של m עבורו הגרפים חותכים זה את זה בנקודה אחת בלבד.

iii. הסבר מדוע בכל מקרה התקבל ערך m שונה.

ב. עבור אלו ערכי m הגרפים של הפונקציות הם פרבולות מינימום המקיימות שקדקוד הפרבולה המיוצגת ע"י הפונקציה $f(x)$ נמצא מימין לקדקוד הפרבולה המיוצגת ע"י $g(x)$?

9) נתונות הפונקציות הבאות: $f(x)=(m^2-9)x^2+7x+5$, $g(x)=(m-3)x^2+(4m-3)x+1$.

א. עבור אלו ערכי m הגרפים נחתכים בשתי נקודות שונות?

ב. ענה על השאלות הבאות:

i. עבור איזה ערך של m הגרפים הם פרבולות נוגעות זו בזו?

ii. עבור איזה ערך של m הגרפים חותכים זה את זה בנקודה אחת בלבד.

iii. הסבר את ההבדל בין הערכים של m שהתקבלו בחלק i ובחלק ii.

ג. מצא את נקודת החיתוך של שני הגרפים.

ד. עבור אלו ערכי m הסכום של שיעורי ה-x של נקודות קדקודי הפרבולות של שתי הפונקציות יהיה קטן מ-1?

תשובות סופיות:

1) א. $m \neq -3$, $m > -4$, $m < -28$ ב. $\left(\frac{-3m-14}{2m+6}, \frac{-m^2-32m-112}{4m+12}\right)$.

ג. $m > -3$ ד. $m > -3$.

2) א. i. מתקבל: $\Delta = m^2 - 4m + 8$ שחיובי תמיד.

ii שיעור ה- y של הקדקוד הוא: $-\frac{\Delta}{4}$ אשר שלילי תמיד. ב. $m = 2$

ג. $(\pm 1, 0)$ ד. הקדקוד: $(0, -1)$.

3) א. $m \neq 3, -1$ ב. $-5 < m < 7$, $m \neq 3, -1$ ג. $\left(\frac{-4}{m^2-2m-3}, \frac{m^2-2m-35}{2(m^2-2m-3)}\right)$.

ד. יש להציב את הקדקוד בישר ולקבל שוויון אמת.

4) א. המקדם a תמיד חיובי ומתקבל: $\Delta = -47k^2 + 96k - 720$ שתמיד שלילי.

מכאן שמדובר בפרבולה מרחפת עבור כל k. ג. $k = 0$ ד. $(0, 12)$

5) א. $-3 \leq k < 1.8$ ב. $\left(\frac{1}{2(3-k)}, \frac{9-5k}{4(k-3)}\right)$ ג. $1.8 < k < 3$.

ד. לא. מכיוון שלא קיים ערך של k עבורו שיעור ה- x של קדקוד הפרבולה יהיה אפס.

6) א. מתקבל: $\Delta = m^2 + 96$ המעיד כי תמיד יש לפונקציה שני חיתוכים וכאשר $m = \pm 2$

מתקבלים שני ישרים החותכים את ציר ה- x. ב. $m < -2$, $m > 2$.

7) א. $m \leq 2$, $m > 6\frac{4}{7}$. ב. $6\frac{4}{7} < m < 7$. ג. לא.

8) א. i. $m = -1\frac{4}{9}$ ii. $m = -2$ iii. במקרה i מדובר בפרבולות אשר

יכולות להשיק ובמקרה ii מדובר בשני ישרים אשר רק נחתכים. ב. $3 < m < 4$.

9) א. $m \neq 3, -2$, $m < 3\frac{1}{16}$ ב. i. $m = 3\frac{1}{16}$ ii. $m = 3, -2$

iii. במקרה i מדובר במשוואה ריבועית ובנקודת השקה, ובמקרה ii מדובר

במשוואה ליניארית ובנקודת חיתוך.

ג. עבור $m = -2$ מתקבלת: $\left(-\frac{2}{9}, 3\frac{16}{81}\right)$, עבור: $m = 3$ מתקבלת: $(2, 19)$.

ד. $m > 3$, $-2.72 < m < 1.22$, $m < -3$.

מכינה אקדמית במתמטיקה למדעי המחשב 1400004

פרק 6 - אלגברה - בעיות מילוליות יסודיות

תוכן העניינים

1. בעיות תנועה ללא אחוזים 111
2. בעיות תנועה עם אחוזים 114
3. בעיות תנועה עם משפט פיתגורס 115
4. בעיות תנועה מהירות מושפעת מזרמים 116
5. בעיות תנועה מהירות ממוצעת 117
6. בעיות קנייה ומכירה בלי אחוזים עם נעלם אחד ושניים 118
7. בעיות קנייה ומכירה עם אחוזים בנעלם אחד ושניים 119
8. בעיות קנייה ומכירה שונות 120
9. בעיות יסודיות במרובעים 126
10. בעיות במשולשים כולל משפט פיתגורס 128
11. בעיות במעגל – ללא אחוזים ללא משפט פיתגורס 130
12. בעיה במעגל – ללא אחוזים וכולל משפט פיתגורס 131
13. בעיה במעגל – כולל אחוזים 132
14. בעיות בהנדסת המרחב 133

בעיות תנועה בלי אחוזים עם נעלם אחד ושניים:

שאלות:

1) מכונית נוסעת מ-A ל-B במהירות של 90 קמ"ש. בדרך חזרה נסעה המכונית במהירות של 60 קמ"ש. בסה"כ נמשכה הנסיעה הלוך וחזור 20 שעות.

א. כמה שעות נסעה המכונית לכל כיוון?

ב. מהי הדרך שעברה המכונית?

2) אוטובוס ומשאית יוצאים בו זמנית משני יישובים A ו-B בהתאמה.
מהירות האוטובוס היא 60 קמ"ש ומהירות המשאית היא 80 קמ"ש.
האוטובוס הגיע ליישוב B שעה ו-40 דקות מאוחר יותר מהזמן שלקח למשאית להגיע ליישוב A.

א. כמה זמן נסע האוטובוס וכמה זמן נסעה המשאית?

ב. מהו המרחק בין שתי הערים?

3) הולכת רגל יצאה לטיול במהירות מסוימת. לאחר שעה וחצי יצא בעקבותיה מאותו מקום הולך רגל נוסף במהירות הגדולה ממהירותה ב-4.5 קמ"ש.
הולך הרגל השיג את הולכת הרגל שעה לאחר שיצא לדרכו.

א. מהי מהירות ההליכה של הולכת הרגל?

ב. מהו המרחק שעברו עד שנפגשו?

4) שני רוכבי אופניים יוצאים בו זמנית מעיר א' לעיר ב'. הרוכב הראשון נוסע במהירות קבועה ומגיע לעיר ב' לאחר 5 שעות. הרוכב השני נוסע במשך השעתיים הראשונות במהירות הקטנה ב-2 קמ"ש ממהירות הרוכב הראשון.
לאחר מכן הוא מגביר את מהירותו ב-14 קמ"ש ומגיע לעיר ב' שעה ו-20 דקות לפני הרוכב הראשון.

א. באיזו מהירות נסע הרוכב הראשון?

ב. איזו דרך עבר הרוכב השני בכל חלק?

5) משאית נוסעת מרחק של 245 ק"מ בכל יום במהירות קבועה.
יום אחד נסעה המשאית במשך שעתיים וחצי במהירות הרגילה, לאחר מכן עצרה לתדלוק במשך 24 דקות ואז המשיכה בנסיעה במהירות הגדולה ב-70 קמ"ש ממהירותה הקודמת.
המשאית הגיעה ליעדה שעה לפני השעה שהיא מגיעה בכל יום.

א. באיזו מהירות נוסעת המשאית בכל יום?

ב. כמה זמן לוקח למשאית להגיע ליעדה בכל יום?

6) אוטובוס נוסע מעיר א' לעיר ב' הרחוקה ממנה ב-800 ק"מ. לאחר שעבר האוטובוס 135 ק"מ במהירות קבועה הוא עצר להתרעננות במשך חצי שעה.
לאחר מכן המשיך האוטובוס את נסיעתו במהירות הגדולה ב-43 קמ"ש ממהירותו הקודמת עד לעיר ב'.
סך כל הזמן שהיה האוטובוס בדרך הוא 7 שעות.

א. מה הייתה המהירות ההתחלתית של האוטובוס?

ב. מה היה המרחק שעבר האוטובוס אחרי ההתרעננות עד לעיר ב'?

7) רוכב אופניים יצא בשעה 06:00 לרכיבה במהירות 24 קמ"ש.
בשעה 07:00 יצא מאותו מקום רוכב אופנוע באותו כיוון ובמהירות של 40 קמ"ש.
באיזו שעה ובאיזה מרחק מנקודת היציאה ישיג רוכב האופנוע את רוכב האופניים?

8) המרחק בין ת"א לנצרת הוא 103 ק"מ. בשעה 08:00 יצאה מכונית מנצרת לת"א במהירות 90 קמ"ש. בשעה 08:20 יצאה משאית מת"א לנצרת במהירות 56 קמ"ש.
באיזו שעה ייפגשו המכונית והמשאית?

9) משאית נסעה מדימונה לאילת, מרחק של 200 ק"מ. 50 דקות אחריה יצאה מכונית מדימונה לאילת במהירות הגבוהה ב-30 קמ"ש והגיעה לאילת 40 דקות לפני המשאית.
מצא את מהירות המכונית.

תשובות סופיות:

1) א. 8 שעות הלוך ו-12 שעות חזור. ב. 1440 ק״מ.
2) א. אוטובוס-6 שעות ו-40 דקות, משאית-5 שעות. ב. 400 ק״מ.
3) א. 3 קמ״ש. ב. 7.5 קמ״ש.
4) א. 12 קמ״ש. ב. 20 ק״מ ו-40 ק״מ.
5) א. 50 קמ״ש. ב. 4 שעות ו-54 דקות.
6) א. 90 קמ״ש. ב. 665 ק״מ.
7) 8:30, 60 קמ״ש.
8) 8:50.
9) 80 קמ״ש.

בעיות תנועה עם אחוזים:

שאלות:

10) מכונית נוסעת מעיר א' לעיר ב' מרחק של 480 ק"מ במהירות קבועה.
בדרכה חזרה נסעה המכונית במשך שעה במהירות הקבועה. לאחר מכן עצרה להתרעננות של 36 דקות ואז הגבירה את מהירותה ב-25% ממהירותה הקודמת והגיעה בחזרה לעיר א' 24 דקות פחות מהזמן שלקח לה להגיע לעיר ב'.
באיזו מהירות נסעה המכונית מעיר א' לעיר ב'?

11) רכבת משא ורכבת נוסעים יוצאות מעיר א' לעיר ב' מרחק של 360 ק"מ.
מהירות רכבת הנוסעים גדולה ב-20% ממהירות רכבת המשא.
רכבת הנוסעים התעכבה 40 דקות בתחנה, ולכן יצאה באיחור מהתחנה של עיר א'.
עם זאת היא הגיעה לעיר ב' 20 דקות לפני רכבת המשא.

א. מה הן המהירויות של שתי הרכבות?

ב. מה זמן נסעה רכבת הנוסעים מעיר א' לעיר ב'?

12) מכונית ומונית נוסעות מנקודה A לנקודה B. המכונית נוסעת במהירות קבועה ומגיעה לנקודה B כעבור 4 שעות. המונית נוסעת במשך 3 שעות המהירות הקטנה ב-10 קמ"ש ממהירות המכונית ולאחר מכן מגבירה את מהירותה ב-50% ומגיעה לנקודה B יחד עם המכונית.

א. מהי מהירות המכונית?

ב. מהו המרחק בין נקודה A לנקודה B?

תשובות סופיות:

10) 80 קמ"ש.

11) א. 60 קמ"ש ו-72 קמ"ש. ב. 5 שעות.

12) א. 90 קמ"ש. ב. 360 ק"מ.

בעיות תנועה עם משפט פיתגורס:

שאלות:

13) שתי מכוניות יצאו מהעיר, האחת לכיוון מזרח והשנייה לכיוון צפון.
לאחר שלוש שעות המרחק בין שתי המכוניות היה 300 ק"מ.
מהירות מכונית אחת גדולה ב-20 קמ"ש ממהירות המכונית השנייה.

א. מהן המהירויות של שתי המכוניות?

ב. מה היה המרחק של כל מכונית מהעיר לאחר שלוש שעות?

14) שני הולכי רגל יוצאים משני יישובים A ו-B המרוחקים זה מזה 13 ק"מ.
היישוב A ממוקם בצפון מערב ביחס ליישוב B כמתואר באיור ממול.
הולך הרגל מיישוב A הולך דרומה והולך הרגל מיישוב B הולך מערבה. הולך הרגל מיישוב A יוצא שעתיים לפני הולך הרגל השני. לאחר שלוש שעות מיציאתו נפגשו שני הולכי הרגל. מהירות הולך הרגל מיישוב B גדולה ב-25% ממהירות הולך הרגל השני.
באיזו מהירות הלך כל אחד משני הולכי הרגל?

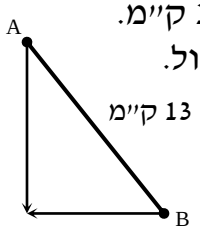

15) רוכב אופנוע יצא מביתו מזרחה במהירות מסוימת ונסע במשך חצי שעה.
לאחר מכן, פנה צפונה, הגדיל את מהירותו ב-20% ונסע כך שעה נוספת.
לאחר שעה זו פנה חזרה לכיוון ביתו, העלה את מהירותו ל-65 קמ"ש ונסע (בקו ישר) עד שהגיע חזרה לביתו.

א. מצא את מהירותו של רוכב האופנוע ביציאה מביתו אם ידוע שעבר בסה"כ 150 ק"מ.

ב. מה הייתה מהירותו הממוצעת של רוכב האופנוע (בכל חלקי הדרך)?

תשובות סופיות:

13) א. 60 קמ"ש ו-80 קמ"ש. ב. 180 ק"מ ו-240 ק"מ.

14) א. 4 קמ"ש ו-5 קמ"ש.

15) א. 50 קמ"ש. ב. 60 קמ"ש.

בעיות תנועה מהירות מושפעת מזרמים:

שאלות:

16) סירה שטה בנהר שבו מהירות הזרם היא 3 קמ״ש עם כיוון זרם המים.
לאחר חצי שעה החליטו אנשי הסירה לשנות את כיוונם וחזרו במשך שעתיים לנקודת המוצא שלהם.
מהירות הסירה במים עומדים קבועה במשך כל השייט.

א. מצא את מהירות הסירה.

ב. מהו המרחק הכולל ששטה הסירה?

תשובות סופיות:

16) א. 5 קמ״ש. ב. 8 קמ״ש.

בעיות תנועה מהירות ממוצעת:

שאלות:

17) מכונית נוסעת 3 שעות במהירות קבועה של 140 קמ״ש ולאחר מכן במשך שעתיים נוספות במהירות קבועה של 100 קמ״ש.

א. מה סך הדרך שעברה המכונית?

ב. מהי המהירות הממוצעת של המכונית?

18) מכונית נוסעת 4 שעות במהירות של 130 קמ״ש ולאחר מכן מספר שעות נוספות במהירות של 70 קמ״ש.
ידוע כי מהירותה הממוצעת היא 110 קמ״ש.
כמה שעות נסעה המכונית במהירות של 70 קמ״ש?

19) אופנוע עובר מרחק של 200 ק״מ במהירות מסוימת.
לאחר מכן מאיץ האופנוע ומגדיל את מהירותו ב-40%.
הוא נוסע במהירות זו ועובר מרחק של 280 ק״מ.
המהירות הממוצעת של האופנוע היא 96 קמ״ש.

א. כמה זמן נסע האופנוע?

ב. באיזו מהירות התחיל האופנוע את נסיעתו?

תשובות סופיות:

17) א. 620 ק״מ. ב. 125 קמ״ש.

18) שעתיים.

19) א. 5 שעות . ב. 80 קמ״ש.

בעיות קנייה ומכירה בלי אחוזים עם נעלם אחד ושניים:

שאלות:

1) מחיר כניסה למוזיאון המדע למבוגר גדול ב-15 ₪ ממחיר הכניסה לילד.
יוסי נסע עם אשתו ושבעת ילדיו ליום כיף במוזיאון המדע ושילם בעבור הכניסה סכום כולל של 210 שקלים.
מה המחיר לילד ומה המחיר למבוגר?

2) המחיר של 3 ק"ג אגסים גדול ב-3 שקלים מהמחיר של 2 ק"ג תפוחים.
שרון קנתה 4 ק"ג אגסים ו-5 ק"ג תפוחים ושילמה סכום כולל של 73 שקלים.
מה המחיר של ק"ג מכל סוג?

3) דן קנה מחברות בסכום כולל של 224 שקלים.
אם ירד המחיר למחברת ב-10 שקלים יוכל דן לקנות 40 מחברות יותר מאשר קנה בתחילה באותו הסכום.
כמה מחברות קנה דן ומה המחיר של כל מחברת?

4) סוחר קנה 60 כיסאות זהים במחיר זהה לכיסא.
5 כיסאות נשברו לו ואת שאר הכיסאות הוא מכר במחיר הגדול ב-40 ₪ מהמחיר שקנה אותם. בסה"כ הרוויח הסוחר בעסקה 1950 ₪.
באיזה מחיר קנה הסוחר כל כיסא?

תשובות סופיות:

1) 20 ₪ ו-35 ₪.

2) 7 ₪ ו-9 ₪.

3) 16 ב-14 ₪.

4) 50 ₪.

בעיות קנייה ומכירה עם אחוזים בנעלם אחד ושניים:

שאלות:

5) משכורתו של אלון גדולה ב-200 ₪ ממשכורתו של רן.
אם אלון יקבל תוספת של 16% למשכורתו ורן יקבל תוספת של 30% למשכורתו אז המשכורת של רן תהיה גדולה משל אלון ב-300 ₪.
מהי המשכורת של כל אחד מהם?

6) עקב ביקוש רב מחירו של מקרר "אמנה" עלה ב-5%. לאחר שנה ירד הביקוש למקרר "אמנה" ולכן הוזל מחירו ב-10%. מחיר המקרר הסופי הוא 1,323 ₪.

א. מה היה מחיר המקרר ההתחלתי?

ב. כמה אחוזים ממחיר המקרר המקורי מהווה מחיר המקרר הסופי?

7) המחיר של שמיכה וזוג כריות הוא 380 ₪. לאחר שנה מחיר השמיכה הוזל ב-20%, אך מחיר הכריות התייקר ב-20%. כעת המחיר של 5 כריות ו-2 שמיכות הוא 888 ₪.

א. מה היה המחיר הראשוני של כרית?

ב. כמה עולה שמיכה לאחר ההוזלה?

8) סוחר קנה שולחנות במחיר כולל של 18,000 ₪. 10 שולחנות הוא מכר ברווח של 60% לשולחן, 20 שולחנות הוא מכר ללא רווח ואת שאר השולחנות הוא מכר בהפסד של 15% לשולחן. סה"כ הרוויח הסוחר בעסקאות אלו 450 ₪.

א. כמה שולחנות קנה הסוחר?

ב. מה המחיר ששילם הסוחר עבור כל שולחן?

תשובות סופיות:

5) א. 1,400 ₪. ב. 94.5%.

6) א. 100 ₪. ב. 144 ₪.

7) א. 60 שולחנות. ב. 300 ₪.

8) א. 250 מרצפות . ב.88 ₪. ג. 156,000.

בעיות קנייה ומכירה שונות:

שאלות:

9) קבלן רכש x מרצפות רצפה בסכום כולל של 22,000 ₪. 20 מרצפות נשברו בהובלה ולכן לא נמכרו. את שאר המרצפות מכר הקבלן ברווח של 50%.
סה"כ הרוויח הקבלן בעסקה 8,360 ₪.

א. כמה מרצפות קנה הקבלן?

ב. כמה כסף שילם הקבלן עבור כל מרצפה?

10) שמואל קנה מחשב ומדפסת במכרז ושילם עבורם סכום כולל של 3,600 ₪.
לאחר חודש ימים, מכר שמואל את המדפסת בהפסד של 10% ואת המחשב ברווח של 40%.
ידוע כי שמואל מכר את שני המוצרים במחיר כולל של 4,740 ₪.
בכמה כסף קנה שמואל את המחשב ובכמה כסף קנה את המדפסת?

11) חוואי קנה 15 סוסי פוני במחיר זהה לסוס. לאחר שנה מכר החוואי 3 סוסים ברווח של 35%, שניים מתו ממחלה נדירה ואת שאר הסוסים הוא מכר ללא רווח. סה"כ הפסיד החוואי 1710 ₪.

א. כמה שילם החוואי עבור כל סוס פוני?

ב. אם רק סוס אחד היה מת, האם היה החוואי מרוויח מהעסקה?
אם לא נמק, אם כן בכמה היה מרוויח?

12) מכונת כביסה עולה 4,000 ₪. לאחר שנה עלה מחיר מכונת הכביסה ב-20%
ושנה לאחר מכן עלה מחירה בעוד 20%.

א. מה מחיר מכונת הכביסה לאחר שנתיים?

ב. בכמה אחוזים מהמחיר המקורי התייקרה מכונת הכביסה?

ג. בחנות למוצרי חשמל מוכרים מכונות כביסה במחיר מסוים.
רפי קנה 3 מכונות כביסה למכבסה שברשותו. ידוע כי לאחר שנה חלה התייקרות ב- p אחוזים וכך גם בשנה שאחריה. בתום השנתיים, החליט רפי לקנות 2 מכונות כביסה נוספות. מבדיקה שערך רפי, גילה כי המחיר הכולל ששילם בקנייה השנייה שווה למחיר ששילם בקנייה הראשונה.
מהו p ?

13) המחיר של שמיכה וזוג כריות הוא 380 ₪. לאחר שנה מחיר השמיכה הוזל ב-20% אך מחיר הכריות התייקר ב-20%.
כעת המחיר של 5 כריות ו-2 שמיכות הוא 888 ₪.

א. מה היה המחיר הראשוני של כרית?

ב. כמה עולה שמיכה לאחר ההוזלה?

ג. אכסניית נוער מעוניינת לרכוש שמיכות וכריות עבור מיטות יחיד למספר חדרים (מספר זהה של שמיכות וכריות).
האם כדאי להנהלת האכסניה לרכוש את השמיכות והכריות במחירים המקוריים או לאחר שנה? נמק.

14) המחיר של 6 שרפרפים גדול ב-20 שקלים מהמחיר של כיסא.
לאחר שמחיר השרפרפים התייקר ב-35% ומחיר הכיסא הוזל ב-19%, המחיר של 3 שרפרפים היה זהה למחיר של כיסא אחד.

א. מה המחיר של כיסא והמחיר של שרפרף לפני ההוזלה וההתייקרות?

ב. בכמה אחוזים גדול המחיר של הכיסא לאחר ההוזלה מהמחיר של השרפרף לאחר ההתייקרות?

ג. לרשות בית ספר תקציב מסוים המיועד לרכישת כיסאות ושרפרפים.
ידוע כי בית הספר מעוניין לרכוש פי 4 יותר שרפרפים מאשר כיסאות.
האם כדאי לבית הספר לבצע את הרכישה במחירים המקוריים או לאחר השינויים אם ברצונו לרכוש יותר פריטים?

15) סוחר קנה 60 כיסאות זהים במחיר זהה לכיסא. 5 כיסאות נשברו לו ואת שאר הכיסאות הוא מכר במחיר הגדול ב-40 ₪ מהמחיר שקנה אותם.
בסה"כ הרוויח הסוחר בעסקה 1950 ₪.

א. באיזה מחיר קנה הסוחר כל כיסא?

ב. בעסקה אחרת, קנה הסוחר 60 כיסאות אחרים במחיר זהה לכיסא.
ידוע כי המחיר של כיסא בודד גדול ב-30% מהמחיר של כיסא בודד שרכש הסוחר בעסקה הראשונה. במהלך ההובלה נגנבו 8 כיסאות.
הסוחר רוצה להרוויח ממכירת הכיסאות הנותרים לפחות 2000 ₪ בעסקה זו. נסמן ב- p את אחוז ההתייקרות שבו צריך למכור הסוחר כיסא בודד. מצא את p המינימלי עבורו יעמוד הסוחר ביעדו.

16) סוכן של חברת רהיטים קנה מיטות במחיר כולל של 60,000 ₪.
רבע מכמות המיטות שקנה הוא מכר ברווח של 4.80% מיטות הוא מכר ללא רווח כלל ואת שאר המיטות הוא מכר בהפסד של 10% למיטה.
בסה"כ הרוויח הסוכן 9,500 ₪.

א. כמה מיטות קנה הסוכן?

ב. כמה שילם הסוכן עבור כל מיטה?

ג. בהנחה שהסוכן רוכש עבור החברה פעם נוספת כמות מיטות זהה ממקום אחר, ומוכר באותם התנאים, כמה עליו לשלם עבור מיטה בודדת כדי שהרווח שלו יהיה לפחות 10,000 ₪? (עגל את תשובתך לשקלים שלמים).

17) יצרנית מוצרי חשמל מוכרת מקררים במחיר של x ₪ ליחידה.
עם השקת מקרר חדש הוחלט להעלות את מחירו ב-5% עקב הביקוש הרב.
בשנה הראשונה להשקתו נקנו מספר מקררים. שנה לאחר מכן ירד הביקוש ולכן מחיר המקרר הוזל ב-10% (ביחס למחירו בשנה הראשונה).
כעת נמכרו מספר כפול של יחידות ביחס לשנה הקודמת.

א. מצא את המחיר המקורי של מקרר אם ידוע כי סך כל הרווחים של יצרנית המקרר בשנתיים הנ"ל זהה לסכום שהייתה מרוויחה אם היו קונים את אותו מספר המקררים שנרכשו בשנה הראשונה במחיר של 4116 ₪ ליחידה.

ב. היצרנית הרוויחה בשנה השנייה 235,200 ₪ יותר מאשר בשנה הראשונה.
מצא כמה מקררים נמכרו בשנה הראשונה.

18) בחנות מסוימת, מחיר כובע גדול ב-40% מהמחיר של זוג כפפות.
לאחר חודש התייקר הכובע ב-50% והכפפות הוזלו ב- p אחוזים.

א. מצא את p עבורו קנייה של 16 כובעים ו-2 זוגות כפפות לפני השינויים תשתווה לקנייה של 4 כובעים ו-20 זוגות כפפות לאחר השינויים.

ב. מצא את p עבורו ההפרש בין קניית 5 כובעים ו-4 זוגות כפפות במחירים לאחר השינויים, לבין קניית 3 כובעים ו-2 זוגות כפפות במחירים המקוריים יהיה שווה למחיר של קניית 5 זוגות כפפות במחירים המקורי.

ג. מצא את p עבורו המחיר של כובע אחד ו-10 זוגות כפפות לאחר השינויים יהווה 80% מהמחיר של קניית אותם הפריטים במחירים המקוריים.

19) סוחר רוכש מנורות בסכום כולל של 4,000 ₪. 26 מהמנורות מכר הסוחר ברווח של 20 ₪ למנורה ואת השאר הוא מכר בהפסד של 5 ₪ למנורה.
בסה"כ הרוויח הסוחר בעסקה 400 ₪.

א. כמה מנורות קנה הסוחר ברכישה הראשונה ובאיזה מחיר למנורה?

ב. בעסקה אחרת רכש הסוחר כמות מנורות מסוימת בהנחה של 20% ביחס למחיר ששילם בתחילה. הסוחר מכר אותם לבית עסק ברווח של 50% למנורה. ידוע כי הרוויח הסוחר בעסקה 3200 ₪.
כמה מנורות רכש הסוחר בעסקה השנייה?

20) סוחר קנה 450 תיקים. הוא מכר 150 מהם ברווח של 15% ואת השאר בהפסד של 5 שקלים. בסה"כ הפסיד הסוחר בעסקה 600 ₪.

א. בכמה כסף קנה הסוחר כל תיק?

ב. אם הסוחר היה מוכר את שאר התיקים בהפסד של 2 שקלים במקום 5 שקלים, האם עדיין הוא היה מפסיד מהעסקה?

ג. התיקים שמכר הסוחר ברווח של 15% נקנו ע"י חנות מרכזית.
בחודש הראשון למכירת התיקים, מכרה החנות כל תיק ברווח של 50%.
לאחר חודש העלתה החנות את המחיר של תיק ב-20% נוספים ופרסמה מבצע שבמסגרתו כל הקונה שני תיקים יקבל את השני בהנחה של 40%.
חן הגיעה לחנות בחודש הראשון וקנתה שני תיקים ואחותה, שרית, הגיעה לחנות לאחר חודש וקנתה שני תיקים במסגרת המבצע.
מי משתי האחיות שילמה מחיר נמוך יותר בממוצע על תיק?

21) בית קפה רכש 120 ק"ג מוצרי שוקולד. 10 ק"ג נהרסו מיד עם הגעתם למקום עקב תנאי תחזוקה רעועים, 40 ק"ג נמכרו ברווח של 3 ₪ לק"ג ואת שאר הכמות מכר בית הקפה בהפסד של 2 ₪ לק"ג. בסה"כ הפסיד בית הקפה בעסקה 60 ₪.

א. מהו המחיר של ק"ג מוצרי שוקולד?

ב. בהזמנה נוספת רכש בית הקפה כמות מסוימת של מוצרי שוקולד ושילם עבור ק"ג אחד את המחיר שמצאת שסעיף הקודם.
ידוע כי 10% מהכמות מכר בית הקפה ברווח של 50% לק"ג ו-20% מהכמות מכר בית הקפה בהפסד של 25%.
מצא באיזה מחיר צריך למכור בית הקפה את הכמות הנותרת על מנת שירוויח 70% מהסכום שהוציא.

22) בעל מזנון פלאפל קנה 12 ק"ג גרגירי חומוס להכנת כדורי פלאפל ו-8 ק"ג קמח לאפיית פיתות. ידוע כי המחיר של 2 ק"ג גרגירי חומוס גבוה ב-2 ₪ מהמחיר של 1 ק"ג קמח. בעל המזנון קיבל הנחה של 25% על כל 1 ק"ג גרגירי חומוס והנחה של 20% על כל 1 ק"ג קמח. לאחר ההנחה שילם בעל המזנון 74.4 ₪ בעבור קנייתו.

א. מה הם המחירים של 1 ק"ג גרגירי חומוס ו-1 ק"ג קמח?

ב. ידוע כי כל מנת פלאפל נמכרת במחיר זהה ולהכנתה דרושים 300 גרם גרגירי חומוס ו-x גרם קמח.
בעל המזנון ניצל בצורה מלאה את כל הרכיבים שברשותו ולאחר מכירת כל המנות שהכין נשאר עם רווח של 245.6 ₪.
מצא את x ואת המחיר של מנת פלאפל.

23) בעל גלידריה קנה 30 ליטרים חלב ו-18 ק"ג אבקת שוקולד להכנת גלידות שוקולד. על כל 1 ליטר חלב קיבל 5% הנחה ועל כל 1 ק"ג אבקה קיבל 10% הנחה. ידוע כי המחיר ששילם על כל כמות החלב שרכש גדולה ב-77.7 ₪ מהמחיר ששילם על כל האבקה שרכש.

א. מצא את המחיר של 1 ליטר חלב ו-1 ק"ג אבקת שוקולד אם ידוע כי הוא שילם 207.3 ₪ בעבור כל הקנייה.

ב. כדי לייצר כדור שוקולד אחד דרושים 300 מ"ל חלב ו-180 גרם אבקת שוקולד. בעל הגלידריה ניצל את כל המוצרים שקנה ופרסם כי המחיר של כדור שוקולד אחד הוא 10 ₪ וכי בקניית שני כדורי שוקולד תינתן הנחה של שקל. בעל הגלידריה מכר את כל הכדורים שברשותו והרוויח סה"כ בעסקה 762.7 ₪.
מצא כמה לקוחות קנו כדור בודד וכמה קנו שני כדורים.

24) סוכן כלי כתיבה רכש בקנייה מרוכזת 40 חבילות עטים ו-60 חבילות עפרונות.
חבילת עטים מכילה 12 עטים וחבילת עפרונות מכילה 10 עפרונות.
הסוכן קיבל הנחה של 10% לעט ו-15% הנחה לעפרון. בסה"כ שילם הסוכן 3102 ₪.
ידוע כי אילולא היה מקבל הסוכן את ההנחות, אז המחיר הכולל שהיה נדרש לשלם עבור כל העטים היה גדול פי 4.8 מהמחיר שהיה משלם עבור כל העפרונות.

א. מצא מה המחירים המקוריים של עט בודד ושל עפרון בודד.

ב. חנות "כותבים בכיף" קנתה כמות מסוימת של עטים ועפרונות מהסוכן והכינה מארזים לתחילת שנה שכל אחד מכיל 2 עטים ו-3 עפרונות.
הסוכן מכר לחנות את העפרונות והעטים במחירים המקוריים שלהם ואילו החנות מכרה את המארזים במחיר הגדול ב-40% מעלות ההכנה שלהם.
מצא כמה עפרונות וכמה עטים רכשה החנות מהסוכן אם ידוע כי הרוויחה מעסקה זו (לאחר שמכרה את כל המארזים שהכינה) סה"כ 72 ₪.

תשובות סופיות:

9) א. 250 מרצפות. ב. 88 ₪. ג. 156,000.

10) מחשב-3000 ₪, מדפסת-600 ₪.

11) א. 1800 ₪. ב. היה מרוויח 90 ₪.

12) א. 5760 ₪. ב. 44%. ג. 22.4%.

13) א. 100 ₪. ב. 144 ₪.
ג. כדאי לקנות לאחר שנה, ללא תלות במספר החדרים.

14) א. 100₪ ו-20 ₪. ב. ב-200% (פי 3). ג. במחירים המקוריים.

15) א. 50 ₪. ב. 74.5%.

16) א. 12 מיטות. ב. 5,000 ₪ .
ג. המחיר המדויק הוא: 5263.15 ₪ ולכן נעגל ונדרוש: 5264 ₪ למיטה.

17) א. 1400 ₪ $x=$. ב. 200 יחידות.

18) א. 20%. ב. 82.5%. ג. 29.8%.

19) א. 50 נורות ב-80 ₪ למנורה. ב. 100 מנורות.

20) א. 40 ₪. ב. לא. ג. שרית (66.24 ₪).

21) א. 4 ₪. ב. 8 ₪

22) א. 1 ק"ג גרגירי חומוס-4 ₪, 1 ק"ג קמח-6 ₪.
ב. 200 גרם $x=$, מנת פלאפל-8 ₪.

23) א. 1 ליטר חלב-5 ₪, 1 ק"ג אבקה-4 ₪.
ב. 30 קנו שני כדורים ו-40 קנו כדור בודד.

24) א. עט-6 ₪, עפרון-1 ₪.
ב. 12 מארזים ולכן 24 עטים ו-36 עפרונות.

בעיות יסודיות במרובעים:

שאלות:

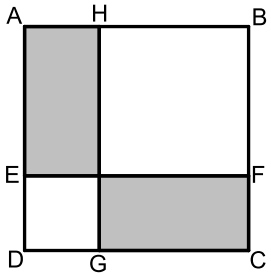

1) המרובע ABCD הוא ריבוע (ראה איור).
הקטע EF מקביל לצלעות הריבוע ומחלק את הצלעות AD ו-BC באופן כזה כך ש-DE ו-CF מהוות 30% מצלע הריבוע. הקטע GH מקביל לצלעות AD ו-BC ומרחקו מהצלע AD הוא 2 ס״מ.
ידוע שסכום השטחים של המלבנים המקווקוים מהווה 50% מסכום שטחי המלבנים הלבנים.
מצא את אורך צלע הריבוע.

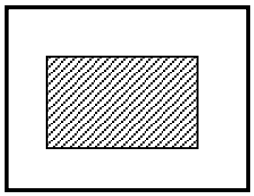

2) היקף חלקה מלבנית הוא 30 ק״מ. רוצים לבנות בניין מלבני (המקווקו באיור) במרכז החלקה ששטחו הכולל הוא 10 קמ״ר.
ידוע ששטח הבניין מהווה 20% משטח החלקה.
מצא את מידות החלקה.

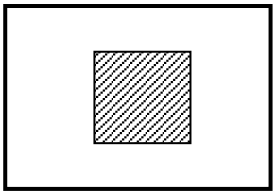

3) במרכז חלקה מלבנית שצלע אחת שלה גדולה ב-10 ק״מ מהצלע הסמוכה לה בונים בניין ריבועי (המקווקו באיור).
ידוע כי אורך הצלע שלו היא שליש מאורך הצלע הקטנה של החלקה. מחיר קמ״ר אחד משטח הבניין הוא 1,000 ₪ ומחיר קמ״ר אחד משטח החלקה הוא 100 ₪.
קבלן בניה שילם עבור כל השטח סכום כולל של 60,000 ₪.
מצא את מידות החלקה.

4) לרפי מטבח מלבני שמידותיו הם: 12×18 מטרים. רפי מחלק את המטבח לשני מלבנים כך ששטח אחד גדול פי 2 מהשטח של השני. רפי רוצה לרצף את השטח הקטן ברצפת שיש יוקרתית (השטח הימני) לעומת השטח הגדול שאותו ירצף רפי ברצפה רגילה (השטח השמאלי).
ידוע שהמחיר של מ״ר אחד מהרצפה הרגילה הוא 60% מהמחיר של מ״ר אחד מרצפת השיש היוקרתית.
רפי השקיע בריצוף המטבח סכום כולל של 3168 ₪.
כמה עולה מ״ר מכל סוג?

בעיות במרובעים ובמשולשים ללא משפט פיתגורס:

5) על הקטע AB מקצים את הנקודות E ו-F כך ששלושת הקטעים EF , AE ו-BF שווים. על הקטעים BF ו-AE בונים ריבועים ועל הקטע EF בונים משולש שווה שוקיים. ידוע כי הגובה במשולש שווה לאורך הבסיס EF וכי סכום שטחי שני המרובעים והמשולש הוא 90 סמ"ר. מצא את אורך צלע הריבוע.

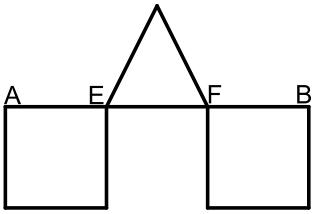

6) נתון ריבוע ABCD. בונים משולש ישר זווית EFC כך ש-E ו-F הן נקודות על המשכי הצלעות BC ו-DC של הריבוע בהתאמה. הנקודה A נמצאת על יתר המשולש EF. הקטע BE מהווה 50% מצלע הריבוע והקטע DF גדול פי 2 מצלע הריבוע. ידוע כי שטח המשולש EFC הוא 81 סמ"ר. מצא את אורך צלע הריבוע.

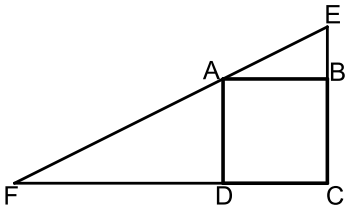

7) הנקודות E ו-F נמצאות בהתאמה על הצלעות AB ו-AC של המשולש ABC. ידוע כי שטח המשולש AEF הוא 22 סמ"ר. שטח המרובע BCFE מהווה 60% משטח המשולש ABC.

א. מצא את שטח המרובע BCFE.

ב. מצא את שטח המשולש ABC.

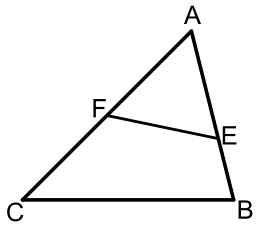

תשובות סופיות:

1) 24 ס"מ.

2) 10 ס"מ ו-5 ס"מ.

3) 15 ק"מ ו-25 ק"מ.

4) 20 ₪ ו-12 ₪.

5) 6 ס"מ.

6) 6 ס"מ.

7) א. $S=33$ ב. $S=55$

בעיות במשולשים כולל משפט פיתגורס:

שאלות:

8) במשולש ABC מורידים גובה AD לצלע BC המחלק אותו לשני משולשים ADC ו-ABD כך שמתקיים: $S_{ADC} = 2S_{ABD}$.

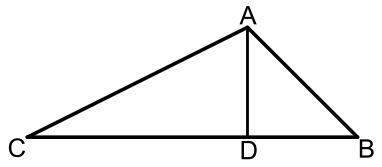

א. נתון שאורך הקטע BD הוא 12 ס"מ.
מצא את אורך הקטע CD.

ב. נתון שאורך הצלע AC הוא 25 ס"מ.
חשב את: S_{ABD}.

9) במלבן שצלעותיו הן 3 ו-4 ס"מ מעבירים אלכסון ומעלים לו גובה מהקדקוד התחתון לו.

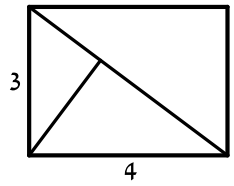

א. מצא את אורך האלכסון.

ב. מצא את אורך הגובה.

ג. מצא את אורכי שני הקטעים שהגובה מחלק את האלכסון.

10) במשולש ABC מורידים גובה AD לצלע BC כך שהקטע BD גדול פי 4.5 מהקטע CD.
אורך הצלע AB הוא 13 ס"מ ואורך הצלע AC הוא $5\frac{2}{3}$ ס"מ.

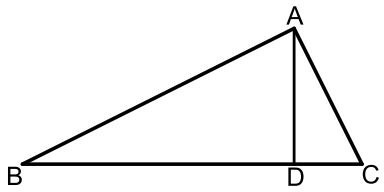

א. מצא את האורכים BD ו- CD.

ב. מצא את אורך הגובה AD.

ג. חשב את שטח המשולש ABC.

11) BD הוא גובה ליתר במשולש ישר זווית ABC $(\sphericalangle B = 90°)$.
היתר AC גדול ב-25% מהניצב AB.
ידוע כי אורך הניצב BC הוא 18 ס"מ.

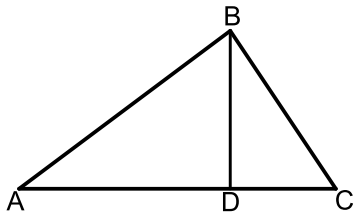

א. מצא את אורכי הניצב AB והיתר AC.

ב. מהם האורכים AD ו-DC?

תשובות סופיות:

8) א. 24 ס"מ. ב. $S_{ABD}=42$.

9) א. 5 ס"מ. ב. 2.4 ס"מ. ג. 3.2 ס"מ ו-1.8 ס"מ.

10) א. 12 ס"מ ו-$2\frac{2}{3}$ ס"מ. ב. 5 ס"מ. ג. $S=36\frac{2}{3}$.

11) א. 24 ס"מ ו-30 ס"מ. ב. 19.2 ס"מ ו-10.8 ס"מ.

בעיות במעגל – ללא אחוזים ללא משפט פיתגורס:

שאלות:



12) בבניין של רפי השכן יש חלון מרכזי המורכב ממלבן וחצי עיגול.
ידוע כי בסיס החלון קטן פי 2 מגובה המלבן.
שטח החלון הכולל הוא: $200+12.5\pi$.

א. מצא את מידות המלבן.

ב. מצא את היקף החלון.

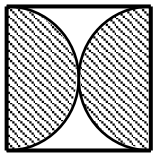

13) בריבוע שלפניך חסומים שני חצאי עיגולים הפוכים זה לזה.
ידוע כי סכום ההיקפים של שני החצאים יחדיו הוא 10π.

א. מצא את אורך צלע הריבוע.

ב. ענה על השאלות הבאות:

i. מצא את סכום השטחים של שני חצאי העיגולים (השטח המקווקו).

ii. מצא את השטח הכלוא בין העיגולים והריבוע (השטח הלבן).

תשובות סופיות:

12) א. 10 ס"מ. ב. i. $S=25\pi$. ii. $S=100-25\pi=21.4$.

13) א. 10 ס"מ. ב. 5 ס"מ. ג. $S=120-25\pi=41.4$.

בעיה במעגל – ללא אחוזים וכולל משפט פיתגורס:

שאלות:

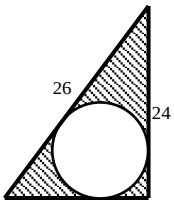

14) באיור שלפניך מתואר משולש ישר זווית שבתוכו כלוא עיגול.
ידוע כי אורך היתר במשולש הוא 26 ס"מ וכי אורך הניצב האנכי הוא 24 ס"מ.

א. מצא את אורך הניצב השני.

ב. שטח המעגל הוא 25π . מצא את רדיוס המעגל.

ג. מצא את השטח הכלוא בין המשולש למעגל (השטח המקווקו).

תשובות סופיות:

14) א. 10 ס"מ. ב. 5 ס"מ. ג. $S = 120 - 25\pi = 41.4$.

בעיה במעגל – כולל אחוזים:

שאלות:

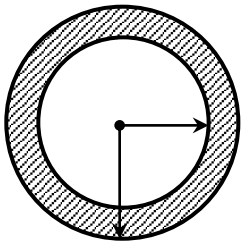

15) באיור שלפניך מתוארת טבעת המורכבת משני מעגלים בעלי אותו מרכז ששטחה הוא 63π . ידוע כי רדיוס המעגל הפנימי קטן ב-25% מרדיוס המעגל החיצוני.
מצא את הרדיוסים של שני המעגלים.

תשובות סופיות:

15) 12 ו-9.

בעיות בהנדסת המרחב:

שאלות:

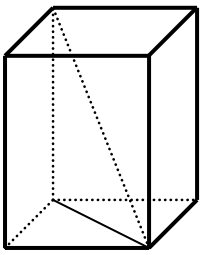

1) נתונה תיבה שבסיסה מלבן.
ידוע כי אורך צלע אחת של בסיס התיבה קטנה ב-25% מהצלע הסמוכה לה וכי גובה התיבה גדול פי 3 מהצלע הגדולה.
אורך אלכסון הבסיס הוא 10 ס"מ.

א. מצא את מידות בסיס התיבה.

ב. מצא את נפח התיבה.

ג. חשב את אורך אלכסון התיבה.

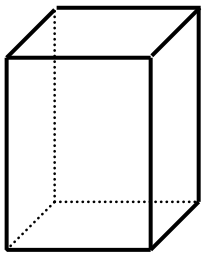

2) נתונה תיבה שבסיסה הוא מלבן וגובהה הוא 10 ס"מ.
ידוע כי נפח התיבה הוא 280 סמ"ק וכי שטח הפנים שלה הוא 276 סמ"ר.

א. מצא את מידות בסיס התיבה.

ב. מה יהיה אורך אלכסון התיבה?

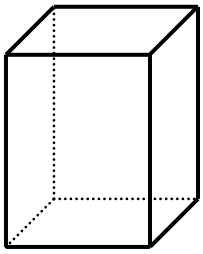

3) נתונה תיבה שבסיסה הוא מלבן.
ידוע כי צלע אחת של המלבן גדולה ב-50% מהצלע הסמוכה לה.
כמו כן גובה התיבה גדול ב-50% מצלע המלבן הגדולה.
סכום ארבעת הגבהים של התיבה גדול ב-32 ס"מ מהיקף בסיס המלבן.

א. מצא את מידות מלבן הבסיס של התיבה.

ב. חשב את שטח המעטפת של התיבה.

ג. חשב את נפח התיבה.

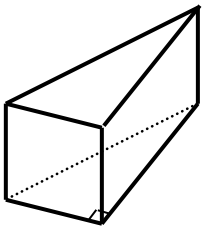

4) נתונה מנסרה שבסיסה הוא משולש ישר זווית.
ידוע כי אורך היתר במשולש הבסיס הוא 17 ס"מ.
גובה המנסרה שווה לאורך ניצב המשולש הקטן.
הניצב השני של המשולש גדול ב-7 ס"מ מהניצב הקטן.

א. חשב אורכי הניצבים ואת גובה המנסרה.

ב. חשב את נפח המנסרה.

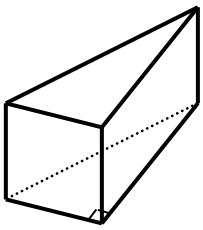

5) נתונה מנסרה שבסיסה הוא משולש ישר זווית.
הניצב הגדול, גדול ב-4 ס"מ מהניצב קטן, וקטן ב-4 ס"מ מאורך היתר. נפח המנסרה הוא 2880 סמ"ק.

א. מצא את מידות משולש הבסיס.

ב. מצא את גובה המנסרה.

ג. מצא את שטח המעטפת של המנסרה.

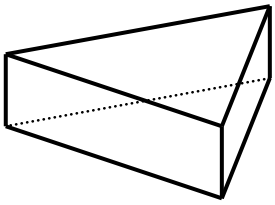

6) נתונה מנסרה שבסיסה הוא משולש שווה שוקיים.
ידוע כי שטח הפאה הבנויה על מקצוע הבסיס של המשולש מהווה 80% משטח הפאה הסמוכה לה.
כמו כן ידוע כי אורך השוק במשולש בסיס גדול ב-4 ס"מ מאורך הבסיס במשולש זה. אורך גובה המנסרה הוא 4 ס"מ.

א. מצא את מידות משולש הבסיס.

ב. מה יהיה שטח המעטפת של המנסרה?

ג. מה יהיה סכום כל מקצועות המנסרה?

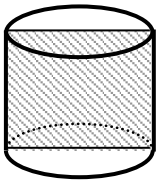

7) שטח החתך הצירי של גליל הוא 30 סמ"ר.
רדיוס הגליל וגובהו מקיימים: $2h-3r=1$.

א. מצא את רדיוס הגליל ואת גובהו.

ב. חשב את שטח עיגול הבסיס של הגליל.

ג. חשב את נפח הגליל.

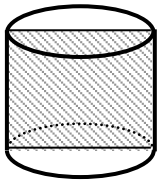

8) נתון גליל שרדיוסו הוא 4 ס"מ.
מעבירים חתך צירי בגליל.
ידוע כי היקף המלבן של החתך הצירי גדול פי 4 מאורך גובה הגליל.

א. ענה על השאלות הבאות:

i. מצא את גובה הגליל.

ii. איזה מרובע הוא המלבן של החתך הצירי?

ב. חשב את שטח הפנים של הגליל.

ג. חשב את נפח הגליל.

תשובות סופיות:

1) א. 6 ס"מ ו-8 ס"מ. ב. $V=1152$. ג. 26 ס"מ.

2) א. 4 ס"מ ו-7 ס"מ. ב. $\sqrt{165}=12.84$ ס"מ.

3) א. $8\times12\times18$ ס"מ. ב. $S=720$. ג. $V=1728$.

4) א. 8 ס"מ, 8 ס"מ ו-15 ס"מ. ב. $V=480$.

5) א. 12 ס"מ, 16 ס"מ ו-20 ס"מ. ב. 30 ס"מ. ג. $S=1440$.

6) א. 16 ס"מ ו-20 ס"מ. ב. $S=224$. ג. 124 ס"מ.

7) א. $r=3\ ,\ h=5$. ב. $S=9\pi$. ג. $V=45\pi$.

8) א.i. 8 ס"מ. א.ii. ריבוע. ב. $S=96\pi$.
ג. $V=128\pi$.

מכינה אקדמית במתמטיקה למדעי המחשב 1400004

פרק 7 - אלגברה - בעיות מילוליות מתקדמות

תוכן העניינים

1. הקדמה כללית 136
2. בעיות תנועה בלי אחוזים עם נעלם אחד ושניים 138
3. בעיות תנועה עם אחוזים 141
4. בעיות תנועה עם משפט פיתגורס 142
5. בעיות תנועה - מהירות מושפעת מזרמים 143
6. בעיות תנועה - מהירות ממוצעת 144
7. בעיות תנועה שונות 145
8. בעיות הספק 148
9. שאלות שונות 150
10. בעיות תערובת 158

הקדמה כללית:

הגדרה:	אחוז אחד הוא מאית השלם.
בעיית תנועה:	זמן × מהירות = דרך.
בעיית הספק:	הספק × זמן = עבודה.

הערות:

- אם לא צוין אחרת, המהירויות בכל שאלה קבועות.
- אם לא צוין אחרת, ההספקים בכל שאלה קבועים.

שאלות:

1) ענה על הסעיפים הבאים:

א. כמה הם 20% מ-300?

ב. כמה הם 120% מ-300?

ג. מהו המספר הגדול מ-300 ב-20%?

2) ענה על הסעיפים הבאים:

א. חולצה עלתה 240 ₪ והתייקרה ב-30%. מה מחירה כעת?

ב. נעליים עלו 450 ₪ והוזלו ב-40%. מה מחירם כעת?

3) מכונית נסעה במהירות 80 קמ"ש ואז הורידה את מהירותה ב-20%.
מה מהירותה כעת?

4) אופנוע נסע במהירות x והעלה את מהירותו ב-30%.
בטא באמצעות x את מהירותו כעת.

5) צינור מילא בריכה בקצב של x ליטר בשעה.
לאחר מכן ירד הספק המילוי שלו ב-20% ולבסוף עלה הספק המילוי שלו ב-30%.
בטא באמצעות x את הספק המילוי שלו כעת.

תשובות סופיות:

1) א. 60 ב. 360 ג. 360

2) א. 312 ₪ ב. 270 ₪

3) 64 קמ״ש.

4) $1.3x$

5) $1.04x$

בעיות תנועה בלי אחוזים עם נעלם אחד ושניים:

שאלות:

1) מכונית נוסעת מ-A ל-B במהירות של 90 קמ"ש. בדרך חזרה נסעה המכונית במהירות של 60 קמ"ש. בסה"כ נמשכה הנסיעה הלוך וחזור 20 שעות.

א. כמה שעות נסעה המכונית לכל כיוון?

ב. מהי הדרך שעברה המכונית?

2) אוטובוס ומשאית יוצאים בו זמנית משני יישובים A ו-B בהתאמה. מהירות האוטובוס היא 60 קמ"ש ומהירות המשאית היא 80 קמ"ש. האוטובוס הגיע ליישוב B שעה ו-40 דקות מאוחר יותר מהזמן שלקח למשאית להגיע ליישוב A.

א. כמה זמן נסע האוטובוס וכמה זמן נסעה המשאית?

ב. מהו המרחק בין שתי הערים?

3) הולכת רגל יצאה לטיול במהירות מסוימת. לאחר שעה וחצי יצא בעקבותיה מאותו מקום הולך רגל נוסף במהירות הגדולה ממהירותה ב-4.5 קמ"ש. הולך הרגל השיג את הולכת הרגל שעה לאחר שיצא לדרכו.

א. מהי מהירות ההליכה של הולכת הרגל?

ב. מהו המרחק שעברו עד שנפגשו?

4) שני רוכבי אופניים יוצאים בו זמנית מעיר א' לעיר ב'. הרוכב הראשון נוסע במהירות קבועה ומגיע לעיר ב' לאחר 5 שעות. הרוכב השני נוסע במשך השעתיים הראשונות במהירות הקטנה ב-2 קמ"ש ממהירות הרוכב הראשון. לאחר מכן הוא מגביר את מהירותו ב-14 קמ"ש ומגיע לעיר ב' שעה ו-20 דקות לפני הרוכב הראשון.

א. באיזו מהירות נסע הרוכב הראשון?

ב. איזו דרך עבר הרוכב השני בכל חלק?

5) משאית נוסעת מרחק של 245 ק"מ בכל יום במהירות קבועה.
יום אחד נסעה המשאית במשך שעתיים וחצי במהירות הרגילה, לאחר מכן עצרה לתדלוק במשך 24 דקות ואז המשיכה בנסיעה במהירות הגדולה ב-70 קמ"ש ממהירותה הקודמת. המשאית הגיעה ליעדה שעה לפני השעה שהיא מגיעה בכל יום.

א. באיזו מהירות נוסעת המשאית בכל יום?

ב. כמה זמן לוקח למשאית להגיע ליעדה בכל יום?

6) רוכב אופניים יצא בשעה 06:00 לרכיבה במהירות 24 קמ"ש. בשעה 07:00 יצא מאותו מקום רוכב אופנוע באותו כיוון ובמהירות של 40 קמ"ש.
באיזו שעה ובאיזה מרחק מנקודת היציאה ישיג רוכב האופנוע את רוכב האופניים?

7) אוטובוס נוסע מעיר א' לעיר ב' הרחוקה ממנה ב-800 ק"מ. לאחר שעבר האוטובוס 135 ק"מ במהירות קבועה הוא עצר להתרעננות במשך חצי שעה.
לאחר מכן המשיך האוטובוס את נסיעתו במהירות הגדולה ב-43 קמ"ש ממהירותו הקודמת עד לעיר ב'. סך כל הזמן שהיה האוטובוס בדרך הוא 7 שעות.

א. מה הייתה המהירות ההתחלתית של האוטובוס?

ב. מה היה המרחק שעבר האוטובוס אחרי ההתרעננות עד לעיר ב'?

8) המרחק בין ת"א לנצרת הוא 103 ק"מ. בשעה 08:00 יצאה מכונית מנצרת לת"א במהירות 90 קמ"ש. בשעה 08:20 יצאה משאית מת"א לנצרת במהירות 56 קמ"ש. באיזו שעה ייפגשו המכונית והמשאית?

9) משאית נסעה מדימונה לאילת, מרחק של 200 ק"מ. 50 דקות אחריה יצאה מכונית מדימונה לאילת במהירות הגבוהה ב-30 קמ"ש והגיעה לאילת 40 דקות לפני המשאית. מצא את מהירות המכונית.

תשובות סופיות:

1) א. 8 שעות הלוך ו-12 שעות חזור ב. 720 ק״מ.

2) א. אוטובוס – 6 שעות ו-40 דקות, משאית – 5 שעות. ב. 400 ק״מ.

3) א. 3 קמ״ש ב. 7.5 ק״מ.

4) א. 12 קמ״ש ב. 20 ק״מ ו-40 ק״מ.

5) א. 50 קמ״ש ב. 4 שעות ו-54 דקות.

6) 8:30, 60 ק״מ.

7) א. 90 קמ״ש ב. 665 ק״מ.

8) 8:50.

9) 80 קמ״ש.

בעיות תנועה עם אחוזים:

שאלות:

10) מכונית נסעה במהירות מסוימת במשך שעתיים. אחר כך העלתה את מהירותה ב-25% ונסעה עוד שעה וחצי. בסך הכול עברה המכונית 310 ק״מ. מה הייתה מהירותה ההתחלתית של המכונית?

11) מכונית נוסעת מעיר א׳ לעיר ב׳ מרחק של 480 ק״מ במהירות קבועה. בדרכה חזרה נסעה המכונית במשך שעה במהירות הקבועה. לאחר מכן עצרה להתרעננות של 36 דקות ואז הגבירה את מהירותה ב-25% ממהירותה הקודמת והגיעה בחזרה לעיר א׳ 24 דקות פחות מהזמן שלקח לה להגיע לעיר ב׳. באיזו מהירות נסעה המכונית מעיר א׳ לעיר ב׳?

12) רכבת משא ורכבת נוסעים יוצאות מעיר א׳ לעיר ב׳ מרחק של 360 ק״מ. מהירות רכבת הנוסעים גדולה ב-20% ממהירות רכבת המשא. רכבת הנוסעים התעכבה 40 דקות בתחנה, ולכן יצאה באיחור מהתחנה של עיר א׳. עם זאת היא הגיעה לעיר ב׳ 20 דקות לפני רכבת המשא.

א. מה הן המהירויות של שתי הרכבות?

ב. כמה זמן נסעה רכבת הנוסעים מעיר א׳ לעיר ב׳?

13) מכונית ומונית נוסעות מנקודה A לנקודה B. המכונית נוסעת במהירות קבועה ומגיעה לנקודה B כעבור 4 שעות. המונית נוסעת במשך 3 שעות המהירות הקטנה ב-10 קמ״ש ממהירות המכונית ולאחר מכן מגבירה את מהירותה ב-50% ומגיעה לנקודה B יחד עם המכונית.

א. מהי מהירות המכונית?

ב. מהו המרחק בין נקודה A לנקודה B?

תשובות סופיות:

10) 80 קמ״ש.

11) 80 קמ״ש.

12) א. 60 קמ״ש, 72 קמ״ש. ב. 5 שעות.

13) א. 90 קמ״ש. ב. 360 ק״מ.

בעיות תנועה עם משפט פיתגורס:

שאלות:

14) שתי מכוניות יצאו מהעיר, האחת לכיוון מזרח והשנייה לכיוון צפון.
לאחר שלוש שעות המרחק בין שתי המכוניות היה 300 ק"מ.
מהירות מכונית אחת גדולה ב-20 קמ"ש ממהירות המכונית השנייה.

א. מהן המהירויות של שתי המכוניות?

ב. מה היה המרחק של כל מכונית מהעיר לאחר שלוש שעות?

15) שני הולכי רגל יוצאים משני יישובים A ו-B המרוחקים זה מזה 13 ק"מ. היישוב A ממוקם בצפון מערב ביחס ליישוב B כמתואר באיור ממול.

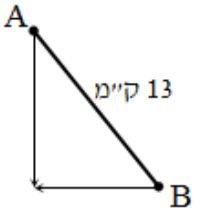

הולך הרגל מיישוב A הולך דרומה והולך הרגל מיישוב B הולך מערבה. הולך הרגל מיישוב A יוצא שעתיים לפני הולך הרגל השני. לאחר שלוש שעות מיציאתו נפגשו שני הולכי הרגל.
מהירות הולך הרגל מיישוב B גדולה ב-25% ממהירות הולך הרגל השני.
באיזו מהירות הלך כל אחד משני הולכי הרגל?

16) רוכב אופנוע יצא מביתו מזרחה במהירות מסוימת ונסע במשך חצי שעה.
לאחר מכן, פנה צפונה, הגדיל את מהירותו ב-20% ונסע כך שעה נוספת.
לאחר שעה זו פנה חזרה לכיוון ביתו, העלה את מהירותו ל-65 קמ"ש ונסע (בקו ישר) עד שהגיע חזרה לביתו.

א. מצא את מהירותו של רוכב האופנוע ביציאה מביתו אם ידוע שעבר בסך הכול 150 ק"מ.

ב. מה הייתה מהירותו הממוצעת של רוכב האופנוע (בכל חלקי הדרך)?

תשובות סופיות:

14) א. 60 קמ"ש ו-80 קמ"ש. ב. 180 ק"מ ו-240 ק"מ.

15) 4 קמ"ש ו-5 קמ"ש.

16) א. 50 קמ"ש. ב. 60 קמ"ש.

בעיות תנועה – מהירות מושפעת מזרמים:

שאלות:

17) סירה שטה בנהר שבו מהירות הזרם היא 3 קמ״ש עם כיוון זרם המים.
לאחר חצי שעה החליטו אנשי הסירה לשנות את כיוונם וחזרו במשך שעתיים לנקודת המוצא שלהם.
מהירות הסירה במים עומדים קבועה במשך כל השייט.

א. מצא את מהירות הסירה.

ב. מהו המרחק הכולל ששטה הסירה?

תשובות סופיות:

17) א. 5 קמ״ש ב. 8 ק״מ.

בעיות תנועה – מהירות ממוצעת:

שאלות:

18) מכונית נוסעת 3 שעות במהירות קבועה של 140 קמ״ש ולאחר מכן במשך שעתיים נוספות במהירות קבועה של 100 קמ״ש.

א. מה סך הדרך שעברה המכונית?

ב. מהי המהירות הממוצעת של המכונית?

19) מכונית נוסעת 4 שעות במהירות של 130 קמ״ש ולאחר מכן מספר שעות נוספות במהירות של 70 קמ״ש. ידוע כי מהירותה הממוצעת היא 110 קמ״ש. כמה שעות נסעה המכונית במהירות של 70 קמ״ש?

20) אופנוע עובר מרחק של 200 ק״מ במהירות מסוימת. לאחר מכן מאיץ האופנוע ומגדיל את מהירותו ב-40%. הוא נוסע במהירות זו ועובר מרחק של 280 ק״מ. המהירות הממוצעת של האופנוע היא 96 קמ״ש.

א. כמה זמן נסע האופנוע?

ב. באיזו מהירות התחיל האופנוע את נסיעתו?

תשובות סופיות:

18) א. 620 ק״מ. ב. 124 קמ״ש.

19) שעתיים.

20) א. 5 שעות. ב. 80 קמ״ש.

בעיות תנועה שונות:

שאלות:

21) המרחק בין ת"א לקריית שמונה הוא 180 ק"מ. שני רוכבי אופנוע יצאו בו זמנית, האחד מת"א לקריית שמונה והשני מקריית שמונה לת"א. כעבור 45 דקות הרוכבים עדיין לא נפגשו והמרחק ביניהם היה 52.5 ק"מ. רוכב האופנוע שיצא מת"א הגיע ליעדו 15 דקות לפני שהרוכב השני הגיע ליעדו.
מצא את מהירויות רוכבי האופנוע.

22) רכבת נוסעת בקו ת"א – ב"ש במשך שעה ורבע.
יום אחד, לאחר חצי שעת נסיעה, הייתה תקלה ברכבת והיא נאלצה לעצור ל-10 דקות עד שהתקלה תוקנה. כדי לנסות ולהגיע ליעדה בזמן העלתה את מהירותה ב-10 קמ"ש בהמשך הדרך והגיעה ליעדה באיחור קל של 5 דקות בלבד. מצא את מהירות הרכבת.

23) אדם הולך ברגל מביתו למקום העבודה שלו במהירות מסוימת.
יום אחד יצא מביתו מאוחר מאוד ולכן נאלץ להגביר את מהירות ההליכה שלו ב-3 קמ"ש. הוא הגיע לעבודה בזמן והדרך ארכה מחצית מהזמן שבדרך כלל היא אורכת. מצא את מהירות ההליכה של האדם (בשגרה).

24) שני הולכי רגל הולכים זה לקראת זה, האחד מנקודה A לנקודה B והשני מנקודה B לנקודה A הם נפגשים כעבור חצי שעה וממשיכים ליעדם.
הולך הרגל הראשון הגיע לנקודה B 25 דקות לפני שהולך הרגל השני הגיע לנקודה A. מצא את היחס בין מהירויות הולכי הרגל.

25) היישובים A ו-B נמצאים על גדת נהר בעל זרם קבוע.
יום אחד, יצאה ספינה מיישוב A ליישוב B במהירות מסוימת.
שעה לאחר מכן יצאה ספינה שנייה מיישוב B ליישוב A וכעבור שעתיים פגשה את הספינה הראשונה. הספינות המשיכו ליעדן וחזרו חזרה ליישוב המוצא באותו יום. למחרת, שוב יצאה הספינה מיישוב A ליישוב B אך במהירות כפולה מביום הקודם. הספינה מיישוב B יצאה גם היא במהירות כפולה לכיוון היישוב A אך הפעם רק חצי שעה אחרי שיצאה הספינה הראשונה. כעבור שעה עוד לא פגשה את הספינה הראשונה אך הייתה במרחק של שני ק"מ ממנה.
מצא את עוצמת הזרם אם ידוע שכיוונו מיישוב A ליישוב B.

26) שלושה רוכבי אופנוע יצאו מירושלים לאילת ונסעו דרך עין גדי.
המרחק בין עין גדי לאילת הוא 240 ק"מ. שלושת הרוכבים יצאו מירושלים בהפרשי זמן קבועים והגיעו לעין גדי באותו זמן. הרוכב שיצא ראשון הגיע לאילת שעה אחרי שהגיע לשם הרוכב שיצא שני. הרוכב שיצא שלישי הגיע לאילת ומיד פנה חזרה ופגש את הרוכב שיצא ראשון במרחק 80 ק"מ מאילת.
מצא את מהירויות רוכבי האופנוע.

27) מכונית ואופנוע יצאו באותו זמן מנקודה A לנקודה B.
כשהאופנוע היה באמצע הדרך הייתה המכונית במרחק 16 ק"מ מנקודה B.
כשהאופנוע היה במרחק 6 ק"מ מנקודה B המכונית הייתה במרחק 12 ק"מ מנקודה B.

א. מצא את המרחק בין הנקודה A לנקודה B.

ב. פי כמה גדולה מהירות האופנוע ממהירות המכונית?

28) דן ורן עורכים מרוץ לאורך מסלול של 10 ק"מ. מהירותו של דן גדולה ב-5 קמ"ש ממהירותו של רן. שניהם יצאו למרוץ באותו זמן ודן הגיע לקו הסיום יותר מ-20 דקות לפני רן. מהו תחום המספרים בו נמצאת מהירותו של רן?

29) רכבת נוסעת בקו ת"א – ב"ש במשך שעה ורבע. יום אחד, לאחר חצי שעת נסיעה, הייתה תקלה ברכבת והיא נאלצה לעצור ל-10 דקות עד שהתקלה תוקנה. כדי לנסות ולהגיע ליעדה בזמן העלתה את מהירותה ב-10 קמ"ש בהמשך הדרך והגיעה ליעדה באיחור קל שלא עלה על 5 דקות
(שים לב – הרכבת הגיעה <u>באיחור</u>, אך איחור זה לא עלה על 5 דקות).
מצא את תחום המספרים בו נמצאת מהירות הרכבת.

30) שלושה חברים הלכו מבית הספר לספורטק בהליכה מהירה.
מהירותו של הראשון הייתה גדולה ב-8 קמ"ש ממהירותו של השני וב-m קמ"ש ממהירותו של השלישי, לכן, הגיע הראשון m שעות לפני השני ושעתיים לפני השלישי.

א. הבע באמצעות m את מהירותו וזמן הליכתו של החבר הראשון.

ב. לאלו ערכים של m יש לבעיה פתרון?

תשובות סופיות:

21) 90 קמ״ש, 80 קמ״ש.

22) 80 קמ״ש.

23) 3 קמ״ש.

24) 1.5.

25) 4 קמ״ש.

26) 60 קמ״ש, 80 קמ״ש, 120 קמ״ש.

27) א. 24 ק״מ ב. 1.5.

28) 10 קמ״ש $< x <$ 0 קמ״ש.

29) 80 קמ״ש $< x <$ 35 קמ״ש.

30) א. $v = \frac{8m(m-2)}{m^2-16}$, $t = \frac{2m(8-m)}{m^2-16}$ ב. $4 < m < 8$.

בעיות הספק:

שאלות:

1) טבח הכין פנקייקים בקצב קבוע במשך שעתיים. אחר כך העלה את קצב עבודתו ב-25% והכין פנקייקים עוד שעה וחצי בקצב החדש.
בסך הכול הכין הטבח 310 פנקייקים.
כמה פנקייקים בשעה הכין הטבח בשעתיים הראשונות לעבודתו?

2) צינור ממלא בריכה בקצב קבוע. לאחר שעתיים נפתח צינור נוסף הממלא את הבריכה בקצב של 25% מהצינור הראשון. לאחר עוד שעה וחצי התמלאה הבריכה לאחר שנכנסו אליה בסה"כ 310 ליטר מים.
כמה ליטרים לשעה מכניס הצינור הראשון לבריכה?

3) צינור א' ממלא בריכה בשלוש שעות.
צינור ב' ממלא את אותה בריכה בשעתיים.
שני הצינורות נפתחו יחדיו בשעה 10:00. באיזו שעה תהיה הבריכה מלאה?

4) קבוצת פועלים סללה כביש. את השליש הראשון של הכביש סללו בקצב של 10 מטר ביום. את השליש השני של הכביש סללו בקצב הגדול ב-15 מטר ביום מהקצב בו סללו את השליש השלישי של הכביש. זמן סלילת השליש הראשון היה שווה לזמן סלילת שאר הכביש. מצא את קצב סלילת השליש האחרון של הכביש.

5) למיכל שני ברזים, ברז א' ממלא אותו וברז ב' מרוקן אותו. יום אחד כאשר במיכל היו 20% מנפח הקיבול שלו, פתחו בטעות את שני הברזים בו זמנית והמיכל התרוקן תוך 6 דקות. מצא בכמה זמן ממלא ברז א' לבדו את המיכל כשהוא ריק אם ידוע שזמן זה ארוך ב-5 דקות מהזמן הדרוש לברז ב' לרוקן את המיכל כשהוא מלא.

6) שתי קבוצות של חקלאים אספו מלונים משדה. תחילה, עבדה רק הקבוצה המהירה יותר ואספה מלונים משליש מהשדה. אחר כך, עבדה רק הקבוצה האיטית יותר ואספה מלונים מעוד שישית מהשדה. לבסוף, הצטרפה הקבוצה המהירה לעבודה ויחד אספו מלונים במשך 9 ימים נוספים. מתחילת איסוף המלונים ועד סיומו עברו 29 ימים. מצא בכמה ימים יכולה הייתה הקבוצה המהירה לאסוף את המלונים מכל השדה לו עבדה לבדה.

7) מורה שברשותו היו מבחני המתמטיקה של כל השכבה, 224 במספר, תכנן לבדוק אותם תוך מספר ימים מסוים. הוא התחיל בעבודתו ואחרי 6 ימי עבודה, קיבל לידיו עוד 7 מבחנים שנשכחו בבית הספר וקיבל הודעה כי עליו להחזיר את הבחינות 3 ימים לפני המועד שתכנן. הוא חישב וגילה שכדי לעמוד ביעד עליו לבדוק עוד 11 מבחנים בכל יום.
בכמה ימים תכנן המורה לסיים את בדיקת המבחנים?

8) למיכל שנפחו 300 ליטר יש שני ברזים: ברז אחד למילוי והשני להרקה. מילוי המיכל (כשהוא ריק) אורך 8 דקות יותר מריקון המיכל (כשהוא מלא). יום אחד, כשהמיכל היה מלא, פתחו בטעות את שני הברזים והמיכל התרוקן בפחות מחצי שעה. באיזה תחום מספרי נמצאת כמות המים הנכנסת למיכל בדקה מברז המילוי?

9) שני פועלים תכננו לבצע עבודה מסוימת כך שהראשון יעבוד 8 ימים ואחריו השני יעבוד 6 ימים. אולם, 4 ימים אחרי תחילת העבודה חלה הפועל הראשון והפסיק לעבוד והפועל השני נאלץ לעבוד m ימים לבדו וגם אז הסתיימה רק 75% מהעבודה.

א. הבע באמצעות m את הזמן שבו כל פועל היה מסיים את העבודה לו עבד לבדו.

ב. לאלו ערכים של m יש לבעיה פתרון?

תשובות סופיות:

1) 80 פנקייקים.
2) 80 ליטרים בשעה.
3) 11:12
4) 15 מטרים ליום.
5) 15 דקות.
6) 24 ימים.
7) 14 ימים.
8) בין 15 ליטרים ל-37.5 ליטרים.
9) א. $4m-12$, $\frac{16(m-3)}{2m-9}$ ב. $m>3$

שאלות שונות:

שאלות:

בעיות תנועה:

1) בשעה 8:00 בבוקר יצא הולך רגל מקיבוץ לכיוון חיפה. באותה שעה יצא רוכב קטנוע מחיפה לאותו הקיבוץ. שניהם נעו באותו כביש ומהירויותיהם לא השתנו בזמן התנועה. מהירות רוכב הקטנוע הייתה גדולה ב-12 קמ"ש מזו של הולך הרגל. 50 דקות לאחר השעה 8:00 הולך הרגל ורוכב הקטנוע טרם נפגשו וידוע כי המרחק ביניהם היה 16 ק"מ. 30 דקות לאחר פגישתם הגיע רוכב הקטנוע לקיבוץ. מצא את מהירות הולך הרגל ואת המרחק בין הקיבוץ לעיר חיפה.

2) סירת מנוע נעה בין שתי נקודות ציון. הסירה עוברת את המרחק שבין הנקודות הלוך ושוב במשך 14 שעות. המרחק בין שתי נקודות הציון הוא 48 ק"מ. ידוע כי באותו הזמן שעוברת הסירה מרחק של 4 ק"מ עם הזרם היא עוברת רק 3 ק"מ נגד הזרם. מהי מהירות זרם המים בנהר ומהי מהירות הסירה במים עומדים?

3) אוטובוס יוצר לדרך שאורכה 500 ק"מ, ומהירותו קבועה. אחרי נסיעה של שעתיים, הקטין נהג האוטובוס את המהירות, ולכן איחר בשעה אחת בדיוק. לו היה נוסע הנהג במהירות הנמוכה לאורך כל הדרך היה מאחר ליעדו בשעה וארבעים דקות. מצא את מהירותו הרגילה של האוטובוס.

4) שני רוכבי אופניים יצאו בבת אחת זה לקראת זה ממקומות A ו-B, האחד מ-A ל-B והשני מ-B ל-A. הם נפגשו בדרך וכל אחד מהם המשיך לנוע ליעד בלי להתעכב. רוכב האופניים מ-A הגיע ל-B 4 שעות לאחר הפגישה, ואילו רוכב האופניים מ-B הגיע ל-A 9 שעות לאחר הפגישה. מהירויות רוכבי האופניים לא השתנו בשעות התנועה. בכמה שעות עבר כל אחד מרוכבי האופניים את המרחק בין המקומות A ו-B.

5) במגרש ספורט מדדו שני ספורטאים את אורכו של מסלול ריצה. כשהם יוצאים משני קצותיו, זה לקראת זה. לאחר שצעדו כל אחד 50 צעדים, נשאר ביניהם מרחק של 17 מטרים. כל צעד של הספורטאי הראשון היה קצר ב-10 ס"מ מצעדו של הספורטאי השני. את המסלול כולו עובר הספורטאי הראשון ב-24 צעדים יותר מאשר הספורטאי השני. הצעדים של כל אחד מהספורטאים לא השתנו באורכם במשך המדידה. מהו אורך מסלול הריצה?

6) המרחק מקיבוץ לחיפה הוא 40 ק"מ. בשעה 7 בבוקר יצא טנדר ובו דברי דואר מן הקיבוץ לחיפה. כעבור 20 דקות יצאה אחריו מכונית מן הקיבוץ במהירות של 45 קמ"ש כדי להוסיף את החבילה על דברי הדואר. היא הדביקה את הטנדר וחזרה מיד לקיבוץ. ברגע שעברה את מחצית הדרך ממקום הפגישה עם הטנדר לקיבוץ, הגיע הטנדר לחיפה. מהירות הטנדר ומהירות המכונית לא השתנו בזמן הנסיעה. מצא את מהירות הטנדר.

7) שני תיירים יצאו ביחד מ-A ל-B. התייר הראשון לא התעכב בדרכו והגיע ל-B לאחר $2\frac{1}{4}$ שעות. התייר השני, לאחר שעבר $\frac{1}{6}$ מהדרך, חזר ל-A שהה שם 15 דקות ואחר-כך הלך ל-B. שני התיירים הגיעו ל-B באותו זמן. התייר השני עבר כל קילומטר 4 דקות פחות מהתייר הראשון. מהירות ההליכה של שני התיירים לא השתנתה בעת ההליכה. מצא את מהירותו (בקמ"ש) של כל אחד מהתיירים.

8) על שפת הנהר נמצאות שלוש תחנות של ספינות דיג: A, B ו-C.
התחנה B נמצאת בין A ל- C, במרחק 12 ק"מ מ- C. כיוון זרם המים בנהר הוא מ- A ל-C. ספינת דיג שלה מנוע קטן עוברת את הדרך מ- A ל- C ב-4 שעות ואת הדרך מ-C ל-A ב-6 שעות. ספינת הדיג שלה מנוע גדול, שמהירותה גדולה פי 3 ממהירות הספינה עם המנוע הקטן, עוברת את הדרך מ-B ל- C ב-45 דקות. מצא את מהירות זרם המים בנהר.

9) שלושה כלי רכב יצאו זה אחר זה בבוקר אחד מתל אביב לאילת. אופנוע יצא בשעה 7:00, מכונית משא ב-8:00 ומונית ב-8:24 (24 דקות אחרי השעה 8:00). מהירויותיהם היו קבועות והן היו סדרה חשבונית. המונית הדביקה את רוכב האופנוע חצי שעה לאחר שהדביקה את מכונית המשא, ומכונית המשא הדביקה את רוכב האופנוע במרחק 180 ק"מ מתל אביב.
שלושת כלי הרכב נעו כולם באותו מסלול. מצא את מהירויות כלי הרכב.

10) משאית יצאה מתל אביב למחנה צבאי בדרום. אחריה יצא אוטובוס במהירות הגדולה ב-12 קמ"ש ממהירותה, והוא הגיע למחנה באותו הזמן שהיא הגיעה. שעתיים וחצי לפני שהגיעו למחנה, וכשהאוטובוס היה כבר בנסיעה, יצא לקראתם מן המחנה רוכב אופנוע שמהירותו גדולה פי 2 ממהירות המשאית. הוא פגש את המשאית 10 דקות לפני שפגש את האוטובוס. כל כלי הרכב נסעו באותו כביש, ומהירויותיהם לא השתנו בזמן הנסיעה. מצא את מהירותה של המשאית.

11) המרחק בין עיר A לעיר B הוא 300 ק"מ. משאית יצאה מעיר A ונסעה במהירות קבוע של V קמ"ש לכיוון עיר B. בדרכה חזרה הגדילה המשאית את מהירותה ב- U קמ"ש, כלומר נסעה במהירות של U+V קמ"ש. ידוע שהמהירות הממוצעת של המשאית **בכל** דרכה (הלוך וחזור), הייתה 60 קמ"ש. אילו המשאית הייתה חוזרת מעיר B לעיר A במהירות $V-U$ קמ"ש, אזי המהירות הממוצעת בכל הדרך (הלוך וחזור) הייתה רק $\frac{100}{3}$ קמ"ש.

חשב את המהירויות V ו- U.

12) המרחק בין הנקודות A ו- B הוא 64 ק"מ. רוכב אופניים יצא מנקודה A לכיוון נקודה B ונסע במהירות קבועה.40 דקות לאחר שיצא לדרכו, יצא מנקודה A לכיוון נקודה B רוכב קטנוע שנסע במהירות קבועה של 36 קמ"ש.
רוכב הקטנוע הדביק את רוכב האופניים בנקודה C ומיד הסתובב וחזר על עקבותיו באותה מהירות לנקודה A. רוכב האופניים שהמשיך בנסיעתו בלי עיכובים, הגיע לנקודה B ברגע שהקטנוע עבר את מחצית הדרך מ- C ל- A.
מצא את מהירות רוכב האופניים.

13) הזמן הדרוש לגוף ראשון לעבור 160 ק"מ ארוך ב- 5 שעות מן הזמן הדרוש לגוף שני לעבור 90 ק"מ. מהירות הגוף הראשון גדולה ב- m קמ"ש ממהירות הגוף השני ($m>0$).

א. בטא באמצעות m את מהירות הגוף השני.

ב. מצא לאלו ערכים של m יקבלו מהירויות הגופים ערכים חיוביים בלבד.

14) שני כלי רכב יצאו מנקודה A בו זמנית בשעה 07:00 בבוקר ונסעו לנקודה B, לפגישה שתוכננה להתקיים בשעה 10:00 בבוקר. הרכב הראשון הגיע לפגישה בזמן והרכב השני שנסע במהירות הקטנה ב-16 קמ"ש ממהירות הרכב הראשון הגיע לפגישה 48 דקות מאוחר יותר. מצא את המרחק בין הנקודות A ו-B וחשב את המהירות של כל אחד מכלי הרכב.

15) המרחק בין A ל- B הוא 360 ק"מ. נהג משאית תכנן לעבור את כל הדרך מ-A ל- B במהירות קבועה של x קמ"ש. לאחר שעבר $\frac{1}{4}$ מהדרך הגביר הנהג את מהירותו ל- $(x+15)$ קמ"ש, ולכן הגיע לנקודה B שעה וחצי לפני המועד המתוכנן. חשב את x.

16) המרחק בין הנקודות A ל- B בנהר הוא x ק"מ. הנהר זורם מ-A ל- B במהירות של 6 קמ"ש. אדם שט מ-A ל- B וחוזר חזרה מ- B ל- A. סך כל הזמן שארך השיט היה 8 שעות. אלו לא היה זרם בנהר, האדם היה שט את הדרך הלוך ושוב בזמן של 6 שעות. מה המרחק בין שתי הנקודות A ו-B $(x=?)$, ומה הייתה מהירותו בלי מהירות זרם הנהר?

17) המרחק בין שתי ערים הוא 450 ק"מ. משאית יצאה לדרכה מעיר אחת לשנייה. לאחר שנסעה במהירות קבועה במשך שעתיים, נאלצה להתעכב במשך 40 דקות בגלל תקלה. לאחר תיקון התקלה המשיכה המשאית מיד בדרכה, אך במהירות קבועה הגדולה ב-5 ק"מ לשעה ממהירותה הקודמת.
המשאית הגיעה לעיר השנייה 25 דקות לאחר הזמן שתוכנן מראש.
מה הייתה מהירות המשאית לפני התקלה?

18) רכבת משא נוסעת מידי יום במהירות קבועה מתחנה A לתחנה B.
המרחק בין A ל- B הוא 180 ק"מ. יום אחד, אחרי שעברה $\frac{1}{3}$ מהדרך, עצרה הרכבת עצירה לא מתוכננת מראש למשך 30 דקות. כדי שהרכבת תספיק להגיע ל- B על פי לוח הזמנים הרגיל, היה צריך להגביר את מהירותה לאחר העצירה ב-20 קמ"ש. מצא את המהירות הרגילה של הרכבת.

19) בין הנקודות A ו-B מובילות שתי דרכים. הדרך הראשונה אורכה 60 ק"מ, והדרך השנייה ארוכה ממנה ב-20%. רוכב קטנוע נסע מ- A ל- B בדרך הקצרה במהירות קבועה, וחזר בדרך הארוכה במהירות קבועה, הגדולה ב-6 קמ"ש ממהירותו הראשונה. זמן הנסיעה בחזרה (מ- B ל- A) היה ארוך ב-5 דקות מזמן הנסיעה מ- A ל- B. מצא את המהירות שבה נסע רוכב הקטנוע בכל כיוון ואת זמן הנסיעה (הלוך ושוב).

20) רוכב אופניים עובר בדרך כלל את המרחק בין A ל- B במהירות קבועה במשך 5 שעות ו-20 דקות. באחד הימים יצא רוכב האופניים מ-A ועבר $\frac{3}{4}$ של הדרך במהירות הגדולה ב-10 קמ"ש ממהירותו הרגילה, ולכך התעייף ואת שאר הדרך עבר במהירות קטנה ב-15 קמ"ש ממהירותו הרגילה.
ביום זה הוא הגיע ל-B לאחר 5 שעות ו-40 דקות לאחר שיצא מ- A.

א. מהי מהירותו הרגילה של רוכב האופניים?

ב. מהו המרחק בין A ל- B?

21) המרחק בין שתי ערים א' ו-ב' הוא 126 ק"מ. שני רוכבי אופניים, שיצאו בו זמנית, האחד מעיר א' והשני מעיר ב', ונסעו זה לקראת זה במהירויות קבועות, נפגשו אחרי שלוש שעות. הרוכב שיצא מעיר א' עבר את כל הדרך עד לעיר ב' בשעה ו-45 דקות פחות מהרוכב שיצא מעיר ב' לעיר א'.
מצא את המהירות של כל אחד מרוכבים האופניים.

22) מ-A ל- C יש שתי דרכים. הדרך הראשונה היא הדרך המישורית AC, שאורכה 24 ק"מ. הדרך השנייה מתחילה בעלייה AB של 8 ק"מ, ואח"כ ירידה BC של 18 ק"מ. מהירותו של רוכב אופניים במישור היא x קמ"ש, בעלייה מהירותו $(x-4)$ קמ"ש, ובירידה מהירותו $(x+6)$ קמ"ש. ידוע שאם רוכב האופניים יבחר לנסוע מ- A ל- C בדרך הראשונה או בדרך השנייה, זמן הנסיעה יהיה זהה. חשב את x (כמה פתרונות לבעיה?).

23) מונית נסעה מעיר א' לעיר ב' בכביש ראשי במהירות קבועה. בדרך חזרה נסעה המונית בדרך עפר הקצרה ב-40% מהכביש, אך מהירותה פחתה ב-20%.

א. בכמה אחוזים התקצר או התארך זמן הנסיעה בדרך חזרה (לעומת הנסיעה בכיוון הראשון)?

ב. מה הייתה מהירות המונית בכיוון השעון, אם ידוע שאורך הכביש היה 360 ק"מ, וזמן הנסיעה בחזרה התקצר בשעה?

בעיות הספק:

24) כתב יד נמסר להדפסה לשתי כתבניות. הכתבנית השנייה ניגשה לעבודה שעתיים אחרי הראשונה.6 שעות לאחר שהכתבנית הראשונה ניגשה לעבודה סיימו שתיהן יחד את ההדפסה של 60% מכתב היד. הן המשיכו בהדפסה וסיימו אותה יחד. לאחר סיום העבודה התברר שהכתבנית הראשונה ביצעה $\frac{3}{10}$ מן העבודה. קצב העבודה של הכתבניות לא השתנה במשך העבודה.
בכמה שעות הייתה כל אחת מהכתבניות יכולה לבצע את העבודה לבדה?

25) בבריכה שני פתחים : פתח אחד גדול ופתח שני קטן יותר. אם מכניסים לבריכה הריקה מים רק דרך הפתח הקטן במשך 6 שעות, ולאחר מכן במשך שעה ו-12 דקות מכניסים מים דרך שני הפתחים יחד, הבריכה מתמלאת כולה.
כמו כן ידוע, שאם מכניסים לבריכה הריקה מים רק דרך הפתח הגדול במשך 3 שעות ולאחר מכן ממשיכים להכניס מים דרך פתח זה במשך 9 שעות, אך בו בזמן מוציאים מים דרך הפתח הקטן, הבריכה כולה מתמלאת במים.
מצא בכמה שעות תתמלא הבריכה, אם יכניסו מים רק דרך הפתח הקטן.

26) שני פועלים קיבלו על עצמם לבצע עבודה מסוימת. ביום הראשון התחיל הפועל הראשון לעבוד לבדו. הפועל הראשון עבד במשך 3 שעות, ואז הצטרף אליו הפועל השני. כעבור 6 שעות נוספות של עבודה משותפת של שני הפועלים, התברר שהם סיימו 55% מהעבודה. ביום השני עבדו הפועלים יחדיו עד שסיימו את כל העבודה. לאחר סיום העבודה, התברר שכל אחד מהפועלים ביצע בדיוק מחצית מהעבודה. בכמה שעות היו שני הפועלים מסיימים את על העבודה אלו עבדו כל הזמן ביחד?

27) שני צינורות ממלאים מיכל כשהם פתוחים ביחד במשך 6 שעות.
יום אחד, כשהמיכל היה ריק, פתחו רק את הצינור הראשון למשך הזמן שלוקח לצינור השני למלא מחצית מיכל. סגרו את הצינור הראשון ופתחו רק את הצינור השני למשך הזמן שלוקח לצינור הראשון למלא שליש מיכל.
כתוצאה מכך התמלאו בסך הכול $\frac{5}{6}$ מיכל.
מצא בכמה שעות יכול כל אחד מהצינורות למלא לבד מיכל ריק.

28) על שתי קבוצות פועלים הוטל לסלול כביש בין הערים A ו- B.
במשך 36 הימים הראשונים עבדו הקבוצות בנפרד. תחילה עבדה רק הקבוצה הראשונה וסללה $\frac{1}{4}$ מהכביש. לאחר מכן הפסיקה הקבוצה הראשונה את עבודתה, ורק הקבוצה השנייה עבדה. קבוצה זו סללה $\frac{1}{3}$, עד לגמר היום ה-36, מהכביש. ביום ה-37 החלו שתי הקבוצות לעבוד במשותף, וסיימו את סלילת הכביש תוך 12 ימים. הספק הקבוצות לא השתנה במשך כל ימי עבודתן. בכמה ימים הייתה יכולה כל קבוצה לסלול את הכביש לבדה? כמה פתרונות לבעיה?

29) שתי קבוצות פועלים עבדו בסלילת כביש משני קצותיו. הקבוצה השנייה סללה בכל יום 5 מטר יותר מאשר הקבוצה הראשונה, ועבדה בסך הכול 2 ימים יותר מהקבוצה הראשונה. ידוע שהקבוצה הראשונה סללה $16a$ מטרים בעוד שהקבוצה השנייה סללה $36a$ מטרים (a פרמטר חיובי). קצב העבודה של שתי הקבוצות נשאר קבוע בכל זמן הסלילה. סמן ב- x את מספר המטרים שסללה הקבוצה הראשונה בכל יום, ומצא לאלו ערכים של הפרמטר a יקבל x ערכים חיוביים בלבד.

תשובות סופיות:

1) מהירות הולך הרגל היא 6 קמ"ש.
המרחק בין הקיבוץ לעיר חיפה הוא 36 ק"מ.

2) מהירות הזרם היא 1 קמ"ש. מהירות הסירה במים עומדים היא 7 קמ"ש.

3) 100 קמ"ש.

4) הרוכב הראשון ב-10 שעות והרוכב השני ב-15 שעות.

5) 72 מטרים.

6) 30 קמ"ש.

7) מהירות התייר הראשון : 5 קמ"ש, מהירות התייר השני : 7.5 קמ"ש.

8) 1 קמ"ש.

9) 45 קמ"ש, 60 קמ"ש, 75 קמ"ש.

10) 36 קמ"ש.

11) 25 קמ"ש = U , 50 קמ"ש = U .

12) 24 קמ"ש.

13) א. $\frac{14-m\pm\sqrt{m^2-100m+196}}{2}$ ב. $0<m\le 2$.

14) 228 ק"מ, 76 קמ"ש, 60 קמ"ש.

15) 45 קמ"ש.

16) 36 ק"מ, 12 קמ"ש.

17) 75 קמ"ש.

18) 1 קמ"ש.

19) הלוך 90 קמ"ש וחזור 96 קמ"ש. זמן כולל 85 דקות.
או : הלוך : 48 קמ"ש וחזור 54 קמ"ש. זמן כולל 155 דקות.

20) א. 30 קמ"ש. ב. 160 ק"מ

21) 24 קמ"ש, 18 קמ"ש.

22) 24 או 12 קמ"ש.

23) א. 25%. ב. 90 קמ"ש.

24) הכתבנית הראשונה ב-30 שעות, הכתבנית השנייה ב-10 שעות.

25) 9 שעות.

26) $13\frac{1}{3}$ שעות.

27) הצינור הראשון ב-15 שעות והצינור השני ב-10 שעות
או הצינור הראשון ב-12 שעות והצינור השני ב-12 שעות.

28) הקבוצה הראשונה: 48 ימים והקבוצה השנייה: 72 ימים
או הקבוצה הראשונה: 86.4 והקבוצה השנייה: 43.2 ימים.

29) $a \geq 2.5$.

בעיות תערובת:

סיכום כללי:

ריכוז:

החלק היחסי של נפח הנוזל בתמיסה מסוימת מתוך סך נפח הנוזלים.

למשל, תמיסה של 50 ליטרים, המכילה כוהל בריכוז של 70% מורכבת מ:

- 70% כוהל שהם: 35 ליטרים $\frac{70}{100}\cdot 50=$.
- 30% מים שהם: 15 ליטרים $\frac{30}{100}\cdot 50=$.

אופן הפתרון של שאלה מילולית בתערובת זהה לשל שאלות מילוליות כלליות:

- קוראים את השאלה.
- מגדירים את הנעלם (או נעלמים).
- מחברים משוואה (או משוואות) על בסיס נתוני השאלה.
- פותרים את המשוואות ובודקים את נכונות הפתרון.
- רושמים תשובה מילולית סופית.

שאלות:

1) מי הים באילת מכילים 4% מלחים, ואילו מי ים המלח מכילים 24% מלחים. מערבבים מי ים אילת עם מי ים-המלח, מוסיפים עוד 30 ליטר מים מזוקקים, ומקבלים 80 ליטר תערובת, המכילה 5% מלחים.
כמה ליטרים מים מכל אחד מהימים הנ"ל נמצא בתערובת?

2) כמות מסוימת של חומצת מלח בריכוז של 90% עורבבה בכמות חומצת מלח הקטנה ממנה ב- 20 ליטר ובריכוז 30%. לאחר מכן אויידו מהתערובת 15 ליטרים של מים טהורים ונתקבלה חומצת מלח בריכוז של 72%.
כמה ליטרים חומצת מלח בריכוז של 72% נתקבלו?

3) כמות מסוימת של כוהל בריכוז של 30% עורבבה בכמות כוהל, הגדולה ממנה ב-50 ליטרים ובריכוז של 50%. לתערובת הוסיפו 112.5 ליטרים של כוהל נקי, ואז ריכוז הכוהל בתערובת היה 60%. כמה ליטרים כוהל לקחו מהכמות הראשונה?

4) בחבית אחת 6 ליטרים כוהל ו- 10 ליטרים מים. בחבית שנייה 4.5 ליטרים כוהל ו-2 ליטרים מים. כמה ליטרים נוזל יש לצקת מהחבית הראשונה לשנייה, כדי שבחבית השנייה תהיה כמות שווה של כוהל ושל מים?

5) בחבית 100 ליטרים מים. מהחבית הוציאו x ליטרים של מים והכניסו חזרה x ליטרים כוהל נקי. אחר הוציאו פעם נוספת x ליטרים מהחבית, והכניסו חזרה x ליטרים כוהל נקי. לבסוף היה ריכוז הכוהל בחבית 36%.
כמה ליטרים הוציאו מהחבית בכל פעם?

תשובות סופיות:

1) 40 ליטרים לקחו מהים באילת. 10 ליטרים לקחו מים-המלח.
2) 125 ליטרים.
3) 100 ליטרים.
4) 10 ליטרים.
5) 20 ליטרים.

מכינה אקדמית במתמטיקה למדעי המחשב 1400004

פרק 8 - אלגברה - סדרות

תוכן העניינים

1. הקדמה כללית ..... (ללא ספר)
2. סדרה חשבונית 160
3. סדרה הנדסית 167
4. סדרות מעורבות 172
5. סדרה הנדסית אינסופית מתכנסת 174
6. סדרת נסיגה 180

סדרה חשבונית:

סיכום כללי:

- **נוסחת האיבר הכללי:**

נוסחת האיבר הכללי של סדרה חשבונית המתחילה באיבר a_1 והפרשה הוא d

נתונה ע"י: $a_n = a_1 + d(n-1)$, כאשר: n הוא מיקום האיבר שערכו a_n בסדרה.

- **כלל נסיגה של סדרה חשבונית:**

כלל נסיגה של סדרה חשבונית a_n שהפרשה הוא d ואיברה הראשון הוא a_1

נתון ע"י: $a_{n+1} - a_n = d$.

- **נוסחת הסכום של סדרה חשבונית:**

סכום n האיברים הראשונים של סדרה חשבונית a_n שהפרשה הוא d ואיברה הראשון הוא a_1 נתון ע"י: $S_n = \frac{n(a_1 + a_n)}{2}$.

בהצבת נוסחת האיבר הכללי מקבלים: $S_n = \frac{n(2a_1 + d(n-1))}{2}$.

שאלות:

1) נתונה הסדרה החשבונית: $17, 11, 5, -1, -7...$.
מצא את האיבר האחרון בסדרה אם ידוע שיש בה 43 איברים.

2) בסדרה חשבונית האיבר השישי הוא 15 והאיבר העשירי הוא 31.
מצא מהו האיבר הראשון בסדרה ומהו הפרש הסדרה.

3) מצא כמה איברים יש בסדרה החשבונית: $2, 4.5, 7, 9.5, 12, 14.5, ..., 49.5$.

4) בסדרה חשבונית סכום האיברים השני, החמישי והשמיני הוא 87 וההפרש בין האיבר השנים-עשר לאיבר השישי הוא 24.
מצא כמה איברים בסדרה אם ידוע שהאיבר האחרון בה הוא 201.

5) תחביב אחה"צ של שימי הפרעוש הוא לקפוץ על טומי הכלב. מנהגו של שימי הוא לקפוץ בדקה הראשונה 4 קפיצות ובכל דקה שאחריה לקפוץ 3 קפיצות יותר מדקה הקודמת. כמה דקות אורך תחביב אחה"צ של שימי אם ידוע שבדקה האחרונה הוא קופץ 46 קפיצות?

6) כמה מספרים תלת ספרתיים שמתחלקים ב-6 יש בין 201 ל-550?

7) כמה איברים חיוביים ישנם בסדרה החשבונית: $91, 88, 85, 82, \ldots$.

8) מצא את ערכו של x אם ידוע שהאיברים הבאים הם איברים עוקבים בסדרה חשבונית: $x-3, 3x-4, x^2-1$.

9) נתונה סדרה המוגדרת באמצעות כלל הנסיגה הבא: $\begin{cases} a_{n+1} = a_n + 3 \\ a_1 = 5 \end{cases}$.
הוכח שהסדרה חשבונית ומצא מהו האיבר התשעה-עשר שלה.

10) בסדרה חשבונית $a_1, a_2, a_3, \ldots, a_n$ ידוע כי סכום ארבעת האיברים הראשונים וסכום האיברים ה-6 עד ה-9 הם מספרים נגדיים.

א. הוכח: $a_5 = 0$.

ב. נתון: $a_3 - a_{11} = 24$. מצא את a_1 ואת d.

ג. מגדירים סדרה חשבונית חדשה b_n המקיימת: $b_n = 2a_n - 3$.
מצא את ערך האיבר השלילי הראשון בסדרה ואת מיקומו הסידורי.

11) מצא את סכום ארבעה-עשר האיברים הראשונים בסדרה החשבונית: $-3, 2, 7, 12, \ldots$.

12) נתונה הסדרה החשבונית: $-13, -7, -1, 5, \ldots$.
כמה איברים יש לחבר בסדרה (החל מהראשון) כדי להגיע לסכום של 987?

13) תחביב אחה"צ של מימי הפרעושה הוא לקפוץ על טומי הכלב. מנהגה של מימי הוא לקפוץ בדקה הראשונה 11 קפיצות ובכל דקה שאחריה לקפוץ 2 קפיצות יותר מדקה הקודמת. כמה דקות אורך תחביב אחה"צ של מימי אם ידוע שבכל אחה"צ היא קפצה 416 קפיצות?

14) נתונה הסדרה החשבונית: $-71, -67, -63, \ldots$.
כמה איברים לכל הפחות יש לחבר בסדרה כדי שהסכום המתקבל יהיה חיובי?

15) נתונה הסדרה החשבונית: $4, 13, 22, 31, \ldots$.
בסדרה יש 36 איברים. חשב את סכום ארבעה-עשר האיברים האחרונים בסדרה.

16) נתונה הסדרה החשבונית: $4, 9, 14, 19, \ldots, 599$.
מחקו כל איבר שלישי בסדרה. מצא את סכום האיברים שנותרו.

17) סכום n האיברים האחרונים בסדרה חשבונית בת $3n$ איברים גדול ב- 1024 מסכום n האיברים הראשונים שבה.

א. בטא את n באמצעות הפרש הסדרה, d.

ב. נתון כי הפרש הסדרה הוא 8. כמה איברים בסדרה?

18) נתונה סדרה שבה $S_n = 2n^2 + 4n$.

א. מצא את ערכם של שלושת האיברים הראשונים בסדרה.

ב. הוכח כי הסדרה חשבונית ומצא את הפרשה.

19) בסדרה חשבונית ידוע כי סכום האיברים העומדים במקומות ה-5 , ה-7 וה- 16 הוא אפס. כמו כן ידוע כי סכום שלושת האיברים הראשונים הוא 132.

א. מצא את האיבר הראשון בסדרה ואת הפרש הסדרה.

ב. מצא את האיבר השלילי הראשון בסדרה.

ג. מצא כמה איברים יש לחבר (החל מהאיבר הראשון) כדי לקבל סכום 210.

20) נתונים שני טורים חשבוניים: $\begin{cases} 150, 144, 138, \ldots \\ 90, 93, 96, \ldots \end{cases}$.

לשני הטורים אותו מספר איברים. ידוע כי סכום האיברים האחרונים של שני הטורים (האיבר האחרון מהטור הראשון והאיבר אחרון מהטור השני) הוא אפס.

א. מצא את מספר האיברים שבכל טור.

ב. מחברים את n האיברים הראשונים מהטור הראשון יחד עם n האיברים הראשונים מהטור השני. ידוע כי חיבור הסכומים הוא 3480.
מצא את n אם ידוע שהוא קטן מ-20.

21) נתונות שתי סדרות החשבוניות הבאות: a_n שהפרשה הוא d_1 ו- b_n שהפרשה הוא d_2. ידוע כי: $d_1 = -2d_2$.
סכום 50 האיברים הראשונים של שתי הסדרות שווה והאיבר העומד במקום ה-20 בסדרה a_n גדול ב-1 מהאיבר העומד במקום ה-37 בסדרה b_n.

א. מצא את הפרש הסדרה a_n - d_1.

ב. ידוע כי האיבר a_{10} קטן ב-1 מ-5 פעמים האיבר b_{50}.
מצא את a_1 ואת b_1.

22) נתונה הסדרה החשבונית: $-21, -17, -13, \ldots$.
בסדרה יש 18 איברים. חשב את סכום האיברים הנמצאים במקומות האי-זוגיים ואת סכום האיברים הנמצאים במקומות הזוגיים.

23) בסדרה חשבונית שהפרשה d ובה $2n$ איברים סכום האיברים במקומות האי-זוגיים הוא 552 וסכום האיברים במקומות הזוגיים הוא 612.
הוכח כי $nd = 60$.

24) בסדרה חשבונית עולה, שכל איבריה חיוביים ובה מספר אי-זוגי של איברים, גדול סכום כל איברי הסדרה פי $1\frac{14}{15}$ מסכום איברי הסדרה הנמצאים במקומות האי-זוגיים. כמה איברים יש בסדרה?

25) לפניך שלושה איברים סמוכים בסדרה חשבונית: $x-5$, $x-16$, $2x+23$.

א. ענה על הסעיפים הבאים:

i. מצא את x.

ii. מצא את הפרש הסדרה.

ב. ידוע כי: $a_{12}=0$. מצא את a_1.

ג. האיבר האחרון בסדרה הוא: $a_n=308$.

מצא את סכום כל האיברים החיוביים העומדים במקומות האי-זוגיים.

26) בסדרה חשבונית שבה מספר זוגי של איברים נתון כי סכום ריבועי האיברים העומדים במקומות ה-4 וה-5 שווה לריבוע האיבר העומד במקום ה-6.
האיבר הראשון אינו אפס.

א. הוכח את הטענות הבאות:

i. $a_1=-4d$.

ii. $S_9=0$.

ב. האיבר העומד במקום ה-6 גדול ב-2 מהאיבר העומד במקום ה-5.
מצא את a_1 ואת d.

ג. מצא את מספר איברי הסדרה אם ידוע כי סכום האיברים העומדים במקומות הזוגיים הוא 504.

27) בסדרה חשבונית שבה $2n$ איברים ידוע כי סכום כל האיברים גדול ב-66 מפעמיים סכום האיברים העומדים במקומות האי-זוגיים.

א. הוכח כי $nd=66$.

ב. ידוע כי הפרש הסדרה הוא 3. הבע באמצעות a_1 את סכום n האיברים הראשונים.

ג. סכום n האיברים הראשונים הוא 187. מצא את האיבר החיובי הקטן ביותר בסדרה ואת מיקומו הסידורי בסדרה.

28) אדם המעוניין לקנות רכב קיבל שתי הצעות מחיר.
ההצעה הראשונה:
לשלם בתשלום הראשון 1000 ₪ ובכל תשלום שאחריו סכום הגדול ב-500 ₪ מהתשלום הקודם.
ההצעה השנייה:
לשלם בתשלום הראשון 7200 ₪ ובכל תשלום שאחריו סכום הקטן ב-450 ₪ מהתשלום הקודם.
ידוע כי מספר התשלומים בהצעה השנייה קטן ב-4 ממספר התשלומים שבהצעה הראשונה.

א. כמה תשלומים יצטרך לשלם לפי כל הצעה.

ב. מה מחיר הרכב?

תשובות סופיות:

1) $a_{43}=-235$.
2) $a_1=-5$, $d=4$.
3) 20 איברים.
4) 48 איברים.
5) 15 קפיצות.
6) 58 מספרים.
7) 31 איברים חיוביים.
8) $x=1$, $x=4$.
9) $a_{19}=59$.
10) א. הוכחה. ב. $a_1=12$, $d=-3$. ג. $b_5=-3$.
11) $S_{14}=413$.
12) 21 איברים.
13) 16 דקות.
14) 37 איברים.
15) 3647.
16) 23920.
17) א. $n=\sqrt{\frac{512}{d}}$ ב. 24 איברים.
18) א. $a_1=6$, $a_2=10$, $a_3=14$ ב. $d=4$.
19) א. $a_1=50$, $d=-6$ ב. $a_{10}=-4$ ג. $n=6$.
20) א. $n=81$ ב. $n=16$.
21) א. $d_1=4$ ב. $a_1=-52$, $b_1=95$.
22) אי-זוגיים: $S=99$ זוגיים: $S=135$.
23) שאלת הוכחה.
24) 29 איברים.
25) א. i. $x=-50$ ii. $d=11$ ב. $a_1=-121$ ג. $S=2156$.
26) א. הוכחה. ב. $a_1=-8$, $d=2$ ג. $n=36$.
27) א. הוכחה. ב. $S=22a_1+693$ ג. $a_9=1$.
28) א. 12 לפי ההצעה הראשונה ו-8 לפי ההצעה השנייה. ב. 45000 ₪.

סדרה הנדסית:

סיכום כללי:

- **נוסחת האיבר הכללי:**

נוסחת האיבר הכללי של סדרה הנדסית המתחילה באיבר a_1 ומנתה היא q
נתונה ע"י הנוסחה: $a_n = a_1 q^{n-1}$, כאשר: n הוא מיקום האיבר שערכו a_n בסדרה.

- **כלל נסיגה של סדרה הנדסית:**

כלל נסיגה של סדרה הנדסית a_n שמנתה היא q ואיברה הראשון הוא a_1
נתון ע"י הקשר הבא: $a_{n+1} = a_n \cdot q$.

- **נוסחת הסכום של סדרה הנדסית:**

סכום n האיברים הראשונים של סדרה הנדסית a_n שמנתה היא q ואיברה הראשון הוא a_1 נתון ע"י: $S_n = \frac{a_1\left(q^n - 1\right)}{q-1}$.

שאלות:

1) נתונה הסדרה ההנדסית: $\frac{1}{9}, \frac{1}{3}, 1, 3, \ldots$.
מצא את האיבר האחרון בסדרה אם ידוע שיש בה 9 איברים.

2) מצא כמה איברים יש בסדרה ההנדסית: $\frac{9}{64}, \frac{3}{16}, \frac{1}{4}, \ldots, \frac{64}{81}$.

3) בסדרה הנדסית האיבר השישי הוא 8 והאיבר העשירי הוא 128.
מצא מהו האיבר הראשון בסדרה ומהי מנת הסדרה.

4) בסדרה הנדסית ההפרש בין האיבר השביעי לאיבר החמישי הוא 432 וההפרש בין האיבר החמישי לשלישי הוא 48. מצא מהו האיבר הראשון בסדרה ומהי מנת הסדרה.

5) בסדרה הנדסית עולה ההפרש בין האיבר השמיני לאיבר הרביעי הוא 3120 וסכום האיברים השני והרביעי הוא 5.2.
מצא מהו האיבר הראשון בסדרה ומהי מנת הסדרה.

6) תחביב אחה"צ של שימי הפרעוש הוא לקפוץ על טומי הכלב. מנהגו של שימי הוא לקפוץ בדקה הראשונה 4 קפיצות ובכל דקה שאחריה לקפוץ פי 3 קפיצות מדקה הקודמת. כמה דקות אורך תחביב אחה"צ של שימי אם ידוע שבדקה האחרונה הוא קופץ 324 קפיצות?

7) מצא את ערכו של x אם ידוע שהאיברים הבאים הם איברים עוקבים בסדרה הנדסית: $x-6,\ x+4,\ 4x+1$. מצא גם את מנת הסדרה.

8) נתונה סדרה המוגדרת באמצעות כלל הנסיגה הבא: $\begin{cases} a_{n+1}=2a_n \\ a_1=3 \end{cases}$.
הוכח שהסדרה הנדסית ומצא מהו האיבר השמיני בה.

9) מצא את סכום תשעת האיברים הראשונים בסדרה ההנדסית: $5, 10, 20, 40, \ldots$.

10) תחביב אחה"צ של מימי הפרעושה הוא לקפוץ על טומי הכלב. מנהגה של מימי הוא לקפוץ בדקה הראשונה 2 קפיצות ובכל דקה שאחריה לקפוץ פי 5 קפיצות מדקה הקודמת. כמה דקות אורך תחביב אחה"צ של מימי אם ידוע שבכל אחה"צ היא קפצה 1562 קפיצות?

11) סכום n האיברים האחרונים בסדרה הנדסית בת $3n$ איברים שמנתה 2, גדול פי 256 מסכום n האיברים הראשונים בה. כמה איברים בסדרה?

12) בסדרה הנדסית עולה שבה n איברים, סכום $n-3$ האיברים האחרונים גדול פי 8 מסכום $n-3$ האיברים הראשונים בה. מצא את מנת הסדרה.

13) סכום כל האיברים בסדרה הנדסית הוא 252. האיבר האחרון בסדרה גדול ב- 120 מהאיבר השני בה. מצא כמה איברים יש בסדרה אם ידוע שמנתה 2.

14) המספרים: $x-13\ ,\ x-9\ ,\ 2x-3$ הם שלושת האיברים הראשונים בסדרה הנדסית עולה שכל איבריה חיוביים.

א. מצא את x.

ב. ענה על הסעיפים הבאים:

i. כתוב את נוסחת האיבר הכללי בסדרה זו.

ii. מצא שני איברים סמוכים בסדרה שסכומם הוא 18750.

ג. ידוע כי האיבר האחרון בסדרה הוא: $a_n = 5^{11}$.
מצא את סכום 7 האיברים האחרונים בסדרה.

15) נתונה הסדרה ההנדסית הבאה: a_{n+1} ,..... ,36 , 12 , 4. מוסיפים לכל איבר בסדרה זו שישית מהאיבר הבא אחריו ויוצרים סדרה חדשה b_n באופן הבא:

$$b_1 = a_1 + \frac{a_2}{6}\ ,\ b_2 = a_2 + \frac{a_3}{6}\ ,\ b_3 = a_3 + \frac{a_4}{6}\ ,\ .....\ ,\ b_n = a_n + \frac{a_{n+1}}{6}.$$

א. הוכח כי הסדרה b_n היא סדרה הנדסית ומצא את מנתה.

ב. הראה כי היחס בין סכום n האיברים הראשונים של הסדרה a_n ובין סכום n האיברים הראשונים של הסדרה b_n הוא $\frac{2}{3}$.

ג. מצא שני איברים סמוכים בסדרה b_n שסכומם מהווה $\frac{2}{9}$ מ- a_8.

16) נתונה הסדרה ההנדסית: $7, 14, 28, ...$.
בסדרה יש 8 איברים. חשב את סכום האיברים הנמצאים במקומות האי-זוגיים ואת סכום האיברים הנמצאים במקומות הזוגיים.

17) בסדרה הנדסית ובה $2n$ איברים סכום האיברים במקומות הזוגיים גדול פי 4 מסכום האיברים במקומות האי-זוגיים. חשב את מנת הסדרה.

18) נתונה סדרה הנדסית שמנתה q ובה מספר זוגי של איברים.
בטא באמצעות q את היחס בין סכום איברי הסדרה כולה לסכום האיברים הנמצאים במקומות הזוגיים שבה.

19) בסדרה הנדסית שבה $2n+1$ איברים, סכום n האיברים הראשונים קטן פי 9 מסכום n האיברים הבאים אחריהם. האיבר האחרון בסדרה גדול ב-30 מהאיבר הראשון שבה. מצא את האיבר הראשון בסדרה.

20) ענה על הסעיפים הבאים:

א. הראה כי בסדרה הנדסית שבה $2n$ איברים היחס בין סכום האיברים העומדים במקומות האי-זוגיים לבין סכום כל איברי הסדרה תלוי במנת בסדרה.

בסדרה הנדסית שבה מספר זוגי של איברים ידוע כי סכום כל האיברים העומדים במקומות האי-זוגיים קטן פי 4 מסכום כל איברי הסדרה. האיבר הראשון בסדרה זו קטן ב-2 ממנת הסדרה.

ב. כתוב נוסחה לאיבר כללי של סדרה זו.

ג. מצא שני איברים סמוכים בסדרה שסכומם הוא 324.

21) בסדרה הנדסית שבה 12 איברים סכום כל איברי הסדרה גדול פי 3 מסכום האיברים כאשר מחליפים את סימני כל האיברים העומדים במקומות האי-זוגיים.

א. מצא את מנת הסדרה.

ב. ידוע כי ההפרש בין האיבר החמישי לאיבר הרביעי בסדרה הוא 8. מצא את האיבר הראשון בסדרה.

ג. חשב את סכום כל האיברים העומדים במקומות הזוגיים בסדרה.

22) באחת ממדינות המזרח היה מלך שאהב משחקי חשיבה. לכבוד יום הולדתו הכין לו השר הבכיר שבממלכתו משחק מיוחד המכיל 25 משבצות ו-2 חיילי משחק. המלך, מרוב התלהבות ושמחה לא ידע כיצד לגמול לשר החכם ושאל אותו מה ירצה בתמורה. השר סרב לקבל דבר על מתנתו עד שלבסוף החליט המלך לתת לשר מחצית מכל אוצרות הממלכה המונים כ-40 מיליון אבנים יקרות. לאחר ששמע על כך השר, הוא החליט לאתגר את המלך והעלה את ההצעה הבאה:

תן לי אבן יקרה אחת והכפל אותה בכל משבצת שבמשבצות המשחק באופן הבא: כנגד המשבצת הראשונה - אבן אחת,
כנגד השנייה - שתי אבנים,
כנגד השלישית - ארבע אבנים וכן הלאה...
המלך הסכים להצעה.

א. כמה אבנים המלך ייתן לשר כנגד המשבצת האחרונה במשחק?

ב. העזר בכמות האבנים שברשותו של השר וקבע האם הצעתו שוות-ערך יותר מהחלטת המלך לתת לו מחצית מאוצרות הממלכה.

ג. סמוך לפני שנתן המלך את האבנים לשר, הציעה בתו של המלך הצעה נוספת והיא: תן עבור כל משבצת זוגית 2^n אבנים, כאשר n הוא מספר המשבצת. האם כדאי למלך לקבל את הצעת בתו או להישאר עם ההצעה המקורית של השר?

תשובות סופיות:

1) $a_9 = 729$.

2) $n = 7$.

3) $a_1 = \pm\frac{1}{4}, q = \pm 2$.

4) $a_1 = \frac{2}{3}, q = \pm 3$.

5) $a_1 = \frac{1}{25}, q = 5$.

6) 5 דקות.

7) $x = 11 \to q = 3$, $x = -\frac{2}{3} \to q = -\frac{1}{2}$.

8) $a_8 = 384$.

9) $S_9 = 2555$.

10) 5 דקות.

11) $n = 4$, יש 12 איברים בסדרה.

12) $q = 2$.

13) $n = 6$.

14) א. $x = 14$ ב.i. $a_n = 5^{n-1}$ ב.ii. a_6 , a_7 ג. $S_7^* = 61,034,375$.

15) א. $q = 3$. ג. b_5 , b_6

16) אי-זוגיים: $S = 595$, זוגיים: $S = 1190$.

17) $q = 4$.

18) $\frac{q+1}{q}$.

19) $a_1 = \frac{3}{8}$.

20) א. $\frac{S_{n(o)}}{S_{2n}} = \frac{1}{q+1}$ ב. $a_n = 3^{n-1}$ ג. a_5 , a_6.

21) א. $q = 2$ ב. $a_1 = 1$ ג. $S_{6(p)} = 2730$.

22) א. $a_{25} = 16,777,216$

ב. לפי הצעת השר יהיו לו 33,554,431 אבנים ולפי הצעת המלך יהיו לו 20,000,000 אבנים. ג. $4,16,64,...,2^{24}$, $S_n = 22,369,620$.

סדרות מעורבות:

שאלות:

1) נתונים שלושה איברים עוקבים בסדרה הנדסית שמנתה 3.
אם נכפול את המספר הראשון ב-3, נוסיף למספר השני 4 ונחסיר מהמספר השלישי 4 תתקבל סדרה חשבונית. מצא את המספרים.

2) נתונות שתי סדרות שמתחילות במספר 2 ובשתיהן 3 איברים.
סדרה אחת היא חשבונית והשנייה הנדסית. האיבר השלישי בשתי הסדרות זהה והאיבר השני בסדרה ההנדסית קטן ב-4 מהאיבר השני בסדרה החשבונית.
מצא את מנת הסדרה ההנדסית.

3) נתונים ארבעה מספרים בעלי התכונות הבאות:
הראשון, השני והרביעי מהווים שלושה איברים עוקבים בסדרה הנדסית שמנתה 2.
הראשון, השלישי והרביעי מהווים שלושה איברים עוקבים בסדרה חשבונית
וסכומם $22\frac{1}{2}$. מצא את ארבעת המספרים.

4) ההפרש של סדרה חשבונית שווה למנה של סדרה הנדסית עולה.
האיבר הראשון בסדרה ההנדסית הוא 6 וידוע כי סכום 2 האיברים הראשונים בסדרה החשבונית שווה לסכום שני האיברים הראשונים בסדרה ההנדסית.
האיבר השלישי בסדרה ההנדסית גדול פי 2 מהאיבר השלישי בסדרה החשבונית.

א. מצא את שלושת האיברים של הסדרה החשבונית.

ב. מצא כמה איברים יש לחבר בסדרה החשבונית החל מהאיבר הראשון כדי לקבל את הסכום 60.

ג. מצא את מיקומו הסידורי של איבר בסדרה ההנדסית הגדול פי 12 מהאיבר האחרון שחובר בסכום הסדרה החשבונית שחישבת בסעיף הקודם.

5) נתונות שתי הסדרות הבאות: סדרה חשבונית: $a_1 , a_2 , a_3 , ...$
וסדרה הנדסית: $b_1 , b_2 , b_3 , ...$. ידוע כי האיבר הראשון בשתי הסדרות שווה.
האיבר השלישי בסדרה ההנדסית גדול פי 4 מהאיבר הראשון בסדרה החשבונית.

א. מצא את מנת הסדרה ההנדסית אם ידוע כי היא אינה עולה.

ב. נתון גם כי האיבר החמישי בסדרה ההנדסית שווה לאיבר הרביעי בסדרה החשבונית. הוכח כי הפרש הסדרה החשבונית גדול פי 5 מהאיבר הראשון.

ג. בכל סדרה יש 10 איברים. הסכום של כל האיברים של שתי הסדרות יחד הוא 212-. מצא את האיבר הראשון של שתי הסדרות.

תשובות סופיות:

1) המספרים הם: 18, 6, 2.
2) $q=-1$ או $q=3$.
3) המספרים הם: 12 , 7.5 , 6 , 3.
4) א. 12, 10, 8 ב. 5 ג. 6.
5) א. $q=-2$ ג. $a_1=2$.

סדרה הנדסית אינסופית מתכנסת:

סיכום כללי:

- **הגדרה:**

סדרה הנדסית a_n המקיימת: $|q|<1$, $(q\neq 0)$ נקראת סדרה הנדסית אינסופית מתכנסת.

- **נוסחת הסכום של סדרה הנדסית אינסופית מתכנסת:**

הסכום של סדרה הנדסית אינסופית מתכנסת a_n ניתן לחישוב ע"י שימוש בכלל: $\lim\limits_{n\to\infty} q^n = 0$ והצבתו בנוסחת הסכום של סדרה הנדסית.

מתקבל הכלל הבא: $S=\frac{a_1}{1-q}$.

- **סכום סופי של איברים בסדרה הנדסית אינסופית מתכנסת:**

  - כאשר מתבקשים לחשב סכום של n איברים ראשונים בסדרה הנדסית אינסופית מתכנסת יש להשתמש בנוסחת הסכום הרגילה: $S_n=\frac{a_1\left(q^n-1\right)}{q-1}$.

  - כאשר מתבקשים לחשב סכום של n איברים בסדרה הנדסית אינסופית מתכנסת המתחילים באיבר a_k יש להשתמש בנוסחת הסכום הרגילה באופן הבא: $S_n=\frac{a_k\left(q^n-1\right)}{q-1}$.

שאלות:

1) מצא את סכום כל איברי הסדרה ההנדסית הבאה: $12\ ,\ 4\ ,\ 1\frac{1}{3}\ ,\ \ldots$.

2) סכום כל איברי סדרה הנדסית אינסופית שמנתה $\frac{1}{4}$ הוא 32.
מצא את האיבר הראשון בסדרה.

3) נתונה סדרה הנדסית אינסופית יורדת שסכומה 62.5. ידוע כי האיבר השני בסדרה הוא 10. מצא את האיבר הראשון ואת מנת הסדרה (שתי אפשרויות).

4) האיבר הראשון בסדרה הנדסית אינסופית יורדת הוא 14. סכום האיברים במקומות הזוגיים הוא $9\frac{1}{3}$. מצא את סכום האיברים במקומות האי-זוגיים.

***הערה: שתי השאלות הבאות מסכמות את סוגי הסכומים וייצוג סדרות שונות באמצעות סדרה נתונה כפי שמקובל בנושא זה ואינן מייצגות אורך של שאלת בגרות.**

5) נתונה סדרה הנדסית אינסופית מתכנסת a_n שמנתה q , $\left(q\neq 0\ ,\ |q|<1\right)$
מגדירים שלוש סדרות חדשות: b_n , c_n ו- d_n באופן הבא:

הסדרה:	b_n	c_n	d_n
הכלל:	$b_1=a_1$ $b_2=a_1+a_2$ $b_3=a_1+a_2+a_3$ $\vdots$ $b_n=a_1+a_2+a_3+..+a_n=S_{a(n)}$	$c_1=a_2^2-a_1^2$ $c_2=a_3^2-a_2^2$ $c_3=a_4^2-a_3^2$ $\vdots$ $c_n=a_{n+1}^2-a_n^2$	$d_1=S_a+a_1$ $d_2=S_a+a_2$ $d_3=S_a+a_3$ $\vdots$ $d_n=S_a+a_n$

הסכום S_a הוא סכום הסדרה a_n , והסכום: $S_{a(n)}$ הוא סכום n האיברים הראשונים של הסדרה a_n.

א. קבע אלו מבין הסדרות b_n , c_n ו- d_n הן הנדסיות והבע את מנתן ע"י q .

ב. הבע באמצעות a_1 בלבד את סכום הסדרה ההנדסית שמצאת בסעיף הקודם.

ג. מסמנים את סכום ריבועי האיברים של הסדרה ההנדסית שמצאת בסעיף א' ב- $S_{(S)}$. הוכח כי לא קיים ערך של q עבורו סכום ריבועי האיברים $S_{(S)}$, שווה לסכום הסדרה הנ"ל בריבוע.

6) נתונה סדרה הנדסית אינסופית יורדת: a_n שמנתה q .
מגדירים סדרה חדשה b_n באופן הבא:

$$b_1 = S_1^* = \frac{a_1}{1-q} \quad , b_2 = S_2^* = \frac{a_2}{1-q} \quad , b_3 = S_3^* = \frac{a_3}{1-q} \quad ,..., b_n = S_n^* = \frac{a_n}{1-q} \quad ,..$$

כאשר: S_n^* מייצג את סכום הסדרה a_n החל מהאיבר a_n (ועד אינסוף).

א. הוכח כי הסדרה b_n היא גם הנדסית אינסופית יורדת וכתוב את נוסחת האיבר הכללי שלה באמצעות a_1 ו- q .

ב. ידוע כי סכום הסדרה b_n הוא 126 וכי סכום 8 האיברים הראשונים בסדרה a_n גדול פי 6560 מהאיבר התשיעי בסדרה b_n . מצא את a_1 ו- q .

ג. היעזר בסעיף הקודם והוכח כי מתקיים: $b_2 + b_3 + ... + b_n + ... = 42$.

ד. חשב את סכום האיברים העומדים במקומות הזוגיים בסדרה b_n .

ה. חשב את סכום האיברים העומדים במקומות האי-זוגיים בסדרה b_n .

ו. מחליפים את סימני האיברים העומדים במקומות האי-זוגיים בסדרה b_n כך שנוצרת הסדרה: b_n^* . חשב את סכום הסדרה b_n^* .

ז. מחליפים את סימני האיברים העומדים במקומות הזוגיים בסדרה b_n כך שנוצרת הסדרה: b_n^{**} . חשב את סכום הסדרה b_n^{**} .

ח. מעלים בריבוע את כל איברי הסדרה b_n . מסמנים את הסכום המתקבל ב- $S_{(S)}$ (מלשון: square). כמו כן, מסמנים את סכום הסדרה המקורית b_n ב- S_b .
הראה כי: $S_b^2 \neq S_{(S)}$.

ט. הוכח כי היחס בין סכום איברי הסדרה a_n וסכום איברי הסדרה b_n הוא $\frac{2}{3}$.

7) נתונה סדרה הנדסית אינסופית יורדת שסכומה 24. מאיברי הסדרה הנתונה יצרו את סדרה חדשה באופן הבא: $a_1+a_2, a_2+a_3, a_3+a_4, a_4+a_5, \ldots$.

א. הוכח שהסדרה החדשה היא הנדסית אינסופית יורדת.

ב. ידוע שסכום כל איברי הסדרה החדשה הוא 32.
מצא את האיבר הראשון והמנה של הסדרה המקורית.

8) בסדרה הנדסית אינסופית יורדת a_n ידוע כי סכום האיברים העומדים במקומות האי-זוגיים גדול פי $1\frac{2}{3}$ מסכום האיברים העומדים במקומות הזוגיים.

א. מצא את מנת הסדרה.

מחברים כל שני איברים סמוכים בסדרה הנתונה ויוצרים סדרה חדשה b_n.

ב. הוכח כי הסדרה b_n גם היא הנדסית יורדת ומצא את מנתה.

ג. הראה כי סכום הסדרה b_n שווה לסכום הסדרה a_n.

ד. סכום שתי הסדרות יחד הוא 1000. מצא את האיבר הראשון בסדרה a_n.

9) נתונה סדרה הנדסית אינסופית $a_1, a_2, a_3, \ldots$ שמנתה היא q, $(0<q<1)$.
נגדיר את הסכומים הבאים: $V=a_3+a_7+a_{11}+\ldots$, $T=a_1+a_2+a_5+a_6+a_9+a_{10}, \ldots$.
נתון כי: $T=6V$.

א. מצא את מנת הסדרה q.

ב. פי כמה קטן V מסכום כל האיברים העומדים במקומות האי-זוגיים בסדרה?

ג. מצא את האיבר הראשון אם ידוע כי סכום האיברים העומדים במקומות האי-זוגיים הוא $1365\frac{1}{3}$.

10) נתונה הסדרה ההנדסית הבאה: $a_1, a_2, a_3, \ldots, a_{2n}$ שמנתה היא q.
בונים סדרה חדשה מריבועי כל האיברים הסדרה באופן הבא: $a_1^2, a_2^2, a_3^2, \ldots, a_{2n}^2$.

א. הוכח כי היחס בין סכום n האיברים הראשונים בסדרת הריבועים ובין סכום כל האיברים העומדים במקומות האי-זוגיים בסדרה הנתונה תלוי רק באיבר הראשון של הסדרה.
בסדרה הנדסית אינסופית יורדת שסכומה 640 ידוע כי סכום 10 האיברים הראשונים כאשר מעלים אותם בריבוע גדול פי 320 מסכום 10 האיברים הראשונים העומדים במקומות האי-זוגיים בסדרה.

ב. מצא את מנת הסדרה.

ג. מחברים את כל איברי הסדרה החל מאיבר a_n כלשהו.
ידוע כי סכום זה קטן פי 16 מסכום הסדרה המקורי. מצא את האיבר a_n.

11) נתונה סדרה הנדסית אינסופית $a_1 , a_2 , a_3 , ...$ שמנתה היא q , $(q \neq 0 , |q| < 1)$.

נגדיר את הסכומים הבאים: $V = a_2 + a_7 + a_{12} + ... , .. , T = a_1 + a_3 + a_6 + a_8 + a_{11} + a_{13}$.

נתון כי: $V = 0.3T$.

א. מצא את מנת הסדרה q.

מחליפים את הסימנים של כל האיברים העומדים במקומות האי-זוגיים ומתקבלת סדרה חדשה שסכומה הוא 12.

ב. מצא את האיבר הראשון בסדרה המקורית.

ג. מעלים את כל איברי הסדרה בריבוע. חשב את סכום הסדרה כעת.

תשובות סופיות:

1) $S=18$.

2) $a_1=24$.

3) $a_1=50$, $q=\frac{1}{5}$ או $a_1=12\frac{1}{2}$, $q=\frac{4}{5}$.

4) $S=18\frac{2}{3}$.

5) א. הסדרה b_n : $\frac{b_{n+1}}{b_n}=\frac{S_{n+1}}{S_n}=\frac{S_{n+1}}{S_n}=\frac{\frac{a_{n+1}\left(q^{n+1}-1\right)}{q-1}}{\frac{a_n\left(q^n-1\right)}{q-1}}=\frac{a_{n+1}\left(q^{n+1}-1\right)}{a_n\left(q^n-1\right)}=q\cdot\frac{q^{n+1}-1}{q^n-1}$

היות והיא תלויה ב- n היא אינה הנדסית.

הסדרה c_n הנדסית : $\frac{c_{n+1}}{c_n}=\frac{a_{n+2}^2-a_{n+1}^2}{a_{n+1}^2-a_n^2}=\frac{a_n^2q^4-a_n^2q^2}{a_n^2q^2-a_n^2}=\frac{a_n^2q^2\left(q^2-1\right)}{a_n^2\left(q^2-1\right)}=q^2$.

הסדרה d_n : $\frac{b_{n+1}}{b_n}=\frac{S+a_{n+1}}{S+a_n}=\frac{\frac{a_1}{1-q}+a_{n+1}}{\frac{a_1}{1-q}+a_n}=\frac{a_1+(1-q)a_{n+1}}{a_1+(1-q)a_n}=\frac{a_1\left(1+(1-q)q^n\right)}{a_1\left(1+(1-q)q^{n-1}\right)}=\frac{q^n-q^{n+1}+1}{q^{n-1}-q^n+1}$

היות והיא תלויה ב- n היא אינה הנדסית. ב. $S_{(c_n)}=\frac{c_1}{1-q_c}=\frac{a_2^2-a_1^2}{1-q^2}=\frac{a_1^2\left(q^2-1\right)}{1-q^2}=-a_1^2$.

ג. מההשוואה : $S_{(s)}=S^2$ מקבלים כי פתרון המשוואה הוא : $q=0,\pm1$.

כולם נפסלים מכיוון שמנת הסדרה הנתונה a_n היא שבר.

עבור $|q|>1$ הסדרות אינן מתכנסות ולכן לא קיים ערך של q עבורו השוויון יתקיים. מש"ל.

6) א. $b_n=\frac{a_1}{1-q}q^{n-1}$ ב. $a_1=56$, $q=\frac{1}{3}$ ג. הוכחה. ד. 31.5

ה. 94.5 ו. -63 ז. 63 ח. 7938

ט. הסכום : S^2 משמעו : $\left(b_1+b_2+...+b_n+..\right)^2$.

הסכום : $S_{(s)}$ משמעו : $b_1^2+b_2^2+...+b_n^2+..$. ברור כי הביטויים אינם שווים.

7) א. הוכחה. ב. $a_1=16$, $q=\frac{1}{3}$.

8) א. $q=0.6$ ב. $\frac{b_{n+1}}{b_n}=\frac{a_{2n+1}+a_{2n+2}}{a_{2n-1}+a_{2n}}=q^2$ ד. $a_1=200$

9) א. $q=\frac{1}{2}$ ב. פי 5 ג. $a_1=1024$

10) א. הוכחה. ב. $q=0.5$ ג. $a_5=20$.

11) א. $q=\frac{1}{3}$ ב. $a_1=-16$ ג. $S=288$.

סדרת נסיגה:

שאלות:

1) נתונה סדרה המוגדרת על פי כלל הנסיגה הבא: $\begin{cases} a_{n+1} = a_n + 2n - 11 \\ a_1 = -6 \end{cases}$.

א. מצא את האיבר השלישי בסדרה.

ב. נתון כי האיבר השלושה-עשר בסדרה הוא 18. מצא את a_{14} ו- a_{12}.

ג. נתון כי האיבר השלושים ואחת בסדרה הוא k.
הבע באמצעות k את a_{32} ו- a_{30}.

ד. מצא את מיקומם של שני איברים סמוכים בסדרה שההפרש ביניהם הוא 133.

ה. הסבר מדוע אין שני איברים סמוכים בסדרה שההפרש ביניהם הוא 62.

2) נתונה סדרה המוגדרת על פי כלל הנסיגה הבא: $\begin{cases} a_{n+1} = a_n + 2n \\ a_1 = 0 \end{cases}$.

נתון כי $a_k = 72$. הבע באמצעות k את a_{k+2}.

3) נתונה סדרה המוגדרת על פי כלל הנסיגה הבא: $\begin{cases} a_{n+1} = 2a_n + n^2 - 31 \\ a_7 = t \end{cases}$

מצא את ערכו של t שבעבורו האיברים a_7, a_8, a_9 הם איברים עוקבים בסדרה חשבונית.

4) סדרה שהאיבר הכללי בה הוא a_n מוגדרת על פי כלל הנסיגה הבא: $a_{n+1} = a_n + 6n - 2$
מגדירים סדרה חדשה שהאיבר הכללי בה הוא b_n באופן הבא: $b_n = a_{n+1} - a_n$.

א. הוכח שהסדרה b_n היא סדרה חשבונית ומצא את הפרשה.

ב. חשב את b_1.

5) סדרה שהאיבר הכללי בה הוא a_n מוגדרת על פי כלל הנסיגה הבא: $a_{n+1} = 3a_n + 4$.
מגדירים סדרה חדשה שהאיבר הכללי בה הוא b_n באופן הבא: $b_n = a_n + 2$.

א. הוכח שהסדרה b_n היא סדרה הנדסית ומצא את מנתה.

ב. נתון: $b_5 = 162$. חשב את a_1.

6) סדרה מוגדרת ע"י הכלל: $a_1=3\ ,\ a_{n+1}=3a_n+10n-5$.
מגדירים סדרה חדשה המקיימת לכל n טבעי: $b_n=a_n+5n$.

א. הוכח כי הסדרה b_n היא סדרה הנדסית.

ב. חשב את האיבר b_5.

ג. חשב את הסכום: $b_2+b_4+b_6+.....+b_{12}$.

7) סדרה מוגדרת לכל n טבעי ע"י הנוסחה: $a_1=k\ ,\ a_{n+1}=8n-a_n+3$.

א. הבע באמצעות k את ארבעת האיברים הראשונים בסדרה.

ב. הוכח כי סדרת האיברים העומדים במקומות האי-זוגיים וסדרת האיברים העומדים במקומות הזוגיים הן חשבוניות ומצא את הפרשן.

ג. חשב את סכום 20 האיברים הראשונים בסדרה.

8) סדרה מוגדרת ע"י כלל הנסיגה הבא: $a_1=2\ ,\ a_{n+1}=\dfrac{3a_n}{2a_n+3}$.
מגדירים סדרה חדשה לפי: $b_n=\dfrac{4-7a_n}{a_n}$.

א. הוכח כי הסדרה b_n היא חשבונית ומצא את הפרשה.

ב. חשב את הסכום הבא: $b_2+b_4+b_6+.....+b_{22}$.

9) סדרה מקיימת את כלל הנסיגה: $a_1=1\ ,\ a_{n+1}=3n-a_n-7$.

א. חשב את 5 האיברים הראשונים וקבע האם הסדרה היא חשבונית.

ב. הוכח כי לכל n טבעי מתקיים: $a_{n+2}=a_n+3$.

ג. כתוב נוסחה לסכום n האיברים הראשונים העומדים במקומות האי-זוגיים בסדרה.

ד. חשב את הסכום הבא: $a_1+a_3+a_5+.....+a_{17}$.

10) סדרה מוגדרת לפי כלל הנסיגה הבא: $a_{n+1}=a_n+2\cdot 3^n+2$.

א. ענה על הסעיפים הבאים:

i. הבע את a_{n+2} באמצעות a_n.

ii. מצא את מיקומו הסידורי של איבר הגדול ב-652 מהאיבר העומד שני מקומות לפניו.

ב. הנוסחה לסכום n האיברים הראשונים של אחת מהסדרות המיוצגות ע"י כלל הנסיגה הנ"ל היא: $S_n=1.5\cdot 3^n+n^2+n-1.5$.

חשב את הסכום הבא: $a_6+a_7+a_8+....+a_{11}$.

ג. מהו האיבר הראשון של הסדרה המיוצגת ע"י כלל הנסיגה ונוסחת הסכום הנ"ל?

11) סדרה מוגדרת ע"י כלל הנסיגה: $a_{n+1}=\frac{2a_n}{a_n+5}$, $a_1=6$.

מגדירים סדרה חדשה b_n המקיימת לכל n טבעי: $b_n=\frac{a_n+3}{a_n}$.

א. הוכח כי הסדרה b_n היא הנדסית ומצא את מנתה.

ב. כתוב נוסחה ל- b_n באמצעות n בלבד.

ג. חשב את הסכום הבא: $b_1-b_2+b_3-b_4+.....-b_{10}$.

תשובות סופיות:

1) א. $a_3=-22$ ב. $a_{12}=5\ ,a_{14}=33$ ג. $a_{30}=k-49\ ,a_{32}=k+51$

ד. a_{62},a_{63}

2) $a_{k+2}=74+4k$

3) $t=-33$

4) א. $d=6$ ב. $b_1=4$

5) א. $q=3$ ב. $a_1=0$

6) א. $b_{n+1}=3b_n$ ב. $b_5=648$ ג. $S=1594320$

7) א. $a_1=k\ ,a_2=11-k\ ,a_3=k+8\ ,a_4=19-k$ ב. 8

ג. 830

8) ב. $S_{11(p)}=267\frac{2}{3}$

9) א. $a_1=1\ ,a_2=-5\ ,a_3=4\ ,a_4=-2\ ,a_5=7$ ג. $S_{n(o)}=1.5n^2-0.5n$

ד. $S_{9(o)}=117$

10) א. i. $a_{n+2}=a_n+8\cdot 3^n+4$ ii. a_4

ב. $S_{6-11}=265458$ ג. $a_1=5$.

11) א. $q=2.5$ ב. $b_n=1.5\cdot 2.5^{n-1}$ ג. $S_{10}^{*}=-4086.74$

מכינה אקדמית במתמטיקה למדעי המחשב 1400004

פרק 9 - אלגברה - אינדוקציה מתמטית

תוכן העניינים

1. שאלות העוסקות בתכונות התחלקות 184
2. סדרות 187
3. עצרת 189
4. שאלות שבהן האיבר הכללי מורכב ממספר מחוברים 190
5. שאלות העוסקות באינדוקציות עם איברים משתנים 191
6. שאלות העוסקות בהוכחת באי-שוויונים באינדוקציה 192
7. שאלות כוללות ומסכמות 194
8. מושג הסכימה וכתיבה מקוצרת של אינדוקציות 196

שאלות העוסקות בתכונות התחלקות:

סיכום כללי:

מבנה כללי של רישום הוכחה באינדוקציה:

בדיקה:

בדיקה נכונות האינדוקציה עבור $n=1$ (ולעיתים כדאי לבדוק גם עבור $n=2,3$).

הנחת האינדוקציה:

נניח כי עבור $n=k$ (k טבעי כלשהו) כי טענת האינדוקציה נכונה.

הוכחת האינדוקציה:

נוכיח כי עבור $n=k+1$ טענת האינדוקציה מתקיימת.

סיכום:

לסיכום, הראנו כי הטענה נכונה עבור $n=1$ והראנו כי נכונות הטענה עבור $n=k$ גוררת את נכונותה עבור $n=k+1$, לפיכך, על פי אקסיומת האינדוקציה, הטענה נכונה לכל n טבעי.

שאלות:

1) הוכח באינדוקציה, או בכל דרך אחרת, כי הביטוי 8^n-3^n מתחלק ב-5 ללא שארית לכל n טבעי.

2) הוכח באינדוקציה, או בכל דרך אחרת, כי הביטוי 11^n-4^n מתחלק ב-7 ללא שארית לכל n טבעי.

3) הוכח באינדוקציה, או בכל דרך אחרת, כי הביטוי $8\cdot 7^n+4^{n+2}$ מתחלק ב-24 ללא שארית לכל n טבעי.

4) הוכח באינדוקציה, או בכל דרך אחרת, כי הביטוי $5\cdot 3^{2n}-5^{n+1}$ מתחלק ב-20 ללא שארית לכל n טבעי.

5) a_n הוא האיבר במקום ה-n בסדרה החשבונית: $1,3,5,7,...$ הוכח באינדוקציה, או בכל דרך אחרת, כי הביטוי $2^{a_n}+4$ מתחלק ב-12 ללא שארית לכל n טבעי הגדול מ-1.

6) הוכח באינדוקציה, או בכל דרך אחרת, כי הביטוי n^2+n מתחלק ב-2 ללא שארית לכל n טבעי.

7) הוכח באינדוקציה, או בכל דרך אחרת, כי הביטוי n^3+5n מתחלק ב-6 ללא שארית לכל n טבעי.

8) הוכח באינדוקציה, או בכל דרך אחרת, כי הביטוי 3^n-2n-1 מתחלק ב-4 ללא שארית לכל n טבעי.

9) הוכח באינדוקציה, או בכל דרך אחרת, כי הביטוי $9\left(9^n-1\right)-40n$ מתחלק ב-32 ללא שארית לכל n טבעי.

10) הוכח באינדוקציה, או בכל דרך אחרת, כי הביטוי $7^n+5^n-2^n\left(2^n+1\right)$ מתחלק ב-6 ללא שארית לכל n טבעי.

11) הוכח באינדוקציה, או בכל דרך אחרת, כי הביטוי 7^n+2^{2n} מתחלק ב-11 ללא שארית לכל n טבעי אי זוגי.

12) הוכח באינדוקציה, או בכל דרך אחרת, כי הביטוי a^n-b^n מתחלק ב-$(a+b)$ ללא שארית לכל n טבעי זוגי.

13) הוכח באינדוקציה, או בכל דרך אחרת, כי הביטוי $7^{n+2}+1$ מותיר שארית 2 בחלוקתו ב- 3 לכל n טבעי.

תשובות סופיות:

שאלות הוכחה.

סדרות:

סיכום כללי:

תזכורת:

- סדרה היא אוסף מספרים: $a_1, a_2, ..., a_n$, כאשר n הוא מיקום האיבר בסדרה ו- a_n הוא ערך האיבר העומד במקום ה- n-י בסדרה.
  - סדרה כללית – סדרה שבה כל איבר מוגדר לפי מקומו בסדרה.
  - סכום n האיברים הראשונים בסדרה יסומן ב- S_n והוא מקיים: $S_n = a_1 + ... + a_n$.

- סדרה חשבונית – סדרת מספרים שבה ההפרש בין כל שני איברים סמוכים הוא גודל קבוע. נוסחת האיבר הכללי היא: $a_n = a_1 + d(n-1)$ כאשר d הפרש הסדרה.
  - סכום n האיברים הראשונים הוא: $S_n = \frac{n(a_1 + a_n)}{2} = \frac{n}{2}\left[2a_1 + d(n-1)\right]$.

- סדרה הנדסית – סדרת מספרים שבה המנה בין כל שני איברים סמוכים היא גודל קבוע. נוסחת האיבר הכללי היא: $a_n = a_1 q^{n-1}$ כאשר q היא מנת הסדרה.
  - סכום n האיברים הראשונים הוא: $S_n = \frac{a_1(q^n - 1)}{q-1}$.

שאלות:

14) הוכח באינדוקציה, או בכל דרך אחרת, כי לכל n טבעי מתקיים: $1+2+3+4+...+n=\frac{n}{2}(n+1)$.

15) הוכח באינדוקציה, או בכל דרך אחרת, כי לכל n טבעי מתקיים: $4+7+10+13+...+(3n+1)=\frac{n}{2}(3n+5)$.

16) נתונה סדרה שבה: $a_n=n(n+2)$.

הוכח באינדוקציה, או בכל דרך אחרת, כי לכל n טבעי מתקיים: $S_n=\frac{n}{6}(n+1)(2n+7)$.

17) הוכח באינדוקציה, או בכל דרך אחרת, כי לכל n טבעי מתקיים:
$$\frac{1}{1\cdot 5}+\frac{1}{5\cdot 9}+\frac{1}{9\cdot 13}+\cdots+\frac{1}{(4n-3)(4n+1)}=\frac{n}{4n+1}.$$

18) הוכח באינדוקציה, או בכל דרך אחרת, כי לכל n טבעי מתקיים:
$$\frac{6}{1\cdot 3\cdot 5}+\frac{6}{3\cdot 5\cdot 7}+\cdots+\frac{6}{(2n-1)(2n+1)(2n+3)}=\frac{2n(n+2)}{(2n+1)(2n+3)}.$$

19) הוכח באינדוקציה, או בכל דרך אחרת, כי לכל n טבעי מתקיים:
$$1\cdot 1+2\cdot 3+3\cdot 9+...+n\cdot 3^{n-1}=\frac{1}{4}\left[3^n(2n-1)+1\right].$$

תשובות סופיות:

שאלות הוכחה.

עצרת:

סיכום כללי:

תזכורת – מושג העצרת:

עצרת מוגדרת להיות מכפלת האיברים עד לערך הנקוב: $n!=1\cdot 2\cdot 3\cdot ...\cdot n$.

מגדירים: $0!=1$ ותמיד מתקיימים השוויונות: $n!=n\cdot(n-1)!$, $(n+1)!=n!\cdot(n+1)$.

שאלות:

20) הוכח באינדוקציה, או בכל דרך אחרת, כי לכל n טבעי מתקיים:

$$\frac{1}{2!}+\frac{2}{3!}+\frac{3}{4!}+...+\frac{n}{(n+1)!}=1-\frac{1}{(n+1)!}$$

21) הוכח באינדוקציה, או בכל דרך אחרת, כי לכל n טבעי מתקיים:

$$\frac{1\cdot 2!}{2}+\frac{2\cdot 3!}{4}+\frac{3\cdot 4!}{8}+...+\frac{n(n+1)!}{2^n}=\frac{(n+2)!}{2^n}-2$$

22) הוכח באינדוקציה, או בכל דרך אחרת, כי לכל n טבעי מתקיים:

$$p!+\frac{(p+1)!}{1!}+\frac{(p+2)!}{2!}+...+\frac{(p+n-1)!}{(n-1)!}=\frac{(p+n)!}{(n-1)!(p+1)}$$

23) הוכח באינדוקציה, או בכל דרך אחרת, כי לכל n טבעי מתקיים:

$$\left(\frac{1}{1}+\frac{1}{1}\right)\left(\frac{1}{2}+\frac{1}{4}\right)\left(\frac{1}{3}+\frac{1}{9}\right)...\left(\frac{1}{n}+\frac{1}{n^2}\right)=\frac{n+1}{n!}$$

24) הוכח באינדוקציה, או בכל דרך אחרת, כי לכל n טבעי מתקיים:

$$\frac{5}{1\cdot 4}-\frac{11}{4\cdot 7}+\frac{17}{7\cdot 10}-...+\frac{(-1)^{n-1}(6n-1)}{(3n-2)(3n+1)}=1+\frac{(-1)^{n+1}}{3n+1}$$

תשובות סופיות:

שאלות הוכחה.

שאלות שבהן האיבר הכללי מורכב ממספר מחוברים:

שאלות:

25) הוכח באינדוקציה, או בכל דרך אחרת, כי לכל n טבעי מתקיים:

$$1+2+3+4+...+2n=n(2n+1)$$

26) הוכח באינדוקציה, או בכל דרך אחרת, כי לכל n טבעי מתקיים:

$$1^2+2^2+3^2+4^2+\cdots+(2n)^2=\frac{n}{3}(2n+1)(4n+1)$$

27) הוכח באינדוקציה, או בכל דרך אחרת, כי לכל n טבעי מתקיים:

$$1\cdot 2^0+2\cdot 2^1+3\cdot 2^2+4\cdot 2^3+...+3n\cdot 2^{3n-1}=(3n-1)2^{3n}+1$$

תשובות סופיות:

שאלות הוכחה.

שאלות העוסקות באינדוקציות עם איברים משתנים:

שאלות:

28) הוכח באינדוקציה, או בכל דרך אחרת, כי לכל n טבעי מתקיים:

$$n+(n+1)+(n+2)+(n+3)+...+(3n)=2n(2n+1)$$

29) הוכח באינדוקציה, או בכל דרך אחרת, כי לכל n טבעי מתקיים:

$$(n+1)^2+(n+2)^2+(n+3)^2+...+(2n)^2=\frac{n}{6}(2n+1)(7n+1)$$

30) הוכח באינדוקציה, או בכל דרך אחרת, כי לכל n טבעי מתקיים:

$$\left(1-\frac{1}{n+1}\right)\left(1-\frac{1}{n+2}\right)\left(1-\frac{1}{n+3}\right)...\left(1-\frac{1}{2n}\right)=\frac{1}{2}$$

31) הוכח באינדוקציה, או בכל דרך אחרת, כי לכל n טבעי מתקיים:

$$(n+1)(n+2)\cdot\ldots\cdot(2n)=2^n\cdot1\cdot3\cdot5\cdot\ldots\cdot(2n-1)$$

32) הוכח באינדוקציה, או בכל דרך אחרת, כי לכל n טבעי מתקיים:

$$1-\frac{1}{2}+\frac{1}{3}-\frac{1}{4}+\cdots-\frac{1}{2n}=\frac{1}{n+1}+\frac{1}{n+2}+\cdots+\frac{1}{2n}$$

תשובות סופיות:

שאלות הוכחה.

שאלות העוסקות בהוכחת באי-שוויונים באינדוקציה:

שאלות:

33) הוכח באינדוקציה, או בכל דרך אחרת, כי לכל n טבעי הגדול מ-1 מתקיים:

$$\frac{1}{3^2}+\frac{1}{4^2}+\cdots+\frac{1}{(n+1)^2}<\frac{n}{n+1}$$

34) הוכח באינדוקציה, או בכל דרך אחרת, כי לכל n טבעי מתקיים:

$$\frac{1}{1!}+\frac{1}{2!}+\frac{1}{3!}+\cdots+\frac{1}{n!}\le 2-\frac{1}{n}$$

35) הוכח באינדוקציה, או בכל דרך אחרת, כי לכל n טבעי הגדול מ-2 מתקיים:

$$\frac{1}{n+1}+\frac{1}{n+2}+\frac{1}{n+3}+\cdots+\frac{1}{2n}>\frac{3}{5}$$

36) נתונה סדרה שבה: $a_n=n^n$. נגדיר: $T_n=a_1\cdot a_2\cdot a_3\cdot\ldots\cdot a_n$.

הוכח באינדוקציה, או בכל דרך אחרת, כי לכל n טבעי מתקיים: $T_n\le n^{\frac{n}{2}(n+1)}$.

37) נתון אי-השוויון: $2^n>n^2$. מצא את ה-n המינימלי שממנו מתקיים אי-השוויון לכל המספרים הטבעיים הגדולים ממנו והוכח באינדוקציה כי אי-השוויון מתקיים לכל n טבעי החל מה-n שמצאת.

38) נתון אי-השוויון: $4^n>5n^2+1$. מצא את ה-n המינימלי שממנו מתקיים אי-השוויון לכל המספרים הטבעיים הגדולים ממנו והוכח באינדוקציה כי אי-השוויון מתקיים לכל n טבעי החל מה-n שמצאת.

39) נתון אי-השוויון: $n^3-n<5^{n-1}$. מצא את ה-n המינימלי שממנו מתקיים אי-השוויון לכל המספרים הטבעיים הגדולים ממנו והוכח באינדוקציה כי אי-השוויון מתקיים לכל n טבעי החל מה-n שמצאת.

40) נתון אי-השוויון: $3^n+4^n+5^n<6^n$. מצא את ה-n המינימלי שממנו מתקיים אי-השוויון לכל המספרים הטבעיים הגדולים ממנו והוכח באינדוקציה כי אי-השוויון מתקיים לכל n טבעי החל מה-n שמצאת.

41) נתון אי-השוויון: $n^n \geq n!$. הוכח באינדוקציה, או בכל דרך אחרת, כי אי-השוויון מתקיים לכל n טבעי.

42) נתון אי-השוויון: $a^n + b^n < (a+b)^n$, $(a,b>0)$.

הוכח באינדוקציה, או בכל דרך אחרת, כי אי-השוויון מתקיים לכל n טבעי הגדול מ-1.

תשובות סופיות:

שאלות הוכחה.

שאלות כוללות ומסכמות:

שאלות:

43) נתון השוויון: $4+7+10+13+...=\frac{n}{2}(3n+5)$.

א. מצא את האיבר במקום ה-n.

ב. הוכח באינדוקציה, או בכל דרך אחרת, כי השוויון מתקיים לכל n טבעי.

ג. חשב את הסכום: $37+40+43+...+85$.

44) נתון השוויון: $\frac{2}{3}+\frac{6}{9}+\frac{10}{27}+...=2-\frac{2n+2}{3^n}$. מצא את האיבר במקום ה-$n$.

45) נתון השוויון: $\frac{1}{1\cdot 5}+\frac{1}{5\cdot 9}+\frac{1}{9\cdot 13}+\cdots=\frac{n}{4n+1}$.

א. מצא את האיבר במקום ה-n.

ב. הוכח באינדוקציה, או בכל דרך אחרת, כי השוויון מתקיים לכל n טבעי.

ג. חשב את הסכום: $\frac{1}{25\cdot 29}+\frac{1}{29\cdot 33}+\frac{1}{33\cdot 37}+\cdots+\frac{1}{89\cdot 93}$.

46) נתון השוויון: $(n+1)^2+(n+2)^2+(n+3)^2+...+(2n)^2=\frac{n}{6}(2n+1)(7n+1)$.

א. הוכח באינדוקציה, או בכל דרך אחרת, כי השוויון מתקיים לכל n טבעי.

ב. חשב באמצעות סעיף א' את הסכום: $26^2+27^2+28^2+...+48^2$.

47) נתון השוויון: $1^2+2^2+3^2+4^2+\cdots+(2n)^2=\frac{n}{3}(2n+1)(4n+1)$.

א. הוכח באינדוקציה, או בכל דרך אחרת, כי השוויון מתקיים לכל n טבעי.

ב. הבע באמצעות n את הסכום: $4^2+6^2+8^2+\cdots+(4n)^2$.

48) נתונים השוויונים הבאים:

א. $3n+(3n+1)+(3n+2)+\cdots+4n=\frac{7}{3}(n^2+3n-1)$.

ב. $3n+(3n+1)+(3n+2)+\cdots+4n=n^2+11n-5$.

ג. $3n+(3n+1)+(3n+2)+\cdots+4n=\frac{7n}{2}(n+1)$.

קבע איזה מהשוויונים נכון לכל n טבעי, והוכח אותו באינדוקציה.

49) נתון השוויון: $n+(n+1)+(n+2)+(n+3)+...+(3n)=an(2n+b)$.

א. נתון כי השוויון נכון עבור $n=1$ ו- $n=2$. מצא את ערכי a ו- b.

ב. הוכח באינדוקציה, או בכל דרך אחרת, כי השוויון מתקיים לכל n טבעי.

50) נתון אי-השוויון: $\frac{1}{n+1}+\frac{1}{n+2}+\cdots+\frac{1}{2n}>\frac{3}{5}$.

א. הוכח באינדוקציה, או בכל דרך אחרת, כי אי-השוויון מתקיים לכל n טבעי הגדול מ-2.

ב. הוכח באמצעות סעיף א' כי מתקיים: $\frac{1}{11}+\frac{1}{12}+\frac{1}{13}+\cdots+\frac{1}{18}>\frac{1}{2}$.

51) נתון אי-השוויון: $n^2<2^n$.

א. הוכח באינדוקציה, או בכל דרך אחרת, כי אי-השוויון מתקיים לכל n טבעי הגדול מ-4.

ב. הוכח באמצעות סעיף א' כי מתקיים: $5^2\cdot 6^2\cdot 7^2\cdot 8^2\cdot ...\cdot 20^2<2^{200}$.

52) הוכח באינדוקציה, או בכל דרך אחרת, כי הסכום: $9+27+81+\cdots+3^{3n+1}$ מתחלק ב-117 ללא שארית לכל n טבעי.

53) ענה על הסעיפים הבאים:

א. הוכח באינדוקציה, או בכל דרך אחרת, כי הביטוי n^3+5n מתחלק ב-6 ללא שארית לכל n טבעי.

ב. נתון כי $a+b$ מתחלק ב-6 ללא שארית.
הוכח כי a^3+b^3 מתחלק ב-6 ללא שארית.

54) ענה על הסעיפים הבאים:

א. הוכח את הטענה: אם ל- n טבעי מסוים 3^n+5^n מתחלק ב-16 ללא שארית אז גם $3^{n+2}+5^{n+2}$ מתחלק ב-16 ללא שארית.

ב. האם מהטענה בסעיף א' נובע כי 3^n+5^n מתחלק ב-16 ללא שארית עבור כל n טבעי אי-זוגי?

ג. הוכח באינדוקציה, או בכל דרך אחרת, כי הביטוי 3^n+5^n מתחלק ב-8 ללא שארית לכל n טבעי אי-זוגי.

תשובות סופיות:

שאלות הוכחה.

מושג הסכימה וכתיבה מקוצרת של אינדוקציות:

סיכום כללי:

סימון הסכימה (קרי: סיגמה) מוגדר באופן הבא: $\sum_{k=1}^{n} a_k = a_1 + a_2 + ... + a_n$.

מקור הסימון נובע מהמילה Sum ומשמעו הוא סכימה של איברים המתחילים בערך המצוין בתחתית הסימון $\left(\sum_{\boxed{k=1}}^{n}\right)$ עד לערך המצוין בחלקו העליון $\left(\sum_{k=1}^{\boxed{n}}\right)$.

דוגמאות:

- $\sum_{k=1}^{n} k = 1+2+3+...+n$.
- $\sum_{k=3}^{12} k^2 = 3^2+4^2+...+12^2$.
- $\sum_{k=1}^{2n} \frac{1}{2k+1} = \frac{1}{5}+\frac{1}{9}+....+\frac{1}{4n+1}$.

שאלות:

1) הוכח באינדוקציה כי לכל n טבעי מתקיים: $\sum_{k=1}^{n} k^2 = \frac{n}{6}(n+1)(2n+1)$.

2) הוכח באינדוקציה כי לכל n טבעי מתקיים: $\sum_{k=1}^{n} \frac{1}{k(k+1)} = \frac{n}{n+1}$.

3) הוכח באינדוקציה כי לכל n טבעי מתקיים: $\sum_{k=1}^{n} \frac{1}{(4k-3)(4k+1)} = \frac{n}{4n+1}$.

4) הוכח באינדוקציה כי לכל n טבעי מתקיים: $\sum_{k=1}^{n} 2^k = 2(2^n-1)$.

5) הוכח באינדוקציה כי לכל n טבעי מתקיים: $\sum_{k=1}^{n}\frac{3}{4^{k-1}}=4-\frac{1}{4^{n-1}}$.

6) הוכח באינדוקציה כי לכל n טבעי מתקיים: $\sum_{k=1}^{3n}k=1\frac{1}{2}n(3n+1)$.

7) הוכח באינדוקציה כי לכל n טבעי מתקיים: $\sum_{k=1}^{3n}(4k-1)=3n(6n+1)$.

8) הוכח באינדוקציה כי לכל n טבעי מתקיים: $\sum_{k=1}^{n}(n+k)=\frac{n}{2}(3n+1)$.

9) הוכח באינדוקציה כי לכל n טבעי מתקיים: $\sum_{k=1}^{n}3^{n+k}=\frac{3^{n+1}(3^n-1)}{2}$.

תשובות סופיות:

שאלות הוכחה.

מכינה אקדמית במתמטיקה למדעי המחשב 1400004

פרק 10 - אלגברה - מספרים מרוכבים

תוכן העניינים

1. הגדרת המספר המרוכב 198
2. המספר הצמוד 201
3. חקירת משוואה ריבועית מרוכבת 204
4. מישור גאוס והצגה קוטבית של מספר מרוכב 205
5. נוסחת דה-מואבר למציאת שורשים של מספר מרוכב 209
6. שאלות בסדרות עם מספרים מרוכבים 211
7. שאלות שונות עם מספרים מרוכבים 212

הגדרת המספר המרוכב:

סיכום כללי:

הגדרות כלליות:

ע"י הסימון: $i=\sqrt{-1}$ מגדירים את המספר מהצורה: $z=a+bi$ כמספר מרוכב בעל חלק ממשי a וחלק מדומה b. המספרים a ו- b הם ממשיים.

a נקרא הרכיב הממשי של z ומסומן גם $\mathrm{Re}(z)$ (מלשון: Real).

b נקרא הרכיב המדומה של z ומסומן גם $\mathrm{Im}(z)$ (מלשון: Imaginary).

שאלות:

1) רשום עם i:

א. $\sqrt{-1}=$ ב. $\sqrt{-4}=$ ג. $\sqrt{-25}=$

ד. $\sqrt{-3}=$ ה. $\sqrt{-5}=$

2) חשב:

א. $i=$ ב. $i^2=$ ג. $i^3=$

ד. $i^4=$ ה. $i^5=$ ו. $i^{17}=$

3) רשום את ערכם של a ו- b בעבור המספרים המרוכבים הבאים:

א. $2+5i$ ב. $3-i$ ג. $\frac{\sqrt{3}}{2}-\frac{1}{2}i$

ד. $7i$ ה. -4 ו. 0

4) כתוב מספר מרוכב z לפי הדרישות הבאות:

א. $\mathrm{Re}(z)=-3\,,\ \mathrm{Im}(z)=2$.

ב. $\mathrm{Re}(z)=\mathrm{Im}(z)=\frac{\sqrt{2}}{2}$.

5) מספר מרוכב מסוים z מקיים: $\mathrm{Re}(z)+\mathrm{Im}(z)=4$ ו- $\mathrm{Re}(z)-\mathrm{Im}(z)=-1$.
מצא את z.

6) פתור את המשוואות הבאות:

א. $x^2=-1$ ב. $x^2+36=0$ ג. $x^2-2x+5=0$

7) פתור את המשוואה הבאה: $x^2+x+1=0$.

8) פתור את המשוואה הבאה: $z^2+iz+6=0$.

9) נתון: $z_1=2+3i$, $z_2=5-2i$. חשב את ערכי הביטויים המרוכבים הבאים:

א. $z_1+z_2=$ ב. $z_1-z_2=$ ג. $z_1\cdot z_2=$

10) חשב את ערכי הביטויים הבאים:

א. $(-2+6i)+(1-i)$ ב. $(4+4i)-\left(3+\frac{1}{2}i\right)$

ג. $\left(\frac{1}{2}-\frac{\sqrt{3}}{2}i\right)-\left(\frac{1}{2}+\frac{\sqrt{3}}{2}i\right)$ ד. $5-(3-2i)$

ה. $(i-3)+6i$ ו. $(i+2)-(3i-2)+(7-5i)$

11) חשב את ערכי הביטויים הבאים:

א. $(1+4i)\cdot(8-2i)$ ב. $\left(\frac{\sqrt{2}}{2}-\frac{\sqrt{2}}{2}i\right)\cdot\left(\frac{1}{2}+\frac{\sqrt{3}}{2}i\right)$

ג. $(4i-3)\cdot(4i+3)$ ד. $i\cdot(i-1)$

ה. $(2i+3)\cdot i$ ו. $(5i-1)^2$

12) נתונים שני מספרים מרוכבים $z_1 = a_1 + b_1 i$ ו- $z_2 = a_2 + b_2 i$.
ידוע כי $z_1 + z_2$ הוא ממשי וכי $z_1 - z_2$ הוא מדומה.

א. מצא קשר בין a_1 ל- a_2 וקשר בין b_1 ו- b_2 .

ב. הראה כי המכפלה $z_1 \cdot z_2$ היא ממשית.

תשובות סופיות:

1) א. i ב. $2i$ ג. $5i$ ד. $\sqrt{3}i$ ה. $\sqrt{5}i$.

2) א. i ב. -1 ג. $-i$ ד. 1 ה. i ו. i .

3) א. $a=2\ ,\ b=5$ ב. $a=3\ ,\ b=-1$ ג. $a=\frac{\sqrt{3}}{2}\ ,\ b=-\frac{1}{2}$
ד. $a=0\ ,\ b=7$ ה. $a=-4\ ,\ b=0$ ו. $a=0\ ,\ b=0$.

4) א. $z=-3+2i$ ב. $z=\frac{\sqrt{2}}{2}+\frac{\sqrt{2}}{2}i$.

5) $z=1.5+2.5i$.

6) א. $x=\pm i$ ב. $x=\pm 6i$ ג. $x=1+2i\ ,\ 1-2i$.

7) $z=-\frac{1}{2}+\frac{\sqrt{3}}{2}i\ ,\ -\frac{1}{2}-\frac{\sqrt{3}}{2}i$.

8) $z=2i\ ,\ -3i$.

9) א. $7+i$ ב. $-3+5i$ ג. $16+11i$.

10) א. $-1+5i$ ב. $1+3\frac{1}{2}i$ ג. $-\sqrt{3}i$ ד. $2+2i$ ה. $-3+7i$ ו. $11-7i$

11) א. $16+30i$ ב. $\frac{\sqrt{6}+\sqrt{2}}{4}+i\left(\frac{\sqrt{6}-\sqrt{2}}{4}\right)$ ג. -25 ד. $-1-i$
ה. $-2+3i$ ו. $-24-10i$.

12) א. $a_1=a_2\ ,\ b_1=-b_2$ ב. הוכחה.

המספר הצמוד:

סיכום כללי:

צמוד קומפלקסי (מרוכב):

לכל מספר מרוכב $z=a+bi$ קיים מספר צמוד המסומן ב- $\bar{z}$ וערכו: $\bar{z}=a-bi$.

שאלות:

13) רשום את המספר הצמוד של המספרים המרוכבים הבאים:

א. $2+5i$ ב. $3-i$ ג. $\frac{\sqrt{3}}{2}-\frac{1}{2}i$

ד. $7i$ ה. -4 ו. 0

14) חשב:

א. $\frac{11+2i}{2-i}$ ב. $\frac{3+7i}{2-5i}$ ג. $\frac{19-9i}{2-3i}$

15) נתון מספר $z=5-2i$. חשב את ערכי הביטויים הבאים:

א. $\frac{1}{z}$ ב. $\frac{z}{z+3}$ ג. $\frac{z+i}{z-i}$

16) המספר $\frac{3+4i}{a-i}$ הוא ממשי טהור. מצא את a.

17) נתונים שני מספרים מרוכבים $z_1=a_1+b_1i$ ו- $z_2=a_2+b_2i$.

הראה כי כדי שתוצאת החילוק $\frac{z_1}{z_2}$ תהיה ממשית טהורה, צריך להתקיים: $\frac{a_1}{a_2}=\frac{b_1}{b_2}$.

18) פתור את המשוואה הבאה: $3z-11=iz-7i$.

19) פתור את המשוואה הבאה: $iz+5=4i$.

20) פתור את מערכת המשוואות הבאה (z ו-w משתנים מרוכבים): $\begin{cases}3z+iw=5-4i\\5iz-2w=5+8i\end{cases}$.

21) פתור את המשוואות הבאות שבהן a ו-b ממשיים:

א. $2a-3i=10+bi$

ב. $3a-8+5bi=2b-ai-3i$

22) פתור את המשוואה הבאה: $2z+7i=iz+\bar{z}-3$.

23) חשב את ערכי המספרים המרוכבים הבאים:

א. $\sqrt{5-12i}$

ב. $\sqrt{8+6i}$

24) פתור את המשוואות הריבועיות הבאות:

א. $(1-i)z^2-2z+i+1=0$.

ב. $(-2+i)z^2-(6+12i)z+10-25i=0$.

25) פתור את המשוואה הבאה: $iz^2-2(1-i)z+6+15i=0$.

26) פתור את המשוואה הבאה: $z^2-i\bar{z}+6=0$.

תשובות סופיות:

13) א. $2-5i$ ב. $3+i$ ג. $\frac{\sqrt{3}}{2}+\frac{1}{2}i$ ד. $-7i$ ה. -4 ו. 0.

14) א. $4+3i$ ב. $-1+i$ ג. $5+3i$.

15) א. $\frac{5}{29}+\frac{2}{29}i$ ב. $\frac{11}{17}-\frac{3}{34}i$ ג. $\frac{14}{17}+\frac{5}{17}i$.

16) $a=-\frac{3}{4}$.

17) שאלת הוכחה.

18) $z=4-i$.

19) $z=4+5i$.

20) $z=2-3i\ ,\ w=5+i$.

21) א. $a=5\ ,\ b=-3$ ב. $a=2\ ,\ b=-1$.

22) $z=-\frac{1}{2}-2\frac{1}{2}i$.

23) א. $z=\pm(3-2i)$ ב. $z=\pm(3+i)$.

24) א. $z_{1,2}=i\ ,\ 1$ ב. $z_{1,2}=-2-i\ ,\ 2-5i$.

25) $z_1=-2-5i\ ,\ z_2=3i$.

26) $z_1=-3i\ ,\ z_2=2i$.

חקירת משוואה ריבועית מרוכבת:

שאלות:

27) נתונה המשוואה הבאה: $(mi-2)z^2-2(m+2i)z+1=0$

מצא לאלו ערכים של הפרמטר המרוכב m למשוואה:

א. יש פתרון יחיד.

ב. אין פתרון.

תשובות סופיות:

27) א. $m=-i$ ב. $m=-2i$.

מישור גאוס והצגה קוטבית של מספר מרוכב:

סיכום כללי:

ניתן לאפיין מספר מרוכב z ע"י הצגתו במישור שבו ציר ה-x מייצג את a , גודל הערך הממשי של z , וציר ה-y מייצג את b, גודל הערך המדומה של z.

מישור זה נקרא מישור גאוס ומופיע באיור הסמוך.

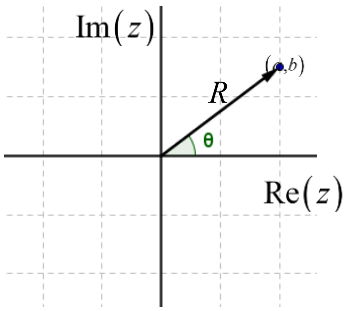

במישור גאוס ניתן לאפיין כל נקודה ע"י הזוג: (a,b)

או ע"י הערך המוחלט של המספר (מרחקו מ-$(0,0)$)

והזווית שלו בין הקרן החיובית של הציר הממשי לרדיוס.

הצמד הנ"ל מוגדר כהצגה קוטבית של מספר מרוכב

ויסומן: (R,θ). מספר מרוכב בהצגה קוטבית:

$z = R\cos\theta + i\cdot R\sin\theta = R(\cos\theta + i\sin\theta) = R\text{cis}\theta$.

נוסחאות ומעברים:

- מעבר מהצגה קוטבית לקרטזית (אלגברית): $\tan\theta = \frac{b}{a}$, $R = \sqrt{a^2+b^2}$.
- מעבר מהצגה קרטזית לקוטבית: $a = R\cos\theta$, $b = R\sin\theta$.
- גודל של מספר מרוכב z יסומן: $|z|$ ויחושב: $|z| = R = \sqrt{a^2+b^2}$.

פעולות חשבון בהצגה קוטבית:

- כפל מספרים מרוכבים: $z_1\cdot z_2 = (R_1\text{cis}\theta_1)\cdot(R_2\text{cis}\theta_2) = R_1R_2\text{cis}(\theta_1+\theta_2)$.
- חילוק מספרים מרוכבים: $\frac{z_1}{z_2} = \frac{R_1\text{cis}\theta_1}{R_2\text{cis}\theta_2} = \frac{R_1}{R_2}\text{cis}(\theta_1-\theta_2)$.

שאלות:

28) כתוב את המספרים המרוכבים הבאים בהצגה אלגברית:

א. $2\text{cis}60°$ ב. $6\text{cis}135°$ ג. $4\text{cis}330°$

ד. $4\text{cis}(-30°)$ ה. $4\text{cis}690°$ ו. $8\text{cis}90°$

ז. $3\text{cis}270°$ ח. $\text{cis}180°$ ט. $\text{cis}0°$

29) הפוך להצגה קוטבית:

א. $1+i$ ב. $\sqrt{3}-i$ ג. $-\frac{1}{2}-\frac{\sqrt{3}}{2}i$

ד. $3+4i$ ה. $6i$ ו. $-i$

ז. 4 ח. -1 ט. 1

י. 0

30) חשב את ערכי הביטויים הבאים:

א. $2\text{cis}120°\cdot 3\text{cis}60°$ ב. $\text{cis}210°\cdot 5\text{cis}(-40°)$

ג. $\frac{12\text{cis}315°}{3\text{cis}90°}$ ד. $\frac{1}{2\text{cis}40°}$

ה. $6\text{cis}30°+2\text{cis}210°$

31) נתון המספר המרוכב $z=R\text{cis}\theta$. הבע באמצעות R ו-θ את המספרים:

א. $\bar{z}$ ב. $1/z$ ג. $-z$

ד. $-\frac{1}{z}$ ה. iz ו. $z\cdot\bar{z}$

32) הראה כי המספרים הבאים הם ממשיים טהורים:

א. $z+\bar{z}$ ב. $z\cdot\bar{z}$ ג. $\frac{z}{\bar{z}}+\frac{\bar{z}}{z}$

33) הראה כי המספרים הבאים הם מדומים טהורים:

א. $z^2-\bar{z}^2$ ב. $\frac{1}{\bar{z}}-\frac{1}{z}$

34) הוכח את הטענות הבאות:

א. $z - i\overline{z} = \overline{\overline{z} + iz}$ ב. $z \cdot \overline{z} = |z|^2$

35) מצא את קדקודיו של ריבוע החסום במעגל קנוני שרדיוסו $\sqrt{2}$ במישור גאוס אם ידוע שצלעותיו מקבילות לצירים.

36) ריבוע חסום במעגל קנוני במישור גאוס. אחד מקודקודי הריבוע הוא $1+\sqrt{3}i$.
מצא את קדקודיו האחרים.

37) משולש שווה צלעות חסום במעגל קנוני במישור גאוס.
אחד מקודקודי המשולש הוא $1+\sqrt{3}i$. מצא את קדקודיו האחרים.

38) משולש שווה שוקיים, שזווית הבסיס שלו היא $30°$ חסום במעגל קנוני במישור גאוס. קדקוד הראש של המשולש הוא $1+\sqrt{3}i$. מצא את קדקודיו האחרים.

39) z הוא מספר מרוכב במישור גאוס הנמצא מחוץ למעגל היחידה.
קבע אם המספרים הבאים נמצאים בתוך מעגל היחידה, עליו או מחוץ לו:

א. $\overline{z}$ ב. $\frac{1}{z}$ ג. $\frac{z}{\overline{z}}$ ד. $z \cdot \overline{z}$

תשובות סופיות:

28) א. $1+\sqrt{3}i$ ב. $-3\sqrt{2}+3\sqrt{2}i$ ג. $2\sqrt{3}-2i$ ד. $2\sqrt{3}-2i$
ה. $2\sqrt{3}-2i$ ו. $8i$ ז. $-3i$ ח. -1 ט. 1.

29) א. $\sqrt{2}\text{cis}45°$ ב. $2\text{cis}330°$ ג. $\text{cis}240°$ ד. $5\text{cis}53.13°$
ה. $6\text{cis}90°$ ו. $\text{cis}270°$ ז. $4\text{cis}0°$ ח. $\text{cis}180°$
ט. $\text{cis}0°$ י. 0.

30) א. -6 ב. $5\text{cis}170°$ ג. $4\text{cis}225°$ ד. $\frac{1}{2}\text{cis}(-40°)$
ה. $4\text{cis}30°$.

31) א. $R\text{cis}(-\theta)$ ב. $\frac{1}{R}\text{cis}(-\theta)$ ג. $R\text{cis}(180°+\theta)$
ד. $\frac{1}{R}\text{cis}(180°+\theta)$ ה. $R\text{cis}(90°+\theta)$ ו. R^2.

32) שאלת הוכחה.

33) שאלת הוכחה.

34) שאלת הוכחה.

35) $1-i$, $-1-i$, $-1+i$, $1+i$.

36) $\sqrt{3}-i$, $-1-\sqrt{3}i$, $-\sqrt{3}+i$.

37) -2, $1-\sqrt{3}i$, $1+\sqrt{3}i$.

38) 2, $-1+\sqrt{3}i$, $1+\sqrt{3}i$.

39) א. מחוץ למעגל. ב. בתוך המעגל ג. על המעגל
ד. מחוץ למעגל.

נוסחת דה-מואבר למציאת שורשים של מספר מרוכב:

סיכום כללי:

משפט דה-מואבר:

כדי להעלות מספר מרוכב z בחזקת n נעזר בקשר: $(R\text{cis}\theta)^n = R^n\text{cis}(n\theta)$.

שורשים של מספר מרוכב:

כדי להוציא שורש n-י של מספר מרוכב z השווה למספר מרוכב אחר $z_0 = R_0\text{cis}\theta_0$

נבצע: $1 \le k \le n$: $z^n = z_0 = R_0\text{cis}\theta_0 \,/\, \sqrt[n]{\ } \quad \Rightarrow \quad z_k = \sqrt[n]{R_0}\cdot\text{cis}\left(\frac{\theta_0}{n}+\frac{2\pi k}{n}\right)$.

שאלות:

40) חשב את ערכי הביטויים הבאים תוך שימוש בנוסחת דה-מואבר:

א. $(2\text{cis}30°)^3$ ב. $(2\text{cis}14°)^5$ ג. $(1+i)^4$

ד. $(\sqrt{3}-i)^3$ ה. $\left(-\frac{1}{2}+\frac{\sqrt{3}}{2}i\right)^{12}$

41) פתור את המשוואות הבאות:

א. $z^2 = 36\text{cis}120°$ ב. $z^4 = (9\text{cis}80°)^2$ ג. $z^5 = \frac{1}{2}+\frac{\sqrt{3}}{2}i$

42) מצא את סכום ומכפלת שורשי היחידה מסדר 4.

43) נתון המספר המרוכב $z = x+iy$.

מצא את המקום הגאומטרי במישור גאוס המתקבל בעבור המשוואה: $|z| = 2$.

44) נתון המספר המרוכב $z = x + iy$.

מצא את המקום הגאומטרי במישור גאוס המתקבל בעבור המשוואה : $|z - 3i| = 5$.

45) נתון המספר המרוכב $z = x + iy$. מצא את המקום הגאומטרי במישור גאוס המתקבל בעבור המשוואה : $|z + i| + |\bar{z} + i| = |1 + 3i|$.

תשובות סופיות:

40) א. $8i$ ב. $32\text{cis}70°$ ג. -4 ד. $-8i$ ה. 1.

41) א. $z_0 = 6\text{cis}60°$, $z_1 = 6\text{cis}240°$.

ב. $z_0 = 3\text{cis}40°$, $z_1 = 3\text{cis}130°$, $z_2 = 3\text{cis}220°$, $z_3 = 3\text{cis}310°$.

ג. $z_0 = \text{cis}12°$, $z_1 = \text{cis}84°$, $z_2 = \text{cis}156°$, $z_3 = \text{cis}228°$, $z_4 = \text{cis}300°$.

42) סכום : 0 , מכפלה : -1 .

43) $x^2 + y^2 = 4$.

44) $x^2 + (y-3)^2 = 25$.

45) $\frac{2x^2}{3} + \frac{2y^2}{5} = 1$.

שאלות בסדרות עם מספרים מרוכבים:

שאלות:

46) בסדרה חשבונית האיבר השביעי הוא $a_7 = 13+3i$ והאיבר השלישי הוא $a_3 = 5-9i$. מצא את סכום עשרת האיברים הראשונים בסדרה.

47) בסדרה הנדסית האיבר החמישי הוא $a_5 = 32+16i$ והאיבר השני הוא $a_2 = 2-4i$.

א. מצא את האיבר הראשון בסדרה ואת מנת הסדרה, אם נתון שמנת הסדרה היא מספר מרוכב הנמצא על הציר המדומה במישור גאוס.

ב. מצא את סכום חמשת האיברים הראשונים בסדרה.

48) נתונים שלושה איברים סמוכים בסדרה הנדסית. האיבר הראשון ביניהם הוא 2. נתון כי אם מוסיפים לאיבר השלישי $4i$ מתקבלים שלושה איברים סמוכים בסדרה חשבונית. מצא את שלושת איברי הסדרה ההנדסית (שתי אפשרויות).

תשובות סופיות:

46) $S_{10} = 100-15i$.

47) א. $a_1 = 2+i$, $q = -2i$ ב. $S_5 = 20+25i$.

48) -2 , $2i$, 2 או $6-8i$, $4-2i$, 2.

שאלות שונות עם מספרים מרוכבים:

שאלות:

49) פתור את המשוואה: $z-\bar{z}+|z|=|2-i|^2-4i+\mathrm{Im}(z)$.

50) פתור את המשוואה: $\left|2-3^{x^2-x-1}i\right|=\sqrt{13}$.

51) פתור את המשוואה: $z^3=\bar{z}$.

52) הוכח: אם מקדמי משוואה ריבועית הם מספרים ממשיים ואין למשוואה פתרונות ממשיים אז פתרונות המשוואה הם שני מספרים צמודים.

53) נתונים שני מספרים מרוכבים שאינם ממשיים טהורים.
הוכח: אם סכום המספרים ממשי ומכפלתם ממשית אז המספרים צמודים.

54) נתון מספר מרוכב z, שאינו ממשי טהור ואינו מדומה טהור.
הוכח כי אם $z-\frac{1}{\bar{z}}$ ממשי אז z על מעגל היחידה.

55) הוכח את הנוסחה הבאה: $R_1\mathrm{cis}\theta_1\cdot R_2\mathrm{cis}\theta_2=R_1R_2\mathrm{cis}(\theta_1+\theta_2)$.

56) z הוא מספר מרוכב על מעגל היחידה ברביע הראשון.
נתון: $\left|z^4-z^3\right|=\sqrt{2-\sqrt{3}}$. מצא את $\arg(z)$.

57) z הוא מספר מרוכב על מעגל היחידה.
מצא את ערך הביטוי $z+iz$, אם ידוע שהוא ממשי.

58) z_1 ו- z_2 הם פתרונות המשוואה הבאה: $z^2-2\cos\theta\cdot z+1=0$.
הבע באמצעות θ את גודל הזווית $\sphericalangle z_1Oz_2$ (O ראשית הצירים).

תשובות סופיות:

49) $z_1=3-4i$, $z_2=-3-4i$.

50) $x=2$, -1.

51) $z_1=0$, $z_2=i$, $z_3=-i$, $z_4=1$, $z_5=-1$.

52) שאלת הוכחה.

53) שאלת הוכחה.

54) שאלת הוכחה.

55) שאלת הוכחה.

56) $\arg(z)=30°$.

57) $z+iz=\sqrt{2}$, $-\sqrt{2}$.

58) 2θ.

מכינה אקדמית במתמטיקה למדעי המחשב 1400004

פרק 11 - הסתברות קלאסית

תוכן העניינים

1. שאלות יסודיות 214
2. שאלות עם שני ניסויים 217
3. שאלות עם הסתברות מותנית 219
4. שאלות עם נעלמים 221
5. שאלות הנפתרות באמצעות טבלה דו-מימדית 223
6. התפלגות בינומית ונוסחת ברנולי – שאלות יסודיות 225
7. התפלגות בינומית ונוסחת ברנולי – שאלות עם הסתברות מותנית 226
8. התפלגות בינומית ונוסחת ברנולי – שאלות עם נעלמים 227
9. שאלות מסכמות 230

שאלות יסודיות:

סיכום כללי:

1. ההסתברות להתרחשות מאורע A: $P(A)=\frac{\text{מספר האפשרויות הרצוי}}{\text{מספר האפשרויות הכולל}}$

2. המאורע המשלים למאורע A: $P(\bar{A})=1-P(A)$.

3. חיתוך ואיחוד מאורעות A ו-B: $P(A\cup B)=P(A)+P(B)-P(A\cap B)$.

4. מאורעות זרים הם מאורעות שלא יכולים להתקיים בו זמנית.
עבור מאורעות זרים A ו-B מתקיים: $P(A\cap B)=0$, $P(A\cup B)=P(A)+P(B)$.

5. מאורעות נקראים בלתי תלויים אם קיום האחד מהם לא משפיע על ההסתברות לקיומו של השני.
עבור מאורעות בלתי תלויים A ו-B מתקיים: $P(A\cap B)=P(A)\cdot P(B)$.

6. אם מתקיים: $P(A\cap B)\neq P(A)\cdot P(B)$ המאורעות תלויים.

7. הסתברות מותנית של מאורע A בהינתן מאורע B מוגדרת: $P(A/B)=\frac{P(A\cap B)}{P(B)}$.

8. צורה כללית של טבלת הסתברויות עבור מאורעות A ו-B:

	$\bar{A}$	A	
$P(B)$	$P(\bar{A}\cap B)$	$P(A\cap B)$	B
$P(\bar{B})$	$P(\bar{A}\cap\bar{B})$	$P(A\cap\bar{B})$	$\bar{B}$
1	$P(\bar{A})$	$P(A)$	

קשרים מידיים מהטבלה:
- $P(A\cap B)+P(\bar{A}\cap B)=P(B)$
- $P(A\cap\bar{B})+P(\bar{A}\cap\bar{B})=P(\bar{B})$
- $P(A\cap B)+P(A\cap\bar{B})=P(A)$
- $P(\bar{A}\cap B)+P(\bar{A}\cap\bar{B})=P(\bar{A})$

9. התפלגות בינומית: חישוב k הצלחות מתוך n ניסיונות בלתי תלויים כאשר ההסתברות להצלחה בניסיון בודד היא p נתונה ע"י: $P_n(k)=\binom{n}{k}p^k(1-p)^{n-k}$.

שאלות:

1) בכד 3 כדורים כחולים ו-7 כדורים לבנים.
מה ההסתברות להוצאת כדור כחול בהוצאה אקראית של כדור מהכד?

2) בכד 2 כדורים כחולים, 3 כדורים אדומים ו-7 כדורים לבנים.
מה ההסתברות שבהוצאה אקראית של כדור מהכד לא ייצא כדור אדום?

3) מהי ההסתברות שבסיבוב סביבון לא יתקבל "נס"?

4) עבור שני מאורעות, A ו-B נתון: $P(A)=0.6$, $P(\overline{B})=0.3$, $P(A\cap B)=0.4$.
מצא את $P(A\cup B)$.

5) עבור שני מאורעות, A ו-B נתון: $P(\overline{A})=0.2$, $P(\overline{B})=0.5$, $P(A\cup B)=0.95$.
מצא את $P(A\cap B)$.

6) עבור שני מאורעות, A ו-B נתון: $P(A)=0.6$, $P(B)=0.25$, $P(A\cup B)=0.65$.
קבע האם המאורעות זרים והאם הם תלויים.

7) נתון כי שני מאורעות, A ו-B בלתי תלויים.
בנוסף נתון: $P(A)=0.75$, $P(B)=0.4$. מצא את $P(A\cup B)$.

תשובות סופיות:

1) $\frac{3}{10}$

2) $\frac{3}{4}$

3) $\frac{3}{4}$

4) $P(A\cup B)=0.9$

5) $P(A\cap B)=0.35$

6) לא זרים ותלויים.

7) $P(A\cup B)=0.85$

שאלות עם שני ניסויים:

שאלות:

8) בכד 3 כדורים כחולים ו-7 כדורים אדומים. אדם מוציא באקראי כדור מהכד, ולאחריו מוציא עוד כדור (ללא החזרה של הכדור הראשון).

א. מה ההסתברות ששני הכדורים כחולים?

ב. מה ההסתברות ששני הכדורים באותו צבע?

ג. מה ההסתברות ששני הכדורים אינם באותו צבע?

9) בכד 3 כדורים כחולים, 2 כדורים אדומים ו-5 כדורים ירוקים.
אדם מוציא באקראי כדור מהכד, מחזיר אותו לכד ואז מוציא עוד כדור.

א. מה ההסתברות ששני הכדורים כחולים?

ב. מה ההסתברות ששני הכדורים באותו צבע?

ג. מה ההסתברות ששני הכדורים אינם באותו צבע?

10) בחדר 4 גברים ו-5 נשים. מוציאים באקראי שלושה אנשים מהחדר (בלי החזרה).
מה ההסתברות שמתוך השלושה יש יותר גברים מנשים?

11) נתונים שני כדים: בכד א' שלושה כדורים כחולים ואחד לבן ובכד ב' שני כדורים כחולים ושלושה לבנים. לואיזה מטילה מטבע לא הוגנת שבה הסיכוי לקבלת "עץ" כפול מהסיכוי לקבלת "פלי". אם יוצא "עץ" היא מוציאה כדור מכד א' ואם יוצא "פלי" היא מוציאה שני כדורים מכד ב'.
מה ההסתברות שלא ייצא ללואיזה אף כדור לבן?

12) ליואב יש בכיסו הימני 3 גולות כחולות ו-5 שחורות ובכיסו השמאלי 4 גולות כחולות ו-4 שחורות. יואב מוציא גולה מכיסו הימני.
אם היא כחולה הוא מחזיר אותה לכיס הימני ואם היא שחורה הוא מעביר אותה לכיס השמאלי. אחר כך הוא מוציא גולה מכיסו השמאלי.
מה ההסתברות ששתי הגולות שהוציא באותו צבע?

תשובות סופיות:

8) א. $\frac{1}{15}$ ב. $\frac{8}{15}$ ג. $\frac{7}{15}$

9) א. $\frac{9}{100}$ ב. $\frac{19}{50}$ ג. $\frac{31}{50}$

10) $\frac{17}{42}$

11) $\frac{8}{15}$

12) $\frac{77}{144}$

שאלות עם הסתברות מותנית:

שאלות:

13) בכד 3 כדורים כחולים ו-7 כדורים אדומים.
אדם מוציא באקראי כדור מהכד, ולאחריו מוציא עוד כדור.

א. מה ההסתברות ששני הכדורים כחולים?

ב. מה ההסתברות ששני הכדורים באותו צבע?

ג. ידוע ששני הכדורים באותו צבע. מה ההסתברות ששניהם כחולים?

14) בכד 3 כדורים כחולים, 2 כדורים אדומים ו-5 כדורים ירוקים.
אדם מוציא באקראי כדור מהכד, מחזיר אותו לכד ואז מוציא עוד כדור.

א. מה ההסתברות ששני הכדורים כחולים?

ב. מה ההסתברות ששני הכדורים באותו צבע?

ג. ידוע ששני הכדורים באותו צבע. מה ההסתברות ששניהם כחולים?

15) בחדר 4 גברים ו-5 נשים. מוציאים באקראי שלושה אנשים מהחדר (בלי החזרה). ידוע שמתוך השלושה יש יותר גברים מנשים.
מה ההסתברות שכולם גברים?

16) נתונים שני כדים: בכד א' שלושה כדורים כחולים ואחד לבן ובכד ב' שני כדורים כחולים ושלושה לבנים. לואיזה מטילה מטבע לא הוגנת שבה הסיכוי לקבלת "עץ" כפול מהסיכוי לקבלת "פלי". אם יוצא "עץ" היא מוציאה כדור מכד א' ואם יוצא "פלי" היא מוציאה שני כדורים מכד ב'.

א. מה ההסתברות שלא ייצא ללואיזה אף כדור לבן?

ב. ידוע שללואיזה לא יצא אף כדור לבן, מה ההסתברות שבהטלת המטבע יצא "עץ"?

17) במשחק מזל הסיכוי להרוויח 10 ₪ הוא 0.3 והסיכוי להרוויח 20 ₪ הוא 0.2.
ישנו סיכוי של 0.5 לא להרוויח כלל. אדם שיחק במשחק פעמיים וידוע שהרוויח יותר מ-20 ₪. מה הסיכוי שהרוויח 40 ₪?

18) כדי להתקבל לעבודה בחברת משקאות יש לעבור שלושה ראיונות על ידי שלושה בעלי תפקידים בסדר הבא: אחראי משמרת, מנהל ראשי ומנכ"ל החברה.
כל בעל מקצוע נותן חוות דעת חיובית או שלילית בלבד.
כדי שמועמד יקבל עבודה בחברה עליו לעבור בהצלחה לפחות את אחד מהראיונות עם אחראי המשמרת והמנהל הראשי, אך הראיון עם המנכ"ל חייב לעבור בהצלחה (כדי שמועמד יקבל עבודה המנכ"ל צריך לתת לו חוות דעת חיובית).

ידוע כי אחראי המשמרת נותן חוות דעת חיובית ל-$\frac{1}{6}$ מהמועמדים.

המנהל הראשי קורא את חוות הדעת של אחראי המשמרת וב-$\frac{2}{3}$ מהמקרים נותן חוות דעת הפוכה מזו של אחראי המשמרת. מנכ"ל החברה נותן חוות דעת חיובית ל-80% מהמועמדים בלי קשר לחוות הדעת הקודמות.

א. מה ההסתברות לקבל חוות דעת חיובית מהמנהל הראשי?

ב. ידוע כי המנהל הראשי נתן חוות דעת חיובית, מה ההסתברות שגם אחראי המשמרת נתן חוות דעת חיובית?

ג. מה ההסתברות להתקבל לחברה?

תשובות סופיות:

13) א. $\frac{1}{15}$ ב. $\frac{8}{15}$ ג. $\frac{1}{8}$

14) א. $\frac{9}{100}$ ב. $\frac{38}{100}$ ג. $\frac{9}{38}$

15) $\frac{2}{17}$

16) א. $\frac{8}{15}$ ב. $\frac{15}{16}$

17) $\frac{1}{4}$

18) א. $\frac{11}{18}$ ב. $\frac{1}{11}$ ג. $\frac{26}{45}$

שאלות עם נעלמים:

שאלות:

19) בכד מספר מסוים של כדורים. 3 כחולים והשאר אדומים.

הסיכוי להוציא שני כדורים אדומים מהכד (בלי החזרה) הוא $\frac{5}{14}$.

כמה כדורים בכד?

20) ההסתברות של צלף לפגוע במטרה בירייה הראשונה היא p והיא גדולה מההסתברות שלו להחטיא. אם הוא פוגע, עולה ההסתברות שלו לפגוע בירייה הבאה ב-0.1 ואם הוא מחטיא היא יורדת ב-0.1. הצלף ירה למטרה פעמיים.
ההסתברות שפגע במטרה בדיוק בירייה אחת היא 0.38.

א. מצא את p.

ב. מה ההסתברות שהצלף פגע פעמיים במטרה אם ידוע שהוא פגע בה לפחות פעם אחת?

21) רפי קנה במכולת חבילה של מסטיק "מנטוס".
בכל חבילה יש 10 סוכריות, חלקן ורודות וחלקן צהובות.
רפי מוציא באקראי (ללא החזרה) שתי סוכריות מהחבילה שקנה.
ידוע כי ההסתברות ששתי הסוכריות תהיינה ורודות קטנה פי 4 מההסתברות להוציא סוכריות בצבעים שונים.

א. כמה סוכריות מכל צבע יש בכל חבילה?

רפי מחזיר את הסוכריות בחזרה לחבילה ולאחר מכן מוציא באקראי 3 סוכריות (ללא החזרה).

ב. מה ההסתברות שכל הסוכריות שהוציא רפי הן צהובות?

שלומי, חברו הטוב של רפי, קנה 3 חבילות "מנטוס".

ג. שלומי מוציא באקראי סוכרייה מכל חבילה.
האם ההסתברות של שלומי להוציא 3 סוכריות צהובות גבוהה או נמוכה מזו של רפי?

ד. שלומי מוציא מכל חבילה שתי סוכריות.
מה ההסתברות שלו להוציא מכל חבילה סוכרייה ורודה ואחר כך צהובה?

22) בתוך כד ישנם 8 כדורים, חלקם אדומים וחלקם לבנים.
מוציאים באקראי כדור, מניחים אותו בצד ומוציאים כדור נוסף.

א. מצא כמה כדורים יש בכד מכל צבע אם ידוע כי ההסתברות שהכדור השני שהוצא הוא לבן היא $\frac{3}{8}$.

ב. ידוע כי הכדור השני שהוצא הוא לבן, מה ההסתברות שהכדור הראשון שיצא הוא אדום?

23) בכד ישנם 12 כדורים, חלקם לבנים וחלקם שחורים.
אם מוציאים עם החזרה שני כדורים מהכד ההסתברות ששניהם יהיו בעלי אותו הצבע היא $\frac{13}{18}$.

א. מה ההסתברות להוציא כדור שחור מהכד אם ידוע כי יש יותר כדורים שחורים?

על 40% מהכדורים השחורים רשום מספר ועל מחצית הכדורים הלבנים לא רשום כלום.

ב. מה ההסתברות להוציא מהכד כדור שחור שרשום עליו מספר?

ג. איזה חלק מבין הכדורים שרשום עליהם מספר מהווים הכדורים הלבנים?

תשובות סופיות:

19) 8 כדורים.

20) א. $p=0.6$ ב. $\frac{21}{40}$

21) א. 4 ורודות ו-6 צהובות. ב. $\frac{1}{6}$ ג. גבוהה $\left(\frac{27}{125}>\frac{1}{6}\right)$

ד. $P=0.0189$

22) א. 5 אדומים ו-3 לבנים. ב. $\frac{5}{7}$

23) א. $P=\frac{5}{6}$ ב. $P=\frac{1}{3}$ ג. $\frac{1}{5}$

שאלות הנפתרות באמצעות טבלה דו-מימדית:

שאלות:

24) 70% מאוהדי מכבי ת"א הם גברים והשאר נשים. 40% מהאוהדים מעשנים.
נתון כי 45% מהאוהדים הם גברים שאינם מעשנים.

א. מהו אחוז הנשים המעשנות מבין אוהדי מכבי?

ב. בוחרים באקראי אוהד מכבי. מה ההסתברות שהוא גבר או שהוא מעשן?

ג. בוחרים באקראי אישה שאוהדת מכבי. מה ההסתברות שהיא מעשנת?

ד. האם מין האוהד והעובדה שהוא מעשן הם מאורעות תלויים?

25) 65% מהפחיות המיוצרות במפעל משקאות הן רגילות והשאר דיאט.
80% מהפחיות המיוצרות תקינות והשאר פגומות.
נתון כי 7% מהפחיות הן פחיות דיאט פגומות.

א. בוחרים באקראי פחית. מה ההסתברות שהיא פחית רגילה ותקינה?

ב. בוחרים באקראי פחית דיאט. מה ההסתברות שהיא פגומה?

ג. בוחרים באקראי פחית פגומה. מה ההסתברות שהיא דיאט?

ד. האם סוג הפחית ותקינותה הם מאורעות תלויים?

26) 80% מהתלמידים בכיתה עברו את המבחן בתנ"ך ו-70% עברו את המבחן בהיסטוריה.
75% מבין התלמידים שעברו את המבחן בתנ"ך עברו גם את המבחן בהיסטוריה.

א. בוחרים באקראי תלמיד. מה ההסתברות שהוא נכשל בשתי הבחינות?

ב. תלמיד נכשל במבחן בהיסטוריה. מה ההסתברות שהוא עבר את המבחן בתנ"ך?

ג. ידוע שתלמיד עבר בדיוק מבחן אחד. מה ההסתברות שזה המבחן בתנ"ך?

27) בעיר גדולה ל-80% מהתושבים יש רישיון נהיגה. מבין בעלי רישיון הנהיגה 30% הם גברים. 60% מהגברים הם בעלי רישיון נהיגה. בחרו באקראי שתי נשים מהעיר. מה ההסתברות שלשתיהן אין רישיון נהיגה?

28) 10% מהאנשים באוכלוסייה עיוורי צבעים. קיימת בדיקה הבוחנת אם אדם הוא עיוור צבעים. אם עיוור צבעים ניגש לבדיקה ישנו סיכוי של 80% שהבדיקה תקבע שהוא עיוור צבעים. אם אדם שאינו עיוור צבעים ניגש לבדיקה ישנו סיכוי של 5% שהבדיקה תקבע שהוא עיוור צבעים. מהם אחוזי האמינות של הבדיקה (אחוז המקרים בהם הבדיקה מאבחנת נכונה את הנבדק)?

29) בסניף "תנו לחיות לחיות" בירושלים יש כלבים וחתולים בלבד, בעלי פרווה כהה או פרווה בהירה. 55% מהחיות בסניף הם כלבים. אחוז החתולים בעלי הפרווה הכהה גדול פי 3 מאחוז הכלבים בעלי הפרווה הבהירה. מבין בעלי הפרווה הכהה 60% הם כלבים. בוחרים באקראי חתול מהסניף.
מה ההסתברות שהוא בהיר פרווה?

30) בית ספר תיכון מציע לתלמידיו 3 מגמות ריאליות לבחירה: פיזיקה, כימיה ומחשבים. 40% מתלמידי מגמות אלה הם בנים. הבנים מהווים $\frac{2}{5}$ מתלמידי הפיזיקה, $\frac{5}{12}$ מתלמידי הכימיה ו- $\frac{1}{3}$ מתלמידי המחשבים. $\frac{1}{4}$ מהבנים הם תלמידי פיזיקה.

א. האם יש תלות בין העובדה שתלמיד לומד פיזיקה למין התלמיד?

ב. מהו אחוז לומדי המחשבים מקרב הבנים?

תשובות סופיות:

24) א. 15% ב. 0.85 ג. 0.5 ד. כן.

25) א. 0.52 ב. 0.2 ג. 0.35 ד. בלתי תלויים.

26) א. 0.1 ב. $\frac{2}{3}$ ג. $\frac{2}{3}$

27) $\frac{1}{225}$

28) 93.5%

29) $\frac{1}{3}$

30) א. בלתי תלויים. ב. 12.5%

התפלגות בינומית ונוסחת ברנולי – שאלות יסודיות:

שאלות:

31) אדם מסובב חמש פעמים סביבון. מה ההסתברות שיקבל פעמיים "נס"?

32) מה ההסתברות לקבלת 5 פעמים "נס" בשמונה סיבובי סביבון?

33) הסיכוי לעבור את מבחן התיאוריה הוא 0.7. עשרה אנשים ניגשים למבחן התיאוריה. מהי ההסתברות שבדיוק שישה מהם יעברו?

34) בכד 6 כדורים כחולים ו-4 לבנים. אדם מוציא מהכד כדור, מסתכל על צבעו ומחזיר אותו לכד. הוא חוזר על הפעולה 4 פעמים נוספות.
מה ההסתברות שמתוך חמשת הכדורים הוציא:

א. בדיוק ארבע יהיו כחולים?
ב. חמישה יהיו כחולים?
ג. לפחות ארבעה יהיו כחולים?
ד. הרוב יהיו כחולים?
ה. לפחות אחד יהיה כחול?
ו. הראשון והאחרון בלבד יהיו כחולים?

תשובות סופיות:

31) 0.264
32) 0.023
33) 0.2001
34) א. 0.259 ב. 0.078 ג. 0.337 ד. 0.683 ה. 0.98976 ו. 0.023

התפלגות בינומית ונוסחת ברנולי – שאלות עם הסתברות מותנית:

שאלות:

35) בכד 6 כדורים כחולים ו-4 לבנים. אדם מוציא מהכד כדור, מסתכל על צבעו ומחזיר אותו לכד. הוא חוזר על הפעולה 4 פעמים נוספות.
ידוע שרוב הכדורים שהוציא כחולים. מה ההסתברות שכולם כחולים?

36) יערה מצליחה לקלוע לסל בשלושה מכל ארבעה ניסיונות. כדי להתקבל לנבחרת הכדורסל של בית הספר עליה להצליח לקלוע ברוב הפעמים מתוך 6 ניסיונות קליעה לסל. ידוע שיערה התקבלה לנבחרת הכדורסל.
מה ההסתברות שהצליחה לקלוע את כל הקליעות?

תשובות סופיות:

35) 0.114

36) 0.214

התפלגות בינומית ונוסחת ברנולי – שאלות עם נעלמים:

שאלות:

37) בכד יש 9 כדורים, חלקם כחולים והשאר לבנים. מוציאים כדור מהכד.
אם הוא כחול אז מחזירים אותו לכד ומוסיפים 4 כדורים לבנים ואם הוא לבן אז מחזירים אותו לכד ומוסיפים 4 כדורים כחולים. לאחר מכן מוציאים כדור נוסף.
נתון שההסתברות שהכדור הראשון שיצא הוא כחול אם ידוע כי הכדור השני כחול היא $\frac{6}{11}$.

א. מצא כמה כדורים כחולים יש בכד.

ב. חוזרים על התהליך 6 פעמים, כלומר בכל פעם מחזירים את המצב לקדמותו, מוציאים באקראי כדור ופועלים בהתאם לחוקים. מצא את ההסתברות שלפחות פעם אחת יבחרו שני כדורים כחולים בזה אחר זה.

38) בסיטונאות מזון ידוע כי 40% מבין הסכו"ם החד-פעמי הוא תוצרת חו"ל והשאר תוצרת הארץ. 40% מבין הסכו"ם המיובא מחו"ל הם צבעוניים והשאר שקופים.

א. מה ההסתברות לבחור בסיטונאות המזון סכו"ם שקוף המיובא מחו"ל?

ב. i. בוחרים 5 כלים בחנות באופן אקראי. מה ההסתברות שלכל היותר כלי אחד הוא כלי שקוף תוצרת חו"ל?

ii. מה ההסתברות שבדיוק אחד מחמשת הכלים הוא כלי שקוף תוצרת חו"ל אם ידוע כי לכל היותר כלי אחד הוא שקוף תוצרת חו"ל?

ג. בוחרים שני כלים באופן אקראי וידוע כי ההסתברות ששניהם שקופים היא 0.4096. איזה חלק מהווים כלי הסכו"ם השקופים מבין כלי הסכו"ם תוצרת הארץ?

39) בחדר יש x גברים ו-$3x$ נשים. משחקים את המשחק הבא:
בוחרים באקראי שני אנשים מהחדר בזה אחר זה (בלי החזרה).
ידוע כי ההסתברות לבחור שני אנשים מאותו המין היא $\frac{13}{22}$.

א. מצא כמה נשים יש בחדר.

ב. ידוע כי האדם השני שנבחר הוא גבר.
מה ההסתברות שגם הראשון שנבחר הוא גבר?

ג. משחקים את המשחק 4 פעמים. ידוע כי בכל הפעמים נבחר גבר בפעם השנייה. מה ההסתברות שבדיוק ב-3 פעמים יבחר גבר גם בפעם הראשונה?

40) בוחרים שלושה גברים באקראי מעיר גדולה.
ההסתברות שכולם מעשנים היא 0.027. מה ההסתברות שרובם מעשנים?

41) בוחרים שלוש נשים מעיר גדולה. ההסתברות ששתיים מהן מעשנות קטנה פי 4 מההסתברות ששתיים מהן לא מעשנות. מה ההסתברות שכולן מעשנות?

42) בכד 10 כדורים, חלקם לבנים והשאר שחורים. נמרוד מוציא 9 פעמים כדור מהכד (עם החזרה). הסיכוי שיצאו פי 2 כדורים שחורים מלבנים גדול פי $3\frac{3}{8}$ מהסיכוי שיצאו פי 2 כדורים לבנים משחורים. מצא כמה כדורים מכל צבע בכד.

43) מפעל מייצר שולחנות וכיסאות. בוחרים 4 רהיטים. ידוע כי ההסתברות שכולם יהיו כיסאות זהה להסתברות שיהיה שולחן אחד בדיוק בניהם.

א. מצא את ההסתברות לבחור כיסא.

במפעל צובעים את הרהיטים בשחור או לבן.
רבע מהשולחנות נצבעים בשחור ורבע מהכיסאות נצבעים בלבן.

ב. מה ההסתברות לבחור כיסא שחור?

ג. איזה חלק מבין הרהיטים הלבנים מהווים השולחנות?

44) בחדר x גברים ו-$3x$ נשים. מוציאים באקראי שני אנשים מהחדר.
ההסתברות שהם יהיו מאותו מין היא 0.6.

א. מצא את גודלו של x.

ב. חוזרים על התהליך 4 פעמים.
מה הסיכוי שבשלוש מתוך 4 הפעמים ייצאו מהחדר שתי נשים?

45) במבחן רב ברירה עם 5 שאלות שוות ניקוד, לכל שאלה יש n תשובות מהן רק אחת נכונה. ישנו סיכוי של 50% ששי יידע את התשובה הנכונה לשאלה במבחן. אם שי לא יודע את התשובה לשאלה הוא מנחש.

ההסתברות ששי יקבל במבחן 60 גדולה פי $1\frac{1}{3}$ מההסתברות שיקבל 80.

מצא את ערכו של n.

46) כדי להתקבל לקורס טיס יש לעבור גיבוש וראיון. כל המועמדים ניגשים גם לראיון וגם לגיבוש. 40% מהניגשים לגיבוש עוברים אותו ו-35% מהניגשים לראיון עוברים אותו. $\frac{5}{17}$ מאלה שלא התקבלו לקורס טיס לא התקבלו בגלל הריאיון בלבד. שלושה חברים ניסו להתקבל לקורס טיס. ידוע שרובם התקבלו. מה ההסתברות שכולם התקבלו?

תשובות סופיות:

37) א. 6 כדורים כחולים. ב. 0.88989

38) א. 0.24 ב.i. 0.65389 ב.ii. $\frac{30}{49} \sim 0.61224$ ג. $\frac{2}{3}$

39) א. 9 נשים ב. $\frac{2}{11}$ ג. 0.0196

40) 0.216

41) 0.008

42) 4 לבנים, 6 שחורים.

43) א. $P=0.8$ ב. $P=0.6$ ג. $\frac{3}{7}$

44) א. $x=4$ ב. 0.299

45) $n=5$

46) $\frac{5}{90}$

שאלות מסכמות:

שאלות:

47) כדי להתקבל לחברת היי-טק יש לעבור ראיונות משלושה בעלי תפקידים בסדר הבא: מהנדס ראשי, אחראי משמרת ומנכ"ל החברה. כל אחד מבעלי התפקידים נותן חוות דעת חיובית או שלילית על המועמד לעבודה. מועמד שמתקבל לחברה חייב לקבל חוות דעת חיובית משלושת בעלי התפקידים.

ידוע כי המהנדס הראשי נותן חוות דעת חיובית ל- $\frac{3}{5}$ מהמועמדים.

אחראי המשמרת קורא את חוות הדעת של המהנדס הראשי וב- $\frac{1}{6}$ מהמקרים נותן חוות דעת הפוכה מזו של המהנדס הראשי. מנכ"ל החברה קורא את חוות הדעת של אחראי המשמרת וב- $\frac{7}{10}$ נותן חוות דעת זהה לשלו.

א. ענה על השאלות הבאות:

i. מה ההסתברות שמועמד יקבל חוות דעת חיובית מאחראי המשמרת?

ii. ידוע כי אחראי המשמרת נתן חוות חיובית. מה ההסתברות שהמהנדס הראשי ייתן חוות דעת שלילית?

ב. מה ההסתברות שמועמד יקבל עבודה בחברה?

ג. מה ההסתברות שמועמד יקבל חוות דעת שלילית מהמנכ"ל?

ד. לאחר היעדר עובדים שינתה החברה את מדיניותה וקבעה כי כדי להתקבל לעבודה יש לעבור לפחות שני ראיונות בהצלחה, אך חוות הדעת של המנכ"ל חייבת להיות חיובית.
מה ההסתברות כעת לקבל עבודה בחברה?

48) במדינה מסוימת $\frac{19}{60}$ מהאזרחים הם גברים ו- $\frac{41}{60}$ הן נשים.
30% מבין מרכיבי המשקפיים במדינה זו הם גברים ו-40% מבין אלו שלא מרכיבים משקפיים הם גברים.

א. מה ההסתברות למצוא אישה במדינה זו שאינה מרכיבה משקפיים?

ב. בוחרים 4 אנשים. מה ההסתברות שבדיוק שניים מהם הם נשים שאינן מרכיבות משקפיים?

ג. בוחרים אזרח. ידוע כי הוא גבר. מה ההסתברות שהוא מרכיב משקפיים?

49) בעיר מסוימת ההסתברות לבחור אדם מעשן גדולה פי 3 מההסתברות לבחור אדם המרכיב משקפיים. ידוע כי החלק של התושבים שמרכיבים משקפיים מבין כל התושבים המעשנים הוא $\frac{1}{12}$.

א. מצא מהי ההסתברות לבחור מעשן מתוך כל מרכיבי המשקפיים.

ב. ידוע כי 15% מהתושבים הם מרכיבים משקפיים בלבד.
מצא את הסתברות לבחור תושב שלא מרכיב משקפיים.

ג. בוחרים 6 תושבים באופן אקראי.
מה ההסתברות שמחצית מהם אינם מרכיבים משקפיים ואינם מעשנים?

50) בבית ספר מסוים ישנם תלמידים המרכיבים משקפיים.
ידוע כי אם בוחרים 3 תלמידים אז ההסתברות ששלושתם מרכיבים משקפיים היא 0.027.

א. מצא את אחוז מרכיבי המשקפיים בבית הספר.

בבית הספר ההסתברות להיתקל בתלמיד גדולה ב-0.1 מההסתברות להיתקל בתלמידה ומספר הבנים שמרכיבים משקפיים זהה למספר הבנות שמרכיבות משקפיים.

ב. מה ההסתברות להיתקל בחצר בית הספר בתלמיד שאינו מרכיב משקפיים?

ג. איזה חלק מכלל הבנות בבית הספר מהוות הבנות שמרכיבות משקפיים?

ד. בוחרים 4 תלמידים. ידוע כי כולן בנות.
מה ההסתברות כי אחת מהן תרכיב משקפיים?

51) כדי להתקבל לעבוד בחברת ההיי-טק Techno יש לעבור שני ראיונות משני בעלי מקצוע, תחילה על ידי המהנדס הראשי ואחריו על ידי מנכ"ל החברה. כל בעל מקצוע נותן חוות דעת חיובית, שלילית או שנמנע מלקבוע. כדי שמועמד יתקבל לחברה עליו לעבור לפחות ראיון אחד עם חוות דעת חיובית. ידוע כי המהנדס הראשי נותן חוות דעת חיובית ל- $\frac{1}{5}$ מהמועמדים ו- $\frac{2}{7}$ מהם הוא משאיר בלי קביעה. המנכ"ל קורא את חוות הדעת של המהנדס הראשי וקובע את חוות הדעת שלו בצורה הבאה:
אם המהנדס נתן חוות דעת חיובית, אז המנכ"ל ייתן גם חוות דעת חיובית ב-60% מהמקרים. אם המהנדס נתן חוות דעת שלילית, אז המנכ"ל נמנע מלקבוע ב-60% מהמקרים ובשאר המקרים הוא נותן חוות דעת חיובית.
אם המהנדס נמנע מלקבוע אז המנכ"ל ייתן חוות דעת חיובית או שלילית בלבד.
הסיכוי שהמנכ"ל ייתן במקרה זה חוות דעת חיובית גדול פי 3 מהסיכוי שייתן חוות דעת שלילית.

א. מה ההסתברות לקבל חוות דעת חיובית מהמנכ"ל?

ב. ידוע כי המנכ"ל נתן חוות דעת חיובית.
מה ההסתברות שגם המהנדס נתן חוות דעת חיובית?

ג. מה ההסתברות להתקבל לחברה?

ד. ביום מסוים הגיעו 5 מועמדים.
מה ההסתברות שבדיוק 3 מהם קיבלו עבודה באותו היום?

52) בכד יש 12 כדורים, חלקם אדומים וחלקם שחורים.
מוציאים עם החזרה שני כדורים מהכד.

א. מצא את מספר הכדורים האדומים שבכד אם ידוע כי ההסתברות ששני הכדורים שהוצאו הם שחורים היא $\frac{4}{9}$.

ב. חלק מהכדורים עשויים מעץ והשאר עשויים מפלסטיק.
ידוע כי 25% מהכדורים האדומים עשויים מעץ וכי 50% מהכדורים העשויים מעץ הם אדומים.
מצא את ההסתברות לבחור כדור שחור עשוי מפלסטיק.

ג. מוציאים מהכד 5 כדורים בזה אחר זה עם החזרה.
מה ההסתברות להוציא 4 כדורים אדומים העשויים מפלסטיק?

ד. מוציאים מהכד 5 כדורים בזה אחר זה עם החזרה.
ידוע כי כולם עשויים מפלסטיק, מה ההסתברות ש-3 מהם בצבע אדום?

53) בבית ספר בעיר נערכו שני מבחנים. 80% מתלמידי העיר עברו את המבחן הראשון. $\frac{1}{4}$ מבין התלמידים שעברו את המבחן הראשון עברו גם את השני ו- $\frac{1}{2}$ מהתלמידים שנכשלו במבחן הראשון נכשלו גם בשני.

א. בוחרים באקראי תלמיד. מה הסתברות שהוא עבר את אחד המבחנים?

ב. בוחרים באקראי 4 תלמידים.
מה ההסתברות שבדיוק אחד מהם עבר את אחד המבחנים?

ג. איזה חלק מבין התלמידים שנכשלו במבחן השני מהווה קבוצת התלמידים שנכשלו גם במבחן הראשון?

54) במפעל גדול ההסתברות שמתוך 4 עובדים לפחות אחד ירכיב משקפיים היא 0.5904.

א. מה ההסתברות לבחור עובד שלא מרכיב משקפיים?

ידוע כי 40% מהפועלים שמרכיבים משקפיים הם מעשנים ו-20% מבין העובדים המעשנים הם מרכיבים משקפיים.

ב. מה ההסתברות לבחור עובד שמרכיב משקפיים בלבד או מעשן בלבד?

ג. בוחרים באקראי 5 עובדים. מה ההסתברות שרוב העובדים שנבחרו מעשנים?

55) במפעל לייצור ברגים פועלים שני פסי ייצור – פס ייצור א' ופס ייצור ב'.
ידוע כי אם בוחרים 5 ברגים אז ההסתברות ששלושה מהם מיוצרים על ידי פס הייצור השני גדולה פי 4.5 מההסתברות שאחד מהם מיוצר על ידי פס הייצור הנ"ל.

א. מצא את ההסתברות לבחור בורג המיוצר על ידי פס הייצור הראשון.

מתוך כל 100 ברגים שהמפעל מייצר 7 פגומים. ומתוך כל 10 ברגים היוצאים מפס הייצור הראשון אחד הוא פגום.

ב. מהו אחוז הברגים התקינים שמיוצרים על ידי פס הייצור השני?

ג. איזה חלק מבין הברגים הפגומים מהווים אלו שיוצאים מפס הייצור הראשון?

56) בכד יש פי 5 כדורים כחולים מאדומים. מוציאים מהכד כדור.
אם הוא כחול אז משאירים אותו בחוץ ואם הוא אדום אז מחזירים אותו לכד.
לאחר מכן מוציאים כדור נוסף מהכד. ידוע כי ההסתברות להוציא שני כדורים בצבעים שונים היא: $\frac{175}{612}$.

א. כמה כדורים מכל צבע יש בכד?

ב. ידוע כי הכדור השני שנבחר הוא כחול, מה ההסתברות שהכדור הראשון שנבחר היה אדום?

ג. חוזרים על התהליך 5 פעמים.
ידוע כי בכל חמשת הפעמים הכדור השני שהוצא הוא כחול,
מה ההסתברות שברוב הפעמים הכדור הראשון שיצא הוא אדום?

57) בחדר יש פי 4 נשים מגברים. משחקים את המשחק הבא: בוחרים באקראי אדם מהחדר. אם נבחר גבר אז הוא יוצר מהחדר ואם נבחרה אישה אז היא נשארת.
לאחר מכן בוחרים אדם נוסף.

א. מצא כמה גברים יש בחדר אם ידוע כי ההסתברות שייבחרו שני אנשים שונים היא $\frac{236}{725}$.

ב. ידוע כי בפעם השנייה נבחר גבר, מה ההסתברות שגם בפעם הראשונה ייבחר גבר?

ג. משחקים את המשחק 4 פעמים. ידוע כי בכל הפעמים נבחר גבר בפעם השנייה. מה ההסתברות שברוב המקרים יצא גבר גם בפעם הראשונה?

58) בעיר מסוימת נערכות בחירות. ידוע כי אם בוחרים 4 תושבים אז ההסתברות שלפחות אחד מהם יצביע למועמד ב' היא: $\frac{65}{81}$.

א. איזה חלק מהתושבים הצביעו למועמד א'?

בעיר זו יש תושבים מבוגרים וצעירים. ידוע כי $\frac{2}{3}$ מהצעירים הצביעו למועמד א' וכי ההסתברות לבחור מבוגר שהצביע למועמד ב' היא $\frac{2}{15}$.

ב. מהו אחוז התושבים הצעירים שהצביעו למועמד ב'?

ג. איזה אחוז מהווים התושבים הצעירים מבין אלו שהצביעו למועמד א'?

59) לכבוד חנוכה קנתה סבתא תקווה לשתי נכדותיה, שני ושרון, סביבונים עם סוכריות בתוכם. בכל סביבון יש 7 סוכריות שוקולד ו-4 סוכריות מנטה.
שרון לקחה את סביבון אחד והוציאה ממנו באקראי (בלי החזרה) 4 סוכריות.

א. מה ההסתברות שכל הסוכריות שהוציאה שרון הן סוכריות מנטה?

ב. שני לקחה 4 סביבונים והוציאה באקראי מכל סביבון סוכרייה אחת.
האם ההסתברות ששני תוציא 4 סוכריות מנטה גבוהה יותר או נמוכה יותר מההסתברות שחשבת בסעיף א'? נמק.

ג. שני הוציאה באקראי סוכרייה אחת מכל סביבון מתוך ארבעת הסביבונים שברשותה. ידוע שבין הסוכריות שבידה יש יותר סוכריות מנטה.
מה ההסתברות שכל הסוכריות שיש לשני ביד יהיו בטעם מנטה?

60) כדי לקבל עבודה בחברת Makido יש לעבור ראיונות משני בעלי מקצוע: מהנדס ראשי ומנכ"ל החברה. המהנדס הראשי נותן חוות דעת חיובית ברבע מהמקרים, בשליש מהמקרים הוא נמנע מלתת חוות דעת ובשאר המקרים הוא נותן חוות דעת שלילית. מנכ"ל החברה קורא את חוות הדעת של המהנדס וקובע את חוות דעתו באופן הבא:
אם המהנדס נתן חוות דעת חיובית אז הוא נותן חוות דעת חיובית ב-90% מהמקרים וב-10% מהמקרים הוא נמנע מלתת חוות דעת. אם המהנדס נמנע מלקבוע אז המנכ"ל נותן חוות דעת שלילית במחצית מהמקרים או חיובית במחצית מהמקרים. אם המהנדס נתן חוות דעת שלילית אז ההסתברות שהמנכ"ל יתן חוות דעת חיובית גדולה פי 2 מההסתברות שימנע מלתת חוות דעת וההסתברות שימנע מלתת חוות דעת גדולה פי 2 מההסתברות שייתן חוות דעת שלילית.

א. מה ההסתברות שמועמד יקבל חוות דעת חיובית לפחות באחד הראיונות?

ב. אם ידוע כי מועמד קיבל חוות דעת חיובית אחת לפחות, מה ההסתברות שהמהנדס נמנע מלתת חוות דעת?

ג. ענה על השאלות הבאות:

i. מה ההסתברות שמתוך 5 מועמדים, לפחות אחד יקבל עבודה אם ידוע כי כדי להתקבל לעבודה בחברה יש לקבל שתי חוות דעת חיוביות?

ii. כיצד תשתנה התוצאה של חלק i אם כדי לקבל עבודה יש לקבל לפחות חוות דעת חיובית אחת ואף לא חוות דעת שלילית אחת?

61) בעיר מסוימת נערכו בחירות מקומיות.
ידוע כי אם בוחרים באקראי 4 אזרחים ההסתברות שתִמָצא אישה אחת בניהם קטנה פי 16 מההסתברות להיתקל באישה באופן אקראי.

א. מה הוא אחוז הגברים בעיר?

בעיר שלושה מועמדים. $\frac{1}{11}$ מהמצביעים למועמד א' הם גברים,
60% מהמצביעים למועמד ב' הם גברים ו-25% מהמצביעים למועמד ג' הם גברים.
אחוז המצביעים למועמד ג' הוא 20%.

ב. איזה מועמד קיבל את רוב הקולות?

ג. בוחרים באקראי 4 נשים.
מה ההסתברות ששלושה מהן הצביעו למועמד המנצח?

62) בחדר x גברים ו- $x+2$ נשים. זורקים קוביית משחק מאוזנת.
אם מתקבל מספר הגדול מ-4 אז מוסיפים לחדר x גברים ואם מתקבל מספר הקטן או שווה ל-4 אז מוסיפים לחדר x נשים. לאחר מכן מוציאים אדם מהחדר.

א. מצא כמה נשים יש בחדר אם ידוע כי ההסתברות לבחור אישה היא $\frac{21}{33}$.

ב. ידוע כי יצאה אישה מהחדר.
מה ההסתברות שהמספר בקובייה היה קטן או שווה ל-4?

אנשי החדר הנמצאים בו במקור (לפני זריקת הקובייה) לובשים חולצות אדומות או לבנות בלבד. ידוע כי החלק היחסי של האנשים הלובשים חולצות לבנות בחדר גדול פי 16 מהחלק היחסי של הגברים הלובשים חולצות אדומות.
כמו כן פרופורציית הגברים מבין כל אלו שלובשים חולצות אדומות היא 0.25.

ג. מצא מה ההסתברות לבחור גבר הלובש חולצה אדומה בחדר.

ד. בוחרים 5 אנשים מהחדר (עם החזרה) וידוע כי כולם לובשים חולצות אדומות. מה ההסתברות שרובם נשים?

63) באוניברסיטה מסוימת ידוע כי חלק מהסטודנטים נעזרים בספרי לימוד חיצוניים להעשרת הידע שלהם, וכי ההסתברות לבחור 2 סטודנטים הנעזרים בספרי לימוד חיצוניים קטנה ב-0.1 מההסתברות לבחור שני סטודנטים שאינם נעזרים בספרי לימוד חיצוניים.

א. מהו אחוז הסטודנטים שנעזרים בספרי לימוד חיצוניים?

האוניברסיטה מוכרת ספרי לימוד ב-3 מקצועות לכלל הסטודנטים: ספר א', ספר ב' וספר ג'. כל סטודנט יכול לקנות רק ספר אחד.

ידוע כי כמות הסטודנטים שקנו את ספר א' וכמות הסטודנטים שקנו את ספר ג' זהות.

כמו כן, $\frac{6}{7}$ מאלו שקנו את ספר ג' נעזרים גם בספרים חיצוניים. $\frac{1}{3}$ מהסטודנטים שקנו את ספר ב' נעזרים בספרי לימוד חיצוניים וכמות הסטודנטים שקנו את ספר א' ונעזרים בספרי לימוד חיצוניים מהווים $\frac{1}{9}$ מכלל הסטודנטים שנעזרים בספרי לימוד חיצוניים.

ב. מהו אחוז הסטודנטים שקנו את ספר ב' ואינם נעזרים בספרי לימוד חיצוניים?

ג. איזה חלק מהווים הסטודנטים שקנו את ספר ג' מכלל הסטודנטים שאינם נעזרים בספרי לימוד חיצוניים?

ד. בוחרים 4 סטודנטים שאינם נעזרים בספרי לימוד חיצוניים. מה ההסתברות שאחד מהם קנה את ספר ג'?

תשובות סופיות:

47) א.i. $\frac{17}{30}$ א.ii. $\frac{2}{17}$ ב. $\frac{7}{20}$ ג. $\frac{71}{150}$ ד. $\frac{32}{75}$

48) א. $P=0.1$ ב. $P=0.0486$ ג. $\frac{15}{19}$

49) א. $P\left(\frac{B}{A}\right)=\frac{1}{4}$ ב. $P\left(\overline{A}\right)=0.8$ ג. $P_6(3)=0.1318$

50) א. 30% ב. $P=0.4$ ג. $\frac{1}{3}$ ד. $P=\frac{32}{81}$

51) א. $\frac{27}{50}$ ב. $\frac{2}{9}$ ג. $\frac{31}{50}$ ד. $P=0.34414$

52) א. 4 כדורים. ב. $\frac{7}{12}$ ג. $\frac{15}{1024}=0.0146$ ד. 0.1323

53) א. $P=0.7$ ב. $P=\frac{189}{2500}$ ג. $\frac{1}{7}$

54) א. $P=0.8$ ב. $P=0.44$ ג. $P=0.31744$

55) א. $P=0.4$ ב. 95% ג. $\frac{4}{7}$

56) א. 15 כחולים ו-3 אדומים. ב. $\frac{17}{101}$ ג. 0.03645

57) א. 6 גברים ו-24 נשים. ב. הסתברות לגבר בפעם הראשונה: $P\left(\frac{1}{2}\right)=\frac{25}{141}$

ג. 0.0193

58) א. $\frac{2}{3}$ ב. 20% ג. 60%

59) א. $\frac{1}{330}$ ב. גבוהה יותר $\left(\frac{256}{14641}>\frac{1}{330}\right)$ ג. $\frac{1}{8}$

60) א. $\frac{55}{84}$ ב. $\frac{14}{55}$ ג.i. 0.7204 ג.ii. 0.9324

61) א. 25% ב. מועמד א'. ג. $\frac{2}{3}$

62) א. 5 נשים. ב. $\frac{16}{21}$ ג. 0.05 ד. $\frac{459}{512}$

63) א. 45% ב. 20% ג. $\frac{1}{11}$ ד. $P=0.2732$

מכינה אקדמית במתמטיקה למדעי המחשב 1400004

פרק 12 - טריגונומטריה - טריגונומטריה במשולש ישר זווית

תוכן העניינים

1. משולש ישר זווית 238

משולש ישר זווית:

סיכום כללי:

הגדרות הפונקציות הטריגונומטריות:

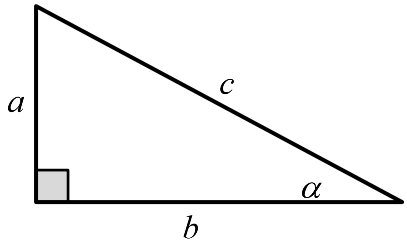

$$\sin\alpha = \frac{\text{הניצב שמול הזווית}}{\text{היתר}} = \frac{a}{c}$$

$$\cos\alpha = \frac{\text{הניצב שליד הזווית}}{\text{היתר}} = \frac{b}{c}$$

$$\tan\alpha = \frac{\text{הניצב שמול הזווית}}{\text{הניצב שליד הזווית}} = \frac{a}{b}$$

משפט פיתגורס: $a^2+b^2=c^2$

שאלות:

1) מצא את ערכו של α / x במשולשים ישרי הזווית הבאים:

א.

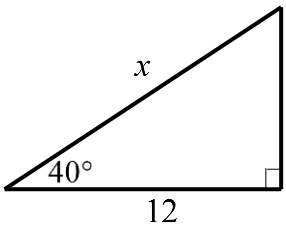

ב.

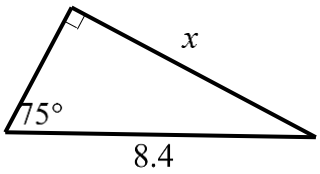

ג.

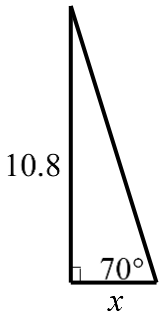

ד.

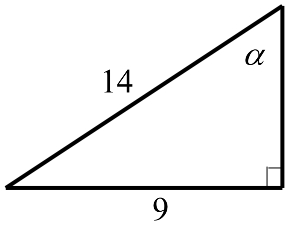

ה.

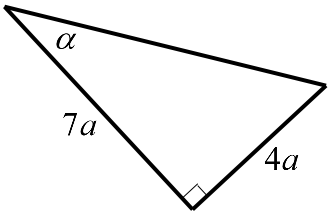

2) המשולש ABC שבציור הוא משולש ישר זווית $(\sphericalangle B=90°)$.

AD הוא התיכון לניצב BC.

נתון: $\sphericalangle C=28°$, AB = 6 ס"מ.

מצא את AD ואת $\sphericalangle BAD$.

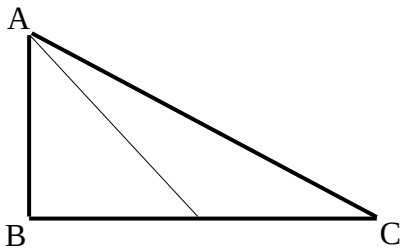

3) המשולש ABC שבציור הוא משולש ישר זווית $(\sphericalangle B=90^\circ)$. BD הוא התיכון ליתר ו-AE הוא חוצה הזווית $\sphericalangle A$.
נתון: BD = 5.6 ס"מ , BC = 8 ס"מ.
מצא את BE ואת $\sphericalangle BAE$.

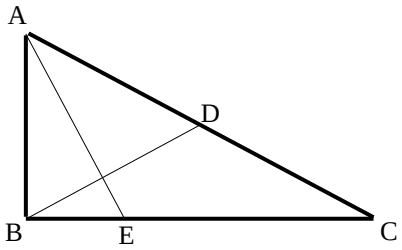

4) מצא את זוויותיו של מעוין שאורכי אלכסוניו 24 ס"מ ו-18 ס"מ.

5) המשולש ABC חסום במעגל כך שהצלע AC היא קוטר המעגל.
המשיק למעגל בנקודה A והמשך הצלע CB נפגשים בנקודה D.
נתון: BD=4 ס"מ , $\sphericalangle DAB=32^\circ$.
מצא את אורכו של רדיוס המעגל.

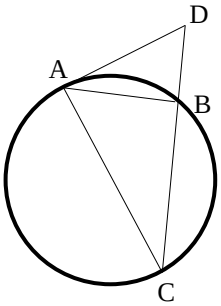

6) במשולש שווה שוקיים שבו השוק ארוכה ב-4 ס"מ מהבסיס נתון כי זווית הראש היא 34.92°. מצא את שטח המשולש.

7) המשולש ABC שבציור הוא משולש ישר זווית $(\sphericalangle B=90^\circ)$.
נתון: $\sphericalangle A=\alpha$, $AB=a$.
הבע באמצעות α ו-a את היקף המשולש.

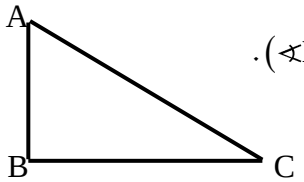

8) המשולש ABC שבציור הוא משולש ישר זווית $(\sphericalangle B=90^\circ)$.
AD הוא התיכון לניצב BC.
נתון: $\sphericalangle C=\alpha$, $AB=b$.
הבע באמצעות α ו-b את אורכי הקטעים BD ו-AD.

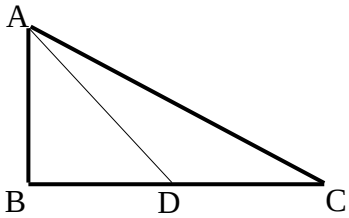

9) במשולש ישר זווית אחת הזוויות החדות היא α ואורך חוצה זווית זו הוא k.
הבע באמצעות α ו-k את שטח המשולש ואת אורך היתר.

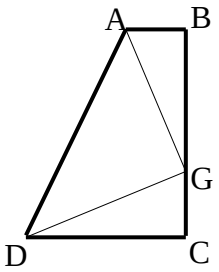

10) טרפז ABCD הוא טרפז ישר זווית $(\sphericalangle B=\sphericalangle C=90^\circ)$.
הנקודה G נמצאת על השוק BC כך ש- $AG\perp DG$.
נתון: $AG=DG=m$, $\sphericalangle BAG=\beta$.
הבע באמצעות β ו- m את שטח הטרפז.

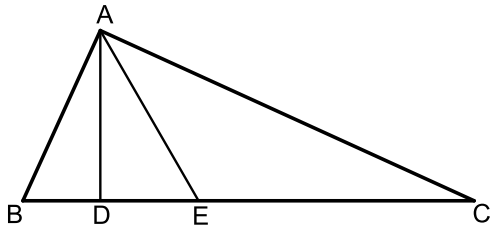

11) המשולש ABC הוא ישר זווית $(\sphericalangle A=90^\circ)$.
הקטעים AD ו-AE הם בהתאמה גובה ליתר וחוצה זווית.
מסמנים: $DE=k$, $\sphericalangle DAE=\alpha$.

א. הבע באמצעות k ו- α את שטח המשולש ABC.

ב. חשב את שטח המשולש ABC
אם ידוע כי: $\alpha=30$ ו- $k=2$.

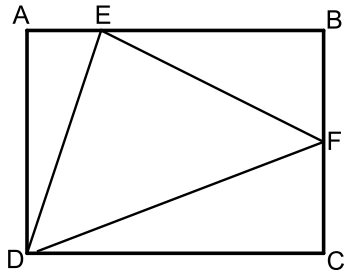

12) במלבן ABCD מסמנים את הנקודות E ו-F הנמצאות על הצלעות AB ו-BC בהתאמה כך ש-E מקיימת: $3AE=BE$ ו-F היא אמצע הצלע BC.
אורך הצלע AD שווה לאורך הקטע BE.
מעבירים את הקטעים EF , DF ו-DE כך שנוצר במשולש DEF.

א. סמן ב- t את אורך הקטע AE והבע באמצעות t את אורכי צלעות המשולש DEF.

ב. חשב את זוויות המשולש EDF.

13) משולש שווה שוקיים שאורך שוקו k וזווית הבסיס שלו היא β חוסם מעגל.
הבע באמצעות β ו- k את רדיוס המעגל.

14) בטרפז ישר זווית חסום מעגל. אורך השוק הארוכה בטרפז היא b והזווית שהיא יוצרת עם הבסיס הגדול היא α.
הבע באמצעות α ו- b את אורכו של הבסיס הגדול בטרפז ואת שטחו.

הערה: השאלות הבאות משלבות ידע בגיאומטריה ובטריגונומטריה יחד:

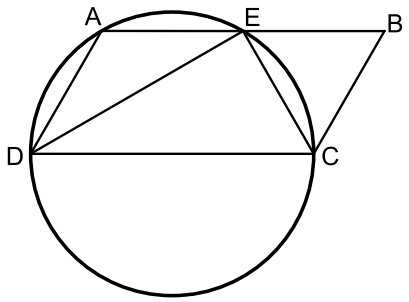

15) דרך הקודקודים A , C ו-D של המקבילית ABCD מעבירים מעגל. היקף המעגל חוצה את הצלע AB בנקודה E, $(AE = BE)$.
נתון כי DC הוא קוטר במעגל וכי המיתר DE חוצה את זווית D.

א. הוכח כי המיתר CE חוצה את זוויות C.

ב. רדיוס המעגל יסומן ב- R.
הבע באמצעות R את היקף המקבילית.

ג. מצא את רדיוס המעגל אם ידוע כי שטח המקבילית הוא $16\sqrt{3}$סמ"ר.

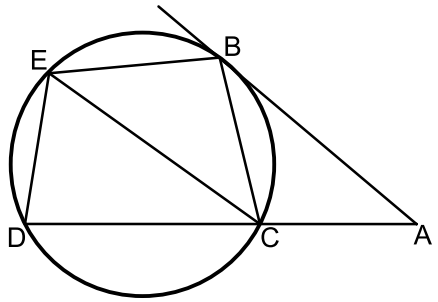

16) מהנקודה A שמחוץ למעגל מעבירים משיק AB וישר חותך ACD.
מעבירים את המיתרים BC ו-BE אשר זהים באורכם.
כמו כן מעבירים את המיתר DE.
אורך המיתר CE שונה מאורך המשיק AB.

א. הוכח כי המרובע ABEC הוא טרפז.

ב. הוכח כי: $2\cdot\sphericalangle BEC = \sphericalangle EDC$.

ג. נתונים: $\sphericalangle A = 40°$, AC = 6 ס"מ, AB = 9 ס"מ , CE = 8 ס"מ.
חשב את שטח המרובע ABEC.

תשובות סופיות:

1) א. $x=15.665$ ב. $x=8.114$ ג. $x=3.931$ ד. $\alpha=40.005°$ ה. $\alpha=29.745°$.

2) $\sphericalangle BAD=43.24°$, 8.236 ס"מ = AD.

3) $\sphericalangle BAE=22.792°$, 3.294 ס"מ = BE.

4) $106.26°$, $106.26°$, $73.74°$, $73.74°$.

5) 6.04 ס"מ = R.

6) 28.618 סמ"ר = S.

7) $P=a\left(1+\tan\alpha+\frac{1}{\cos\alpha}\right)$.

8) $BD=\frac{b}{2\tan\alpha}$, $AD=\sqrt{b^2+\frac{b^2}{4\tan^2\alpha}}$.

9) $S=\frac{k^2\cos^2\frac{\alpha}{2}\tan\alpha}{2}$, $AC=\frac{k\cos\frac{\alpha}{2}}{\cos\alpha}$.

10) $\frac{(m\sin\beta+m\cos\beta)^2}{2}$.

11) א. $S=\frac{k^2}{\cos 2\alpha\tan^2\alpha}$ ב. 24 סמ"ר.

12) א. $DF=t\sqrt{18.25}$, $EF=t\sqrt{11.25}$, $DE=t\sqrt{10}$ ב. $47.14°$, $51°$, $81.86°$.

13) $R=k\cos\beta\tan\frac{\beta}{2}$.

14) $S=\frac{1}{2}b^2\sin\alpha(1+\sin\alpha)$, $\frac{1}{2}b\sin\alpha+\frac{\frac{1}{2}b\sin\alpha}{\tan\frac{\alpha}{2}}$.

15) א. שאלת הוכחה. ב. $6R$ ג. 4 ס"מ.

16) א. שאלת הוכחה. ב. שאלת הוכחה. ג. 32.78 סמ"ר.

מכינה אקדמית במתמטיקה למדעי המחשב 1400004

פרק 13 - טריגונומטריה - זהויות טריגונומטריות

תוכן העניינים

1. זהויות יסוד 243
2. ערכי הפונקציות הטריגונומטריות עבור זוויות מיוחדות 247
3. מעגל היחידה 249
4. סכום והפרש זוויות 252
5. זווית כפולה 256
6. סכום והפרש פונקציות 259
7. מכפלת פונקציות 262

זהויות יסוד:

סיכום כללי:

קשרים בין פונקציות	$\tan\alpha=\frac{\sin\alpha}{\cos\alpha}$, $\cot\alpha=\frac{\cos\alpha}{\sin\alpha}$	$\sin^2\alpha+\cos^2\alpha=1$ $\tan\alpha\cdot\cot\alpha=1$
זוויות משלימות ל- $90°$	$\cos\alpha=\sin(90°-\alpha)$	$\sin\alpha=\cos(90°-\alpha)$
	$\cot\alpha=\tan(90°-\alpha)$	$\tan\alpha=\cot(90°-\alpha)$
קשרים בין פונקציות	$\cot^2\alpha+1=\frac{1}{\sin^2\alpha}$	$\tan^2\alpha+1=\frac{1}{\cos^2\alpha}$

שאלות:

הוכחת זהויות יסודית:

הוכח את הזהויות הבאות תוך שימוש בזהויות היסוד:

1) $\tan\alpha\cdot\cos\alpha=\sin\alpha$

2) $\frac{1-\sin^2\alpha}{\cos^2\alpha}=1$

3) $\frac{\sin\alpha}{\sqrt{1-\sin^2\alpha}}=\tan\alpha$

4) $\sin^2\alpha+2\cos^2\alpha=1+\cos^2\alpha$

5) $\frac{\sin^2\alpha}{1+\cos\alpha}+\frac{\sin^2\alpha}{1-\cos\alpha}=2$

6) $(\sin\alpha+\cos\alpha)^2+(\sin\alpha-\cos\alpha)^2=2$

7) $\frac{\cos(90°-\alpha)}{\cos\alpha}=\tan\alpha$

8) $\sin^2(\alpha+45°)+\sin^2(45°-\alpha)=1$

9) $\sqrt{1+\tan^2\alpha}\cdot\sqrt{1-\cos^2\alpha}=\tan\alpha$

10) $\frac{\sin\alpha(1-\cos^2\alpha)}{\cos^3\alpha}=\tan^3\alpha$

11) $\frac{\sin(90°-\alpha)-\cos^3\alpha}{\sin^3\alpha}=\cot\alpha$

12) $\cos^2\alpha(1+\tan^2\alpha)=1$

13) $\frac{\sin\alpha\cdot\cos\alpha}{1-\cos^2\alpha}=\cot\alpha$

14) $\frac{\sin^3\alpha}{\sin(90°-\alpha)-\cos^3\alpha}=\tan\alpha$

15) $\tan^2\alpha-\sin^2\alpha=\tan^2\alpha\sin^2\alpha$

16) $\frac{1-2\sin^2\alpha\cos^2\alpha}{\sin^2\alpha\cdot\cos^2\alpha}=\tan^2\alpha+\cot^2\alpha$

הוכחות מתקדמות:

17) הוכח את הזהות הבאה: $\frac{1+\cos\alpha}{1-\cos\alpha}+\frac{1-\cos\alpha}{1+\cos\alpha}=2+4\cot^2\alpha$.

18) הוכח את הזהות הבאה: $\frac{1+\tan\alpha}{1-\tan\alpha}+\frac{1-\tan\alpha}{1+\tan\alpha}=\frac{2}{\cos^2\alpha-\sin^2\alpha}$.

19) הוכח את הזהות הבאה: $(\cot\alpha-\tan\alpha)(\cot\alpha+\tan\alpha)=(1+\cot^2\alpha)(1+\tan\alpha)(1-\tan\alpha)$.

20) הוכח את הזהות הבאה: $\frac{\sin^4\alpha+\cos^2\alpha-\sin^2\alpha}{\cos^4\alpha+\sin^2\alpha-\cos^2\alpha}=\cot^4\alpha$.

21) הוכח את הזהות הבאה: $1-\sin^2\alpha(1+\cos^2\alpha)=\cos^4\alpha$.

22) הוכח את הזהות הבאה: $\left(\sqrt{\frac{1+\cos\alpha}{1-\cos\alpha}}+\sqrt{\frac{1-\cos\alpha}{1+\cos\alpha}}\right)^2=4+4\cot^2\alpha$.

23) הוכח את הזהות הבאה: $\sin^2\alpha\cos^2\beta-\sin^2\beta\cos^2\alpha=\sin^2\alpha-\sin^2\beta$.

24) הוכח את הזהות הבאה: $\frac{\tan\alpha+\tan\beta}{\cot\alpha+\cot\beta}=\tan\alpha\tan\beta$.

הבעת ביטויים וחישובים באמצעות זהויות יסוד:

25) נתון כי: $\sin\alpha+\cos\alpha=k$.

הבע באמצעות k את ערכי הביטויים הבאים:

א. $\sin\alpha\cdot\cos\alpha$.

ב. $\sin\alpha-\cos\alpha$.

ג. $\tan\alpha+\cot\alpha$.

ד. $\sin^3\alpha+\cos^3\alpha$.

26) נתון כי: $\sin\alpha=\frac{\sqrt{5}}{5}$.

מבלי למצוא את α חשב את: $\tan^2\alpha-2\cot^2\alpha$.

27) נתון כי: $\tan\alpha=\sqrt{7}$.

מבלי למצוא את α חשב את: $\dfrac{\sqrt{7}\sin\alpha+6\cos\alpha}{\sqrt{28}\sin\alpha-\cos\alpha}$.

28) חשב את ערך המכפלה הבאה: $\tan 1^\circ\cdot\tan 2^\circ\cdot\tan 3^\circ\cdot\cdots\cdot\tan 88^\circ\cdot\tan 89^\circ$.

תשובות סופיות:

1) שאלת הוכחה.
2) שאלת הוכחה.
3) שאלת הוכחה.
4) שאלת הוכחה.
5) שאלת הוכחה.
6) שאלת הוכחה.
7) שאלת הוכחה.
8) שאלת הוכחה.
9) שאלת הוכחה.
10) שאלת הוכחה.
11) שאלת הוכחה.
12) שאלת הוכחה.
13) שאלת הוכחה.
14) שאלת הוכחה.
15) שאלת הוכחה.
16) שאלת הוכחה.
17) שאלת הוכחה.
18) שאלת הוכחה.
19) שאלת הוכחה.
20) שאלת הוכחה.
21) שאלת הוכחה.
22) שאלת הוכחה.
23) שאלת הוכחה.
24) שאלת הוכחה.
25) א. $\frac{k^2-1}{2}$ ב. $\pm\sqrt{2-k^2}$ ג. $\frac{2}{k^2-1}$ ד. $\frac{k}{2}\left(3-k^2\right)$
26) -7.75
27) 1
28) 1

ערכי הפונקציות הטריגונומטריות עבור זוויות מיוחדות:

סיכום כללי:

	$\alpha=0°$	$\alpha=30°$	$\alpha=45°$	$\alpha=60°$	$\alpha=90°$
$\sin\alpha$	0	$\frac{1}{2}$	$\frac{\sqrt{2}}{2}$	$\frac{\sqrt{3}}{2}$	1
$\cos\alpha$	1	$\frac{\sqrt{3}}{2}$	$\frac{\sqrt{2}}{2}$	$\frac{1}{2}$	0
$\tan\alpha$	0	$\frac{\sqrt{3}}{3}$	1	$\sqrt{3}$	ϕ
$\cot\alpha$	ϕ	$\sqrt{3}$	1	$\frac{\sqrt{3}}{3}$	0

הערות:

- ערכי הפונקציות הטריגונומטריות עבור זוויות של $0°$ ו-$90°$ תִּלמדנה בהמשך אך ניתנו כעת כדי להשלים את תמונת ערכי הזוויות.
- ניתן לזכור את הטבלה ע"י כתיבה של שורת הסינוס לפי: $\frac{\sqrt{0}}{2},\frac{\sqrt{1}}{2},\frac{\sqrt{2}}{2},\frac{\sqrt{3}}{2},\frac{\sqrt{4}}{2}$
  אשר נותנים את הערכים של השורה הראשונה לאחר פישוט קל.
  עבור שורת ה-$\cos\alpha$ יש להפוך את הערכים ולבסוף יש לחלק כל זוג ביטויים כדי לכתוב את ערכי $\tan\alpha$ ולסובב עבור ערכי $\cot\alpha$.

שאלות:

חשב ללא מחשבון את ערכי הביטויים הבאים תוך שימוש בערכי הפונקציות הטריגונומטריות של זוויות מיוחדות:

1) $\sin 30° + \cos 30°$.

2) $\frac{\sin 30° \cdot \cos 30°}{\sin 60°}$.

3) $\tan 45° + \frac{\sin 45°}{\cos 45°}$.

4) $\frac{1+\cos 60^\circ}{2\sin 60^\circ}$.

5) $\cos^2 45^\circ + \sin^2 30^\circ$.

6) $\frac{\tan^2 60^\circ \cdot \cos^2 30^\circ}{\cos^2 60^\circ}$.

7) $\frac{\tan 30^\circ \cdot \cot 60^\circ - \cot 45^\circ \cdot \tan 45^\circ}{4\left(\sin^2 60^\circ - \frac{1}{4}\right)}$.

8) $\frac{27\cot^4 60^\circ}{\sin 30^\circ \cdot \cos 45^\circ \cdot \tan 60^\circ}$.

תשובות סופיות:

1) $\frac{1+\sqrt{3}}{2}$

2) $\frac{1}{2}$

3) 2

4) $\frac{3}{2\sqrt{3}}$

5) $\frac{3}{4}$

6) 9

7) $-\frac{1}{3}$

8) $2\sqrt{6}$

מעגל היחידה – הגדרה וזהויות:

סיכום כללי:

הגדרת מעגל היחידה:

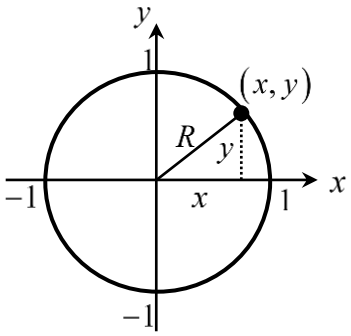

- מעגל קנוני שרדיוסו 1 מוגדר להיות המעגל הטריגונומטרי.
- הנקודות $(1,0)$, $(0,1)$, $(-1,0)$, $(0,-1)$ מתאימות לזוויות של $0°$, $90°$, $180°$, $270°$.

הזהויות של המעגל הטריגונומטרי:

רביע	סינוס	קוסינוס	טנגנס
II III VI	$\sin(180°-\alpha)=\sin\alpha$ $\sin(180°+\alpha)=-\sin\alpha$ $\sin(-a)=-\sin\alpha$	$\cos(180^o-\alpha)=-\cos\alpha$ $\cos(180^o+\alpha)=-\cos\alpha$ $\cos(-\alpha)=\cos\alpha$	$\tan(180^o-\alpha)=-\tan\alpha$ $\tan(180^o+\alpha)=\tan\alpha$ $\tan(-\alpha)=-\tan\alpha$
סימנים	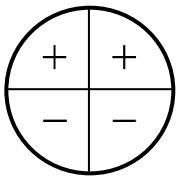	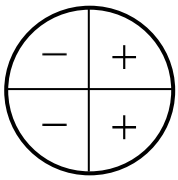	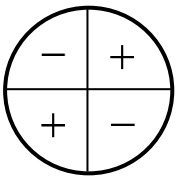

זהויות עבור זווית הגדולות מ-360 מעלות:

ניתן להוסיף או להוריד 'סיבובים' שלמים לזווית לפי:

$$\boxed{\begin{aligned}\sin(\alpha+360°k)&=\sin\alpha\\ \cos(\alpha+360°k)&=\cos\alpha\end{aligned}}\quad,\quad\boxed{\begin{aligned}\tan(\alpha+180°k)&=\tan\alpha\\ \cot(\alpha+180°k)&=\cot\alpha\end{aligned}}$$

כאשר k הוא מספר שלם מציין את מספר הסיבובים.

שאלות:

1) העבר את הביטויים הבאים לביטויים עם זווית ברביע הראשון.
אין צורך לחשב את ערך הביטוי:

א. $\sin 120°$	ב. $\cos 150°$
ג. $\tan 160°$	ד. $\cot 130°$
ה. $\sin 215°$	ו. $\cos 245°$
ז. $\tan 230°$	ח. $\cot 200°$
ט. $\sin 300°$	י. $\cos 310°$

2) חשב את ערכי הביטויים הבאים ע"י שימוש בזהויות המעגל הטריגונומטרי:

א. $\sin 150°$	ב. $\cos 210°$	ג. $\tan 120°$
ד. $\sin 330°$	ה. $\tan 225°$	ו. $\sin 315°$
ז. $\cos 120°$	ח. $\tan(-30°)$	ט. $\cos(-45°)$
י. $\sin 510°$	יא. $\cos 930°$	יב. $\tan(-225°)$

3) חשב את ערכי הביטויים הבאים ללא שימוש במחשבון:

א. $\left(\sin 240° \cdot \tan 150° + \cos(-60°)\right)^2$.

ב. $8\sin^2 150° \cdot \tan 135° - 2 \cdot \sin 135° \cdot \cos(-135°)$.

ג. $\dfrac{\cot 225°}{\sin(-225°) - \cos 135°} + \tan^2 210°$.

4) הוכח כי אם α, β ו- γ הן זוויות במשולש, אז מתקיים:

א. $\sin(\alpha + \beta) = \sin\gamma$.

ב. $\sin\left(\dfrac{\gamma + \beta}{2}\right) = \cos\dfrac{\alpha}{2}$.

תשובות סופיות:

1) א. $\sin 60°$ ב. $-\cos 30°$ ג. $-\tan 20°$ ד. $-\cot 50°$
ה. $-\sin 35°$ ו. $-\cos 65°$ ז. $\tan 50°$ ח. $\cot 20°$
ט. $-\sin 60°$ י. $\cos 50°$

2) א. $\frac{1}{2}$ ב. $-\frac{\sqrt{3}}{2}$ ג. $-\sqrt{3}$ ד. $-\frac{1}{2}$
ה. 1 ו. $-\frac{\sqrt{2}}{2}$ ז. $-\frac{1}{2}$ ח. $-\frac{\sqrt{3}}{3}$
ט. $\frac{\sqrt{2}}{2}$ י. $\frac{1}{2}$ יא. $-\frac{\sqrt{3}}{2}$ יב. -1

3) א. 1 ב. -1 ג. $\frac{1}{\sqrt{2}}+\frac{1}{3}$.

4) שאלת הוכחה.

סכום והפרש זוויות:

סיכום כללי:

סכום והפרש עבור $\sin(\alpha\pm\beta)$ ו- $\cos(\alpha\pm\beta)$ יחושב לפי:

$$\boxed{\begin{aligned}\sin(\alpha\pm\beta)&=\sin\alpha\cos\beta\pm\sin\beta\cos\alpha\\ \cos(\alpha\pm\beta)&=\cos\alpha\cos\beta\mp\sin\alpha\sin\beta\end{aligned}}.$$

סכום והפרש עבור $\tan(\alpha\pm\beta)$ ו- $\cot(\alpha\pm\beta)$

$$\boxed{\begin{aligned}\tan(\alpha\pm\beta)&=\frac{\tan\alpha\pm\tan\beta}{1\mp\tan\alpha\tan\beta}\\ \cot(\alpha\pm\beta)&=\frac{\cot\alpha\cot\beta\mp1}{\cot\beta\pm\cot\alpha}\end{aligned}}.$$

הערה:

בסרטון התיאוריה אין התייחסות מיוחדת לזהויות עבור $\tan(\alpha\pm\beta)$ ו- $\cot(\alpha\pm\beta)$.

שאלות:

1) חשב את ערכי הביטויים הבאים תוך שימוש בזהויות של סכום והפרש זוויות וללא שימוש במחשבון:

א. $\sin 75°$	ב. $\sin 15°$	ג. $\sin 105°$
ד. $\sin(-15°)$	ה. $\cos 75°$	ו. $\cos 15°$
ז. $\cos(-105°)$	ח. $\cos 165°$	ט. $\cos(-195°)$

2) חשב ללא שימוש במחשבון את ערכי הביטויים הבאים:

א. $\sin 65°\cos 25°+\sin 25°\cos 65°$.

ב. $5\cos 50°\cos 20°+5\sin 50°\sin 20°$.

3) הוכח את הזהויות הבאות:

א. $\sin(60°+\alpha)+\sin(60°-\alpha)=\sqrt{3}\cos\alpha$.

ב. $\cos(45°-\alpha)-\cos(45°+\alpha)=\sqrt{2}\sin\alpha$.

ג. $\sin(\alpha+\beta)\cdot\sin(\alpha-\beta)=\sin^2\alpha-\sin^2\beta$.

ד. $\tan\alpha-\tan\beta=\dfrac{\sin(\alpha-\beta)}{\cos\alpha\cos\beta}$.

4) נתון: $\cos\beta=\dfrac{8}{17}$, $\cos\alpha=\dfrac{4}{5}$ ו- α,β זוויות חדות.

מבלי למצוא את הערכים של α ו- β חשב:

א. $\sin(\alpha+\beta)$.

ב. $\cos(\alpha+\beta)$.

ג. $\tan(\alpha+\beta)$.

5) הוכח את הזהות: $\sin(\alpha+\beta)-\sin(\alpha-\beta)=2\sin\beta\cos\alpha$.

6) הוכח את הזהות: $(\sin\alpha+\cos\alpha)(\sin2\alpha+\cos2\alpha)=\sin3\alpha+\cos\alpha$.

7) הוכח את הזהות: $\tan7\alpha-\tan5\alpha-\tan2\alpha=\tan7\alpha\tan5\alpha\tan2\alpha$.

8) הוכח את הזהות: $\dfrac{\sin(\alpha-\beta)}{\cos(\alpha+\beta)}=\dfrac{\tan\alpha-\tan\beta}{1-\tan\alpha\tan\beta}$.

9) הוכח את הזהות: $\cot\alpha-\cot\beta=\dfrac{\sin(\beta-\alpha)}{\sin\alpha\sin\beta}$.

10) הוכח את הזהות הבאה:

$\sin\alpha\cos\beta\cos\gamma+\cos\alpha\sin\beta\cos\gamma+\cos\alpha\cos\beta\sin\gamma-\sin\alpha\sin\beta\sin\gamma=\sin(\alpha+\beta+\gamma)$.

11) הוכח כי מתקיים: $\sin 65^\circ \cos 25^\circ + \sin 25^\circ \cos 65^\circ = 1$.

12) הוכח כי מתקיים: $\tan 18^\circ \tan 27^\circ + \tan 18^\circ + \tan 27^\circ = 1$.

13) נתון כי: $\sin 76^\circ = m$. הבע את $\sin 31^\circ$ באמצעות m.

14) הזוויות α ו- β הן זוויות חדות.

נתון כי: $\tan\alpha = \frac{(2-k)\sqrt{3}}{3k}$ ו- $\tan\beta = \frac{(2k-1)\sqrt{3}}{3}$.

הראה כי מתקיים: $\alpha + \beta = 60^\circ$.

15) היעזר בנוסחה: $\tan(\alpha \pm \beta) = \frac{\tan\alpha \pm \tan\beta}{1 \mp \tan\alpha \tan\beta}$ ומצא את $\tan x$ ו- $\tan y$

אם ידוע כי: $\tan(x+y) = -3$ ו- $\tan(x-y) = \frac{1}{3}$. הבחן בין שני מקרים.

תשובות סופיות:

1) א. $\frac{\sqrt{6}+\sqrt{2}}{4}$ ב. $\frac{\sqrt{6}-\sqrt{2}}{4}$ ג. $\frac{\sqrt{6}+\sqrt{2}}{4}$ ד. $\frac{\sqrt{2}-\sqrt{6}}{4}$ ה. $\frac{\sqrt{6}-\sqrt{2}}{4}$

ו. $\frac{\sqrt{6}+\sqrt{2}}{4}$ ז. $\frac{\sqrt{2}-\sqrt{6}}{4}$ ח. $-\frac{\sqrt{6}+\sqrt{2}}{4}$ ט. $-\frac{\sqrt{6}+\sqrt{2}}{4}$

2) א. 1 ב. $\frac{5\sqrt{3}}{2}$

3) שאלת הוכחה.

4) א. $\frac{84}{85}$ ב. $-\frac{13}{85}$ ג. $-6\frac{6}{13}$

5) שאלת הוכחה.

6) שאלת הוכחה.

7) שאלת הוכחה.

8) שאלת הוכחה.

9) שאלת הוכחה.

10) שאלת הוכחה.

11) שאלת הוכחה.

12) שאלת הוכחה.

13) שאלת הוכחה.

14) $\frac{\sqrt{2}}{2}\left(m-\sqrt{1-m^2}\right)$.

15) שאלת הוכחה.

16) 1 ו-2 או $-\frac{1}{2}$ ו- 1-.

זווית כפולה:

סיכום כללי:

נפתח זווית כפולה לפי הצורות הבאות:

$$\boxed{\begin{array}{l}\sin 2\alpha = 2\sin\alpha\cos\alpha \\ \cos 2\alpha = \cos^2\alpha - \sin^2\alpha = 2\cos^2\alpha - 1 = 1 - 2\sin^2\alpha\end{array}}$$

שאלות:

1) הוכח את הזהויות הבאות:

א. $4\sin\alpha\cos\alpha\cos 2\alpha = \sin 4\alpha$

ב. $(\sin\alpha - \cos\alpha)^2 = 1 - \sin 2\alpha$

ג. $(\sin 3\alpha - \cos 3\alpha)^2 = 1 - \sin 6\alpha$

ד. $\cos^4\alpha - \sin^4\alpha = \cos 2\alpha$

ה. $\frac{\cos\alpha}{\sin\alpha} - \frac{\sin\alpha}{\cos\alpha} = 2\cot 2\alpha$

ו. $\frac{\cos 2\alpha - 2\sin^2\alpha\cos 2\alpha}{\sin 4\alpha} = \frac{1}{2}\cot 2\alpha$

ז. $\cos^2 2\alpha = 4\sin^4\alpha - 4\sin^2\alpha + 1$

ח. $\cos 4\alpha = 8\cos^4\alpha - 8\cos^2\alpha + 1$

2) הוכח את הזהות: $\sin^3\alpha = \frac{3\sin\alpha - \sin 3\alpha}{4}$ ע"י כתיבה של $\sin 3\alpha$

לפי: $\sin(\alpha + 2\alpha)$ ושימוש בזהויות שנלמדו.

3) הוכח את הזהות: $\cos^3\alpha = \frac{3\cos\alpha + \cos 3\alpha}{4}$ ע"י כתיבה של $\cos 3\alpha$

לפי: $\cos(\alpha + 2\alpha)$ ושימשו בזהויות שנלמדו.

4) נתונה זווית חדה α המקיימת: $\sin\alpha = \frac{40}{41}$. מבלי להיעזר במחשבון חשב:

א. $\cos\alpha$.

ב. $\tan\alpha$.

ג. $\sin 2\alpha$.

ד. $\cos 2\alpha$.

ה. $\tan 2\alpha$.

5) נתונה זווית חדה α המקיימת: $\tan\alpha=\frac{5}{12}$. מבלי להיעזר במחשבון חשב:

א. $\sin\alpha$.

ב. $\cos\alpha$.

ג. $\sin 2\alpha$.

ד. $\cos 2\alpha$.

6) נתונה זווית α ברביע הראשון וזווית β ברביע השני המקיימות: $\sin\alpha=\frac{5}{13}$ ו- $\cos\beta=-0.8$. מבלי למצוא את α ו- β חשב את הביטויים הבאים:

א. $\sin(\alpha+\beta)$.

ב. $\cos(\alpha+\beta)$.

ג. $\sin(2\alpha+\beta)$.

7) נתון כי $\sin\alpha+\cos\alpha=1.2$ עבור $0°<\alpha<90°$. חשב את $\sin 2\alpha$.

8) פשט את הביטוי הבא: $\sqrt{\frac{1+\cos 8\alpha}{2}}$.

9) ללא שימוש במחשבון, חשב את ערך הביטוי הבא: $\frac{\sin 16°\cos 16°}{3-6\sin^2 29°}$.

10) ללא שימוש במחשבון, חשב את ערך הביטוי הבא: $\frac{\sin^2 78°-\cos^2 78°}{\sin 66°}$.

11) ללא שימוש במחשבון, חשב את ערך הביטוי הבא: $\frac{5\tan 15°\left(1-2\cos^2 15°\right)}{1-\tan^2 15°}$.

תשובות סופיות:

1) שאלת הוכחה.

2) שאלת הוכחה.

3) שאלת הוכחה.

4) א. $\frac{9}{41}$ ב. $4\frac{4}{9}$ ג. $\frac{720}{1681}$ ד. $-\frac{1519}{1681}$

ה. $-\frac{720}{1519}$

5) א. $\frac{5}{13}$ ב. $\frac{12}{13}$ ג. $\frac{120}{169}$ ד. $\frac{119}{169}$

6) א. $\frac{16}{65}$ ב. $-\frac{63}{65}$ ג. $-\frac{123}{845}$

7) 0.44.

8) $\cos 4\alpha$.

9) $\frac{1}{6}$.

10) 1.

11) -1.25.

סכום והפרש פונקציות טריגונומטריות:

סיכום כללי:

להלן נוסחאות הסכום וההפרש של פונקציות טריגונומטריות:

$$\sin\alpha+\sin\beta=2\sin\frac{\alpha+\beta}{2}\cos\frac{\alpha-\beta}{2}$$
$$\sin\alpha-\sin\beta=2\sin\frac{\alpha-\beta}{2}\cos\frac{\alpha+\beta}{2}$$
$$\cos\alpha+\cos\beta=2\cos\frac{\alpha+\beta}{2}\cos\frac{\alpha-\beta}{2}$$
$$\cos\alpha-\cos\beta=-2\sin\frac{\alpha+\beta}{2}\sin\frac{\alpha-\beta}{2}$$

הערה:

בסרטון התיאוריה אין התייחסות לזהויות הסכום וההפרש של טנגנס ושל קוטנגנס עקב חוסר השימוש בהן בפתרון שאלות.

שאלות:

1) הוכח את הזהות הבאה: $\sin 5\alpha+\sin 3\alpha=2\sin 4\alpha\cos\alpha$.

2) הוכח את הזהות הבאה: $\sin 7\alpha-\sin 2\alpha=2\sin 2.5\alpha\cos 4.5\alpha$.

3) הוכח את הזהות הבאה: $\cos\alpha+\cos 5\alpha=2\sin 2\alpha\cos 3\alpha$.

4) הוכח את הזהות הבאה: $\cos 5\alpha-\cos 2\alpha=-2\sin 3.5\alpha\cos 1.5\alpha$.

5) הוכח את הזהות הבאה: $\sin 3\alpha=2\sin 2\alpha\cos\alpha-\sin\alpha$.

6) הוכח את הזהות הבאה: $\sin^2\alpha-\sin^2\beta=\sin(\alpha+\beta)\sin(\alpha-\beta)$.

7) הוכח את הזהות הבאה: $\sin(2\alpha+\beta)-2\cos(\alpha+\beta)\sin\alpha=\sin\beta$.

8) הוכח את הזהות הבאה: $\frac{\sin 5\alpha-\sin\alpha}{\sin 4\alpha-\sin 2\alpha}=2\cos\alpha$.

9) הוכח את הזהות הבאה: $\frac{\sin 7\alpha - \sin 3\alpha}{\cos 4\alpha + \cos 6\alpha} = 2\sin\alpha$.

10) הוכח את הזהות הבאה: $\frac{\sin\alpha + \sin 2\alpha + \sin 3\alpha}{\cos\alpha + \cos 2\alpha + \cos 3\alpha} = \tan 2\alpha$.

11) הוכח את הזהות הבאה: $\tan\alpha + \tan 3\alpha = \frac{2\sin 4\alpha}{\cos 4\alpha + \cos 2\alpha}$.

12) פשט את הביטוי: $\frac{1+\cos\alpha+\cos 2\alpha+\cos 3\alpha}{\cos\alpha + 2\cos^2\alpha - 1}$ ומצא את ערכו מבלי להיעזר במחשבון אם ידוע כי $\sin\frac{\alpha}{2} = \frac{5}{6}$.

13) נתון כי α ו- β הן זוויות חדות המקיימות: $\sin\alpha = \frac{2mn}{m^2+n^2}$ ו- $\sin\beta = \frac{n^2-m^2}{m^2+n^2}$.
הראה כי: $\alpha + \beta = 90°$.

14) היעזר במעבר מכפל לסכום או הפרש
והוכח כי: $\cos 6\alpha\cos 2\alpha - \cos 5\alpha\cos\alpha = -\sin 7\alpha\sin\alpha$.

15) היעזר במעבר מכפל לסכום או הפרש
והוכח כי: $\sin 4\alpha\sin 2\alpha - \sin 5\alpha\sin\alpha + \cos 3\alpha\cos\alpha = \cos 2\alpha$.

16) חשב ללא מחשבון את ערך הביטוי הבא: $\sin 52.5° \cdot \sin 7.5°$.

17) חשב ללא מחשבון את ערך הביטוי הבא: $\frac{\sin 35°\sin 55°}{\cos 40°\cos 20° - 0.25}$.

18) חשב ללא מחשבון את ערך הביטוי הבא: $\cos 20°\cos 40°\cos 80°$.

19) חשב ללא מחשבון את ערך הביטוי הבא: $\sin 5°\cdot\sin 25°\cdot\sin 35°\cdot\sin 55°\cdot\sin 65°\cdot\sin 85°$.

תשובות סופיות:

1) שאלת הוכחה.
2) שאלת הוכחה.
3) שאלת הוכחה.
4) שאלת הוכחה.
5) שאלת הוכחה.
6) שאלת הוכחה.
7) שאלת הוכחה.
8) שאלת הוכחה.
9) שאלת הוכחה.
10) שאלת הוכחה.
11) שאלת הוכחה.
12) $-\frac{7}{9}$.
13) שאלת הוכחה.
14) שאלת הוכחה.
15) שאלת הוכחה.
16) $\frac{\sqrt{2}-1}{4}$.
17) 1.
18) $\frac{1}{8}$.
19) $\frac{1}{64}$.

מכפלת פונקציות:

סיכום כללי:

להלן נוסחאות המעבר מסכום למכפלה וממכפלה לסכום:

$$\begin{cases} \sin\alpha\cos\beta=\frac{1}{2}\left[\sin(\alpha+\beta)+\sin(\alpha-\beta)\right] \\ \cos\alpha\cos\beta=\frac{1}{2}\left[\cos(\alpha+\beta)+\cos(\alpha-\beta)\right] \\ \sin\alpha\sin\beta=\frac{1}{2}\left[\cos(\alpha-\beta)-\cos(\alpha+\beta)\right] \end{cases}$$

$$\begin{cases} \sin\alpha+\sin\beta=2\sin\frac{\alpha+\beta}{2}\cos\frac{\alpha-\beta}{2} \\ \sin\alpha-\sin\beta=2\sin\frac{\alpha-\beta}{2}\cos\frac{\alpha+\beta}{2} \\ \cos\alpha+\cos\beta=2\cos\frac{\alpha+\beta}{2}\cos\frac{\alpha-\beta}{2} \\ \cos\alpha-\cos\beta=-2\sin\frac{\alpha+\beta}{2}\sin\frac{\alpha-\beta}{2} \end{cases}$$

שאלות:

1) הוכח את הזהות הבאה: $\sin 7\alpha\cos\alpha=\frac{1}{2}(\sin 8\alpha+\sin 6\alpha)$.

2) הוכח את הזהות הבאה: $\cos 11\alpha\sin 3\alpha=\frac{1}{2}(\sin 14\alpha-\sin 8\alpha)$.

3) הוכח את הזהות הבאה: $\cos 4\alpha\cos 10\alpha=\frac{1}{2}(\cos 6\alpha+\cos 14\alpha)$.

4) הוכח את הזהות הבאה: $\sin 3\alpha\sin 7\alpha=\frac{1}{2}(\cos 4\alpha-\cos 10\alpha)$.

5) הוכח את הזהות הבאה: $2\sin 7\alpha\sin 2\alpha+\cos 9\alpha=\cos 5\alpha$.

6) הוכח את הזהות הבאה: $\sin 7\alpha\cos 4\alpha-\sin 4\alpha\cos\alpha=\sin 3\alpha\cos 8\alpha$.

7) הוכח את הזהות הבאה: $\sin\alpha\sin 3\alpha=\cos 2\alpha-\cos 3\alpha\cos\alpha$.

8) הוכח את הזהות הבאה: $2\left(\sin^2\beta-\sin^2\alpha\right)=\cos 2\alpha-\cos 2\beta$.

9) הוכח את הזהות הבאה: $\frac{2}{\cot\beta-\tan\alpha}=\tan(\alpha+\beta)-\frac{\sin(\alpha-\beta)}{\cos(\alpha+\beta)}$.

תשובות סופיות:

1) הוכחה.
2) הוכחה.
3) הוכחה.
4) הוכחה.
5) הוכחה.
6) הוכחה.
7) הוכחה.
8) הוכחה.
9) הוכחה.

מכינה אקדמית במתמטיקה למדעי המחשב 1400004

פרק 14 - טריגונומטריה - משוואות טריגונומטריות

תוכן העניינים

1. משוואות טריגונומטריות כלליות 264
2. משוואות הנפתרות עי טכניקה אלגברית 267
3. משוואות הנפתרות על ידי זהויות יסוד 269
4. משוואות הנפתרות על ידי זהויות של מעגל היחידה 271
5. משוואות הנפתרות על ידי חלוקה בקוסינוס 272
6. משוואות הנפתרות על ידי זהויות של סכום והפרש זוויות 273
7. משוואות הנפתרות על ידי זהויות של זווית כפולה 274
8. משוואות מהצורה $a\sin(x)+b\cos(x)=c$ 275
9. משוואות הנפתרות על ידי זהויות של סכום והפרש פונקציות 276
10. משוואות עם תחום נתון 278
11. משוואות עם זוויות ברדיאנים 279
12. אי שוויונים טריגונומטריים 283

משוואות טריגונומטריות כלליות:

סיכום כללי:

פתרון כללי של משוואות טריגונומטריות (במעלות):

להלן נוסחאות הפתרון של המשוואות הטריגונומטריות היסודיות
כאשר x הוא משתנה ו- α היא זווית נתונה/ידועה:

המשוואה	הפתרון
$\sin x = \sin\alpha$	$x_1 = \alpha + 360°k \ , \ x_2 = 180° - \alpha + 360°k$
$\cos x = \cos\alpha$	$x_{1,2} = \pm\alpha + 360°k$
$\tan x = \tan\alpha$	$x = \alpha + 180°k$
$\cot x = \cot\alpha$	$x = \alpha + 180°k$

כאשר k מספר שלם.

שאלות:

1) כתוב את הפתרון הכללי של המשוואות הבאות (פונקציית הסינוס):

א. $\sin x = \frac{1}{2}$ ב. $\sin x = \frac{\sqrt{2}}{2}$ ג. $\sin x = -\frac{\sqrt{3}}{2}$ ד. $\sin x = -\frac{1}{2}$

2) כתוב את הפתרון הכללי של המשוואות הבאות (פונקציית הקוסינוס):

א. $\cos x = \frac{1}{2}$ ב. $\cos x = -\frac{\sqrt{3}}{2}$

3) כתוב את הפתרון הכללי של המשוואות הבאות (פונקציית הטנגנס):

א. $\tan x = \frac{1}{\sqrt{3}}$ ב. $\tan x = -1$

4) כתוב את הפתרון הכללי של המשוואות הבאות (זווית כללית):

א. $\sin x = 0.7$ ב. $\cos x = -0.6$ ג. $\tan x = 5$

5) כתוב את הפתרון הכללי של המשוואות הבאות (משוואות לא מסודרות):

א. $\sin 3x = \frac{1}{2}$ ב. $2\cos 2x = -\sqrt{3}$

ג. $\tan 5x = -1$ ד. $3\sin 2x = 2$

ה. $3\cos 3x = 1$ ו. $2\tan 4x = 1$

6) כתוב את הפתרון הכללי של המשוואות הבאות (ארגומנט מורכב):

א. $\sin(2x+30°) = -\frac{\sqrt{3}}{2}$ ב. $\cos(75°-3x) = \frac{\sqrt{2}}{2}$ ג. $\tan(50°-x) = 1.3$

7) כתוב את הפתרון הכללי של המשוואות הבאות (פונקציות עם ארגומנטים שונים):

א. $\sin x = \sin 3x$ ב. $\sin 2x = \sin(x+30°)$

ג. $\sin x = \sin(120°-x)$ ד. $\cos x = \cos 3x$

ה. $\cos x = \cos(40°-x)$ ו. $\tan x = \tan 3x$

ז. $\tan 2x = \tan(60°-x)$

8) כתוב את הפתרון הכללי של המשוואות הבאות (משוואות מיוחדות):

א. $\sin x = 0$ ב. $\sin x = 1$

ג. $\sin x = -1$ ד. $\cos x = 0$

ה. $\cos x = 1$ ו. $\cos x = -1$

ז. $\tan x = 0$ ח. $\tan x = 1$

תשובות סופיות:

1) א. $x_1 = 30° + 360°k \ , x_2 = 150° + 360°k$
ב. $x_1 = 45° + 360°k \ , x_2 = 135° + 360°k$
ג. $x_1 = -60° + 360°k \ , x_2 = 240° + 360°k$
ד. $x_1 = -30° + 360°k \ , x_2 = 210° + 360°k$.

2) א. $x_{1,2} = \pm 60° + 360°k$
ב. $x_{1,2} = \pm 150° + 360°k$.

3) א. $x = 30° + 180°k$
ב. $x = 135° + 180°k$.

4) א. $x_1 = 44.427° + 360°k \ , x_2 = 135.573° + 360°k$
ב. $x_{1,2} = 126.87° + 360°k$
ג. $x = 78.69° + 180°k$.

5) א. $x_1 = 10° + 120°k \ , x_2 = 50° + 120°k$
ב. $x_1 = 75° + 180°k \ , x_2 = -75° + 180°k$
ג. $x = -9° + 36°k$
ד. $x_1 = 20.9° + 180°k \ , x_2 = 69.09° + 180°k$
ה. $x_{1,2} = \pm 23.5° + 120°k$
ו. $x = 6.64° + 45°k$.

6) א. $x_1 = 105° + 180°k \ , x_2 = -45° + 180°k$
ב. $x_1 = 10° + 120°k \ , x_2 = 40° + 120°k$
ג. $x = -2.431° + 180°k$.

7) א. $x_1 = 180°k \ , x_2 = 45° + 90°k$
ב. $x_1 = 30° + 360°k \ , x_2 = 50° + 120°k$
ג. $x = 60° + 180°k$
ד. $x = 90°k$
ה. $x = 20° + 180°k$
ו. $x = 180°k$
ז. $x = 20° + 60°k$.

8) א. $x = 180°k$
ב. $x = 90° + 360°k$
ג. $x = 180° + 360°k$
ד. $x = 90° + 180°k$
ה. $x = 360°k$
ו. $x = 180° + 360°k$
ז. $x = 180°k$
ח. $x = 45° + 180°k$.

משוואות הנפתרות ע"י טכניקה אלגברית:

סיכום כללי:

נעזר בטכניקה אלגברית בכדי להביא משוואה מורכבת לצורה של משוואה יסודית.

טכניקות שכיחות:

- הוצאת שורש ריבועי.
- פירוק לגורמים (ע"י הוצאת גורם משותף, ע"י נוסחאות הכפל המקוצר וע"י פירוק טרינום).
- פתרון משוואה ריבועית.

שאלות:

כתוב את הפתרון הכללי של המשוואות הבאות (טכניקה אלגברית):

1) $\cos^2 x = \frac{3}{4}$

2) $\sin^2 x = \frac{1}{4}$

3) $\tan^2 2x = 3$

4) $\sin x \cos 3x = 0$

5) $\sin 2x - 2\sin^2 2x = 0$

6) $2\cos^2 x + \sqrt{3}\cos x = 0$

7) $2\sin^2 x - \sin x - 1 = 0$

8) $3\sin^2 x - \sin x = 2$

9) $6\sin^2 x - \sin x - 1 = 0$

10) $\cos^2 x + 2\cos x = 3$

11) $\tan^2 x - 3\tan x - 4 = 0$

12) $\tan^2 x = 4\tan x - 1$

13) $\cos x - \frac{2}{\cos x} + 1 = 0$

14) $\frac{\sin x}{\cos x - 1} = 0$

15) $\frac{\cos 2x}{\tan x + 1} = 0$

תשובות סופיות:

1) $x_{1,2}=\pm 30°+360°k$, $x_{3,4}=\pm 150°+360°k$.

2) $x_1=30°+360°k$, $x_2=150°+360°k$, $x_3=330°+360°k$, $x_4=210°+360°k$.

3) $x_1=30°+90°k$, $x_2=-30°+90°k$.

4) $x_1=180°k$, $x_2=30°+60°k$.

5) $x_1=90°k$, $x_2=15°+180°k$, $x_3=75°+180°k$.

6) $x_1=90°+180°k$, $x_{2,3}=\pm 150°+360°k$.

7) $x_1=90°+360°k$, $x_2=210°+360°k$, $x_3=-30°+360°k$.

8) $x_1=90°+360°k$, $x_2=-41.8°+360°k$, $x_3=221.8°+360°k$.

9) $x_1=30°+360°k, x_2=150°+360°k, x_3=-19.4°+360°k, x_4=199.4°+360°k$.

10) $x=360°k$.

11) $x_1=-45°+180°k$, $x_2=75.964°+180°k$.

12) $x_1=75°+180°k$, $x_2=15°+180°k$.

13) $x=360°k$.

14) $x=180°+360°k$.

15) $x=45°+90°k$, $x\neq -45°+180°k$.

משוואות הנפתרות ע"י זהויות יסוד:

סיכום כללי:

כאשר משוואה מכילה יותר מפונקציה טריגונומטרית אחת, יש תחילה להעביר אותה למשוואה שקולה המכילה פונקציה טריגונומטרית אחת.
לאחר מכן ניתן לבצע פעולות אלגבריות בכדי לקבל משוואות יסודיות ולכתוב את הפתרון עבור כל אחת. לשם כך נעזר בזהויות טריגונומטריות.

תזכורת – זהויות היסוד הטריגונומטריות:

קשרים בין פונקציות	$\tan\alpha=\frac{\sin\alpha}{\cos\alpha}$, $\cot\alpha=\frac{\cos\alpha}{\sin\alpha}$	$\sin^2\alpha+\cos^2\alpha=1$ $\tan\alpha\cdot\cot\alpha=1$
זוויות משלימות ל- $90°$	$\cos\alpha=\sin(90°-\alpha)$	$\sin\alpha=\cos(90°-\alpha)$
	$\cot\alpha=\tan(90°-\alpha)$	$\tan\alpha=\cot(90°-\alpha)$
קשרים בין פונקציות	$\cot^2\alpha+1=\frac{1}{\sin^2\alpha}$	$\tan^2\alpha+1=\frac{1}{\cos^2\alpha}$

שאלות:

כתוב את הפתרון הכללי של המשוואות הבאות:

1) $\sin x=\cos x$

2) $\sin x=\cos(x+45°)$

3) $\cos x=\frac{2}{3}\sin^2 x$

4) $2\cos^2 x=3\sin x$

5) $\sin^2 x-\cos x=\frac{1}{4}$

6) $\cos^2 x-\sin^2 x=\sin x$

7) $\sin^2 x+2\cos^2 x=1.5$

8) $\sin x-\tan x=0$

תשובות סופיות:

1) $x = 45° + 180°k$.

2) $x = 22.5° + 180°k$.

3) $x_{1,2} = \pm 60° + 360°k$.

4) $x_1 = 30° + 360°k$, $x_2 = 150° + 360°k$.

5) $x_{1,2} = \pm 60° + 360°k$.

6) $x_1 = 30° + 120°k$, $x_2 = -90° + 360°k$

7) $x_{1,2} = \pm 45° + 360°k$, $x_{3,4} = \pm 135° + 360°k$.

8) $x = 180°k$.

משוואות הנפתרות ע"י זהויות של מעגל היחידה:

סיכום כללי:

כאשר משוואה מכילה יותר מפונקציה טריגונומטרית אחת, יש תחילה להעביר אותה למשוואה שקולה המכילה פונקציה טריגונומטרית אחת.
לאחר מכן ניתן לבצע פעולות אלגבריות בכדי לקבל משוואות יסודיות ולכתוב את הפתרון עבור כל אחת. לשם כך נעזר בזהויות טריגונומטריות.

תזכורת – זהויות של מעגל היחידה:

רביע	סינוס	קוסינוס	טנגנס
I II III	$\sin(180^o-\alpha)=\sin\alpha$ $\sin(180^o+\alpha)=-\sin\alpha$	$\cos(180^o-\alpha)=-\cos\alpha$ $\cos(180^o+\alpha)=-\cos\alpha$ $\cos(-\alpha)=\cos\alpha$	$\tan(180^o-\alpha)=-\tan\alpha$ $\tan(180^o+\alpha)=\tan\alpha$ $\tan(-\alpha)=-\tan\alpha$
סימנים	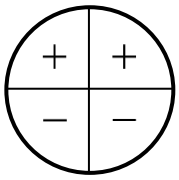	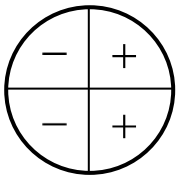	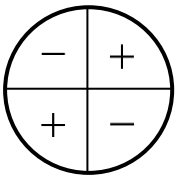

זהויות עבור זוויות הגדולות מ-360 מעלות:

$$\boxed{\begin{array}{l}\tan(\alpha+180°k)=\tan\alpha\\ \cot(\alpha+180°k)=\cot\alpha\end{array}}\quad,\quad\boxed{\begin{array}{l}\sin(\alpha+360°k)=\sin\alpha\\ \cos(\alpha+360°k)=\cos\alpha\end{array}}$$

שאלות:

כתוב את הפתרון הכללי של המשוואות הבאות:

1) $\sin x=-\sin 3x$
2) $\cos 2x=-\cos 3x$
3) $\sin(x+30°)=-\cos x$
4) $\sin 3x=-\cos(180°-x)$

תשובות סופיות:

1) $x_1=90°k\ ,\ x_2=-90°+180°k$
2) $x_1=180°+360°k\ ,\ x_2=36°+72°k$
3) $x=120°+180°k$
4) $x_1=22.5°+90°k\ ,\ x_2=45°+180°k$

משוואות הנפתרות על ידי חלוקה בקוסינוס:

סיכום כללי:

טכניקה יעילה כדי להעביר משוואה מהצורה: $\sin x = a\cos x$ לפונקציה טריגונומטרית אחת היא ע"י חלוקה ב-$\cos x$ (בתנאי ש-$\cos x \neq 0$).
כך מתקבלת המשוואה:

$$\sin x = a\cos x \quad / : \cos x \neq 0$$
$$\frac{\sin x}{\cos x} = a\frac{\cos x}{\cos x}$$
$$\tan x = a$$
$$x = \tanh^{-1}(a) + 180°k$$

הערה:

יש לבדוק האם ערכי x שמקיימים $\cos x = 0$ מהווים פתרון למשוואה.
אם כן אז יש להוסיף אותם לפתרון הסופי.

שאלות:

כתוב את הפתרון הכללי של המשוואות הבאות:

1) $\sin x = 2\cos x$
2) $3\sin x = \cos x$
3) $4\sin x = 7\cos x$
4) $2\sin x = -5\cos x$
5) $\sin^2 x = 8\cos^2 x$
6) $3\sin^2 x = \cos^2 x$

תשובות סופיות:

1) $x = 63.43° + 180°k$.
2) $x = 18.43° + 180°k$.
3) $x = 60.25° + 180°k$.
4) $x = -68.19° + 180°k$.
5) $x_1 = 70.52° + 180°k$, $x_2 = -70.52° + 180°k$.
6) $x_1 = 30° + 180°k$, $x_2 = -30° + 180°k$.

משוואות הנפתרות על ידי זהויות של סכום והפרש זוויות:

סיכום כללי:

כאשר משוואה מכילה יותר מפונקציה טריגונומטרית אחת, יש תחילה להעביר אותה למשוואה שקולה המכילה פונקציה טריגונומטרית אחת.
לאחר מכן ניתן לבצע פעולות אלגבריות בכדי לקבל משוואות יסודיות ולכתוב את הפתרון עבור כל אחת. לשם כך נעזר בזהויות טריגונומטריות.

תזכורת – זהויות של סכום והפרש זוויות:

סכום והפרש עבור סינוס וקוסינוס	$\sin(\alpha\pm\beta)=\sin\alpha\cos\beta\pm\sin\beta\cos\alpha$ $\cos(\alpha\pm\beta)=\cos\alpha\cos\beta\mp\sin\alpha\sin\beta$
סכום והפרש עבור טנגנס וקוטנגנס	$\tan(\alpha\pm\beta)=\dfrac{\tan\alpha\pm\tan\beta}{1\mp\tan\alpha\tan\beta}$ $\cot(\alpha\pm\beta)=\dfrac{\cot\alpha\cot\beta\mp1}{\cot\beta\pm\cot\alpha}$

שאלות:

כתוב את הפתרון הכללי של המשוואות הבאות:

1) $2\sin x=\sin(60°-x)$

2) $\sin(x+45°)\sin(x-45°)=\frac{1}{2}$

3) $\frac{\cos 3x}{\sin x}-\frac{\sin 3x}{\cos x}=2$

4) $3\cos^2 x-\sin^2 x=\sin 3x$

תשובות סופיות:

1) $x=19.11°+180°k$.

2) $x=90°+180°k$.

3) $x=15°+60°k$.

4) $x_{1,2}=\pm60°+180°k$, $x_3=90°+360°k$.

משוואות הנפתרות ע"י זהויות של זווית כפולה:

סיכום כללי:

כאשר משוואה מכילה יותר מפונקציה טריגונומטרית אחת, יש תחילה להעביר אותה למשוואה שקולה המכילה פונקציה טריגונומטרית אחת.
לאחר מכן ניתן לבצע פעולות אלגבריות בכדי לקבל משוואות יסודיות ולכתוב את הפתרון עבור כל אחת. לשם כך נעזר בזהויות טריגונומטריות.

תזכורת – זהויות של זווית כפולה:

סינוס זווית כפולה	$\sin 2\alpha = 2\sin\alpha\cos\alpha$
קוסינוס זווית כפולה	$\cos 2\alpha = \cos^2\alpha - \sin^2\alpha = 2\cos^2\alpha - 1 = 1 - 2\sin^2\alpha$

שאלות:

כתוב את הפתרון הכללי של המשוואות הבאות:

1) $\sin x - \sin 2x = 0$
2) $\sqrt{2}\sin x + \sin 2x = 0$
3) $4\cos x = \sin 2x$
4) $2\cos 2x + \sin 4x = 0$
5) $3\cos x - \cos 2x = 0$
6) $\cos 2x = 2\sin x$
7) $\sin x + \cos 2x = 1$
8) $2\sin^2 x = \cos 2x + 2$

תשובות סופיות:

1) $x_1 = 360°k$, $x_2 = 60° + 120°k$
2) $x_1 = 180°k$, $x_{2,3} = \pm 135° + 360°k$
3) $x = 90° + 180°k$
4) $x_1 = 45° + 90°k$, $x_2 = 135° + 180°k$
5) $x_{1,2} = \pm 106.307° + 360°k$
6) $x_1 = 21.1° + 360°k$, $x_2 = 158.9° + 360°k$
7) $x_1 = 180°k$, $x_2 = 30° + 360°k$, $x_3 = 150° + 360°k$.
8) $x_1 = -60 + 360°k$, $x_2 = 60° + 360°k$, $x_3 = 120° + 360°k$, $x_4 = 240° + 360°k$.

משוואות מהצורה: a sin(x) + b cos(x) = c :

סיכום כללי:

ניתן להביא משוואה מהצורה: $a\sin x+b\cos x=c$ לצורה: $\sin x+\frac{b}{a}\cos x=\frac{c}{a}$.

מציאת זווית α המקיימת: $\alpha=\tan^{-1}\left(\frac{b}{a}\right)$ תאפשר לכתוב: $\sin x+\tan\alpha\cdot\cos x=\frac{c}{a}$.

שימוש בזהות: $\tan\alpha=\frac{\sin\alpha}{\cos\alpha}$ ובזהות: $\sin(\alpha+\beta)=\sin\alpha\cos\beta+\sin\beta\cos\alpha$ יובילו:

$$\sin x+\frac{\sin\alpha}{\cos\alpha}\cdot\cos x=\frac{c}{a}\quad /\cdot\cos\alpha$$

$$\sin x\cos\alpha+\sin\alpha\cos x=\frac{c}{a}\cos\alpha$$

$$\sin(x+\alpha)=\frac{c}{a}\cos\alpha$$

אם נסמן: $\frac{c}{a}\cos\alpha=k$ נקבל את המשוואה: $\sin(x+\alpha)=k$ כאשר α ו- k ידועים.
מכאן הפתרון הוא ישיר לפי משוואת סינוס.

שאלות:

פתור את המשוואות הבאות:

1) $10\sin x+3\cos x=5$

2) $5\cos x-6\sin x=1$

3) $\sqrt{3}\sin 2x+3\cos 2x=\sqrt{12}$

4) $\frac{1}{2}\sin x+\sqrt{3}\cos^2\frac{x}{2}=\cos\frac{x}{2}$

5) $\cos x+\cos(60°+x)=\sqrt{2}+\cos(60°-x)$

תשובות סופיות:

1) $x_1=11.91°+360°k\ ,\ x_2=134.69°+360°k$

2) $x_1=227.156°+360°k\ ,\ x_2=32.44°+360°k$

3) $x=15°+180°k$

4) $x_1=-60°+720°k\ ,\ x_2=180°+360°k$

5) $x_1=-105°+360°k\ ,\ x_2=15°+360°k$

משוואות הנפתרות ע"י זהויות של סכום והפרש פונקציות:

סיכום כללי:

כאשר משוואה מכילה יותר מפונקציה טריגונומטרית אחת, יש תחילה להעביר אותה למשוואה שקולה המכילה פונקציה טריגונומטרית אחת.
לאחר מכן ניתן לבצע פעולות אלגבריות בכדי לקבל משוואות יסודיות ולכתוב את הפתרון עבור כל אחת. לשם כך נעזר בזהויות טריגונומטריות.

תזכורת – זהויות של סכום והפרש פונקציות:

סכום והפרש פונקציות עבור סינוס	$\sin\alpha+\sin\beta=2\sin\frac{\alpha+\beta}{2}\cos\frac{\alpha-\beta}{2}$ $\sin\alpha-\sin\beta=2\sin\frac{\alpha-\beta}{2}\cos\frac{\alpha+\beta}{2}$
סכום והפרש פונקציות עבור קוסינוס	$\cos\alpha+\cos\beta=2\cos\frac{\alpha+\beta}{2}\cos\frac{\alpha-\beta}{2}$ $\cos\alpha-\cos\beta=-2\sin\frac{\alpha+\beta}{2}\sin\frac{\alpha-\beta}{2}$

שאלות:

כתוב את הפתרון הכללי של המשוואות הבאות:

1) $\sin x+\sin 3x=\sin 2x$.

2) $\cos 2x-\cos 6x=\sin 2x$.

3) $\sin x+\sin 3x=4\sin^3 x$.

4) $\sin 6x-\sin 4x=1-\cos 2x$.

5) $(\sin 5x+\sin 7x)^2=(\cos 5x+\cos 7x)^2$.

6) $2\cos^2\frac{x}{2}+\cos 3x+\cos 5x=1$.

7) $1+\sin x+\sin 7x=\cos 8x$.

8) $2\sin 3x(\cos 2x+\cos x)=\sin x+\sin 2x$.

9) $\sin(x+60^\circ)-\sin x=\sin(2x+60^\circ)-\sin 2x$.

10) $\cos^2 3x - \cos^2 x = \sin x \cos x$.

11) $\sin 8x \sin 2x + \cos 10x = 0$.

12) $\cos x + 3\sin x = 1 + 2\cos\frac{3x}{2}\cos\frac{x}{2}$.

13) $4\sin 2x \sin 5x \sin 7x - \sin 4x = 0$.

14) $4\cos x \cos 2x \cos 3x = 1$.

תשובות סופיות:

1) $x_{1,2} = \pm 60° + 360°k$, $x_3 = 90°k$.

2) $x_1 = 45° + 90°k$, $x_2 = 180°k$.

3) $x_1 = 37.5° + 90°k$, $x_2 = 7.5° + 90°k$, $x_3 = 90°k$.

4) $x_1 = 15° + 60°k$, $x_2 = 180°k$, $x_3 = -22.5° + 90°k$.

5) $x_1 = 36°k$, $x_2 = \left(\frac{180}{7}\right)° + \left(\frac{180}{7}\right)°k$.

6) $x_{1,2} = \pm 30° + 90°k$, $x_3 = 90° + 180°k$.

7) $x_1 = -\left(12\frac{6}{7}\right)°k + \left(51\frac{3}{7}\right)°k$, $x_2 = 45°k$.

8) $x_1 = 40°k$, $x_2 = 180° + 360°k$.

9) $x_1 = -20° + 120°k$, $x_2 = 360°k$.

10) $x_1 = 52.5° + 90°k$, $x_2 = -7.5° + 90°k$, $x_3 = 90°k$.

11) $x_1 = 45° + 90°k$, $x_2 = 11.25° + 22.5°k$.

12) $x_1 = 30° + 360°k$, $x_2 = 150° + 360°k$.

13) $x_1 = 7.5° + 15°k$, $x_2 = 90°k$.

14) $x_1 = 60° + 180°k$, $x_2 = 22.5 + 45°k$.

משוואות עם תחום נתון:

סיכום כללי:

כדי למצוא את הפתרונות של משוואה טריגונומטרית בתחום נתון, נמצא תחילה את הפתרון הכללי שלה ולאחר מכן נציב ערכים ב- k ונבחר את הערכים שנמצאים בתחום הנתון.

שאלות:

מצא את כל הפתרונות של המשוואות הבאות בתחום הנתון לידן:

1) $8\sin x-4=0$, $[0°:180°]$.
2) $\sin 2x=\sin(x+60°)$, $[-90°:90°]$.
3) $3\cos(2x+30°)+1=0$, $[-90°:90°]$.
4) $\cos(50°-x)=-\cos x$, $[0°:360°]$.
5) $2\sin 3x-5\cos 3x=0$, $[-30°:30°]$.
6) $2\cos^2 3x=\sin 6x+1$, $[0°:180°]$.
7) $\cos 4x+1=3\sin 2x$, $[-180°:180°]$.
8) $\cos 2x+\cos^2 x+\sin x=0$, $[-180°:180°]$.

תשובות סופיות:

1) $x=30°\ ,\ 150°$.
2) $x=-80°\ ,\ 40°\ ,\ 60°$.
3) $x=39.736°\ ,\ -69.736°$.
4) $x=115°\ ,\ 295°$.
5) $x=22.733°$.
6) $x=7.5°\ ,\ 37.5°\ ,\ 67.5°\ ,\ 97.5°\ ,\ 127.5°\ ,\ 157.5°$.
7) $x=-165°\ ,\ -105°\ ,\ 15°\ ,\ 75°$.
8) $x=-138.19°\ ,\ -41.81°\ ,\ 90°$.

משוואות עם זוויות ברדיאנים:

סיכום כללי:

הגדרת הרדיאן:

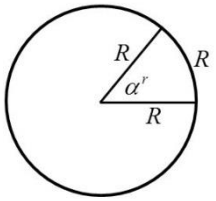

זווית של רדיאן אחד מוגדרת להיות הזווית המרכזית המתאימה לקשת שאורכה שווה לרדיוס המעגל.

עבור מעגל שרדיוסו R, תימצאנה 2π רדיאנים על היקפו, שכן היקף מעגל הוא $P=2\pi\cdot R$.

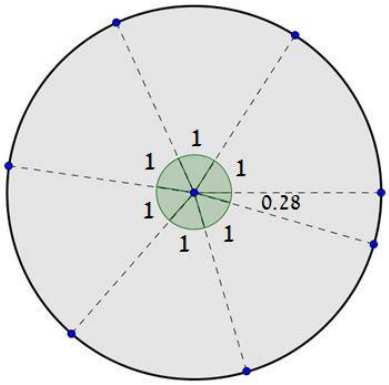

באיור שלפניך ניתן לראות חלוקה של מעגל ל-$2\pi=6.28$ קשתות אשר שוות לרדיוס המעגל.
הזווית של כל קשת כזאת שווה לרדיאן אחד,
כאשר הזווית האחרונה שווה ל-0.28 מרדיאן.
מקבלים 2π רדיאנים.

קשר בין רדיאנים למעלות:

- נוסחת מעבר מזווית α° (במעלות) לזווית α^r (ברדיאנים): $\alpha^r=\frac{\pi}{180}\alpha^\circ$.
- נוסחת מעבר מזווית α^r (ברדיאנים) לזווית α° (במעלות): $\alpha^\circ=\frac{180}{\pi}\alpha^r$.

פתרונות משוואות טריגונומטריות ברדיאנים:

להלן נוסחאות הפתרון של המשוואות הטריגונומטריות היסודיות כאשר x הוא משתנה ו- α היא זווית ידועה הנתונה ברדיאנים:

המשוואה	הפתרון
$\sin x=\sin\alpha$	$x_1=\alpha+2\pi k\ ,\ x_2=\pi-\alpha+2\pi k$
$\cos x=\cos\alpha$	$x_{1,2}=\pm\alpha+2\pi k$
$\tan x=\tan\alpha$	$x=\alpha+\pi k$
$\cot x=\cot\alpha$	$x=\alpha+\pi k$

כאשר k מספר שלם.

שאלות:

1) המר את הזוויות הבאות ממעלות לרדיאנים:

א. $30°$	ב. $90°$	ג. $75°$	ד. $120°$
ה. $210°$	ו. $315°$	ז. $18°$	ח. $285°$
ט. $-15°$	י. $-80°$	יא. $510°$	יב. $-390°$

2) המר את הזוויות הבאות מרדיאנים למעלות:

א. π	ב. 2π	ג. 4π	ד. 1.5π
ה. $\frac{1}{2}\pi$	ו. $\frac{\pi}{4}$	ז. $\frac{\pi}{6}$	ח. $\frac{1}{18}\pi$
ט. $\frac{13}{18}\pi$	י. $\frac{19}{12}\pi$	יא. $1\frac{1}{6}\pi$	יב. $2\frac{1}{4}\pi$

3) פתור את המשוואות הבאות בתחום שלידן (משוואות יסודיות שונות):

א. $2\sin 3x=1$, $\left[0:\frac{1}{3}\pi\right]$

ב. $\sqrt{3}+2\cos x=0$, $[0:\pi]$

ג. $3-3\tan\frac{x}{2}=0$, $[0:2\pi]$

ד. $\sin\left(2x-\frac{\pi}{4}\right)=\frac{\sqrt{2}}{2}$, $[0:\pi]$

ה. $4\cos\left(x+\frac{\pi}{3}\right)-2=0$, $\left[0:\frac{1}{2}\pi\right]$

ו. $\sin x=\sin\left(\frac{2}{3}\pi-2x\right)$, $\left[-\frac{5\pi}{18}:\frac{5\pi}{18}\right]$

ז. $5-5\tan(4x-0.1\pi)=0$, $\left[0:\frac{\pi}{3}\right]$

ח. $\sin\left(2x-\frac{\pi}{5}\right)=0.7$, $\left[-\frac{\pi}{4}:\frac{\pi}{4}\right]$

4) פתור את המשוואות הבאות בתחום שלידן (טכניקה אלגברית):

א. $\sin^2 x=\frac{3}{4}$, $\left[0:\frac{\pi}{2}\right]$

ב. $16\cos^2 2x-1=0$, $\left[-\frac{\pi}{8}:\frac{\pi}{8}\right]$

ג. $2\tan^2 x-18=0$, $[0:\pi]$

ד. $3\sin x\cos x+3\cos x=0$, $\left[-\frac{\pi}{3}:\frac{\pi}{3}\right]$

ה. $\sin^2 x-5\sin x\cos x=0$, $\left[-\frac{\pi}{2}:\frac{\pi}{2}\right]$

ו. $2\sin^2 x-5\sin x+2=0$, $[-\pi:\pi]$

ז. $4\cos^2 x-\sqrt{2}\cos x-1=0$, $[-\pi:0]$

ח. $\tan^2 x-7\tan x+10=0$, $[0:2\pi]$

5) פתור את המשוואות הבאות בתחום שלידן (שימוש בזהויות יסוד):

א. $0 \le x \le \pi \ , \ \sin x = \cos\left(x + \frac{\pi}{4}\right)$

ב. $0 \le x \le \pi \ , \ \tan x = 4\sin x$

ג. $0 \le x \le 2\pi \ , \ 2\sin^2 x = 3\cos x$

6) פתור את המשוואות הבאות בתחום שלידן (שימוש בזהויות ממעגל היחידה):

א. $[-\pi : \pi] \ , \ \sin\left(x - \frac{\pi}{6}\right) = -\sin x$

ב. $[0 : \pi] \ , \ \sin\left(2x + \frac{2}{9}\pi\right) = -\cos 2x$

ג. $[0 : \pi] \ , \ \sin 4x = -\cos(\pi - x)$

ד. $\left[-\frac{\pi}{2} : \frac{\pi}{2}\right] \ , \ \tan x = -\tan 2x$

7) פתור את המשוואות הבאות בתחום שלידן (זהויות של זווית כפולה):

א. $-\pi \le x \le \pi \ , \ \sin 2x + \cos^2 x = 0$

ב. $[-\pi : \pi] \ , \ \cos 4x + 1 = 3\sin 2x$

ג. $-\frac{\pi}{2} \le x \le \frac{\pi}{2} \ , \ 2\sin^2 x = \cos 2x + 2$

ד. $0 \le x \le \pi \ , \ \cos 4x + \sin^2 x = 1$

תשובות סופיות:

1) א. $\frac{\pi}{6}$ ב. $\frac{\pi}{2}$ ג. $\frac{5\pi}{12}$ ד. $\frac{2\pi}{3}$ ה. $\frac{7\pi}{6}$

ו. $\frac{7\pi}{4}$ ז. $\frac{\pi}{10}$ ח. $\frac{19\pi}{12}$ ט. $-\frac{\pi}{12}$ י. $-\frac{4\pi}{9}$

יא. $\frac{17\pi}{6}$ יב. $-\frac{13\pi}{6}$.

2) א. $180°$ ב. $360°$ ג. $720°$ ד. $270°$ ה. $90°$

ו. $45°$ ז. $30°$ ח. $10°$ ט. $130°$ י. $285°$

יא. $210°$ יב. $405°$.

3) א. $\frac{5\pi}{18}$, $x=\frac{\pi}{18}$ ב. $x=\frac{5\pi}{6}$ ג. $x=\frac{\pi}{2}$ ד. $\frac{\pi}{2}$, $x=\frac{\pi}{4}$

ה. $x=0$ ו. $x=\frac{2\pi}{9}$ ז. $x=0.0875\pi$ ח. $x=0.224\pi$.

4) א. $x=\frac{\pi}{3}$ ב. ϕ ג. $x=0.398\pi, 0.602\pi$ ד. ϕ

ה. $x=0, 0.437\pi$ ו. $\frac{5\pi}{6}$, $x=\frac{\pi}{6}$

ז. -0.615π , $x=-\frac{\pi}{4}$ ח. 1.437π , 1.352π , 0.437π , $x=0.352\pi$.

5) א. $x=\frac{\pi}{8}$ ב. π , 0.42π , $x=0$ ג. $\frac{5\pi}{3}$, $x=\frac{\pi}{3}$

6) א. $-\frac{11\pi}{12}$, $x=\frac{\pi}{12}$ ב. $\frac{59\pi}{72}$, $x=\frac{23\pi}{72}$

ג. $\frac{9\pi}{10}$, $\frac{5\pi}{6}$, $\frac{\pi}{2}$, $\frac{\pi}{6}$, $x=\frac{\pi}{10}$ ד. 0 , $x=\pm\frac{\pi}{3}$.

7) א. 0.852π , -0.148π , $x=\pm\frac{\pi}{2}$ ב. $\frac{11\pi}{12}$, $\frac{5\pi}{12}$, $\frac{\pi}{12}$, $x=-\frac{7\pi}{12}$

ג. $x=\pm\frac{\pi}{3}$ ד. π , 0.61π , 0.38π , $x=0$.

אי שוויונים טריגונומטריים:

סיכום כללי:

כדי לפתור אי-שוויון טריגונומטרי בתחום מסוים נבצע את השלבים הבאים:

1. נהפוך את סימן אי השוויון לסימן שוויון ונפתור את המשוואה המתקבלת.
2. נסדר את כל הפתרונות על ציר מספרים ונבחר ערך בכל תחום.
3. נציב את הערכים באי השוויון המקורי ונאמר כי:
   - אם מתקבל פסוק אמת אז תחום זה מהווה פתרון של אי השוויון.
   - אם מתקבל פסוק שקר אז תחום זה אינו פתרון של אי השוויון.
4. נרכז את כל התחומים ונכתוב את הפתרון המלא.

הערה:

במידה והמשוואה אינה מוגדרת עבור ערך מסוים הערך הזה מוכנס גם לציר המספרים.

שאלות:

פתור את אי השוויונים הבאים בתחום הרשום לידם:

1) $\sin x < \frac{1}{2}$ $[0,180°]$

2) $2\cos x - \sqrt{3} \geq 0$ $[0,1.5\pi]$

3) $2\cos^2 x + \sin x \geq 1$ $(-90°,90°)$

4) $\sin x + \sin 2x + \sin 3x < 0$ $[0,\pi]$

5) $1 < 2\sin(x+10°) < \sqrt{3}$ $[0°,180°]$

6) $\sin x + \sqrt{3}\cos x \geq 1$ $(0 < x < \pi)$

7) $\tan x + \cot x > 0$ $[0,2\pi]$

8) $|\tan(x)| > \frac{1}{\sqrt{3}}$ $(-\pi < x < \pi)$

תשובות סופיות:

1) $0^\circ \le x < 30^\circ$, $150^\circ \le x \le 180^\circ$.

2) $0 \le x \le \frac{\pi}{6}$.

3) $-30^\circ \le x < 90^\circ$.

4) $\frac{\pi}{2} < x < \frac{2\pi}{3}$.

5) $20^\circ < x < 50^\circ$, $110^\circ < x < 140^\circ$.

6) $0 < x \le \frac{\pi}{2}$.

7) $0 < x < \frac{\pi}{2}$, $\pi < x < \frac{3}{2}\pi$.

8) $x \ne \frac{\pi}{2}$, $\frac{\pi}{6} < x < \frac{5\pi}{6}$ או : $x \ne -\frac{\pi}{2}$, $-\frac{5\pi}{6} < x < -\frac{\pi}{6}$.

מכינה אקדמית במתמטיקה למדעי המחשב 1400004

פרק 15 - גיאומטריה אנליטית - נקודה וישר

תוכן העניינים

1. מושגי יסוד בגיאומטריה אנליטית 285
2. משוואת הישר 289
3. מצבים הדדיים בין ישרים 294
4. מציאת משוואות ישר 296
5. שאלות יסודיות שונות עם משוואת הישר 297
6. נושאים מתקדמים עם משוואת הישר ..... (ללא ספר)
7. חלוקת קטע ביחס נתון 303
8. מרחק נקודה מישר 304
9. מיקום נקודה ביחס לישר 306
10. מרחק בין ישרים מקבילים 308

מושגי יסוד בגיאומטריה אנליטית:

סיכום כללי:

נוסחאות כלליות:

- המרחק בין הנקודות $A(x_1,y_1)$ ו- $B(x_2,y_2)$ יחושב לפי: $d=\sqrt{(x_2-x_1)^2+(y_2-y_1)^2}$.
- אמצע הקטע M שקצותיו הם: $A(x_1,y_1)$ ו- $B(x_2,y_2)$ הוא: $x_M=\frac{x_1+x_2}{2}, y_M=\frac{y_1+y_2}{2}$.

שאלות:

שאלות העוסקות באמצע קטע:

1) מצא את אמצעי הקטעים שקדקודיהם נתונים ע"י הנקודות A ו-B:

א. $A(1,4)\ ,\ B(5,-8)$ ב. $A(-3,0)\ ,\ B(3,-2)$

ג. $A(4,5)\ ,\ B(-4,-5)$ ד. $A\left(\frac{1}{2},\frac{3}{4}\right)\ ,\ B\left(7\frac{1}{2},-2\right)$

ה. $A(6,-1)\ ,\ B(-3,-1)$ ו. $A(4,7)\ ,\ B(4,-12)$

2) נתון קטע AB שאמצעו בנקודה M.
מצא את שיעורי נקודת הקצה B אם נתונים שיעורי הנקודות של A ושל M:

א. $A(4,-2)\ ,\ M(2,1)$ ב. $A(-6,-8)\ ,\ M(0,0)$

ג. $A(13,-11)\ ,\ M(4,-7)$ ד. $A\left(\frac{1}{3},-\frac{4}{3}\right)\ ,\ M\left(\frac{2}{3},-\frac{1}{3}\right)$

3) נתון משולש שווה שוקיים ABC שבו A הוא קדקוד הראש.
ידוע כי שיעורי הקדקודים B ו-C הם $B(2,-4)\ ,\ C(6,1)$.
מעבירים תיכון AD לבסיס BC. מצא את שיעורי הנקודה D.

4) באיור שלפניך C היא נקודת האמצע של AB, ו-D היא נקודת האמצע של AC.
ידוע כי: $A(-2,1)\ ,\ B(6,5)$. מצא את שיעורי הנקודה D.

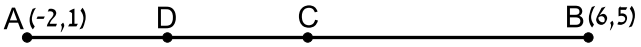

5) באיור שלפניך C היא נקודת האמצע של AB, ו-D היא נקודת האמצע של AC.
ידוע כי: $D(1,-2)$, $C(-3,4)$. מצא את שיעורי הנקודות A ו-B.

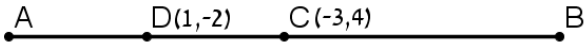

6) הנקודות $A(2,-7)$, $B(-10,4)$ ו-$C(6,11)$ הן שלושה קדקודים של מקבילית ABCD.
מצא את שיעורי הקדקוד הרביעי, D.

שאלות העוסקות במרחק בין שתי נקודות:

7) מצא את המרחק בין זוגות הנקודות הבאות:

א. $A(4,7)$, $B(-3,7)$
ב. $A(6,2)$, $B(1,2)$
ג. $A(-3,10)$, $B(0,6)$
ד. $A(6,-9)$, $B(1,3)$
ה. $A(4,7)$, $B(13,-1)$
ו. $A(6,6)$, $B(-9,-9)$

8) חשב את היקף המשולש ABC שקודקודיו הם: $A(3,-2)$, $B(4,9)$, $C(0,14)$.

9) נתונות נקודות $A(14,4)$, $B(6,y)$ שמרחקן הוא 10 יחידות אורך.
מצא את y.

10) נתונות נקודות $A(x,-12)$, $B(15,-2)$ שמרחקן הוא 26 יחידות אורך.
מצא את x.

11) נתונה נקודה B ברביע השלישי, ששיעור ה- y שלה גדול פי 3 משיעור ה- x שלה
ומרחקה מהנקודה $A(-4,1)$ הוא 5. מצא את שיעורי הנקודה B.

12) במשולש שווה שוקיים ABC $(AB=AC)$ ידוע כי אורכי השוקיים הוא $\sqrt{45}$
יחידות אורך. שיעורי הקדקוד A הם $(0,4)$ ושיעורי ה- y של הקדקודים B ו-C
הוא 2-. מצא את קדקודי המשולש B ו-C (הנח B ברביע הרביעי).

13) אורך האלכסון AC במלבן ABCD הוא $d_{AC}=\sqrt{50}$
וידוע כי: $A(-3,-2)$, $B(-4,1)$. מצא את היקף המלבן.

שאלות העוסקות בשיפוע בין שתי נקודות:

14) מצא את השיפוע בין זוגות הנקודות הבאים:

א. $A(5,2)\ ,\ B(4,1)$

ב. $A(3,-2)\ ,\ B(-3,1)$

ג. $A(7,8)\ ,\ B(6,15)$

ד. $A(0,5)\ ,\ B(7,0)$

ה. $A(6,9)\ ,\ B(6,-7)$

ו. $A(4,-1)\ ,\ B(18,-1)$

15) מצא את שיפועי הישרים שצלעות המשולש שקודקודיו הם: $A(6,5)\ ,\ B(2,13)\ ,\ C(4,-7)$ מונחים עליהם.

תשובות סופיות:

1) א. $(3,-2)$ ב. $(0,-1)$ ג. $(0,0)$
ד. $\left(4,-\frac{5}{8}\right)$ ה. $(1.5,-1)$ ו. $(4,-2.5)$.

2) א. $B(0,4)$ ב. $B(6,8)$ ג. $B(-5,-3)$ ד. $B\left(1,\frac{2}{3}\right)$.

3) $D(4,-1.5)$.

4) $D(0,2)$.

5) $A(5,-8)$, $B(-11,16)$.

6) $D(18,0)$.

7) א. $d_{AB}=7$ ב. $d_{AB}=5$ ג. $d_{AB}=5$ ד. $d_{AB}=13$
ה. $d_{AB}=\sqrt{145}$ ו. $d_{AB}=15\sqrt{2}$.

8) 33.862 יחידות אורך $\approx P_{ABC}$.

9) $y=10$ או $y=-2$.

10) $x=-9$ או $x=39$.

11) $B(-1,-3)$.

12) $B(3,-2)$, $C(-3,-2)$.

13) 18.97 יחידות אורך $\approx P_{ABCD}=6\sqrt{10}$.

14) א. $m_{AB}=1$ ב. $m_{AB}=-\frac{1}{2}$ ג. $m_{AB}=-7$ ד. $m_{AB}=-\frac{5}{7}$
ה. שיפוע לא מוגדר. ו. $m_{AB}=0$.

15) $m_{AB}=-2$, $m_{BC}=-10$, $m_{AC}=6$.

משוואת הישר:

סיכום כללי:

נוסחאות כלליות:

- שיפוע ישר בין שתי נקודות $A(x_1,y_1)$ ו- $B(x_2,y_2)$ הוא: $m_{AB}=\frac{y_2-y_1}{x_2-x_1}=\frac{y_1-y_2}{x_1-x_2}$.

שיפועים של ישרים:

- שיפועי ישרים מאונכים מקיימים: $m_1\cdot m_2=-1$.
- הקשר בין שיפוע ישר לזווית שהוא יוצר עם הכיוון החיובי של ציר ה- x: $m=\tan\alpha$.

משוואת הישר:

- משוואת ישר מפורשת היא מהצורה: $y=mx+n$.
- כאשר: m הוא שיפוע הישר ו- n הוא ערך ה- y של נקודת החיתוך של הישר עם ציר ה- y.

נוסחה למציאת משוואת ישר: $y-y_1=m(x-x_1)$.

שאלות:

16) עבור כל אחד ממשוואות הישרים הבאות, מצא את נקודות החיתוך עם הצירים וסרטט את הישרים במערכת הצירים שלפניך.

א. $y=x+4$

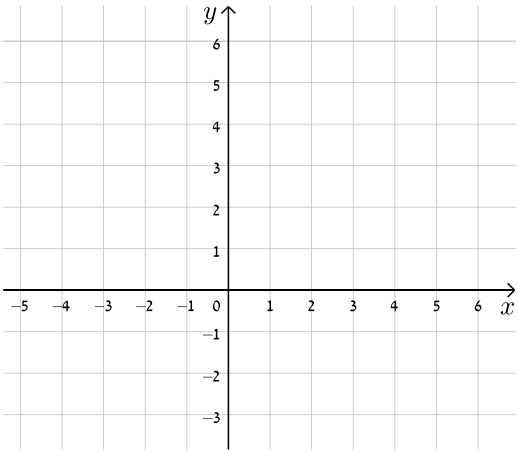

ב. $y=-x+5$

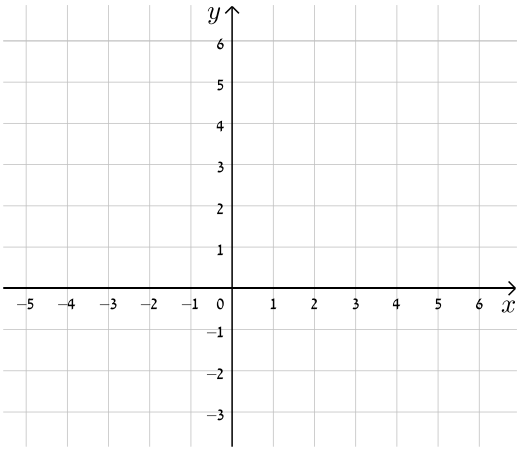

ג. $y=2x-3$

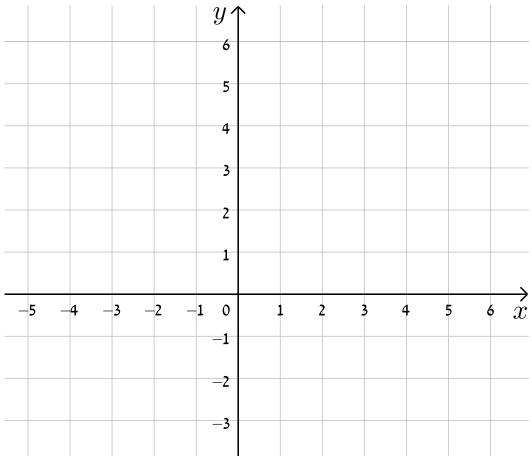

ד. $y=-3x+5$

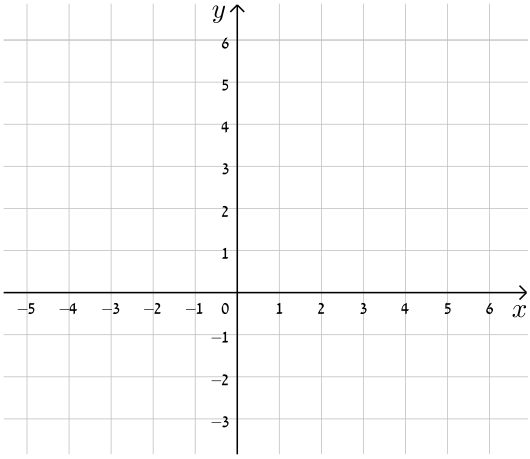

ה. $y=3x-1$

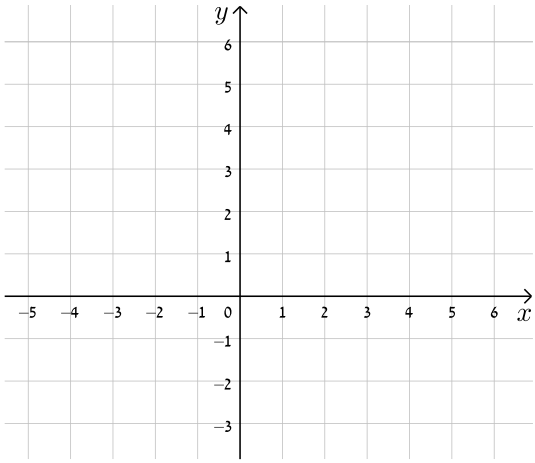

ו. $y=8-4x$

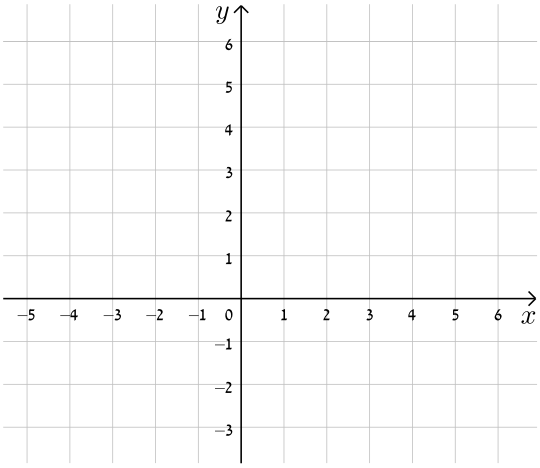

17) כתוב את משוואת הישר המתאימה לכל אחד מהישרים הבאים:

א.

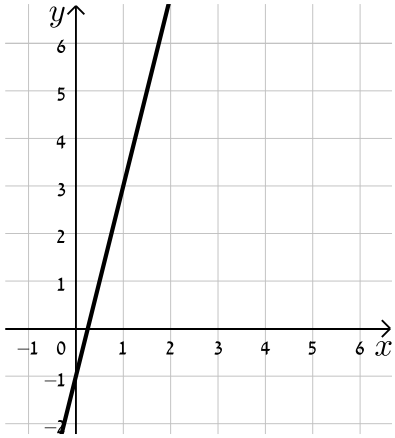

ב.

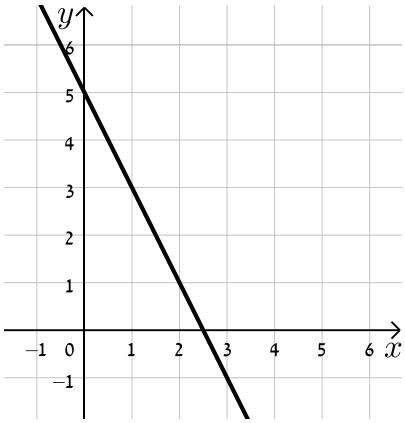

ג.

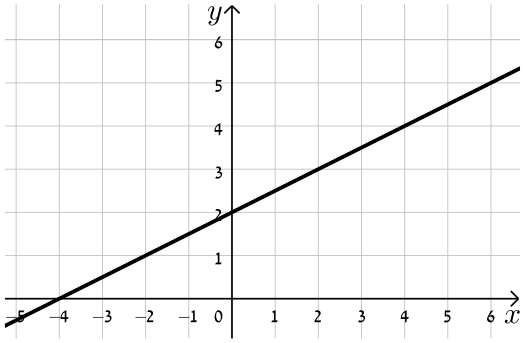

ד.

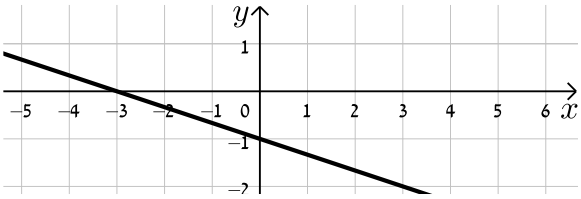

18) התאם בין משוואות הישרים הבאים לישרים בשרטוט:

א. $y=x+3$

ב. $y=-x-1$

ג. $y=2x+3$

ד. $y=x-1$

ה. $y=\frac{1}{2}x$

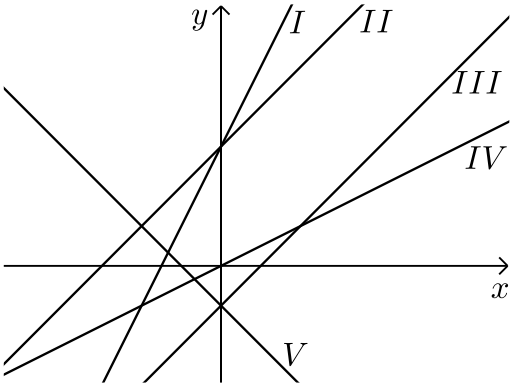

19) נתונה משוואה הישר הבאה: $y=2x+3$. קבע אלו מבין הנקודות הבאות נמצאות עליו: $D(6,15)$, $C(0,4)$, $B(3,3)$, $A(-1,1)$.

20) נתונה משוואת הישר הבאה: $y=mx-2.5$. ידוע כי הנקודה $A(4,2)$ נמצאת על הישר. מצא את m וקבע האם גם הנקודה $B(7,-2)$ נמצאת עליו.

21) הנקודות $B(4,1)$, $A(5,-3)$ נמצאות על ישר שמשוואתו היא: $y=mx+n$.
מצא את m ואת n.

תשובות סופיות:

16) להלן הגרפים של משוואות הישרים:

א.

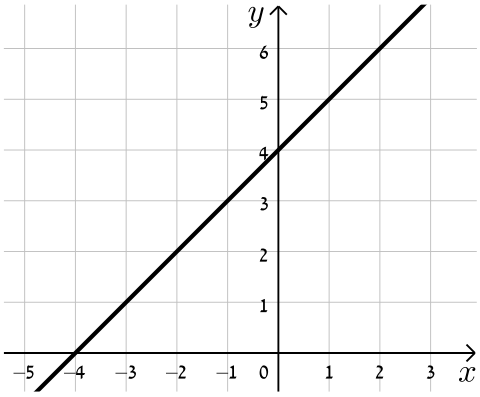

ב.

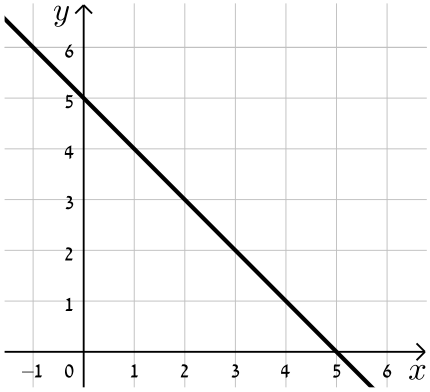

ג.

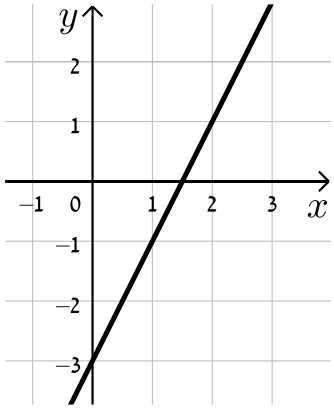

ד.

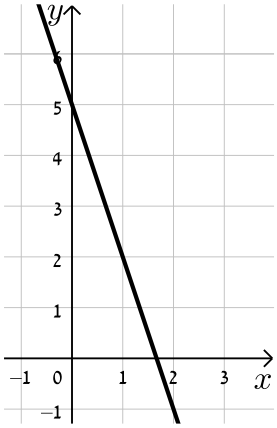

ה.

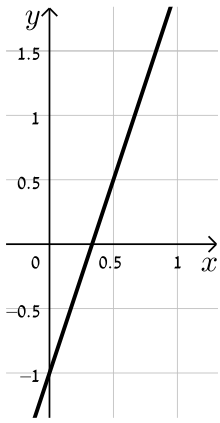

ו.

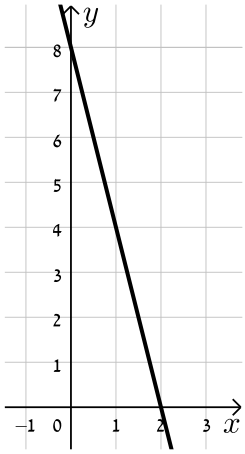

17) א. $y=4x-1$ ב. $y=-2x+5$ ג. $y=\frac{1}{2}x+2$ ד. $y=-\frac{1}{3}x-1$.

18) א.II. ב.V. ג.I. ד.III. ה.IV.

19) נמצאות: A, D. לא נמצאות: B, C.

20) $m=\frac{9}{8}$, B לא נמצאת.

21) $n=17$, $m=-4$.

מצבים הדדיים בין ישרים:

סיכום כללי:

מצב הדדי בין שני ישרים:

- ישרים מקבילים מקיימים: $n_1 \neq n_2$, $m_1 = m_2$.
- ישרים חותכים מקיימים: $m_1 \neq m_2$.
- ישרים מתלכדים מקיימים: $n_1 = n_2$, $m_1 = m_2$.

שאלות:

22) מצא את נקודות החיתוך שבין זוגות הישרים הבאים:

א. $\begin{cases} y = 3x + 4 \\ y = -2x - 1 \end{cases}$ ב. $\begin{cases} y = x - 12 \\ y = 4x + 6 \end{cases}$ ג. $\begin{cases} y = 2x - 4 \\ y = x + 6 \end{cases}$

23) קבע את המצב ההדדי בין זוגות הישרים הבאים:

א. $\begin{cases} y = 3x + 4 \\ y = 2x + 4 \end{cases}$ ב. $\begin{cases} y = x - 7 \\ y = x + 6 \end{cases}$

ג. $\begin{cases} y = 6x - 15 \\ y = 3x + 41 \end{cases}$ ד. $\begin{cases} y = x + 8 \\ y = x + 8 \end{cases}$

24) קבע אלו מבין זוגות הישרים הבאים הם מאונכים זה לזה:

א. $\begin{cases} y = 3x + 1 \\ y = 3x - 1 \end{cases}$ ב. $\begin{cases} y = 2x \\ y = \frac{1}{2}x + 4 \end{cases}$

ג. $\begin{cases} y = -4x - 5 \\ y = \frac{1}{4}x + 5 \end{cases}$ ד. $\begin{cases} y = x - 6 \\ y = -x + 6 \end{cases}$

25) משוואת הצלע AB של המלבן ABCD היא $y = 6x - 2$.

א. מה הם שיפועי הצלעות האחרות של המלבן?

ב. כיצד תשתנה תשובתך לסעיף הקודם אם משוואת הישר הנ"ל הייתה שייכת לצלע BC במקום AB?

26) במשולש ABC נתונים שיעורי הקודקודים: $A(5,-1)$, $B(3,7)$, $C(-5,5)$.
הוכח שהמשולש ישר זווית ושווה שוקיים.

תשובות סופיות:

22) א. $(-1,1)$ ב. $(-6,-18)$ ג. $(10,16)$.

23) א. נחתכים. ב. מקבילים. ג. נחתכים. ד. מתלכדים.

24) מאונכים: ג', ד'. לא מאונכים: א', ב'.

25) א. $m_{AB} = m_{CD} = 6$, $m_{BC} = m_{AD} = -\frac{1}{6}$.

ב. הכל הפוך: $m_{AB} = m_{CD} = -\frac{1}{6}$, $m_{BC} = m_{AD} = 6$.

26) שאלת הוכחה.

מציאת משוואות ישר:

שאלות:

27) מצא את משוואות הישרים הבאים:

א. ישר העובר דרך הנקודה $A(1,3)$ ושיפועו $m=2$.

ב. ישר העובר דרך הנקודה $A(0,-4)$ ושיפועו $m=\frac{1}{3}$.

ג. ישר העובר דרך הנקודה $A(5,9)$ ושיפועו $m=0$.

ד. ישר העובר דרך הנקודות $A(5,-12)$ ו-$B(6,-6)$.

ה. ישר העובר דרך הנקודה $A(-6,4)$ ומקביל לישר: $y=2x-3$.

ו. ישר העובר דרך הנקודה $A(3,-5)$ ומקביל לציר ה-y.

ז. ישר העובר דרך הנקודה $A(-7,-3)$ ומאונך לישר: $y=x+3$.

ח. ישר העובר דרך נקודת החיתוך של הישרים: $y=11x-4$ ו-$y=3x-12$ ומקביל לישר: $y=7x+5$.

תשובות סופיות:

27) א. $y=2x+1$ ב. $y=\frac{1}{3}x-4$ ג. $y=9$ ד. $y=6x-42$

ה. $y=2x+16$ ו. $x=3$ ז. $y=-x-10$ ח. $y=7x-8$.

שאלות יסודיות שונות עם משוואת הישר:

שאלות:

28) במשולש ABC מעבירים את התיכון AD לצלע BC.
ידוע כי: $A(3,-2)$, $B(2,4)$, $D(-2,2)$.

א. כתוב את משוואת הישר של התיכון AD.
ב. מצא את שיעורי הקדקוד C.
ג. כתוב את משוואת הישר של הצלע AC.

29) נתון מעוין ABCD שבו נתונים הקודקודים $A(-9,1)$ ו-$B(5,-7)$.
משוואת הישר עליו מונח האלכסון AC היא $x+3y+6=0$.

א. מצא את משוואת הישר עליו מונח האלכסון BD.
ב. מצא את משוואת הישר עליו מונחת הצלע BC.

30) שלוש המשוואות הבאות מייצגות את הישרים המופיעים בשרטוט: $x-4y-4=0$, $x-y+2=0$ ו- $2x+y-8=0$.
הקטע AC מקביל לציר ה- y .

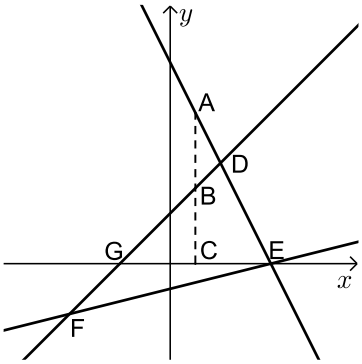

א. חשב את שטח המשולש DEF.
ב. נתון: $d_{BC}=3$.
חשב את אורך הקטע AB.

31) BD הוא התיכון לצלע AC במשולש ABC שבו נתון הקודקוד $A(-6,1)$.
משוואת התיכון BD היא $x-y=1$ ומשוואת הצלע BC היא $3x+5y=67$.
מצא את שיעורי הקדקוד C.

32) נתון טרפז ABCD $(AB \parallel CD)$ ובו משוואת השוק BC היא: $x=2$.
משוואת הבסיס CD היא $2x+3y=7$ וידוע כי $A(-4,1)$.

א. מצא את משוואת הבסיס AB.
ב. מצא את שיעורי הקדקודים B ו-C.
ג. מעבירים את האלכסון AC.
הראה כי המשולש ABC הוא ישר זווית ומצא את שטחו.

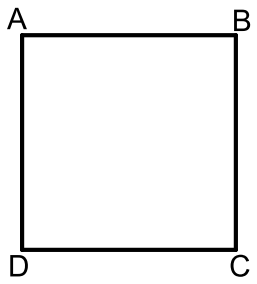

33) במרובע ABCD ידוע כי שיפוע הצלע BC הוא 3 ושיעורי הנקודה A הם: $(1,4)$.

א. איזה מרובע הוא המרובע ABCD?
הראה חישוב מתאים.

ב. נתון גם: $D(4,13)$, $m_{CD}=-\frac{1}{3}$ ו- $\sqrt{90}$ ס"מ $=BC$.
איזה מרובע הוא המרובע ABCD כעת?
הראה חישוב מתאים.

ג. נתון גם: $B(-8,7)$.
איזה מרובע הוא המרובע ABCD כעת?
הראה חישוב מתאים.

ד. חשב את שטח המרובע ABCD.

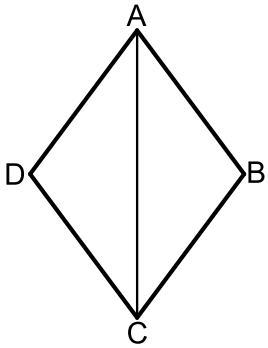

34) המרובע ABCD הוא מעוין.
ידוע כי שיעורי אחת הנקודות במעוין הם: $(0,6)$.
כמו כן, ידוע גם כי משוואת האלכסון AC היא: $y=-1.5x+6$ ואחת ממשואות הצלעות היא: $5y+x=4$.

א. מצא את משוואת האלכסון השני.

ב. מצא את שאר קדקודי המעוין

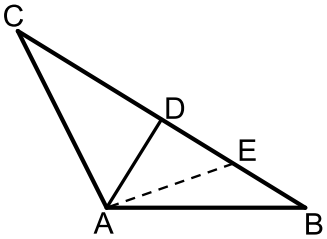

35) המשולש ABC הוא משולש שווה שוקיים $(AB=AC)$.
ב-ΔABC מעבירים את הגובה AD לבסיס BC ומסמנים נקודה E כך שמתקיים: $DE=BE$.
קדקוד הראש A נמצא בראשית הצירים ונתון כי: $E(8.5,2.5)$, $D(5,7)$.

א. מצא את שיעורי שאר קודקודי המשולש.

ב. כתוב את משוואת השוק AC.

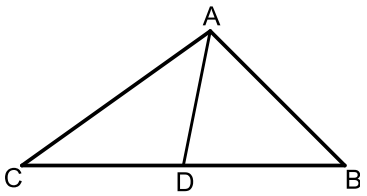

36) נתון משולש ABC. הנקודה D נמצאת על הצלע BC של המשולש ABC כך שהקטע AD מחלק אותו לשני משולשים שווי שטח ABD ו-ACD.
הצלע BC מונחת על הישר: $y=4$ וידוע כי שיעור ה-x של הנקודה C הוא: $x_C=-1$.
כמו כן נתון: $A(7,8)$, $m_{AB}=-2$.

א. מצא את משוואת הצלע AB.

ב. ענה על הסעיפים הבאים:

i. איזה קטע הוא AD בתוך המשולש ABC?

ii. מצא את שיעורי הנקודות B ו-D.

ג. ענה על הסעיפים הבאים:

i. חשב את אורך הצלע BC ואת אורך הקטע AD.

ii. איזה משולש הוא המשולש ABC?

37) המרובע ABCD הוא טרפז. הנקודה E היא אמצע הבסיס AB וידוע כי היא נמצאת על ציר ה-x.
שיעורי הנקודה B הם $(3,2)$ והצלע AD מונחת על הישר: $x=-5$. אורך הקטע DE הוא $\sqrt{80}$
כך ש-D ברביע השלישי וכן: $\sphericalangle DEC=90°$.

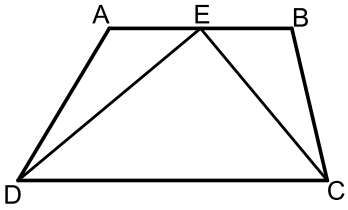

א. מצא את שיעורי הנקודות A , D ו-E.

ב. מצא את משוואת הקטע CE ואת משוואת הבסיס CD.

ג. מצא את שיעורי הנקודה C.

ד. חשב את שטח המשולש DEC.

38) AD ו-BE הם בהתאמה גבהים לצלעות BC ו-AC במשולש ABC.
ידוע כי שיעורי נקודת פגישת הגבהים K הם: $(1,3)$.
שיעורי הנקודות D ו-E הם: $E(3,5)$, $D(-2,4)$.

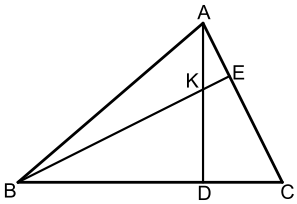

א. מצא את משוואת הגובה AD ואת משוואת הצלע AC.

ב. מצא את שיעורי הקדקוד A.

ג. מצא את משוואת הגובה BE ואת משוואת הצלע BC.

ד. מצא את שיעורי הקדקוד B.

39) נתון מעוין ABCD.ידוע כי הצלע CD מונחת על $y=-7$.
אלכסוני המעוין AC ו-BD נפגשים
בנקודה: $M(-0.5,-3)$. שיפוע האלכסון AC הוא -4.

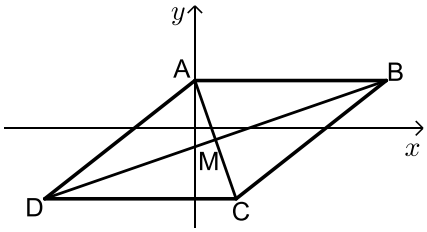

א. מצא את משוואת האלכסון AC.

ב. מצא את שיעורי הנקודה C.

ג. חשב את שטח המשולש BMC.

40) נתון מרובע ABCD שקודקודיו הם: $A(3,13)$, $B(-2,4)$, $C(9,3)$, $D(8,14)$.
מורידים גבהים AE ו-CF לאלכסון BD.

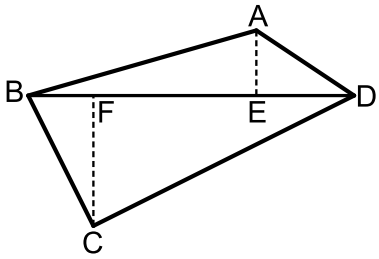

א. מצא את משוואת האלכסון BD ואת אורכו.
ב. מצא את שיעורי הנקודות E ו-F.
ג. מצא את אורכי הגבהים AE ו-CF.
ד. חשב את שטח המרובע ABCD.

41) על הישר $y=-5$ מסמנים את
הנקודות: $A(-7,-5)$, $B(2,-5)$.
הנקודה C נמצאת על הישר: $y=x-5$.
נסמן את שיעור ה-x של הנקודה C ב-t.

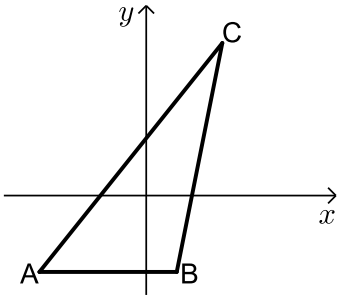

א. הבע באמצעות t את שיעור ה-y של הנקודה C.
ב. ידוע כי אורך הצלע AC הוא 17 ס"מ.
הבע באמצעות t את המרחקים של C מ-A ומ-B.
ג. מצא את t ואת אורך הצלע BC.
ד. מסמנים נקודה D על המשך הצלע AB.
ידוע כי D נמצאת ברביע השלישי.
מצא את שיעורי הנקודה D המקיימת ששטח
המשולש DAC יהיה גדול ב-16 יחידות משטח המשולש ABC.

42) המשולש ABC הוא שווה שוקיים $(AB=BC)$
ובו נתון: $A(-4,12)$, $B(x,6)$ ו-$C(4,8)$.
א. מצא את x.
ב. הוכח כי המשולש הוא ישר זווית.
ג. ענה על הסעיפים הבאים:
i. מצא את משוואת הצלע AC.
ii. מסמנים את נקודת החיתוך של הצלע AC עם ציר ה-y ב-D.
מצא את שיעורי הנקודה D.
ד. ענה על הסעיפים הבאים:
i. מצא נקודה E ברביע הראשון $(x_E<5)$ כך שהמשולש DCE יהיה גם
שווה שוקיים וישר זווית $(\sphericalangle C=90^\circ)$.
ii. חשב את יחס השטחים בין המשולשים: $\frac{S_{DCE}}{S_{ABC}}$.

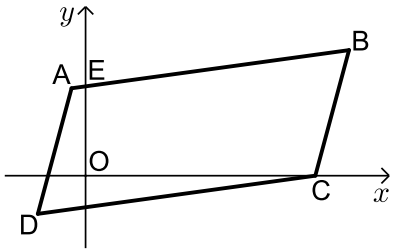

43) באיור שלפניך נתונה מקבילית ABCD.

ידועים קודקודי המקבילית הבאים: $A(-1,y)$

ו- $B(x,4)$. (x ו- y נעלמים).

שיפוע הצלע CD הוא 0.2 ואורכה הוא: $d_{CD}=\sqrt{104}$.

א. מצא את x ו- y אם ידוע כי B ברביע הראשון.

ב. נתון גם כי הקדקוד C נמצא על ציר ה- x בחלקו החיובי

וכי: $d_{BC}=\sqrt{17}$. מצא את שיעורי הקדקוד C (מצא שתי אפשרויות).

ג. סמן את נקודת החיתוך של הצלע AB עם ציר ה- y ב-E.

שטח המרובע EOCB הוא 25.9 יח"ש. מצא את האפשרות הנכונה עבור הנקודה C מבין אלו שמצאת בסעיף הקודם.

תשובות סופיות:

28) א. $y=-\frac{4}{5}x+\frac{2}{5}$ ב. $C(-6,0)$ ג. $y=-\frac{2}{9}x-\frac{4}{3}$.

29) א. $l_{BD}: y=3x-22$. ב. $l_{BC}: y=-\frac{1}{8}x-6\frac{3}{8}$.

30) א. $S_{EDF}=$ 18 יח"ש. ב. 3 יחידות אורך $=AB$.

31) $C(14,5)$.

32) א. $y=-\frac{2}{3}x-\frac{5}{3}$ ב. $C(2,1)$, $B(2,-3)$ ג. 12 יחידות שטח $=S_{ABC}$.

33) א. מרובע כללי כלשהו. לא ניתן להצביע על אף תכונה.
ב. מלבן. ניתן להראות כי יש למרובע שני זוגות צלעות נגדיות מקבילות ושוות וזווית ישרה.
ג. ריבוע. ניתן להראות כי קיימות זוג צלעות סמוכות שוות. ד. 90 יח"ש $=S$.

34) א. $y=\frac{2}{3}x+1\frac{2}{3}$ ב. $(-1,1)$, $(4,0)$, $(5,5)$.

35) א. $C(-2,16)$, $B(12,-2)$ ב. $y=-8x$.

36) א. $y=-2x+22$ ב. i. תיכון - קטע במשולש שחוצה אותו לשני משולשים שווי שטח הוא תיכון. ii. ב. $D(4,4)$, $B(9,4)$.
ג. i. $BC=10$, $AD=5$. ii. ג. משולש ישר זווית - אם במשולש יש תיכון לצלע ששווה למחציתה אז המשולש הוא ישר זווית.

37) א. $E(-1,0)$, $A(-5,-2)$, $D(-5,-8)$. ב. $CD: y=\frac{1}{2}x-5\frac{1}{2}$, $CE: y=-\frac{1}{2}x-\frac{1}{2}$
ג. $C(5,-3)$. ד. 30 יח"ש $=S_{DEC}$.

38) א. $AC: y=-x+8$, $AD: y=-\frac{1}{3}x+3\frac{1}{3}$. ב. $A(7,1)$.
ג. $BC: y=3x+10$, $BE: y=x+2$. ד. $B(-4,-2)$.

39) א. $y=-4x-5$ ב. $C(0.5,-7)$ ג. 34 סמ"ר $=S_{DMC}=S_{BMC}$.

40) א. $y=x+6$, $d_{BD}=\sqrt{200}$ ב. $E(5,11)$, $F(3,9)$
ג. $d_{AE}=\sqrt{8}$, $d_{CF}=\sqrt{72}$ ד. $S_{ABCD}=80$.

41) א. $C(t,t-5)$. ב. i. $BC=\sqrt{2t^2-4t+4}$, $AC=\sqrt{2t^2+14t+49}$
ii. 10 ס"מ $=BC$, $t=8$ ג. $D(-20,-5)$.

42) א. $x=-2$ ג. i. $y=-0.5x+10$ ii. $D(0,10)$ ד. i. $E(2,4)$
ii. $\frac{S_{DCE}}{S_{ABC}}=\frac{1}{2}$.

43) א. $y=2$, $x=9$ ב. $C(10,0)$, $C(8,0)$ ג. $C(8,0)$.

חלוקת קטע ביחס נתון:

סיכום כללי:

- שיעורי נקודה P המחלקת קטע שקצותיו $A(x_1,y_1)$ ו-$B(x_2,y_2)$ ביחס של $k:l$ הם: $x_P=\frac{k\cdot x_1+l\cdot x_2}{k+l}, y_P=\frac{k\cdot y_1+l\cdot y_2}{k+l}$ (בהצלבה).

שאלות:

1) הנקודה P נמצאת על הקטע AB. נתון: $A(2,-5)$, $B(-12,16)$.
מצא את ערכי הנקודה P, אם נתון כי: $\frac{AP}{PB}=\frac{2}{5}$.

2) קודקודי משולש ABC הם: $A(-1,3)$, $B(6,0)$, $C(4,-12)$.
מצא את שיעורי מרכז הכובד של המשולש.
(מרכז כובד של משולש הוא מפגש תיכוני המשולש).

3) מצא את שיעורי מרכז הכובד של משולש ABC
שקודקודיו הם: $A(x_1,y_1)$, $B(x_2,y_2)$, $C(x_3,y_3)$.

4) קודקודי המשולש ABC הם: $A(5,1)$, $B(7,-3)$, $C(-1,4)$.
מצא את אורכו של חוצה הזווית היוצא מקודקוד A.

תשובות סופיות:

1) $P(-2,1)$

2) $M(3,-3)$

3) $\left(\frac{x_1+x_2+x_3}{3},\frac{y_1+y_2+y_3}{3}\right)$

4) 1.697 יחידות אורך.

מרחק נקודה מישר:

סיכום כללי:

הצגה כללית של ישר ומרחקים:

- הצגה כללית של ישר (צורה סתומה): $Ax+By+C=0$.
- מרחק הנקודה $A(x_1,y_1)$ מהישר $Ax+By+C=0$ הוא: $d=\left|\frac{Ax_1+By_1+C}{\sqrt{A^2+B^2}}\right|$.

  כאשר $B>0$:
  - אם הנקודה מעל הישר מורידים את הערך המוחלט.
  - אם הנקודה מתחת לישר מורידים את הערך המוחלט ומוסיפים מינוס לאחד האגפים.

שאלות:

5) ענה על הסעיפים הבאים:

א. מצא את מרחק הנקודה $(-2,4)$ מהישר $4x+3y+11=0$.

ב. מצא את מרחק הנקודה $(4,3)$ מהישר $y=3x-1$.

ג. מצא את מרחק הנקודה $(3,-11)$ מהישר $x-5=0$.

6) מצא את המרחק בין הנקודה הנתונה לישר הנתון:

א. $A(-5,-1)$, $3x-4y+6=0$

ב. $A(-3,8)$, $12x+5y-17=0$

ב. $A(11,-2)$, $2y+7=0$

ד. $A\left(6,-\frac{1}{2}\right)$, $3x-14=0$

7) מצא את שיעורי הנקודות על הישר $x+y-7=0$ שמרחקן מהישר $2x-y+5=0$ הוא: $\sqrt{20}$.

8) מצא את שטחה של מקבילית ששיעורי קודקודיה הם: $A(7,-1)$, $B(-5,4)$, $C(-1,7)$, $D(11,2)$.

9) מצא את שטחו של המשולש ΔABC שבו שיעורי קדקוד A הם $A(5,-3)$ ושניים מתיכוני המשולש מונחים על הישרים $x-4=0$ ו- $2x-y-1=0$.

10) מצא את שטחו של משולש שקודקודיו הם: $A(2,2)$, $B(-1,1)$, $C(-5,-2)$.

11) מצא את שיעורי הנקודות על הישר $3x-2y+6=0$, שמרחקן מהישר: $2x-y-14=0$ הוא $3\sqrt{5}$.

12) מצא את שיעורי הנקודות על הישר $4x+3y-20=0$, שמרחקן מהישר: $3x+2y+13=0$ הוא $2\sqrt{13}$.

תשובות סופיות:

5) א. 3 ב. $\frac{8}{\sqrt{10}}$ ג. 2.

6) א. 1 ב. 1 ג. $1\frac{1}{2}$ ד. $1\frac{1}{3}$.

7) $\left(-2\frac{2}{3},9\frac{2}{3}\right)$, $(4,3)$

8) $S_{ABCD}=$ 56 יח"ש

9) $S_{ABC}=$ 18 יח"ש

10) $S_{ABC}=$ 2.5 יח"ש

11) $(64,99)$, $(4,9)$

12) $(-157,216)$, $(-1,8)$

מיקום נקודה ביחס לישר:

שאלות:

13) מצא את שיעורי הנקודה על הישר $3x-2y+6=0$, שמרחקה מהישר: $2x-y-14=0$ הוא $3\sqrt{5}$ והיא נמצאת מתחתיו.

14) מצא את שיעורי הנקודה על הישר $4x+3y-20=0$, שמרחקה מהישר: $3x+2y+13=0$ הוא $2\sqrt{13}$ והיא נמצאת מעליו.

15) נתון משולש ABC שבו נתונים הקודקודים: $B(13,6)$, $A(1,1)$.
הקדקוד C נמצא על הישר $2x-y-19=0$ ונמצא מתחת לצלע AB.
מצא את שיעורי הקדקוד C אם ידוע ששטח המשולש הוא 13.

16) נתון משולש שצלעותיו מונחות על הישרים:
$\text{I}: x+2y+1=0$, $\text{II}: x-2y-11=0$, $\text{III}: 2x-y+6=0$
מצא שיעורי נקודה הנמצאת בתוך המשולש, שמרחקה מישר I שווה למרחקה מישר III ושמרחקה מישר II הוא מחצית מהמרחק משני ישרים אלה.

17) מצא את שיעורי מרכז המעגל, החסום במשולש, שצלעותיו מונחות על הישרים: $\text{III}: 3x+4y-11=0$, $\text{II}: 3x-4y-51=0$, $\text{I}: 4x-3y+2=0$.

18) מצא משוואת ישר ששיפועו 3 אם ידוע שהנקודה $G(7,-3)$ נמצאת מתחתיו ובמרחק $2\sqrt{10}$ ממנו.

19) מצא משוואת ישר שעובר בנקודה $A(-2,6)$ ומרחקו מהנקודה $B(2,9)$ הוא $\sqrt{5}$.

20) מצא משוואת ישר שעובר בנקודה $A(9,10)$ ומרחקו מהנקודה $B(8,-3)$ הוא $5\sqrt{5}$.

21) מצא משוואת ישר שעובר בנקודה $A(3,6)$ ומרחקו מהנקודה $B(-9,2)$ הוא 4.

22) מצא משוואת ישר שעובר בנקודה $A(1,2)$ ומרחקו מהנקודה $B(-3,10)$ הוא 4.

23) מצא משוואת ישר שעובר בנקודה $A(10,8)$ ומרחקו מהנקודה $B(7,-1)$ הוא 3.

24) מצא משוואת ישר שעובר בנקודה $A(-6,1)$ ומרחקו מהנקודה $B(2,7)$ הוא 10.

תשובות סופיות:

13) $(64,99)$

14) $(-1,8)$

15) $C(11,3)$

16) $(-1,-4)$

17) $(2,-5)$

18) $y=3x-4$

19) $y=\frac{2}{11}x+6\frac{4}{11}$, $y=2x+10$

20) $y=\frac{1}{2}x+5\frac{1}{2}$, $y=-\frac{22}{31}x+16\frac{12}{31}$

21) $y=6$, $y=\frac{3}{4}x+3\frac{3}{4}$

22) $y=-\frac{3}{4}x+2\frac{3}{4}$ או $x=1$

23) $y=1\frac{1}{3}x-5\frac{1}{3}$ או $x=10$

24) $y=-\frac{4}{3}x-7$

מרחק בין ישרים מקבילים:

סיכום כללי:

- מרחק בין שני ישרים מקבילים: $Ax+By+C_1=0$ ו- $Ax+By+C_2=0$ כאשר: $B>0$
  הוא: $d=\left|\frac{C_1-C_2}{\sqrt{A^2+B^2}}\right|$ ומתקיים בהעדר הערך המוחלט:
  - אם: $C_1>C_2$, $(d>0)$ אז הישר $Ax+By+C_1=0$ מתחת ל- $Ax+By+C_2=0$.
  - אם: $C_1<C_2$, $(d<0)$ אז הישר $Ax+By+C_1=0$ מעל ל- $Ax+By+C_2=0$.

שאלות:

25) מצא משוואת ישר, המקביל לישר $3x-4y+8=0$ ונמצא במרחק 4 ממנו.

26) מצא את המרחק בין הישרים המקבילים: $5x+12y+25=0$, $5x+12y-14=0$.

27) נתונים הישרים: $12x-2y-15=0$, $y=6x+5$.
הראה שהישרים מקבילים ומצא את המרחק ביניהם.

28) נתון המלבן ABCD. משוואותיהן של שתיים מצלעות המלבן הן AB : $3x+y=0$ ו- CD : $3x+y-6=0$. הקדקוד B נמצא בראשית הצירים. נתון כי הצלע AB ארוכה פי 4 מהצלע BC. מצא את שטח המלבן ואת מפגש אלכסוני המלבן, אם ידוע שהוא ברביע הרביעי.

29) צלע של ריבוע מונחת על הישר $3x-2y+5=0$.
אלכסוני הריבוע נפגשים בנקודה $B(1,-1)$.
מצא את משוואות הישרים עליהם מונחות הצלעות האחרות של הריבוע.

30) נתון ישר שעובר בראשית הצירים ושיפועו חיובי.
מצא את משוואת הישר אם נתון שהוא נמצא מעל הנקודות $P(4,1)$ ו- $Q(7,2)$
וסכום המרחקים ממנו לנקודות אלה הוא $3\sqrt{10}$.

31) במשולש BKP נתון כי הצלע BK מונחת על הישר $x-y+3=0$ והצלע BP מונחת על הישר $x+2y+3=0$. אורך הגובה לצלע BP הוא $3\sqrt{5}$ ואורך הגובה לצלע KP הוא 5. מצא את שיעורי קדקוד P אם ידוע שראשית הצירים נמצאת בתוך המשולש.

תשובות סופיות:

25) $3x-4y+28=0$, $3x-4y-12=0$

26) 3

27) $\frac{25}{\sqrt{148}}$

28) 14.4 יח"ש $S=$, $(2.1,-3.3)$

29) $y=-\frac{2}{3}x+3$, $y=-\frac{2}{3}x-3\frac{2}{3}$, $3x-2y-15=0$

30) $y=3x$

31) $P\left(2,-2\frac{1}{2}\right)$

מכינה אקדמית במתמטיקה למדעי המחשב 1400004

פרק 16 - גיאומטריה אנליטית - המעגל

תוכן העניינים

1. הכרות עם משוואת המעגל 310
2. מעגל המשיק לצירים 314
3. משיק למעגל 316
4. שאלות יסודיות שונות 317
5. נושאים מתקדמים במעגל ..... (ללא ספר)
6. כתיבת משוואת מעגל עם השלמה לריבוע 324
7. משוואות המשיקים למעגל 325
8. מיתר המחבר שתי נקודות השקה 327
9. שאלות מסכמות שונות 328

הכרות עם משוואת המעגל:

סיכום כללי:

הגדרה:

המקום הגאומטרי של כל הנקודות, הנמצאות במרחק קבוע מנקודה קבועה במישור נקרא מעגל.

משוואת מעגל:

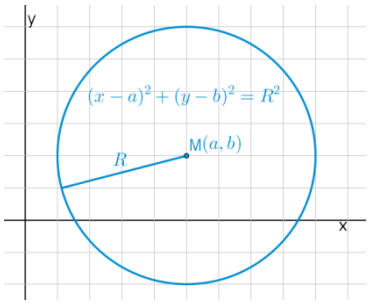

משוואת מעגל שמרכזו בנקודה $M(a,b)$

ורדיוסו R היא: $(x-a)^2=(y-b)^2=R^2$.

משוואת מעגל קנוני:

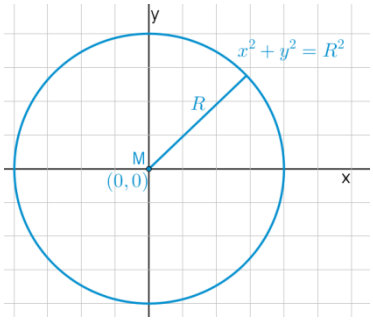

משוואת מעגל קנוני (שמרכזו בראשית הצירים $M(0,0)$)

ורדיוסו R היא: $x^2+y^2=R^2$.

שאלות:

1) מצא את מרכזם ורדיוסם של המעגלים הבאים:

א. $(x-3)^2+(y+5)^2=49$.

ב. $\left(x+\frac{1}{2}\right)^2+y^2=10$.

ג. $(x-m)^2+(y+n)^2=m^2+n^2$.

2) כתוב את משוואות המעגלים שמרכזם M ורדיוסם R:

א. $M(4,-2)\ ,\ R=3$

ב. $M(-3,5)\ ,\ R=10$

ג. $M(5,5)\ ,\ R=\sqrt{40}$

ד. $M(10,-12)\ ,\ R=\sqrt{30}$

3) כתוב את משוואות המעגלים הבאים בכל מקרה:

א.

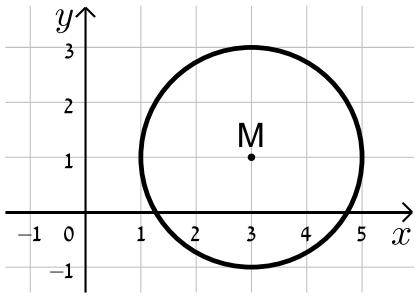

ב.

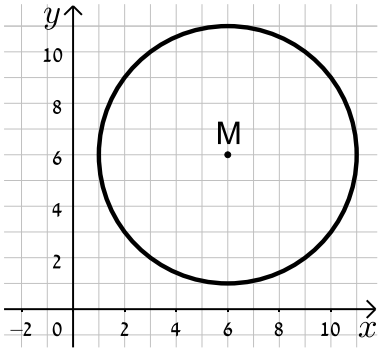

ג.

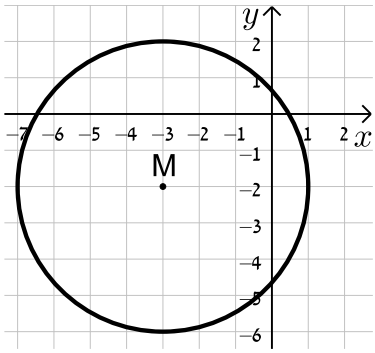

ד.

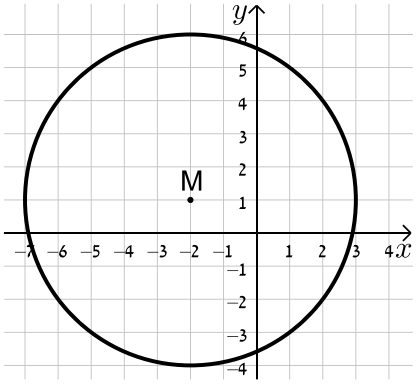

4) מצא את משוואתו של מעגל שעובר בנקודה $A(-4,5)$ ומרכזו בנקודה $O(2,-1)$.

5) מצא את משוואת המעגל שמרכזו בנקודה $M(-5,6)$ והוא חותך את ציר ה-x בנקודה שבה $x=9$.

6) מצא את משוואת המעגל שמרכזו בנקודה $M(0,-7)$ והוא חותך את ציר ה-y בנקודה שבה $y=3$.

7) מצא את משוואתו של מעגל שעובר בנקודה $A(11,2)$, רדיוסו 13 ומרכזו נמצא על הישר $y=2x-1$.

8) מצא את משוואתו של מעגל שהנקודות $A(-2,3)$ ו-$B(4,-3)$ הן קצות הקוטר שלו.

9) מצא את משוואתו של מעגל שמרכזו נמצא על הישר $x=4$, רדיוסו 10 והוא חותך מציר ה-x מיתר שאורכו 12.

10) מצא את משוואתו של מעגל שמרכזו $M(4,-3)$ אם ידוע כי הישר $y=-3x+7$ חותך אותו בשתי נקודות A ו-B כך שאורכו של המיתר AB הוא 4 יחידות אורך.

11) מצא את משוואתו של מעגל החוסם משולש שקודקודיו הם $A(22,-24)$, $B(-10,40)$, $C(-30,28)$.

12) נתונים שני מעגלים בעלי אותו המרכז $M(3,-1)$, האחד הוא בעל רדיוס R והשני בעל רדיוס של $2R$.

א. כתוב את המשוואות של שני המעגלים (בטא באמצעות R).

ב. מה תהיינה המשוואות עבור $R=2$?

ג. צייר את שני המעגלים במערכת הצירים שלפניך.

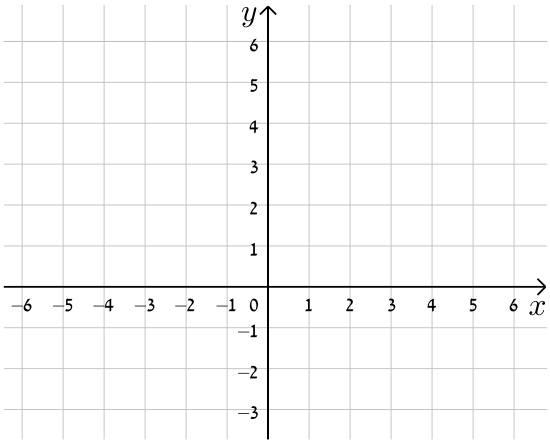

13) שני מעגלים שמרכזיהם $M_1(6,2)$ ו-$M_2(-3,-4)$ חותכים זה את זה בנקודה $(-2,3)$. מצא את משוואות המעגלים.

14) נתונה משוואת המעגל הבאה: $x^2+y^2-10x-10y+a=0$ כאשר a פרמטר.

א. מצא ביטוי של רדיוס המעגל באמצעות a.

ב. איזה מהערכים הבאים יכול להיות הגיוני עבור a ?
נמק ומצא את תחום ההגדרה של a.

i. $a=5$.

ii. $a=55$.

תשובות סופיות:

1) א. $M(3,-5)\ ,\ R=7$ ב. $M(-0.5,0)\ ,\ R=\sqrt{10}$

ג. $M(m,-n)\ ,\ R=\sqrt{m^2+n^2}$.

2) א. $(x-4)^2+(y+2)^2=9$ ב. $(x+3)^2+(y-5)^2=100$

ג. $(x-5)^2+(y-5)^2=40$ ד. $(x-10)^2+(y+12)^2=30$.

3) א. $(x-3)^2+(y-1)^2=4$ ב. $(x-6)^2+(y-6)^2=25$

ג. $(x+3)^2+(y+2)^2=16$ ד. $(x+2)^2+(y-1)^2=25$.

4) $(x-2)^2+(y+1)^2=72\ ,\ M(3,-3)$.

5) $(x+5)^2+(y-6)^2=232$.

6) $x^2+(y+7)^2=100$.

7) $(x+1)^2+(y+3)^2=169$ או $(x-7.8)^2+(y+14.6)^2=169$.

8) $(x-1)^2+y^2=18$.

9) $(x-4)^2+(y-8)^2=100$ או $(x-4)^2+(y+8)^2=100$

10) $(x-4)^2+(y+3)^2=4\frac{2}{5}$.

11) $(x+2)^2+(y-4)^2=1360$.

12) א. $(x-3)^2+(y+1)^2=4R^2\ ,\ (x-3)^2+(y+1)^2=R^2$

ב. $(x-3)^2+(y+1)^2=16\ ,\ (x-3)^2+(y+1)^2=4$.

13) $(x-6)^2+(y-2)^2=65\ ,\ (x+3)^2+(y+4)^2=50$

14) א. $R=\sqrt{50-a}$ ב. $a=5$, ת.ה: $a<50$.

מעגל המשיק לצירים:

שאלות:

15) כתוב את משוואות המעגלים הבאים:

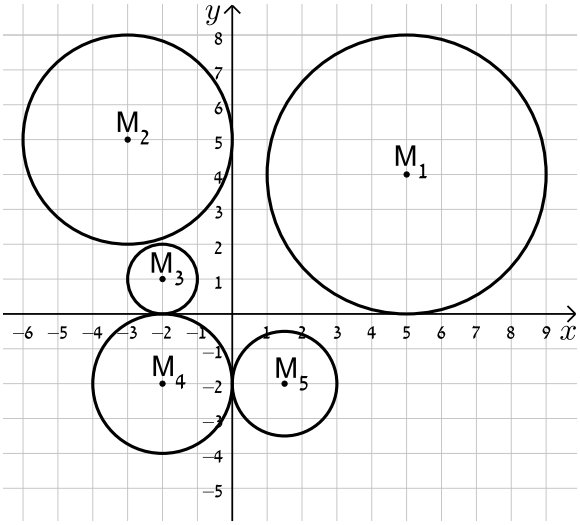

16) מצא את משוואתו של מעגל המשיק לשני הצירים ורדיוסו 4.

17) מצא את משוואת המעגל שמשיק לציר ה-x ומרכזו בנקודה $M(16,8)$.

18) מצא את משוואת המעגל שמרכזו נמצא על הישר $2x+3y+6=0$ והוא משיק לשני הצירים.

19) מצא את משוואתו של מעגל שמשיק לציר ה-y ולישר $y=6$ ומרכזו על הישר $y=3x-2$ ברביע הראשון.

תשובות סופיות:

15) $M_1:(x-5)^2+(y-4)^2=16$, $M_2:(x+3)^2+(y-5)^2=9$, $M_3:(x+2)^2+(y-1)^2=1$, $M_4:(x+2)^2+(y+2)^2=4$, $M_5:(x-1.5)^2+(y+2)^2=2\frac{1}{4}$.

16) $(x\pm4)^2+(y\pm4)^2=16$.

17) $(x-16)^2+(y-8)^2=64$.

18) $(x-6)^2+(y+6)^2=36$, $\left(x+1\frac{1}{5}\right)^2+\left(y+1\frac{1}{5}\right)^2=\frac{36}{25}$.

19) $(x-2)^2+(y-4)^2=4$.

משיק למעגל:

סיכום כללי:

משוואת המשיק למעגל $(x-a)^2=(y-b)^2=R^2$ בנקודה $A(x_1,y_1)$ שעליו היא: $(x-a)(x_1-a)+(y-b)(y_1-b)=R^2$.

שאלות:

20) מצא את משוואות המשיקים למעגל $(x+1)^2+(y-2)^2=25$ בנקודות על המעגל שבהן $y=5$.

21) נתונה משוואת המעגל: $(x-1)^2+(y-3)^2=20$ ומשוואת הישר $y=2x+m$ כאשר m פרמטר. מצא עבור אלו ערכים של m הישר ישיק למעגל ולאלו ערכים הישר יחתוך את המעגל.

תשובות סופיות:

20) $4x-3y+35=0$ ו- $4x+3y=27$.

21) משיק: $m=11,-9$, חותך: $-9<m<11$.

שאלות יסודיות שונות:

שאלות:

22) נתון מעגל שמשוואתו $(x-3)^2+(y+4)^2=25$.

א. מצא את נקודות החיתוך של המעגל עם הצירים.

ב. העבירו קוטר במעגל, המאונך לציר ה-x.
מצא את שטח המרובע הנוצר על ידי נקודות החיתוך שמצאת בסעיף א' ונקודת החיתוך של הקוטר עם המעגל הנמצאת ברביע הראשון.

23) נתון ישר שמשוואתו $y=2x-10$. הישר חותך את ציר ה-x בנקודה A ואת ציר ה-y בנקודה B. בנקודה A מעבירים משיק למעגל שהקטע AB הוא קוטרו.
המשיק חותך את ציר ה-y בנקודה C.
מצא את אורך הקטע BC.

24) נתון המעגל שמשוואתו $x^2+y^2=81$. מסמנים ב-A את נקודת החיתוך החיובית של המעגל עם ציר ה-x. הנקודה A היא מרכזו של מעגל נוסף בעל רדיוס של 12. מסמנים את נקודות החיתוך של שני המעגלים ב-B ו-C.
מצא את שטח המשולש שנוצר בין הנקודות B, C ו- O (O ראשית הצירים).

25) נתון ישר שמשוואתו $y=x$. הישר חותך מעגל קנוני שמשוואתו $x^2+y^2=32$ בשתי נקודות, A ו-B, כאשר A ברביע הראשון. בנקודה A עובר מעגל נוסף, המשיק למעגל הקנוני ובעל אותו רדיוס.
מצא את משוואת המעגל הנוסף ואת משוואת המשיק המשותף לשני המעגלים העובר בנקודה A.

26) הישרים: $9y+11x=94$ ו- $y=-3x+14$ נחתכים בנקודה B.
דרך נקודה זו עובר מעגל שמרכזו הוא: $M(-9,1)$.
ידוע כי מעגל זה חותך את הישרים (חוץ מהנקודה B) בשתי נקודות A ו-C (ראה איור).

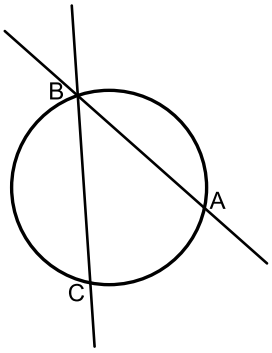

א. מצא את שיעורי הנקודה B.

ב. מצא את משוואת המעגל.

ג. מצא את שיעורי הנקודה A – נקודת החיתוך של הישר שמשוואתו: $y=-3x+14$ עם המעגל.

27) נתון מעגל המשיק לציר ה-x בנקודה A.
מהנקודה E שעל ציר ה-x מעלים אנך המשיק למעגל בנקודה B (ראה איור).
הקטע BC מקביל לציר ה-x ו-O היא נקודת ראשית הצירים. יוצרים טרפז ישר זווית ABCO ששטחו הוא 170 סמ"ר.
ידוע כי: $C(0,10)$ ו- 10 ס"מ $= AE$.

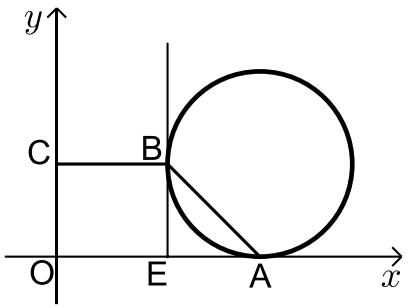

א. ענה על הסעיפים הבאים:
i. מצא את שיעורי הנקודה B.
ii. מצא את שיעורי הנקודה A.
ב. כתוב את משוואת המעגל.

28) הנקודה $A(17,4)$ נמצאת על המעגל שמשוואתו: $(x-7)^2+(y-4)^2=R^2$.
הישר $x=1$ חותך את המעגל בשתי נקודות B ו-C כך ש-B נמצאת ברביע הרביעי. מעבירים את הקטע AD המאונך לישר BC וידוע כי הנקודה D היא אמצע BC.

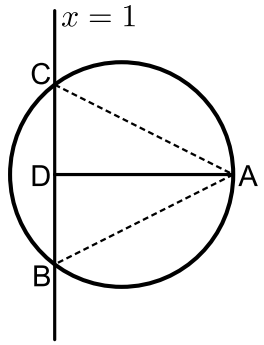

א. מצא את רדיוס המעגל.
ב. מצא את שיעורי הנקודות B ו-C.
ג. ענה על הסעיפים הבאים:
i. חשב את מרחק הנקודה A מהישר: $x=1$
ii. חשב את שטח המשולש ABC.

29) נתון משולש ABC. משוואות הצלעות AB ו-BC במשולש ABC הן בהתאמה: $2y-x=56$ ו- $8y+x=104$.
מעבירים גבהים לצלעות AB ו-BC אשר נחתכים בנקודה $M(0,-2)$ שבתוך המשולש.

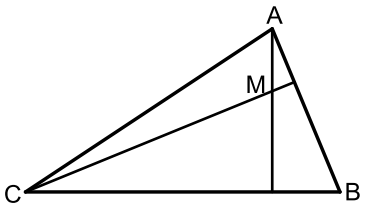

א. מצא את משוואות הגבהים.
ב. מצא את שיעורי הנקודה B.
ג. מצא את משוואת המעגל שמרכזו בנקודה M ורדיוסו הוא הקטע BM.

30) באיור שלפניך מתואר המעגל: $(x-4)^2+(y-3)^2=25$.
המעגל חותך את הצירים בנקודות A , B ו-O.

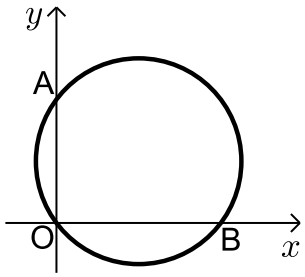

א. מצא את נקודות החיתוך של המעגל עם הצירים.
ב. מצא נקודה C הנמצאת על היקף המעגל ברביע הראשון כך שהמרובע ABCO יהיה מלבן.
ג. חשב את היקף המלבן.

31) המעגל: $(x+a)^2+(y-1)^2=a+4$, $a>0$ חותך את ציר ה-x בנקודה שבה: $x=1$.
א. מצא את a.
ב. מצא את נקודות החיתוך של המעגל הנתון עם המעגל $(x-1)^2+(y-2)^2=10$.
ג. כתוב את משוואת הישר העובר דרך נקודות החיתוך של שני המעגלים.
ד. חשב את שטח המשולש שיוצר הישר שמצאת בסעיף הקודם עם הצירים.

32) הנקודות M ו-D נמצאות על הישר $y=12$ ידוע כי שיעור ה-x של הנקודה M הוא 9 וכי המרחק של הנקודה M מראשית הצירים גדול ב- 6 מהמרחק בין הנקודות D ו-M (ראה איור).
בונים מעגל שמרכזו נמצא בנקודה M ורדיוסו הוא האורך DM.

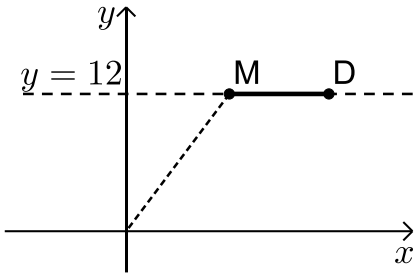

א. ענה על הסעיפים הבאים:
i. מצא את מרחק הנקודה M מראשית הצירים.
ii. מצא את שיעור ה-x של הנקודה D.
ב. כתוב את משוואת המעגל.
ג. האם המעגל הזה חותך את הצירים? הראה חישוב מתאים לטענתך.

33) מעגל שמרכזו בנקודה $M(15,12)$ משיק לציר ה-y בנקודה B וחותך את ציר ה-x בשתי נקודות A ו-C כמתואר באיור.

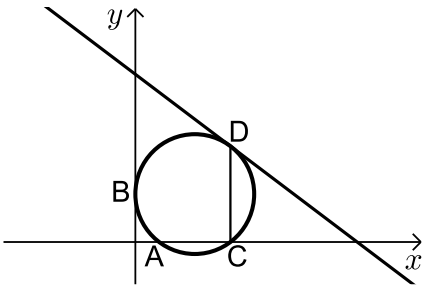

א. כתוב את משוואת המעגל.
מהנקודה C מעלים אנך לציר ה-x שחותך את המעגל בנקודה נוספת D.
דרך הנקודה D עובר משיק למעגל.
ב. מצא את שיעורי הנקודות C ו-D.
ג. מצא את משוואת המשיק למעגל בנקודה D.

34) באיור שלפניך נתון מעגל שמרכזו בנקודה M.
המעגל חותך את ציר ה- y בנקודות A ו-B.
מעבירים משיק למעגל: $6x+7y=191$
דרך הנקודה: $C(12,17)$.

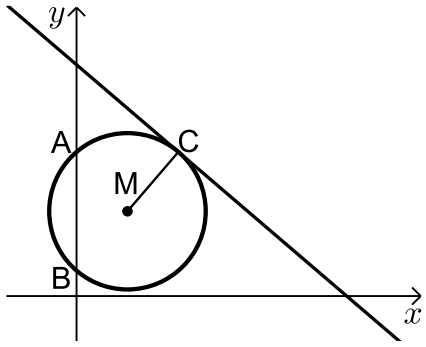

א. כתוב את משוואת הרדיוס MC.
ב. ידוע כי הנקודה M נמצאת על הישר $y=10$.
i. מצא את שיעורי הנקודה M.
ii. מצא את אורך רדיוס המעגל.
iii. כתוב את משוואת המעגל.
ג. מצא את נקודות החיתוך של המעגל עם ציר ה- y.
ד. חשב את שטח המשולש AMB.

35) באיור שלפניך נתון מעגל שמרכזו בנקודה M הנמצאת על ציר ה- x. המעגל חותך את ציר ה- x בנקודה A.
מסמנים את ראשית הצירים ב-O.
ידוע כי A היא אמצע הקטע MO ושיעוריה הם: $A(5,0)$.

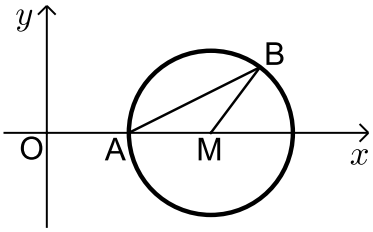

א. מצא את משוואת המעגל.
ב. כתוב את משוואת הישר שעובר דרך הנקודה A ושיפועו הוא 0.5.
ג. מצא את נקודת החיתוך הנוספת של הישר שמצאת עם המעגל.
ד. סמן את הנקודה שמצאת בסעיף הקודם ב-B וחשב את שטח המשולש AMB.

36) באיור שלפניך נתון מעגל שמשוואתו
היא: $(x+4)^2+(y+2)^2=8$.
מסמנים את נקודות החיתוך של המעגל עם ציר ה- x ב-A ו-B (ראה איור).

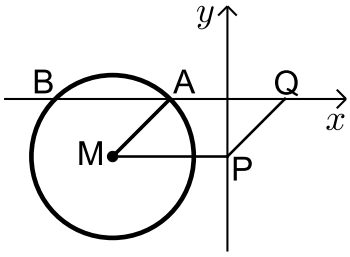

א. מצא את שיעורי הנקודות A ו-B.
מעבירים אנך לציר ה- y מנקודת מרכז המעגל M
ומסמנים את חיתוכם ב- P.
ב. מצא נקודה Q כך שהמרובע AMPQ יהיה מקבילית. נמק.
ג. כתוב את משוואת הישר PQ.
ד. הוכח כי הישר שמצאת בסעיף הקודם משיק למעגל בנקודה $(-2,-4)$.

37) נתון מעגל שרדיוסו R $(R<16)$ ומשיק לציר ה-x בנקודה שבה: $x=16$.

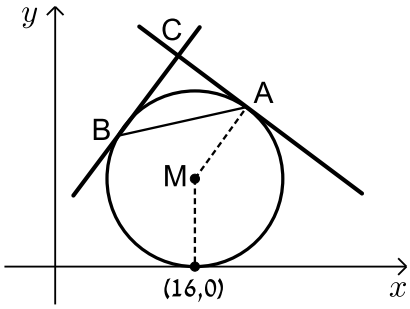

א. הבע באמצעות R את משוואת המעגל וציין האם הוא חותך את ציר ה- y או לא. נמק.

מהנקודה $A(22,18)$ שעל המעגל מעבירים משיק.

ב. מצא את R וכתוב את משוואת המעגל.

ג. כתוב את משוואת המשיק למעגל בנקודה A.

ד. מצא את משוואת המשיק למעגל בנקודה B שבה $x_B < x_M$ אם ידוע כי הוא המאונך למשיק הקודם.

ה. המשיקים נחתכים בנקודה C.

i. מצא את שיעורי הנקודה C.

ii. מצא את שטח המשולש ABC.

38) באיור שלפניך נתון מעגל שמשוואתו: $(x+a)^2+(y-1)^2=5$, a פרמטר.

ידוע כי המעגל חותך את ציר ה-x בנקודה $A(10,0)$.

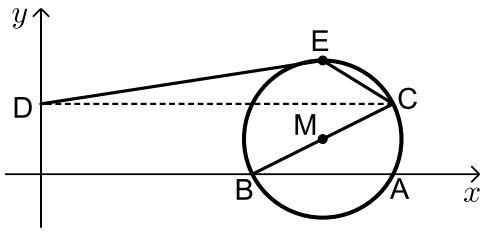

א. מצא את a אם ידוע כי $a>-10$.

ב. מצא את הנקודה B - נקודת החיתוך השנייה של המעגל עם ציר ה-x.

ג. כתוב את משוואת הקוטר העובר דרך הנקודה B ומרכז המעגל M.

ד. מצא את נקודת החיתוך השנייה של הקוטר עם המעגל.

ה. מעבירים אנך מנקודת החיתוך שמצאת בסעיף הקודם לציר ה- y בנקודה D.
הנקודה E היא הנקודה בעלת שיעור ה- y הגדול ביותר על המעגל.
מחברים את הנקודות E ו-D כך שנוצר המחומש DECBO. חשב את שטחו.

39) באיור שלפניך נתון מעגל שמשוואתו: $(x-5)^2+(y-3)^2=R^2$, R רדיוס המעגל.

ידוע כי המעגל עובר בראשית הצירים.

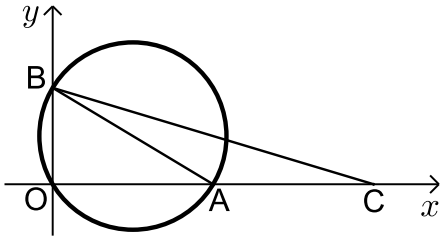

א. מצא את רדיוס המעגל וכתוב את משוואת המעגל.

ב. מצא את הנקודות A ו- B - החיתוך של המעגל עם הצירים (ראה איור).

ג. מסמנים נקודה C על ציר ה-x כך ש-A היא אמצע הקטע CO.

i. מצא את שיעורי הנקודה C.

ii. חשב את שטח המשולש ABC.

תשובות סופיות:

22) א. $(0,-8)$, $(6,0)$, $(0,0)$ ב. 27 יח"ש.

23) 12.5 יחידות אורך.

24) $\sqrt{80}$ יח"ש $= S_{\Delta BOC}$.

25) $(x-8)^2+(y-8)^2=32$, $y=-x+8$.

26) א. $(2,8)$ ב. $(x+9)^2+(y-1)^2=170$ ג. $(4,2)$.

27) א. i. $B(12,10)$ ii. $A(22,0)$ ב. $(x-22)^2+(y-10)^2=100$.

28) א. $R=10$ ב. $B(1,-4)$, $C(1,12)$ ג. i. $d=16$

ii. $S=128$

29) א. $y=-2x-2$, $y=8x-2$ ב. $(-24,16)$ ג. $x^2+(y+2)^2=900$.

30) א. $B(8,0)$, $A(0,6)$, $O(0,0)$ ב. $C(8,6)$ ג. 28 יח"א $= P$.

31) א. $a=1$ ב. $(-2,3)$, $(0,-1)$ ג. $y=-2x-1$

ד. $S=\frac{1}{4}$.

32) א. i. $d=15$ ii. $x=18$. ב. $(x-9)^2+(y-12)^2=81$.

ג. המעגל אינו חותך את ציר ה-x -כאשר מציבים ב- y אפס מתקבלת משוואה ריבועית ללא פתרון. המעגל חותך את ציר ה-x בנקודה אחת- $(12,0)$.

33) א. $(x-15)^2+(y-12)^2=225$ ב. $D(24,24)$, $C(24,0)$. ג. $y=-\frac{3}{4}x+42$.

34) א. $y=\frac{7}{6}x+3$ ב. i. $M(6,10)$ ii. $\sqrt{85}$

iii. $(x-6)^2+(y-10)^2=85$ ג. $B(0,3)$, $A(0,17)$ ד. 42 יח"ש.

35) א. $(x-10)^2+y^2=25$ ב. $y=0.5x-2.5$ ג. $B(13,4)$

ד. 10 יח"ש $= S_{AMB}$.

36) א. $A(-2,0)$, $B(-6,0)$ ב. $Q(2,0)$ ג. $y=x-2$.

37) א. $(x-16)^2+(y-R)^2=R^2$, המעגל אינו חותך את ציר ה- y .

ב. $R=10$, $(x-16)^2+(y-10)^2=100$ ג. $y=-\frac{3}{4}x+34\frac{1}{2}$

ד. $y=\frac{4}{3}x+5\frac{1}{3}$ ה. i. $C(14,24)$ ii. 50 יח"ש.

38) א. $a=-8$ ב. $B(6,0)$ ג. $y=0.5x-3$

ד. $(10,2)$. ה. $11+5\sqrt{5}$ יח"ש $=S_{DECBO}$.

39) א. $\sqrt{34}$ יחידות אורך $=R$, $(x-5)^2+(y-3)^2=34$. ב. $A(10,0)$, $B(0,6)$

ג. i. $C(20,0)$. ii. 30 יח"ש $=S_{ABC}$.

כתיבת משוואת מעגל עם השלמה לריבוע:

שאלות:

1) מצא את מרכזם ורדיוסם של המעגלים הבאים:

א. $x^2+10x+y^2+6y-2=0$

ב. $x^2-2x+y^2+20y+1=0$

ג. $x^2-8x+y^2-14y=0$

ד. $x^2+y^2+2y=0$

ה. $x^2+x+y^2-3\frac{3}{4}=0$

ו. $x^2-2mx+y^2+6my+m^2=0$

2) משוואתו של מעגל היא $x^2+y^2-6mx-2(m+2)y+4m+4=0$.
מצא את ערכו של m אם ידוע שמרכז המעגל נמצא על הישר $y=2x+7$.

3) משוואתו של מעגל היא $x^2+y^2-8x+12y-48=0$.
מצא את אורכו של המיתר שחותך הישר $y=2x-4$ מהמעגל בלי למצוא את נקודות הקצה של המיתר.

תשובות סופיות:

1) א. $M(-5,-3)\ ,\ R=6$

ב. $M(1,-10)\ ,\ R=10$

ג. $M(4,7)\ ,\ R=\sqrt{65}$

ד. $M(0,-1)\ ,\ R=1$

ה. $M\left(-\frac{1}{2},0\right)\ ,\ R=2$

ו. $M(m,-3m)\ ,\ R=3m$.

2) $m=-1$.

3) $2\sqrt{80}$.

משוואות המשיקים למעגל:

שאלות:

4) מצא משוואת מעגל העובר בנקודה $(1,8)$ המשיק לשני הצירים.

5) מצא את אורך המשיק למעגל שמשוואתו $x^2+y^2-4x+14y+37=0$ היוצא מהנקודה $A(10,-3)$.

6) מצא את משוואת המשיק ואת משוואת הנורמל למעגל שמשוואתו $x^2+y^2-4x+6y+3=0$ בנקודה $A(5,-4)$.

7) מצא את נקודת החיתוך של המשיקים למעגל שמשוואתו $x^2+(y-1)^2=5$ בנקודות שבהן $x=-1$.

8) נתון מעגל שמרכזו בנקודה $(-2,6)$ והוא עובר בראשית הצירים. המעגל חותך את הצירים בשתי נקודות נוספות, A ו-B.

א. הוכח כי המשיקים למעגל בנקודות A ו-B מקבילים זה לזה.

ב. הוכח את סעיף א' בלי למצוא את משוואות המשיקים או את שיפועיהם.

9) נתון המעגל $(x-1)^2+(y-3)^2=20$ והישר $y=2x+m$.

לאלו ערכים של הפרמטר m הישר משיק למעגל ולאלו ערכים של m הישר חותך את המעגל?

תשובות סופיות:

4) $(x-5)^2+(y-5)^2=25$ או $(x-13)^2+(y-13)^2=169$.

5) 8.

6) משיק: $y=3x-19$, נורמל: $x+3y+7=0$.

7) $(-5,1)$.

8) שאלת הוכחה.

9) משיק: $m=-9,11$, חותך: $-9<m<11$.

מיתר המחבר שתי נקודות השקה:

סיכום כללי:

משוואת המיתר, המחבר את שתי נקודות ההשקה של שני המשיקים

למעגל $(x-a)^2=(y-b)^2=R^2$ היוצאים מהנקודה $A(x_1,y_1)$ שמחוץ

למעגל היא: $(x-a)(x_1-a)+(y-b)(y_1-b)=R^2$.

שאלות:

10) ענה על הסעיפים הבאים:

א. מצא את משוואת המיתר במעגל שמשוואתו $x^2+y^2+2x-19=0$,
המחבר את נקודות ההשקה של המשיקים היוצאים מהנקודה $A(-3,8)$

ב. מצא את משוואת המיתר במעגל שמשוואתו $x^2+(y-1)^2=5$, המחבר
את נקודות ההשקה של המשיקים היוצאים מהנקודה $A(-5,1)$.

11) נתון מעגל שמשוואתו $x^2+y^2+16x+48=0$ ונקודה P, שנמצאת על החלק
החיובי של ציר ה- y. הישר המחבר את נקודות ההשקה של המשיקים
היוצאים למעגל מנקודה P חותך את ציר ה- y בנקודה Q. נתון: $PQ=14$.
מצא את שיעורי הנקודה Q.

תשובות סופיות:

10) א. $x-4y+11=0$ ב. $x=-1$.

11) $Q(0,-8)$ או $Q(0,-6)$.

שאלות מסכמות שונות:

שאלות:

12) נתון מעגל שמשוואתו $x^2+y^2+16x-12y+64=0$. המעגל משיק מבחוץ למעגל קנוני. מצא את משוואת המעגל הקנוני, את נקודת ההשקה בין המעגלים ואת משוואת המשיק המשותף העובר בנקודה זו.

13) המעגלים $x^2+y^2+22x-6y=m$ ו- $x^2+y^2=26$ נחתכים בזווית ישרה.
מצא את ערכו של m .

14) בטרפז שווה שוקיים ABCD נתון כי הבסיס הגדול, DC, מונח על הישר: $3x-y-9=0$ והשוק AD מונחת על הישר $x+y-3=0$.
שיעורי הקודקוד B הם $(3,-8)$.
מצא את משוואת המעגל החוסם את הטרפז ABCD.

15) מצא את משוואתו של מעגל החוסם ריבוע, שאחד מקדקודיו נמצא בראשית הצירים ומשוואת אחד מאלכסוניו היא $3x-y+10=0$.

תשובות סופיות:

12) $4x-3y+20=0$, $A(-3.2,2.4)$, $x^2+y^2=16$.

13) $m=-26$.

14) $(x-1)^2+(y+4)^2=20$.

15) $(x+3)^2+(y-1)^2=10$.

מכינה אקדמית במתמטיקה למדעי המחשב 1400004

פרק 17 - גיאומטריה אנליטית - האליפסה והפרבולה

תוכן העניינים

1. האליפסה 329
2. הפרבולה 333

האליפסה:

סיכום כללי:

הגדרה:

המקום הגאומטרי של כל הנקודות, שסכום מרחקיהן משתי נקודות קבועות במישור קבוע, נקרא אליפסה. הנקודות הקבועות נקראות מוקדי האליפסה.

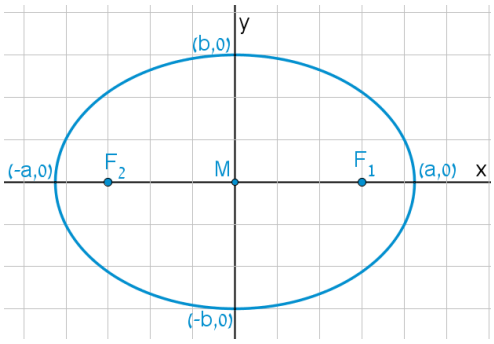

מושגים באליפסה:

- הציר הגדול: הקטע שהאליפסה חותכת מציר ה- x .
- הציר הקטן: הקטע שהאליפסה חותכת מציר ה- y .
- מרכז האליפסה: מפגש צירי האליפסה (ראה איור).
  באליפסה קנונית מרכז האליפסה נמצא בראשית הצירים.
- מוקדי האליפסה: שתי נקודות קבועות שבעבורך סכום המרחקים מכל נקודה על האליפסה הוא גודל קבוע השווה ל- $2a$. המוקדים יסומנו ב- F_1 ו- F_2 ושיעוריהם הם: $F_1(c,0)$, $F_2(-c,0)$.
- רדיוסי ווקטור: המרחקים של כל נקודה על האליפסה משני המוקדים.
  אורך הרדיוס מנקודה (x,y) שעל האליפסה למוקד הימני הוא: $r_1 = a - \frac{cx}{a}$.
  אורך הרדיוס מנקודה (x,y) שעל האליפסה למוקד השמאלי הוא: $r_2 = a + \frac{cx}{a}$.
- מיתר: קטע המחבר שתי נקודות שעל האליפסה.
- קוטר: מיתר העובר דרך מרכז האליפסה.

משוואות וקשרים:

- משוואת אליפסה קנונית היא: $\frac{x^2}{a^2} + \frac{y^2}{b^2} = 1$ או: $b^2x^2 + a^2y^2 = a^2b^2$.
- הקשר בין הפרמטרים של האליפסה הוא: $a^2 - b^2 = c^2$.
- מכפלת שיפועי מיתר באליפסה והקוטר החוצה אותו היא קבועה ושווה ל- $-\frac{b^2}{a^2}$.

שאלות:

1) מצא את אורך צירי אליפסה שמשוואתה $x^2+4y^2=36$.

2) מצא את משוואתה של אליפסה שאורך צירה הגדול הוא 18 ואורך צירה הקטן הוא $2\sqrt{3}$.

3) מצא את משוואתה של אליפסה שאורך צירה הגדול הוא 12 והמרחק בין מוקדיה $8\sqrt{2}$.

4) מצא את משוואתה של אליפסה שאורך צירה הקטן הוא 8 והיא עוברת בנקודה $\left(-3\sqrt{3},2\right)$.

5) מצא את משוואתה של אליפסה שחסומה במעגל שמשוואתו $x^2+y^2=16$ ומוקד אחד שלה הוא בנקודה $\left(\sqrt{10},0\right)$.

6) מצא את משוואתה של אליפסה שחותכת את ציר ה- y בנקודה $\left(0,-2\sqrt{5}\right)$ והמרחק בין המוקד הימני לקדקוד הימני בה הוא 2.

7) מצא את משוואתה של אליפסה שעוברת בנקודות $\left(-2,\sqrt{6}\right)$ ו- $\left(\sqrt{14},1\right)$.

8) מצא על האליפסה $3x^2+4y^2=144$ את הנקודות שהפרש מרחקיהן מהמוקדים הוא 4.

9) מצא את משוואתה של אליפסה שעוברת בנקודה $(-3,1)$ ומכפלת המרחקים מנקודה זו למוקדים הוא 6.

10) מצא על האליפסה $x^2+3y^2=12$ את הנקודות שמהן רואים את הקטע שבין שני המוקדים בזווית ישרה.

11) מצא את משוואתו של קוטר באליפסה $x^2+4y^2=50$ ששיפועו חיובי ואורכו $\sqrt{56}$.

12) נתונים האליפסה $\frac{x^2}{30}+\frac{y^2}{24}=1$ והישר $y=2x+k$. מצא לאלו ערכים של הפרמטר k הישר משיק לאליפסה ולאלו ערכים של הפרמטר k הישר חותך את האליפסה.

13) מצא את שטחו של ריבוע החסום באליפסה $3x^2+5y^2=120$ כך שצלעותיו מקבילות לצירים.

14) מצא את שטחו של ריבוע החסום באליפסה $b^2x^2+a^2y^2=a^2b^2$ כך שצלעותיו מקבילות לצירים.

15) באליפסה $5x^2+9y^2=90$ חסום מלבן שצלעותיו מקבילות לצירים. מצא את שטח המלבן אם שתיים מצלעותיו עוברות במוקדי האליפסה.

16) באליפסה $x^2+5y^2=16$ חסום משולש שווה צלעות כך שקדקוד אחד שלו הוא הקדקוד הימני של האליפסה. מצא את שיעורי קדקודיו האחרים.

17) באליפסה חסום משולש שווה צלעות כך שקדקוד אחד שלו הוא הקדקוד הימני של האליפסה וקדקודיו האחרים הם נקודות החיתוך של האליפסה עם ציר ה- y.
מצא את משוואת האליפסה אם אחד ממוקדיה נמצא בנקודה $\left(4\sqrt{2},0\right)$.

18) מצא באליפסה $2x^2+3y^2=12$ משוואת מיתר שנקודת האמצע שלו היא $(1.5,1)$.

19) ישר שמשוואתו $x-y-3=0$ חותך מאליפסה מיתר שאמצעו בנקודה $(2,-1)$.
מצא את משוואת האליפסה אם ידוע שהיא עוברת בנקודה $\left(2\sqrt{2},-2\right)$.

20) נתונה המשוואה $\frac{x^2}{a^2}-\frac{y^2}{a^2-25}=1$, $(0<a\neq 5)$.

א. ענה על הסעיפים הבאים:

i. לאיזה ערך של a המשוואה מייצגת מעגל?

ii. לאלו ערכים של a המשוואה מייצגת אליפסה?

ב. הוכח כי בעבור $a=4$ אין אף נקודה על האליפסה שממנה רואים את הקטע שבין המוקדים בזווית ישרה.

תשובות סופיות:

1) $2a=12$, $2b=6$

2) $\frac{x^2}{81}+\frac{y^2}{3}=1$

3) $\frac{x^2}{36}+\frac{y^2}{4}=1$

4) $\frac{x^2}{36}+\frac{y^2}{16}=1$

5) $\frac{x^2}{16}+\frac{y^2}{6}=1$

6) $\frac{x^2}{36}+\frac{y^2}{20}=1$

7) $\frac{x^2}{16}+\frac{y^2}{8}=1$

8) $(4,\sqrt{24})$, $(4,-\sqrt{24})$, $(-4,\sqrt{24})$, $(-4,-\sqrt{24})$

9) $\frac{x^2}{12}+\frac{y^2}{4}=1$

10) $(\sqrt{6},\sqrt{2})$, $(-\sqrt{6},\sqrt{2})$, $(\sqrt{6},-\sqrt{2})$, $(-\sqrt{6},-\sqrt{2})$

11) $y=\sqrt{6}x$

12) משיק: $k=\pm 12$, חותך: $-12<k<12$.

13) $S=$ יח"ש 60

14) $S=\frac{4a^2b^2}{a^2+b^2}$

15) $S=$ יח"ש $26\frac{2}{3}$

16) $(1,\sqrt{3})$, $(1,-\sqrt{3})$

17) $\frac{x^2}{48}+\frac{y^2}{16}=1$

18) $y=-x+2.5$

19) $\frac{x^2}{16}+\frac{y^2}{8}=1$

20) א. i. $a=\sqrt{12.5}$ ii. $a\neq\sqrt{12.5}$

הפרבולה:

סיכום כללי:

הגדרה:

המקום הגאומטרי של כל הנקודות, שמרחקן מנקודה קבועה שווה למרחקן מישר קבוע נקרא פרבולה.
הנקודה הקבועה נקראת מוקד הפרבולה והישר הקבוע נקרא מדריך הפרבולה.

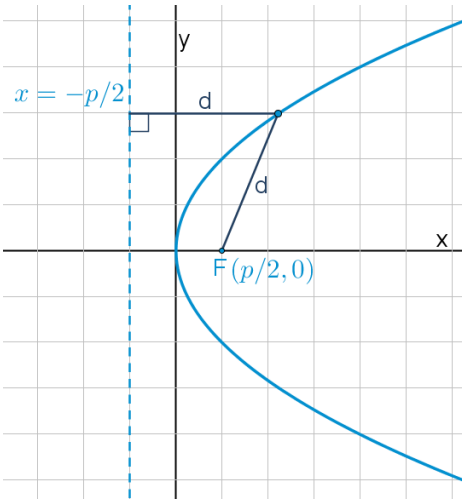

מושגים בפרבולה:

- מוקד: נקודה קבועה שמרחק כל נקודה על הפרבולה ממנה שווה למרחק הנקודה מהמדריך.
- מדריך: ישר קבוע שמרחק כל נקודה על הפרבולה אליו שווה למרחק הנקודה מהמוקד.
- קדקוד הפרבולה: ראשית הצירים.
- רדיוס: מרחק בין המוקד לנקודה שעל הפרבולה: $r=x+\frac{p}{2}$.
- מיתר: קטע המחבר בין שתי נקודות על הפרבולה.
- קוטר (לא בחומר): ישר המקביל לציר הסימטריה של הפרבולה (ציר ה- x אצלנו).

משוואת הפרבולה:

משוואת הפרבולה הקנונית היא: $y^2=2px$ כאשר p הוא פרמטר הפרבולה.

משיק לפרבולה:

- משוואת המשיק לפרבולה $y^2=2px$ בנקודה $A(x_0,y_0)$ שעליה היא: $yy_0=p(x+x_0)$.
- שיפוע המשיק לפרבולה $y^2=2px$ בנקודה $A(x_0,y_0)$ שעליה הוא: $m=\frac{p}{y_0}$.

מיתר המחבר שתי נקודות השקה:

משוואת המיתר, המחבר את שתי נקודות ההשקה של שני המשיקים לפרבולה $y^2=2px$ היוצאים מהנקודה $A(x_0,y_0)$ שמחוץ לפרבולה היא: $yy_0=p(x+x_0)$.

תיאורים גרפיים:

פרבולה שמשוואתה $y^2=2px$:

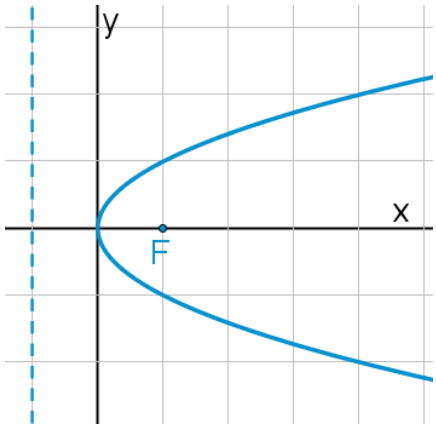

פרבולה שמשוואתה $y^2=-2px$:

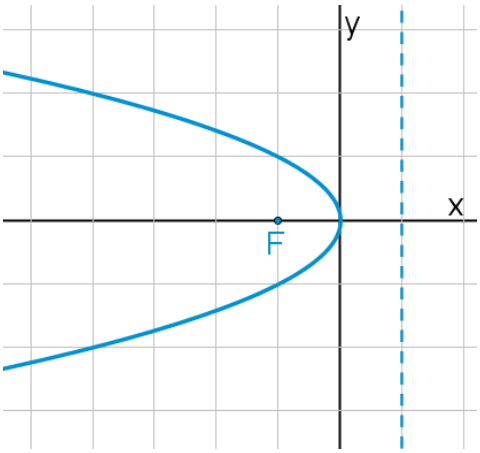

שאלות:

1) נתונה הפרבולה $y^2=18x$. מצא מהו הפרמטר, המוקד והמדריך שלה.

2) מצא את משוואתה של פרבולה שהישר $x=-3$ הוא המדריך שלה.

3) מצא את משוואתה של פרבולה שהמרחק בין המוקד שלה למדריך שלה הוא 5.

4) מצא את משוואתה של פרבולה שעוברת בנקודה $(9,-6)$.

5) מצא את משוואתה של פרבולה שמוקדה מתלכד עם המוקד הימני של האליפסה $x^2+2y^2=18$.

6) מצא נקודות על הפרבולה $y^2=6x$ שמרחקן מהמוקד הוא 4.

7) מצא נקודות על הפרבולה $y^2=8x$ שמרחקן מהמוקד שווה למרחקן מהקדקוד.

8) מצא נקודות על הפרבולה $y^2=2px$ שמרחקן מהמוקד שווה למרחקן מהקדקוד.

9) מצא את שטחו של משולש שווה צלעות שקדקוד אחד שלו נמצא בראשית הצירים ושני קדקודיו האחרים מונחים על הפרבולה $y^2=10x$.

10) הבע באמצעות p את שטחו של משולש שווה צלעות שקדקוד אחד שלו נמצא בראשית הצירים ושני קדקודיו האחרים מונחים על הפרבולה $y^2=2px$.

11) נתונה הפרבולה $y^2=2px$. הבע באמצעות p את שטחו של משולש שווה צלעות שקדקוד אחד שלו מונח על ציר ה-x, וקודקודיו האחרים מונחים על מדריך הפרבולה אם ידוע שמפגש תיכוני המשולש הוא מוקד הפרבולה.

12) את נקודה A שעל הפרבולה $y^2=20x$ חיברו עם המוקד F וגם העבירו ממנה אנך למדריך. היקף הטרפז, שבסיסיו הם האנך והקטע על ציר ה-x שבין מוקד הפרבולה למדריך שלה, שוק אחת שלו היא AF והשוק השנייה שלו מונחת על המדריך, הוא 27.5. חשב את שטח הטרפז.

13) קצות מיתר בפרבולה $y^2=4x$ הם A ו-B. מצא את שיעורי הנקודה B אם ידוע שהמיתר עובר במוקד הפרבולה ושערך ה-x של נקודה A הוא 4.

14) מצא משוואת מיתר בפרבולה $y^2=16x$, שעובר בראשית הצירים ומרחקו מהמוקד הוא $\frac{8}{\sqrt{5}}$.

15) מצא משוואת מיתר בפרבולה $y^2=2x$, שאמצעו בנקודה $\left(1\frac{1}{4},\frac{1}{2}\right)$.

16) נתונה הפרבולה $y^2=4x$ והישר $y=2x+k$, לאיזה ערך של k הישר משיק לפרבולה?

17) נתונה הפרבולה $y^2=6x$.

א. מצא את משוואות המשיקים לפרבולה בנקודות שבהן $x=1.5$.

ב. הוכח שנקודת החיתוך של הנורמלים בנקודות אלה נמצאת על ציר ה-x .

18) הנקודות A ו-B נמצאות על הפרבולה $y^2=12x$. נתון כי $y_A=4$.
מצא את שיעורי נקודה B אם ידוע שהמשיקים לפרבולה בנקודות הנתונות יוצרים זווית ישרה.

19) נקודה A נמצאת על הפרבולה $y^2=28x$ ברביע הרביעי.
אורך הנורמל לפרבולה מנקודה A עד לציר ה-x הוא $7\sqrt{5}$.
מצא את משוואת הנורמל.

20) מרחק המוקד של הפרבולה $y^2=8x$ ממשיק לה ששיפועו חיובי הוא $\sqrt{8}$.
מצא את משוואת המשיק.

21) נתונה הפרבולה $y^2=2px$. הבע באמצעות p את שיעורי הנקודה שעל הפרבולה ברביע הראשון, שמרחק המשיק בה ממוקד הפרבולה הוא p .

22) נתונות שתי פרבולות: $\text{I. } y^2=6x$, $\text{II. } y^2=12x$
ישר שעובר בראשית הצירים חותך את הפרבולות בנקודות A ו-B.
הראה כי המשיקים בנקודות A ו-B מקבילים.

23) נתונה הפרבולה $y^2=14x$ והנקודה $(-1,-3)$, ממנה יוצאים שני משיקים לפרבולה. מצא את משוואת המיתר המחבר בין נקודות ההשקה.

24) נתונה הפרבולה $y^2=18x$ ונקודה ברביע השלישי, ששיעור ה-x שלה קטן ב-1 משיעור ה-y שלה. מהנקודה יוצאים שני משיקים לפרבולה. המיתר המחבר בין נקודות ההשקה יוצר עם הצירים משולש ששטחו 18.
מצא את משוואת המיתר.

25) מצא את משוואתו של מעגל שמרכזו במוקד הפרבולה $y^2=24x$ והוא משיק למדריך שלה.

26) מצא את משוואתו של מעגל שמרכזו בנקודה $(8,0)$ והוא משיק לפרבולה $y^2=10x$ בשתי נקודות.

27) נתונה הפרבולה $y^2=2px$ ומעגל שמרכזו על ציר ה-x והוא משיק לפרבולה מבפנים בשתי נקודות. הישר המחבר בין נקודות ההשקה יוצר עם המשיקים בנקודות אלה משולש שווה צלעות. הבע באמצעות p את משוואת המעגל.

28) הנקודה $A(2,3)$ נמצאת על פרבולה. מצא את משוואתו של מעגל שמשיק לפרבולה בנקודה A ומשיק לציר ה-y.

29) נתונה הפרבולה $y^2=2px$ שבה $p>4$. הישר $x=2$ חותך את הפרבולה בנקודות A ו-B. הבע באמצעות p את שיעורי קדקוד C של משולש ΔABC שמוקד הפרבולה הוא מפגש האנכים האמצעיים בו, אם ידוע שקדקוד C נמצא על ציר ה-x.

30) אליפסה שמשוואתה $x^2+4y^2=16$ חותכת את הפרבולה $y^2=2px$ בשתי נקודות. המרובע שקדקודיו הם נקודות החיתוך, מרכז האליפסה וקדקודה הימני של האליפסה הוא מעוין. מצא את משוואת הפרבולה.

תשובות סופיות:

1) $p=9$, $F\left(4\frac{1}{2},0\right)$

2) $y^2=12x$

3) $y^2=10x$

4) $y^2=4x$

5) $y^2=12x$

6) $\left(2\frac{1}{2},\sqrt{15}\right)$, $\left(2\frac{1}{2},-\sqrt{15}\right)$

7) $\left(1,\sqrt{8}\right)$, $\left(1,-\sqrt{8}\right)$

8) $\left(\frac{p}{4},\frac{p}{\sqrt{2}}\right)$, $\left(\frac{p}{4},-\frac{p}{\sqrt{2}}\right)$

9) $S_{OAB}=$ יח"ש $300\sqrt{3}$

10) $S_{ABO}=$ יח"ש $12\sqrt{3}p^2$

11) $S_{ABC}=$ יח"ש $3\sqrt{3}p^2$

12) $S_{ABCF}=$ יח"ש $40\frac{5}{8}$

13) $B\left(\frac{1}{4},-1\right)$ או $B\left(\frac{1}{4},1\right)$

14) $y=2x$ או $y=-2x$

15) $y=2x-2$

16) $k=\frac{1}{2}$

17) א. $y=-x-1\frac{1}{2}$, $y=x+1\frac{1}{2}$

18) $B\left(6\frac{3}{4},-9\right)$

19) $y=\frac{1}{2}x-7\frac{7}{8}$

20) $y=x+2$

21) $A\left(\frac{3}{2}p,\sqrt{3}p\right)$

22) הוכחה.

23) $7x+3y-7=0$

24) $y=-9x+18$

25) $(x-6)^2+y^2=144$

26) $(x-8)^2+y^2=55$

27) $\left(x-2\frac{1}{2}p\right)^2+y^2=4p^2$

28) $\left(x-1\frac{1}{4}\right)^2+(y-4)^2=\frac{25}{16}$

29) $C(p+2,0)$

30) $y^2=1\frac{1}{2}x$

מכינה אקדמית במתמטיקה למדעי המחשב 1400004

פרק 18 - גיאומטריה אנליטית - ההיפרבולה

תוכן העניינים

1. הגדרות יסודיות 339
2. הקשר בין הפרמטרים של היפרבולה 340
3. רדיוסים של היפרבולה 341
4. מיתר וקוטר החוצה אותו בהיפרבולה 342
5. אסימפטוטות של היפרבולה 343

הגדרות יסודיות:

סיכום כללי:

הגדרה:

המקום הגיאומטרי של כל הנקודות, שהפרש מרחקיהן משתי נקודות קבועות במישור קבוע, נקרא היפרבולה. הנקודות הקבועות נקראות מוקדי ההיפרבולה.

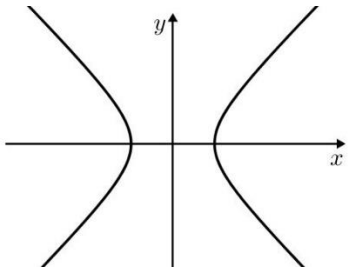

- משוואת היפרבולה קנונית: $\frac{x^2}{a^2}-\frac{y^2}{b^2}=1$.
- היפרבולה שבה $a=b$, נקראת היפרבולה שוות שוקיים.
- הקשר בין הפרמטרים: $c^2=a^2+b^2$.

שאלות:

1) מצא את אורך צירי ההיפרבולה שמשוואתה $x^2-4y^2=36$.

2) מצא את משוואתה של ההיפרבולה שאורך צירה הממשי הוא 18 ואורך צירה המדומה הוא $2\sqrt{3}$.

3) מצא את משוואתה של היפרבולה שאורך צירה הממשי הוא 12 והמרחק בין מוקדיה הוא 20.

תשובות סופיות:

1) אורך הציר הממשי: 12, אורך הציר המדומה: 6.

2) $\frac{x^2}{81}-\frac{y^2}{3}=1$

3) $\frac{x^2}{64}-\frac{y^2}{80}=1$

הקשר בין הפרמטרים של היפרבולה:

שאלות:

4) מצא את משוואתה של היפרבולה שאורך צירה המדומה הוא $8\sqrt{5}$ והיא עוברת בנקודה $\left(-10,3\sqrt{5}\right)$.

5) מצא משוואת היפרבולה שוות שוקיים שהמרחק בין מוקדיה הוא $\sqrt{200}$.

תשובות סופיות:

4) $\frac{x^2}{36}-\frac{y^2}{64}=1$

5) $x^2-y^2=25$

רדיוסים של היפרבולה:

סיכום כללי:

רדיוסים בהיפרבולה	רדיוסים באליפסה
$r_1=\left\lvert\frac{cx}{a}-a\right\rvert$	$r_1=a-\frac{cx}{a}$
$r_2=\left\lvert\frac{cx}{a}+a\right\rvert$	$r_2=a+\frac{cx}{a}$

שאלות:

6) נתונה היפרבולה שמשוואתה: $6x^2-y^2=18$.
מצא על ההיפרבולה את הנקודות שמכפלת מרחקיהן מהמוקדים הוא 25.

7) נתונה היפרבולה שמשוואתה: $7x^2-9y^2=63$.
מצא על ההיפרבולה את הנקודות שסכום ריבועי מרחקיהן מהמוקדים הוא $74\frac{8}{9}$.

8) נתונה היפרבולה שמשוואתה $4x^2-y^2=20$. מצא נקודה על ההיפרבולה ברביע הרביעי שממנה רואים את הקטע שבין המוקדים בזווית ישרה.

9) נתונה היפרבולה שמשוואתה $5x^2-4y^2=80$.
מנקודה A שעל ההיפרבולה ברביע הראשון העבירו ישר מקביל לציר ה-x, החותך את הענף השמאלי של ההיפרבולה בנקודה B. את נקודה A חיברו עם המוקד הימני F_1 של ההיפרבולה ואת הנקודה B חיברו עם המוקד השמאלי של ההיפרבולה F_2. נתון כי היקף הטרפז F_1BAF_2 הוא 29 יחידות אורך.
מצא את שיעורי הנקודה A.

תשובות סופיות:

6) $\left(\pm2,\pm\sqrt{6}\right)$

7) $\left(\pm4,\pm2\frac{1}{3}\right)$

8) $(3,-4)$

9) $\left(5,\frac{\sqrt[3]{5}}{2}\right)$

מיתר וקוטר החוצה אותו בהיפרבולה:

סיכום כללי:

מכפלת שיפועי מיתר וקוטר החוצה אותו בהיפרבולה, היא: $\frac{a^2}{b^2}$.

שאלות:

10) נתונה היפרבולה שמשוואתה $4x^2-3y^2=24$.
מצא את משוואתו של מיתר בהיפרבולה, שהנקודה $(3,4)$ היא אמצעו.

תשובות סופיות:

10) $y=x+1$

אסימפטוטות של היפרבולה:

סיכום כללי:

לכל היפרבולה יש שתי אסימפטוטות משופעות, שענפי ההיפרבולה שואפים אליהן.

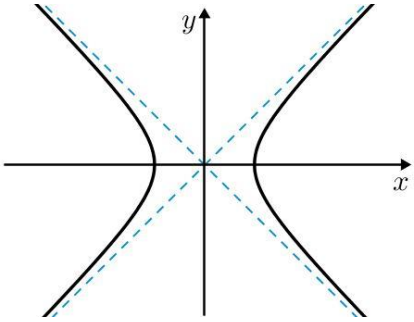

- משוואות האסימפטוטות הן: $y=\frac{b}{a}x$, $y=-\frac{b}{a}x$.

שאלות:

11) מצא את משוואת האסימפטוטות של היפרבולה שמשוואתה $4x^2-y^2=48$.

12) הישר $y=-\frac{3}{4}x$ הוא אסימפטוטה של היפרבולה, שהמרחק בין מוקדיה הוא 20.
מצא את משוואת ההיפרבולה.

13) נתונה היפרבולה שמשוואתה $9x^2-4y^2=k$ ואורך צירה המדומה הוא 6.
מצא נקודה על האסימפטוטה היורדת של ההיפרבולה ברביע הרביעי שממנה רואים את הקטע שבין המוקדים בזווית ישרה.

14) ישר שעובר בנקודה $(-6,8)$ הוא אסימפטוטה של היפרבולה שעוברת בנקודה $(9,-8\sqrt{2})$.

א. מצא את משוואת ההיפרבולה.

ב. מצא את מרחק אחד ממוקדי ההיפרבולה מאחת האסימפטוטות שלה.

15) מוקדיה של היפרבולה שעוברת בנקודה $(4,-1)$ מתלכדים עם מוקדיה של אליפסה שמשוואתה $16x^2+25y^2=400$. מצא נקודה על הענף השמאלי של ההיפרבולה, שמרחקה מהאסיפמטוטה העולה של ההיפרבולה הוא $1\frac{1}{3}$.

תשובות סופיות:

11) $y=2x,\ \ y=-2x$

12) $\frac{x^2}{64}+\frac{y^2}{36}=1$

13) $(2,-3)$

14) א. $\frac{x^2}{9}-\frac{y^2}{16}=1$ ב. $d=4$

15) $\left(-3,\frac{1}{\sqrt{8}}\right)$

מכינה אקדמית במתמטיקה למדעי המחשב 1400004

פרק 19 - גיאומטריה אנליטית - מקומות גיאומטרים והוכחות

תוכן העניינים

1. מקומות גיאומטרים 345
2. שאלות הוכחה 349

מקומות גיאומטרים:

סיכום כללי:

הגדרה:

מקום גאומטרי הוא אוסף נקודות בעלות תכונה מסוימת.

מקום גאומטרי הוא משוואה המקשרת בין x ל- y .

טכניקות מרכזיות במציאת מקומות גיאומטריים:

בשאלות של מקום גאומטרי נפוץ השימוש בדברים הבאים:

- שיפועים:
  i. שיפועי ישרים מקבילים (שווים זה לזה).
  ii. שיפועי ישרים מאונכים (מכפלתם היא 1-).
  iii. שלוש נקודות שעל אותו ישר שומרות על אותו שיפוע.
- משפט פיתגורס.
- אמצע קטע / חלוקת קטע ביחס נתון.
- משיק למעגל – המשיק מאונך לרדיוס – רמז לשימוש במשפט פיתגורס.
- קטע מרכזים:
  i. במעגלים המשיקים מבחוץ – סכום הרדיוסים.
  ii. במעגלים המשיקים מבפנים – הפרש הרדיוסים.
- משפטים מגאומטריה (תאלס, משפט חוצה הזווית, דמיון משולשים)
- אם נתונה משוואה בשאלה – ניתן להשתמש בה על ידי הצבת נקודה שעליה במשוואה.

שאלות:

1) מצא את המקום הגאומטרי של כל הנקודות שמרחקן מהנקודה $A(-7,-6)$ שווה למרחקן מהנקודה $B(9,2)$.

2) מצא את המקום הגאומטרי של כל הנקודות שמרחקן מהנקודה $A(3,-6)$ גדול פי 3 ממרחקן מהנקודה $B(-1,10)$.

3) מצא את המקום הגאומטרי של כל הנקודות שמרחקן מהנקודה $(1,0)$ קטן פי 3 ממרחקן מהישר $x=9$.

4) מצא את המקום הגאומטרי של מרכזי כל המעגלים שעוברים בנקודה $(6,0)$ ומשיקים לישר $x=-6$.

5) נתונים שני ישרים: $\text{I. } 3x+y-6=0$, $\text{II. } 2x+6y-1=0$
מצא את המקום הגאומטרי של כל הנקודות שמרחקן מישר I גדול פי 4 ממרחקן מישר II.

6) מצא את המקום הגאומטרי של מרכזי כל המעגלים שמשיקים לציר ה- y מימין ומשיקים מבפנים למעגל קנוני שרדיוסו 4. מהן ההגבלות?

7) מצא את המקום הגאומטרי של אמצעי כל הקטעים, המחברים את הנקודה $(4,-10)$ עם נקודות על הישר $y=6x+2$.

8) נתון מעגל שמשוואתו $x^2+y^2+12x-16y=0$. מצא את המקום הגאומטרי של אמצעי כל המיתרים במעגל שעוברים בראשית הצירים.

9) נתון מעגל שמשוואתו $x^2+y^2=36$. הכפילו את שיעורי ה- y של כל הנקודות על המעגל ב- $\frac{2}{3}$. מצא את המקום הגאומטרי שמתקבל באופן הזה.

10) נתונות הנקודות $A(2,0)$ ו-$B(10,0)$. מצא את המקום הגאומטרי של מרכזי הכובד של כל המשולשים ABC אם ידוע שהקודקוד C מונח על הישר $y=3x-12$. מהי ההגבלה?

11) נתון המעגל $x^2+y^2+4x-10y+11=0$. מצא את המקום הגאומטרי של כל הנקודות שאורך המשיק מהן למעגל שווה למרחקן מהנקודה $(7,2)$.

12) מצא את המקום הגאומטרי של כל הנקודות שמהן רואים את המעגל $(x-2)^2+(y-1)^2=9$ בזווית של $120°$.

13) מצא את המקום הגאומטרי של כל הנקודות שמהן רואים את המעגל $(x-a)^2+(y-b)^2=R^2$ בזווית של $60°$.

14) נתון מעגל שמרכזו M ומשוואתו $x^2+y^2-12x-64=0$. מנקודה A שעל המעגל העבירו אנך לציר ה-x שחותך את ציר ה-x בנקודה B והמשכו חותך את המעגל בנקודה C. בנקודה B העבירו מקביל לישר AM ובנקודה C העבירו מקביל לציר ה-x. המקביל ל-AM והמקביל לציר ה-x נפגשים בנקודה D. מצא את המקום הגאומטרי של נקודה D. מהן ההגבלות?

15) האליפסה $\frac{x^2}{16}+\frac{y^2}{9}=1$ חותכת את חלקו החיובי של ציר ה-x בנקודה A ואת חלקו החיובי של ציר ה-y בנקודה B. מנקודה C שעל ציר ה-x בין O ל-A (O ראשית הצירים) העלו אנך לציר ה-x שחותך את הישר AB בנקודה D.
מצא את המקום הגאומטרי של נקודת מפגש הישרים BC ו-OD.

16) נתון מעגל קנוני שרדיוסו 3. מנקודה A שעל המעגל הורידו אנך לציר ה-x שחותך את ציר ה-x בנקודה C. נסמן ב-B את אמצע הקטע AC.
מנקודה C העבירו מקביל ל-AO (O ראשית הצירים).
מצא את המקום הגאומטרי של מפגש הישרים BO והמקביל ל-AO.

17) נתונות הנקודות $A(4,0)$ ו-$B(-2,0)$. מצא את המקום הגאומטרי של כל הנקודות C כך שהקטע CO (O ראשית הצירים) הוא חוצה זווית $\sphericalangle C$ במשולש ΔABC.

18) נתון מעגל קנוני שרדיוסו R . את נקודה A שעל המעגל חיברו עם ראשית הצירים ועל הקטע AO (O ראשית הצירים) סימנו נקודה B כך שמתקיים $AB : BO = a : b$ מנקודה A העבירו אנך לציר ה- x ומנקודה B העבירו אנך לציר ה- y .

א. מצא את המקום הגאומטרי של מפגש האנכים הללו.

ב. המקום הגאומטרי שמצאת בסעיף א' חותך את ציר ה- y בנקודות P ו-Q. מצא את אורך הקטע PQ.

תשובות סופיות:

1) $y=-2x$

2) $\left(x+1\frac{1}{2}\right)^2+(y-12)^2=38\frac{1}{4}$

3) $\frac{x^2}{9}+\frac{y^2}{8}=1$

4) $y^2=24x$

5) $x+11y+4=0\ ,\ 7x+13y-8=0$

6) $y^2=16-8x\ ,\ -4<x\ ,\ y<4$

7) $y=6x-16$

8) $(x+3)^2+(y-4)^2=25$

9) $\frac{x^2}{36}+\frac{y^2}{16}=1$

10) $y=3x-16\ ,\ x\neq 5\frac{1}{3}$

11) $y=3x-7$

12) $(x-2)^2+(y-1)^2=12$

13) $(x-a)^2+(y-b)^2=4R^2$

14) $x=6\ ,\ -10<y<10$

15) $3x+8y-12=0\ ,\ 0<y<3\ ,\ 0<x<4$

16) $\frac{x^2}{36}+\frac{y^2}{9}=1$

17) $(x+4)^2+y^2=16$

18) א. $b^2x^2+(a+b)^2y^2=R^2b^2$ ב. $PQ=\frac{2bR}{a+b}$

שאלות הוכחה:

שאלות:

1) הנקודה P נמצאת על המעגל $x^2+y^2=R^2$. בנקודה P מעבירים משיק למעגל שחותך את הישרים $x=R$ ו- $x=-R$ בנקודות A ו-B. הוכח: $y_A \cdot y_B = R^2$.

2) הנקודה P נמצאת על המעגל $x^2+y^2=R^2$, שחותך את ציר ה- y בנקודות $A(0,R)$ ו-$B(0,-R)$. בנקודה P מעבירים משיק למעגל שחותך את הישר $y=R$ בנקודה T. הוכח: $OT \parallel BP$.

3) הנקודה P נמצאת על האליפסה $b^2x^2+a^2y^2=a^2b^2$, ש-F_1 ו-F_2 הם מוקדיה. הוכח: $PO^2+PF_1\cdot PF_2=a^2+b^2$ (O ראשית הצירים).

4) הנקודה P נמצאת על האליפסה $b^2x^2+a^2y^2=a^2b^2$, שקודקודה הימני הוא A וקדקודה השמאלי הוא B. הישר AP חותך את הישר $x=-a$ בנקודה K והישר BP חותך את הישר $x=a$ בנקודה L. הוכח: $y_K \cdot y_L = 4b^2$.

5) הנקודה P נמצאת על האליפסה $b^2x^2+a^2y^2=a^2b^2$.
הוכח: היחס בין ריבוע אורך האנך, היורד מנקודה P לציר הגדול, ובין מכפלת שני קטעי הציר הגדול שמשני צידי האנך הוא גודל קבוע.

6) הנקודה P נמצאת על האליפסה $b^2x^2+a^2y^2=a^2b^2$, שקודקודה הימני הוא A, קדקודה השמאלי הוא B ומוקדה הימני הוא F_1. הישר AP חותך את הישר $x=\frac{a^2}{c}$ בנקודה M והישר BP חותך את הישר $x=\frac{a^2}{c}$ בנקודה N.
הוכח: $\sphericalangle MF_1N = 90°$.

7) נתונה האליפסה $b^2x^2+a^2y^2=a^2b^2$.
הוכח כי מכפלת שיפועי מיתר וקוטר החוצה אותו היא $-\frac{b^2}{a^2}$.

8) בפרבולה $y^2 = 2px$ מעבירים נורמל.
הוכח כי היטלו של הנורמל על ציר ה-x הוא גודל קבוע.

9) בפרבולה $y^2 = 2px$ מעבירים משיקים משתי נקודות שעליה, A ו-B.
המשיקים נפגשים בנקודה C. הוכח: $y_A + y_B = 2y_C$.

10) בנקודה A, שעל הפרבולה $y^2 = 2px$ מעבירים משיק לפרבולה שחותך את המדריך שלה בנקודה B. ממוקד הפרבולה מעלים אנך לציר ה-x שחותך את המשיק בנקודה C. הוכח: $FB = FC$ (F - מוקד הפרבולה).

11) בפרבולה $y^2 = 2px$ מעבירים מיתר, החותך את הפרבולה בנקודות A ו-B.
המיתר חותך את ציר ה-x בנקודה C. הוכח: $x_A \cdot x_B = (x_C)^2$.