חדוא של טורים והתמרות

תוכן העניינים

1. אינטגרלים לא אמיתיים 1
2. טורים עם איברים קבועים 12
3. סדרות פונקציות, טורי פונקציות וטורי חזקות 26
4. טורי טיילור - מקלורן 35
5. התמרת פורייה 38
6. טורי פורייה 58
7. מרחבי מכפלה פנימית ומרחבים נורמיים 77
8. נושאים מתקדמים - הצגה פרמטרית של פונקציה 92
9. נושאים מתקדמים - הצגה פולרית של פונקציה 97

חדוא של טורים והתמרות

פרק 1 - אינטגרלים לא אמיתיים

תוכן העניינים

1. אינטגרל לא אמיתי מסוג ראשון 1
2. אינטגרל לא אמיתי מסוג שני 3
3. אינטגרל לא אמיתי מסוג שלישי 4
4. שימושים של אינטגרלים לא אמיתיים 5
5. מבחני השוואה 6
6. התכנסות בהחלט 8
7. מבחן דיריכלה 9
8. התכנסות בתנאי 10

אינטגרל לא אמיתי מסוג ראשון

שאלות

חשבו את האינטגרלים בשאלות **1-5**:

1) $\int_1^\infty \frac{xdx}{\left(1+x^2\right)^2}$

2) $\int_1^\infty \frac{dx}{(1+x)\sqrt{x}}$

3) $\int_1^\infty xe^{-x^2}dx$

4) $\int_1^\infty \frac{x}{x^2+5}dx$

5) $\int_1^\infty x^2e^{-2x}dx$

6) הוכיחו כי $\int_0^\pi \frac{1}{1+\alpha\cos x}dx=\frac{\pi}{\sqrt{1-\alpha^2}}$, עבור $|\alpha|<1$.

7) הוכיחו כי $\int_0^\pi \frac{1}{\alpha-\cos x}dx=\frac{\pi}{\sqrt{\alpha^2-1}}$, עבור $|\alpha|>1$.

כתב ופתר – גיא סלומון ©

תשובות סופיות

1) $\frac{1}{4}$

2) $\frac{\pi}{2}$

3) $\frac{1}{2e}$

4) מתבדר: ∞.

5) $\frac{5}{4e^2}$

6) שאלת הוכחה.

7) שאלת הוכחה.

כתב ופתר – גיא סלומון ©

אינטגרל לא אמיתי מסוג שני

שאלות

חשבו את האינטגרלים הבאים:

1) $\int_0^1 \sin\frac{1}{x}\cdot\frac{dx}{x^2}$

2) $\int_0^1 \frac{dx}{x\sqrt{x^2+1}}$

תשובות סופיות

1) מתבדר: ∞.

2) מתבדר: ∞.

כתב ופתר – גיא סלומון ©

אינטגרל לא אמיתי מסוג שלישי

שאלה

1) חשבו את האינטגרל $\int_{-\infty}^{\infty} \frac{1}{x^2} dx$.

תשובה

1) מתבדר: ∞.

כתב ופתר – גיא סלומון ©

שימושים של אינטגרלים לא אמיתיים

שאלות

1) חשבו את השטח בין גרף הפונקציה $y=e^{2x}$, הישר $x=1$ וציר ה- x , עבור $x\le 1$.

2) חשבו את השטח בין גרף הפונקציה $y=\frac{1}{\sqrt{x}}$, ציר ה- y , ציר ה- x והישר $x=5$.

3) נתונה הפונקציה $f\left(x\right)=\frac{x^2}{e^{x^3}}$.
ידוע כי השטח הכלוא בין גרף הפונקציה לבין ציר ה- x , בתחום $0\le x\le k$, שווה לשטח הכלוא בין גרף הפונקציה לבין ציר ה- x , בתחום $x\ge k$.
מצאו את הקבוע k .

תשובות סופיות

1) $\frac{1}{2}e^2$

2) $2\sqrt{5}$

3) $k=\sqrt[3]{\ln 2}$

כתב ופתר – גיא סלומון ©

מבחני השוואה

שאלות

בדקו את התכנסות או התבדרות האינטגרלים הבאים:

1) $\int_1^\infty \frac{x^2+2x+1}{x^4+4x^2+5}dx$

2) $\int_1^\infty \frac{x^2+2x+1}{x^3+4x^2+5}dx$

3) $\int_1^\infty \frac{\arctan x}{1+x^4}dx$

4) $\int_3^\infty \frac{\sin x\cdot\ln x}{x^2\sqrt{x^2-4}}dx$

5) $\int_1^\infty \left(\sqrt{x^2+1}-x\right)dx$

6) $\int_2^\infty \frac{\sqrt{x^3+1}}{x}dx$

7) $\int_0^\infty \frac{1}{1+x^4}dx$

8) $\int_{-\infty}^2 \frac{e^{3x}}{1+x^2}dx$

9) $\int_1^\infty \frac{\ln x}{1+x}dx$

10) $\int_0^\infty \frac{1-\cos x}{x^2}dx$

11) $\int_0^\infty \frac{\sin x}{x}dx$

12) $\int_0^\infty \frac{\ln(1+x)}{\sqrt{x}\left(\sqrt{1+x}-1\right)}dx$

13) $\int_0^\infty \frac{1-\cos x}{\sqrt{x}\left(\sqrt{1+x^2}-1\right)}dx$

14) $\int_0^\infty \frac{1-\cos x}{\sqrt{x}\left(\sqrt{1+x}-1\right)}dx$

15) $\int_0^\infty \frac{\ln\left(1+x^2\right)}{x^2\left(x+\sqrt{x}\right)}$

16) $\int_1^\infty \frac{\sqrt{x^2+x-2}}{\sqrt[4]{(x-1)^5}\sqrt{(1+x)^5}}dx$

כתב ופתר – גיא סלומון ©

תשובות סופיות

1) מתכנס.
2) מתבדר.
3) מתכנס.
4) מתכנס.
5) מתבדר.
6) מתבדר.
7) מתכנס.
8) מתכנס.
9) מתבדר.
10) מתכנס.
11) מתכנס.
12) מתבדר.
13) מתכנס.
14) מתבדר.
15) מתכנס.
16) מתכנס.

כתב ופתר – גיא סלומון ©

התכנסות בהחלט

שאלות

בשאלות **1-3** בדקו האם האינטגרלים מתכנסים:

1) $\int_0^\infty \frac{\cos 2x}{x^2+1}dx$

2) $\int_0^\infty e^{-10x}\sin 4x dx$

3) $\int_0^1 \sin\left(\frac{1}{x}\right)dx$

4) הוכיחו: אם $\int_a^\infty |f(x)|dx$ מתכנס, אז $\int_a^\infty f(x)dx$ מתכנס.

תשובות סופיות

1) מתכנס.

2) מתכנס.

3) מתכנס.

4) שאלת הוכחה.

כתב ופתר – גיא סלומון ©

מבחן דיריכלה

שאלות

הוכיחו כי האינטגרלים הבאים מתכנסים:

1) $\int_1^\infty \frac{(\ln x)^p \cos x}{x} dx$

2) א. $\int_1^\infty \frac{\sin x}{x^p} dx \quad (p>0)$

ב. $\int_1^\infty \sin(x^2) dx$

3) $\int_1^\infty \frac{e^{\sin x} \sin x \cos x}{x^p} dx \quad (p>0)$

לתשובות מלאות בסרטוני וידאו היכנסו לאתר www.GooL.co.il

כתב ופתר – גיא סלומון ©

התכנסות בתנאי

שאלות

קבעו האם האינטגרלים הבאים מתכנסים בהחלט, בתנאי או מתבדרים:

1) א. $\int_0^1 \frac{\sin x}{x^p}dx \quad (p>1)$

ב. $\int_1^\infty \frac{\sin x}{x^p}dx \quad (p>1)$

ג. $\int_0^\infty \frac{\sin x}{x^p}dx \quad (p>1)$

2) א. $\int_0^1 \frac{\sin x}{x^p}dx \quad (0<p\le 1)$

ב. $\int_1^\infty \frac{\sin x}{x^p}dx \quad (0<p\le 1)$

ג. $\int_0^\infty \frac{\sin x}{x^p}dx \quad (0<p\le 1)$

3) א. $\int_0^\infty \frac{\sin x}{x^p}dx$

ב. $\int_0^\infty \frac{\sin\left(x^4\right)}{x^p}dx$

4) $\int_2^\infty \frac{\sin 4x}{\sqrt{x}-1}dx$

5) $\int_0^{\pi/2} \frac{x\sin\left(\tan x\right)}{\cos x}dx$

כתב ופתר – גיא סלומון ©

תשובות סופיות

1) א. מתכנס בהחלט עבור $1 < p < 2$ ומתבדר עבור $p \geq 2$.

ב. מתכנס בהחלט.

ג. מתכנס בהחלט עבור $1 < p < 2$ ומתבדר עבור $p \geq 2$.

2) א. מתכנס בהחלט. ב. מתכנס בתנאי. ג. מתכנס בתנאי.

3) א. מתכנס בתנאי עבור $0 < p \leq 1$, מתכנס בהחלט עבור $1 < p < 2$,

מתבדר עבור $p \geq 2$.

ב. מתכנס בתנאי עבור $-3 < p \leq 1$, מתכנס בהחלט עבור $1 < p < 5$,

מתבדר עבור $p \geq 5$.

4) מתכנס בתנאי.

5) מתכנס בתנאי.

לפתרון מלא בסרטוני וידאו היכנסו לאתר www.GooL.co.il
כתב ופתר – גיא סלומון ©

חדוא של טורים והתמרות

פרק 2 - טורים עם איברים קבועים

תוכן העניינים

1. טורים מתכנסים וטורים מתבדרים 12
2. מבחן ההתבדרות של טורים 15
3. מבחני התכנסות לטורים חיוביים 16
4. מבחני התכנסות לטורים כלליים 18
5. התכנסות בהחלט והתכנסות בתנאי 20
6. תרגילי תיאוריה 21

טורים מתכנסים וטורים מתבדרים

שאלות

טור גיאומטרי

בדקו את התכנסות הטורים בשאלות **1-6**.
במידה והטור מתכנס, מצאו את סכומו.

1) $\sum_{n=1}^{\infty}(0.44)^n$

2) $\sum_{n=0}^{\infty}\frac{4^n}{7^{n+1}}$

3) $\sum_{n=1}^{\infty}(-1)^n\frac{5^n}{4^{n+2}}$

4) $\sum_{n=0}^{\infty}(-4)\left(\frac{3}{4}\right)^{2n}$

5) $\sum_{n=1}^{\infty}\frac{4^n+(-5)^n}{7^n}$

6) $\sum_{n=1}^{\infty}\frac{2^{3n}}{3^{2n}}$

טור טלסקופי

בדקו את התכנסות הטורים בשאלות **7-11**.
במידה והטור מתכנס, מצאו את סכומו.

7) $\sum_{n=1}^{\infty}\frac{1}{(n+1)(n+2)}$

8) $\sum_{n=1}^{\infty}\frac{1}{(4n+3)(4n-1)}$

9) $\sum_{n=1}^{\infty}\ln\left(1+\frac{1}{n}\right)$

10) $\sum_{n=2}^{\infty}\frac{\ln\left(1+\frac{1}{n}\right)}{(\ln n)(\ln(n+1))}$

11) $\sum_{n=0}^{\infty}\frac{1}{(n+2)(n+3)(n+4)}$

טור הרמוני מוכלל

12) בדקו את התכנסות הטורים הבאים (קבעו אם הטור מתכנס או מתבדר):

א. $\sum_{n=1}^{\infty}\frac{1}{n^4}$

ב. $\sum_{n=1}^{\infty}\frac{1}{\sqrt{n}}$

ג. $\sum_{n=1}^{\infty}\frac{3}{5n}$

ד. $\sum_{n=1}^{\infty}n^{-2/3}$

ה. $\sum_{n=1}^{\infty}\frac{10}{\sqrt[3]{n^4}}$

ו. $\sum_{n=1}^{\infty}\frac{1}{n^e}$

לפתרון מלא בסרטוני וידאו היכנסו לאתר www.GooL.co.il
כתב ופתר – גיא סלומון ©

תכונות אלגבריות של טורים

13) בדקו את התכנסות הטורים הבאים (קבעו אם הטור מתכנס או מתבדר):

א. $\sum_{n=0}^{\infty}\left(\frac{4^n}{7^{n+1}}+n^{-1.5}\right)$ ב. $\sum_{n=1}^{\infty}\frac{4n+1}{n^2}$ ג. $\sum_{n=1}^{\infty}\frac{10+\sqrt{n}}{\sqrt{n}}$

14) חשבו את סכום הטור $\sum_{n=1}^{\infty}\frac{n+1}{n(n+2)^2}$, אם ידוע כי $\sum_{n=1}^{\infty}\frac{1}{n^2}=\frac{\pi^2}{6}$.

15) מצאו את השבר הרציונלי, שהצגתו העשרונית היא $0.123123123...+0.141414...$.

כתב ופתר – גיא סלומון ©

תשובות סופיות

1) מתכנס ל- $\frac{11}{14}$.
2) מתכנס ל- $\frac{1}{3}$.
3) מתבדר.
4) מתכנס ל- $-\frac{64}{7}$.
5) מתכנס ל- $\frac{11}{12}$.
6) מתכנס ל- 8.
7) מתכנס ל- $\frac{1}{2}$.
8) מתכנס ל- $\frac{1}{12}$.
9) מתבדר.
10) $S=\frac{1}{\ln 2}$
11) $\frac{1}{12}$
12) א. מתכנס. ב. מתבדר. ג. מתבדר.
ד. מתבדר. ה. מתכנס. ו. מתכנס.
13) א. מתכנס. ב. מתבדר. ג. מתבדר.
14) $\frac{\pi^2}{6}-\frac{5}{4}$
15) $\frac{323}{1221}$

לפתרון מלא בסרטוני וידאו היכנסו לאתר www.GooL.co.il
כתב ופתר – גיא סלומון ©

מבחן ההתבדרות של טורים

שאלות

1) בדקו את התכנסות הטורים הבאים (קבעו אם הטור מתכנס או מתבדר):

א. $\sum_{n=1}^{\infty} \ln n$ ב. $\sum_{n=1}^{\infty} (-1)^n$ ג. $\sum_{n=1}^{\infty} \sin n$

ד. $\sum_{n=1}^{\infty} \frac{n^2+n+1}{n^2+2}$ ה. $\sum_{n=1}^{\infty} \arctan n$ ו. $\sum_{n=1}^{\infty} \left(\frac{1+n}{n}\right)^n$

תשובות סופיות

1) א-ו: מתבדר.

לפתרון מלא בסרטוני וידאו היכנסו לאתר www.GooL.co.il
כתב ופתר – גיא סלומון ©

מבחני התכנסות לטורים חיוביים

שאלות

מבחן האינטגרל

בדקו את התכנסות הטורים בשאלות **1-5** (קבעו אם הטור מתכנס או מתבדר):

1) $\sum_{n=1}^{\infty}\frac{2n}{n^2+1}$ **2)** $\sum_{n=1}^{\infty}\frac{1}{\sqrt{n+5}}$ **3)** $\sum_{n=1}^{\infty}\frac{\arctan n}{n^2+1}$

4) $\sum_{n=2}^{\infty}\frac{1}{n(\ln n)^p}\ (p>1)$ **5)** $\sum_{n=2}^{\infty}\frac{1}{n(\ln n)^p}\ (p\le 1)$

6) ענו על הסעיפים הבאים:

א. בדקו את התכנסות הטור $\sum_{n=1}^{\infty}n^2e^{-n^3}$.

ב. מצאו את הגבול $\lim_{n\to\infty}n^2e^{-n^3}$.

מבחן ההשוואה ומבחן ההשוואה הגבולי

בדקו את התכנסות הטורים בשאלות **7-15** (קבעו אם הטור מתכנס או מתבדר):

7) $\sum_{n=1}^{\infty}\frac{1}{4n^2+10n+1}$ **8)** $\sum_{n=1}^{\infty}\frac{n(n+1)}{(n+2)(n+3)(n+4)}$ **9)** $\sum_{n=1}^{\infty}\frac{n^2+4n+1}{\sqrt{n^{10}+n+1}}$

10) $\sum_{n=1}^{\infty}\frac{4n+5}{\sqrt{n^4+n+1}}$ **11)** $\sum_{n=1}^{\infty}\frac{2^n-2}{3^n+2n}$ **12)** $\sum_{n=1}^{\infty}\frac{5\sin^2 n}{n!}$

13) $\sum_{n=1}^{\infty}\left(\sqrt{n^2+1}-n\right)$ **14)** $\sum_{n=1}^{\infty}\left(1-\cos\frac{1}{n}\right)$ **15)** $\sum_{n=1}^{\infty}\frac{\sqrt{n}\ln n}{n^2+1}$

לפתרון מלא בסרטוני וידאו היכנסו לאתר www.GooL.co.il
כתב ופתר – גיא סלומון ©

מבחן המנה, מבחן השורש ומבחן רַאבֶּה

בדקו את התכנסות הטורים הבאים (קבעו אם הטור מתכנס או מתבדר):

16) $\sum_{n=1}^{\infty}\frac{(2n)!}{(n!)^2}$

17) $\sum_{n=1}^{\infty}\frac{1\cdot3\cdot5\cdot\ldots\cdot(2n+1)}{2\cdot5\cdot8\cdot\ldots\cdot(3n+2)}$

18) $\sum_{n=1}^{\infty}\frac{(2n)!}{n!(2n)^n}$

19) $\sum_{n=1}^{\infty}\frac{(n+3)!}{n!\cdot3^n}$

20) $\sum_{n=1}^{\infty}\frac{(n!)^3}{(3n)!}$

21) $\sum_{n=1}^{\infty}n^{1000}e^{-n}$

22) $\sum_{n=1}^{\infty}\frac{n!}{n^n}$

23) $\sum_{n=1}^{\infty}\frac{3^n(1+n^2)}{n!}$

24) $\sum_{n=1}^{\infty}\frac{n^2}{2^n}$

25) $\sum\frac{1\cdot3\cdot5\cdot\ldots\cdot(2n-1)}{2\cdot4\cdot6\cdot\ldots\cdot(2n)}$

26) $\sum\frac{(2n)!}{4^n(n!)^2}$

תשובות סופיות

1) מתבדר.
2) מתבדר.
3) מתכנס.
4) מתכנס.
5) מתבדר.
6) א. מתכנס. ב. 0
7) מתכנס.
8) מתבדר.
9) מתכנס.
10) מתבדר.
11) מתכנס.
12) מתכנס.
13) מתבדר.
14) מתכנס.
15) מתכנס.
16) מתבדר.
17) מתכנס.
18) מתכנס.
19) מתכנס.
20) מתכנס.
21) מתכנס.
22) מתכנס.
23) מתכנס.
24) מתכנס.
25) מתבדר.
26) מתבדר.

כתב ופתר – גיא סלומון ©

מבחני התכנסות לטורים כלליים

מבחן לייבניץ

בדקו את התכנסות הטורים בשאלות **1-3**:

1) $\sum_{n=1}^{\infty}(-1)^n\frac{1}{4n+1}$ **2)** $\sum_{n=3}^{\infty}(-1)^{n+1}\frac{\ln n}{n}$ **3)** $\sum_{n=1}^{\infty}(-1)^{n+1}\frac{n+1}{n^2+n}$

מבחן דיריכלה

בשאלות **4** ו-**5**, קבעו אם הטור מתכנס או מתבדר:

4) $1+\frac{1}{4}-\frac{2}{7}+\frac{1}{10}+\frac{1}{13}-\frac{2}{16}+\ldots$

5) $\sum\frac{\sin n\cdot\sin n^2}{n+1}$

6) הוכיחו שהטורים $\sum\cos n\theta,\ \sum\sin n\theta$, כאשר $\theta\neq 2\pi k$, חסומים.

7) הוכיחו את התכנסות הטורים הבאים:
$\sum\frac{\sin n\theta}{\sqrt{n+4}},\quad \sum\frac{\cos n\theta}{n+1},\quad \sum\frac{\sin n\theta}{n}\ (\theta\neq 2\pi k)$.

8) בדקו התכנסות הטור $\sum\frac{\sin^2 n}{n}$.

9) הוכיחו שאם הסדרה b_n יורדת ושואפת לאפס, אז הטור $\sum b_n\sin n$ מתכנס.

10) ענו על שני הסעיפים הבאים:

א. הוכיחו שהטור $\sum_{n=1}^{\infty}(3-n)(\bmod 7)$ הוא טור חסום.

ב. בדקו את התכנסות הטור $\sum_{n=1}^{\infty}\frac{(3-n)(\bmod 7)}{\sqrt{n+1}}$.

לפתרון מלא בסרטוני וידאו היכנסו לאתר www.GooL.co.il
כתב ופתר – גיא סלומון ©

מבחן אבל

קבעו האם הטור מתכנס או מתבדר:

11) $\sum \frac{(-1)^{n+1}}{\sqrt{n+4}}\left(\frac{n+1}{n}\right)^n$

12) $\sum \frac{(-1)^n n}{4^n - 4^{2n}}$

13) $\sum \frac{(-1)^n \ln\left(1+n^{-1}\right)}{n}$

14) $\sum \frac{\frac{\pi}{2} - \arctan n}{n^2}$

תשובות סופיות

1) מתכנס. **2)** מתכנס. **3)** מתכנס.

4) מתכנס. **5)** מתכנס. **6)** הוכחה.

7) הוכחה. **8)** מתבדר. **9)** הוכחה.

10) א. הוכחה. ב. מתכנס. **11)** מתכנס.

12) מתכנס. **13)** מתכנס. **14)** מתכנס.

לפתרון מלא בסרטוני וידאו היכנסו לאתר www.GooL.co.il
כתב ופתר – גיא סלומון ©

התכנסות בהחלט והתכנסות בתנאי

שאלות

בשאלות הבאות, קבעו אם הטור מתכנס בהחלט, מתכנס בתנאי או מתבדר:

1) $\sum_{n=1}^{\infty}\frac{(-4)^n}{n^2}$

2) $\sum_{n=1}^{\infty}\frac{(-1)^n}{n^2}$

3) $\sum_{n=1}^{\infty}\frac{\cos n\pi}{n}$

4) $\sum_{n=2}^{\infty}\frac{(-1)^{n+1}\ln n}{n}$

5) $\sum_{n=1}^{\infty}\frac{\sin n}{n^3}$

6) $\sum_{n=2}^{\infty}\left(-\frac{1}{\ln n}\right)^n$

7) $\sum_{n=1}^{\infty}\frac{(-1)^n}{\sqrt{n(n+1)}}$

8) $\sum_{n=1}^{\infty}(-1)^n\frac{1+n\ln n}{n^2}$

9) $\sum_{n=1}^{\infty}(-1)^{n+1}\frac{n+1}{n^2+n}$

תשובות סופיות

1) מתבדר.
2) מתכנס בהחלט.
3) מתכנס בתנאי.
4) מתכנס בתנאי.
5) מתכנס בהחלט.
6) מתכנס בהחלט.
7) מתכנס בתנאי.
8) מתכנס בתנאי.
9) מתכנס בתנאי.

לפתרון מלא בסרטוני וידאו היכנסו לאתר www.GooL.co.il
כתב ופתר – גיא סלומון ©

תרגילי תיאוריה

1) להלן טענות. אם הטענה נכונה, הוכיחו אותה. אם לא, הביאו דוגמה נגדית.

א. אם $\sum a_n$ מתכנס ו- $\sum b_n$ מתבדר, אז $\sum(a_n+b_n)$ מתבדר.

ב. אם $\sum a_n$ מתבדר ו- $\sum b_n$ מתבדר, אז $\sum(a_n+b_n)$ מתבדר.

2) להלן טענות. אם הטענה נכונה, הוכיחו אותה. אם לא, הביאו דוגמה נגדית.

א. אם $\sum a_n^2$ מתכנס, אז $\sum a_n$ מתכנס בהחלט.

ב. אם $\sum a_n$ חיובי ומתכנס, אז $\sum \frac{1}{a_n}$ מתבדר.

ג. אם $\sum a_n$ מתכנס, אז $\sum a_n^2$ מתכנס.

3) הוכיחו: אם $\sum_{n=1}^{\infty} a_n$ מתכנס, אז $\sum_{n=1}^{\infty}\left(a_n+(-1)^n\right)$ מתבדר.

4) הוכיחו: אם $\sum_{n=1}^{\infty} a_n$ חיובי ומתכנס, אז גם $\sum_{n=1}^{\infty} a_n^2$ מתכנס.

5) נתון טור חיובי ומתכנס $\sum a_n$.

הוכיחו כי $\sum\left(1-\frac{\sin(a_n)}{a_n}\right)$ מתכנס.

6) א. נתון טור חיובי $\sum a_n$.

הוכיחו כי $\sum \frac{a_1+a_2+\ldots+a_n}{n}$ מתבדר.

ב. נתון טור מתכנס $\sum a_n$.

הוכיחו ש- $\sum |a_n|$ מתבדר אם $\sum a_n^2$ מתבדר.

הערה: אין קשר בין הסעיפים

7) תהי (a_n) סדרה חיובית השואפת לאינסוף.

הוכיחו כי $\sum \frac{1}{(a_n)^n}$ מתכנס.

כתב ופתר – גיא סלומון ©

8) $\sum a_n$ הוא טור אי-שלילי ומתכנס.

הוכיחו כי $\sum \frac{a_n+4^n}{a_n+10^n}$ מתכנס.

9) הוכיחו או הפריכו:

אם הסדרה $(a_n)_{n\geq 1}$ מקיימת $0\leq a_n\leq \frac{1}{n}$ לכל n, אז $\sum_{n=1}^{\infty}(-1)^n a_n$ מתכנס.

10) נניח כי $a_n\geq 0$.

הוכיחו כי $\sum_{n=1}^{\infty} a_n$ מתכנס $\Leftrightarrow$ $\sum_{n=1}^{\infty}\frac{a_n}{1+a_n}$ מתכנס.

11) הוכיחו או הפריכו:

אם $\sum_{n=1}^{\infty} a_n$ מתכנס והסדרה b_n חסומה, אז $\sum_{n=1}^{\infty} a_n b_n$ מתכנס.

12) הוכיחו: אם $\sum_{n=1}^{\infty} a_n$ מתכנס בתנאי, אז $\sum_{n=1}^{\infty} n^2 a_n$ מתבדר.

13) הוכיחו או הפריכו:

אם $\sum_{n=1}^{\infty} a_n$ מתכנס בתנאי ואם $\lim_{n\to\infty}\frac{a_n}{b_n}=1$, אז $\sum b_n$ מתכנס בתנאי.

14) נתון טור חיובי $\sum a_n$.

הוכיחו או הפריכו:

א. אם מתקיים $\frac{a_{n+1}}{a_n}<1$ לכל n, אז הטור מתכנס.

ב. אם מתקיים $\frac{a_{n+1}}{a_n}>1$ לכל n, אז הטור מתבדר.

15) נתון טור חיובי ומתכנס $\sum a_n$.

הוכיחו כי $\sum \sqrt{a_n a_{n+1}}$ מתכנס.

כתב ופתר – גיא סלומון ©

16) נתונים שני טורים חיוביים $\sum a_n, \sum b_n$.

א. נתון שהטורים $\sum a_n^2, \sum b_n^2$ מתכנסים.

1. הוכיחו כי $\sum a_n b_n$ מתכנס.

2. הוכיחו כי $\sum (a_n + b_n)^2$ מתכנס.

ב. נתון טור חיובי ומתכנס $\sum a_n$.

הוכיחו כי $\sum \frac{\sqrt{a_n}}{n}$ מתכנס.

17) הוכיחו:

א. אם $\sum_{n=1}^{\infty} a_n$ חיובי ואם $\lim_{n\to\infty}(na_n) = k \neq 0$, אז הטור מתבדר.

ב. אם $\sum_{n=1}^{\infty} a_n$ חיובי ואם $\sum (na_n - k)$ מתכנס (כאשר $k \neq 0$),

אז $\sum_{n=1}^{\infty} a_n$ מתבדר.

18) הוכיחו כי אם $\sum_{n=1}^{\infty} a_n$ חיובי ואם $\lim_{n\to\infty}(n^2 a_n) = k$, אז הטור מתכנס.

19) נתון $a_n \geq 0$ לכל n.

א. נתון כי $\lim_{n\to\infty} n^3 a_n^2 = k > 0$.

הוכיחו כי $\sum \frac{a_n}{\sqrt{n}}$ מתכנס.

ב. נתון כי $\sum (n^3 a_n^2 - k)$ מתכנס (כאשר $k > 0$).

הוכיחו כי $\sum \frac{a_n}{\sqrt{n}}$ מתכנס.

20) הסדרה (a_n) מוגדרת על ידי $a_{n+2} = \frac{a_n + a_{n+1}}{2}$, $a_2 = -\frac{1}{2}$, $a_1 = \frac{21}{20}$, כאשר $(n \geq 1)$.

האם $\sum_{n=1}^{\infty} a_n$ מתכנס?

כתב ופתר – גיא סלומון ©

21) הטור $\sum_{n=1}^{\infty} a_n$ מוגדר כך: $a_n = \begin{cases} \frac{1}{n} & n = k^2 \\ \frac{1}{n^2} & n \neq k^2 \end{cases}$.

הוכיחו כי הטור מתכנס.

22) נתון טור חיובי ומתכנס $\sum a_n$,

ונתון כי לכל n מתקיים $a_{n+1} \le a_n$.

הוכיחו כי $\sum n(a_n - a_{n+1})$ מתכנס.

23) נתון $\forall n \ge 1:\ 0 < a_n < 1\ ,\ 4a_n(1-a_{n+1}) > 1$.

האם $\sum_{n=1}^{\infty}\left(a_n^2 - 1\right)$ מתכנס?

24) נניח כי (a_n) סדרה המקיימת $a_n > 0\ ,\ a_n \le a_{2n} + a_{2n+1}$ לכל n טבעי.

הוכיחו כי $\sum a_n$ מתבדר.

25) (a_n) היא סדרה חשבונית שכל איבריה שונים מאפס.

הוכיחו כי $\sum_{n=1}^{\infty} \frac{1}{a_n}$ מתבדר.

26) נתון טור חיובי $\sum a_n$.

הוכיחו או הפריכו:

א. אם הטור מתכנס לפי מבחן השורש, אז הטור מתכנס גם לפי מבחן המנה.

ב. אם הטור מתכנס לפי מבחן המנה, אז הטור מתכנס גם לפי מבחן השורש.

27) ענו על הסעיפים הבאים:

א. הוכיחו כי הסדרה a_n מתכנסת אם ורק אם $\sum_{n=2}^{\infty}\left(a_n - a_{n-1}\right)$ מתכנס.

ב. בדקו האם הסדרה $a_n = \frac{1}{\sqrt{1}} + \frac{1}{\sqrt{2}} + \frac{1}{\sqrt{3}} + \ldots + \frac{1}{\sqrt{n}} - 2\sqrt{n}$ מתכנסת.

ג. בדקו האם הסדרה $a_n = \frac{1}{1} + \frac{1}{2} + \frac{1}{3} + \ldots + \frac{1}{n} - \ln n$ מתכנסת.

הערה: סעיף ג' מיועד רק למי שלמדו את הנושא **טורי מקלורן עם שארית לגראנז'**.

כתב ופתר – גיא סלומון ©

28) פונקציה f מוגדרת לכל x, גזירה ב- 0 ומקיימת $f(0)=0$.
הוכיחו כי אם $\sum a_n$ מתכנס בהחלט, אז $\sum f(a_n)$ מתכנס בהחלט.

29) נתון $p(x)$ פולינום.
$\sum a_n$ מתכנס בהחלט.
הוכיחו כי $\sum P(a_n)$ מתכנס $\Leftrightarrow$ $p(0)=0$.

30) יהיו $\sum_{n=1}^{\infty} a_n$, $\sum_{n=1}^{\infty} b_n$ טורים חיוביים.
נתון כי:
(1) הטור $\sum_{n=1}^{\infty} b_n$ מתכנס.(2) $\frac{a_{n+1}}{a_n} \le \frac{b_{n+1}}{b_n}$ לכל n טבעי.
הוכיחו כי הטור $\sum_{n=1}^{\infty} a_n$ מתכנס.

פתרונות לכל שאלות התיאוריה תוכלו למצוא באתר: GooL.co.il

כתב ופתר – גיא סלומון ©

חדוא של טורים והתמרות

פרק 3 - סדרות פונקציות, טורי פונקציות וטורי חזקות

תוכן העניינים

1. סדרות פונקציות 26
2. טורי פונקציות 29
3. טורי חזקות 31
4. גזירה ואינטגרציה של טורי חזקות 33

סדרות פונקציות

שאלות

עבור כל אחת מסדרות הפונקציות שבשאלות **1-11**:

א. בדקו התכנסות נקודתית של סדרת הפונקציות.

במידה והסדרה מתכנסת מצאו את הפונקציה הגבולית.

ב. בדקו התכנסות במידה שווה של סדרת הפונקציות.

1) $f_n(x)=x^n$ ב- $[0,0.5]$.

2) $f_n(x)=x^n$ ב- $(0,1)$.

3) $f_n(x)=\arctan(nx)$ ב- $(0,\infty)$.

4) $f_n(x)=\dfrac{1}{1+nx}$ ב- $[0,1]$.

5) $f_n(x)=\dfrac{nx}{1+n^2x^2}$ ב- $[0,1]$.

6) $f_n(x)=\dfrac{x^n}{1+x^n}$ ב- $[0.5,4]$.

7) $f_n(x)=\dfrac{1}{x^2+n}$ ב- $\mathbb{R}$.

8) $f_n(x)=\sqrt{x^2+\dfrac{1}{n}}$ ב- $\mathbb{R}$.

9) $f_n(x)=\dfrac{\sin nx}{1+x^2+n^2}$ ב- $\mathbb{R}$.

10) $f_n(x)=n(1-x)x^n$ ב- $[0,1]$.

11) $f_n(x)=\begin{cases}0 & 0\le x\le 1-\dfrac{1}{n}\\ n(x-1)+1 & 1-\dfrac{1}{n}\le x\le 1\end{cases}$ ב- $[0,1]$.

לפתרון מלא בסרטוני וידאו היכנסו לאתר www.GooL.co.il
כתב ופתר – גיא סלומון ©

12) נתונה סדרת הפונקציות $f_n(x)=\begin{cases}1 & x\in[n,n+1]\\ 0 & \text{else}\end{cases}$.

א. האם $f_n(x)$ מתכנסת נקודתית ב- $[0,4]$?

ב. האם $f_n(x)$ מתכנסת במידה שווה ב- $[0,4]$?

ג. האם $f_n(x)$ מתכנסת נקודתית על הישר הממשי?

ד. האם $f_n(x)$ מתכנסת במידה שווה על הישר הממשי?

13) נתונה סדרת הפונקציות $f_n(x)=nxe^{-n^2x^2}$.

א. האם הסדרה מתכנסת נקודתית בקטע $[0,\infty)$?

ב. האם הסדרה מתכנסת במ"ש בקטע $[0,\infty)$?

ג. האם הסדרה מתכנסת במ"ש בקטע $[1,\infty)$?

14) נתונה $f_n(x)=\begin{cases}1 & x\in\left[n,n+\frac{1}{n}\right]\\ 0 & \text{else}\end{cases}$.

א. האם $f_n(x)$ מתכנסת נקודתית על הישר הממשי?

ב. האם $f_n(x)$ מתכנסת במידה שווה על הישר הממשי?

15) נגדיר את סדרת הפונקציות $f_n(x)=[1-\chi_n(x)]\left(x+\frac{1}{n}\right)^{-1}+n^{\alpha}\cdot\chi_n(x)$,

כאשר $\chi_n(x)=\begin{cases}1 & x\in\left(n-\frac{1}{n^2},n+\frac{1}{n^2}\right)\\ 0 & else\end{cases}$.

א. מהם ערכי הפרמטר α, עבורם סדרת הפונקציות $f_n(x)$ מתכנסת נקודתית ב- $[1,\infty)$?
אם הסדרה מתכנסת נקודתית, מהי הפונקציה הגבולית?

ב. מהם ערכי הפרמטר α, עבורם סדרת הפונקציות $f_n(x)$ מתכנסת במידה שווה ב- $[1,\infty)$?

כתב ופתר – גיא סלומון ©

תשובות סופיות

1) א. מתכנסת נקודתית לפונקציה $f(x)=0$. ב. מתכנסת במידה שווה.

2) א. מתכנסת נקודתית לפונקציה $f(x)=0$. ב. אינה מתכנסת במידה שווה.

3) א. מתכנסת נקודתית לפונקציה $f(x)=\frac{\pi}{2}$. ב. אינה מתכנסת במידה שווה.

4) א. מתכנסת נקודתית לפונקציה $f(x)=\begin{cases}1 & x=0\\ 0 & 0<x\le 1\end{cases}$. ב. לא במידה שווה.

5) א. מתכנסת נקודתית לפונקציה $f(x)=0$. ב. אינה מתכנסת במידה שווה.

6) א. מתכנסת נקודתית לפונקציה $f(x)=\begin{cases}0 & 0.5\le x<1\\ \frac{1}{2} & x=1\\ 1 & 1<x\le 4\end{cases}$. ב. לא במידה שווה.

7) א. מתכנסת נקודתית לפונקציה $f(x)=0$. ב. מתכנסת במידה שווה.

8) א. מתכנסת נקודתית לפונקציה $f(x)=\sqrt{x^2}$. ב. מתכנסת במידה שווה.

9) א. מתכנסת נקודתית לפונקציה $f(x)=0$. ב. מתכנסת במידה שווה.

10) א. מתכנסת נקודתית לפונקציה $f(x)=0$. ב. אינה מתכנסת במידה שווה.

11) א. מתכנסת נקודתית לפונקציה $f(x)=\begin{cases}0 & 0\le x<1\\ 1 & x=1\end{cases}$. ב. לא במידה שווה.

12) א. מתכנסת נקודתית לפונקציה $f(x)=0$. ב. מתכנסת במידה שווה.

ג. מתכנסת נקודתית לפונקציה $f(x)=0$. ד. אינה מתכנסת במידה שווה.

13) א. מתכנסת נקודתית לפונקציה $f(x)=0$. ב. לא במידה שווה. ג. כן.

14) א. מתכנסת נקודתית לפונקציה $f(x)=0$. ב. אינה מתכנסת במידה שווה.

15) א. לכל ערך של α ממשי יש התכנסות נקודתית בתחום $[1,\infty)$, לפונקציה $\frac{1}{x}$.

ב. רק אם $\alpha<0$.

כתב ופתר – גיא סלומון ©

טורי פונקציות

שאלות

מצאו את תחום ההתכנסות של הטורים בשאלות **1-6**:

1) $\sum_{n=1}^{\infty}\frac{1}{4n+1}\left(\frac{1-x}{1+x}\right)^n$

2) $\sum_{n=1}^{\infty}\frac{2^n}{n!(x-5)^n}$

3) $\sum_{n=1}^{\infty}\frac{(-1)^{n+1}}{(n+1)10^n(x-4)^n}$

4) $\sum_{n=1}^{\infty}\frac{1}{n\cdot\left[\ln(nx)\right]^4}$

5) $\sum_{n=1}^{\infty}\frac{(-1)^n}{n^x}$

6) $\sum_{n=1}^{\infty}\frac{1}{(x+n)(x+n-1)}$

בדקו התכנסות במידה שווה של הטורים הבאים, בתחום המופיע לידם:

7) $\sum_{n=1}^{\infty}\frac{\cos nx}{n^2}$ $\quad(-\infty<x<\infty)$

8) $\sum_{n=1}^{\infty}\frac{x^n}{n^{\frac{3}{2}}}$ $\quad(-1\le x\le 1)$

9) $\sum_{n=1}^{\infty}\frac{1}{n\sqrt{n}+x^2}$ $\quad(-\infty<x<\infty)$

10) $\sum_{n=1}^{\infty}\frac{n+1}{\sqrt{n!}}\left(x^n+x^{-n}\right)$ $\quad\left(\frac{1}{4}\le x\le 4\right)$

11) $\sum_{n=2}^{\infty}\ln\left(1+\frac{x^2}{n\ln^2 n}\right)$ $\quad(-a\le x\le a)$

12) $\sum_{n=1}^{\infty}\frac{n^2x}{1+n^7x^2}$ $\quad(-\infty<x<\infty)$

לפתרון מלא בסרטוני וידאו היכנסו לאתר www.GooL.co.il
כתב ופתר – גיא סלומון ©

תשובות סופיות

1) $x > 0$
2) $x \neq 5$
3) $x < 3\frac{9}{10}$ or $4\frac{1}{10}$
4) $0 < x \neq \frac{1}{n}$
5) $x > 0$
6) $x \neq 0, -1, -2, -3, \ldots$
7) מתכנס במידה שווה.
8) מתכנס במידה שווה.
9) מתכנס במידה שווה.
10) מתכנס במידה שווה.
11) מתכנס במידה שווה.
12) מתכנס במידה שווה.

לפתרון מלא בסרטוני וידאו היכנסו לאתר www.GooL.co.il
כתב ופתר – גיא סלומון ©

טורי חזקות

שאלות

מצאו את רדיוס ההתכנסות ואת תחום ההתכנסות של הטורים בשאלות **1-12**:

1) $\sum_{n=1}^{\infty}\frac{x^n}{n+1}$ **2)** $\sum_{n=1}^{\infty}\frac{(-1)^n x^n}{n!}$ **3)** $\sum_{n=1}^{\infty}\frac{5^n}{n^2}x^n$

4) $\sum_{n=1}^{\infty}x^n\sin^2\frac{1}{n}$ **5)** $\sum_{n=1}^{\infty}(-1)^{n-1}\frac{(x+2)^n}{\sqrt{n}}$ **6)** $\sum_{n=1}^{\infty}\frac{(n+1)^5}{(2n+1)}x^{2n}$

7) $\sum_{n=0}^{\infty}\frac{n!}{3^n}(x-1)^n$ **8)** $\sum_{n=1}^{\infty}\frac{1\cdot3\cdot5\cdot\ldots\cdot(2n-1)}{(2n-2)!}x^n$ **9)** $\sum_{n=1}^{\infty}(-1)^{n+1}\frac{(x+1)^n}{n\cdot4^n}$

10) $\sum_{n=1}^{\infty}\left(\frac{3}{4}\right)^n(x+5)^n$ **11)** $\sum_{n=1}^{\infty}\frac{(x-1)^{2n}}{n^4\cdot100^n}$ **12)** $\sum_{n=1}^{\infty}\frac{(x+5)^{2n+1}}{n\cdot2^{2n+1}}$

מצאו את הפיתוח לטור חזקות של הפונקציות הבאות, וקבעו את תחום ההתכנסות:

13) $f(x)=\frac{1}{1+x}$ **14)** $f(x)=\frac{3}{1-x^4}$ **15)** $f(x)=\frac{1}{1+9x^2}$

16) $f(x)=\frac{1}{x-5}$ **17)** $f(x)=\frac{x}{4x+1}$ **18)** $f(x)=\frac{x}{9+x^2}$

19) $f(x)=\frac{3}{x^2+x-2}$ **20)** $f(x)=\frac{7x-1}{3x^2+2x-1}$

<u>הערות חשובות</u>

1. פיתוח לטור חזקות של פונקציות נוספות תמצאו בפרק 3 שאלה 1.
2. לפתרון תרגילים 19 ו-20, יש להכיר את הנושא 'פירוק לשברים חלקיים'.

כתב ופתר – גיא סלומון ©

תשובות סופיות

1) $-1 \le x < 1\ ,\ R = 1$

2) $-\infty < x < \infty\ ,\ R = \infty$

3) $-0.2 \le x \le 0.2\ ,\ R = 0.2$

4) $-1 \le x \le 1\ ,\ R = 1$

5) $-3 < x \le -1\ ,\ R = 1$

6) $-1 < x < 1\ ,\ R = 1$

7) $x = 1\ ,\ R = 0$

8) $-\infty < x < \infty\ ,\ R = \infty$

9) $-5 < x \le 3\ ,\ R = 4$

10) $-\frac{19}{3} < x < -\frac{11}{3}\ ,\ R = 4/3$

11) $-9 \le x \le 11\ ,\ R = 10$

12) $-7 < x < -3\ ,\ R = 2$

13) $(|x|<1)\ \sum_{n=0}^{\infty}(-1)^n x^n$

14) $(|x|<1)\ \sum_{n=0}^{\infty}3x^{4n}$

15) $(|x|<\frac{1}{3})\ \sum_{n=0}^{\infty}(-1)^n 9^n x^{2n}$

16) $(|x|<5)\ \sum_{n=0}^{\infty}\frac{-1}{5^{n+1}}x^n$

17) $(|x|<\frac{1}{4})\ \sum_{n=0}^{\infty}(-1)^n 4^n x^{n+1}$

18) $(|x|<3)\ \sum_{n=0}^{\infty}(-1)^n \frac{x^{2n+1}}{9^{n+1}}$

19) $(|x|<1)\ \sum_{n=0}^{\infty}\left(\frac{(-1)^{n+1}}{2^{n+1}}-1\right)x^n$

20) $(|x|<\frac{1}{3})\ \sum_{n=0}^{\infty}\left(2(-1)^n-3^n\right)x^n$

כתב ופתר – גיא סלומון ©

גזירה ואינטגרציה של טורי חזקות

שאלות

פתחו לטור חזקות את הפונקציות בשאלות **1-7**:

1) $f(x)=\frac{1}{(1+x)^2}$

2) $f(x)=\ln(1+x)$

3) $f(x)=\ln(1-x)$

4) $f(x)=\ln\frac{1+x}{1-x}$

5) $f(x)=\ln(5-x)$

6) $f(x)=\frac{x^2}{(1-2x)^2}$

7) $f(x)=\arctan\left(\frac{x}{3}\right)$

8) חשבו את סכום הטור $\sum_{n=1}^{\infty}\frac{n^2}{4^n}$.

9) חשבו את סכום הטור $\sum_{n=1}^{\infty}\left(n^2+n\right)x^{n-1}$.

10) ענו על הסעיפים הבאים:

א. חשבו את סכום הטור $\sum_{n=1}^{\infty}\frac{x^{2n-1}}{2n-1}$.

ב. מהו סכום הטור $\sum_{n=1}^{\infty}\frac{1}{4^n(2n-1)}$?

לפתרון מלא בסרטוני וידאו היכנסו לאתר www.GooL.co.il
כתב ופתר – גיא סלומון ©

11) ענו על הסעיפים הבאים:

א. חשבו את סכום הטור $\sum_{n=1}^{\infty}\frac{x^{4n-3}}{4n-3}$.

ב. חשבו את סכום הטור $\sum_{n=1}^{\infty}\frac{1}{4^{2n}(4n-3)}$.

12) חשבו את סכום הטור $\sum_{n=1}^{\infty}\frac{1}{10^{4n}(4n-1)}$.

13) חשבו את סכום הטור $\sum_{n=1}^{\infty}(-1)^{n-1}\frac{x^{2n-1}}{2n-1}$.

תשובות סופיות

1) $\sum_{n=1}^{\infty}(-1)^{n+1}\cdot n\cdot x^{n-1}$ $(|x|<1)$

2) $\sum_{n=0}^{\infty}\frac{(-1)^n x^{n+1}}{n+1}$ $(-1<x\le 1)$

3) $\sum_{n=0}^{\infty}-\frac{x^{n+1}}{n+1}$ $(-1\le x<1)$

4) $\sum_{n=0}^{\infty}\frac{2x^{2n+1}}{2n+1}$ $(|x|<1)$

5) $\ln 5-\sum_{n=0}^{\infty}\frac{x^{n+1}}{5^{n+1}(n+1)}$ $(-5\le x<5)$

6) $\sum_{n=0}^{\infty}2^n(n+1)x^{n+2}$ $(|x|<\frac{1}{2})$

7) $\sum_{n=0}^{\infty}(-1)^n\frac{x^{2n+1}}{3^{2n+1}(2n+1)}$ $(|x|\le 3)$

8) $\frac{20}{27}$

9) $\frac{2}{(1-x)^3}$ $|x|<1$

10) א. $|x|<1$ $\frac{1}{2}\ln\left|\frac{x+1}{x-1}\right|$ ב. $\frac{1}{4}\ln 3$

11) א. $|x|<1$ $\frac{1}{4}\ln\left|\frac{1+x}{1-x}\right|+\frac{1}{2}\arctan x$ ב. $\frac{1}{8}\left(\frac{1}{4}\ln 3+\frac{1}{2}\arctan\frac{1}{2}\right)$

12) $\frac{1}{10}\left(\frac{1}{4}\ln\frac{11}{9}-\frac{1}{2}\arctan\frac{1}{10}\right)$

13) $|x|\le 1$ $\arctan x$

לפתרון מלא בסרטוני וידאו היכנסו לאתר www.GooL.co.il
כתב ופתר – גיא סלומון ©

חדוא של טורים והתמרות

פרק 4 - טורי טיילור - מקלורן

תוכן העניינים

1. טור טיילור וטור מקלורן 35
2. נוסחאות – טורי מקלורן של פונקציות חשובות 37

טור טיילור וטור מקלורן

שאלות

בשאלות **1-24** מצאו את הפיתוח לטור טיילור סביב $x=0$ (טור מקלורן) :

1) $f(x)=\sin 2x$ **2)** $f(x)=x^2e^{-4x}$ **3)** $f(x)=\sinh x$

4) $f(x)=\sin^2 x$ **5)** $f(x)=\cos^2 x$ **6)** $f(x)=2^x$

7) $f(x)=x\cos(4x^2)$ **8)** $f(x)=\ln(2-3x+x^2)$ **9)** $f(x)=\arcsin x$

10) $f(x)=\dfrac{1}{1+x}$ **11)** $f(x)=\dfrac{3}{1-x^4}$ **12)** $f(x)=\dfrac{1}{1+9x^2}$

13) $f(x)=\dfrac{1}{x-5}$ **14)** $f(x)=\dfrac{x}{4x+1}$ **15)** $f(x)=\dfrac{x}{9+x^2}$

16) $f(x)=\dfrac{3}{x^2+x-2}$ **17)** $f(x)=\dfrac{7x-1}{3x^2+2x-1}$ **18)** $f(x)=\dfrac{1}{(1+x)^2}$

19) $f(x)=\ln(1+x)$ **20)** $f(x)=\ln(1-x)$ **21)** $f(x)=\ln\dfrac{1+x}{1-x}$

22) $f(x)=\ln(5-x)$ **23)** $f(x)=\dfrac{x^2}{(1-2x)^2}$ **24)** $f(x)=\arctan\left(\dfrac{x}{3}\right)$

הערות : לפתרון שאלות **15** ו-**16**, יש להכיר את הנושא פירוק לשברים חלקיים.
לפתרון סעיפים **18**, **19**, **23** ו-**24** יש להכיר את הנושא גזירה ואינטגרציה של טורי מקלורן.
אפשר להיעזר בפיתוחים הידועים לטור מקלורן המופיעים בנספח.

בשאלות **25-27** מצאו את ארבעת האיברים הראשונים, השונים מאפס,
בפיתוח לטור מקלורן של הפונקציות (נדרש ידע בכפל וחילוק של פולינומים) :

25) $f(x)=e^{-x^2}\cos x$ **26)** $f(x)=\tan x$ **27)** $f(x)=\dfrac{\sin x}{e^x}$

לפתרון מלא בסרטוני וידאו היכנסו לאתר www.GooL.co.il
כתב ופתר – גיא סלומון ©

תשובות סופיות

1) $\sum_{n=0}^{\infty}(-1)^n\frac{2^{2n+1}x^{2n+1}}{(2n+1)!}$ $(-\infty<x<\infty)$

2) $\sum_{n=0}^{\infty}(-1)^n\frac{4^n x^{n+2}}{n!}$ $(-\infty<x<\infty)$

3) $\sum_{n=0}^{\infty}\frac{x^{2n+1}}{(2n+1)!}$ $(-\infty<x<\infty)$

4) $\sum_{n=1}^{\infty}(-1)^{n+1}\frac{2^{2n-1}x^{2n}}{(2n)!}$ $(-\infty<x<\infty)$

5) $\frac{1}{2}+\sum_{n=0}^{\infty}(-1)^n\frac{2^{2n-1}x^{2n}}{(2n)!}$ $(-\infty<x<\infty)$

6) $\sum_{n=0}^{\infty}\frac{(\ln 2)^n x^n}{n!}$ $(-\infty<x<\infty)$

7) $\sum_{n=0}^{\infty}(-1)^n\frac{4^{2n}x^{4n+1}}{(2n)!}$ $(-\infty<x<\infty)$

8) $\ln 2-\sum_{n=0}^{\infty}\left(1+\frac{1}{2^{n+1}}\right)\frac{x^{n+1}}{n+1}$ $(-1\le x<1)$

9) $x+\sum_{n=1}^{\infty}\frac{1\cdot 3\cdot\ldots\cdot(2n-1)}{2\cdot 4\cdot\ldots\cdot 2n}\cdot\frac{x^{2n+1}}{2n+1}$ $(-1<x<1)$

10) $\sum_{n=0}^{\infty}(-1)^n x^n$ $(|x|<1)$

11) $\sum_{n=0}^{\infty}3x^{4n}$ $(|x|<1)$

12) $\sum_{n=0}^{\infty}(-1)^n 9^n x^{2n}$ $(|x|<\frac{1}{3})$

13) $\sum_{n=0}^{\infty}\frac{-1}{5^{n+1}}x^n$ $(|x|<5)$

14) $\sum_{n=0}^{\infty}(-1)^n 4^n x^{n+1}$ $(|x|<\frac{1}{4})$

15) $\sum_{n=0}^{\infty}(-1)^n\frac{x^{2n+1}}{9^{n+1}}$ $(|x|<3)$

16) $\sum_{n=0}^{\infty}\left(\frac{(-1)^{n+1}}{2^{n+1}}-1\right)x^n$ $(|x|<1)$

17) $\sum_{n=0}^{\infty}\left(2(-1)^n-3^n\right)x^n$ $(|x|<\frac{1}{3})$

18) $\sum_{n=1}^{\infty}(-1)^{n+1}\cdot n\cdot x^{n-1}$ $(|x|<1)$

19) $\sum_{n=0}^{\infty}\frac{(-1)^n x^{n+1}}{n+1}$ $(-1<x\le 1)$

20) $\sum_{n=0}^{\infty}-\frac{x^{n+1}}{n+1}$ $(-1\le x<1)$

21) $\sum_{n=0}^{\infty}\frac{2x^{2n+1}}{2n+1}$ $(|x|<1)$

22) $\ln 5-\sum_{n=0}^{\infty}\frac{x^{n+1}}{5^{n+1}(n+1)}$ $(-5\le x<5)$

23) $\sum_{n=0}^{\infty}2^n(n+1)x^{n+2}$ $(|x|<\frac{1}{2})$

24) $\sum_{n=0}^{\infty}(-1)^n\frac{x^{2n+1}}{3^{2n+1}(2n+1)}$ $(|x|\le 3)$

25) $1-\frac{3}{2}x^2+\frac{25}{24}x^4-\frac{331}{720}x^6+..$

26) $x+\frac{x^3}{3}+\frac{2x^5}{15}+\frac{17x^7}{315}+\ldots$

27) $x-x^2+\frac{1}{3}x^3-\frac{1}{30}x^5+..$

כתב ופתר – גיא סלומון ©

נוסחאות – טורי מקלורן של פונקציות חשובות

טור מקלורן	תחום התכנסות
$e^x=\sum_{n=0}^{\infty}\frac{x^n}{n!}=1+\frac{x^1}{1!}+\frac{x^2}{2!}+\frac{x^3}{3!}+\dots$	$-\infty<x<\infty$
$\sin x=\sum_{n=0}^{\infty}(-1)^n\frac{x^{2n+1}}{(2n+1)!}=x-\frac{x^3}{3!}+\frac{x^5}{5!}-\frac{x^7}{7!}+\dots$	$-\infty<x<\infty$
$\cos x=\sum_{n=0}^{\infty}(-1)^n\frac{x^{2n}}{(2n)!}=1-\frac{x^2}{2!}+\frac{x^4}{4!}-\frac{x^6}{6!}+\dots$	$-\infty<x<\infty$
$\ln(1+x)=\sum_{n=0}^{\infty}(-1)^n\frac{x^{n+1}}{n+1}=x-\frac{x^2}{2}+\frac{x^3}{3}-\frac{x^4}{4}+\dots$	$-1<x\le 1$
$\arctan x=\sum_{n=0}^{\infty}(-1)^n\frac{x^{2n+1}}{2n+1}=x-\frac{x^3}{3}+\frac{x^5}{5}-\frac{x^7}{7}+\dots$	$-1\le x\le 1$
$\frac{1}{1-x}=\sum_{n=0}^{\infty}x^n=1+x^1+x^2+x^3+\dots$	$-1<x<1$
$(1+x)^m=1+\sum_{n=1}^{\infty}\frac{m(m-1)\cdot\ldots\cdot(m-n+1)}{n!}x^n$ $=1+mx+\frac{m(m-1)}{2!}x^2+\frac{m(m-1)(m-2)}{3!}x^3+\dots$	$-1\le x\le 1\ (m>0)$ $-1<x\le 1\ (-1<m<0)$ $-1<x<1\ (m\le -1)$ $m\ne 0,1,2,3,\dots$

כתב ופתר – גיא סלומון ©

חדוא של טורים והתמרות

פרק 5 - התמרת פורייה

תוכן העניינים

1. מבוא כללי 38
2. נוסחת כיווץ והזזה 40
3. נוסחת הנגזרת 42
4. נוסחאות כפל באקספוננט ומודולציה 43
5. נוסחת המומנט 45
6. נוסחת ההתמרה ההפוכה 47
7. נוסחת התמרה כפולה ..... (ללא ספר)
8. משפט פלנשראל 48
9. משפט הקונבולוציה 49
10. תרגילים מסכמים 53

מבוא כללי:

שאלות:

1) חשבו את התמרת פוריה של $\chi_{[-1,1]}(x)=\begin{cases}1 & x\in[-1,1]\\ 0 & else\end{cases}$.

2) מצאו התמרת פוריה עבור $f(x)=\begin{cases}1-|x| & |x|<1\\ 0 & else\end{cases}$.

3) מצאו התמרת פוריה עבור $f(x)=\begin{cases}e^{-x} & x>0\\ 0 & else\end{cases}$.

4) מצאו התמרת פוריה עבור $f(x)=\begin{cases}1 & |x|\le 1\\ 2 & 1<|x|<2\\ 0 & else\end{cases}$.

5) הוכיחו כי התמרת פוריה של $f(x)=\begin{cases}e^{-ax} & x>0\\ e^{bx} & x\le 0\end{cases}$ כאשר $a,b>0$ קבועים הינה $f(\omega)=\frac{1}{2\pi}\left[\frac{1}{b-i\omega}+\frac{1}{a+i\omega}\right]$.

6) מצאו התמרת פוריה של $f(x)=\begin{cases}1 & 0<x<1\\ 0 & else\end{cases}$.

7) מצאו התמרת פוריה עבור $f(x)=\begin{cases}1 & 0\le x<1\\ 2 & 1\le x<2\\ 0 & else\end{cases}$.

8) מצאו התמרת פוריה עבור $f(x)=\begin{cases}e^{-x} & 0\le x<1\\ 0 & else\end{cases}$.

9) הוכיחו התמרת פוריה של $f(x)=\begin{cases}e^{2ix} & -1<x<1\\ 0 & else\end{cases}$ הינה $f(\omega)=\frac{1}{\pi}\frac{\sin[2-\omega]}{2-\omega}$.

10) מצאו התמרת פוריה של $f(x)=\begin{cases}\sin(x) & -1<x<1\\ 0 & else\end{cases}$.

11) חשבו את התמרת פוריה של $f(x)=\begin{cases}x & |x|<a\\ 0 & else\end{cases}$ עבור $a>0$.

12) האם קיימת $f\in L^1_{PC}(\mathbb{R})$ כך ש- $f(\omega)=\begin{cases}1-|\omega| & |\omega|\le\frac{1}{2}\\ 0 & |\omega|>\frac{1}{2}\end{cases}$.

תשובות סופיות:

1) $\frac{\sin(\omega)}{\pi\omega}$

2) $f(\omega)=\frac{1-\cos(\omega)}{\pi\omega^2}$

3) $f(\omega)=\frac{1}{2\pi(1+i\omega)}$

4) $f(\omega)=\frac{2\sin(2\omega)-\sin(\omega)}{\pi\omega}$

5) הוכחה.

6) $f(\omega)=\frac{1}{2\pi}\frac{\sin(\omega)+i[\cos(\omega)-1]}{\omega}$

7) $f(\omega)=\frac{1}{2\pi}\frac{1+e^{-i\omega}-2e^{-i2\omega}}{i\omega}$

8) $f(\omega)=\frac{1}{2\pi}\frac{e^{(1-i\omega)}-1}{1-i\omega}$

9) הוכחה.

10) $f(\omega)=-i\cdot\frac{1}{2\pi}\left\{\frac{\sin([1-\omega])}{1\quad\omega}-\frac{\sin([1+\omega])}{1\,|\,\omega}\right\}$

11) $f(\omega)=-\frac{1}{\pi}i\frac{\sin(\omega a)-\omega a\cos(\omega a)}{\omega^2}$

12) לא. אינה רציפה בנקודות $\omega=\pm\frac{1}{2}$.

נוסחת כיווץ והזזה:

שאלות:

1) מצאו התמרת פורייה של $\chi_{[-r,r]}(x)=\begin{cases}1 & x\in[-r,r]\\ 0 & else\end{cases}$ כאשר $r>0$.

2) מצאו התמרת פורייה של $f(x)=e^{-4x^2-4x-1}$ על ידי שימוש בעובדה

כי $F\left\{e^{-x^2}\right\}=\frac{1}{2\sqrt{\pi}}e^{-\frac{\omega^2}{4}}$.

3) נתונה פונקציה $g(x)\in G(R)$ בעלת התמרת פוריה $g(\omega)$.

מצאו פונקציה $f(x)$ (כתלות ב-$g(x)$) בעלת התמרת פוריה $g(\omega)\cos(\omega)$.

4) מצאו התמרת פורייה של $f(x)=e^{-ax^2}$ כאשר $a>0$.

רמז : $F\left\{e^{-x^2}\right\}=\frac{1}{2\sqrt{\pi}}e^{-\frac{\omega^2}{4}}$

5) מצאו פונקציה שהתמרת פורייה שלה היא $f(\omega)=\cos(4\pi\omega)\cdot\frac{\sin(2\omega)}{\omega}$.

רמז : $F\left\{\chi_{[-1,1]}(x)\right\}=\frac{\sin(\omega)}{\pi\omega}$.

תשובות סופיות:

1) $\frac{\sin(\omega \cdot r)}{\pi\omega}$

2) $f(\omega)=\frac{e^{i\frac{\omega}{2}}}{4\sqrt{\pi}}e^{-\frac{\omega^2}{16}}$

3) $f(x)=\frac{g(x+1)+g(x-1)}{2}$

4) $f(\omega)=\frac{1}{2\sqrt{\pi a}}e^{-\frac{(\omega)^2}{4a}}$

5) $f(x)=\frac{\pi}{2}\begin{cases}1 & 4\pi-2\le x\le 4\pi+2 \ \ or \ \ -4\pi-2\le x\le -4\pi+2\\ 0 & else\end{cases}$

נוסחת הנגזרת:

שאלות:

1) נניח כי $f(x)\in G$ גזירה, מקיימת $\lim_{|x|\to\infty} f(x)=0$, $f'(x)\in G$ ו- $f(\omega)=\frac{\omega}{1+\omega^{30}}$.
מצאו התמרת פורייה של $f'(x)\cos(2x)$.

2) יהי a ממשי כלשהו. הוכיחו כי $F\left\{\frac{x}{\left(x^2+a^2\right)^2}\right\}_\omega=\left(-\frac{1}{2}\right)(i\omega)\frac{1}{2|a|}e^{-|\omega a|}$.

3) מצאו פונקציה שהתמרת פורייה שלה היא $f(\omega)=\omega^2e^{-|\omega|}$.
רמז: $F\left\{\frac{1}{1+x^2}\right\}=\frac{1}{2}e^{-|\omega|}$.

תשובות סופיות:

1) $$\frac{i\cdot\frac{(\omega-2)^2}{1+(\omega-2)^{30}}+i\cdot\frac{(\omega+2)^2}{1+(\omega+2)^{30}}}{2}$$

2) הוכחה.

3) $$f(x)=(-2)\frac{6x^2-2}{\left(1+x^2\right)^3}$$

נוסחאות כפל באקספוננט ומודולציה:

שאלות:

1) הוכיחו כי התמרת פורייה של $F\left\{\sin(cx)e^{-|x|}\right\}_{(\omega)}=\frac{1}{\pi i}\frac{2c\cdot\omega}{\left[1+(\omega-c)^2\right]\left[1+(\omega+c)^2\right]}$.

2) מצאו פונקציה שהתמרת פורייה שלה היא $f(\omega)=\frac{\sin(\omega-1)}{\omega-1}-\frac{\sin(\omega+1)}{\omega+1}$.

3) הוכיחו כי התמרת פורייה של $g(x)=\begin{cases}\sin(ax)e^{-bx} & x>0\\ 0 & x\le 0\end{cases}$ כאשר $a,b>0$ קבועים,
הינה $g(\omega)=\frac{1}{4\pi}\left[\frac{1}{bi-(\omega-a)}-\frac{1}{bi-(\omega+a)}\right]$.

4) מצאו התמרת פורייה של $g(x)=e^{-|x|}\cos(2x)$ על ידי שימוש בנוסחת מודולציה ובעובדה
כי $F\left\{e^{-|x|}\right\}=\frac{1}{\pi(1+\omega^2)}$.

5) מצאו התמרת פורייה של $g(x)=e^{-|x|}\sin^2(3x)$ על ידי שימוש בנוסחת מודולציה
ובעובדה כי $F\left\{e^{-|x|}\right\}=\frac{1}{\pi(1+\omega^2)}$.

6) נניח כי $f(x)\in G(R)$ ונגדיר $g(x)=f(3x-2)\cdot\cos(x)$. בטאו את $g(\omega)$ על ידי $f(\omega)$.

7) מצאו פונקציה שהתמרת פורייה שלה היא $f(\omega)=e^{3i\omega}\cdot e^{-|\omega-2|}$. רמז: $F\left\{\frac{1}{1+x^2}\right\}=\frac{1}{2}e^{-|\omega|}$.

8) תהי $H(x)=\begin{cases}1 & x>0\\ 0 & x<0\end{cases}$.
חשבו את התמרת הפורייה של הפונקציות הבאות:
א. $H(x)e^{-ax}$ כאשר $a>0$.
ב. $H(x)e^{-ax}\cos(bx)$ כאשר $a,b>0$.
ג. $H(x)e^{-ax}\sin(bx)$ כאשר $a,b>0$.

תשובות סופיות:

1) הוכחה.

2) $f(x)=2\pi i\cdot\chi_{[-1,1]}(x)\cdot\sin(x)$

3) הוכחה.

4) $$F\left\{e^{-|x|}\cos(2x)\right\}=\frac{1}{2\pi\left(1+[\omega+2]^2\right)}+\frac{1}{2\pi\left(1+[\omega-2]^2\right)}$$

5) $$g(\omega)=\frac{1}{2}\frac{1}{\pi\left(1+\omega^2\right)}-\left[\frac{1}{2\pi\left(1+[\omega+6]^2\right)}+\frac{1}{2\pi\left(1+[\omega-6]^2\right)}\right]$$

6) $$g(\omega)=\frac{1}{6}\left[e^{-i\frac{2}{3}(\omega+1)}f\left(\frac{\omega+1}{3}\right)+e^{-i\frac{2}{3}(\omega-1)}f\left(\frac{\omega-1}{3}\right)\right]$$

7) $$F\left\{e^{2i[x+3]}\frac{2}{1+[x+3]^2}\right\}$$

8) א. $\frac{1}{2\pi(a+i\omega)}$

ב. $\frac{1}{4\pi}\left(\frac{1}{a+i[\omega-b]}+\frac{1}{a+i[\omega+b]}\right)$

ג. $\frac{1}{4\pi i}\left(\frac{1}{a+i[\omega-b]}+\frac{1}{a+i[\omega+b]}\right)$

נוסחת המומנט:

שאלות:

1) מצאו התמרת פורייה של $g(x)=\begin{cases} x & x\in(-1,1) \\ 0 & else \end{cases}$ על ידי שימוש בנוסחה $F\{x\cdot f(x)\}=i\frac{d}{d\omega}f(\omega)$.

2) מצאו התמרת פורייה של $g(x)=x^2e^{-x^2}$ על ידי שימוש בנוסחת המומנט ובעובדה כי $F\{e^{-x^2}\}=\frac{1}{2\sqrt{\pi}}e^{-\frac{\omega^2}{4}}$.

3) מצאו התמרת פורייה של $g(x)=x\cdot e^{-|x|}$ על ידי שימוש בנוסחת המומנט ובעובדה כי $F\{e^{-|x|}\}=\frac{1}{\pi(1+\omega^2)}$.

4) מצאו את התמרת פורייה של $f(x)=e^{-x^2}$.

5) מצאו התמרת פורייה של $f(x)=8x^3e^{\frac{-4(x+1)^2+5}{3}}$.

6) תהי $f(x)=\begin{cases} \frac{1}{x^5} & x\geq 1 \\ 0 & x<1 \end{cases}$.

הוכיחו כי $f(\omega)$ גזירה ברציפות 3 פעמים.

7) נתון כי התמרת פורייה של $f\in L^1_{PC}(\mathbb{R})$ רציפה היא $f(\omega)=\frac{1}{1+|\omega|}$.

הוכיחו כי האינטגרל $\int_{-\infty}^{\infty}|x\cdot f(x)|dx$ מתבדר.

תשובות סופיות:

1) $i\cdot\frac{\omega\cos\omega-\sin\omega}{\pi\omega^2}$

2) $F\left\{x^2e^{-x^2}\right\}=\frac{1}{4\sqrt{\pi}}\left(1-\frac{\omega^2}{2}\right)e^{-\frac{\omega^2}{4}}$

3) $F\left\{x\cdot e^{-|x|}\right\}=-\frac{i}{\pi}\frac{2\omega}{\left(1+\omega^2\right)^2}$

4) $f\left(\omega\right)=\frac{1}{2\sqrt{\pi}}e^{-\frac{\omega^2}{4}}$

5) $f\left(\omega\right)=\frac{1}{256}\sqrt{\frac{3}{\pi}}\left(27i\omega^3+216\omega^2-792i\omega-1088\right)e^{i\omega-\frac{3\omega^2}{16}-\frac{5}{3}}$

6) הוכחה.

7) הוכחה.

נוסחת ההתמרה ההפוכה:

שאלות:

1) חשבו $\int_{-\infty}^{\infty} \frac{\cos(\omega x)}{\pi(1+\omega^2)} d\omega$ לכל x ממשי על ידי שימוש במשפט התמרה הפוכה.

2) חשבו $\lim_{M\to\infty} \int_{-M}^{M} \frac{\sin(\omega)\cos(\omega x)}{\pi\omega} d\omega$ לכל x ממשי על ידי שימוש במשפט התמרה הפוכה.

תשובות סופיות:

1) ראו סרטון.

2) $\begin{cases} 0 & |x|>1 \\ 1 & |x|<1 \\ \frac{1}{2} & x=1\ ,\ x=-1 \end{cases}$

משפט פלנשראל:

שאלות:

1) ענו על הסעיפים הבאים:

א. חשבו התמרת פורייה של $f(x)=\chi_{[-a,a]}(x)$ עבור $a>0$.

ב. חשבו את האינטגרל $\int_{-\infty}^{\infty}\frac{\sin(ax)}{x}\frac{\sin(bx)}{x}dx$ עבור $a,b>0$.

2) הוכיחו כי $\int_{0}^{\infty}\frac{e^{-x}\sin(x)}{x}dx=\frac{\pi}{4}$. תוכלו להיעזר בעובדה: $F\left\{\frac{1}{1+x^2}\right\}=\frac{1}{2}e^{-|\omega|}$.

3) הוכיחו כי $\int_{0}^{\infty}\frac{\sin(2x)}{x(1+4x^2)}dx=\frac{\pi}{2}\left(1-\frac{1}{e}\right)$.

4) הוכיחו כי לא קיימת פונקציה $f(x)\in L^1_{PC}(\mathbb{R})\cap L^2_{PC}(\mathbb{R})$ כך ש- $f(\omega)=\frac{1}{\sqrt{1+|\omega|}}$.

תשובות סופיות:

1) א. $f(\omega)=\frac{\sin(\omega a)}{\pi\omega}$ ב. $\pi\cdot\min\{a,b\}$

2) הוכחה.

3) הוכחה.

4) הוכחה.

משפט הקונבולוציה:

שאלות:

1) חשבו את הקונבולוציה $\left(\chi_{[-1,1]} * \chi_{[-1,1]}\right)_{(x)}$.

תזכורת: $\chi_{[-1,1]}(x)=\begin{cases}1 & x\in[-1,1]\\ 0 & else\end{cases}$.

רמז: חלקו למקרים.

2) חשבו את הקונבולוציה $(f*f)_{(x)}$ כאשר $f(x)=\begin{cases}e^{-x} & x>0\\ 0 & x\le 0\end{cases}$.

רמז: חלקו למקרים $x>0$ ו- $x\le 0$.

3) מצאו פונקציה $f\in G$ כך ש- $f(\omega)=\left(\frac{\sin\omega}{\omega}\right)^2$.

4) נסמן ב- E את מרחב הפונקציות הממשיות הגזירות פעמיים $f(t)$ המקיימות $\int_{-\infty}^{\infty}|f(t)|dt<\infty$ וגם $\int_{-\infty}^{\infty}|f(t)|^2dt<\infty$.

מצאו פונקציה $g(x)$ כך שלכל $f(t)\in E$ מתקיים השיוויון.

$$\int_{-\infty}^{\infty}\left(f(t)-f''(t)\right)g(x-t)dt=2f(x).$$

5) נגדיר $f(x)=\frac{1}{x^2+4}$, $g(x)=\frac{1}{x^2+1}$. מצאו את הקונבולוציה $(f*g)_{(x)}$.

תזכורת: $F\left\{\frac{1}{x^2+a^2}\right\}=\frac{1}{2a}e^{-a|\omega|}$.

6) ענה על הסעיפים הבאים:

א. חשבו התמרת פורייה של $(1+|x|)e^{-|x|}$.

ב. פתרו את המשוואה האינטגרלית $\int_{-\infty}^{\infty}e^{-|x-t|}f(t)dt=e^{-|x|}+|x|e^{-|x|}$.

7) ענו על הסעיפים הבאים:

א. חשבו את הקונבולוציה $(f*f)_{(x)}$ כאשר $f(x)=\chi_{[0,1]}(x)$.

ב. הוכיחו כי $\int_{-\infty}^{\infty}\frac{(1-\cos x)^2}{x^4}dx=\frac{\pi}{3}$.

8) חשבו את הקונבולוציה $(f*f)_{(x)}$ כאשר $f(x)=\chi_{[1,2]}(x)$.

9) חשבו את הקונבולוציה $(f*f)_{(x)}$ כאשר $f(x)=\chi_{[0,2]}(x)$.

10) חשבו את הקונבולוציה $\left(\chi_{[0,1]}(x)*\chi_{[1,2]}(x)\right)_{(x)}$.

11) חשבו את הקונבולוציה $\left(e^{-x^2}*e^{-x^2}\right)_{(x)}$.

א. לפי ההגדרה.

ב. על ידי שימוש במשפט הקונבולוציה.

הערה: תוכלו להיעזר בעובדה $\int_{-\infty}^{\infty}e^{-x^2}dx=\sqrt{\pi}$.

12) מצאו פתרון למשוואה האינטגרלית $\int_{-\infty}^{\infty}f(t)f(x-t)dt=e^{\frac{-3(x+1)^2}{2}}$.

13) נניח כי $f(x)\in L^1_{PC}(\mathbb{R})$ רציפה ומקיימת את המשוואה האינטגרלית $\int_{-\infty}^{\infty}f(y)e^{-y^2}e^{2xy}dy\equiv 0$ הוכיחו כי $f(x)\equiv 0$.

תשובות סופיות:

1) $$\left(\chi_{[-1,1]} * \chi_{[-1,1]}\right)_{(x)} = \begin{cases} 2+x & x\in[-2,0] \\ 2-x & x\in[0,2] \\ 0 & else \end{cases}$$

2) $$(f*f)_{(x)} = \begin{cases} xe^{-x} & x>0 \\ 0 & x\le 0 \end{cases}$$

3) $$f(x) = \begin{cases} \frac{\pi}{2}(2+x) & x\in[-2,0] \\ \frac{\pi}{2}(2-x) & x\in[0,2] \\ 0 & else \end{cases}$$

4) $$g(x) = e^{-|x|}$$

5) $$\frac{3}{2}\cdot\frac{\pi}{x^2+9}$$

6) א. $$\frac{2}{\pi\left(1+\omega^2\right)^2}$$ ב. $$f(x) = e^{-|x|}$$

7) א. $$(f*f)_{(x)} = \begin{cases} 0 & x>2 \\ 2-x & 1<x<2 \\ x & 0<x<1 \\ 0 & x<0 \end{cases}$$ ב. הוכחה.

8) $$(f*f)_{(x)} = \begin{cases} 0 & x>4 \\ 4-x & 3<x<4 \\ x-2 & 2<x<3 \\ 0 & x<2 \end{cases}$$

9) $$(f*f)_{(x)}=\begin{cases}0 & x>4\\ 4-x & 2<x<4\\ x & 0<x<2\\ 0 & x<0\end{cases}$$

10) $$\left(\chi_{[0,1]}(x)*\chi_{[1,2]}(x)\right)_{(x)}=\begin{cases}0 & x>3\\ 3-x & 2<x<3\\ x-1 & 1<x<2\\ 0 & x<1\end{cases}$$

11) א. $\sqrt{\frac{\pi}{2}}\cdot e^{-\frac{x^2}{2}}$ ב. $\frac{\sqrt{\pi}}{2}e^{-\frac{x^2}{2}}$

12) $$f(x)=\sqrt[4]{\frac{6}{\pi}}e^{-3\left(x+\frac{1}{2}\right)^2}$$

13) הוכחה.

תרגילים מסכמים:

שאלות:

1) ענו על הסעיפים הבאים:

א. חשבו התמרת פורייה של הפונקציה $f(x)=\begin{cases}\sin(x) & |x|\le\pi\\ 0 & else\end{cases}$.

ב. חשבו התמרת פורייה של הפונקציה $g(x)=\begin{cases}\cos(x) & |x|\le\pi\\ 0 & else\end{cases}$.

ג. חשבו את האינטגרל $\int_0^\infty \frac{\sin(\pi x)\sin(x)}{(1-x^2)}dx$.

ד. חשבו את האינטגרל $\int_{-\infty}^\infty \frac{x^2}{(1-x^2)^2}\sin^2(\pi x)dx$.

2) ענו על הסעיפים הבאים:

א. חשבו התמרת פורייה של $f(x)=x\cdot e^{-|x|}$.

ב. מצאו את כל הפונקציות $h(y)$ המקיימות $\int_{-\infty}^\infty h'(y)e^{-|x-y|}dy=x\cdot e^{-|x|}$.

3) יהי $A>0$ קבוע. נגדיר $f(x)=\begin{cases}x & 0\le x\le A\\ 0 & else\end{cases}$.

ידוע כי ישנה פונקציה $g(x)\in G$ המקיימת $g(\omega)=f(\omega)f(-\omega)$.

מצאו במפורש את $g(x)$.

4) נניח כי $f(x)\in C^2(-\infty,\infty)$ כך ש-$f'(x),x\cdot f'(x),f''(x)\in L^1_{PC}(-\infty,\infty)$

ומתקיים $f''(x)+x\cdot f'(x)+f(x)=0$ לכל x ממשי.

א. הוכיחו כי $f(x)\in L^1_{PC}(-\infty,\infty)$.

ב. חשבו את $f(\omega)$ אם נתון כי $f(0)=1$.

ג. מצאו את $f(x)$.

5) תהי $f(x)=\begin{cases}2 & |x|\le 1\\ 4 & 1\le |x|\le 2\\ 0 & else\end{cases}$.

א. חשבו את $f(\omega)$.

ב. חשבו את האינטגרל $\int_0^\infty \frac{\left[2\sin(2t)-\sin(t)\right]^2}{t^2}dt$.

ג. חשבו את האינטגרל $\lim_{M\to\infty}\int_{-M}^{M}\frac{2\sin(2t)-\sin(t)}{\pi t}\cos(t)\,dt$.

6) ענו על הסעיפים הבאים:

א. חשבו התמרת פורייה של הפונקציה $f(x)=\begin{cases}1-\frac{x^2}{\pi^2} & |x|\le\pi\\ 0 & else\end{cases}$.

ב. חשבו את האינטגרלים: $\int_0^\infty\left(\frac{\sin(\pi x)-\pi x\cos(\pi x)}{\pi^3x^3}\right)^2dx$

ו- $\int_0^\infty\frac{\sin(\pi x)-\pi x\cos(\pi x)}{\pi^3x^3}\cos(x)\,dx$.

7) נגדיר $\phi(x)=\frac{\sin(\pi x)}{\pi x}$. הוכיחו כי המערכת $\{\phi(x-n)\}_{n=-\infty}^{n=\infty}$ מהווה מערכת אורתונורמלית ב- $L^2_{PC}(-\infty,\infty)$.

8) תהי $f\in G$ פונקציה כך ש- $f'\in G$ פונקציה רציפה. מצאו פונקציה $g\in G$ המקיימת את המשוואה $g(t)=\int_{-\infty}^{t}e^{u-t}g(u)\,du+f'(t)$.

9) מצאו פונקציה שהתמרת פורייה שלה היא $f(\omega)=\frac{1}{\left(1+\omega^2\right)^2}$.

10) פתרו את המשוואה האינטגרלית $\int_{-\infty}^{\infty}\frac{f(t)}{(x-t)^2+b^2}dt=\frac{x}{\left(x^2+a^2\right)^2}$.

11) נגדיר $f(x)=\int_{-\infty}^{\infty}\int_{-\infty}^{\infty}\chi_{\left[-\frac{\pi}{2},\frac{\pi}{2}\right]}(\omega-t)\chi_{\left[-\frac{\pi}{2},\frac{\pi}{2}\right]}(t)e^{i\omega x}dtd\omega$.

מצאו ביטוי מפורש (ללא אינטגרלים) עבור $f(x)$.

תזכורת: $\chi_{[a,b]}(t)=\begin{cases}1 & t\in[a,b]\\ 0 & else\end{cases}$.

12) השתמשו במשפט פלנשראל על מנת לחשב את האינטגרל $\int_{-\infty}^{\infty}\frac{x^2}{(a^2+x^2)(x^2+b^2)}dx$

כאשר $a,b>0$.

13) מצאו את התמרת הפורייה של $f(x)=e^{-(x^2+2x+5)}$.

14) הוכיחו כי $\int_0^{\infty}e^{-ax^2}\cos(bx)dx=\frac{1}{2}\sqrt{\frac{\pi}{a}}e^{-\frac{b^2}{4a}}$ לכל $a,b>0$ קבועים.

15) הוכיחו כי $\int_0^{\infty}\frac{\sin^2(x)\cos(x)}{1+x^2}dx=\frac{\pi}{8e}\left(1-\frac{1}{e^2}\right)$.

16) הוכיחו כי $\int_0^{\infty}\sin^3(x)xe^{-x}dx=\frac{9}{25}$.

תשובות סופיות:

1) א. $f(\omega)=-i\cdot\frac{1}{2\pi}\cdot\sin(\omega\pi)\cdot\frac{2}{1-\omega^2}$ ב. $g(\omega)=\frac{1}{2\pi}\cdot\frac{2\omega\sin(\omega\pi)}{1-\omega^2}$

ג. $\frac{\pi}{2}\sin(1)$ ד. $\frac{\pi^2}{2}$

2) א. $-\frac{2i\omega}{\pi\left(1+\omega^2\right)^2}$ ב. $h(y)=-e^{-|y|}$, $-h(y)=e^{-|y|}$

3) $$g(x)=\begin{cases}\frac{1}{2\pi}\left(\frac{(A+x)^3}{3}-\frac{(A+x)^2}{2}x\right) & -A<x<0\\ \frac{1}{2\pi}\left(\frac{A^3}{3}-\frac{A^2}{2}x+\frac{x^3}{6}\right) & 0<x<A\\ 0 & else\end{cases}$$

4) א. הוכחה. ב. $e^{-\frac{\omega^2}{2}}$ ג. $\sqrt{2\pi}\cdot e^{-\frac{x^2}{2}}$

5) א. $\frac{4\cdot\sin(2\omega)-2\cdot\sin(\omega)}{\pi\omega}$ ב. $\frac{5\pi}{2}$ ג. $\frac{3\pi}{2}$

6) א. $2\frac{\sin(\pi\omega)-\pi\omega\cos(\pi\omega)}{\pi^3\omega^3}$ ב. $\frac{1}{15}$ ו- $\frac{1}{4}\left(1-\frac{1}{\pi^2}\right)$

7) הוכחה.

8) $g(t)=f(t)+f'(t)$

9) $$f(x)=\begin{cases}\frac{\pi}{2}e^{x}(1-x) & x<0\\ \frac{\pi}{2}e^{-x}(1+x) & x>0\end{cases}$$

10) $$f(x)=\frac{1}{\pi}\frac{b}{a}\frac{(a-b)x}{\left(x^2+(a-b)^2\right)^2}$$

11) $$f(x)=4\cdot\frac{\sin^2\left(\frac{\pi x}{2}\right)}{x^2}$$

12) $$\frac{\pi}{a+b}=\int_{-\infty}^{\infty}\frac{\omega}{a^2+\omega^2}\frac{\omega}{b^2+\omega^2}d\omega$$

13) $$f(\omega)=\frac{1}{e^4}\cdot e^{i\omega}\cdot\frac{1}{2\sqrt{\pi}}e^{-\frac{\omega^2}{4}}$$

14) הוכחה.

15) הוכחה.

16) הוכחה.

חדוא של טורים והתמרות

פרק 6 - טורי פורייה

תוכן העניינים

1. טור פורייה ממשי 58
2. טור פורייה מרוכב 59
3. משפט פרסבל 60
4. רימן לבג 63
5. משפט דיריכלה 64
6. המשכה זוגית ואי זוגית 66
7. גזירה ואינטגרציה של טורי פורייה 67
8. טור פורייה בקטע כללי 70
9. התכנסות במידה שווה של טורי פורייה 72
10. משפט הקונבולוציה 73
11. תרגילים מסכמים 75

טור פורייה ממשי:

שאלות:

1) חשבו טור פורייה ממשי לפונקציה $f(x)=x$ בקטע $[-\pi,\pi]$.

2) מצאו טור פורייה של $f(x)$ בקטע $[-\pi,\pi]$ כאשר $f(x)=\begin{cases}1 & 0<x<\pi\\ 0 & -\pi<x<0\end{cases}$.

3) מצאו טור פורייה של $f(x)$ בקטע $[-\pi,\pi]$ כאשר $f(x)=\sin(|x|)$.

4) מצאו טור פורייה של $f(x)$ בקטע $[-\pi,\pi]$ כאשר $f(x)=\begin{cases}1 & |x|<1\\ 0 & else\end{cases}$.

תשובות סופיות:

1) $\sum_{n=1}^{20}-\frac{2}{n}(-1)^n\sin(nx)$

2) $f(x)\sim\frac{1}{2}+\sum_{k=1}^{\infty}\frac{2}{\pi(2k-1)}\sin((2k-1)x)$

3) $\sin(|x|)\sim\frac{2}{\pi}+\sum_{k=1}^{\infty}\frac{4}{\pi}\frac{1}{1-(2k)^2}\cos(2kx)$

4) $f(x)\sim\frac{1}{\pi}+\sum_{n=1}^{\infty}\frac{2}{\pi}\frac{\sin(n)}{n}\cos(nx)$

טור פורייה מרוכב:

שאלות:

1) חשבו טור פורייה מרוכב לפונקציה $f(x)=x$ בקטע $[-\pi,\pi]$.

2) מצאו טור פורייה של $f(x)$ בקטע $[-\pi,\pi]$ כאשר $f(x)=\begin{cases}-x & -\pi\le x<0\\ 0 & 0\le x<\pi\end{cases}$.

3) מצאו טור פורייה של $f(x)$ בקטע $[-\pi,\pi]$ כאשר $f(x)=\begin{cases}x & -\pi\le x<0\\ 2x & 0\le x<\pi\end{cases}$.

4) מצאו טור פורייה של $f(x)$ בקטע $[-\pi,\pi]$ כאשר $f(x)=\begin{cases}1 & -\pi\le x<0\\ -2 & 0\le x<\pi\end{cases}$.

5) מצאו טור פורייה מרוכב של $f(x)$ בקטע $[-\pi,\pi]$ כאשר $f(x)=\begin{cases}0 & -\pi\le x<0\\ \sin(x) & 0\le x<\pi\end{cases}$.

תשובות סופיות:

1) $$x\sim\sum_{n=-\infty}^{n=\infty} i\frac{(-1)^n}{n}e^{inx}$$

2) $$f(x)\sim\frac{\pi}{4}+\sum_{\substack{-\infty\\ n\neq 0}}^{\infty}-\frac{1}{2\pi}\left\{-\pi\frac{(-1)^n}{in}+\frac{1-(-1)^n}{n^2}\right\}e^{inx}$$

3) $$f(x)\sim\frac{\pi}{4}+\sum_{\substack{-\infty\\ n\neq 0}}^{\infty}\frac{1}{2\pi}\left[-\frac{1}{n^2}+\frac{(-1)^n}{n^2}-3(-1)^n\frac{\pi}{in}\right]e^{inx}$$

4) $$f(x)\sim-\frac{1}{2}-\sum_{k=-\infty}^{k=\infty}\frac{3}{\pi i(2k-1)}e^{i(2k-1)x}$$

5) $$f(x)\sim\frac{1}{4i}e^{ix}-\frac{1}{4i}e^{-ix}+\sum_{k=-\infty}^{\infty}\frac{1}{\pi}\frac{1}{1-(2k)^2}e^{i[2k]x}$$

משפט פרסבל:

שאלות:

1) באמצעות טור הפורייה $x \sim \sum_{n=1}^{\infty} -\frac{2}{n}(-1)^n \sin(nx)$, חשבו את הסכום $\sum_{n=1}^{\infty} \frac{1}{n^2}$.

2) נתון כי טור הפורייה הממשי של $f(x)=\begin{cases}1 & 0<x<\pi \\ 0 & -\pi<x<0\end{cases}$ בקטע $[-\pi,\pi]$ הינו $\frac{1}{2}+\sum_{k=1}^{\infty}\frac{2}{\pi(2k-1)}\sin((2k-1)x)$. הוכיחו כי $\sum_{k=1}^{\infty}\frac{1}{(2k-1)^2}=\frac{\pi^2}{8}$.

3) נתונות הפונקציות $f(x)=\begin{cases}0 & 0\le x\le\pi \\ x+\pi & -\pi\le x<0\end{cases}$ ו- $g(x)=x$.

מצאו להן טורי פורייה ממשיים והוכיחו באמצעותם כי $\sum_{n=1}^{\infty}\frac{(-1)^n}{n^2}=-\frac{\pi^2}{12}$.

4) מצאו טור פורייה מרוכב של הפונקציה $f(x)=\begin{cases}1 & 0<x\le\pi \\ 0 & -\pi<x\le 0\end{cases}$ ובאמצעותו חשבו את הסכום $\sum_{n=-\infty}^{n=\infty}\frac{1}{(2n+1)^2}$.

5) נתונות הפונקציות $f(x)=\begin{cases}1 & 0\le x\le\pi \\ e^{x^2} & -\pi\le x<0\end{cases}$ ו- $g(x)=\begin{cases}0 & 1<x\le\pi \\ \frac{1}{x^2+1} & 0\le x\le 1 \\ 0 & -\pi\le x<0\end{cases}$.

נסמן את טורי פורייה המרוכבים שלהם ב- $f \sim \sum_{n=-\infty}^{n=\infty} f_n e^{inx}$, $g \sim \sum_{n=-\infty}^{n=\infty} g_n e^{inx}$.

הוכיחו כי $\sum_{n=-\infty}^{n=\infty} f_n \cdot \overline{g_n} = \frac{1}{8}$.

6) נתונה פונקציה מחזורית עם מחזור 2π :

$$f(x)=\sinh(x)=\frac{e^{x}-e^{-x}}{2} \quad , \quad -\pi\le x<\pi$$

א. שרטטו את גרף הפונקציה בקטע $-3\pi<x<3\pi$.

ב. פתחו את הפונקציה לטור פורייה ממשי.

ג. חשבו את סכום הטור $\sum_{n=1}^{\infty}\frac{n^2}{\left(1+n^2\right)^2}$.

7) הפונקציה $f(x)$ מוגדרת בקטע $[-\pi,\pi]$ על ידי הנוסחה: $f(x)=\sum_{n=1}^{\infty}\sqrt{\frac{1}{n^2}-\frac{1}{(n+2)^2}}e^{inx}$.

חשבו $\int_{-\pi}^{\pi}\left|f(x+\pi)-f(x)\right|^2dx$.

8) היעזרו בפיתוח פורייה של הפונקציה $f(x)=\sin\left(\frac{px}{2}\right)$ בקטע $[-\pi,\pi]$ כאשר $p\ne 0$

כדי להוכיח את הזהות $\sum_{n=1}^{\infty}\frac{n^2}{\left(1-4n^2\right)^2}=\frac{\pi^2}{64}$.

9) היעזרו בפיתוח פורייה של הפונקציה $f(x)=\begin{cases}h^2 & h\le x\le\pi\\ 0 & -\pi\le x\le h\end{cases}$ בקטע $[-\pi,\pi]$

כאשר $0\ne h\in[-\pi,\pi]$ ובשוויון פרסבל כדי לחשב $\sum_{n=1}^{\infty}\frac{1-(-1)^n\cos(2n)}{n^2}$.

10) ענו על הסעיפים הבאים:

א. מצאו טור פורייה מרוכב של $f(x)=\sin\left(\frac{x}{2}\right)$ בקטע $[-\pi,\pi]$.

ב. הוכיחו באמצעות הטור מסעיף א' כי $\sum_{n=-\infty}^{\infty}\frac{n^2}{\left(1-4n^2\right)^2}=\frac{\pi^2}{32}$.

ג. הסיקו כי $\sum_{n=1}^{\infty}\frac{n^2}{\left(1-4n^2\right)^2}=\frac{\pi^2}{64}$.

תשובות סופיות:

1) $\frac{\pi^2}{6}$

2) הוכחה.

3) הוכחה.

4) $\frac{\pi^2}{4}$

5) הוכחה.

6) א. ראו סרטון. ב. $\sinh(x) \sim -\sum_{n=1}^{\infty} \frac{2n}{n^2+1} \frac{\sinh(\pi)(-1)^n}{\pi} \sin(nx)$

ג. ≈ 0.769

7) 8π

8) הוכחה.

9) $\frac{\pi^2-4}{4}$

10) א. $\sin\left(\frac{x}{2}\right) \sim \sum_{n=-\infty}^{\infty} \frac{4n(-i)(-1)^n}{\pi(1-4n^2)} e^{inx}$ ב. הוכחה.

ג. ראו סרטון.

רימן לבג:

שאלות:

1) חשבו $\lim_{n\to\infty}\int_{-\pi}^{\pi} e^{x^2+2x}\cos\left(\sqrt{|x|}\right)\sin(nx)\,dx$.

2) חשבו $\lim_{n\to\infty}\int_{-\frac{\pi}{n}}^{\frac{\pi}{n}} \frac{n}{(nt)^2+1}e^{i\cdot n^2 t}\,dt$.

3) הוכיחו כי $\lim_{n\to\infty}\left(n\int_{-\pi}^{\pi}\int_{0}^{x}\frac{se^{s^2}ds}{\sqrt{s^2+2017}}e^{inx}dx\right)=0$.

תשובות סופיות:

1) 0
2) 0
3) הוכחה.

משפט דיריכלה:

שאלות:

1) בתרגיל קודם פיתחנו את הפונקציה $f(x)=x$ בקטע $[-\pi,\pi]$ לטור פורייה ממשי $x\sim\sum_{n=1}^{\infty}-\frac{2}{n}(-1)^n\sin(nx)$.

היעזרו בפיתוח זה כדי להוכיח $\sum_{k=1}^{\infty}\frac{(-1)^{k+1}}{2k-1}=\frac{\pi}{4}$.

רמז: הציבו $x=\frac{\pi}{2}$.

2) נתונה פונקציה מחזורית עם מחזור 2π: $f(x)=\begin{cases}2+\frac{2x}{\pi} & -\pi<x<0\\ 2 & 0<x<\pi\end{cases}$.

א. שרטטו את גרף הפונקציה בתחום $[-3\pi,3\pi]$.

ב. פתחו את הפונקציה לטור פורייה ממשי.

ג. הוכיחו כי $\sum_{n=1}^{\infty}\frac{1}{(2n-1)^2}=\frac{\pi^2}{8}$.

3) במרחב הפונקציות $L^2_{PC}[-\pi,\pi]$ נתונה הפונקציה $f(x)=x^2$.

א. חשבו את טור פורייה הממשי של $f(x)$.

ב. חשבו את הטור $\sum_{n=1}^{\infty}\frac{1}{n^4}$.

ג. חשבו את הטור $\sum_{n=1}^{\infty}\frac{(-1)^n}{n^2}$.

ד. חשבו את הטור $\sum_{n=1}^{\infty}\frac{1}{n^2}$.

4) היעזרו בפיתוח פורייה של הפונקציה $f(x)=\cos(ax)$ בקטע $[-\pi,\pi]$ כאשר a אינו מספר שלם כדי להוכיח את הזהויות:

א. $\frac{1}{\sin(\pi a)}=\frac{1}{\pi a}+\sum_{n=1}^{\infty}(-1)^n\left[\frac{1}{\pi a+\pi n}+\frac{1}{\pi a-\pi n}\right]$

ב. $\cot(\pi\alpha)=\frac{1}{\pi\alpha}+\sum_{n=1}^{\infty}\frac{1}{\pi\alpha+\pi n}+\frac{1}{\pi\alpha-\pi n}$

תשובות סופיות:

1) הוכחה.

2) א. ראו סרטון.

ב. $f(x)\sim\frac{3}{2}+\sum_{k=1}^{\infty}\frac{4}{\pi^2(2k-1)^2}\cos([2k-1]x)+\sum_{n=1}^{\infty}\frac{2(-1)^n}{\pi n}\sin(nx)$ ג. הוכחה.

3) א. $x^2\sim\frac{\pi^2}{3}+\sum_{n=1}^{\infty}4\frac{(-1)^n}{n^2}\cos(nx)$ ב. $\frac{\pi^4}{90}$ ג. $\frac{\pi^2}{-12}$ ד. $\frac{\pi^2}{6}$

4) א. הוכחה. ב. הוכחה.

המשכה זוגית ואי זוגית:

שאלות:

1) נתונה הפונקציה $f(x)=x$ בקטע $[0,\pi]$.

מצאו לה טור קוסינוסים: $f\sim\frac{a_0}{2}+\sum_{n=1}^{\infty}a_n\cos(nx)$ והוכיחו כי לכל $0<x<\pi$

מתקיים $x=\frac{\pi}{2}+\sum_{n=1}^{\infty}\frac{-4}{\pi(2k-1)^2}\cos([2k-1]x)$.

2) נתונה הפונקציה $f(x)=1$ בקטע $[0,\pi]$.

מצאו לה טור סינוסים: $f\sim\sum_{n=1}^{\infty}b_n\sin(nx)$ והוכיחו כי:

א. לכל $0<x<\pi$ מתקיים $1=\sum_{k=1}^{\infty}\frac{4}{\pi(2k-1)}\sin([2k-1]x)$

ב. $\sum_{k=1}^{\infty}\frac{(-1)^k}{(2k-1)}=-\frac{\pi}{4}$

תשובות סופיות:

1) הוכחה.

2) א. הוכחה. ב. הוכחה.

גזירה ואינטגרציה של טורי פורייה:

שאלות:

1) תהי $f(x)$ פונקציה רציפה בקטע $[-\pi,\pi]$ המקיימת $f(-\pi)=f(\pi)$
ונניח כי היא גזירה למקוטעין ברציפות (כלומר נניח $f'(x)\in L^2_{PC}[-\pi,\pi]$).

נסמן $f(x)\sim\sum_{n=-\infty}^{\infty}c_ne^{inx}$ אזי הטור $\sum_{n=-\infty}^{\infty}c_ne^{inx}$ מתכנס בהחלט.

2) נתונה הפונקציה $f(x)=x(\pi-x)$ בקטע $[0,\pi]$.

א. פתחו את הפונקציה לטור סינוסים.

ב. לאיזו פונקציה מתכנס הטור?
שרטטו את גרף הפונקציה (לפחות 3 מחזורים).

ג. הוכיחו כי $\sum_{n=1}^{\infty}\frac{1}{(2n-1)^6}=\frac{\pi^6}{960}$.

ד. הוכיחו כי $\sum_{k=1}^{\infty}\frac{(-1)^{k+1}}{(2k-1)^3}=\frac{\pi^3}{32}$.

ה. מצאו פיתוח לטור קוסינוסים של $g(x)=\frac{\pi x^2}{2}-\frac{x^3}{3}$ בקטע $[0,\pi]$.

ו. בעזרת הטור הקודם הוכיחו כי $\sum_{k=1}^{\infty}\frac{1}{(2k-1)^4}=\frac{\pi^4}{96}$. רמז: הציבו $x=0$.

3) נתונה הפונקציה $f(x)=e^{x^2}$ בקטע $[-\pi,\pi]$.

נסמן $f(x)\sim\sum_{-\infty}^{\infty}\left|c_ne^{inx}\right|$ פיתוח פורייה מרוכב.

א. האם הטור $\sum_{-\infty}^{\infty}|c_n|$ מתכנס?

ב. האם הטור $\sum_{-\infty}^{\infty}n|c_n|$ מתכנס?

ג. האם הטור $\sum_{-\infty}^{\infty}n^2|c_n|^2$ מתכנס?

4) נתבונן בטור הפורייה $f(x)=\sum_{n=0}^{\infty}e^{in(x+i)}$.

כמה פעמים ניתן לגזור את $f(x)$?

5) ענו על הסעיפים הבאים:

א. הוכיחו כי $\sum_{n=1}^{\infty}\frac{\sin(nx)}{n}=\frac{\pi-x}{2}$ בקטע $(0,2\pi)$.

ב. נסמן $g(x)=\sum_{n=1}^{\infty}\frac{\sin(nx)}{n^3}$. מצאו את $g(x)$ באופן מפורש (ללא טור) בקטע $(0,2\pi)$.

6) תהי $f(x)$ גזירה ברציפות $k-1$ פעמים בקטע $[-\pi,\pi]$, גזירה ברציפות למקוטעין k פעמים כך שמתקיים $f^{(j)}(-\pi)=f^{(j)}(\pi)$ לכל $j=0,1,\dots k-1$. נסמן $f\sim\sum_{-\infty}^{\infty}c_n e^{inx}$.

הוכיחו כי $\lim_{n\to\infty}\left(n^k c_n\right)=0$.

7) ענו על הסעיפים הבאים:

א. תהי $f(x)\in L^2_{PC}[-\pi,\pi]$ פונקציה גזירה ברציפות המקיימת $f(-\pi)=f(\pi)$ ו- $\int_{-\pi}^{\pi}f(x)dx=0$. הראו כי מתקיים $\int_{-\pi}^{\pi}|f(x)|^2dx\le\int_{-\pi}^{\pi}|f'(x)|^2dx$.

ב. תהי $f(x)\in L^2_{PC}[0,\pi]$ פונקציה גזירה ברציפות המקיימת $f(0)=f(\pi)=0$.

הראו כי מתקיים $\int_{0}^{\pi}|f(x)|^2dx\le\int_{0}^{\pi}|f'(x)|^2dx$.

8) נגדיר $f(x)=\sum_{-\infty}^{\infty}\frac{1}{n^2+1}e^{in^2x}$.

א. הוכיחו כי $f(x)$ רציפה.

ב. הוכיחו כי $f(x)$ אינה גזירה ברציפות.

9) נגדיר $f(x)=\sum_{n=1}^{\infty}\frac{1}{n^3+1}\sin\left(n^{2.5}x\right)$

א. הוכיחו כי $f(x)$ רציפה.

ב. הוכיחו כי $f(x)$ אינה גזירה ברציפות.

10) נסמן $f(x)=\sum_{n=1}^{\infty}\frac{\cos(nx)}{n^{1.4}}+\frac{\sin(nx)}{n^{2.8}}$.

א. האם f רציפה?

ב. האם f גזירה ברציפות?

11) נגדיר $f(x)=\sum_{n=1}^{\infty}\frac{\sin(nx)}{n^4}$. הוכיחו כי $f(x)$ אינה גזירה 4 פעמים ברציפות.

12) נסמן $f(x)=\sum_{n=1}^{\infty}\frac{2}{n^{3.1}+i\cdot n^{2.2}}\cdot e^{inx}$. הוכיחו כי f גזירה ברציפות פעמיים.

תשובות סופיות:

1) הוכחה.

2) א. $[0,\pi]$ $\quad f(x)\sim\sum_{k=1}^{\infty}\frac{8}{\pi(2k-1)^3}\sin([2k-1]x)$

ב. ראו סרטון. ג. הוכחה. ד. הוכחה.

ה. $[0,\pi]$ $\quad \frac{\pi x^2}{2}-\frac{x^3}{3}\sim\frac{\pi^3}{12}+\sum_{k=1}^{\infty}\frac{-8}{\pi(2k-1)^4}\cos([2k-1]x)$ ו. הוכחה.

3) א. $\sum_{-\infty}^{\infty}\left|\frac{1}{n}\cdot nc_n\right|\le\frac{1}{2}\sum_{-\infty}^{\infty}\frac{1}{n^2}+\frac{1}{2}\sum_{-\infty}^{\infty}n^2|c_n|^2<\infty$ ב. $\sum_{-\infty}^{\infty}n|c_n|<\infty$

ג. $\frac{1}{2\pi}\int_{-\pi}^{\pi}|f'(x)|^2\,dx=\sum_{-\infty}^{\infty}n^2|c_n|^2$

4) ראו סרטון.

5) א. הוכחה. ב. $-\frac{\pi}{2}\frac{x^2}{2}+\frac{x^3}{12}+\frac{\pi^2}{6}x$

6) הוכחה.

7) א. הוכחה. ב. הוכחה.

8) א. הוכחה. ב. הוכחה.

9) א. הוכחה. ב. הוכחה.

10) א. $\sum_{n=1}^{\infty}\frac{1}{n^{.4}}+\sum_{n=1}^{\infty}\frac{1}{n^{2.8}}<\infty$ ב. נניח בשלילה כי f גזירה ברציפות.

11) הוכחה.

12) הוכחה.

טור פורייה בקטע כללי:

שאלות:

1) חשבו טור פורייה ממשי לפונקציה $f(x)=x^2$ בקטע $[0,2\pi]$.

2) תהי הפונקציה $f(x)=\min\{1,|x|\}$.

א. חשבו את מקדמי פורייה a_n ו- b_n של טור פורייה של $f(x)$ בקטע $[-2,2]$.

ב. חשבו את $\sum_{k=0}^{\infty}\frac{1}{(2k+1)^2}$, $\sum_{k=0}^{\infty}\frac{1}{(2k+1)^4}$.

3) נתונה הפונקציה $f(x)=e^{\frac{x}{2}}$ בקטע $[0,2]$.

א. פתחו את הפונקציה לטור פורייה מרוכב.

ב. לאיזו פונקציה מתכנס הטור? שרטטו את גרף הפונקציה (לפחות 3 מחזורים).

ג. חשבו את סכום הטור $\sum_{n=1}^{\infty}\frac{1}{1+4\pi^2n^2}$.

4) פתחו את $f(x)=|x|$ לטור פורייה בקטע $[-1,1]$.

5) פתחו את $f(x)=\begin{cases} x & 0\le x\le 1 \\ 2-x & 1<x<2 \end{cases}$ לטור סינוסים בקטע $[0,2]$.

6) נתונה פונקציה $f(x)$ המקיימת $f(x)=f(x+2)$ ובנוסף $-1\le x<1$ $f(x)=2-|x|$.

א. פתחו את הפונקציה לטור פורייה ממשי.

ב. חשבו את סכום הטור $\sum_{k=1}^{\infty}\frac{1}{(2k-1)^4}$.

ג. חשבו את הסכום $\sum_{k=1}^{\infty}\frac{1}{(2k-1)^2}$.

ד. האם טור הפורייה של $f(x)$ מתכנס במידה שווה בתחום $[-1,1]$?

7) מצאו טור קוסינוסים $f(x)=x$ בקטע $[0,3]$.

8) פתחו את $f(x)=\cos(2x)$ לטור סינוסים בקטע $[0,\pi]$.

תשובות סופיות:

1) $0 \le x \le 2\pi$ $\quad x^2 \sim \frac{4\pi^2}{3} + \sum_{n=1}^{\infty} \frac{4}{n^2} \cdot \cos nx - \frac{4\pi}{n} \cdot \sin nx$

2) א. $b_n = 0 \quad , \quad a_n = \begin{cases} \frac{-4}{\pi^2 [2k-1]^2} & n = 2k-1 \\ \frac{-8}{\pi^2 [4k-2]^2} & n = 4k-2 \\ 0 & else \end{cases}$

ב. $\sum_{k=0}^{\infty} \frac{1}{(2k+1)^2} = \frac{\pi^2}{8} \quad , \quad \sum_{k=1}^{\infty} \frac{1}{[2k-1]^4} = \frac{\pi^4}{96}$

3) א. $f(x) \sim \sum_{n=-\infty}^{\infty} \frac{(e-1)(1+2in\pi)}{1|4n^2\pi^2} e^{in\pi x}$ ב. ראו סרטון. ג. $\frac{3-e}{4(e-1)}$

4) $|x| \sim \frac{1}{2} - \frac{4}{\pi^2} \sum_{k=1}^{\infty} \frac{1}{(2k-1)^2} \cos(\pi[2k-1]x)$

5) $f(x) \sim \sum_{k=1}^{\infty} \frac{-8\cos(\pi k)}{\pi^2 [2k-1]^2} \sin\left(\frac{\pi[2k-1]x}{2}\right)$

6) א. $f(x) \sim \frac{3}{2} + \sum_{k=1}^{\infty} \frac{4}{(2k-1)^2 \pi^2} \cos([2k-1]\pi x)$ ב. $\frac{\pi^4}{96}$ ג. $\frac{\pi^2}{8}$

ד. אם f רציפה בקטע $[a,b]$, $f(a) = f(b)$ ו-f' רציפה למקוטעין אזי טור פורייה של f מתכנס במ"ש ל-f בקטע $[a,b]$.

7) $f(x) \sim \frac{3}{2} + \sum_{k=1}^{\infty} \frac{-12}{\pi^2 (2k-1)^2} \cos\left(\frac{\pi(2k-1)}{3} x\right)$

8) $\cos(2x) \sim -\sum_{k=1}^{\infty} \frac{1}{\pi} \frac{4[2k-1]}{4-[2k-1]^2} \sin([2k-1]x)$

התכנסות במידה שווה של טורי פורייה:

שאלות:

1) תהי הפונקציה $g(x)=\begin{cases}-x & -\pi\le x<0\\ \pi-x & 0\le x<\pi\end{cases}$

א. חשבו את טור פורייה הממשי של $g(x)$.

ב. עבור $-\pi\le x\le\pi$ נגדיר את הפונקציה $h(x)=a\sin\left(\frac{x}{2}\right)+\int_{-\pi}^{x}g(t)dt$

כאשר $g(x)$ מוגדרת בסעיף א'.

עבור אילו ערכים של a מתכנס טור פורייה של $h(x)$ במידה שווה

ל-$h(x)$ בקטע $[-\pi,\pi]$.

2) נגדיר פונקציה $f(x)=|\sin(x)|$ במרחב $L^2_{PC}([-\pi,\pi])$ ונסמן ב-$f'(x)$ את הנגזרת שלה.

א. חשבו את טורי הפורייה הממשיים של f ושל f'.

ב. לאילו פונקציות מתכנסים נקודתית טורי הפורייה שחישבתם?

שרטטו את הגרפים של פונקציות אלו בתחום $[-3\pi,3\pi]$.

ג. באילו קטעים סגורים מתכנס טור הפורייה של f במידה שווה?

ד. באילו קטעים סגורים מתכנס טור הפורייה של f' במידה שווה?

תשובות סופיות:

1) א. $g(x)\sim\frac{\pi}{2}+\sum_{k=1}^{\infty}\frac{1}{k}\sin(2k\cdot x)$ ב. $a=-\frac{\pi^2}{2}$

2) א. $f(x)\sim\left(\frac{2}{\pi}\right)+\sum_{k=1}^{\infty}\frac{1}{\pi}\left[\frac{-4}{(2k+1)(2k-1)}\right]\cos(2k\cdot x)$,

$f'(x)\sim\sum_{k=1}^{\infty}\frac{1}{\pi}\left[\frac{8k}{(2k+1)(2k-1)}\right]\sin(2k\cdot x)$ ב. $f'(x)=\begin{cases}\cos x & 0<x<\pi\\ -\cos x & -\pi<x<0\end{cases}$

ג. $f(x)$ פונקציה רציפה, מחזורית-2π, הנגזרת רציפה למקוטעין, ולכן טור פורייה שלה יתכנס אליה במידה שווה על פני כל הישר הממשי.

ד. טור פורייה של $f'(x)$ יתכנס אליה במידה שווה בכל תת-קטע סגור שאינו מכיל נקודות אי-רציפות של הפונקציה, כלומר בקטעים כאלו: $[\pi n+\delta,\pi(n+1)-\delta]$

לכל $0<\delta<\pi$ ולכל n שלם.

משפט הקונבולוציה:

שאלות:

1) הוכח את הטענה כי אם $f(x)$, $g(x)$ רציפות למקוטעין ומחזוריות- 2π אז $(f*g)_{(x)}$ מחזוריות- 2π.

2) הוכח את הטענה כי אם $f(x)$, $g(x)$ רציפות למקוטעין, מחזוריות- 2π ופונקציות זוגיות אז $(f*g)_{(x)}$ זוגית.

3) נתונה $f(x)$ רציפה למקוטעין ומחזורית- 2π כך שלכל $x\in[-\pi,\pi]$ מתקיים $f(x)=\sqrt{2\pi}\cdot\chi_{\left[-\frac{\pi}{2},\frac{\pi}{2}\right]}(x)$.
חשבו לכל x ממשי את הקונבולוציה $(f*f)_{(x)}$.
הערה: $\chi_{[a,b]}(x)=\begin{cases}1 & x\in[a,b]\\ 0 & else\end{cases}$.

4) נתונות $f(x)$, $g(x)$ רציפות למקוטעין ומחזוריות- 2π כך שלכל $x\in[-\pi,\pi]$ מתקיים $f(x)=x^2$, $g(x)=\cos(x)$.
חשבו לכל x ממשי את הקונבולוציה $(f*g)_{(x)}$.

5) נתונות $f(x)$, $g(x)$ רציפות למקוטעין ומחזוריות- 2π כך שלכל $x\in[-\pi,\pi]$ מתקיים $f(x)=x$, $g(x)=\chi_{[0,1]}(x)$.
חשבו לכל x ממשי את הקונבולוציה $(f*g)_{(x)}$.

תשובות סופיות:

1) הוכחה.

2) הוכחה.

3) $\pi - x$

4) לכל $-\pi \le x \le \pi$, $(f*g)_{(x)} = -2\cos(x)$

5) $$(f*g)_{(x)} = \begin{cases} \frac{1}{4\pi}\left(x^2 - (x-1)^2\right) & -\pi+1 \le x \le \pi \\ \frac{1}{4\pi}\left[x^2 - \left(x + (2\pi - 1)\right)^2\right] & -\pi \le x \le -\pi+1 \end{cases}$$

תרגילים מסכמים:

שאלות:

1) טור פורייה:

א. מצאו טור פורייה של הפונקציה $f(t)=e^{i\alpha t}$ בתחום $-\pi\le t\le\pi$ כאשר α הוא מספר ממשי לא שלם.

ב. הראו שמתקיים $\sum_{n=1}^{n=\infty}\frac{(-1)^n\cdot 2\alpha}{\left[\alpha^2-n^2\right]}=\frac{\pi}{\sin(\pi\alpha)}-\frac{1}{\alpha}$.

ג. הראו שמתקיים $\sum_{n=-\infty}^{n=\infty}\frac{1}{[\alpha-n]^2}=\frac{\pi^2}{\sin^2(\pi\alpha)}$.

ד. הראו שמתקיים $\sum_{n=0}^{\infty}\frac{(-1)^n}{(2n+1)\left((2n+1)^2-\alpha^2\right)}=\frac{\pi}{4\alpha^2}\left(\frac{1}{\cos\left(\alpha\frac{\pi}{2}\right)}-1\right)$.

2) נגדיר $f(x)=|x|$ במרחב $L^2_{PC}([-\pi,\pi])$ ונסמן ב-$f'(x)$ את הנגזרת שלה.

א. חשבו טור פורייה ממשי של f.

ב. לאיזו פונקציה מתכנס הטור הבא נקודתית בתחום $(-\infty,\infty)$?

$$\sin(x)+\frac{1}{3}\sin(3x)+\frac{1}{5}\sin(5x)+\frac{1}{7}\sin(7x)+\ldots$$

ג. חשבו את הטור $\sum_{n=0}^{\infty}\left(\frac{1}{2n+1}\right)^2$.

3) תהי $f\in L^2_{PC}([-\pi,\pi])$.

נסמן ב- c_n את מקדמי פורייה (המרוכבים) של f.

נסמן $d_n=\mathrm{Re}\{c_n\}$ ובנוסף נתון כי:

- f ממשית.
- f מתאפסת על הקטע $[-\pi,0]$.
- מתקיים השיוויון $\sum_{n=-\infty}^{n=\infty}d_n e^{inx}=x^2e^{|x|}\cos(x)$.

מצאו את f.

4) תהי f פונקציה זוגית בעלת מחזור 2π המקיימת $f(x)=\cos(2x)$ בתחום $0\le x\le\frac{\pi}{2}$ ו- $f(x)=-1$ בתחום $\frac{\pi}{2}\le x\le\pi$.

מצאו את טור פורייה הממשי של f וחשבו את הסכום $\sum_{n=1}^{\infty}\frac{(-1)^n}{[2n-1][2n+3](2n+1)}$.

האם טור פורייה של f מתכנס אליה במידה שווה? נמקו.

5) נתונה פונקציה $f(x)$ רציפה למקוטעין ומחזורית 2π.

נסמן $f(x)\sim\sum_{n=-\infty}^{n=\infty}f_n e^{inx}$ ויהי $h>0$ פרמטר כלשהו.

מצאו את מקדמי פורייה של $h(x)=\frac{1}{2h}\int_{-h}^{h}f(t+x)dt$ כתלות ב- f_n.

תשובות סופיות:

1) א. $e^{i\alpha t}\sim\sum_{n=-\infty}^{n=\infty}\frac{(-1)^n\sin(\pi\alpha)}{[\alpha-n]\pi}\cdot e^{in\cdot t}$ ב. הוכחה. ג. הוכחה. ד. הוכחה.

2) א. $f(x)\sim\frac{\pi}{2}+\sum_{k=0}^{\infty}-\frac{4}{\pi(2k+1)^2}\cos([2k+1]x)$

ב. $\begin{cases}\frac{\pi}{4} & \pi k<x<\pi(k+1)\\ -\frac{\pi}{4} & \pi(k-1)<x<\pi k\\ 0 & x=\pi k\end{cases}$, כאשר k מספר שלם. ג. $\frac{\pi^2}{8}$

3) $f(x)=\begin{cases}2x^2e^{|x|}\cos(x) & 0<x<\pi\\ 0 & -\pi<x\le 0\end{cases}$

4) התכנסות במידה שווה בקטע $[-\pi,\pi]$- אם f רציפה בקטע $[-\pi,\pi]$, $f(-\pi)=f(\pi)$ ו- $f'\in E[-\pi,\pi]$ אזי טור פורייה של f מתכנס במ"ש ל- f בקטע $[-\pi,\pi]$.

5) f_0

חדוא של טורים והתמרות

פרק 7 - מרחבי מכפלה פנימית ומרחבים נורמיים

תוכן העניינים

1. מרחבי מכפלה פנימית ומרחבים נורמיים 77
2. התכנסויות של פונקציות במרחביים נורמיים 79
3. מערכות אורתונורמליות 83
4. משפט קירוב מיטבי 87
5. מערכת אורתונורמלית סגורה 90
6. תרגילים מסכמים 91

מרחבי מכפלה פנימית ומרחבים נורמיים:

שאלות:

1) יהי V מרחב כל הפונקציות הרציפות בקטע $[a,b]$.

הוכיחו כי $\|f\|=\int_a^b |f(x)|dx$ מהווה נורמה במרחב זה.

2) יהי V מרחב כל הפונקציות הרציפות בקטע $[a,b]$.

הוכיחו כי $\|f\|=\max_{[a,b]}|f(x)|$ מהווה נורמה במרחב זה.

3) יהי $V=R_{\le 2}[x]$ המרחב הוקטורי של כל הפולינומים ממעלה קטנה / שווה מ-2 מעל הממשיים.

לכל שני פולינומים $p(x),q(x)$ ב- V נגדיר:

$\langle p(x),q(x)\rangle = p(-1)q(-1)+p(0)q(0)+p(1)q(1)$.

הוכיחו כי $\langle\cdot,\cdot\rangle$ הינה מכפלה פנימית.

4) נגדיר את המרחב $V=C^1[-1,1]$ (מרחב הפונקציות הגזירות ברציפות בקטע $[-1,1]$).

נגדיר: $\langle f(x),g(x)\rangle=\int_{-1}^{1} f(x)\overline{g(x)}dx+\int_{-1}^{1} f'(x)\overline{g'(x)}dx$.

הוכיחו כי $\langle\cdot,\cdot\rangle$ הינה מכפלה פנימית.

5) הוכיחו כי בכל מרחב מכפלה פנימית E מתקיים לכל $f,g\in E$:

א. $\langle u,f+g\rangle=\langle u,f\rangle+\langle u,g\rangle \quad \forall u\in E$.

ב. $\mathrm{Re}\langle f,g\rangle=\frac{1}{4}\left(\|f+g\|^2-\|f-g\|^2\right)$.

ג. $\mathrm{Im}\langle f,g\rangle=\frac{1}{4}\left(\|f+ig\|^2-\|f-ig\|^2\right)$.

ד. $\|f+g\|^2+\|f-g\|^2=2\left\{\|f\|^2+\|g\|^2\right\}$ (שוויון המקבילית).

6) יהי V מרחב מכפלה פנימית.

נסמן $w=u+v$ וקטורים במרחב.

הוכיחו כי אם $\langle u,v\rangle=0$ אזי $\|w\|^2=\|u\|^2+\|v\|^2$.

7) נגדיר את המרחב V להיות מרחב הפונקציות $f(x)$ הממשיות הגזירות ברציפות פעמיים בקטע $[a,b]$ (כלומר $f''(x)$ רציפה ב-$[a,b]$).

בדקו האם $\langle f,g\rangle=\int_a^b f''(x)g''(x)dx$ מהווה מכפלה פנימית במרחב זה.

8) נגדיר את המרחב V להיות מרחב של פונקציות $f(x)$ ממשיות וגזירות ברציפות בקטע $[-1,1]$ (כלומר הנגזרת $f'(x)$ רציפה בקטע $[-1,1]$) כך ש- $f(-1)=0$.

נגדיר $\langle f,g\rangle=\int_{-1}^{1} f'(x)g'(x)dx$.

הוכיחו כי $\langle f,g\rangle$ מהווה מכפלה פנימית במרחב V.

9) יהי V מרחב הפונקציות הרציפות המרוכבות בקטע $[a,b]$.

הוכיחו כי $\|f\|=\int_a^b |f(x)|dx+\max_{[a,b]}|f(x)|$ מהווה נורמה במרחב V.

תשובות סופיות:

1) הוכחה.
2) הוכחה.
3) הוכחה.
4) הוכחה.
5) הוכחה.
6) הוכחה.
7) $f(x)=1$
8) הוכחה.
9) הוכחה.

התכנסויות במרחבים נורמיים:

שאלות:

1) הוכיחו:

א. הוכיחו כי לכל $f\in C[a,b]$ מתקיים $\left|\int_a^x f(t)\,dt\right|\le\sqrt{x-a}\cdot\|f\|_{L_2[a,b]}$.

תזכורות: $\|f\|_{L_2[a,b]}=\sqrt{\int_a^b |f(t)|^2\,dt}$ ו- $\langle f,g\rangle_{L_2[a,b]}=\int_a^b f(t)\overline{g(t)}dt$.

ב. הוכיחו כי אם $f_n\to f$ בנורמה $\|\cdot\|_{L_2[a,b]}$ במרחב $C[a,b]$

אזי גם $f_n\to f$ בנורמה $\|\cdot\|_{L_1[a,b]}$.

תזכורת: $\|f\|_{L_1[a,b]}=\int_a^b |f(t)|\,dt$.

ג. האם ההיפך נכון? אם כן, הוכיחו. אם לא, תנו דוגמה נגדית.

2) יהי V מרחב נורמי.

א. הוכיחו כי לכל $u,v\in V$ מתקיים $\|u-v\|\ge\big|\|u\|-\|v\|\big|$ (אי שיוויון המשולש ההפוך).

ב. הוכיחו כי אם $f_n\xrightarrow{n\to\infty}f$ בנורמה של V אזי $\|f_n\|\xrightarrow{n\to\infty}\|f\|$.

3) נתונה סדרת הפונקציות הבאה:

$$f_n(x)=\begin{cases} n\sqrt{n}\cdot x & 0\le x\le\frac{1}{n}\\ 2\sqrt{n}-n\sqrt{n}\cdot x & \frac{1}{n}<x<\frac{2}{n}\\ 0 & \frac{2}{n}\le x\end{cases}$$

א. האם $f_n(x)$ מתכנסת נקודתית ב-$[0,10]$?

ב. האם $f_n(x)$ מתכנסת במידה שווה ב-$[0,10]$?

ג. האם $f_n(x)$ מתכנסת ב-$L^1[0,10]$?

ד. האם $f_n(x)$ מתכנסת ב-$L^2[0,10]$?

4) נתונה סדרת פונקציות $f_n(x)=n(1-x)x^n$.

א. האם $f_n(x)$ מתכנסת נקודתית ב-$[0,1]$? אם כן, מצאו את הפונקציה הגבולית.

ב. האם $f_n(x)$ מתכנסת במידה שווה ב-$[0,1]$?

ג. האם $f_n(x)$ מתכנסת בנורמת $L^1[0,1]$?

ד. האם $f_n(x)$ מתכנסת בנורמת $L^2[0,1]$?

5) נתונה $f_n(x)=\begin{cases}1 & x\in\left[n,n+\frac{1}{n}\right]\\ 0 & else\end{cases}$

א. האם $f_n(x)$ מתכנסת נקודתית על הישר הממשי?

ב. האם $f_n(x)$ מתכנסת במידה שווה על הישר הממשי?

ג. האם $f_n(x)$ מתכנסת בנורמת $L^1(-\infty,\infty)$?

ד. האם $f_n(x)$ מתכנסת בנורמת $L^2(-\infty,\infty)$?

6) יהי V מרחב וקטורי של פונקציות רציפות בקטע $[a,b]$ וגזירות שם למעט מספר סופי של נקודות, כאשר הנגזרת רציפה למקוטעין עם מכפלה פנימית $\langle f,g\rangle=f(a)g(a)+\int_a^b f'(x)g'(x)dx$.

א. לכל $x_0\in[a,b]$ נגדיר את הפונקציה $g_{x_0}(x)=\begin{cases}x-a+1 & a\le x\le x_0\\ x_0-a+1 & x_0\le x\le b\end{cases}$

הוכיחו כי לכל $f\in V$ מתקיים $\langle f(x),g_{x_0}(x)\rangle=f(x_0)$.

ב. הוכיחו כי לכל $f\in V$ ולכל $x_0\in[a,b]$ מתקיים $|f(x_0)|\le\sqrt{b-a+1}\cdot\|f\|$.

ג. נניח כי $f_n(x)\in V$ סדרת פונקציות המתכנסת בנורמת V אל $f\in V$.
הוכיחו כי ההתכנסות היא במידה שווה.

7) נגדיר את סדרת הפונקציות $f_n(x)=\left[1-\chi_n(x)\right]\left(x+\frac{1}{n}\right)^{-1}+n^{\alpha}\cdot\chi_n(x)$

כאשר $\chi_n(x)=\begin{cases}1 & x\in\left(n-\frac{1}{n^2},n+\frac{1}{n^2}\right)\\ 0 & else\end{cases}$.

א. מהם ערכי הפרמטר α עבורם סדרת הפונקציות $f_n(x)$ מתכנסת נקודתית ב-$[1,\infty)$?
אם הסדרה מתכנסת נקודתית, מהי הפונקציה הגבולית?

ב. מהם ערכי הפרמטר α עבורם סדרת הפונקציות $f_n(x)$ מתכנסת במידה שווה ב-$[1,\infty)$?

ג. מהם ערכי הפרמטר α עבורם סדרת הפונקציות $f_n(x)$ בנורמת $L^1[1,\infty)$?

8) נגדיר את סדרת הפונקציות $f_n(x)=\sum_{k=1}^{n}\frac{1}{k^2}\cdot\chi_{[2^k,2^k+k]}(x)$

כאשר $\chi_{[a,b]}(x)=\begin{cases}1 & x\in[a,b]\\ 0 & else\end{cases}$.

א. האם סדרת הפונקציות $f_n(x)$ מתכנסת בנורמת $L^1(-\infty,\infty)$?

ב. האם סדרת הפונקציות $f_n(x)$ מתכנסת בנורמת $L^2(-\infty,\infty)$?

9) נגדיר את סדרת הפונקציות הבאה במרחב $L^2[-\pi,\pi]$: $f_n(x)=\sum_{k=1}^{n}\frac{1}{\sqrt{k}}\sin(kx)$.

א. האם סדרת הפונקציות $f_n(x)$ מתכנסת בנורמת $L^2[-\pi,\pi]$ לפונקציה כלשהי?

ב. האם סדרת הפונקציות $f_n(x)$ מתכנסת במידה שווה בקטע $[-\pi,\pi]$?

נגדיר $h_n(x)=\int_0^x f_n(t)\,dt$.

ג. האם $h_n(x)$ מתכנסת במידה שווה בקטע $[-\pi,\pi]$?

ד. האם $h_n(x)$ מתכנסת בנורמת $L^2[-\pi,\pi]$?

תשובות סופיות:

1) הוכחה.

2) הוכחה.

3) א. $f(x)=0$ ב. $\sup_{[0,10]}|f_n(x)|\ge\sqrt{n}\xrightarrow{n\to\infty}\infty$

ג. $\frac{1}{2\sqrt{n}}\xrightarrow{n\to\infty}0$ ד. $\frac{2}{\sqrt{3}}\not\xrightarrow{n\to\infty}0$

4) א. $f(x)=0$ ב. $\left(\frac{n}{n+1}\right)\frac{1}{\left(1+\frac{1}{n}\right)^n}\xrightarrow{n\to\infty}\frac{1}{e}$

ג. $\frac{n}{(n+1)(n+2)}\xrightarrow{n\to\infty}0$ ד. $\frac{2n^2}{(2n+1)(2n+2)(2n+3)}\xrightarrow{n\to\infty}0$

5) א. $f(x)=0$ ב. $1\xrightarrow{n\to\infty}1$

ג. $\frac{1}{n}\xrightarrow{n\to\infty}0$ ד. $\frac{1}{n}\xrightarrow{n\to\infty}0$

6) הוכחה.

7) א. לכל ערך של α ממשי יש התכנסות נקודתית ב-$[1,\infty)$ והפונקציה הגבולית הינה $\frac{1}{x}$.

ב. $\max\left\{n^{\alpha}-\frac{1}{n+\frac{1}{n^2}}\ ,\ \frac{1}{n+1}\right\}$

ג. אין התכנסות בנורמה כיוון שסדרת הפונקציות כלל אינה שייכת למרחב הנורמי.

8) א. לא, סדרת הנורמות שואפת לאינסוף.

ב. $\sum_{k=1}^{\infty}\frac{1}{k^3}<\infty$

9) א. לא, סדרת הנורמות שואפת לאינסוף.

ב. לא, כי אם הייתה התכנסות במידה שווה אז הייתה התכנסות בנורמת $L^2[-\pi,\pi]$ (בקטע הקומפקטי).

ג. $\sup_{[-\pi,\pi]}\left|\sum_{k=n+1}^{\infty}\frac{1-\cos(kx)}{k^{1.5}}\right|\le\sum_{k=n+1}^{\infty}\frac{2}{k^{1.5}}\xrightarrow{n\to\infty}0$

ד. כן, כי התכנסות במידה שווה (בקטע סופי) גוררת התכנסות בנורמת $L^2[-\pi,\pi]$ (בקטע סופי).

מערכות אורתונורמליות:

שאלות:

1) נתבונן במערכת $\{\varphi_n(x)\}_{n=1}^{\infty}$ כאשר $\varphi_n(x)=\cos(nx)$ במרחב $L^2[-\pi,\pi]$ עם המכפלה הפנימית $\langle f,g\rangle=\frac{1}{\pi}\int_{-\pi}^{\pi} f(x)\overline{g(x)}dx$.

הוכיחו כי המערכת $\{\varphi_n(x)\}_{n=1}^{\infty}$ הינה מערכת אורתונורמלית.

2) נתבונן במערכת $\{\varphi_n(x)\}_{n=1}^{\infty}$ כאשר $\varphi_n(x)=\sin(nx)$ במרחב $L^2[0,\pi]$ עם המכפלה הפנימית $\langle f,g\rangle=\frac{2}{\pi}\int_{0}^{\pi} f(x)\overline{g(x)}dx$.

הוכיחו כי המערכת $\{\varphi_n(x)\}_{n=1}^{\infty}$ הינה מערכת אורתונורמלית .

3) יהי מרחב מכפלה פנימית V ותהי $\{\varphi_n(x)\}_{n=0}^{\infty}$ מערכת של פולינומים כך ש-$\varphi_n(x)$ הינו פולינום ממעלה n.

נניח כי לכל n,m טבעיים כך ש- $m<n$ מתקיים $\langle\varphi_n(x),x^m\rangle=0$.

הוכיחו כי המערכת $\{\varphi_n(x)\}_{n=0}^{\infty}$ אורתוגונלית במרחב זה.

4) יהי V מרחב כל הפונקציות הרציפות למקוטעין בקטע $\left[e^{-\pi},e^{\pi}\right]$ עם המכפלה הפנימית $\langle f,g\rangle=\int_{e^{-\pi}}^{e^{\pi}} f(x)\overline{g(x)}\frac{1}{x}dx$ נגדיר $\varphi_n(x)=\sin(n\ln(x))$.

הוכיחו כי המערכת $\{\varphi_n(x)\}_{n=1}^{\infty}$ אורתוגונלית במרחב זה.

5) נניח כי המערכת $\{\varphi_n(x)\}_{n=0}^{\infty}$ הינה מערכת אורתונורמלית סגורה במרחב $L^2[a,b]$ עם המכפלה הפנימית $\langle f,g\rangle_1=\int_a^b f(x)\overline{g(x)}dx$. יהיו $c>0$ ו- d ממשי כלשהוא.

הוכיחו כי המערכת $\{\psi_n(x)\}_{n=0}^{\infty}$ כאשר $\psi_n(x)=\sqrt{c}\cdot\varphi_n(c\cdot x+d)$ הינה מערכת אורתונורמלית סגורה במרחב $L^2\left[\frac{a-d}{c},\frac{b-d}{c}\right]$ עם המכפלה הפנימית $\langle f,g\rangle_2=\int_{\frac{a-d}{c}}^{\frac{b-d}{c}} f(x)\overline{g(x)}dx$.

6) יהי V מרחב מכפלה פנימית ותהי $\{e_n\}_{n=1}^{N}$ מערכת אורתונורמלית סופית.

הוכיחו כי לכל $v\in V$ מתקיים $\left\|\sum_{n=1}^{N}\langle v,e_n\rangle e_n\right\|^2=\sum_{n=1}^{N}|\langle v,e_n\rangle|^2$.

מערכת פולינומי צ'בישב:

7) יהי K מרחב כל הפונקציות המרוכבות הרציפות למקוטעין על הקטע $(-1,1)$

ונגדיר ב- K מכפלה פנימית: $\langle f,g\rangle=\int_{-1}^{1} f(x)\overline{g(x)}\cdot\frac{1}{\sqrt{1-x^2}}dx$.

הוכיחו כי אוסף הפונקציות $\{T_n(x)\}_{n=0}^{\infty}$ כאשר $T_n(x)=\cos[n\cdot\arccos(x)]$ (הנקראת גם פולינומי צ'בישב) הינה מערכת אורתוגונלית ב- K ומצאו קבועים α_n כך שהמערכת $\{\alpha_n T_n(x)\}_{n=0}^{\infty}$ היא מערכת אורתונורמלית.

מערכת פולינומי הרמיט:

8) יהי K מרחב כל הפונקציות המרוכבות המוגדרות על הישר הממשי שהן רציפות למקוטעין ומקיימות את התנאי $\int_{-\infty}^{\infty}|f(x)|^2\cdot e^{-x^2}dx<\infty$.

נגדיר על K מכפלה פנימית $\langle f,g\rangle=\int_{-\infty}^{\infty} f(x)\overline{g(x)}\cdot e^{-x^2}dx$.

הוכיחו כי פולינומי הרמיט, המוגדרים על ידי הנוסחה $H_n(x)=(-1)^n e^{x^2}\frac{d^n}{dx^n}\left[e^{-x^2}\right]$ (נוסחת רודריגז) מהווים מערכת אורתוגונלית במרחב K ומצאו להם קבועי נרמול.

רמז: הראו תחילה כי מספיק להוכיח כי לכל n,k טבעיים כך ש- $k<n$ מתקיים $\langle H_n, x^k\rangle = 0$. ניתן להיעזר בעובדה כי $\int_{-\infty}^{\infty} e^{-x^2}dx = \sqrt{\pi}$.

מערכת פולינומי לג'נדר:

9) יהי K מרחב כל הפונקציות המרוכבות הרציפות למקוטעין על הקטע $(-1,1)$ ונגדיר ב- K מכפלה פנימית: $\langle f,g\rangle = \int_{-1}^{1} f(x)\overline{g(x)}dx$.

הוכיחו כי פולינומי לג'נדר, הנתונים על ידי נוסחת רודריגז $P_n(x) = \frac{1}{2^n n!}\frac{d^n}{dx^n}\left[\left(x^2-1\right)^n\right]$ מהווים מערכת אורתוגונלית ב- K וכי $\langle P_n, P_n\rangle = \frac{2}{2n+1}$ לכל n טבעי.

רמז: הראו תחילה כי מספיק להוכיח שלכל n,k טבעיים כך ש- $k<n$ מתקיים $\langle P_n, x^k\rangle = 0$.

מערכת פולינומי לגר:

10) יהי K מרחב כל הפונקציות המרוכבות המוגדרות על הישר הממשי שהן רציפות למקוטעין ומקיימות את התנאי $\int_0^{\infty}\left|f(x)\right|^2\cdot e^{-x}dx<\infty$.

נגדיר על K מכפלה פנימית $\langle f,g\rangle = \int_0^{\infty} f(x)\overline{g(x)}e^{-x}dx$.

הוכיחו כי פולינומי לגר, המוגדרים על ידי הנוסחה $L_n(x) = \frac{1}{n!}e^x\frac{d^n}{dx^n}\left[x^n e^{-x}\right]$ (נוסחת רודריגז) מהווים מערכת אורתונורמלית במרחב K.

רמז: הראו תחילה כי מספיק להוכיח שלכל n,k טבעיים כך ש- $k<n$ מתקיים $\langle L_n, x^k\rangle = 0$.

ניתן להיעזר בנוסחה $\int_0^{\infty} x^n e^{-x}dx = n!$.

תשובות סופיות:

1) הוכחה.
2) הוכחה.
3) הוכחה.
4) הוכחה.
5) הוכחה.
6) הוכחה.
7) מערכת פולינומי צ'בישב: הוכחה.
8) מערכת פולינומי הרמיט: הוכחה.
9) מערכת פולינומי לג'נדר: הוכחה.
10) מערכת פולינומי לגר: הוכחה.

קירוב מיטבי:

שאלות:

1) מצאו את נקודות המינימום של הפונקציה:

$$F(\alpha,\beta,\gamma)=\frac{1}{\pi}\int_{-\pi}^{\pi}\left|f(x)-\alpha-\beta\cos(x)-\gamma\cos(10x)\right|^2dx$$

א. כאשר $f(x)=\cos^2(x)$

ב. כאשר $f(x)=x^3$

ג. כאשר $f(x)=\sin(x)$

2) במרחב $C[-\pi,\pi]$ נגדיר את המכפלה הפנימית $\langle f,g\rangle=\frac{1}{\pi}\int_{-\pi}^{\pi}f(x)\overline{g(x)}dx$.

נגדיר תת מרחב $W=span\{1,\sin(x),\cos(x),x\}$ ופונקציה $f(x)=|x|$.

מצאו פונקציה $g\in W$ כך ש-$\|f-g\|$ מינימלי.

<u>הערה:</u>

שימו לב שהמערכת $\{1,\sin(x),\cos(x),x\}$ איננה אורתונורמלית.

3) נתבונן במרחב $C[-1,1]$ מעל $\mathbb{C}$.

א. הוכיחו כי $\langle f,g\rangle=f(-1)\overline{g(-1)}+\int_{-1}^{1}f'(x)\overline{g'(x)}dx$ מהווה מכפלה פנימית.

ב. מצאו את כל הערכים של $\alpha,\beta,\gamma\in\mathbb{C}$ כך שהביטוי הבא יהיה מזערי

$$|-1-\alpha+\beta-\gamma|^2+\int_{-1}^{1}\left|3x^2-\beta-2\gamma x\right|^2dx$$

4) נתבונן במרחב $C[-1,1]$ מעל $\mathbb{C}$.

נתון כי $\langle f,g\rangle=\int_{-1}^{1}f(x)\overline{g(x)}dx+\int_{-1}^{1}f'(x)\overline{g'(x)}dx$ מהווה מכפלה פנימית במרחב זה.

מצאו את כל הערכים של $\alpha,\beta,\gamma\in\mathbb{C}$ כך שהביטוי הבא יהיה מזערי

$$\int_{-1}^{1}\left|x^3-\alpha-\beta x-\gamma x^2\right|^2dx+\int_{-1}^{1}\left|3x^2-\beta-2\gamma x\right|^2dx.$$

5) תהי V קבוצת הפונקציות הרציפות על הישר הממשי המקיימות $\int_{-\infty}^{\infty}|f(x)|^2 e^{-x^2}dx<\infty$.

א. הוכיחו כי V עם הפעולות הרגילות של חיבור פונקציות וכפל פונקציה בסקלר,

מהווה מרחב מכפלה פנימית כאשר $\langle f,g\rangle=\int_{-\infty}^{\infty} f(x)\overline{g(x)}e^{-x^2}dx$.

ב. הוכיחו כי כל הפולינומים שייכים ל- V.

ג. מצאו את הקירוב המיטבי של x^3 על מרחב הפולינומים מדרגה 2 לכל היותר.

<u>הערה:</u>

ניתן להשתמש באינטגרלים הבאים:

$$\int_{-\infty}^{\infty} e^{-x^2}dx=\sqrt{\pi} \quad , \quad \int_{-\infty}^{\infty} x^2e^{-x^2}dx=\frac{\sqrt{\pi}}{2} \quad , \quad \int_{-\infty}^{\infty} x^4e^{-x^2}dx=\frac{3\sqrt{\pi}}{4}$$

6) יהי L מרחב וקטורי של פונקציות ממשיות ורציפות למקוטעין על הקטע $[1,\infty)$

המקיימות $\int_{1}^{\infty} x|f(x)|^2dx<\infty$.

במרחב L מוגדרת המכפלה הפנימית $\langle f,g\rangle=\int_{1}^{\infty} f(x)g(x)xdx$.

נגדיר $W=span\left\{\frac{1}{x^{\frac{3}{2}}},\frac{1}{x^{\frac{5}{2}}}\right\}$.

מצאו את ההיטל האורתוגונלי $P_W\left(\frac{x}{e^{\sqrt{x}}}\right)$

7) תהי $f\in C[-1,1]$.

הוכיחו כי לכל פונקציה אי זוגית $g\in C[-1,1]$

מתקיים $\frac{1}{4}\int_{-1}^{1}|f(x)+f(-x)|^2dx\le\int_{-1}^{1}|f(x)-g(x)|^2dx$.

תשובות סופיות:

1) א. $\alpha=0.5\ ,\ \beta=\gamma=0$ ב. $\alpha=0\ ,\ \beta=0\ ,\ \gamma=0$ ג. $\alpha=0\ ,\ \beta=0\ ,\ \gamma=0$

2) $g(x)=\frac{\pi}{2}-\frac{4}{\pi}\cos(x)$

3) א. הוכחה. ב. $\alpha=0\ ,\ \beta=1\ ,\ \gamma=0$

4) $\alpha=\gamma=0\ ,\ \beta=\frac{9}{10}$

5) א. הוכחה. ב. הוכחה. ג. $P_W\left(x^3\right)=\frac{3}{2}x$

6) $\frac{28}{e}x^{-\frac{3}{2}}-\frac{36}{e}x^{-\frac{5}{2}}$

7) הוכחה.

מערכת אורתונורמלית סגורה:

שאלות:

1) יהי V מרחב מכפלה פנימית ותהי $\{e_n\}_{n=1}^{\infty}$ מערכת אורתונורמלית אינסופית.

א. האם קיים $v\in V$ כך ש- $\langle u,e_n\rangle=\frac{1}{\sqrt{n}}$?

ב. נניח כי $\{e_n\}_{n=1}^{\infty}$ היא מערכת אורתונורמלית סגורה.

יהיו $u,v\in V$ כך ש- $\langle u,e_n\rangle=\frac{1}{n}$ ו- $\langle v,e_n\rangle=\frac{1}{n+1}$. חשבו את $\langle u,v\rangle$.

2) יהי V מרחב מכפלה פנימית ותהי $\{e_n\}_{n=1}^{\infty}$ מערכת אורתונורמלית אינסופית.

א. יהי $u\in V$ כך ש- $\langle u,e_n\rangle=\frac{1}{\sqrt{n(n+2)}}$.

מצאו את הקירובים המיטביים u_1,u_2,u_3 ל- u בתת המרחבים $W_1=span\{e_1\}$, $W_2=span\{e_1,e_2\}$, $W_3=span\{e_1,e_2,e_3\}$ בהתאמה.

ב. נניח כי $\{e_n\}_{n=1}^{\infty}$ היא מערכת אורתונורמלית סגורה.

חשבו $\|u-u_1\|$, $\|u-u_2\|$, $\|u-u_3\|$ כאשר u_1,u_2,u_3 הם הקירובים המיטביים מהסעיף הקודם.

3) יהי V מרחב מכפלה פנימית ותהי $\{f_n\}_{n=1}^{\infty}$ מערכת אורתונורמלית סגורה ב- V.

נגדיר $g_{2n}(x)=\frac{1}{\sqrt{2}}[f_{2n-1}-f_{2n}]$, $g_{2n-1}(x)=\frac{1}{\sqrt{2}}[f_{2n-1}+f_{2n}]$.

א. הוכיחו כי המערכת $\{g_n(x)\}_{n=1}^{\infty}$ הינה מערכת אורתונורמלית ב- V.

ב. הוכיחו כי המערכת $\{g_n(x)\}_{n=1}^{\infty}$ הינה מערכת אורתונורמלית סגורה ב- V.

תשובות סופיות:

1) א. $\sum_{n=1}^{\infty}\frac{1}{n}=\sum_{n=1}^{\infty}|\langle u,e_n\rangle|^2\le\|u\|^2<\infty$ ב. $\langle u,v\rangle=1$

2) א. $u_1=\frac{1}{\sqrt{3}}\cdot e_1$, $u_2=\frac{1}{\sqrt{3}}\cdot e_1+\frac{1}{\sqrt{8}}\cdot e_2$, $u_3=\frac{1}{\sqrt{3}}\cdot e_1+\frac{1}{\sqrt{8}}\cdot e_2+\frac{1}{\sqrt{15}}\cdot e_3$

ב. $\|u-u_1\|=\sqrt{\frac{5}{12}}$, $\|u-u_2\|=\sqrt{\frac{7}{24}}$, $\|u-u_3\|=\sqrt{\frac{9}{40}}$

3) א. הוכחה. ב. הוכחה.

תרגילים מסכמים:

שאלות:

1) יהי V מרחב הפונקציות הגזירות ברציפות למקוטעין בקטע $[-\pi,\pi]$.

נגדיר על V מכפלה פנימית: $\langle f,g\rangle=\frac{1}{\pi}\int_{-\pi}^{\pi}f(x)\overline{g(x)}dx+\frac{1}{\pi}\int_{-\pi}^{\pi}f'(x)\overline{g'(x)}dx$.

אין צורך להוכיח כי זאת מכפלה פנימית.

א. הוכיחו כי המערכת $\{e^{inx}\}_{n=-\infty}^{n=\infty}$ מהווה מערכת אורתוגונלית במרחב V.

מצאו נורמה של e^{inx} המושרית מהמכפלה הפנימית הנ"ל.

ב. הוכיחו כי לא קיימת פונקציה $f\in V$ המקיימת:

$$\lim_{n\to\infty}\frac{n\left|\int_{-\pi}^{\pi}\left(f(x)-in\cdot f'(x)\right)e^{-inx}dx\right|^2}{1+n^2}=1$$

2) נגדיר $a_n=\min_{\alpha\in\mathbb{C}}\left[\frac{1}{\pi}\int_{-\pi}^{\pi}\left|\sqrt{|\cos(x)|}-\alpha\cos(nx)\right|^2dx\right]$. חשבו $\lim_{n\to\infty}a_n$.

3) נגדיר $R_n=\min_{a,b\in\mathbb{C}}\left[\frac{1}{\pi}\int_{-\pi}^{\pi}\left|\sqrt{|x|^3}-a\sin(nx)-b\sin([n+1]x)\right|^2dx\right]$. חשבו $\lim_{n\to\infty}R_n$.

4) נגדיר $g(a,b)=\left[\frac{1}{\pi}\int_{-\pi}^{\pi}\left|\min\{1,|x|\}-a-b\sin(nx)\right|^2dx\right]$.

א. מצאו את הערכים a,b עבורם $g(a,b)$ מינימלית.

ב. חשבו את $g(a,b)$ עבור a,b אלו.

תשובות סופיות:

1) א. הוכחה. ב. הוכחה.

2) $\frac{4}{\pi}$

3) $\frac{\pi^3}{2}$

4) א. $a=1-\frac{1}{2\pi}$, $b=0$ ב. $g(a,b)=2-\frac{4}{3\pi}-2\left[1-\frac{1}{2\pi}\right]^2$

חדוא של טורים והתמרות

פרק 8 - נושאים מתקדמים - הצגה פרמטרית של פונקציה

תוכן העניינים

1. הצגה פרמטרית של עקום 92
2. הנגזרת ושימושיה 94
3. שימושי האינטגרל המסוים 95

הצגה פרמטרית של עקום

שאלות

1) עברו מן ההצגה הפרמטרית הנתונה, להצגה קרטזית:

א. $t \ge 0,\ \ x = t^2 + 1,\ \ y = t^2$

ב. $0 \le t \le \pi,\ \ x = \sin t,\ \ y = \cos^2 t$

ג. $\pi \le t \le 2\pi,\ \ x = \cos t,\ \ y = 4\sin t$

2) עברו מן ההצגה הקרטזית הנתונה, להצגה פרמטרית:

א. $1 \le x \le 4,\ \ y = x^4 + 1$

ב. $-2 \le x \le 2,\ \ y = -\sqrt{4 - x^2}$

ג. $-2 \le x \le 2,\ \ y = +\sqrt{4 - x^2}$

3) להלן תיאור פרמטרי של מסלולים במישור.
על ידי חילוץ של הפרמטר t, מצאו משוואה מתאימה,
שמבטאת כל מסלול באמצעות המשתנים x ו- y בלבד:

א. $x = t - 4,\ \ y = t^2$

ב. $x = -4 + \cos t,\ \ y = 1 + 2\sin t$

ג. $x = 4 + \cos^3 t,\ \ y = 4\sin^3 t$

ד. $x = t(t+1) + 1,\ \ y = t(0.5t + 1) + 1$

ה. $x = \dfrac{20t}{4 + t^2},\ \ y = \dfrac{20t - 5t^2}{4 + t^2}$

ו. $x = ke^t + ke^{-t},\ \ y = ke^t - ke^{-t}$ (k קבוע).

לפתרון מלא בסרטוני וידאו היכנסו לאתר www.GooL.co.il
כתב ופתר – גיא סלומון ©

תשובות סופיות

1) א. $y=x-1,\ x\ge 1$ ב. $y=1-x^2,-1\le x\le 1$

ג. $x^2+\frac{y^2}{16}=1\ ,\ -1\le x\le 1, y\le 0$

2) $x=t,\ \ y=t^4+1,\ \ 1\le t\le 4$ ב. $x=2\cos t\ ,\ y=2\sin t\ ,\ \pi\le t\le 2\pi$

ג. $x=2\cos t\ ,\ y=2\sin t\ ,\ 0\le t\le \pi$

3) א. $y=(x+4)^2$ ב. $(x+4)^2+\left(\frac{y-1}{2}\right)^2=1$ ג. $x^{\frac{2}{3}}+y^{\frac{2}{3}}=4^{\frac{2}{3}}$

ד. $x^2-4xy+4y^2=2y-1$ ה. $x^2+y^2=25$ ו. $x^2-y^2=4k^2$

לפתרון מלא בסרטוני וידאו היכנסו לאתר www.GooL.co.il
כתב ופתר – גיא סלומון ©

הנגזרת ושימושיה

שאלות

1) חשבו את הנגזרות הראשונה והשנייה של הפונקציה $\begin{cases} x(t)=t-\sin t \\ y(t)=t\cos t \end{cases}$, הנתונה בצורה פרמטרית .

2) נתון העקום $\begin{cases} x=t^2+t \\ y=1-2t \end{cases}$.

א. שרטטו את העקום.

ב. חשבו את $y'(x)$ בשלוש דרכים שונות.

ג. מצאו את משוואת המשיק לעקום, בנקודה בה $t=-1$.

ד. מצאו את משוואת הנורמל לעקום, בנקודה בה $t=-1$.

3) נתון העקום $\begin{cases} x=t^3-3t \\ y=3t^2-9 \end{cases}$.

א. שרטטו את העקום.

ב. מצאו את משוואת המשיק לעקום בנקודה $(0,0)$.

ג. מצאו את הנקודות עבורן המשיק לעקום הוא אופקי, ואת הנקודות עבורן המשיק לעקום הוא אנכי.

ד. עבור אילו ערכים של t העקום קמור/קעור?

תשובות סופיות

1) $y'=\dfrac{\cos t-\sin t\cdot t}{1-\cos t}$, $y''=\dfrac{(-t\cos t-2\sin t)(1-\cos t)-\sin t(\cos t-t\sin t)}{(1-\cos t)^3}$

2) א. ראו בסרטון. ב. $y'=\dfrac{-2}{2t+1}$ ג. $y=2x+3$ ד. $y=-0.5x+3$

3) א. ראו בסרטון. ב. $y=\pm\sqrt{3}x$ ג. אופקי- $(0,-9)$ אנכי $(-2,-6),(2,-6)$

ד. $-1<t<1$ קמור. $t>1$ או $t<-1$ קעור.

לפתרון מלא בסרטוני וידאו היכנסו לאתר www.GooL.co.il
כתב ופתר – גיא סלומון ©

שימושי האינטגרל המסוים

1) חשבו את השטח הכלוא בעקום $C:\begin{cases} x=\cos 2t \\ y=\sin 4t \end{cases}$.

2) חשבו את השטח הכלוא בתוך האליפסה $\frac{x^2}{a^2}+\frac{y^2}{b^2}=1$, כאשר $a,b>0$.
* שימו לב שאם $a=b=r$, נקבל שטח הכלוא בתוך מעגל עם רדיוס r.

3) חשבו את השטח הכלוא בין העקום $0\le t\le \pi,\quad x=\cos t,\quad y=t+\sin t$
לבין ציר ה- x.

4) חשבו את השטח הכלוא בין העקום $0\le t\le 2\pi,\quad x=4\cos t,\quad y=\sin^2 t$
לבין ציר ה- x.

5) חשבו את אורך העקום $\begin{cases} x=t-\sin t \\ y=1-\cos t \end{cases}$ $0\le t\le 2\pi$.

6) חשבו את אורך העקום $\begin{cases} x=\cos t \\ y=t+\sin t \end{cases}$, מהנקודה $(1,0)$ לנקודה $(-1,\pi)$.

7) חלקיק נע לאורך מסלול, המוגדר על ידי ההצגה הפרמטרית
$\begin{cases} x=\cos 2t \\ y=\sin 2t \end{cases}$ $0\le t\le 2\pi$
מצאו את המרחק שהחלקיק עבר והשוו אותו לאורך העקום עצמו.

8) חלק העקום $\begin{cases} x=r\cos t \\ y=r\sin t \end{cases}$, שבין $t=0$ לבין $t=\pi$, מסתובב סביב ציר ה- x.
מהו שטח המעטפת הנוצרת?

9) חלק העקום $\begin{cases} x=\cos^3 t \\ y=\sin^3 t \end{cases}$, שבין $t=0$ לבין $t=\frac{\pi}{2}$, מסתובב סביב ציר ה- y.
מהו שטח המעטפת הנוצרת?

10) חשבו את אורך העקום $-\pi\le t\le 2\pi$ $\begin{cases} x=4\sin t \\ y=10t \\ z=4\cos t \end{cases}$.

לפתרון מלא בסרטוני וידאו היכנסו לאתר www.GooL.co.il
כתב ופתר – גיא סלומון ©

11) חשבו את אורך העקום $\mathbf{r}(t)=\left(e^t\cos t\right)\mathbf{i}+\left(e^t\sin t\right)\mathbf{j}+\left(e^t\right)\mathbf{k}$, $1\le t\le 3$.

תשובות סופיות

1) $8/3$

2) πab

3) 1.5π

4) $16/3$

5) 8

6) 4

7) אורך העקום הוא 2π. המרחק שעבר החלקיק הוא 4π.

8) $4\pi r^2$

9) $6\pi/5$

10) $6\pi\sqrt{29}$

11) $\sqrt{3}e\left(e^2-1\right)$

לפתרון מלא בסרטוני וידאו היכנסו לאתר www.GooL.co.il
כתב ופתר – גיא סלומון ©

חדוא של טורים והתמרות

פרק 9 - נושאים מתקדמים - הצגה פולרית של פונקציה

תוכן העניינים

1. קואורדינטות קוטביות 97
2. הנגזרת ושימושיה 99
3. שימושי האינטגרל המסוים 100

קואורדינטות קוטביות

שאלות

1) ענו על הסעיפים הבאים:

א. המירו את הנקודה הקוטבית $\left(4,\frac{\pi}{3}\right)$ לנקודה קרטזית.

ב. המירו את הנקודה הקרטזית $(-1,-1)$ לנקודה קוטבית.

2) ענו על הסעיפים הבאים:

א. המירו את הנקודה הקוטבית $\left(10,-\frac{\pi}{3}\right)$ לנקודה קרטזית.

ב. המירו את הנקודה הקרטזית $(0,-4)$ לנקודה קוטבית.

ג. המירו את הנקודה הקרטזית $(-2,2)$ לנקודה קוטבית.

3) ענו על הסעיפים הבאים:

א. המירו את המשוואה $4x-x^2=1+xy$ לקואורדינטות קוטביות.

ב. המירו את המשוואה $r=-4\cos\theta$ לקואורדינטות קרטזיות.

4) ענו על הסעיפים הבאים:

א. המירו את המשוואה $x^2+y^2=4y$ לקואורדינטות פולריות.

ב. המירו את המשוואה $x=10$ לקואורדינטות פולריות.

ג. המירו את המשוואה $y=4$ לקואורדינטות פולריות.

5) ענו על הסעיפים הבאים:

א. המירו את המשוואה $r=4$ לקואורדינטות קרטזיות.

ב. המירו את המשוואה $\theta=\pi/4$ לקואורדינטות קרטזיות.

ג. המירו את המשואה $r=2\cos\theta+4\sin\theta$ לקואורדינטות קרטזיות.

ד. המירו את המשוואה $6r^3\sin\theta=4-\cos\theta$ לקואורדינטות קרטזיות.

לפתרון מלא בסרטוני וידאו היכנסו לאתר www.GooL.co.il
כתב ופתר – גיא סלומון ©

תשובות סופיות

1) א. $(x,y)=\left(2,2\sqrt{3}\right)$ ב. $(r,\theta)=\left(\sqrt{2},\frac{5\pi}{4}\right)$

2) א. $(x,y)=\left(5,-5\sqrt{3}\right)$ ב. $(r,\theta)=\left(4,\frac{3\pi}{2}\right)$ ג. $(r,\theta)=\left(\sqrt{8},\frac{3\pi}{4}\right)$

3) א. $4r\cos\theta-r^2\cos^2\theta=1+r\cos\theta\cdot r\sin\theta$ ב. $(x+2)^2+y^2=2^2$

4) א. $r=4\sin\theta$ ב. $r\cos\theta=10$ ג. $r\sin\theta=4$

5) א. $x^2+y^2=4^2$ ב. $y=x$ ג. $(x-1)^2+(y-2)^2=5$

ד. $6\left(\sqrt{x^2+y^2}\right)^3\cdot y=4\sqrt{x^2+y^2}-x$

לפתרון מלא בסרטוני וידאו היכנסו לאתר www.GooL.co.il
כתב ופתר – גיא סלומון ©

הנגזרת ושימושיה

שאלות

1) מצאו את משוואת המשיק לעקום $r=3+8\sin\theta$ בנקודה $\theta=\frac{\pi}{6}$.

2) מצאו את משוואת המשיק לעקום $r=1-2\sin\theta$ בראשית הצירים.

תשובות סופיות

1) $y=\frac{11\sqrt{3}}{5}x-\frac{98}{5}$

2) $y=\frac{\sqrt{3}}{3}x\ ,\ y=-\frac{\sqrt{3}}{3}x$

לפתרון מלא בסרטוני וידאו היכנסו לאתר www.GooL.co.il
כתב ופתר – גיא סלומון ©

שימושי האינטגרל המסוים

שאלות

1) חשבו את השטח של הלולאה הפנימית של $r=2(1+2\cos\theta)$.

2) חשבו את השטח הכלוא בתוך $r=6+4\cos\theta$ ומשמאל לציר ה- y.

3) חשבו את השטח הכלוא בתוך $r=3+2\sin\theta$.

4) חשבו את השטח המוגבל בתוך $r=3+2\sin\theta$ ומחוץ ל- $r=2$.

5) חשבו את השטח המוגבל בתוך $r=2$ ומחוץ ל- $r=3+2\sin\theta$.

6) חשבו את השטח המוגבל בתוך $r=2$ ובתוך $r=3+2\sin\theta$.

7) חשבו את השטח הכלוא בתוך המעגל $r=2\sin\theta$ ומחוץ למעגל $r=1$.

8) מצאו את אורך הקרדיואידה $r=1+\cos\theta$.

9) מצאו את האורך של עלה אחד של הוורד $r=3\sin 2\theta$.
אין צורך לחשב את האינטגרל!

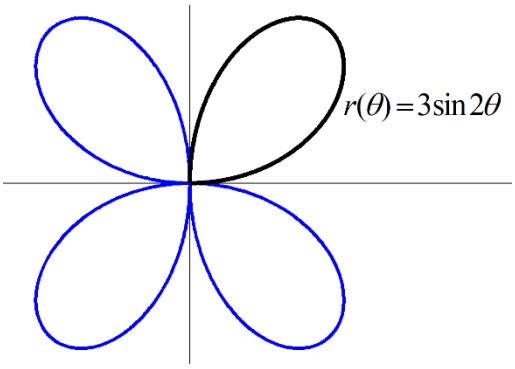

10) מצאו את אורך העקום $r=\theta$, כאשר $0\le\theta\le 1$.

11) העקום $r=\cos\theta$, כאשר $0\le\theta\le\frac{\pi}{2}$, מסתובב סביב ציר ה- x.
מהו שטח המעטפת של הגוף הנוצר?

12) העקום $r=4+4\sin\theta$, כאשר $-\frac{\pi}{2}\le\theta\le\frac{\pi}{2}$, מסתובב סביב ציר ה- y .
מהו שטח המעטפת של הגוף הנוצר?

תשובות סופיות

1) $S=4\pi-6\sqrt{3}=2.174$

2) $S=22\pi-48$

3) $S=11\pi$

4) $S=\frac{11\sqrt{3}}{2}+\frac{14\pi}{3}=24.187$

5) $S=\frac{11\sqrt{3}}{2}-\frac{7\pi}{3}=2.196$

6) 10.37

7) $S=\frac{\pi}{3}+\frac{\sqrt{3}}{2}$

8) 8

9) $\ell=3\int_0^{\frac{\pi}{2}}\sqrt{1+3\cos^2 2\theta}\,d\theta$

10) $\ell=\frac{\sqrt{2}+\ln\left(\sqrt{2}+1\right)}{2}$

11) $S_x=\pi$

12) $S_y=102.4\pi$

נספח - גרפים נפוצים בקואורדינטות פולריות

קווים

1) $r\cos\theta = a$ - הישר $x = a$.
2) $r\sin\theta = b$ - הישר $y = b$.
3) $\theta = \beta$ - הישר העובר דך הראשית $y = (\tan\beta)x$.

מעגלים

1. $r = a$ - מעגל שמרכזו בראשית הצירים ורדיוסו a.
2. $r = 2a\cos\theta$ - מעגל שמרכזו בנקודה $(a,0)$ ורדיוסו $|a|$.
3. $r = 2b\sin\theta$ - מעגל שמרכזו בנקודה $(0,b)$ ורדיוסו $|b|$.
4. $r = 2a\cos\theta + 2b\sin\theta$ - מעגל שמרכזו בנק' (a,b) ורדיוסו $\sqrt{a^2+b^2}$.

קרדיודות ולמניסקטות

1) קרדיודות $r = a \pm a\cos\theta,\ r = a \pm a\sin\theta$:
גרף בצורת לב שמכיל את הראשית.

2) למניסקטות עם לולאה פנימית $r = a \pm b\cos\theta,\ r = a \pm b\sin\theta$ $(a < b)$:
גרף שיכיל לולאה פנימית ושתמיד יכיל את הראשית.

3) למניסקטות ללא לולאה פנימית $r = a \pm b\cos\theta,\ r = a \pm b\sin\theta$ $(a > b)$:
גרף ללא לולאה פנימית שאינו מכיל את הראשית.

* נשרטט בדרך כלל עבור מחזור שלם $0 \le \theta \le 2\pi$.

לפתרון מלא בסרטוני וידאו היכנסו לאתר www.GooL.co.il
כתב ופתר – גיא סלומון ©

למינסקטות ביתר פירוט

הגרף של $r = a + b\cos\theta$:

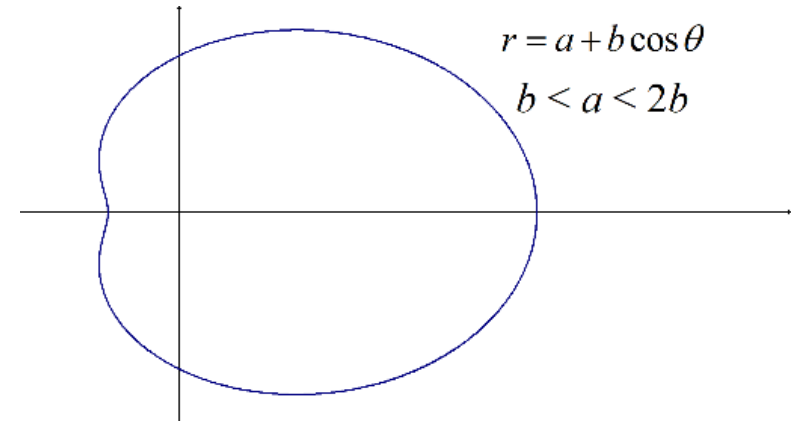

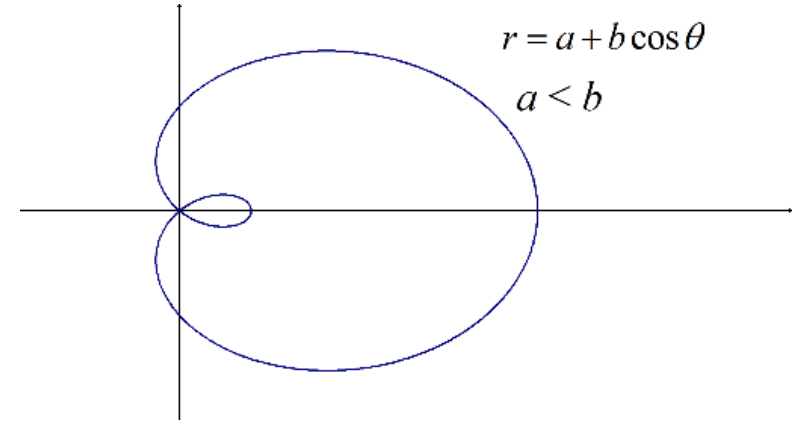

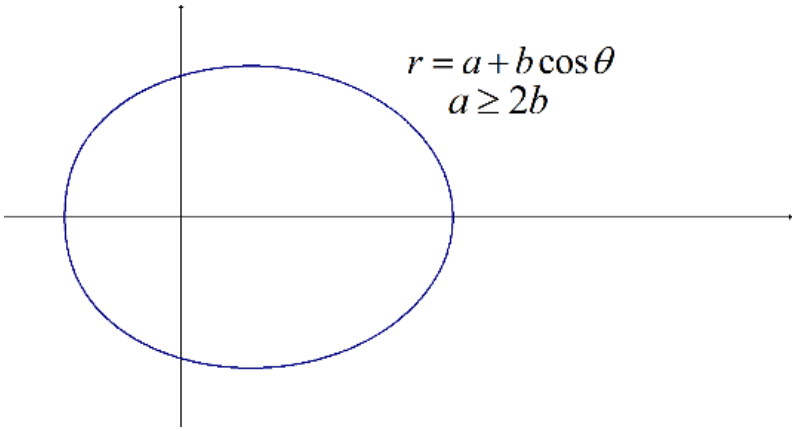

כתב ופתר – גיא סלומון ©

הגרף של $r = a - b\cos\theta$

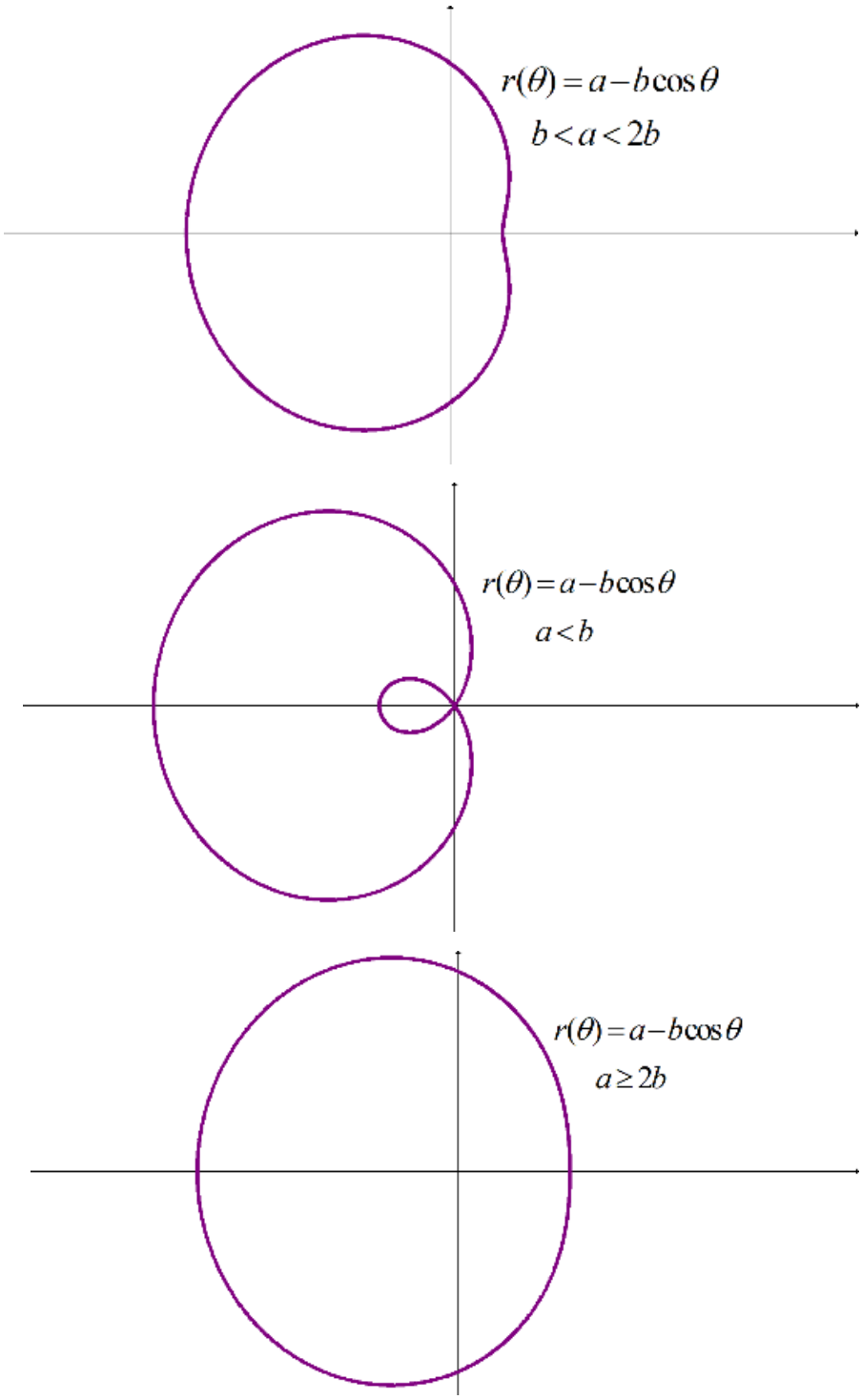

כתב ופתר – גיא סלומון ©

הגרף של $r = a + b\sin\theta$

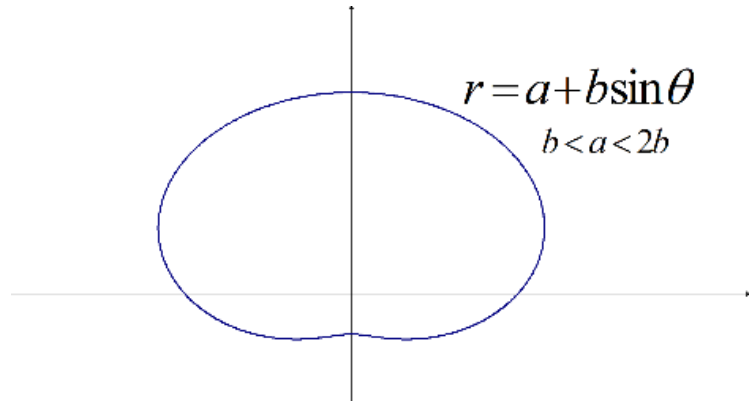

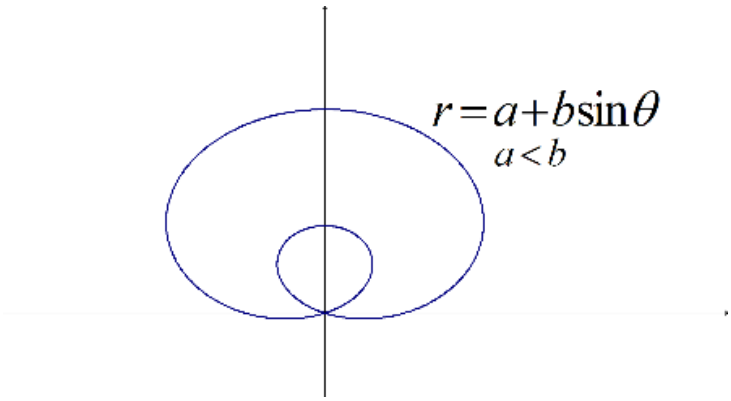

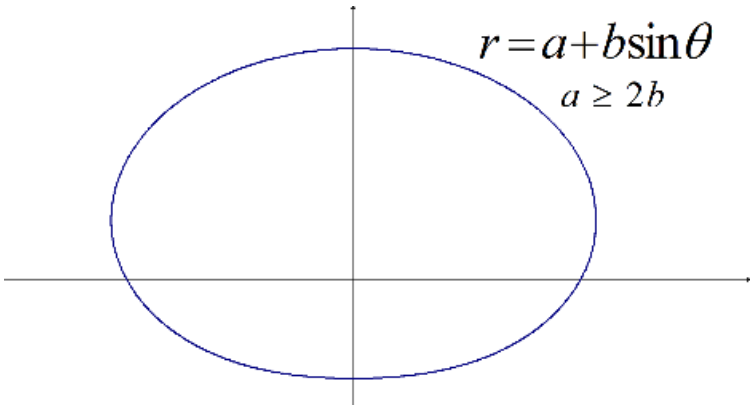

הגרף של $r = a - b\sin\theta$

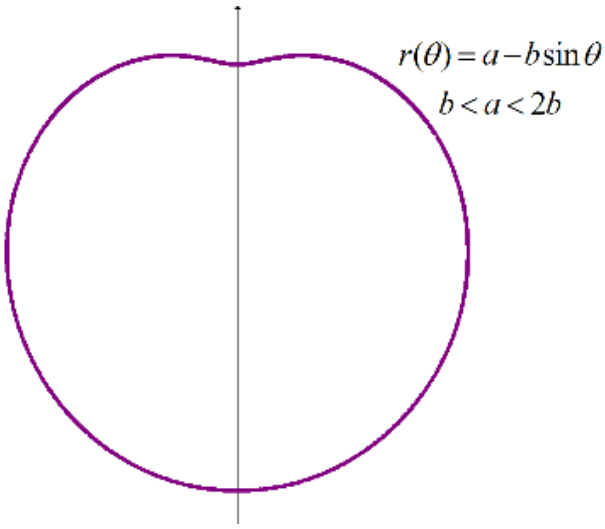

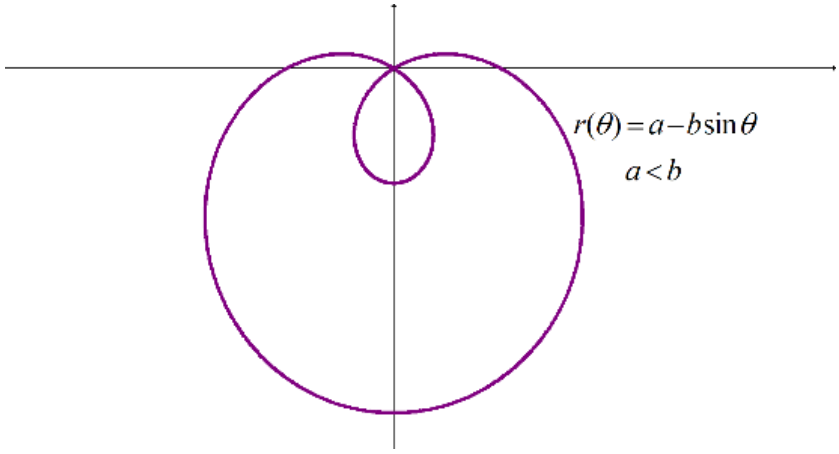

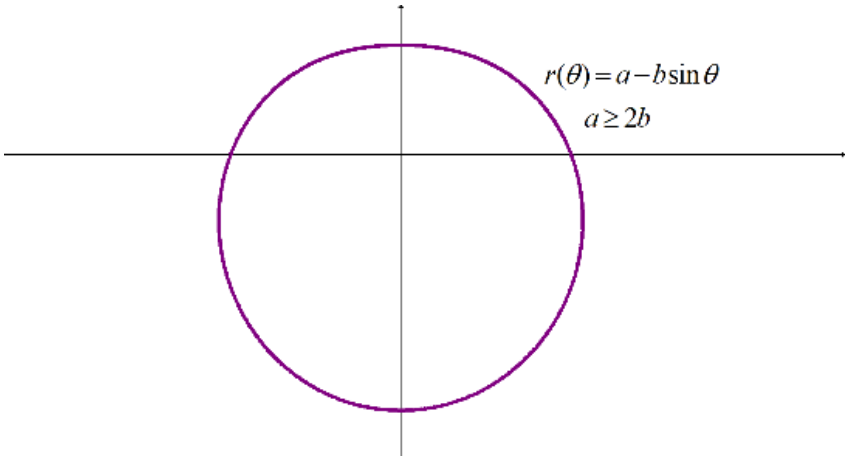

גרפים נפוצים נוספים

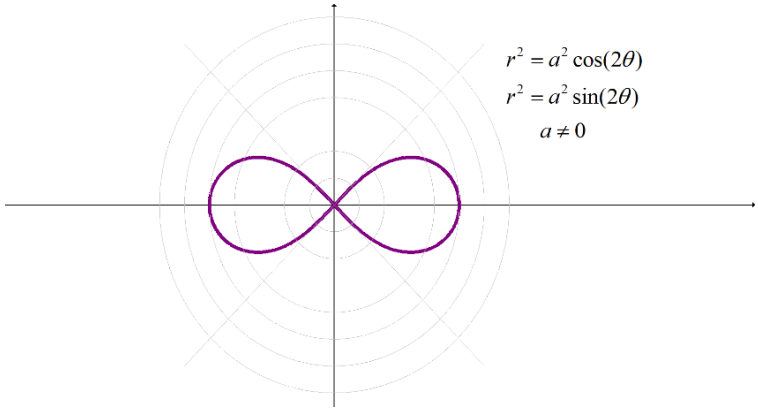

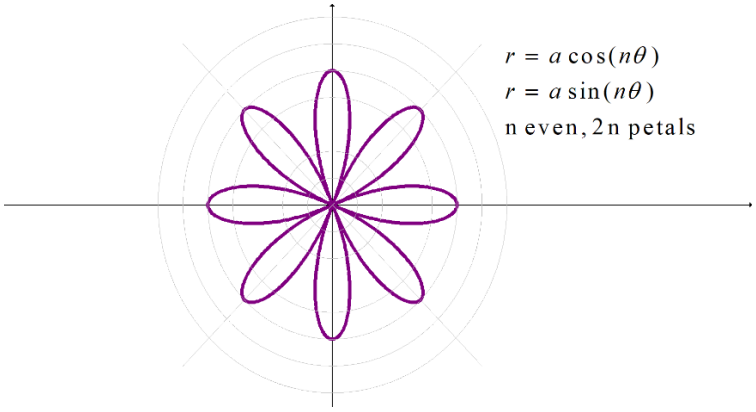

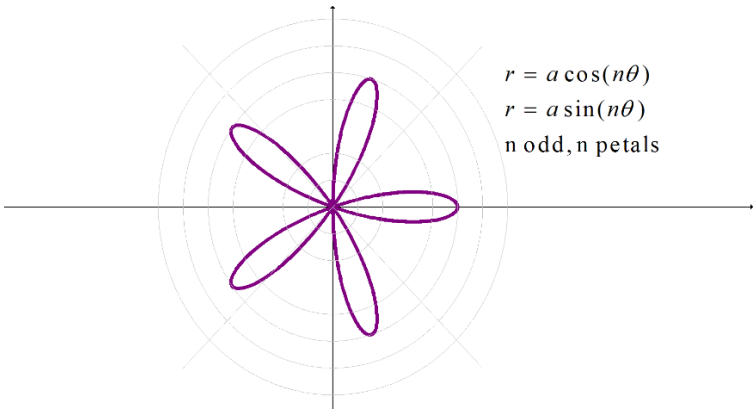

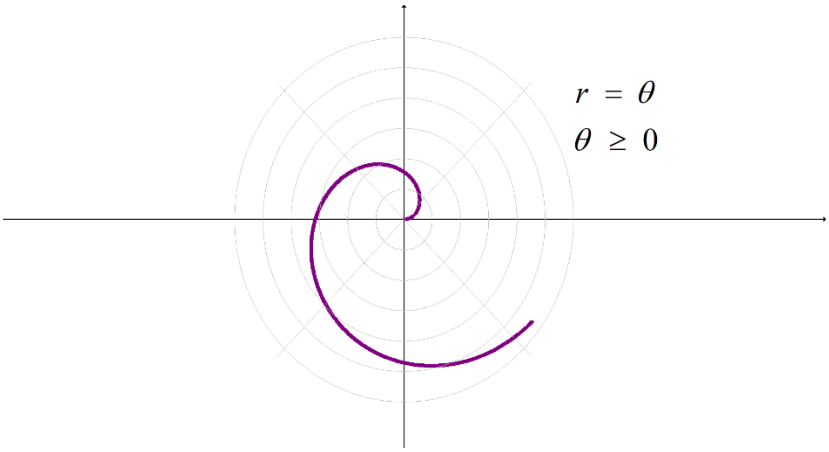

לפתרון מלא בסרטוני וידאו היכנסו לאתר www.GooL.co.il
כתב ופתר – גיא סלומון ©